मध्य प्रदेश कर्मचारी चयन मंडल

मध्य प्रदेश पुलिस

MP POLICE

आरक्षक/कांस्टेबल

तार्किक ज्ञान, बौद्धिक क्षमता एवं मानसिक अभिरुचि

अध्यायवार सॉल्व्ड पेपर्स

GET IT ON Google Play Best Study PDF के लिए हमारी App को Download करें "GK Trick By Nitin Gupta"

Click to Join

विषय-सूची

■ **भाग-1 : सादृश्यता (Analogy) 7-42**

- Type-1: हिन्दी शब्दों पर आधारित सादृश्यता 7
- Type-2: अंग्रेजी शब्दों पर आधारित सादृश्यता 19
- Type-3: वाक्यों में दिये गये अंग्रेजी तथा हिन्दी शब्दों पर आधारित सादृश्यता 21
- Type-4: अंग्रेजी वर्णमाला पर आधारित सादृश्यता 22
- Type-5: संख्याओं पर आधारित सादृश्यता 26
- Type-6: आकृतियों पर आधारित सादृश्यता 34
- Type-7: विविध 40

■ **भाग-2 : कोडिंग-डिकोडिंग (Coding-Decoding) 43-103**

- Type-1: अंग्रेजी वर्णमाला के अक्षरों के अंकों में कूट पर आधारित प्रश्न 43
- Type-2: अंग्रेजी वर्णमाला के अक्षरों की अक्षरों में कोडिंग पर आधारित प्रश्न 58
- Type-3: शब्द समूहो की कोडिंग पर आधारित प्रश्न 87
- Type-4: विविध 96

■ **भाग-3 : वर्गीकरण (Classification) 104-122**

- Type-1: शब्दों पर आधारित वर्गीकरण 104
- Type-2: अंग्रेजी वर्णमाला के अक्षरों तथा प्रतीकों पर आधारित वर्गीकरण 112
- Type-3: संख्या/संख्या-युग्म पर आधारित वर्गीकरण 113
- Type-4: विविध 122

■ **भाग-4 : श्रृंखला (Series) 123-160**

- Type-1: अंकों पर आधारित श्रृंखला 123
- Type-2: अक्षरों पर आधारित श्रृंखला 133
- Type-3: अंको तथा अक्षरों की मिश्रित श्रृंखला 143
- Type-4: आकृतियों पर आधारित श्रृंखला 150
- Type-5: विविध 155

■ **भाग-5 : लुप्त संख्या/अक्षर/पद/आकृति (Missing Number/Letter/Term/Figure) 161-185**

- Type-1: लुप्त संख्या पर आधारित प्रश्न 161
- Type-2: लुप्त अक्षर पर आधारित प्रश्न 168
- Type-3: लुप्त आकृति पर आधारित प्रश्न 178
- Type-4: विविध 184

■ **भाग-6 : दिशा परीक्षण (Direction Test) 186-202**

■ **भाग-7 : रक्त संबंध (Blood Relation) 203-220**

- Type-1: हिन्दी नामों पर आधारित संबंध 203
- Type-2: अंग्रेजी वर्णमाला के अक्षरों के नामकरण पर आधारित रक्त संबंध 209
- Type-3: विविध 218

GET IT ON Google Play Best Study PDF के लिए हमारी App को Download करें "GK Trick By Nitin Gupta"

■ **भाग-8 : अंकगणितीय संक्रियाएँ (Arithmetical Operations) 221-241**

❍ Type-1. अंग्रेजी वर्णमाला के अक्षरों के गणितीय चिन्हों में परिवर्तन पर आधारित अंकगणितीय संक्रियाएँ..... 221
❍ Type-2: गणितीय चिन्हों के गणितीय चिन्हों में परिवर्तन पर आधारित अंकगणितीय संक्रियाएँ..... 226
❍ Type-3: प्रतीकों के गणितीय चिन्हों में परिवर्तन पर आधारित अंकगणितीय संक्रियाएँ..... 236
❍ Type-4: अंको/संख्याओं तथा गणितीय चिन्हों के परस्पर परिवर्तन पर आधारित अंकगणितीय संक्रियाएँ..... 237
❍ Type-5: गणितीय चिन्हों की विलुप्तता पर आधारित अंकगणितीय संक्रियाएँ 241

■ **भाग-9 : वेन आरेख (Venn Diagram) 242-290**

■ **भाग-10 : आरेख-विश्लेषण (Diagram Analysis) 291-302**

❍ Type-1: अंग्रेजी वर्णमाला के अक्षरों एवं प्रतीकों पर आधारित आरेख संबंधी प्रश्न..... 291
❍ Type-2: अंकों पर आधारित आरेख संबंधी प्रश्न..... 293

■ **भाग-11 : विश्लेषणात्मक तर्क शक्ति (Analytical Reasoning).....303-314**

■ **भाग-12 : न्याय निगमन (Syllogism).....315-316**

❍ Type-1: 'कुछ' तथा 'सभी' दोनों वाले कथन पर आधारित न्याय निगमन..... 315
❍ Type-2: 'कुछ' तथा 'कोई नहीं' दोनों वाले कथन पर आधारित न्याय निगमन..... 316

■ **भाग-13 : कथन और निष्कर्ष (Statement and Conclusion) 317-333**

❍ Type-1: सामान्य कथन और निष्कर्ष..... 317
❍ Type-2: गणितीय संक्रियाओं पर आधारित कथन और निष्कर्ष..... 327
❍ Type-3: विविध 330

■ **भाग-14 : कथन/तर्क/वक्तव्य एवं पूर्वधारणा/अवधारणा/पूर्वानुमान/मान्यता/कार्यवाही (Statement and Assumption/Operations) 334-349**

❍ Type-1: कथन/तर्क/वक्तव्य तथा धारणा/ पूर्वधारणा पर आधारित प्रश्न 334
❍ Type-2: कथन/तर्क/वक्तव्य तथा पूर्वानुमान/ अनुमान पर आधारित प्रश्न 338
❍ Type-3: कथन/तर्क/वक्तव्य तथा मान्यता पर आधारित प्रश्न 345
❍ Type-4: कथन/तर्क/वक्तव्य तथा कार्यवाही पर आधारित प्रश्न 349

■ **भाग-15 : क्रम एवं बैठने की व्यवस्था (Sequence and Sitting Arrangement).....350-378**

❍ Type-1: पंक्ति तथा वर्णमाला पर आधारित क्रम व्यवस्था..... 350
❍ Type-2: वृत्ताकार, वर्गाकार आदि आकृतियों पर आधारित क्रम एवं बैठक व्यवस्था 361
❍ Type-3: शृंखला पर आधारित क्रम व्यवस्था 364
❍ Type-4: ऊंचाई/लम्बाई/वजन आदि पर आधारित क्रम व्यवस्था 365
❍ Type-5: अक्षरों/शब्दों पर आधारित क्रम व्यवस्था 375

■ **भाग-16 : कैलेण्डर-घड़ी (Calendar/Clock) 379-403**

❍ Type-1: तिथि तथा दिवस पर आधारित प्रश्न..... 379
❍ Type-2: वर्ष पर आधारित प्रश्न 387
❍ Type-3: घड़ी की सुईयों के बीच के कोण पर आधारित प्रश्न 390
❍ Type-4: समय पर आधारित प्रश्न..... 395
❍ Type-5: विविध 400

GET IT ON Google Play **Best Study PDF के लिए हमारी App को Download करें "GK Trick By Nitin Gupta"**

■ **भाग-17 : आकृति निर्माण एवं विभाजन (Formation and Division of figure).....404-439**
❍ Type-1: आकृतियों के संयोजन से निर्मित आकृति पर आधारित प्रश्न 404
❍ Type-2: आकृतियों के घुमाव तथा मोड़ने से निर्मित आकृति पर आधारित प्रश्न..... 410
❍ Type-3: प्रश्न आकृतियों की निकटतम समानता पर आधारित प्रश्न..... 432
❍ Type-4: प्रश्न आकृति के विकल्प आकृतियों में सन्निहित/अंतर्निहित होने पर आधारित प्रश्न..... 434
■ **भाग-18 : रेखाओं एवं आकृतियों की गणना (Lines and Figures counting) 440-461**
❍ Type-1: त्रिभुजों की गणना पर आधारित प्रश्न..... 441
❍ Type-2: चतुर्भुजों की गणना पर आधारित प्रश्न..... 454
❍ Type-3: आयतों की गणना पर आधारित प्रश्न..... 454
❍ Type-4: वर्गों की गणना पर आधारित प्रश्न..... 456
❍ Type-5: वृत्तों की गणना पर आधारित प्रश्न 458
❍ Type-6: रेखाओं/पंक्तियों की गणना पर आधारित प्रश्न 459
■ **भाग-19 : जल एवं दर्पण प्रतिबिम्ब (Water and Mirror Image).....462-486**
❍ Type-1: आकृतियों के दर्पण प्रतिबिम्ब पर आधारित प्रश्न 462
❍ Type-2: अक्षरों, अक्षर समूहों तथा शब्दों के जल तथा दर्पण प्रतिबिम्ब पर आधारित प्रश्न..... 479
■ **भाग-20 : पासा/घन/घनाभ (Dice/Cube/Cuboid).....487-500**
■ **भाग-21 : विविध (Miscellaneous).....501-512**

पाठ्यक्रम

1. परीक्षा योजना-

a. **प्रथम चरण लिखित परीक्षा –** हिन्दी भाषा में बहुविकल्पीय प्रश्न (MCQ)

b. **द्वितीय चरण परीक्षा योजना –**

क. शारीरिक दक्षता परीक्षण

2. प्रथम चरण परीक्षा योजना –

आरक्षक (जीडी)

(i). **प्रथम चरण लिखित परीक्षा –** हिन्दी भाषा में बहुविकल्पीय प्रश्न (MCQ)

क. अवधि – 2घंटे, 100 प्रश्न

ख. अंक योजना

(1) अधिकतम 100 अंक

(2) सही उत्तर के लिये +1 अंक दिए जाएंगे।

(3) जिन प्रश्नों के उत्तर के प्रयास नहीं किए गए या उत्तर गलत हैं, उनके लिये कोई अंक नहीं काटा जाएगा।

ग. **प्रश्नों के प्रकार –** वस्तुनिष्ठ (MCQ)

(1). 40 अंक- सामान्य ज्ञान एवं तार्किक ज्ञान।

(2). 30 अंक – बौद्धिक क्षमता एवं मानसिक अभिरुचि।

(3). 30 अंक – विज्ञान एवं सरल अंक गणित।

घ. वर्टिकल श्रेणी के विज्ञापित पदों के विरूद्ध सात गुना अभ्यर्थियों को कट-ऑफ अंकों अनुसार आरक्षक (जीडी) पद हेतु शारीरिक दक्षता परीक्षण के लिए चुना जाएगा। ''विशेष सशस्त्र बल एवं विशेष सशस्त्र बल को छोड़कर'' के लिए एक ही कट-ऑफ अंकों का निर्धारण होगा।

ड. होरीजोंटल श्रेणियों के लिए पृथक से कट-ऑफ अंकों का निर्धारण नहीं किया जाएगा।

GET IT ON Google Play Best Study PDF के लिए हमारी App को Download करें "GK Trick By Nitin Gupta"

प्रश्न-पत्रों का विश्लेषण

पूर्व परीक्षाओं में पूछे गये प्रश्न-पत्रों का विश्लेषण चार्ट

क्र.	परीक्षा का नाम एवं परीक्षा वर्ष	कुल परीक्षा प्रश्न
A.	**MP ESB Police Constable -2023**	
	Aug.- 2023 Sept.- 2023	**42×100 = 4200** **28×100 = 2800**
B.	**MP ESB Police Constable -2022**	
	Feb.- 2022	**32×100 = 3200**
	Jan.- 2022	**40×100 = 4000**
C.	**MP ESB Police Constable 2017**	
	Aug./Sept.-2017	**54×100 = 5400**
D.	**MP ESB Police Constable 2016**	
	July & Aug.-2016	**54×100 = 5400**
E.	**MP ESB Police Constable 2013**	
	7/04/2013 &15/09/2013	**2×100 = 200**
	कुल प्रश्न-पत्र = 252	

नोट- उपरोक्त प्रश्न-पत्रों के सम्यक विश्लेषण के उपरान्त यथा संभव समान प्रकृति एवं प्रवृत्ति से बचते हुए **तार्किक ज्ञान, बौद्धिक क्षमता एवं मानसिक अभिरुचि** से सम्बन्धित कुल **2424** प्रश्नों को अध्यायवार प्रस्तुत किया गया है। दुहराव वाले प्रश्नों का परीक्षा वर्ष एवं परीक्षा नाम यथास्थान निर्दिष्ट कर दिया गया है ताकि प्रश्न पूछने की तकनीकि का प्रतियोगियों को लाभ मिल सके।

GET IT ON Google Play Best Study PDF के लिए हमारी App को Download करें "GK Trick By Nitin Gupta"

पूर्व परीक्षाओं में पूछे गये प्रश्नों का विश्लेषणात्मक पाई चार्ट एवं बार ग्राफ

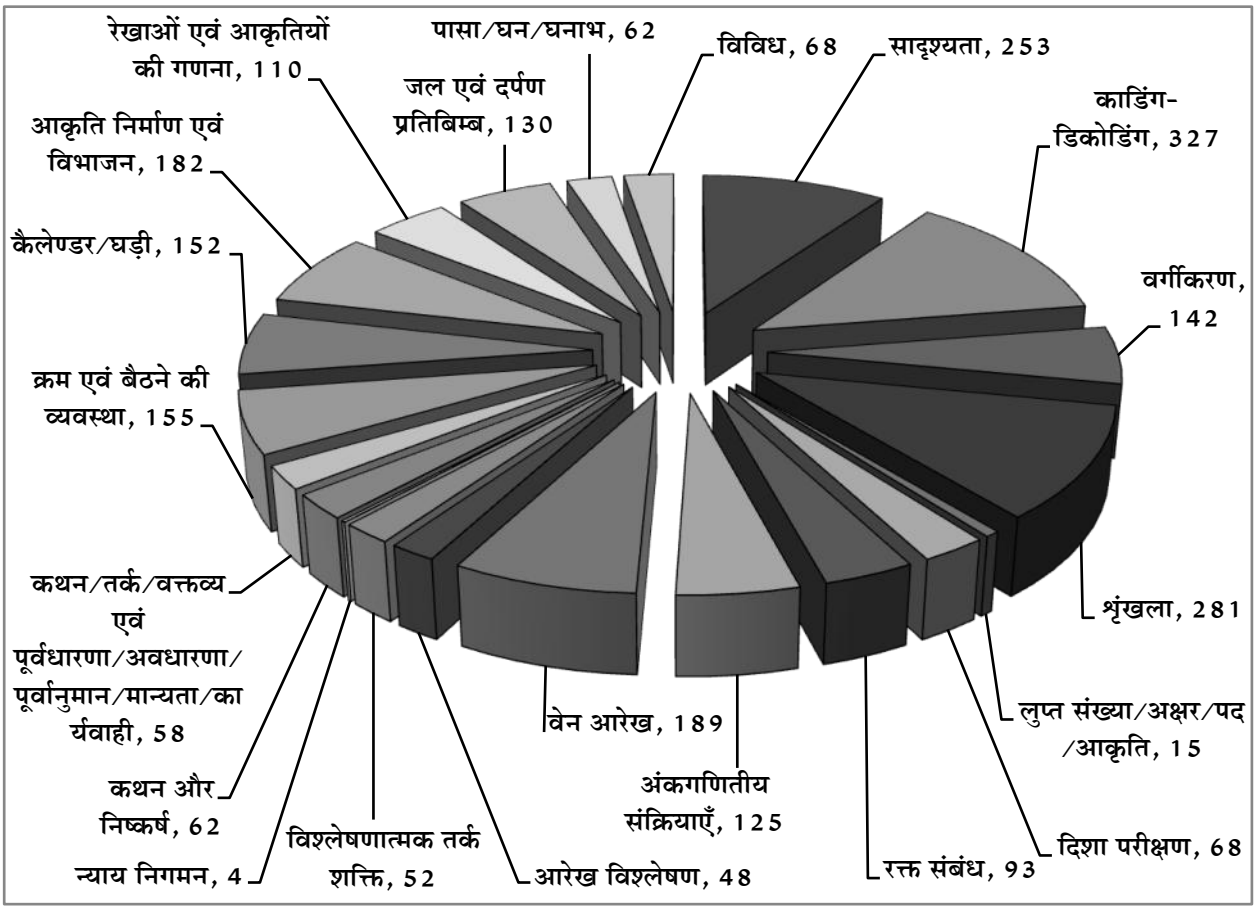

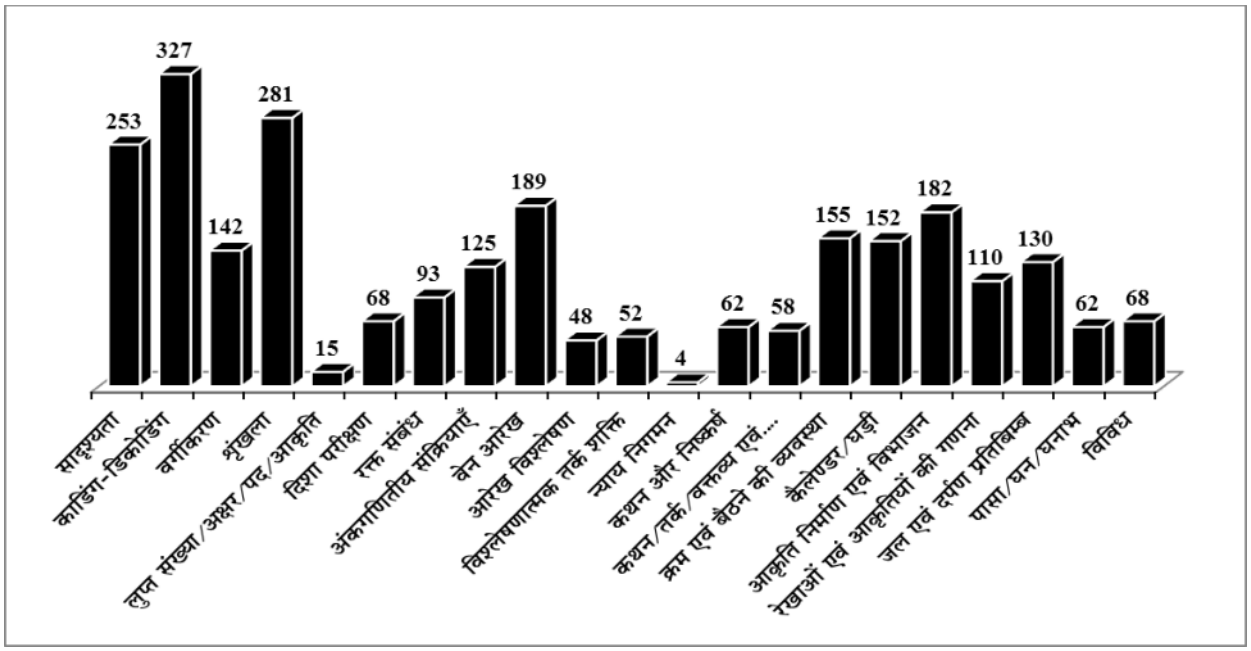

GET IT ON Google Play Best Study PDF के लिए हमारी App को Download करें "GK Trick By Nitin Gupta"

भाग-1.

सादृश्यता (Analogy)

Type-1: हिन्दी शब्दों पर आधारित सादृश्यता

1. Select the option that is related to the third term in the same way as the second term is related to the first
Medicine : Dispensary :: Guns : ?
उस विकल्प का चयन करें जो कि तीसरे पद से ठीक उसी प्रकार से संबंधित है जैसे कि दूसरा पद पहले पद से संबंधित है।
दवा : डिस्पेंसरी :: बंदूक : ?
(a) Factory/फैक्ट्री
(b) Armoury/शस्त्रागार
(c) Apiary/मधुमक्खी का छत्ता
(d) Aviary/पक्षीशाला

MP Police Constable Exam- 31 August-2023 Shift-3

Ans. (b) : जिस प्रकार दवा, डिस्पेंसरी से प्राप्त किया जा सकता है उसी प्रकार शस्त्रागार से बंदूक की प्राप्त किया जा सकता है।

2. Find the an alogue pair:
समान जोड़ी का पता लगाइये :
Madhya Pradesh : Bhopal :: Maharashtra : ?
मध्य प्रदेश : भोपाल :: महाराष्ट्र : ?
(a) Jaipur/जयपुर (b) Kolkata/कोलकाता
(c) Mumbai/मुंबई (d) Lucknow/लखनऊ

MP Police Constable Exam- 29 August-2023 Shift-2

Ans. (c) : जिस प्रकार मध्य प्रदेश की राजधानी भोपाल है। उसी प्रकार महाराष्ट्र की राजधानी मुंबई है।

3. Find the odd word out.
असंगत का चयन कीजिए।
(a) Keyboard/कीबोर्ड (b) Printer/प्रिंटर
(c) Mouse/माउस (d) Joystick/जॉयस्टिक

MP Police Constable Exam- 5 Sep -2023 Shift-1

Ans. (b) : प्रश्नानुसार,
कीबोर्ड, माउस और जायस्टिक इनपुट डिवाइस है जबकि प्रिंटर आउटपुट डिवाइस है।
अतः विकल्प (b) सही उत्तर है।

4. Find the odd word out.
असंगत का चयन कीजिए।
(a) Rahul Dravid/राहुल द्रविड़
(b) Rohit Sharma/रोहित शर्मा
(c) Harbhajan Singh/हरभजन सिंह
(d) Rashid Khan/राशिद खान

MP Police Constable Exam- 28 August-2023 Shift-2

Ans. (d) : दिए गए विकल्पों में राशिद खान भिन्न है क्योंकि यह अफगानिस्तान का खिलाड़ी है, जबकि राहुल द्रविड़, रोहित शर्मा, तथा हरभजन सिंह भारत के खिलाड़ी है।
अतः विकल्प (d) असंगत है।

5. Select the related word/ letters/ number from the given alternatives.
दिए गए विकल्पों में से सम्बंधित शब्द/अक्षर/संख्या का चुनाव करें।
NaCl : Salt :: H_2SO_4 : ?
NaCl : नमक :: H_2SO_4 : ?
(a) Acid/अम्ल (b) Base/क्षार
(c) Salt/नमक (d) Water/पानी

MP Police Constable Exam- 5 Sep -2023 Shift-1

Ans. (a) : जिस प्रकार NaCl, Salt (नमक) होता है, उसी प्रकार H_2SO_4, अम्ल (Acid) होता है।

6. Select the option that is related to the third word in the same way as the second pair is related to the first pair.
उस विकल्प का चयन करें जो तीसरे शब्द से उसी प्रकार संबंधित है जैसे दूसरा युग्म पहले युग्म से संबंधित है।
India : Asia :: Kenya : ?
भारत : एशिया :: केन्या : ?
(a) Europe/यूरोप (b) Australia/ऑस्ट्रेलिया
(c) Africa/अफ्रीका (d) America/अमेरिका

MP Police Constable Exam- 13 August-2023 Shift-2

Ans. (c) : जिस प्रकार 'भारत' का संबंध एशिया महाद्वीप का एक देश है उसी प्रकार 'केन्या' का संबंध अफ्रीका महाद्वीप का एक देश है।

7. Select the option that is related to the third word in the same way as the second pair is related to the first pair.
उस विकल्प का चयन करें जो तीसरे शब्द से उसी प्रकार संबंधित है जैसे दूसरा युग्म पहले युग्म से संबंधित है।
Resistance : ohm :: Energy : ?
प्रतिरोध : ओम :: ऊर्जा : ?
(a) Pascal/पास्कल (b) Newton/न्यूटन
(c) Joule/जूल (d) Watt/वाट

MP Police Constable Exam- 13 August-2023 Shift-2

Ans. (c) : जिस प्रकार 'प्रतिरोध' का SI मात्रक 'ओम' होता है। उसी प्रकार 'ऊर्जा' का S.I मात्रक 'जूल' होता है।

8. Select the Lettered pair that has the same relationship as given in the question:
उस अक्षर युग्म का चयन करें जिसका संबंध प्रश्न में दिए गए समान संबंध से है:
Shield : Soldier
शील्ड : सिपाही

GET IT ON Google Play Best Study PDF के लिए हमारी App को Download करें "GK Trick By Nitin Gupta"

(a) Law : Court/कानून : अदालत
(b) Stethoscope : Doctor/स्टेथोस्कोप : डॉक्टर
(c) Helmet : Rider/हेलमेट : सवार
(d) Book : Reader/किताब : पाठक

MP Police Constable Exam- 13 August-2023 Shift-2

Ans. (c) : जिस प्रकार 'शील्ड' का संबंध 'सिपाही' से है, उसी प्रकार 'हेलमेट' का संबंध सवार (चालक) से है।

9. Select the Lettered pair that has the same relationship as given in the question:
उस अक्षर युग्म का चयन करें जिसका संबंध प्रश्न में दिए गए समान संबंध से है:
Fish : Aquarium
मछली : एक्वेरियम
(a) Teacher : Hostel/शिक्षक : छात्रावास
(b) Bee : Apiary/मधुमक्खी : मधुमक्षिकालय
(c) Bird : Nest/चिड़िया : घोंसला
(d) Child : School/बच्चा : स्कूल

MP Police Constable Exam- 13 August-2023 Shift-2

Ans. (b) : जिस प्रकार 'मछली' को 'एक्वेरियम' में रखा जाता है उसी प्रकार 'मधुमक्खी' को 'मधुमक्षिकालय' में रखा जाता है।

10. Select the option that is related to the third word in the same way as the second pair is related to the first pair.
उस विकल्प का चयन करें जो तीसरे शब्द से उसी प्रकार संबंधित है जैसे दूसरा युग्म पहले युग्म से संबंधित है।
Japan : Country :: Asia : ?
जापान : देश : : एशिया : ?
(a) Ocean/महासागर
(b) Continent/महाद्वीप
(c) Hill- Station/हिल स्टेशन
(d) State/राज्य

MP Police Constable Exam- 13 August-2023 Shift-1

Ans. (b) : जिस प्रकार, जापान एक देश है। उसी प्रकार, एशिया एक महाद्वीप है। अतः विकल्प (b) सही उत्तर है।

11. Select the option that is related to the third word in the same way as the second pair is related to the first pair.
उस विकल्प का चयन करें जो तीसरे शब्द से उसी प्रकार संबंधित है जैसे दूसरा युग्म पहले युग्म से संबंधित है।
Rabies : Dog :: Ebola : ?
रेबीज : कुत्ता :: इबोला : ?
(a) Fish/मछली (b) Mosquito/मच्छर
(c) Cat/बिल्ली (d) Bat/चमगादड़

MP Police Constable Exam- 13 August-2023 Shift-1

Ans. (d) : जिस प्रकार, कुत्ता के काटने से रेबीज बीमारी होती है। उसी प्रकार, इबोला बीमारी, चमगादड़ के काटने से होती है। अतः विकल्प (d) सही उत्तर है।

12. Select the Lettered pair that has the same relationship as given in the question:
उस अक्षर युग्म का चयन करें जिसका संबंध प्रश्न में दिए गए समान संबंध से है:
Balance : Weigh
तराजू : तौलना
(a) Aeroplane : Height/हवाई जहाज : ऊंचाई
(b) Radar : Detection/रडार : डिटेक्शन
(c) Satellite : Revolution/उपग्रह : क्रांति
(d) Television : Picture/टेलीविजन : चित्र

MP Police Constable Exam- 13 August-2023 Shift-1

Ans. (b) : जिस प्रकार, तराजू से तौलने का कार्य होता है। उसी प्रकार, विकल्प (b) से रडार से डिटेक्शन का कार्य होता है। अतः विकल्प (b) सही युग्म है।

13. Select the Lettered pair that has the same relationship as given in the question:
उस अक्षर युग्म का चयन करें जिसका संबंध प्रश्न में दिए गए समान संबंध से है:
Cool : Cold
ठंडा : सर्दी
(a) Length : Width/लंबाई : चौड़ाई
(b) Gold : Bourne/सोना : सीमा
(c) Plant : Tree/पौधा : पेड़
(d) Pretty : Beautiful/आकर्षक : सुंदर

MP Police Constable Exam- 13 August-2023 Shift-1

Ans. (d) : जिस प्रकार, ठंडा और सर्दी एक दूसरे के समानार्थी है। उसी प्रकार, विकल्प (d) से आकर्षक और सुंदर एक दूसरे के समानार्थी है। अतः विकल्प (d) सही है।

14. Select the option that is related to the third word in the same way as the second pair is related to the first pair.
उस विकल्प का चयन करें जो तीसरे शब्द से उसी प्रकार संबंधित है जैसे दूसरा युग्म पहले युग्म से संबंधित है।
Godan: Novel :: Wings of Fire : ?
गोदान : उपन्यास :: विंग्स ऑफ फायर : ?
(a) Comic/कॉमिक
(b) Autobiography/आत्मकथा
(c) Biography/जीवनी
(d) Horror/हॉरर

MP Police Constable Exam- 12 August-2023 Shift-2

Ans. (b) : जिस प्रकार 'गोदान' प्रेमचन्द द्वारा लिखी एक उपन्यास है उसी प्रकार 'विंग्स ऑफ फायर' ए.पी.जे अब्दुल कलाम की आत्मकथा है।

15. Select the option that is related to the third word in the same way as the second pair is related to the first pair.
उस विकल्प का चयन करें जो तीसरे शब्द से उसी प्रकार संबंधित है जैसे दूसरा युग्म पहले युग्म से संबंधित है।
Passive : Active :: Different : ?
निष्क्रिय : सक्रिय :: भिन्न : ?
(a) Alone/अकेला (b) Group/समूह
(c) Everyone/प्रत्येक (d) Variant/अलग-अलग

MP Police Constable Exam- 12 August-2023 Shift-2

Ans. (b) : जिस प्रकार 'निष्क्रिय' का विपरीत शब्द 'सक्रिय' होता है। उसी प्रकार 'भिन्न' का विपरीत शब्द (समूह) होगा।

GET IT ON Google Play Best Study PDF के लिए हमारी App को Download करें "GK Trick By Nitin Gupta"

16. Select the Lettered pair that has the same relationship as given in the question:
उस अक्षर युग्म का चयन करें जिसका संबंध प्रश्न में दिए गए समान संबंध से है:

Defunct : Life
मृत : जीवन

(a) Stagnant : Motion/स्थिर : गति
(b) Orderly : Pattern/व्यवस्थित : पैटर्न
(c) Arid : Desert/शुष्क : मरुस्थल
(d) Obese : Weight/मोटापा : वजन

MP Police Constable Exam- 12 August-2023 Shift-2

Ans. (a) : जिस प्रकार 'मृत' का विपरीत शब्द 'जीवन' होता है। उसी प्रकार, 'स्थिर' का विपरीत शब्द 'गति' होगा। अतः विकल्प (a) सही उत्तर होगा।

17. Select the Lettered pair that has the same relationship as given in the question:
उस अक्षर युग्म का चयन करें जिसका संबंध प्रश्न में दिए गए समान संबंध से है:

Cereals : Grit
अनाज : कंकरी

(a) Dal : Pulses/दाल : दालें
(b) Milk : Sugar/दूध : चीनी
(c) Pulses : Metanil/दालें : मेटानिल
(d) Haldi : Turmeric/हल्दी : हल्दी

MP Police Constable Exam- 12 August-2023 Shift-2

Ans. (c) : जिस प्रकार अनाज में कंकरी पाया जाता है। उसी प्रकार दाल में मेटानिल मिला होता है। अतः विकल्प (c) सही उत्तर होगा।

18. Select the option that is related to the third word in the same way as the second pair is related to the first pair.
उस विकल्प का चयन करें जो तीसरे शब्द से उसी प्रकार संबंधित है जैसे दूसरा युग्म पहले युग्म से संबंधित है।

Water : Liquid :: Rock : ?
पानी : द्रव :: चट्टान : ?

(a) Gas/गैस (b) Solid/ठोस
(c) Weak/कमजोर (d) Strong/मजबूत

MP Police Constable Exam- 19 August-2023 Shift-2

Ans. (b) : जिस प्रकार,
'पानी' 'द्रव' होता है उसी प्रकार चट्टान 'ठोस' होता है।
अतः विकल्प (b) सही उत्तर होगा।

19. Select the option that is related to the third word in the same way as the second pair is related to the first pair.
उस विकल्प का चयन करें जो तीसरे शब्द से उसी प्रकार संबंधित है जैसे दूसरा युग्म पहले युग्म से संबंधित है।

Portugal : Lisbon :: Kenya : ?
पुर्तगाल : लिस्बन :: केन्या : ?

(a) Astana/अस्ताना (b) Nairobi/नैरोबी
(c) Dublin/डबलिन (d) Rome/रोम

MP Police Constable Exam- 19 August-2023 Shift-2

Ans. (b) : जिस प्रकार 'पुर्तगाल' की राजधानी 'लिस्बन' है उसी प्रकार 'केन्या' की राजधानी 'नैरोबी' है।
अतः विकल्प (b) सही उत्तर होगा।

20. Select the related word/letters/number from the given alternatives.
दिए गए विकल्पों से संबंधित शब्द/अक्षर/संख्या का चयन करें।

Bee: Hive::Dog: ?
मधुमक्खी : मधुमक्खी का छत्ता : : कुत्ता : ?

(a) Hole /छेद (b) Zoo /चिड़ियाघर
(c) Kennel /केनल (d) Den /मांद

MP Police Constable Exam- 9 Sep-2023 Shift-3

Ans. (c) : प्रश्नानुसार,
जिस प्रकार मधुमक्खी- मधुमक्खी के छत्ते में रहती है उसी प्रकार कुत्ता– केनल अर्थात कुत्ता घर में रहता है।
अतः विकल्प (c) सही उत्तर होगा।

21. In the following question, select the related word from the given alternatives.
निम्नलिखित प्रश्न में दिए गए विकल्पों में से संबंधित शब्द को चुनिए।

Pen : Write :: ? : ?
कलम : लिखना :: ? : ?

(a) Ink : Marker/स्याही : मार्कर
(b) Cup : Liquid/कप : तरल
(c) Pencil : Wood/पेंसिल : लकड़ी
(d) Knife : Cut/चाकू : काटना

MP Police Constable Exam- 16 August-2023 Shift-1

Ans. (d) : जिस प्रकार 'कलम' 'लिखने' के काम में आता है। उसी प्रकार 'चाकू' 'काटने' के काम में आता है। अतः विकल्प (d) सही उत्तर है।

22. Select the option that is related to the third word in the same way as the second pair is related to the first pair.
उस विकल्प का चयन करें जो तीसरे शब्द से उसी प्रकार संबंधित है जैसे दूसरा युग्म पहले युग्म से संबंधित है।

Cube : Cuboid :: Square : ?
घन : घनाभ :: वर्ग : ?

(a) Triangle/त्रिभुज (b) Rectangle/आयत
(c) Rhombus/समचतुर्भुज (d) Quadrilateral/चतुर्भुज

MP Police Constable Exam- 16 August-2023 Shift-1

Ans. (b) : जिस प्रकार 'घन' की लम्बाई बढ़ाने पर यह घनाभ बन जाता है। उसी प्रकार 'वर्ग' की लम्बाई बढ़ाने पर यह आयत बन जाता है।

23. Select the Lettered pair that has the same relationship as given in the question:
उस अक्षर युग्म का चयन करें जिसका संबंध प्रश्न में दिए गए समान संबंध से है:

Cream : Cosmetics
क्रीम : प्रसाधन सामग्री

(a) Tiger : Forest/बाघ : वन
(b) Magazine : Editor/पत्रिका : संपादक
(c) Teak : wood/टीक : लकड़ी
(d) Mountain : Valley/पर्वत : घाटी

MP Police Constable Exam- 16 August-2023 Shift-1

Ans. (c) : जिस प्रकार क्रीम एक प्रकार की प्रसाधन सामग्री है। उसी प्रकार टीक (Teak) एक प्रकार की लकड़ी है।

GET IT ON Google Play Best Study PDF के लिए हमारी App को Download करें "GK Trick By Nitin Gupta"

24. Select the Lettered pair that has the same relationship as given in the question:
उस अक्षर युग्म का चयन करें जिसका संबंध प्रश्न में दिए गए समान संबंध से है:

Platform : Train
प्लेटफार्म : रेलगाड़ी

(a) Aeroplane : Aerodrome/हवाई जहाज : हवाई अड्डा
(b) Hotel : Tourist/होटल : पर्यटक
(c) Quay : Ship/घाट : समुद्री जहाज
(d) Footpath : Traveller/फुटपाथ : यात्री

MP Police Constable Exam- 16 August-2023 Shift-1

Ans. (c) : जिस प्रकार 'रेलगाड़ी' 'प्लेटफार्म' पर आकर रुकती है। उसी प्रकार 'समुद्री जहाज' 'घाट (Quay)' पर आकर ठहरती है।

25. Find out the odd word/letters/number/number pair from the given alternatives.
दिए गए विकल्पों में से विषम शब्द/अक्षर/संख्या/संख्या के जोड़े का चुनाव करें।

(a) Afghanistan /अफ़गानिस्तान
(b) Denmark /डेनमार्क
(c) Maldives /मालदीव
(d) Mizoram /मिजोरम

MP Police Constable Exam- 10 Sep-2023 Shift-1

Ans. (d) : दिये गये विकल्पों में विषम शब्द विकल्प (d) – मिजोरम है क्योंकि अफगानिस्तान, डेनमार्क और मालदीव देश हैं जबकि मिजोरम भारत देश का एक राज्य है।

26. Which of the following is odd?
निम्नलिखित में से कौन-सा विषम है?

(a) April /अप्रैल (b) July /जुलाई
(c) November /नवंबर (d) September /सितंबर

MP Police Constable Exam- 10 Sep-2023 Shift-1

Ans. (b) : प्रश्नानुसार, दिये गये विकल्पों में से विकल्प (b) जुलाई विषम है क्योंकि अप्रैल, सितम्बर तथा नवम्बर में दिनों की संख्या 30 है जबकि जुलाई माह में दिनों की संख्या 31 है।

27. Select the related word pair from the given alternatives.
दिए गए विकल्पों में से संबंधित शब्द युग्म का चयन करें।

Google Chrome : Web Browser : : ?
गूगलक्रोम : वेबब्राउज़र : : ?

(a) Opera : Search engine /ओपेरा : खोज इंजन
(b) Mozilla Firefox : Virus /मोज़िला फ़ायरफ़ॉक्स : वायरस
(c) Facebook : Malware /फेसबुक : मैलवेयर
(d) Bing : Search engine /बिंग : खोजइंजन

MP Police Constable Exam- 12 Sep-2023 Shift-2

Ans. (d) : जिस प्रकार 'गूगलक्रोम' एक 'वेबब्राउजर' है। उसी प्रकार 'बिंग' एक प्रकार का 'खोज इंजन' है।

28. Select the option that is related to the third word in the same way as the second pair is related to the first pair.
उस विकल्प का चयन करें जो तीसरे शब्द से उसी प्रकार संबंधित है जैसे दूसरा युग्म पहले युग्म से संबंधित है।

WhatsApp : Chat :: YouTube : ?
व्हाट्सएप : चैट :: यूट्यूब : ?

(a) Videos/वीडियो (b) Call/कॉल
(c) Message/संदेश (d) Payment/भुगतान

MP Police Constable Exam- 12 August-2023 Shift-3

Ans. (a) : जिस प्रकार व्हाट्स-अप एप्लीकेशन का इस्तेमाल चैट करने के लिए होता है। उसी प्रकार यूट्यूब एप्लीकेशन का इस्तेमाल विडियो देखने के लिए होता है। अतः विकल्प (a) सही उत्तर होगा।

29. Select the option that is related to the third word in the same way as the second pair is related to the first pair.
उस विकल्प का चयन करें जो तीसरे शब्द से उसी प्रकार संबंधित है जैसे दूसरा युग्म पहले युग्म से संबंधित है।

Cricket : Bat :: Badminton : ?
क्रिकेट : बल्ला :: बैडमिंटन : ?

(a) Racket/रैकेट (b) Shuttlecock/शटलकॉक
(c) Pad/पैड (d) Ball/गेंद

MP Police Constable Exam- 12 August-2023 Shift-3

Ans. (a) : जिस प्रकार क्रिकेट के खेल में 'बल्ले' का प्रयोग किया जाता है। उसी प्रकार बैडमिंटन के खेल में 'रैकेट' का प्रयोग होता है।

30. Select the Lettered pair that has the same relationship as given in the question:
उस अक्षर युग्म का चयन करें जिसका संबंध प्रश्न में दिए गए समान संबंध से है:

Sea : Shore
समुद्र : किनारा

(a) Train : Rails/रेलगाड़ी : रेल
(b) Road : Footpath/सड़क : पगडंडी
(c) Ocean : Bay/महासागर : खाड़ी
(d) River : Delta/नदी : डेल्टा

MP Police Constable Exam- 12 August-2023 Shift-3

Ans. (b) : जिस प्रकार किनारा का सम्बन्ध समुद्र से है। उसी प्रकार पगडंडी का सम्बन्ध सड़क से है।

31. Select the Lettered pair that has the same relationship as given in the question:
उस अक्षर युग्म का चयन करें जिसका संबंध प्रश्न में दिए गए समान संबंध से है:

Low : Cattle
लो : कैटेल

(a) Sheep : Beef /भेड़ : बीफ
(b) Gaggle : Chicken /बत्तखों का झुण्ड : चिकन
(c) Grunt : Hogs /सूअर की आवाज़ : हॉग्स
(d) Flocks : Goat /फ्लॉक्स : बकरी

MP Police Constable Exam- 12 August-2023 Shift-3

Ans. (c) : जिस प्रकार कैटेल (मवेशी) की आवाज को लो (Lowing) कहते है। उसी प्रकार सुअर की आवाज (Grunt) को हॉग (गुर्राना) कहते हैं।

32. Find the odd word out.
असंगत शब्द का चयन कीजिए।

(a) Mahi/माही (b) Narmada/नर्मदा
(c) Godavari/गोदावरी (d) Sindhu/सिंधु

MP Police Constable Exam- 6 Sep-2023 Shift-3

GET IT ON Google Play Best Study PDF के लिए हमारी App को Download करें "GK Trick By Nitin Gupta"

Ans. (c) : माही, नर्मदा और सिंधु पश्चिम दिशा में बहती हुई अरब सागर में गिरती हैं, जबकि गोदावरी पूर्व दिशा में बहती हुई बंगाल की खाड़ी में गिरती है।

33. Select the option that is related to the third word in the same way as the second pair is related to the first pair.
उस विकल्प का चयन करें जो तीसरे शब्द से उसी तरह संबंधित है जैसे दूसरा शब्द पहले शब्द से संबंधित है।

France : Football :: Cricket : ?
फ्रांस : फुटबॉल :: क्रिकेट : ?

(a) England /इंग्लैंड (b) China /चीन
(c) Japan /जापान (d) Bhutan /भूटान

MP Police Constable Exam- 17 August-2023 Shift-2

Ans. (a) : जिस प्रकार 'फ्रांस' का राष्ट्रीय खेल 'फुटबाल' है। उसी प्रकार इंग्लैंड का राष्ट्रीय खेल क्रिकेट है।
अतः ? = इंग्लैंड

34. Select the option that is related to the third word in the same way as the second pair is related to the first pair.
उस विकल्प का चयन करें जो तीसरे शब्द से उसी प्रकार संबंधित है जैसे दूसरा युग्म पहले युग्म से संबंधित है।

3-Dimensional : Sphere :: 2-Dimensional :
3-आयामी : गोला :: 2-आयामी : ?

(a) Cuboid/घनाभ (b) Cube/घन
(c) Circle/वृत्त (d) Cylinder/बेलन

MP Police Constable Exam- 17 August-2023 Shift-2

Ans. (c) : जिस प्रकार '3-आयामी' के अंतर्गत 'गोला' आता है। उसी प्रकार '2-आयामी' के अंर्तगत 'वृत्त' आता है।

35. In the following question, choose the pair/group of words that show the same relationship at the top of every pair/group.
उस विकल्प का चयन करें जो तीसरे शब्द से उसी प्रकार संबंधित है जैसे दूसरा युग्म पहले युग्म से संबंधित है।

Car : Diesel :: Fan : ?
कार : डीजल :: पंखा : ?

(a) Petrol/पेट्रोल (b) Electricity/बिजली
(c) Water/पानी (d) CNG/सीएनजी

MP Police Constable Exam- 17 August-2023 Shift-2

Ans. (b) : जिस प्रकार 'कार' को चलाने के लिए 'डीजल' का आवश्यकता होती है। उसी प्रकार पंखे को चलाने के लिए बिजली की आवश्यकता होती है।

36. Select the Lettered pair that has the same relationship as given in the question:
उस अक्षर युग्म का चयन करें जिसका संबंध प्रश्न में दिए गए समान संबंध से है:

Stare : Glance
घूरना : नज़र

(a) Gulp : Sip/घूंट : सिप
(b) Confide : Tell/विश्वास करना : बताना
(c) Hunt : Stalk/शिकार : डंठल
(d) Step : Walk/कदम : चलना

MP Police Constable Exam- 17 August-2023 Shift-2

Ans. (a) : जिस प्रकार घूरना का संबंध नज़र से है। उसी प्रकार घूंट का संबंध सिप से है।

37. Select the option that is related to the third word in the same way as the second pair is related to the first pair.
उस विकल्प का चयन करें जो तीसरे शब्द से उसी प्रकार संबंधित है जैसे दूसरा युग्म पहले युग्म से संबंधित है।

Sheep : Lamb :: Cow : ?
भेड़ : मेमना :: गाय : ?

(a) Kitten /बिल्ली का बच्चा (b) Cub /शावक
(c) Calf /बछड़ा (d) Caterpillar /इल्ली

MP Police Constable Exam- 14 August-2023 Shift-3

Ans. (c) : जिस प्रकार भेड़ के बच्चे को मेमना कहते है। उसी प्रकार गाय के बच्चे को बछड़ा कहा जाता है।

38. Select the option that is related to the third word in the same way as the second pair is related to the first pair.
उस विकल्प का चयन करें जो तीसरे शब्द से उसी प्रकार संबंधित है जैसे दूसरा युग्म पहले युग्म से संबंधित है।

Mother : Father :: Aunty : ?
माता : पिता :: चाची : ?

(a) Uncle/चाचा (b) Sister/बहन
(c) Nephew/भतीजा (d) Niece/भांजी

MP Police Constable Exam- 14 August-2023 Shift-3

Ans. (a) : जिस प्रकार माता का सम्बन्ध पिता से होता है। उसी प्रकार चाची का सम्बन्ध चाचा से होता है।

39. Select the Lettered pair that has the same relationship as given in the question.
उस अक्षर युग्म का चयन करें जिसका संबंध प्रश्न में दिए गए समान संबंध से है:

Fish: Shoal
मछली : शोल

(a) Shark : School/शार्क : स्कूल
(b) Whale : Herd/व्हेल : झुंड
(c) Elephant : Flock/हाथी : पशु समूह
(d) Audience : Theatre/श्रोता : रंगमंच

MP Police Constable Exam- 14 August-2023 Shift-3

Ans. (a) : जिस प्रकार मछलियों का समूह शोल कहलाता है। उसी प्रकार शार्क का समूह स्कूल कहा जाता है।

40. Select the Lettered pair that has the same relationship as given in the question.
उस अक्षर युग्म का चयन करें जिसका संबंध प्रश्न में दिए गए समान संबंध से है:

Paper : Ream
पेपर : रीम

(a) Eggs : Dozen/अंडे : दर्जन
(b) Books : Pile/किताबें : ढेर
(c) Twigs : Bush/टहनियाँ : झाड़ी
(d) Food : Packet/भोजन : पैकेट

MP Police Constable Exam- 14 August-2023 Shift-3

Ans. (a) : जिस प्रकार पेपर को रीम्स में गिना जाता है। उसी प्रकार अण्डे को दर्जन में गिना जाता है।

GET IT ON Google Play Best Study PDF के लिए हमारी App को Download करें "GK Trick By Nitin Gupta"

41. Find the odd word out.
असंगत शब्द का चयन कीजिए।
(a) Immersion Rod/इर्मसन रॉड
(b) Electric Heater/इलेक्ट्रिक हीटर
(c) Fan/पंखा
(d) Geyser/गीजर

MP Police Constable Exam- 4 Sep-2023 Shift-3

Ans. (c) : सभी इलेक्ट्रिक वस्तुओं में पंखा हवा हेतु प्रयोग किया जाता है, जबकि अन्य सभी का प्रयोग गर्म (Heat) करने हेतु किया जाता है।

42. Necklace is related to jewellery, in the same way as Shirt is related to_____ .
जिस प्रकार हार आभूषण से संबंधित है, उसी प्रकार शर्ट, _____ से संबंधित है।
(a) Thread/धागा
(b) Apparel/परिधान
(c) Cotton/कपास
(d) None of the given options/दिए गए विकल्पों में से कोई नहीं

MP Police Constable Exam- 9 Sep-2023 Shift-2

Ans. (b) : जिस प्रकार हार आभूषण से संबंधित होता है। उसी प्रकार शर्ट, परिधान से संबंधित है।

43. Select the letter-cluster that is related to the third letter-cluster in the same way as the second letter-cluster is related to the first letter-cluster.
उस अक्षर-समूह का चयन करें जो तीसरे अक्षर-समूह से उसी प्रकार संबंधित है जैसे दूसरा अक्षर-समूह, पहले अक्षर-समूह से संबंधित है।
Botany : Plants : : Entomology : ?
वनस्पति विज्ञान : पौधे :: कीट विज्ञान : ?
(a) Germs/कीटाणु (b) Birds/पक्षियों
(c) Insects/कीड़े (d) Snakes/सांप

MP Police Constable Exam- 8 Sep-2023 Shift-1

Ans. (c) : जिस प्रकार वनस्पति विज्ञान के अन्तर्गत पौधों का अध्ययन किया जाता है। उसी प्रकार कीड़ों का अध्ययन कीट विज्ञान के अन्तर्गत किया जाता है।

44. Select the Lettered pair that has the same relationship as given in the question:
उस अक्षर युग्म का चयन करें जिसका संबंध प्रश्न में दिए गए समान संबंध से है:
Chaff : Wheat
भूसा : गेहूं
(a) Bone : Flesh/हड्डी : मांस
(b) Blood : Vein/रक्त : शिरा
(c) Dregs : Wine/ड्रेग्स : वाइन
(d) Rubbish : House/कूड़ाकरकट : मकान

MP Police Constable Exam- 13 August-2023 Shift-3

Ans. (c) : जिस प्रकार 'गेहूँ' के पौधों की थ्रेसिंग करने पर 'भूसा' अवशेष प्राप्त होता है।
उसी प्रकार शिरा (Wine) को निथारने के बाद बचे अवशेष को Dregs (ड्रेग्स) कहा जाता है।

45. Select the Lettered pair that has the same relationship as given in the question:
उस अक्षर युग्म का चयन करें जिसका संबंध प्रश्न में दिए गए समान संबंध से है:
Hillock : Mountain
पहाड़ी : पहाड़
(a) Hare : Animal/खरगोश : पशु
(b) Ant : Elephant/चींटी : हाथी
(c) Bush : Forest/झाड़ी : वन
(d) Grass : Tree/घास : पेड़

MP Police Constable Exam- 13 August-2023 Shift-3

Ans. (c) : जिस प्रकार पहाड़ विस्तृत एवं ऊँचा होता है, जबकि पहाड़ी छोटा एवं अपेक्षाकृत कम ऊँचा होता है। उसी प्रकार वन (Tree) काफी ऊँचा एवं विशाल होते है जबकि झाड़ी (Grass) की ऊँचाई बहुत कम होता है।
अतः विकल्प (c) सही उत्तर है।

46. Select the option that is related to the third word in the same way as the second pair is related to the first pair.
उस विकल्प का चयन करें जो तीसरे शब्द से उसी प्रकार संबंधित है जैसे दूसरा युग्म पहले युग्म से संबंधित है।
Hospital : Doctor :: School : ?
अस्पताल : डॉक्टर :: स्कूल : ?
(a) Teacher/शिक्षक (b) Nurse/नर्स
(c) Lawyer/वकील (d) Chef/बावर्ची

MP Police Constable Exam- 18 August-2023 Shift-2

Ans. (a) : जिस प्रकार, डॉक्टर, अस्पताल से संबंधित है। उसी प्रकार, शिक्षक, स्कूल से संबंधित है। अतः विकल्प (a) सही उत्तर है।

47. Select the option that is related to the third word in the same way as the second pair is related to the first pai0r.
उस विकल्प का चयन करें जो तीसरे शब्द से उसी प्रकार संबंधित है जैसे दूसरा युग्म पहले युग्म से संबंधित है।
Ganga : Patna :: Thames : ?
गंगा : पटना :: थेम्स : ?
(a) London/लंदन (b) New York/न्यूयॉर्क
(c) Moscow/मास्को (d) Canberra/कैनबरा

MP Police Constable Exam- 18 August-2023 Shift-2

Ans. (a) : जिस प्रकार, पटना, गंगा नदी के किनारे स्थित शहर है। उसी प्रकार, लंदन, थेम्स नदी के किनारे स्थित शहर है। अतः विकल्प (a) सही है।

48. Find the related word from the given alternatives.
दिए गए विकल्पों से संबंधित शब्द का चयन करें।
Cat : Kitten
बिल्ली : बिल्ली का बच्चा (Kitten)
(a) Dog : Cubs/कुत्ता : शावक
(b) Animal : Child/पशु : बच्चा
(c) Mouse : Mice/चूहा : चूहे
(d) Mother : Baby/माँ : बच्चा

MP Police Constable Exam- 17 August-2023 Shift-3

GET IT ON Google Play Best Study PDF के लिए हमारी App को Download करें "GK Trick By Nitin Gupta"

Ans. (d) : जिस प्रकार बिल्ली और बिल्ली का बच्चा एक दूसरे सम्बन्धित है। उसी प्रकार माँ और बच्चा सम्बन्धित है।

49. Select the option that is related to the third word in the same way as the second pair is related to the first pair.
उस विकल्प का चयन करें जो तीसरे शब्द से उसी प्रकार संबंधित है जैसे दूसरा युग्म पहले युग्म से संबंधित है।

Vedas : Hindu :: Quran : ?
वेद : हिंदू :: कुरान : ?

(a) Sikh/सिख (b) Christian/ईसाई
(c) Muslim/मुस्लिम (d) Buddha/बुद्ध

MP Police Constable Exam- 17 August-2023 Shift-3

Ans. (c) : जिस प्रकार वेद हिन्दू से सम्बन्धित है। उसी प्रकार कुरान मुस्लिम से सम्बन्धित है।

50. Select the option that is related to the third word in the same way as the second pair is related to the first pair.
उस विकल्प का चयन करें जो तीसरे शब्द से उसी प्रकार संबंधित है जैसे दूसरा युग्म पहले युग्म से संबंधित है।

McAfee : Antivirus :: Chrome : ?
मैक्एफ़ी : एंटीवायरस :: क्रोम : ?

(a) Image Editor/इमेंज एडिटर
(b) Music Software/संगीत सॉफ्टवेयर
(c) Web Browser/वेब ब्राउज़र
(d) Video Editing/वीडियो एडिटिंग

MP Police Constable Exam- 17 August-2023 Shift-3

Ans. (c) : जिस प्रकार मैक्एफ़ी एण्टीवायरस से सम्बन्धित है। उसी प्रकार क्रोम वेब ब्राउजर से सम्बन्धित है।

51. Find the analogous pair:
समान जोड़ी का पता लगाइये:

Mitochondria : Energy ::D.N.A. : ?
माइटोकांड्रिया : ऊर्जा :: डी.एन.ए. : ?

(a) Inheritance/वंशानुक्रम
(b) Reproduction/प्रजनन
(c) Locomotion/गतिशीलता
(d) Immunity/गतिरक्षा

MP Police Constable Exam- 12 Sep-2023 Shift-1

Ans. (a) : जिस प्रकार माइटोकांड्रिया का संबंध ऊर्जा से है। उसी प्रकार डी.एन.ए. का संबंध वंशानुक्रम से है।
अतः ? = वंशानुक्रम

52. Pick the odd one.
विषम चुनिए?

(a) Greece - Athens/ग्रीस - एथेंस
(b) Russia - Moscow/रूस - मास्को
(c) Spain - Jakarta/स्पेन - जकार्ता
(d) Italy - Rome/इटली - रोम

MP Police Constable Exam- 6 Sep-2023 Shift-2

Ans. (c) : प्रश्नानुसार,
ग्रीस की राजधानी 'एथेंस', 'रुस' की राजधानी 'मास्को' और 'इटली' की राजधानी 'रोम' है। जबकि 'स्पेन' की राजधानी 'मैड्रिड' है न कि 'जकार्ता'। अतः विकल्प (c) सही उत्तर है।

53. Select the option that is related to the third word in the same way as the second pair is related to the first pair.
उस विकल्प का चयन करें जो तीसरे शब्द से उसी प्रकार संबंधित है जैसे दूसरा युग्म पहले युग्म से संबंधित है।

March : Month :: Monday : ?
मार्च : महीना :: सोमवार : ?

(a) Day/दिन (b) Year/वर्ष
(c) Decade/दशक (d) Week/सप्ताह

MP Police Constable Exam- 19 August-2023 Shift-3

Ans. (a) : जिस प्रकार 'मार्च' एक 'महीना' है। उसी प्रकार 'सोमवार' सप्ताह का एक दिन है। अतः विकल्प 'a' सही उत्तर है।

54. Select the option that is related to the third word in the same way as the second pair is related to the first pair.
उस विकल्प का चयन करें जो तीसरे शब्द से उसी प्रकार संबंधित है जैसे दूसरा युग्म पहले युग्म से संबंधित है।

Clever : Stupid :: Constant : ?
चतुर : मूर्ख :: स्थिर : ?

(a) Vowel/स्वर
(b) Fear/डर
(c) Changeable/परिवर्तनीय
(d) Destruction/विनाश

MP Police Constable Exam- 19 August-2023 Shift-3

Ans. (c) : जिस प्रकार 'चतुर' (Clever) का विपरीत (Opposite) शब्द मूर्ख (Stupid) है।
उसी प्रकार स्थिर (Constant) का विपरीत शब्द परिवर्तनीय (Changeable) है।

55. Select the option that is related to the third word in the same way as the second pair is related to the first pair.
उस विकल्प का चयन करें जो तीसरे शब्द से उसी प्रकार संबंधित है जैसे दूसरा युग्म पहले युग्म से संबंधित है।

Ra-one : Bollywood :: Avengers : ?
रा-वन : बॉलीवुड :: एवेंजर्स : ?

(a) Hollywood/हॉलीवुड
(b) Tollywood/टॉलीवुड
(c) Lollywood/लॉलीवुड
(d) The Combine/द कंबाइन

MP Police Constable Exam- 20 August-2023 Shift-3

Ans. (a) : जिस प्रकार 'रा-वन' बॉलीवुड की फिल्म है। उसी प्रकार 'एवेंजर्स' हॉलीवुड की फिल्म है।
अतः ? = हॉलीवुड

GET IT ON Google Play Best Study PDF के लिए हमारी App को Download करें "GK Trick By Nitin Gupta"

56. Find out the odd word/letters/number/number pair from the given alternatives.
दिए गए विकल्पों से विषम शब्द/अक्षर/संख्या/संख्या के जोड़ों को ज्ञात करें ?

(a) Hours/घंटा (b) Decibels/डेसीबल
(c) Minutes/मिनट (d) Seconds/सेकंड

MP Police Constable Exam- 3 Sep-2023 Shift-1

Ans. (b) : डेसीबल को छोड़कर अन्य सभी समय को प्रदर्शित करते हैं। डेसीबल ध्वनि का मात्रक है।

57. Select the option that is related to the third word in the same way as the second pair is related to the first pair.
उस विकल्प का चयन करें जो तीसरे शब्द से उसी प्रकार संबंधित है जैसे दूसरा युग्म पहले युग्म से संबंधित है।

Nepal : Kathmandu :: China : ?
नेपाल : काठमांडू :: चीन : ?

(a) Delhi/दिल्ली (b) Tokyo/टोक्यो
(c) Beijing/बीजिंग (d) Seoul/सियोल

MP Police Constable Exam- 14 August-2023 Shift-2

Ans. (c) : जिस प्रकार 'नेपाल' की राजधानी 'काठमांडू' है। उसी प्रकार 'चीन' की राजधानी 'बीजिंग' है।

58. Select the option that is related to the third word in the same way as the second pair is related to the first pair.
उस विकल्प का चयन करें जो तीसरे शब्द से उसी प्रकार संबंधित है जैसे दूसरा युग्म पहले युग्म से संबंधित है।

Kabaddi : Bangladesh :: Archery : ?
कबड्डी : बांग्लादेश :: तीरंदाजी : ?

(a) India/भारत (b) China/चीन
(c) Japan/जापान (d) Bhutan/भूटान

MP Police Constable Exam- 14 August-2023 Shift-2

Ans. (d) : जिस प्रकार 'कबड्डी', बांग्लादेश का राष्ट्रीय खेल है। उसी प्रकार 'तीरंदाजी', भूटान का राष्ट्रीय खेल है।

59. Select the Lettered pair that has the same relationship as given in the question:
उस अक्षर युग्म का चयन करें जिसका संबंध प्रश्न में दिए गए समान संबंध से है:

Theft : Confess
चोरी : कबूल

(a) Fight : Dare/लड़ना : हिम्मत करना
(b) Fault : Admit/दोष : स्वीकार
(c) Murder : Commit/हत्या : करना
(d) Mistake : Agree/गलती : सहमत

MP Police Constable Exam- 14 August-2023 Shift-2

Ans. (b) : जिस प्रकार 'चोरी' करने के बाद व्यक्ति से उसे कबूलने की अपेक्षा होती है। उसी प्रकार जब कोई व्यक्ति दोषी होता है तो उससे अपने दोष को स्वीकारने की अपेक्षा की जाती है।

60. Select the Lettered pair that has the same relationship as given in the question:
उस अक्षर युग्म का चयन करें जिसका संबंध प्रश्न में दिए गए समान संबंध से है:

Dog : Kennel
कुत्ता : कुत्ता घर

(a) Horse : Carriage/घोड़ा : गाड़ी
(b) Sheep : Flock/भेड़ : झुंड
(c) Cow : Barn/गाय : बार्न
(d) Sports : Stadium/खेल : स्टेडियम

MP Police Constable Exam- 14 August-2023 Shift-2

Ans. (c) : जिस प्रकार 'कुत्ता' के रहने के स्थान को 'कुत्ता घर' कहते है। उसी प्रकार 'गाय' के रहने के स्थान को 'बार्न' कहते हैं।

61. Select the option that is related to the third word in the same way as the second pair is related to the first pair.
उस विकल्प का चयन करें जो तीसरे शब्द से उसी प्रकार संबंधित है जैसे दूसरा युग्म पहले युग्म से संबंधित है।

Chair : Sitting :: Bed : ?
कुर्सी : बैठना :: बिस्तर : ?

(a) Stand/खड़ा होना (b) Sleep/सोना
(c) Run/दौड़ना (d) Jump/कूदना

MP Police Constable Exam- 20 August-2023 Shift-1

Ans. (b) : जिस प्रकार कुर्सी का उपयोग बैठने हेतु किया जाता है। उसी प्रकार बिस्तर का उपयोग सोने हेतु किया जाता है।

62. Select the option that is related to the third word in the same way as the second pair is related to the first pair.
उस विकल्प का चयन करें जो तीसरे शब्द से उसी प्रकार संबंधित है जैसे दूसरा युग्म पहले युग्म से संबंधित है।

Garden : Nursery :: Latest : ?
बगीचा : नर्सरी :: नवीनतम : ?

(a) Relic/अवशेष (b) Ancient/प्राचीन
(c) Fossil/जीवाश्म (d) Modern/आधुनिक

MP Police Constable Exam- 20 August-2023 Shift-1

Ans. (d) : जिस प्रकार बगीचा नर्सरी से सम्बन्धित है। उसी प्रकार नवीनतम आधुनिक से सम्बन्धित है।

63. In the following question, there is certain relationship between the first two terms. Choose the fourth term from the following options which has a similar kind of relation with the third term.
निम्न प्रश्न में, पहले दो पदों के बीच किसी प्रकार से कोई संबंध है। निम्न विकल्पों में से चौथा पद चुनिये जिसका तीसरे पद के साथ उसी प्रकार का संबंध है।

Parrot: cage :: Man:?
तोता : पिंजरा :: इंसान:

(a) Home/घर (b) Life/जीवन
(c) House/मकान (d) Prison/जेल

MP Police Constable Exam 23 July 2016 - 9:am

Ans : (d) जिस प्रकार 'तोते को पिंजरे में कैद किया जाता है। उसी प्रकार 'इंसान' को 'जेल' में कैद किया जाता है।

GET IT ON Google Play Best Study PDF के लिए हमारी App को Download करें "GK Trick By Nitin Gupta"

64. In the following question, four words are given, out of which three are same in certain way and the remining one is different. Find out the different one.
निम्न प्रश्न में, चार शब्द दिये गये हैं, जिनमें से तीन किसी प्रकार से समान हैं और शेष एक अलग है। अलग वाला ज्ञात कीजिये।

(a) Red/लाल (b) Paint/पेंट
(c) Green/हरा (d) Yellow/पीला

MP Police Constable Exam 23 July 2016 - 9:am

Ans : (b) लाल, हरा तथा पीला रंगों के नाम हैं जबकि पेन्ट एक पदार्थ है जो विभिन्न रंगों में पाया जाता है।

65. Select the Lettered pair that has the same relationship as given in the questions:
Numismatist : Coins
उस अक्षर युग्म का चयन करें जिसका संबंध प्रश्नों में दिए गए समान संबंध से है :
मुद्राशास्त्री : सिक्के

(a) Philatelist : Stamps /डाक टिकट सूची : टिकट
(b) Jeweller : jewels /जौहरी : जवाहरात
(c) Cartrographer : Maps/मानचित्रकार : मानचित्र
(d) Geneticist : Chromosomes/आनुवंशिकीविद् : गुणसूत्र

MP Police Constable Exam- 01 Feb-2022 Shift-1

Ans. (a) : जिस प्रकार सिक्कों को एकत्रित कर उनका अध्ययन करने वाले को ''मुद्राशास्त्रीय'' कहते हैं। उसी प्रकार टिकटों को एकत्रित कर उनका अध्ययन करने वाले को डाक टिकट संग्राहक (फिलैटेलिस्ट) कहते हैं।

66. Find the related word from the given alternatives.
Apple : Fruit
दिए गए विकल्पों से संबंधित शब्द ज्ञात करें।
सेब : फल

(a) Lunch : Meal/दोपहर का भोजन : भोजन
(b) Grapes : Wine/अंगूर : शराब
(c) Pen : Nib/कलम : नोंक
(d) Snow : Ice/हिमपात : बर्फ

MP Police Constable Exam- 01 Feb-2022 Shift-1

Ans. (a) : जिस प्रकार ''सेब'', ''फल'' के अन्तर्गत आता है। उसी प्रकार ''दोपहर का भोजन'' (Lunch), 'भोजन' के अन्तर्गत आता है।

67. In the following question, select the related word from the given alternatives.
Farmer : Field : : Painter : ?
निम्नलिखित प्रश्न में दिए गए विकल्पों में से संबंधित शब्द को चुनिए।
किसान : खेत :: चित्रकार : ?

(a) Gallery/चित्रशाला (b) Stage/मंच
(c) Theatre/रंगमंच (d) Shop/दुकान

MP Police Constable Exam- 09 Feb-2022 Shift-1

Ans. (a) : जिस प्रकार किसान, खेत में काम करता है। उसी प्रकार चित्रकार चित्रशाला में काम करता है।

68. Find the related word from the given alternatives.
Knife : Cut
दिए गए विकल्पों में से संबंधित शब्द का चयन करें।
चाकू : काटना

(a) Drive : Car/चलाना : कार
(b) Sit : Chair/बैठना : कुर्सी
(c) Pen : Write/कलम : लिखना
(d) Annoy : Exasperate/सताना :चिढ़ाना

MP Police Constable Exam- 09 Feb-2022 Shift-1

Ans. (c) : जिस प्रकार चाकू से काटने का कार्य किया जाता है। उसी प्रकार कलम से लिखने का कार्य किया जाता है।

69. Select the Lettered pair that has the same relationship as given in the questions:
Archaeologist : Antiqutity ?
उस अक्षर युग्म का चयन करें जिसका संबंध प्रश्नों में दिए गए समान संबंध से है:
पुरातत्वज्ञ : प्राचीन काल

(a) Ichthyologist: Marine life/इक्थियोलॉजिस्टः समुद्री जीवन
(b) Doctor : Medicine/डॉक्टर : मेडिसिन
(c) Teacher : Education/शिक्षक : शिक्षा
(d) Minister : Theology/मंत्री : धर्मशास्त्र

MP Police Constable Exam- 02 Feb-2022 Shift-1

Ans. (a): जिस प्रकार 'आर्कियोलॉजिस्ट' 'पुरातत्व विज्ञान' का विशेषज्ञ होता है। उसी प्रकार 'इक्थियोलॉजिस्ट' समुद्री जीवन का विशेषज्ञ होता है।

70. Select the option that is related to the third word in the same way as the second pair is related to the first pair.
Agra : Sikandar Lodi :: Ambala : ?
उस विकल्प का चयन करें जो तीसरे शब्द से उसी प्रकार संबंधित है जैसे दूसरा युग्म पहले युग्म से संबंधित है।
आगरा : सिकंदर लोदी :: अंबाला : ?

(a) Amba Rajput King/अंबा राजपूत राजा
(b) Akbar/अकबर
(c) Rao Bika/राव बीका
(d) Rustam Khan/रूस्तम खान

MP Police Constable Exam- 02 Feb-2022 Shift-1

Ans. (a) : जिस प्रकार 'आगरा' की स्थापना 'सिंकदर' लोदी' ने की थी, उसी प्रकार 'अंबाला' की स्थापना 'अंबा राजपूत राजा ' ने की थी।

71. There are two words making the base pair. Find the similar pair of words from the following
दो शब्द आधार युग्म बना रहें हैं। निम्न में से समान शब्दों का युग्म ज्ञात कीजिये।
Bunch : Key : :/गुच्छाः चाबी : :

(a) Hound : Pack/शिकारी कुत्ता : झुण्ड
(b) Bouquet : flower/गुलदस्ता : फूल
(c) Beehive : Bee/छत्ता : मधुमक्खी
(d) Examination : Subject/परीक्षा : विषय

MP Police Constable Exam- 26 July-2016 - 9: am

GET IT ON Google Play Best Study PDF के लिए हमारी App को Download करें "GK Trick By Nitin Gupta"

Ans : (b) जिस प्रकार, 'चाबी' के समूह को 'गुच्छा' कहा जाता है। उसी प्रकार, 'फूल' के समूह को 'गुलदस्ता' कहा जाता है।

72. Find out the pair which is different from the other in the following question
निम्न प्रश्न में वह युग्म ज्ञात कीजिये जो शेष से अलग है।

(a) Husband and wife/पति और पत्नी
(b) Fox and Vixen/लोमड़ी और मादा लोमड़ी
(c) Dog and bitch/कुत्ता और कुतिया
(d) King and Minister/राजा और मंत्री

MP Police Constable Exam 19 July 2016 - 9:am

Ans : (d) राजा और मंत्री को छोड़कर अन्य सभी पुल्लिंग व स्त्रीलिंग है।

73. Which of the following belongs to the same family as Emancipate, Free and Release?
निम्न में से कौन-से उसी परिवार से संबंधित हैं, जिससे कि बन्धनमुक्त, आज़ाद और छोड़ना?

(a) Ignore/अनदेखा (b) Pardon/माफी
(c) Liberate/मुक्त (d) Quit/छोड़ देना

MP Police Constable Exam 19 July 2016 - 9:am

Ans : (c) बन्धनमुक्त, आजाद और छोड़ना तीनों ही समानार्थी शब्द है। इनका विकल्पों में दिया गया समानार्थी मुक्त (Liberate) है।

74. What will replace '?' in the following?
निम्न में '?' की जगह क्या आएगा?

Moon : Satellite :: Earth : ?
चन्द्रमा : उपग्रह :: पृथ्वी : ?

(a) Sun/सूर्य
(b) Planet/ग्रह
(c) Solar system/सौरमण्डल
(d) Star/तारा

MP Police Constable Recruitment Test - 2013

Ans. (b) : जिस प्रकार 'चन्द्रमा' एक 'उपग्रह' है। उसी प्रकार 'पृथ्वी' एक 'ग्रह' है।
अतः '?' के स्थान पर ग्रह आयेगा।

75. What will replace '?' in the following?
निम्न में '?' की जगह क्या आएगा?

Ocean : Water :: Glacier : ?
समुद्र : पानी :: ग्लेशियर : ?

(a) Refrigerator/रेफ्रिजरेटर
(b) Ice/बर्फ
(c) Mountain/पहाड़
(d) Cave/गुफा

MP Police Constable Recruitment Test - 2013

Ans. (b) : जिस प्रकार समुद्र बहुत सारे 'पानी' से मिलकर बनता है। उसी प्रकार 'ग्लेशियर' बहुत सारे 'बर्फ' से मिलकर बनता है।

76. Replace the question mark (?) with correct word:
प्रश्नवाचक चिह्न (?) को सही शब्द से भरिए :

Farmer : Plough :: Author : ?
किसान : हल :: लेखक : ?

(a) Writing/लिखना (b) Brush/ब्रश
(c) Book/किताब (d) Pen/पेन

MP Police Constable Recruitment Test - 2013

Ans. (d) : जिस प्रकार 'किसान' 'हल' से अपने 'खेत' जोतता है। उसी प्रकार 'लेखक' 'पेन' से 'किताब' लिखता है।

77. Select the Lettered pair that has the same relationship as given in the question:
उस अक्षर युग्म का चयन करें जिसका संबंध प्रश्न में दिए गए समान संबंध से है:

Filter : Water
फिल्टर : पानी

(a) Expurge : Book/निष्कासन : पुस्तक
(b) Edit : Text/संपादन करना : मूलपाठ
(c) Censor : Play/सेंसर : प्ले
(d) Curtail : Activity/संक्षिप्त करना : गतिविधि

MP Police Constable Exam- 16 August-2023 Shift-2

Ans. (c) : जिस प्रकार 'फिल्टर' 'पानी' की जाँच करता है। उसी प्रकार 'सेन्सर बोर्ड' 'प्ले' की जाँच करता है। अतः विकल्प (c) सही उत्तर है।

78. Select the Lettered pair that has the same relationship as given in the question:
उस अक्षर युग्म का चयन करें जिसका संबंध प्रश्न में दिए गए समान संबंध से है:

Calendar : Date
कैलेंडर : तारीख

(a) Time : Hour/समय : घंटा
(b) Transport : Bus/परिवहन : बस
(c) Dictionary : Word/शब्दकोश : शब्द
(d) City : Pincode/शहर : पिनकोड

MP Police Constable Exam- 16 August-2023 Shift-2

Ans. (c) : जिस प्रकार 'कैलेन्डर' 'तारीख' बताता है। उसी प्रकार 'शब्दकोश' 'शब्द' बताता है। अतः विकल्प (c) सही उत्तर है।

79. In the following question, select the related word from the given alternatives.
निम्नलिखित प्रश्न में दिए गए विकल्पों में से संबंधित शब्द को चुनिए।

Cooler : Electricity :: ?
कूलर : बिजली :: ?

(a) Chair : Table/कुर्सी : मेज
(b) Cycle : Wheel /साइकिल : पहिया
(c) Money : Bank /मुद्रा : बैंक
(d) Car : Petrol/कार : पेट्रोल

MP Police Constable Exam- 16 August-2023 Shift-2

Ans. (d) : जिस प्रकार 'कूलर' 'बिजली' से चलता है। उसी प्रकार 'कार' पेट्रोल से चलती है। अतः विकल्प (d) सही उत्तर है।

80. In the following question, there is certain relationship between the first two words. Choose the fourth word from the following options which has a similar kind of relation with the third word.
निम्न प्रश्न में, पहले दो शब्दों के बीच स्पष्ट संबंध है। निम्न विकल्पों में से चौथा शब्द चुनिये जिसका तीसरे शब्द के साथ उसी प्रकार का संबंध है।

GET IT ON Google Play Best Study PDF के लिए हमारी App को Download करें "GK Trick By Nitin Gupta"

PRESIDENT: COUNTRY :: CHIEF MINISTER: ?
राष्ट्रपति : देश :: मुख्य मंत्री : ?

(a) Town/शहर (b) State/राज्य
(c) Village/गांव (d) District/जिला

MP Police Constable Exam- 18 July-2016 - 9: am

Ans : (b) जिस प्रकार राष्ट्रपति देश से संबंधित है।
उसी प्रकार मुख्यमंत्री राज्य से सम्बन्धित है।

81. 'Card board' is related to 'opaque' in the same way as 'glass' is related to –
'कार्डबोर्ड' संबंधित है 'अपारदर्शी' से। उसी प्रकार से जिस तरह 'काँच' संबंधित है इससे–

(a) Brittle/नाजुक (b) Lustrous/ चमकीला
(c) Glossy/ चिकना (d)Transparent/पारदर्शी

MP Police Constable Exam 25 July 2016 - 9:am

Ans : (d) जिस प्रकार 'कार्डबोर्ड' 'अपारदर्शी' है। उसी प्रकार 'काँच', 'पारदर्शी' है।

82. Find the word that represents the category of the following three words.
वह शब्द ज्ञात कीजिये जो निम्न तीन शब्दों की श्रेणी को दर्शाता है

Fraud, Jealousy, Hatred/छल, ईर्ष्या, घृणा

(a) Destruction/विनाश
(b) Envy/जलन
(c) Human characteristics/मनुष्य की विशेषताएं
(d) Quality/गुण

MP Police Constable Exam- 1 August-2016, 3:pm

Ans : (c) छल, ईर्ष्या और घृणा तीनों ही मनुष्य के नकारात्मक विशेषताएँ/गुण हैं। अतः तीनों को एक ही श्रेणी में रखा जायेगा।

83. In the following questions, there is certain relationship between the first two terms. Choose the fourth term from the following options which has a similar kind of relation with the third term.
निम्न प्रश्न में, पहले दो पदों के बीच किसी प्रकार से कोई संबंध है। निम्न विकल्पों में से चौथा पद चुनिये जिसका तीसरे पद के साथ उसी प्रकार का संबंध है।

Bee : Honey :: Cow : ?
मधुमक्खी : शहद :: गाय : ?

(a) Animal/जानवर (b) Grass/घास
(c) Milk/दूध (d) Water/जल

MP Police Constable Exam 24 July 2016 - 9:am

Ans : (c) जिस प्रकार मधुमक्खी से शहद प्राप्त होता है। उसी प्रकार गाय से दूध प्राप्त होता है।

84. Find the odd word out.
असंगत शब्द का चयन कीजिए।

(a) Paris/पेरिस (b) Berlin/बर्लिन
(c) Rome/रोम (d) New York/न्यूयार्क

MP Police Constable Exam- 31 August-2023 Shift-3

Ans. (d) : पेरिस, बर्लिन, रोम और न्यूयार्क में से न्यूयार्क अलग है क्योंकि यह किसी देश की राजधानी नहीं है, जबकि अन्य तीन है।
अतः विकल्प (d) अलग है।

85. Find the odd word out.
असंगत शब्द का चयन कीजिए।

(a) Maharashtra/महाराष्ट्र
(b) Madhya Pradesh/मध्य प्रदेश
(c) Odisha/ओड़िशा
(d) West Bengal/पश्चिम बंगाल

MP Police Constable Exam- 29 August-2023 Shift-2

Ans. (b) : विकल्प b असंगत है क्योंकि मध्य प्रदेश एक 'स्थलरूद्ध' राज्य है। जबकि महाराष्ट्र, ओड़िशा और पश्चिम बंगाल समुद्र तट पर बसे राज्य है।

86. Find the odd word out.
असंगत शब्द का चयन कीजिए।

(a) Mississippi/मिसीसिपी (b) Danube/डेन्यूब
(c) Mekong/मीकांग (d) Pampas/पंपास

MP Police Constable Exam- 2 Sep-2023 Shift-2

Ans. (d) : दिए गए विकल्पों में मिसीसिपी, डेन्यूब तथा मीकांग नदियाँ हैं। जबकि, पंपास दक्षिण अमेरिका में स्थित घास का मैदान है।

87. Find the odd word out.
असंगत शब्द का चयन कीजिए।

(a) Neon/नियान (b) Argon/आर्गन
(c) Helium/हीलियम (d) Chlorine/क्लोरीन

MP Police Constable Exam- 2 Sep-2023 Shift-2

Ans. (d) : नियान, आर्गन तथा हीलियम अक्रिय गैसें हैं, जबकि क्लोरीन एक सक्रिय गैस है इसलिए विकल्प (d) भिन्न होगा।

88. Find the odd word out.
असंगत शब्द का चयन कीजिए।

(a) Cow/गाय (b) Tiger/बाघ
(c) Jackal/सियार (d) Lion/शेर

MP Police Constable Exam- 2 Sep-2023 Shift-2

Ans. (a) : गाय को छोड़कर अन्य सभी माँसाहारी जानवर हैं। अतः विकल्प (a) भिन्न होगा।

89. Pick the odd one ?
विषम चुनिए ?

(a) Port Blair/पोर्ट ब्लेयर (b) Puducherry/पुडुचेरी
(c) Indore/इंदौर (d) Karavatti/कवरत्ती

MP Police Constable Exam- 29 August-2023 Shift-2

Ans. (c) : विकल्प 'c' इंदौर एक शहर है जबकि पोर्ट ब्लेयर, पुडुचेरी, कवरत्ती केन्द्र शासित प्रदेश की राजधानी है

90. Find the odd word out.
असंगत शब्द का चयन कीजिए।

(a) Saturn/शनि (b) Jupiter/बृहस्पति
(c) Mars/मंगल (d) Moon/चंद्रमा

MP Police Constable Exam- 2 Sep-2023 Shift-3

Ans. (d) : प्रश्नानुसार, शनि, बृहस्पति और मंगल ग्रह है जबकि चन्द्रमा, पृथ्वी का उपग्रह है। अतः विकल्प (d) भिन्न है।

91. Find the odd word out.
असंगत शब्द का चयन कीजिए।

(a) Feather/पंख (b) Fir/फर
(c) Trunk/सुँढ़ (d) Tail/पूँछ

MP Police Constable Exam- 5 Sep-2023 Shift-2

GET IT ON Google Play Best Study PDF के लिए हमारी App को Download करें "GK Trick By Nitin Gupta"

Ans. (b) : फर (Fir) असंगत शब्द है क्योंकि पंख (Feather), सुंढ़ (Trunk) और पूँछ (Tail) सभी जीवों के अंग हैं, जबकि 'फर' एक पेड़ का नाम है।

92. Find the odd word out.
असंगत शब्द का चयन कीजिए।
(a) TV/टीवी
(b) Refrigerator/रेफ़िजरेटर
(c) Bullock Cart/बैलगाड़ी
(d) Washing Machine/वॉशिंग मशीन

MP Police Constable Exam- 2 Sep-2023 Shift-3

Ans. (c) : प्रश्नानुसार, टीवी, रेफ्रिजरेटर और वॉशिंग मशीन इलेक्ट्रॉनिक उपकरण है जबकि बैलगाड़ी इलेक्ट्रॉनिक उपकरण नहीं है। अतः विकल्प (c) सही है।

93. Find the odd word out.
असंगत शब्द का चयन कीजिए।
(a) Canada/कनाडा (b) Argentina/अर्जेनटिना
(c) Mexico/मेक्सिको (d) U.S.A./यू.एस.ए.

MP Police Constable Exam- 4 Sep-2023 Shift-2

Ans. (b) : कनाडा, मेक्सिको तथा USA ये तीनों उत्तरी अमेरिका के देश है, जबकि अर्जेनटिना दक्षिणी अमेरिका का देश है।
∴ विकल्प (b) अन्य से भिन्न है।

94. Find the odd word out.
असंगत शब्द का चयन कीजिए।
(a) Maharashtra/महाराष्ट्र (b) Gujarat/गुजरात
(c) Kerala/केरल (d) Indore/इंदौर

MP Police Constable Exam- 29 August-2023 Shift-1

Ans. (d) : दिये गये विकल्प के अनुसार महाराष्ट्र, गुजरात, केरल, भारत के अलग-अलग राज्य है, जबकि इंदौर मध्य प्रदेश राज्य का एक महानगर है।

95. Find the odd one ?
विषम को पहचानें ?
(a) South-Africa/दक्षिण-अफ्रीका
(b) Australia/ऑस्ट्रेलिया
(c) Antarctica/अंटार्कटिका
(d) Sri-Lanka/श्रीलंका

MP Police Constable Exam- 29 August-2023 Shift-1

Ans. (d) : दिए गए विकल्पों के अनुसार–
दक्षिण-अफ्रीका, ऑस्ट्रेलिया, अंटार्कटिका सभी महाद्वीप है जबकि श्रीलंका एशिया महाद्वीप का एक देश है।

96. Find the odd word out.
असंगत शब्द का चयन कीजिए।
(a) Cardiac Muscles/कॉर्डिएक मांसपेशियां
(b) Tendons/कण्डरा
(c) Bones/हड्डियाँ
(d) Cartilage/उपास्थि

MP Police Constable Exam- 31 August-2023 Shift-2

Ans. (a) : दिए गए विकल्पों से कॉर्डिएक मांसपेशियां अनैच्छिक पेशियों के अन्तर्गत आती है जबकि शेष सभी (कण्डरा, हड्डियाँ तथा उपास्थि) ऐच्छिक पेशियों के अन्तर्गत आती हैं।
अतः कॉर्डिएक मांसपेशियां अन्य से असंगत है।

97. Find the odd word out.
असंगत शब्द का चयन कीजिए।
(a) Indore/इंदौर
(b) Agra/आगरा
(c) Udaipur/उदयपुर
(d) Maharashtra/महाराष्ट्र

MP Police Constable Exam- 6 Sep-2023 Shift-2

Ans. (d) : इन्दौर, आगरा और उदयपुर शहरों के नाम है जबकि महाराष्ट्र एक राज्य का नाम है।

98. Find the odd word out.
असंगत शब्द का चयन कीजिए।
(a) Cytoplasm/साइटोप्लाज्म
(b) Mitochondria/माइटोकांड्रिया
(c) Chitin/काइटिन
(d) Lysosomes/लाइसोसोम

MP Police Constable Exam- 3 Sep-2023 Shift-2

Ans. (c) : साइटोप्लाज्म, माइटोकांड्रिया और लाइसोसोम्स यह सब कोशिका के अन्दर पाये जाने वाले घटक है। जबकि काइटिन एक कार्बोहाइड्रेट (पॉलीसैकराइड) है-यह कोशिका की दीवार या बाह्यकंकाल जैसे संरचनात्मक पदार्थ के रूप में मिलता है न कि कोशिका का अंग है।

99. Find the odd word out.
असंगत शब्द का चयन कीजिए।
(a) Lucknow/लखनऊ
(b) Chennai/चेन्नई
(c) Ahmedabad/अहमदाबाद
(d) Itanagar/इटानगर

MP Police Constable Exam- 3 Sep-2023 Shift-2

Ans. (c) : प्रश्नानुसार, लखनऊ, चेन्नई तथा ईटानगर राज्यों की राजधानी का नाम है जबकि अहमदाबाद गुजरात के एक शहर का नाम है यह राजधानी नहीं है।

100. Find the odd number out.
असंगत संख्या का चयन कीजिए।
(a) 8 (b) 32
(c) 56 (d) 97

MP Police Constable Exam- 3 Sep-2023 Shift-2

Ans. (d) : संख्याएं 8, 32 तथा 56, 8 से विभाज्य जबकि 97, 8 से विभाज्य नहीं है।
अतः 97 असंगत संख्या है।

101. Find the odd word out.
असंगत शब्द का चयन कीजिए।
(a) Read/पढ़ना (b) Write/लिखना
(c) Knowledge/ज्ञान (d) Study/अध्ययन

MP Police Constable Exam- 27 August-2023 Shift-2

Ans. (c) : पढ़ना, लिखना और अध्ययन में सभी बाहरी प्रक्रिया है जबकि ज्ञान आंतरिक प्रक्रिया है।
अतः ज्ञान असंगत शब्द है।

102. Find the odd word out.
असंगत शब्द का चयन कीजिए।
(a) Ashoka/अशोक
(b) Bindusara/बिन्दुसार
(c) Ajatashatru/अजातशत्रु
(d) Brihadratha/बृहदरथ

MP Police Constable Exam- 3 Sep-2023 Shift-1

GET IT ON Google Play Best Study PDF के लिए हमारी App को Download करें "GK Trick By Nitin Gupta"

Ans. (c) : प्रश्नगत विकल्पों में से 'अजातशत्रु' असंगत है। बिन्दुसार, अशोक तथा बृहद्रथ; मौर्य साम्राज्य कालीन शासक हैं जबकि अजातशत्रु हर्यक वंश का शासक था।

103. Find the odd word out.
असंगत शब्द का चयन कीजिए।
(a) VV giri/वी वी गिरी
(b) Zakir Hussain/ज़ाकिर हुसैन
(c) Rajiv Gandhi/राजीव गांधी
(d) Zail singh/जैल सिंह

MP Police Constable Exam- 3 Sep-2023 Shift-1

Ans. (c) : प्रश्नगत विकल्पों में से 'राजीव गाँधी' शब्द असंगत है। वी वी गिरि (1969 से 1974), जाकिर हुसैन (1967 से 1969) तथा ज्ञानी जैल सिंह (1982 से 1987) भारत के राष्ट्रपति पद पर आसीन रहे, जबकि राजीव गाँधी भारत के 8वें (क्रम में; जबकि व्यक्ति में 6वें) प्रधानमंत्री (1984 से 1989) रहे।

104. Find the odd number out.
असंगत संख्या का चयन कीजिए।
(a) 27 (b) 512
(c) 8 (d) 243

MP Police Constable Exam- 3 Sep-2023 Shift-1

Ans. (d) :
$27 = 3^3$
$512 = 8^3$
$8 = 2^3$
243 किसी संख्या का घन नहीं है अतः '243' असंगत है।

105. Find the odd word out.
असंगत का चयन कीजिए।
(a) Brahmaputra/ब्रह्मपुत्र (b) Yamuna/यमुना
(c) Narmada/नर्मदा (d) Indus/सिन्धु

MP Police Constable Exam- 10 Jan -2022 Shift-2

Ans. (c) : ब्रह्मपुत्र, यमुना तथा सिन्धु तीनों नदियाँ हिमालय पर्वत श्रेणी से निकलती है जबकि नर्मदा नदी मध्य प्रदेश के अमरकण्टक पहाड़ी से निकलती है। अतः 'नर्मदा' असंगत है।

106. Find the odd word out.
असंगत शब्द का चयन कीजिए।
(a) Rectangle/आयत
(b) Square/वर्ग
(c) Cuboid/घनाभ
(d) Parallelogram/समान्तर चतुर्भुज

MP Police Constable Exam- 8 Jan-2022 Shift-2

Ans. (c) : दिये गये विकल्पों में से आयत, वर्ग तथा समान्तर चतुर्भुज 2-D आकृतियाँ है, जो कि समान है। जबकि घनाभ असंगत है क्योंकि यह 3-D आकृति है।

107. Select the option that is related to the third word in the same way as the second pair is related to the first pair.
उस विकल्प का चयन करें जो तीसरे शब्द से उसी प्रकार संबंधित है जैसे दूसरा युग्म पहले युग्म से संबंधित है।
Cricket : Bat :: Hockey : ?
क्रिकेट : बल्ला :: हॉकी : ?
(a) Stick/स्टिक (b) Tennis/टेनिस
(c) Kite/पतंग (d) Net/नेट

P Police Constable Exam- 20 August-2023 Shift-2

Ans. (a) : जिस प्रकार, क्रिकेट के खेल में बल्ला का उपयोग किया जाता है। उसी प्रकार, हॉकी के खेल में स्टिक का उपयोग किया जाता है। अतः विकल्प (a) सही है।

108. Select the word that has the same relationship as given in the question:
उस शब्द का चयन करें जिसका संबंध प्रश्न में दिए गए समान संबंध से है:
Finger : Hand :: ?
उँगली : हाथ :: ?
(a) Chair : Table/कुर्सी : टेबल
(b) Cycle : Wheel/साइकिल : पहिया
(c) Money : Bank/पैसा : बैंक
(d) Month : Year/महीना : वर्ष

MP Police Constable Exam- 20 August-2023 Shift-2

Ans. (d) : जिस प्रकार, उँगली, हाथ का हिस्सा है उसी प्रकार, विकल्प (d) से → महीना, वर्ष का हिस्सा है।

Type-2: अंग्रेजी शब्दों पर आधारित सादृश्यता

109. Find the odd word out.
असंगत शब्द का चयन कीजिए।
(a) Pupil /प्यूपिल (b) Iris /आइरिस
(c) Cornea /कॉर्निया (d) Medulla /मेडुला

MP Police Constable Exam- 1 Sep-2023 Shift-2

Ans. (d) : प्रश्नानुसार,
प्यूपिल, आइरिस और कॉर्निया 'आँख' से सम्बन्धित है जबकि मेडुला मस्तिष्क स्तम्भ का निचला भाग है।
अतः विकल्प (d) सही उत्तर है।

110. Find the odd word out.
असंगत शब्द का चयन कीजिए।
(a) Rickets /रिकेट्स (b) Anaemia /एनीमिया
(c) Typhoid /टाइफाइड (d) Scurvy /स्कर्वी

MP Police Constable Exam- 1 Sep-2023 Shift-2

Ans. (c) : प्रश्नानुसार,
रिकेट्स, एनीमिया तथा स्कर्वी विटामिन की कमी से होने वाले रोग है जबकि टाइफाइड एक संक्रमणकारी रोग है।
अतः विकल्प (c) सही उत्तर है।

111. Select the option that is related to the third word in the same way as the second pair is related to the first pair.
उस विकल्प का चयन करें जो तीसरे शब्द से उसी प्रकार संबंधित है जैसे दूसरा युग्म पहले युग्म से संबंधित है।
Music : Mp3 :: Video : ?
(a) Doc (b) Jpg
(c) Mp4 (d) txt

MP Police Constable Exam- 16 August-2023 Shift-2

Ans. (c) : जिस प्रकार 'Music' 'Mp3' फार्मेट होता है। ठीक उसी प्रकार 'Video', 'Mp4' फार्मेट होता है। अतः विकल्प (c) सही उत्तर है।

GET IT ON Google Play Best Study PDF के लिए हमारी App को Download करें "GK Trick By Nitin Gupta"

112. There are two words making the base pair. Find the similar pair of words from the following
Paisa : Rupee
दो शब्द आधार युग्म बना रहें हैं। निम्न में से समान शब्दों का युग्म ज्ञात कीजिये
पैसा : रूपया

(a) Kilogram : Quintal/किलोग्राम : क्विंटल
(b) Meter : Centimeter/मीटर : सेंटीमीटर
(c) Coin : Money/सिक्का : धन
(d) Weight : Ton/भार : टन

MP Police Constable Exam 17 July 2016 - 12:am

Ans. (a) जिस प्रकार 1 रूपया में 100 पैसे होते हैं, उसी प्रकार 1 क्विंटल में 100 किलोग्राम होते हैं।

113. Which one of the following four addresses is NOT EXACTLY same as the one given below?
निम्न दिये गये चार पतों में से नीचे दिये गये पते के ठीक समान कौन सा एक नहीं है?

At. Sr. Hiro Gordo-Globo
Sumo Informatica S.A.
Calle 39 No 1540
B1000TBU San Sebastian
ARGENTINA

(a) At. Sr. Hiro Gordo-Globo
Sumo Informatica S.A.
Calle 39 No. 1540
B1000TBU San Sebastian
ARGENTINA

(b) At. Sr. Hiro Gordo-Globo
Sumo Informatica S.A.
Calle 39 No 1540
B1000TBU San Sebastian
ARGENTINA

(c) At. Sr. Hiro Gordo-Globo
Sumo Informatica S.A.
Calle 39 No 1540
B100TBU San Sebastian
ARGENTINA

(d) At. Sr. Hiro Gordo-Globo
Sumo Informatica S.A.
Calle 39 No 1540
B1000TBU San Sebastian
ARGENTINA

MP Police Constable Exam 23 July 2016 - 9:am

Ans : (c) विकल्प (c) में B1000TBU के स्थान पर B100TBU का प्रयोग हुआ है। अतः विकल्प (c) अन्य तीनों के समान नहीं है।

114. Which one of the following four addresses is NOT EXACTLY the same as the one given below?
निम्न दिये गये चार पतों में से नीचे दिये गये पते के ठीक समान कौन-सा एक नहीं है?

Wilderness Voyageurs, Inc.
P.O. Box 97
Ohiopyle, Pennsylvania 15470
(412) 329-4752

(i) Wilderness Voyageurs, Inc.
P.O. Box 97
Ohiopyle, Pennsylvania 15470
(412) 329-4752

(ii) Wilderness Voyageurs, Inc.
P.O. Box 97
Ohiopyle, Pennsylvania 15470
(412) 329-4752

(iii) Wilderness Voyagers, Inc.
P.O. Box 97
Ohiopyle, Pennsylvania 15470
(412) 329-4752

(iv) Wilderness Voyageurs, Inc.
P.O. Box 97
Ohiopyle, Pennsylvania 15470
(412) 329-4752

(a) i (b) ii
(c) iii (d) iv

MP Police Constable Exam 19 July 2016 - 9:am

Ans : (c) विकल्प c दिये गये पते के ठीक समान नहीं है।

115. From the given alternative words, select the word which cannot be formed using the letters of the given word.
निम्नलिखित विकल्पों में से वह शब्द चुनिए जो दिए गए शब्द के अक्षरों का प्रयोग करके नहीं बनाया जा सकता?

ENDEAVOUR

(a) DEVOUR (b) ROUND
(c) DROWN (d) DROVE

MP Police Constable Exam- 9 Sep-2023 Shift-3

Ans. (c) : दिया गया शब्द निम्नवत् है-
ENDEAVOUR
उपर्युक्त शब्द का प्रयोग करके विकल्प (c) का शब्द (DROWN) नहीं बनाया जा सकता है क्योंकि DROWN में 'W' अक्षर का प्रयोग हुआ है जो दिए गए शब्द में नहीं है।
अतः विकल्प (c) सही उत्तर होगा।

116. From the given alternative words, select the word which cannot be formed using the letters of the given word.
दिए गए वैकल्पिक शब्दों में से वह शब्द चुनिए जो दिए गए शब्द के अक्षरों का प्रयोग करके नहीं बनाया जा सकता।

BANDAGED

(a) Banged (b) Band
(c) Bean (d) Bager

MP Police Constable Exam- 2 Sep-2023 Shift-3

Ans. (d) : प्रश्नानुसार, विकल्प (d) का शब्द Bager नहीं बनाया जा सकता है क्योंकि प्रश्न शब्द BANDAGED शब्द में R अक्षर नहीं है। अतः विकल्प (d) सही है।

117. Letters of a word have been jumbled up and numbered as given. Select the option that gives the correct order of the letters as indicated by the numbers to form the word.

GET IT ON Google Play Best Study PDF के लिए हमारी App को Download करें "GK Trick By Nitin Gupta"

एक शब्द के अक्षरों को उल्टा कर दिया गया है और दिए गए अनुसार क्रमांकित किया गया है। उस विकल्प का चयन करें जो शब्द बनाने के लिए संख्याओं द्वारा इंगित अक्षरों का सही क्रम देता है।

E T O N A Y G P M H O M S E M R
1 2 3 4 5 6 7 8 9 10 11 12 13 14 15 16

(a) 6,4,2,1,7,9,10,3,5,8,11,16,15,13,12,14
(b) 10,6,4,8,11,1,3,2,9,16,5,7,14,15,12,13
(c) 13,8,10,6,7,9,11,15,5,4,3,12,14,2,1,16
(d) 5,4,11,12,14,2,1,16,13,8,10,6,7,9,11,15

MP Police Constable Exam- 28 August-2023 Shift-3

Ans. (c) : दिए गए अक्षरों को क्रमांकित करने पर बना शब्द निम्नवत् है–

S P H Y G M O M A N O M E T E R
↓ ↓ ↓ ↓ ↓ ↓ ↓ ↓ ↓ ↓ ↓ ↓ ↓ ↓ ↓ ↓
13, 8, 10, 6, 7, 9, 11, 15, 5, 4, 3, 12, 14, 2, 1, 16

अतः SPHYGMOMANOMETER, रक्तदाबमापी यंत्र है।

118. Select the option that is related to the third term in the same way as the second term is related to the first.
Ornithology : bird : : Mycology : ?
उस विकल्प का चयन करें जो कि तीसरें पद से ठीक उसी प्रकार से संबंधित है जैसे कि दूसरा पद पहले पद से संबंधित है।
आर्निथोलॉजी : पक्षी :: माइकोलॉजी : ?

(a) Muscles/मांसपेशियाँ (b) Fungi/कवक
(c) Insects/कीड़ा (d) Amphibians/उभयचर

MP Police Constable Exam- 31 August-2023 Shift-2

Ans. (b) : जिस प्रकार आर्निथोलाजी में 'पक्षियों' का अध्ययन किया जाता है उसी प्रकार माइकोलोजी में 'कवकों' का अध्ययन किया जाता है।

Type-3: वाक्यों में दिये गये अंग्रेजी तथा हिन्दी शब्दों पर आधारित सादृश्यता

119. Select the option that is related to the third word in the same way as the second pair is related to the first pair.
उस विकल्प का चयन करें जो तीसरे शब्द से उसी प्रकार संबंधित है जैसे दूसरा युग्म पहले युग्म से संबंधित है।
Chemistry : Science :: Algebra : ?
रसायन विज्ञान : विज्ञान : बीजगणित : ?

(a) Mathematics/गणित (b) History/इतिहास
(c) Geography/भूगोल (d) English/अंग्रेजी

MP Police Constable Exam- 16 August-2023 Shift-3

Ans. (a) : जिस प्रकार रसायन विज्ञान विज्ञान से सम्बन्धित है उसी प्रकार बीज गणित, गणित से सम्बन्धित है।

120. Select the Lettered pair that has the same relationship as given in the question:
उस अक्षर युग्म का चयन करें जिसका संबंध प्रश्न में दिए गए समान संबंध से है:
Cloth : Texture
कपड़ा : बनावट

(a) Body : Weigh/शरीर : वज़न
(b) Silk : Cloth/रेशम : कपड़ा
(c) Wood : Grains/लकड़ी : ग्रेंस
(d) Ornaments : Gold/आभूषण : सोना

MP Police Constable Exam- 16 August-2023 Shift-3

Ans. (c) : प्रश्न में जिस प्रकार कपड़ा बनावट से संबंधित है उसी प्रकार लकड़ी ग्रेंस से संबंधित है।

121. In the following question, choose the pair/group of words that shows the same relationship as given at the top of every pair/group.
उस विकल्प का चयन करें जो तीसरे शब्द से उसी प्रकार संबंधित है जैसे दूसरा युग्म पहले युग्म से संबंधित है।
Bird : Wings :: Human : ?
पक्षी : पंख :: मानव : ?

(a) Mouth/मुंह (b) Nose/नाक
(c) Foot/पैर (d) Eye/आँख

MP Police Constable Exam- 16 August-2023 Shift-3

Ans. (c) : जिस प्रकार, पक्षी पंख से उड़ता है ठीक उसी प्रकार मानव पैर से चलता है।

122. Select the option that is related to the third word in the same way as the second pair is related to the first pair.
उस विकल्प का चयन करें जो तीसरे शब्द से उसी तरह संबंधित है जैसे दूसरा शब्द पहले शब्द से संबंधित है।
Cape Town : South Africa :: Doha : ?
केप टाउन : दक्षिण अफ्रीका :: दोहा :?

(a) Kuwait /कुवैत (b) Qatar /कतर
(c) Iran /ईरान (d) Yemen /यमन

MP Police Constable Exam- 16 August-2023 Shift-3

Ans. (b) : जिस प्रकार केप टाउन दक्षिण अफ्रीका की राजधानी है उसी प्रकार दोहा कतर की राजधानी है।

123. In the following question, there is certain relationship between the first terms. Choose the fourth term from the following options which has a similar kind of relation with the third term.
निम्न प्रश्न में, पहले तो पदों के बीच किसी प्रकार से कोई संबंध है। निम्न विकल्पों में से चौथा पद चुनिये जिसका तीसरे पद के साथ उसी प्रकार का संबंध है।
Sickness: Health :: Happiness:?
रोग : स्वास्थ्य :: खुशी:?

(a) Medicine/ दवाई (b) Misery/ कष्ट
(c) Comfort/ आराम (d) Sorrow/ शोक

MP Police Constable Exam 25 July 2016 - 9:am

Ans : (d) जिस प्रकार रोग का विलोम शब्द स्वास्थ्य है। उस प्रकार खुशी का विलोम शब्द शोक होगा।

GET IT ON Google Play Best Study PDF के लिए हमारी App को Download करें "GK Trick By Nitin Gupta"

124. Which one word can be formed from the following letters ?
निम्नलिखित अक्षरों से कौन-सा एक शब्द बनाया जा सकता है ?

a d e v i t p o

(a) almighty (b) adoptive
(c) aphelion (d) argument

MP Police Constable Exam- 5 Sep-2023 Shift-2

Ans. (b) : दिया गया अक्षर समूह–
a d e v i t p o
दिए गये शब्द के अक्षरों का प्रयोग करके केवल विकल्प (b) के शब्द
(adoptive) को बनाया जा सकता है।
अतः विकल्प (b) सही उत्तर होगा।

125. 'Rickets' is related to 'Bone' in the same way as 'Anophthalmia' is related to?
जिस तरह 'सूखा रोग' हड्डियों से सम्बंधित है उसी प्रकार 'एनोफ्थेल्मिया' किससे सम्बंधित है?

(a) Kidney/किडनी (b) Eye/आँख
(c) Nose/नाक (d) Heart/हृदय

MP Police Constable Exam- 6 Sep-2023 Shift-3

Ans. (b) : जिस प्रकार 'सूखा रोग' हड्डियों से संबंधित है उसी प्रकार 'एनोफ्थेल्मिया' आँख से संबंधित रोग है।
अतः विकल्प (b) सही है।

Type-4: अंग्रेजी वर्णमाला पर आधारित सादृश्यता

126. Which of the following can replace the question mark ?
निम्न में से कौन प्रश्नवाचक चिह्न को प्रतिस्थापित कर सकता है ?

DE-9, FC-9, LP-28, GT-?

(a) 35 (b) 8
(c) 27 (d) 6

MP Police Constable Exam- 31 August-2023 Shift-3

Ans. (c) : प्रश्नानुसार,
जिस प्रकार,

D E—9 , F C—9 , L D—28
4 5 6 3 12 16
तर्क → 4 + 5 = 9 6 + 3 = 9 12 + 16 = 28

उसी प्रकार,

G T—?
7 20
तर्क → 7 + 20 = 27

अतः ? = 27

127. Select the odd one out.
विषम का चयन करें।

M Q T W

(a) M (b) T
(c) W (d) Q

MP Police Constable Exam- 8 Sep-2023 Shift-2

Ans. (c) : प्रश्नानुसार,

M Q T W ≠ V
+4 +3 +2

अतः विकल्प (c) सही उत्तर है।

128. Select the odd one out.
विषम का चयन करें।

ZL XJ VH TF PB

(a) ZL (b) VH
(c) PB (d) XJ

MP Police Constable Exam- 8 Sep-2023 Shift-2

Ans. (c) : प्रश्नानुसार,

-2 -2 -2 -4
Z L X J V H T F P B
-2 -2 -2 -4

विषम अक्षर युग्म = PB
अतः विकल्प (c) सही उत्तर है।

129. Select the odd one out.
विषम का चयन करें।

SH QJ NM IS EV

(a) QJ (b) IS
(c) NM (d) EV

MP Police Constable Exam- 5 Sep -2023 Shift-1

Ans. (b) : IS अक्षर युग्म को छोड़कर अन्य सभी विपरीत अक्षर युग्म हैं।

130. Select the odd one out.
विषम शब्द का चयन करें।

Z Y A X B W D V

(a) V (b) A
(c) D (d) W

MP Police Constable Exam- 10 Sep-2023 Shift-1

Ans. (c) : दिया है-

+1 +1 +1
Z Y A X B W C ≠D V
–1 –1 –1

अतः विकल्प (c) विषम है।

131. Select the odd one out.
विषम शब्द का चयन करें।

AJ CH FE JA PB

(a) PB (b) AJ
(c) FE (d) CH

MP Police Constable Exam- 10 Sep-2023 Shift-1

Ans. (a) : प्रश्नानुसार,

–2 –3 –4 –5
A J C H F E J A O V ≠PB
+2 +3 +4 +5

अतः, विकल्प (a) विषम शब्द है।

GET IT ON Google Play Best Study PDF के लिए हमारी App को Download करें "GK Trick By Nitin Gupta"

132. Select the odd one out.
विषम शब्द का चयन करें।

BCD BDD BED BFD BID

(a) BCD (b) BED
(c) BID (d) BFD

MP Police Constable Exam- 12 Sep-2023 Shift-2

Ans. (c) : दिया गया अक्षर श्रृंखला निम्नवत् है-

$B \xrightarrow{+0} B \xrightarrow{+0} B \xrightarrow{+0} B \xrightarrow{+0} B$

$C \xrightarrow{+1} D \xrightarrow{+1} E \xrightarrow{+1} F \xrightarrow{+1} G \neq I$

$D \xrightarrow{+0} D \xrightarrow{+0} D \xrightarrow{+0} D \xrightarrow{+0} D$

अतः विकल्प (c) 'BID' विषम युग्म है।

133. Select the odd one out.
विषम शब्द का चयन करें।

C H L P T

(a) H (b) P
(c) T (d) C

MP Police Constable Exam- 9 Sep -2023 Shift-3

Ans. (d) : प्रश्नानुसार,
दी गई अक्षर श्रृंखला निम्नवत् है-

$\boxed{C} \xrightarrow{+5} H \xrightarrow{+4} L \xrightarrow{+4} P \xrightarrow{+4} T$

अतः उपर्युक्त से स्पष्ट है कि दी गई अक्षर श्रृंखला में 'C' के स्थान पर 'D' होगा।
अतः विकल्प (d) सही उत्तर होगा।

134. Select the odd one out.
विषम शब्द का चयन करें।

MP NQ UW PS QT

(a) MP (b) UW
(c) NQ (d) QT

MP Police Constable Exam- 9 Sep -2023 Shift-3

Ans. (b) : प्रश्नानुसार,
दिए गए अक्षर युग्मों से-

$M \xrightarrow{+3} P$, $N \xrightarrow{+3} Q$, $U \xrightarrow{+2} W$, $P \xrightarrow{+3} S$, $Q \xrightarrow{+3} T$

अतः उपर्युक्त से स्पष्ट है कि दी गई अक्षर श्रृंखला में 'UW' सबसे भिन्न है।
अतः विकल्प (b) सही उत्तर होगा।

135. Select the odd one out.
विषम शब्द का चयन करें।

(a) SUW (b) RTV
(c) GIK (d) MPN

MP Police Constable Exam- 12 Sep-2023 Shift-2

Ans. (d) : विकल्पों से,

(a) $S \xrightarrow{+2} U \xrightarrow{+2} W$ (b) $R \xrightarrow{+2} T \xrightarrow{+2} V$

(c) $G \xrightarrow{+2} I \xrightarrow{+2} K$ (d) $M \xrightarrow{+3} P \xrightarrow{-2} N$

अतः उपर्युक्त हल से स्पष्ट है कि विकल्प (d) विषम अक्षर युग्म है।

136. Find out the odd word/letters/number/ number from the given alternatives.
दिए गए विकल्पों से विषम शब्द/अक्षर/संख्या/संख्या का चयन करें।

(a) F (b) P
(c) L (d) R

MP Police Constable Exam- 12 Sep-2023 Shift-2

Ans. (b) : दिये गये विकल्पों में विकल्प 'b' P = 16 एक पूर्ण वर्ग संख्या है, जबकि अन्य सभी विकल्पों में ऐसा नहीं है।

137. Select the odd one out.
विषम शब्द का चयन करें।

Y T P N K

(a) N (b) K
(c) T (d) Y

MP Police Constable Exam- 6 Sep-2023 Shift-3

Ans. (a) : प्रश्नानुसार,

$Y \xrightarrow{-5} T \xrightarrow{-4} P \xrightarrow{-3} \boxed{M}\ N \xrightarrow{-2} K$

अतः विकल्प (a) सही उत्तर है।

138. Select the odd letters from the given alternatives.
दिये गए विकल्पों में से असंगत वर्णों का चयन कीजिये

(a) ACE (b) ONE
(c) ENO (d) RED

MP Police Constable Exam- 6 Sep-2023 Shift-3

Ans. (d) : प्रश्नानुसार,
ACE, ONE और ENO में दो Vowles है जबकि RED में एक Vowel है।
अतः विकल्प (d) सही उत्तर है।

139. Select the odd one out.
विषम शब्द का चयन करें।

J H F D C

(a) J (b) H
(c) C (d) D

MP Police Constable Exam- 9 Sep-2023 Shift-2

Ans. (c) : दी गई श्रेणी निम्नवत् है-

$J \xrightarrow{-2} H \xrightarrow{-2} F \xrightarrow{-2} D \xrightarrow{-2} C \neq B$

उपर्युक्त श्रेणी श्रृंखला से स्पष्ट है कि, 'C' के स्थान पर 'B' आयेगा! इसलिए 'C' विषम होगा।

140. Select the odd one out.
विषम शब्द का चयन करें।

ZS WO TK RH NC

(a) RH (b) NC
(c) ZS (d) WO

MP Police Constable Exam- 9 Sep-2023 Shift-2

GET IT ON Google Play Best Study PDF के लिए हमारी App को Download करें "GK Trick By Nitin Gupta"

Ans. (a) : दी गई श्रेणी निम्नवत् है-

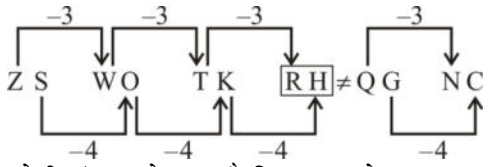

उपर्युक्त श्रेणी शृंखला से स्पष्ट है कि, 'RH' के स्थान पर 'QG' आयेगा। इसलिए विकल्प (a) भिन्न होगा।

141. Select the odd one out.
विषम शब्द का चयन करें।

RD SE TG UJ VN WK

(a) RD (b) TG
(c) WK (d) VN

MP Police Constable Exam- 4 Sep-2023 Shift-3

Ans. (c) : दिया गया अक्षर शृंखला निम्नवत् है–

R $\xrightarrow{+1}$ S $\xrightarrow{+1}$ T $\xrightarrow{+1}$ U $\xrightarrow{+1}$ V $\xrightarrow{+1}$ W

D $\xrightarrow{+1}$ E $\xrightarrow{+2}$ G $\xrightarrow{+3}$ J $\xrightarrow{+4}$ N $\xrightarrow{+5}$ S ≠ K

अतः विषम अक्षर समूह = WK

142. Select the odd one out.
विषम शब्द का चयन करें।

AZ BY CX DW FW

(a) FW (b) AZ
(c) CX (d) DW

MP Police Constable Exam- 11 Sep-2023 Shift-2

Ans. (a) : प्रश्नानुसार,
दी गयी अक्षर शृंखला से-

AZ $\longrightarrow$ A $\xrightarrow{\text{विपरीत}}$ Z
BY $\longrightarrow$ B $\xrightarrow{\text{विपरीत}}$ Y
CX $\longrightarrow$ C $\xrightarrow{\text{विपरीत}}$ X
DW $\longrightarrow$ D $\xrightarrow{\text{विपरीत}}$ W
FW $\longrightarrow$ F $\xrightarrow{\text{विपरीत नहीं}}$ W (विषम)

अतः विकल्प (a) सही उत्तर होगा।

143. Select the odd one out.
विषम शब्द का चयन करें।

PA QB RC TE

(a) PA (b) RC
(c) TE (d) QB

MP Police Constable Exam- 11 Sep-2023 Shift-2

Ans. (c) : प्रश्नानुसार,
दी गई अक्षर शृंखला निम्नवत् है-

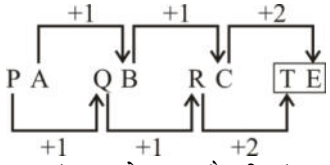

उपर्युक्त अक्षर शृंखला से स्पष्ट है की शृंखला में 'TE' अन्य से विषम (भिन्न) है।

अतः विकल्प (c) सही उत्तर होगा।

144. Select the letter-cluster that is related to the third letter-cluster in the same way as the second letter-cluster is related to the first letter-cluster.
उस अक्षर-समूह का चयन करें जो तीसरे अक्षर-समूह से उसी प्रकार संबंधित है जैसे दूसरा अक्षर-समूह, पहले अक्षर-समूह से संबंधित है।

AG : IO :: EK : ?

(a) LR (b) MS
(c) PV (d) SY

MP Police Constable Exam- 23 August-2023 Shift-1

Ans. (b) : प्रश्नानुसार,

जिस प्रकार, उसी प्रकार,

A $\xrightarrow{+8}$ I : E $\xrightarrow{+8}$ M
G $\xrightarrow{+8}$ O : K $\xrightarrow{+8}$ S

अतः ? = MS

145. Select the odd one out.
विषम शब्द का चयन करें।

MN LO KP JQ IR GT

(a) MN (b) KP
(c) GT (d) JQ

MP Police Constable Exam- 11 Sep-2023 Shift-3

Ans. (c) : प्रश्नानुसार अक्षर शृंखला निम्नवत् है-

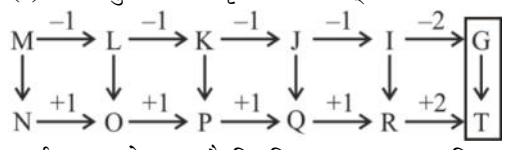

अतः उपर्युक्त हल से स्पष्ट है कि विकल्प (c) 'GT' विषम अक्षर युग्म है।

146. Select the odd one out.
विषम शब्द का चयन करें।

(a) KIG (b) FDB
(c) GEI (d) HFD

MP Police Constable Exam- 11 Sep-2023 Shift-3

Ans. (c) : विकल्पों से,

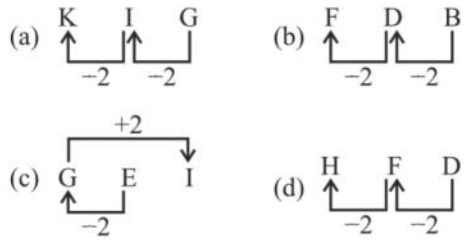

अतः विकल्प (c) अन्य से भिन्न है।

147. Select the option that is related to the third term in the same way as the second term is related to the first term.
उस विकल्प का चयन करें जो तीसरे पद से उसी प्रकार संबंधित है जैसे दूसरा पद पहले पद से संबंधित है।

DK : 44 :: BI : ?

(a) 15 (b) 12
(c) 18 (d) 20

MP Police Constable Exam- 18 August-2023 Shift-3

GET IT ON Google Play Best Study PDF के लिए हमारी App को Download करें "GK Trick By Nitin Gupta"

Ans. (c) : जिस प्रकार,

D K : 44

$4 \times 11 = 44$

उसी प्रकार,

B I : ?

$2 \times 9 = 18$

148. Choose the group of letter which is different from other.

अक्षरों के उस समूह को चुनिए जो अन्य से भिन्न है ?

(a) ADG (b) MPI

(c) KNQ (d) EHK

MP Police Constable Exam- 01 Feb-2022 Shift-1

Ans. (b) : विकल्पों से-

(a) $A \xrightarrow{+3} D \xrightarrow{+3} G$ (b) $M \xrightarrow{+3} P \xrightarrow{+4} T$

(c) $K \xrightarrow{+3} N \xrightarrow{+3} Q$ (d) $E \xrightarrow{+3} H \xrightarrow{+3} K$

अतः स्पष्ट है कि विकल्प (b) अन्य से भिन्न है।

149. Which of the following will replace the question mark (?) sign?

प्रश्नवाचक चिह्न (?) के स्थान पर निम्नलिखित में से कौन-सा आएगा?

ZA : YB :: XC : ___?

(a) VC (b) YD

(c) NP (d) WD

MP Police Constable Recruitment (Second)Test - 2013

Ans. (d) : जिस प्रकार,

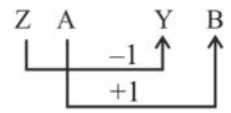

उसी प्रकार,

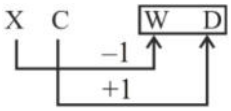

अतः विकल्प (d) सही उत्तर है।

150. Which of the following letters will come next in the same pattern in the given letter series?

दिए गए अक्षर श्रेणी में समान पैटर्न के आधार पर अगला अक्षर निम्नलिखित में से कौन-सा है?

D F I M R ___?___

(a) Y (b) W

(c) V (d) X

MP Police Constable Recruitment (Second)Test - 2013

Ans. (d) : प्रश्नानुसार,

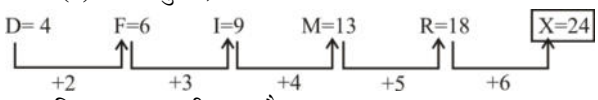

अतः विकल्प (d) सही उत्तर है।

151. What should come in place of question mark (?) in the following question?

निम्नलिखित प्रश्न में प्रश्न चिह्न (?) के स्थान पर क्या मान आना चाहिए?

? : QR :: PT : RV

(a) OQ (b) OS

(c) OP (d) OO

MP Police Constable Exam- 21 August-2023 Shift-2

Ans. (c) : जिस प्रकार,

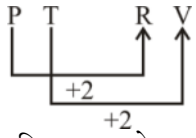

उसी प्रकार विकल्प (c) से-

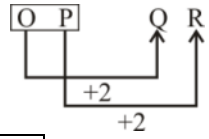

अतः ? = OP

152. Which of the following can replace the question mark?

निम्न में से कौन प्रश्नवाचक चिह्न को प्रतिस्थापित कर सकता है?

2A, 3B, 4C, 5D, ?

(a) 6B (b) 6E

(c) 7E (d) 7C

MP Police Constable Exam- 21 August-2023 Shift-2

Ans. (b) : दी गई श्रृंखला निम्नवत् है-

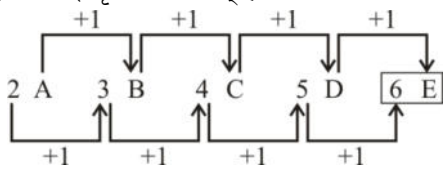

अतः ? = 6E

153. In the following question, some group of letters is given, all of which, except one, share a common similarity while one is different. Choose the odd one out.

निम्न प्रश्न में, कुछ शब्दों के समूह दिये गये हैं, जो सभी, केवल एक को छोड़कर, समान हैं जबकि एक अलग है। विषम वाले को चुनिये।

(a) AE (b) AI

(c) IO (d) EI

MP Police Constable Exam- 1 August-2016, 3:pm

Ans : (b) AI को छोड़कर अन्य में पहला अक्षर दूसरे के तुरंत पहले आने वाला स्वर है।

154. The series given below contains a sequence of alphabets and numbers. Identify the incorrect combination:

नीचे दी गई श्रृंखला अक्षरों एवं संख्याओं का अनुक्रम प्रयोग करती है। गलत संयोजन पहचानिये।

(i) hf8o7e6uwa (ii) hf8o7e6uwa

(iii) hf8o7e6uvva (iv) hf8o7e6uwa

(a) i (b) ii

(c) iii (d) iv

MP Police Constable Exam- 1 August-2016, 3:pm

Ans : (c) गलत संयोजन = hf8o7e6u(vv)a

155. Select the letter-cluster that is related to the third letter-cluster in the same way as the second letter-cluster is related to the first letter-cluster.

GET IT ON Google Play Best Study PDF के लिए हमारी App को Download करें "GK Trick By Nitin Gupta"

उस अक्षर-समूह का चयन करें जो तीसरे अक्षर-समूह से उसी प्रकार संबंधित है जैसे दूसरा अक्षर-समूह, पहले अक्षर-समूह से संबंधित है।

Dda : aDD :: Rrb : ?

(a) BBr (b) bRR
(c) RRR (d) DDA

MP Police Constable Exam- 24 August-2023 Shift-3
MP Police Constable Exam- 8 Sep-2023 Shift-2

Ans. (b) :
जिस प्रकार,

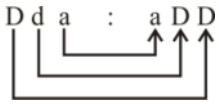

उसी प्रकार,

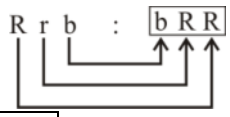

अतः ? = bRR

Type-5: संख्याओं पर आधारित सादृश्यता

156. Select the option that is related to the third number in the same way as the second number is related to the first number.
उस विकल्प का चयन करें जो तीसरी संख्या से उसी प्रकार संबंधित है जैसे दूसरी संख्या पहली संख्या से संबंधित है।

6 : 232 :: 8 : ?

(a) 528 (b) 540
(c) 520 (d) 535

MP Police Constable Exam- 2 Sep-2023 Shift-2

Ans. (a) : जिस प्रकार,
$(6)^3 \rightarrow 216 + 16 \rightarrow 232$
उसी प्रकार,
$(8)^3 \rightarrow 512 + 16 \rightarrow 528$
∴ विकल्प (a) सही उत्तर होगा।

157. Choose the numbers which is different from others in the group ?
दिए गए समूह में से विषम संख्या का चयन करे ?

(a) 3-9 (b) 8-65
(c) 7-49 (d) 13-169

MP Police Constable Exam- 2 Sep-2023 Shift-2

Ans. (b) : विकल्पों की जाँच करने पर–
(a) 3 — 9 → $(3)^2$ — 9
(b) 8 — 65 → $(8)^2$ — 64 ≠ 65 (विषम)
(c) 7 — 49 → $(7)^2$ — 49
(d) 13 — 169 → $(13)^2$ — 169
अतः विकल्प (b) विषम है।

158. Select the option that is related to the third number in the same way as the second number is related to the first number.
उस विकल्प का चयन करें जो तीसरी संख्या से उसी प्रकार संबंधित है जैसे दूसरी संख्या पहली संख्या से संबंधित है।

8 : 512 :: ? : 4913

(a) 15 (b) 18
(c) 16 (d) 17

MP Police Constable Exam- 24 August-2023 Shift-2

Ans. (d) : दी गई श्रृंखला निम्नवत् है–
जिस प्रकार, 8 : 512 → $(8)^3$
उसी प्रकार, 17 : 4913 → $(17)^3$
अतः ? = 17

159. Select the option that is related to the third number in the same way as the second number is related to the first number.
उस विकल्प का चयन करें जो तीसरी संख्या से उसी प्रकार संबंधित है जैसे दूसरी संख्या पहली संख्या से संबंधित है।

25 : 40 :: 36 : ?

(a) 50 (b) 62
(c) 54 (d) 58

MP Police Constable Exam- 24 August-2023 Shift-2

Ans. (b) : दी गई श्रृंखला निम्नवत् है–
25 : 40 :: 36 : 62
×2–10 ×2–10
अतः ? = 62

160. Select the option that is related to the third number in the same way as the second number is related to the first number.
उस विकल्प का चयन करें जो तीसरी संख्या से उसी प्रकार संबंधित है जैसे दूसरी संख्या, पहली संख्या से संबंधित है।

4 : 62 :: 7 : ?

(a) 341 (b) 378
(c) 366 (d) 312

MP Police Constable Exam- 27 August-2023 Shift-1

Ans. (a) : जिस प्रकार, 4 : 62 ⇒ $(4)^3 – 2 = 62$
उसी प्रकार, 7 : 341 ⇒ $(7)^3 – 2 = 341$
अतः ? = 341

161. Select the option that is related to the third number in the same way as the second number is related to the first number.
उस विकल्प का चयन करें जो तीसरी संख्या से उसी प्रकार संबंधित है जैसे दूसरी संख्या पहली संख्या से संबंधित है।

13 : 170 :: 15 : ?

(a) 450 (b) 578
(c) 226 (d) 235

MP Police Constable Exam- 27 August-2023 Shift-1

Ans. (c) : जिस प्रकार, 13 : 170 ×13+1
उसी प्रकार, 15 : 226 ×15+1
अतः ? = 226

GET IT ON Google Play Best Study PDF के लिए हमारी App को Download करें "GK Trick By Nitin Gupta"

162. Find the odd number out.
असंगत संख्या का चयन कीजिए।

(a) 5-126 (b) 3-28
(c) 9-730 (d) 10-999

MP Police Constable Exam- 5 Sep -2023 Shift-1

Ans. (d) : प्रश्नानुसार,
$5 - 126 \Rightarrow (5)^3 + 1 = 125 + 1 = 126$
$3 - 28 \Rightarrow (3)^3 + 1 = 27 + 1 = 28$
$9 - 730 \Rightarrow (9)^3 + 1 = 729 + 1 = 730$
$10 - 999 \Rightarrow (10)^3 + 1 = 1000 + 1 = 1001 \neq 999$ (असंगत)
अतः विकल्प (d) सही उत्तर है।

163. In the following question, select the odd number pair from the given alternatives.
निम्नलिखित प्रश्न में दिए गए विकल्पों में से विषम संख्या युग्म को चुनिए।

(a) 82 - 16 (b) 65 - 35
(c) 44 - 16 (d) 96 - 54

MP Police Constable Exam- 5 Sep -2023 Shift-1

Ans. (b) : (a) $8 \times 2 = 16$
(b) $6 \times 5 \neq 35$ (विषम)
(c) $4 \times 4 = 16$
(d) $9 \times 6 = 54$
अतः विकल्प (b) भिन्न है।

164. Find the wrong term in the given series:
दी गई श्रृंखला में गलत पद ज्ञात करें:
1, 27, 125, 216, 729

(a) 216 (b) 125
(c) 729 (d) 1

MP Police Constable Exam- 9 Sep-2023 Shift-3

Ans. (a) : प्रश्नानुसार, दी गई संख्या श्रृंखला निम्नवत् है-

$$\begin{array}{ccccc} 1 & 27 & 125 & 216 & 729 \\ \downarrow & \downarrow & \downarrow & \downarrow & \downarrow \\ (1)^3 & (3)^3 & (5)^3 & \boxed{(6)^3} & (9)^3 \\ & & & \text{विषम} & \end{array}$$

उपर्युक्त से स्पष्ट है श्रृंखला में '216' विषम है क्योंकि यह सम संख्या का घन है जबकि श्रृंखला विषम संख्या का घन है।
अतः विकल्प (a) सही उत्तर होगा।

165. Select the option that is related to the third number in the same way as the second number is related to the first number.
उस विकल्प का चयन करें जो तीसरी संख्या से उसी प्रकार संबंधित है जैसे दूसरी संख्या पहली संख्या से संबंधित है।
10 : 50 :: 20 : ?

(a) 300 (b) 200
(c) 600 (d) 400

MP Police Constable Exam- 23 August-2023 Shift-2

Ans. (b) : जिस प्रकार,

$$\frac{10^2}{2} \longrightarrow 50$$

उसी प्रकार,

$$\frac{20^2}{2} \longrightarrow 200$$

166. Select the option/number which is related to 3rd number in the same way as 2nd number is related to a 1st number ?
उस संख्या/विकल्प का चयन करें जो तीसरी संख्या से उसी प्रकार संबंधित है जैसे दूसरी संख्या पहली संख्या से संबंधित है।
5 : 100 :: 4 : ?

(a) 32 (b) 64
(c) 8 (d) 16

MP Police Constable Exam- 26 August-2023 Shift-3

Ans. (b) : जिस प्रकार,
$(5)^2 \times 4 = 100$
उसी प्रकार,
$(4)^2 \times 4 = 64$
अतः $\boxed{? = 64}$

167. Select the option that is related to the third number in the same way as the second number is related to the first number.
उस विकल्प का चयन करें जो तीसरी संख्या से, उसी प्रकार संबंधित है जैसे दूसरी संख्या पहली संख्या से संबंधित है।
15 : 256 :: ? : 484

(a) 20 (b) 23
(c) 24 (d) 21

MP Police Constable Exam- 23 August-2023 Shift-3

Ans. (d) :

जिस प्रकार,	उसी प्रकार,
15 : 256	$\boxed{?}$: 484
↓	↓
$15 + 1 = 16$	$21 + 1 = 22$
$(16)^2 \Rightarrow 256$	$(22)^2 \Rightarrow 484$

अतः $\boxed{? = 21}$

168. Select the option that is related to the third number in the same way as the second number is related to the first number.
उस विकल्प का चयन करें जो तीसरी संख्या से, उसी प्रकार संबंधित है जैसे दूसरी संख्या पहली संख्या से संबंधित है।
9 : 100 :: 31 : ?

(a) 980 (b) 985
(c) 970 (d) 975

MP Police Constable Exam- 23 August-2023 Shift-3

Ans. (a) :

जिस प्रकार,	उसी प्रकार,
9 : 100	31 : $\boxed{?}$
↓	↓
$(9)^2 + 19 = 100$	$(31)^2 + 19 = 980$

अतः $\boxed{? = 980}$

169. Three of the following four numbers are alike in a certain way and one is different. Find the odd one out.

GET IT ON Google Play Best Study PDF के लिए हमारी App को Download करें "GK Trick By Nitin Gupta"

निम्नलिखित चार संख्याओं में से तीन संख्याएं किसी विशिष्ट संदर्भ में एक दूसरे के समान हैं और इनमें से एक संख्या असमान है। उस असमान संख्या का चयन कीजिए।

(a) 594 (b) 693
(c) 462 (d) 573

MP Police Constable Exam- 6 Sep-2023 Shift-3

Ans. (d) : प्रश्नानुसार,
$594 \rightarrow 5 + 4 = 9$
$693 \rightarrow 6 + 3 = 9$
$462 \rightarrow 4 + 2 = 6$
$573 \rightarrow 5 + 3 = 8 \neq 7$ (विषम)
अतः विकल्प (d) सही उत्तर है।

170. Select the option that is related to the third number in the same way as the second number is related to the first number.
उस विकल्प का चयन करें जो तीसरी संख्या से उसी प्रकार संबंधित है जैसे दूसरी संख्या पहली संख्या से संबंधित है।
134 : 148 :: 153 : ?

(a) 167 (b) 172
(c) 170 (d) 165

MP Police Constable Exam- 4 Sep-2023 Shift-3

Ans. (a) :
जिस प्रकार, उसी प्रकार,
134 : 148 (+14) 153 : 167 (+14)
अतः ? = 167

171. Select the option that is related to the third number in the same way as the second number is related to the first number.
उस विकल्प का चयन करें जो तीसरी संख्या से उसी प्रकार संबंधित है जैसे दूसरी संख्या पहली संख्या से संबंधित है।
23 : 100 :: 37 : ?

(a) 156 (b) 305
(c) 175 (d) 215

MP Police Constable Exam- 28 August-2023 Shift-3

Ans. (a) : जिस प्रकार, उसी प्रकार,
23 : 100 (×4+8) :: 37 : 156 (×4+8)
अतः ? = 156

172. Select the option that is related to the third number in the same way as the second number is related to the first number.
उस विकल्प का चयन करें जो तीसरी संख्या से उसी प्रकार संबंधित है जैसे दूसरी संख्या पहली संख्या से संबंधित है।
222 : 248 :: 312 : ?

(a) 330 (b) 332
(c) 338 (d) 340

MP Police Constable Exam- 4 Sep-2023 Shift-2

Ans. (c) : जिस प्रकार,
$222 + 26 \rightarrow 248$
उसी प्रकार,
$312 + 26 \rightarrow 338$
∴ विकल्प (c) सही है।

173. Choose the numbers which is different from others in the group ?
दिए गए समूह में से विषम संख्या का चयन करे ?

(a) 3, 9, 81
(b) 5, 25, 625
(c) 4, 16, 64 (d) 2, 4, 16

MP Police Constable Exam- 24 August-2023 Shift-3

Ans. (c) : विकल्पों की जाँच करने पर–
(a) 3, 9, 81 → $(3)^2$, $(9)^2$
(b) 5, 25, 625 → $(5)^2$, $(25)^2$
(c) 4, 16, 256≠64 (असंगत) → $(4)^2$, $(16)^2$
(d) 2, 4, 16 → $(2)^2$, $(4)^2$
अतः विकल्प (c) विषम है।

174. Select the option/number which is related to 3rd number in the same way as 2nd number is related to a 1st number ?
उस संख्या/विकल्प का चयन करें जो तीसरी संख्या से उसी प्रकार संबंधित है जैसे दूसरी संख्या पहली संख्या से संबंधित है।
123 : 36 :: 263 : ?

(a) 792 (b) 1008
(c) 1296 (d) 1024

MP Police Constable Exam- 26 August-2023 Shift-2

Ans. (c) : जिस प्रकार,
$123 : 36 \Rightarrow (1\times2\times3)^2 \Rightarrow (6)^2 = 36$
उसी प्रकार,
$263 : ? \Rightarrow ? = (2\times6\times3)^2 \Rightarrow (36)^2 = 1296$
अतः ? = 1296

175. In the following question, select the odd number pair from the given alternatives.
निम्नलिखित प्रश्न में दिए गए विकल्पों में से विषम संख्या युग्म को चुनिए।

(a) 34 (b) 254
(c) 167 (d) 80

MP Police Constable Exam- 31 August-2023 Shift-2

Ans. (d) : विकल्पों की जाँच करने पर–
(a) $34 = (6)^2 - 2$
$34 = 34$
(b) $254 = (16)^2 - 2$
$254 = 254$
(c) $167 = (13)^2 - 2$
$167 = 167$
(d) $80 = (9)^2 - 2$
$80 \neq 79$ (विषम संख्या)
अतः दिए गए विकल्प के अनुसार '80' विषम संख्या युग्म है।

GET IT ON Google Play Best Study PDF के लिए हमारी App को Download करें "GK Trick By Nitin Gupta"

176. Select the related word/letters/number from the given alternatives.
दिए गए विकल्पों से संबंधित शब्द/अक्षर/संख्या का चयन करें।

13 : 78 :: 15 : ?

(a) 56 (b) 77
(c) 167 (d) 135

MP Police Constable Exam- 12 Sep-2023 Shift-1

Ans. (d) : प्रश्नानुसार,

13 : 78 : : 15 : 135
×6 ×9

अतः ? = 135

Note- 15 का गुणज केवल 135 ही है।

177. In the following question, select the odd number-pair from the given alternatives.
निम्नलिखित प्रश्न में दिए गए विकल्पों में से विषम संख्या युग्म को चुनिए।

(a) 32–6 (b) 38–24
(c) 53–7 (d) 47–28

MP Police Constable Exam- 6 Sep-2023 Shift-2

Ans. (c) : प्रश्नानुसार,

$32 - 6 \Rightarrow 3 \times 2 = 6$

$38 - 24 \Rightarrow 3 \times 8 = 24$

$53 - 7 \Rightarrow 5 \times 3 = 15 \neq 7$ विषम

$47 - 28 \Rightarrow 4 \times 7 = 28$

अतः विकल्प (c) सही उत्तर है।

178. Select the related word/letters/number from the given alternatives.
दिए गए विकल्पों से विषम शब्द/अक्षर/संख्या/संख्या जोड़ों को ज्ञात करें ?

10001: 17:: 1100 :?

(a) 10 (b) 12
(c) 15 (d) 14

MP Police Constable Exam- 3 Sep-2023 Shift-2

Ans. (b) : जिस प्रकार–

10001 : 17

$10001 = 2^4 \times 1 + 2^3 \times 0 + 2^2 \times 0 + 2^1 \times 0 + 2^0 \times 1$
$= 16 + 0 + 0 + 0 + 1$
$= 17$

उसी प्रकार–

1100 : 12

$1100 = 2^3 \times 1 + 2^2 \times 1 + 2^1 \times 0 + 2^0 \times 0$
$= 8 + 4 + 0 + 0$
$= 12$

अतः ? = 12

179. Select the option that is related to the third number in the same way as the second number is related to the first number.
उस विकल्प का चयन करें जो तीसरी संख्या से उसी प्रकार संबंधित है जैसे दूसरी संख्या पहली संख्या से संबंधित है।

25 : 108 :: 41 : ?

(a) 170 (b) 171
(c) 172 (d) 173

MP Police Constable Exam- 3 Sep-2023 Shift-2

Ans. (c) : जिस प्रकार-

25 : 108

$25 \times 4 + 8 = 100 + 8 = 108$

उसी प्रकार-

41 : 172

$41 \times 4 + 8 = 164 + 8 = 172$

अतः ? = 172

180. In the following question, select the related letter/word/number from the given alternatives.
निम्नलिखित प्रश्न में दिए गए विकल्पों में से सम्बन्धित अक्षर/शब्द/संख्या को चुनिए।

24618 : 21 :: 87532 : ?

(a) 25 (b) 50
(c) 20 (d) 30

MP Police Constable Exam- 29 August-2023 Shift-1

Ans. (a) : जिस प्रकार,

24618 : 21 :: 87532 : ?

$24618 = 2 + 4 + 6 + 1 + 8$
$= 21$

उसी प्रकार,

$87532 = 8 + 7 + 5 + 3 + 2$
$= 25$

अतः ? = 25

181. Which is the wrong number in the following number series?
निम्नलिखित संख्या श्रृंखला में कौन-सी संख्या गलत है?

5, 6, 25, 23, 125, 96

(a) 23 (b) 125
(c) 25 (d) 6

MP Police Constable Exam- 11 Sep-2023 Shift-3

Ans. (a) : दिया गया संख्या श्रृंखला निम्नवत् है-

×4 ×4
5 6 25 23 125 96
×5 ×5

उपर्युक्त हल से स्पष्ट है कि विकल्प (a) '23' के स्थान पर 24 होगा। अतः संख्या 23 गलत युग्म है।

182. Find the wrong term in the given series:
दी गई श्रृंखला में गलत पद ज्ञात करें:

2, 6, 12, 18, 30, 42

(a) 42 (b) 18
(c) 6 (d) 2

MP Police Constable Exam- 11 Sep-2023 Shift-3

Ans. (b) : दिया गया श्रृंखला निम्नवत् है-

2 6 12 20 30 42
+4 +6 +8 +10 +12
+2 +2 +2 +2

अतः विकल्प (b) '18' गलत पद है। इसके स्थान पर 20 होना चाहिए।

GET IT ON Google Play Best Study PDF के लिए हमारी App को Download करें "GK Trick By Nitin Gupta"

183. In the following question, select the odd number from the given alternatives.
निम्नलिखित प्रश्न में दिए गए विकल्पों में से विषम संख्या का चयन कीजिए।

(a) 2040 (b) 4705
(c) 6874 (d) 5412

MP Police Constable Exam- 1 Sep-2023 Shift-1

Ans. (b) : विकल्पों से,
(a) 2040 (सम संख्या)
(b) 4705 (विषम संख्या)
(c) 6874 (सम संख्या)
(d) 5412 (सम संख्या)
अतः विकल्प (b) सही उत्तर है।

184. Choose the numbers which is different from others in the group?
दिए गए समूह में से विषम संख्या का चयन करें?

(a) 46 : 7 (b) 36 : 6
(c) 32 : 2 (d) 35 : 5

MP Police Constable Exam- 09 Feb-2022 Shift-1

Ans. (a) : विकल्पों से,
(a) $\frac{46}{7}=\frac{46}{7}$ (विषम) (b) $\frac{36}{6}=6$
(c) $\frac{32}{2}=16$ (d) $\frac{35}{5}=7$
अतः विकल्प (a) को छोड़कर अन्य विकल्पों में पहली संख्या दूसरी संख्या से भाज्य है।

185. In the following question, select the odd number from the given alternatives.
निम्नलिखित प्रश्न में दिए गए विकल्पों में से विषम संख्या का चयन कीजिए।

(a) 36 (b) 144
(c) 81 (d) 343

MP Police Constable Exam- 27 August-2023 Shift-2

Ans. (d) : विकल्पों की जाँच करने पर–
(a) $36 \Rightarrow (6)^2$ (b) $144 \Rightarrow (12)^2$
(c) $81 \Rightarrow (9)^2$ (d) $343 \Rightarrow (7)^3$ (असंगत)
अतः विकल्प (d) असंगत है।

186. Select the option that is related to the third number in the same way as the second number is related to the first number.
उस विकल्प का चयन करें जो तीसरी संख्या से उसी प्रकार संबंधित है जैसे दूसरी संख्या, पहली संख्या से संबंधित है।

324 : 306 : : 400 : ?

(a) 380 (b) 370
(c) 390 (d) 385

MP Police Constable Exam- 09 Feb-2022 Shift-1

Ans. (a): जिस प्रकार, उसी प्रकार,

324 :	306	400 :	$\boxed{380}$
↓	↓	↓	↓
$(18)^2$	(18^2-18)	$(20)^2$	$(20)^2-20$

187. Choose the numbers which is different from others in the group?
दिए गए समूह में से विषम संख्या का चयन करें?

(a) 326 (b) 529
(c) 236 (d) 106

MP Police Constable Exam- 09 Feb-2022 Shift-1

Ans. (b) : 529, 23 का पूर्ण वर्ग है जबकि शेष सभी संख्याएँ पूर्ण वर्ग नहीं हैं।

188. In the following question, select the odd number pair from the given alternatives.
निम्नलिखित प्रश्न में दिए गए विकल्पों में से विषम संख्या युग्म को चुनिए।

(a) 160 - 180 (b) 71 - 81
(c) 208 - 234 (d) 256 - 288

MP Police Constable Exam- 01 Feb-2022 Shift-1

Ans. (b) : विकल्पों से-
(a) 160 —— 180 (b) 71 —— 81
↓ ↓ ↓
20×8 20×9 (अभाज्य)
(c) 208 —— 234 (d) 256 —— 288
↓ ↓ ↓ ↓
26×8 26×9 32×8 32×9
अतः स्पष्ट है कि विकल्प (b) विषम संख्या-युग्म है।

189. Choose the numbers which is different from others in the group?
दिए गए समूह में से विषम संख्या का चयन करें ?

(a) 343 (b) 49
(c) 315 (d) 237

MP Police Constable Exam- 02 Feb-2022 Shift-1

Ans. (d) : दिए गए विकल्पों से -
(a) $343 \rightarrow \frac{343}{7}=49$
(b) $49 \rightarrow \frac{49}{7}=7$
(c) $315 \rightarrow \frac{315}{7}=45$
(d) $237 \rightarrow \frac{237}{7}=33.86$
अतः स्पष्ट है कि विकल्प (a), (b) तथा (c) 7 से पूर्णतः विभाज्य है, जबकि विकल्प (d), 7 से पूर्णतः विभाज्य नहीं है। अतः विकल्प (d) विषम है।

190. Select the option that is related to the third number in the same way as the second number is related to the first number.
ऐसे विकल्प का चयन करें जो तीसरी संख्या से उसी प्रकार संबंधित है जिस प्रकार दूसरी संख्या पहली संख्या से संबंधित है।

16:68::28: _____

(a) 119 (b) 49
(c) 346 (d) 77

MP Police Constable Exam- 02 Feb-2022 Shift-1

GET IT ON Google Play Best Study PDF के लिए हमारी App को Download करें "GK Trick By Nitin Gupta"

Ans. (a) : जिस प्रकार,

16 : 68

$16 \times 4 + \frac{16}{4} = 64 + 4$

उसी प्रकार,

28 : $\boxed{119}$

$28 \times 4 + \frac{28}{4} = 112 + 7$

191. Three of the following four number-pairs are alike in a certain way and one is different. Find the odd one out.
निम्नलिखित चार संख्या-युग्म में से तीन एक निश्चित तरीके से संबंधित है एक भिन्न है विषम को चुनें।

(a) 7, 12 (b) 41, 2
(c) 21, 4 (d) 14, 6

MP Police Constable Exam- 02 Feb-2022 Shift-1

Ans. (b) : विकल्पों से,

(a) 7, 12, $\rightarrow 7 \times 12 = 84$
(b) 41, 2 $\rightarrow 41 \times 2 = 82$
(c) 21, 4 $\rightarrow 21 \times 4 = 84$
(d) 14, 6 $\rightarrow 14 \times 6 = 84$
अतः उपर्युक्त से स्पष्ट है कि विकल्प (b) विषम है।

192. Select the option/number which is related to the 3rd number in the same way as the 2nd number is related to the 1st number ?
उस संख्या/विकल्प का चयन करें जो तीसरी संख्या से उसी प्रकार से संबंधित है जैसे दूसरी संख्या पहली संख्या से संबंधित है।

5 : 27 : : 1 : ?

(a) 6 (b) 7
(c) 5 (d) 4

MP Police Constable Exam- 8 Jan-2022 Shift-2

Ans. (b) :
जिस प्रकार,
$5 \times 5 + 2 = 27$
उसी प्रकार,
$1 \times 5 + 2 = 7$
अतः ? = 7

193. Select the option/number which is related to 3rd number in the same way as the 2nd number is related to the 1st number?
उस संख्या/विकल्प का चयन करें जो तीसरी संख्या से उसी प्रकार संबंधित है जैसे दूसरी संख्या पहली संख्या से संबंधित है।

4 : 28 : : 2 : ?

(a) 2 (b) 14
(c) 12 (d) 8

MP Police Constable Exam- 8 Jan-2022 Shift-2

Ans. (b) :
जिस प्रकार,
$4 \times 7 = 28$
उसी प्रकार,
$2 \times 7 = \boxed{14}$

194. Select the option that is related to the third number in the same way as the second number is related to the first number.
उस विकल्प का चयन करें जो तीसरी संख्या से उसी प्रकार संबंधित है जैसे दूसरी संख्या, पहली संख्या से संबंधित है।

52 : 10 : : 63 : ?

(a) 9 (b) 18
(c) 27 (d) 45

MP Police Constable Exam- 8 Jan-2022 Shift-2

Ans. (b) :
जिस प्रकार,
52 10
5×2
उसी प्रकार,
63 $\boxed{18}$
6×3

195. Choose the numbers which is different from others in the group?
दिए गए समूह में से विषम संख्या का चयन करें?

(a) 8(34)9 (b) 5(130)13
(c) 7(168)12 (d) 9(270)15

MP Police Constable Exam- 21 August-2023 Shift-3

Ans. (a) : विकल्पों की जाँच करने पर-

(a) 8(34)9	(b) 5(130)13
$\Rightarrow 8 \times 9 \times 2 = 34$	$\Rightarrow 5 \times 13 \times 2 = 130$
$144 \neq 34$ (असंगत)	$130 = 130$
(c) 7(168)12	(d) 9(270)15
$\Rightarrow 7 \times 12 \times 2 = 168$	$\Rightarrow 9 \times 15 \times 2 = 270$
$168 = 168$	$270 = 270$

अतः विकल्प (a) असंगत है।

196. Choose a number from the given alternatives that belongs to the following group of three related numbers:
दिये गये विकल्पों में से एक संख्या चुनिए जो कि तीन सम्बन्धित संख्याओं के निम्नलिखित समूह में आती है:

25, 37, 49

(a) 61 (b) 56
(c) 60 (d) 66

MP Police Constable Recruitment Test - 2013

Ans. (a) : प्रश्नानुसार,

25 37 49 $\boxed{61}$
+12 +12 +12

अतः विकल्प (a) सही उत्तर है।

197. Choose the number which is different from others in the group.
उस संख्या को चुनिये जो समूह में बाकी सब से अलग है।

(a) 27 (b) 125
(c) 343 (d) 1321

MP Police Constable Exam- 18 July-2016 - 9: am

Ans : (d) 27, 125 तथा 343 क्रमशः 3, 5 तथा 7 के घन हैं जबकि 1321 किसी संख्या का घन नहीं है।
अतः 1321 अन्य सभी से भिन्न है।

GET IT ON Google Play Best Study PDF के लिए हमारी App को Download करें "GK Trick By Nitin Gupta"

198. If the given words are arranged according to English dictionary, which word will be in third place ?
दिए गए शब्दों को अंग्रेजी शब्दकोश के अनुसार क्रम में रखने पर कौन-सा शब्द तीसरे स्थान पर होगा ?
KNOW , KNACK , KNIT , KNOB
(a) KNOW (b) KNACK
(c) KNIT (d) KNOB

MP Police Constable Exam- 29 August-2023 Shift-2

Ans. (d) : दिए गए शब्दों को अंग्रेजी शब्दकोश के अनुसार क्रम निम्नवत् है–
(1) KNACK (2) KNIT (3) KNOB (4) KNOW
अतः तीसरे स्थान पर KNOB होगा।

199. Select the option that is related to the third number in the same way as the second number is related to the first number.
उस विकल्प का चयन करें जो तीसरी संख्या से उसी प्रकार संबंधित है जैसे दूसरी संख्या पहली संख्या से संबंधित है।
6 : 36 :: ? : 121
(a) 10 (b) 12
(c) 11 (d) 13

MP Police Constable Exam- 2 Sep-2023 Shift-3

Ans. (c) : जिस प्रकार,
6 : 36
$6^2 = 36$
उसी प्रकार,
? = 121
$121 = 11^2$
अतः $\boxed{? = 11}$

200. Select the related word/ letters/ number from the given alternatives.
दिए गए विकल्पों में से सम्बंधित शब्द/अक्षर/संख्या का चुनाव करें।
14: 125:: 43 : ?
(a) 555 (b) 23
(c) 671 (d) 343

MP Police Constable Exam- 4 Sep-2023 Shift-3

Ans. (d) : जिस प्रकार,
$14:125$
$\downarrow$
$1+4 \Rightarrow (5)^3 = 125$
उसी प्रकार,
$43:?$
$\downarrow$
$4+3 \Rightarrow (7)^3 = 343$
अतः ? = 343

201. Select the option that is related to the third number in the same way as the second number is related to the first number.
121 : 9 : : 256 : ?
उस विकल्प का चयन करें जो तीसरी संख्या से उसी प्रकार संबंधित है जैसे दूसरी संख्या, पहली संख्या से संबंधित है।
(a) 18 (b) 14
(c) 13 (d) 10

MP Police Constable Exam- 1 Sep-2023 Shift-2

Ans. (b) : जिस प्रकार,
$(9+2)^2 = 121$
उसी प्रकार,
$(14+2)^2 = 256$
अतः अभीष्ट उत्तर 14 होगा।

202. In the following question, select the related number from given alternatives.
निम्नलिखित प्रश्न में दिए गए विकल्पों में से संबंधित संख्या को चुनिए।
56 : 41 :: 94 : ?
(a) 60 (b) 49
(c) 75 (d) 40

MP Police Constable Exam- 1 Sep-2023 Shift-2

Ans. (b) : जिस प्रकार,
$56 : 41 \Rightarrow (5 \times 6) + (5 + 6)$
$= 30 + 11 \Rightarrow 41$
उसी प्रकार,
$94 : ? \Rightarrow (9 \times 4) + (9 + 4)$
$? = 36 + 13$
$\boxed{? = 49}$

203. Select the option that is related to the third number in the same way as the second number is related to the first number.
उस विकल्प का चयन करें जो तीसरी संख्या से उसी प्रकार संबंधित है जैसे दूसरी संख्या पहली संख्या से संबंधित है।
41 : 369 :: ? : 306
(a) 31 (b) 32
(c) 33 (d) 34

MP Police Constable Exam- 3 Sep-2023 Shift-1

Ans. (d) : जिस प्रकार
41 : 369
$41 \times 9 = 369$
उसी प्रकार विकल्प (d) से
$34 \times 9 = 306$
अतः विकल्प (d) सही है।

204. Select the option that is related to the third number in the same way as the second number is related to the first number.
उस विकल्प का चयन करें जो तीसरी संख्या से उसी प्रकार संबंधित है जैसे दूसरी संख्या, पहली संख्या से संबंधित है।
$\mathbf{\frac{1}{81} : \frac{1}{729} :: \frac{1}{64} : ?}$
(a) $\frac{1}{512}$ (b) $\frac{1}{455}$
(c) $\frac{1}{345}$ (d) $\frac{1}{555}$

MP Police Constable Exam- 27 August-2023 Shift-2

GET IT ON Google Play Best Study PDF के लिए हमारी App को Download करें "GK Trick By Nitin Gupta"

Ans. (a) : जिस प्रकार,

$$\frac{1}{81}:\frac{1}{729} \Rightarrow \frac{1}{81} \Rightarrow \left(\frac{1}{9}\right)^2$$

$$\frac{1}{729} \Rightarrow \left(\frac{1}{9}\right)^3$$

उसी प्रकार,

$$\frac{1}{64}:? \Rightarrow \frac{1}{64} \Rightarrow \left(\frac{1}{8}\right)^2$$

$$\left(\frac{1}{8}\right)^3 \Rightarrow \boxed{\frac{1}{512}}$$

205. Select the option that is related to the third number in the same way as the second number is related to the first number.
उस विकल्प का चयन करें जो तीसरी संख्या से उसी प्रकार संबंधित है जैसे दूसरी संख्या पहली संख्या से संबंधित है।
16 : 64 :: 49 : ?
(a) 343 (b) 340
(c) 350 (d) 355

MP Police Constable Exam- 27 August-2023 Shift-2

Ans. (a) : जिस प्रकार,

$$16 : 64$$
$$\downarrow \quad \downarrow$$
$$(4)^2 \quad (4)^3$$

उसी प्रकार,

$$49 : ?$$
$$\downarrow \quad \downarrow$$
$$(7)^2 \quad (7)^3$$

अतः $\boxed{? = 343}$

206. Select the option/number which is related to 3rd number in the same way as 2nd number is related to 1st number ?
उस संख्या/विकल्प का चयन करें जो तीसरी संख्या से उसी प्रकार संबंधित है जैसे दूसरी संख्या पहली संख्या से संबंधित है।
326 : 10 :: 253 : ?
(a) 12 (b) 9
(c) 8 (d) 16

MP Police Constable Exam- 25 August-2023 Shift-3

Ans. (b) : जिस प्रकार,

$$326 : 10$$
$$[3 + 2 + 6] = 11 - 1$$

उसी प्रकार,

$$253 : \overset{9}{?}$$
$$[2 + 5 + 3] = 10 - 1$$
$$\boxed{? = 9}$$

207. Find the odd number out.
असंगत संख्या का चयन कीजिए।
(a) 4 (b) 9
(c) 16 (d) 26

MP Police Constable Exam- 4 Sep-2023 Shift-2

Ans. (d) : 4, 9 तथा 16 ये तीनों वर्ग है, जबकि 26 एक सम संख्या है।
∴ विकल्प (d) अन्य से भिन्न है।

208. Select the option that is related to the third number in the same way as the second number is related to the first number.
उस विकल्प का चयन करें जो तीसरी संख्या से उसी प्रकार संबंधित है जैसे दूसरी संख्या पहली संख्या से संबंधित है।
170 : 85 :: 366 : ?
(a) 199 (b) 187
(c) 185 (d) 183

MP Police Constable Exam- 28 August-2023 Shift-2

Ans. (d) : जिस प्रकार,

$$170 : 85$$
$$\times\frac{1}{2}$$

उसी प्रकार,

$$366 : \boxed{183}$$
$$\times\frac{1}{2}$$

अतः $\boxed{? = 183}$

209. Select the option that is related to the third number in the same way as the second number is related to the first number.
उस विकल्प का चयन करें जो तीसरी संख्या से उसी प्रकार संबंधित है जैसे दूसरी संख्या पहली संख्या से संबंधित है।
7 : 48 :: ? : 168
(a) 11 (b) 13
(c) 12 (d) 14

MP Police Constable Exam- 24 August-2023 Shift-3
MP Police Constable Exam- 8 Sep-2023 Shift-2

Ans. (b) : जिस प्रकार,

$$7 : 48$$
$$(7)^2 - 1$$

उसी प्रकार,

$$\boxed{?} : 168$$
$$(13)^2 - 1$$

अतः $\boxed{? = 13}$

210. Select the option that is related to the third number in the same way as the second number is related to the first number.
उस विकल्प का चयन करें जो तीसरी संख्या से उसी प्रकार संबंधित है जैसे दूसरी संख्या पहली संख्या से संबंधित है।
25 : 14 :: 31 : ?
(a) 15 (b) 17
(c) 16 (d) 18

MP Police Constable Exam- 24 August-2023 Shift-3
MP Police Constable Exam- 8 Sep-2023 Shift-2

Ans. (b) :
जिस प्रकार,

$$(25 : 14) \Rightarrow \frac{25+3}{2}$$
$$= \frac{28}{2}$$
$$= 14$$

GET IT ON Google Play Best Study PDF के लिए हमारी App को Download करें "GK Trick By Nitin Gupta"

उसी प्रकार,

$$(31 : ?) \Rightarrow \frac{31+3}{2}$$
$$= \frac{34}{2}$$
$$= 17$$

अतः $\boxed{? = 17}$

Type-6: आकृतियों पर आधारित सादृश्यता

211. Select the option that is related to the third figure in the same way that the second figure is related to the first figure.
उस विकल्प का चयन करें जो तीसरी आकृति से उसी प्रकार संबंधित है जिस प्रकार दूसरी आकृति, पहली आकृति से संबंधित है।

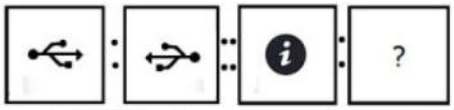

(a)
(b)
(c)
(d)

MP Police Constable Exam- 8 Sep-2023 Shift-2

Ans. (c) : जिस प्रकार आकृति-I की दर्पण आकृति आकृति-II है उसी प्रकार आकृति-III की दर्पण आकृति विकल्प (c) है।

212. Find the answer figure in which problem figure is embedded.
वह उत्तर आकृति ज्ञात कीजिए जिसमें प्रश्न आकृति सन्निहित है।

(a)
(b)
(c)
(d)

MP Police Constable Exam- 9 Sep-2023 Shift-3

Ans. (b) : दी गई आकृति-

उपर्युक्त दी गई आकृति विकल्प (b) की आकृति में निहित है।
अतः विकल्प (b) सही उत्तर होगा।

213. DIRECTIONS: In the given question find the answer figure in which question is embedded.
निर्देशः वह उत्तर आकृति ज्ञात करें जिसमें प्रश्न आकृति निहित है।

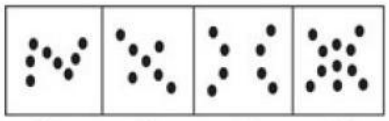

(a) (b) (c) (d)

(a) figure (a)/आकृति (a)
(b) figure (b)/आकृति (b)
(c) figure (c)/आकृति (c)
(d) figure (d)/आकृति (d)

MP Police Constable Exam- 10 Sep-2023 Shift-1

Ans. (d) : प्रश्नानुसार विकल्प (d) में दी गयी उत्तर आकृति में प्रश्न आकृति निहित हैं।

214. Select the figure that will come next in the following series.
निम्नलिखित श्रृंखला में आगे आने वाली आकृति का चयन कीजिए।

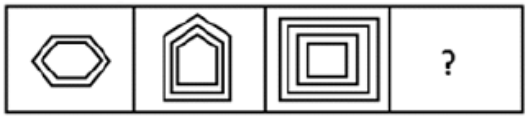

(a)
(b)
(c)
(d)

MP Police Constable Exam- 29 August-2023 Shift-1

Ans. (a) : दी गई पहली आकृति में ''2'' षष्ठभुज है और दूसरी आकृति में ''3'' पंचभुज है तथा तीसरी आकृति में ''4'' चतुर्भुज है। इसी प्रकार चौथी आकृति में ''5'' त्रिभुज होगा।
अतः दी गई आकृति के अनुसार विकल्प (a) सही उत्तर है।

215. Observe the first two figures. Try to understand how they are related. Find the figure in the given options that is related to third figure in the same way as the first two figures related.
Mark the option that complete the analogy.
पहले दो आकृतियों पर गौर करें। यह समझने की कोशिश करें कि वे कैसे संबंधित हैं। दिए गए विकल्पों में वह आकृति ज्ञात कीजिए जो तीसरी आकृति से उसी प्रकार संबंधित है जिस प्रकार पहली दो आकृतियां संबंधित हैं। उस विकल्प को चिह्नित करें जो समरूपता को पूरा करता है।

GET IT ON Google Play Best Study PDF के लिए हमारी App को Download करें "GK Trick By Nitin Gupta"

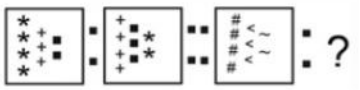

(a)

(b)

(c)

(d)

MP Police Constable Exam- 09 Feb-2022 Shift-1

Ans. (a) : जिस प्रकार पहली आकृति के पैटर्नों की संख्या तथा स्थान में परस्पर परिवर्तन करके दूसरी आकृति प्राप्त की जा सकती है। उसी प्रकार तीसरी आकृति के पैटर्नों की संख्या तथा स्थान में परिवर्तन करके विकल्प (a) की आकृति प्राप्त की जा सकती है।

216. DIRECTIONS: In the given question find the answer figure in which question is embedded.
निर्देश : दिए गए प्रश्न में वह उत्तर आकृति ज्ञात कीजिये जिसमें प्रश्न आकृति निहित है।



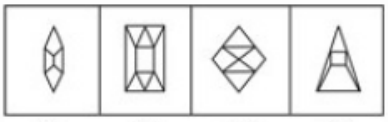

(a) (b) (c) (d)

(a) figure (a)/आकृति (a)
(b) figure (b)/आकृति (b)
(c) figure (c)/आकृति (c)
(d) figure (d)/आकृति (d)

MP Police Constable Exam- 31 August-2023 Shift-2

Ans. (b) : दी गई प्रश्न आकृति विकल्प आकृति (b) में निहित है।

217. DIRECTIONS: Find the answer figure in which question figure is embedded.
निर्देशः वह उत्तर आकृति ज्ञात करें जिसमें प्रश्न आकृति निहित है।

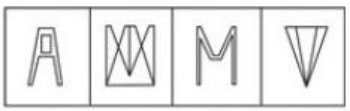

(a) (b) (c) (d)

(a) figure (a)/आकृति (a)
(b) figure (b)/आकृति (b)
(c) figure (c)/आकृति (c)
(d) figure (d)/आकृति (d)

MP Police Constable Exam- 31 August-2023 Shift-2

Ans. (b) : दी गई-प्रश्न आकृति विकल्प आकृति (b) में निहित है।

218. Which answer figure will complete the pattern in the question figure?/कौन-सी उत्तर आकृति प्रश्न आकृति में पैटर्न को पूर्ण करेगी?

(a)

(b)

(c)

(d)

MP Police Constable Exam- 02 Feb-2022 Shift-1

Ans. (c) : विकल्पों से स्पष्ट है कि उत्तर आकृति (c) प्रश्न आकृति में दिए गए पैटर्न को पूरा करेगी।

219. A particular Analogy is being shown. Understand the logic and complete the analogy by selecting correct option:
एक विशेष सादृश्य (Analogy) को दिखाया जा रहा है तर्क को समझें और सही विकल्प चुनकर सादृश्य को पूरा करें :

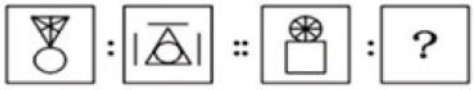

(a)

(b)

(c)

(d)

MP Police Constable Exam- 02 Feb-2022 Shift-1

Ans. (c) : जिस प्रकार पहली आकृति का सम्बन्ध दूसरी आकृति से है। उसी प्रकार तीसरी आकृति का सम्बन्ध विकल्प आकृति (c) से है।

220. Select the option that is related to the third figure in the same way that the second figure is related to the first figure.
उस विकल्प का चयन करें जो तीसरी आकृति से उसी प्रकार संबंधित है जिस प्रकार दूसरी आकृति, पहली आकृति से संबंधित है।

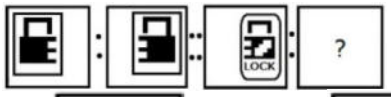

(a)

(b)

(c)

(d)

MP Police Constable Exam- 9 Sep-2023 Shift-2

GET IT ON Google Play Best Study PDF के लिए हमारी App को Download करें "GK Trick By Nitin Gupta"

Ans. (c) : जिस प्रकार पहली आकृति का दर्पण प्रतिबिंब दूसरी आकृति है उसी प्रकार प्रश्न आकृति का दर्पण प्रतिबिंब विकल्प (c) की उत्तर आकृति होगी।

221. Select the option that is related to the third figure in the same way that the second figure is related to the first figure.
उस विकल्प का चयन करें जो तीसरी आकृति से उसी प्रकार संबंधित है जिस प्रकार दूसरी आकृति, पहली आकृति से संबंधित है।

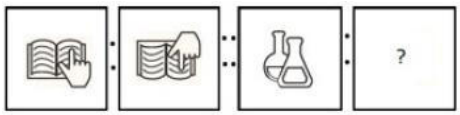

(a)
(b)
(c)
(d)

MP Police Constable Exam- 31 August-2023 Shift-3

Ans. (a) : प्रश्न आकृति में अगली आकृति पहली आकृति का जल प्रतिबिम्ब है। इसी प्रकार (III) आकृति का जल प्रतिबिम्ब (?) चिह्न पर होगा।
अतः विकल्प (a) सही है।

222. Select the option that is related to the third figure in the same way that the second figure is related to the first figure.
उस विकल्प का चयन करें जो तीसरी आकृति से उसी प्रकार संबंधित है जिस प्रकार दूसरी आकृति, पहली आकृति से संबंधित है।

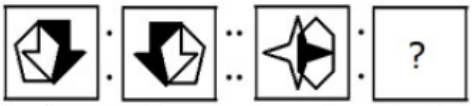

(a)
(b)
(c)
(d)

MP Police Constable Exam- 31 August-2023 Shift-3

Ans. (a) : दिये गये प्रश्न चित्र में पहली आकृति का दर्पण प्रतिबिम्ब दूसरी आकृति है उसी प्रकार तीसरी आकृति का दर्पण प्रतिबिम्ब करने पर विकल्प आकृति (a) प्राप्त होगी।

223. A figure analogy is given below. Understand the logic behind it and complete the analogy for the next figure.
एक आकृति सादृश्य नीचे दिया गया है। इसके पीछे के तर्क को समझें और अगली आकृति के लिए सादृश्य को पूर्ण करें।

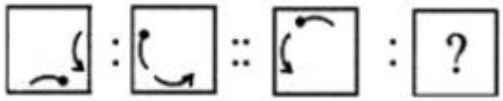

(a)
(b)
(c)
(d)

MP Police Constable Exam- 24 August-2023 Shift-2

Ans. (d) : जिस प्रकार आकृति-A को 45° दक्षिणावर्त घुमाने पर आकृति-B प्राप्त हो रही है उसी प्रकार आकृति-C को 45° दक्षिणावर्त घूमाने पर उत्तर प्रश्न चिह्न के स्थान पर विकल्प आकृति (d) प्राप्त होगी।

224. Select the option that is related to the third figure in the same way that the second figure is related to the first figure.
उस विकल्प का चयन करें जो तीसरी आकृति से उसी प्रकार संबंधित है जिस प्रकार दूसरी आकृति, पहली आकृति से संबंधित है।

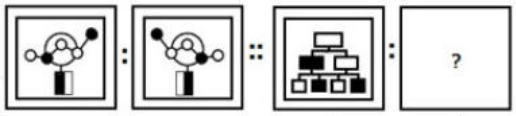

(a)
(b)
(c)
(d)

MP Police Constable Exam- 29 August-2023 Shift-2

Ans. (c) : जिस प्रकार पहली आकृति का दर्पण प्रतिबिम्ब दूसरी आकृति है उसी प्रकार तीसरी आकृति का दर्पण प्रतिबिम्ब विकल्प आकृति 'c' होगी।

225. A figure analogy is given below. Understand the logic behind it and complete the analogy for the next figure.
एक आकृति सादृश्य नीचे दिया गया है। इसके पीछे के तर्क को समझें और अगली आकृति के लिए सादृश्य को पूर्ण करें।

(a)
(b)
(c)
(d)

Ans. (a) : जिस प्रकार पहली आकृति में दो वृत्त जो दूसरी आकृति के बीच में आधा हिस्सा मिल रहा है उसी प्रकार तीसरी आकृति से समानता रखने वाली तथा प्रश्नवाचक चिह्न को प्रतिस्थापित करने वाली आकृति (a) होगी।

GET IT ON Google Play Best Study PDF के लिए हमारी App को Download करें "GK Trick By Nitin Gupta"

226. Select the option that is related to the third figure in the same way that the second figure is related to the first figure.
उस विकल्प का चयन करें जो तीसरी आकृति से उसी प्रकार संबंधित है जिस प्रकार दूसरी आकृति, पहली आकृति से संबंधित है।

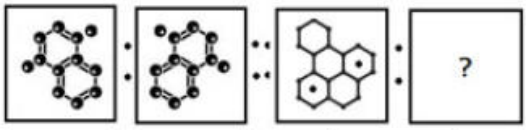

(a)
(b)
(c)
(d)

MP Police Constable Exam- 27 August-2023 Shift-1

Ans. (a) : जिस प्रकार दूसरी आकृति पहली आकृति का दर्पण प्रतिबिम्ब है ठीक उसी प्रकार विकल्प आकृति (a) तीसरी आकृति का दर्पण प्रतिबिम्ब बनेगी।

227. Select the option that is related to the third figure in the same way that the second figure is related to the first figure.
उस विकल्प का चयन करें जो तीसरी आकृति से उसी प्रकार संबंधित है जिस प्रकार दूसरी आकृति, पहली आकृति से संबंधित है।



(a)
(b)
(c)
(d)

MP Police Constable Exam- 28 August-2023 Shift-2

Ans. (a) : जिस प्रकार पहली आकृति का दर्पण प्रतिबिम्ब दूसरी आकृति में है उसी प्रकार तीसरी आकृति का दर्पण प्रतिबिम्ब उत्तर-आकृति विकल्प (a) होगा।

228. A figure analogy is given below. Understand the logic behind it and complete the analogy for the next figure.
एक आकृति सादृश्य नीचे दिया गया है। इसके पीछे के तर्क को समझें और अगली आकृति के लिए सादृश्य को पूर्ण करें।

(a)
(b)
(c)
(d)

MP Police Constable Exam- 25 August-2023 Shift-3

Ans. (c) : जिस प्रकार पहले सादृश्य में रंगीन आकृति 135° वामावर्त घूमकर तथा खाली आकृति 135° दक्षिणावर्त घूमकर दूसरी आकृति बना रहे हैं ठीक उसी प्रकार तीसरी सादृश्य में आकृतियाँ घूमकर विकल्प आकृति (c) बनायेगी।

229. Select the option that is related to the third figure in the same way that the second figure is related to the first figure.
उस विकल्प का चयन करें जो तीसरी आकृति से उसी प्रकार संबंधित है जिस प्रकार दूसरी आकृति, पहली आकृति से संबंधित है।

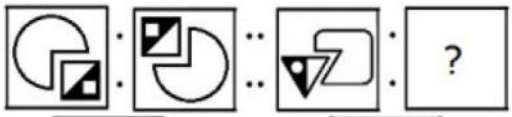

(a)
(b)
(c)
(d)

MP Police Constable Exam- 9 Sep-2023 Shift-3

Ans. (a) : जिस प्रकार प्रथम आकृति दक्षिणावर्त 180° घूम कर दूसरी आकृति प्राप्त होती है।
उसी प्रकार तीसरी आकृति दक्षिणावर्त 180° घूमकर विकल्प (a) की आकृति प्राप्त होगी।
अतः विकल्प (a) सही उत्तर होगा।

230. A figure analogy is given below. Understand the logic behind it and complete the analogy for the next figure.
एक आकृति सादृश्य नीचे दिया गया है। इसके पीछे के तर्क को समझें और अगली आकृति के लिए सादृश्य को पूर्ण करें।

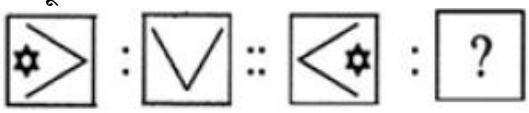

(a)
(b)
(c)
(d)

MP Police Constable Exam- 23 August-2023 Shift-2

GET IT ON Google Play Best Study PDF के लिए हमारी App को Download करें "GK Trick By Nitin Gupta"

Ans. (a) : जिस प्रकार पहली आकृति को 90º वामावर्त घुमाने पर दूसरी आकृति प्राप्त होती है। उसी प्रकार तीसरी आकृति को 90º वामावर्त घुमाने पर प्रश्न आकृति प्राप्त होगी।

231. A particular Analogy is being shown. Understand the logic and complete the analogy by selecting correct option:
एक विशेष सादृश्य दर्शाया गया है। तर्क को समझें और सही विकल्प का चयन करके सादृश्य को पूर्ण करें:

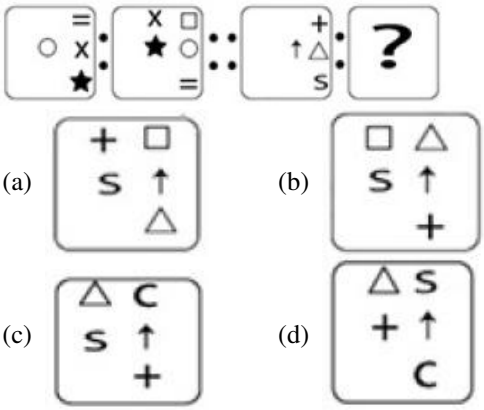

MP Police Constable Exam- 12 Sep-2023 Shift-2

Ans. (c) : जिस प्रकार पहली आकृति का संबंध दूसरी आकृति से है। उसी प्रकार तीसरी आकृति का संबंध विकल्प 'c' की आकृति से होगी।

232. A figure analogy is given below. Understand the logic behind it and complete the analogy for the next figure.
एक आकृति सादृश्य नीचे दिया गया है। इसके पीछे के तर्क को समझें और अगली आकृति के लिए सादृश्य को पूर्ण करें।

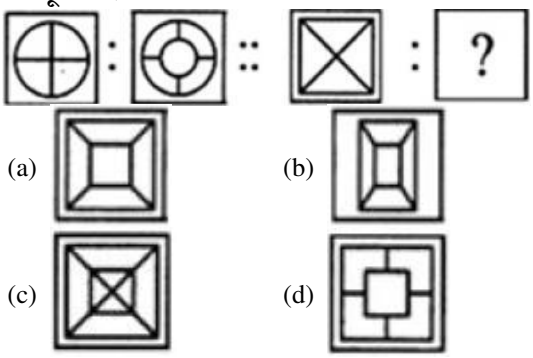

MP Police Constable Exam- 25 August-2023 Shift-1

Ans. (a) : जिस प्रकार पहली आकृति दूसरी आकृति से सम्बन्ध स्थापित कर रही है उसी प्रकार तीसरी आकृति से विकल्प आकृति (a) संबंध स्थापित करेगी।

233. A figure analogy is given below. Understand the logic behind it and complete the analogy for the next figure.
एक आकृति सादृश्य नीचे दिया गया है। इसके पीछे के तर्क को समझें और अगली आकृति के लिए सादृश्य को पूर्ण करें।

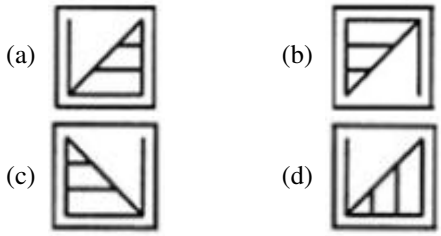

MP Police Constable Exam- 23 August-2023 Shift-3

Ans. (a) : जिस प्रकार आकृति-A में बड़ी आकृति के अन्दर एक लम्बार्धक रेखा तथा दो अन्य उर्ध्वाधर रेखाएं है को 180º घुमाने पर अगली आकृति के अन्दर एक लम्बार्धक और दो क्षैतिज रेखा, आकृति-B प्राप्त हो रही है। उसी प्रकार आकृति-C को पूर्ण तर्क से करने पर उत्तर, प्रश्न चिह्न के स्थान पर विकल्प आकृति (a) प्राप्त होगी।

234. Select the option that is related to the third figure in the same way that the second figure is related to the first figure.
उस विकल्प का चयन करें जो तीसरी आकृति से उसी प्रकार संबंधित है जिस प्रकार दूसरी आकृति, पहली आकृति से संबंधित है।

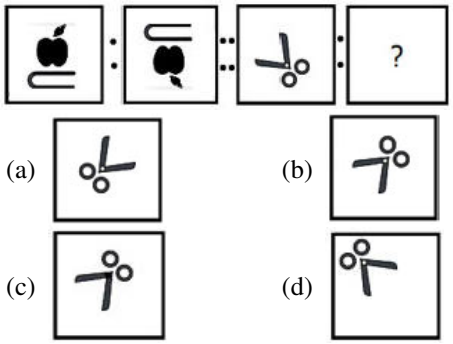

MP Police Constable Exam- 8 Sep-2023 Shift-1

Ans. (b) : जिस प्रकार पहली आकृति का जल प्रतिबिम्ब दूसरी आकृति है उसी प्रकार तीसरी आकृति का जल प्रतिबिम्ब विकल्प (b) की आकृति होगी।

235. Select the option that is related to the third figure in the same way that the second figure is related to the first figure.
उस विकल्प का चयन करें जो तीसरी आकृति से उसी प्रकार संबंधित है जिस प्रकार दूसरी आकृति, पहली आकृति से संबंधित है।

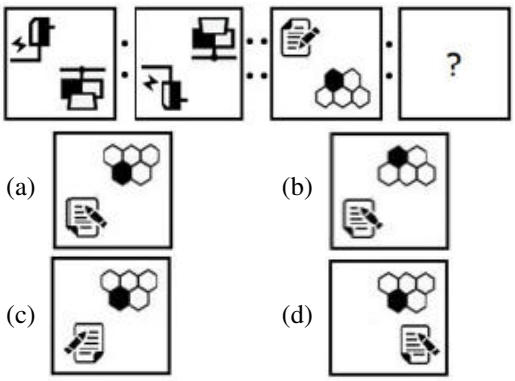

MP Police Constable Exam- 28 August-2023 Shift-3

GET IT ON Google Play Best Study PDF के लिए हमारी App को Download करें "GK Trick By Nitin Gupta"

Ans. (a) : जिस प्रकार पहली आकृति का जल प्रतिबिम्ब दूसरी आकृति में दिखाया गया है, उसी प्रकार तीसरी आकृति का जल प्रतिबिम्ब उत्तर आकृति विकल्प (a) होगी।

236. A specific analogy is given in the question below. Understand the logic behind it and choose the correct option for the next part:
नीचे दिए गए प्रश्न में एक विशिष्ट सादृश्य दिया गया है। इसके पीछे के तर्क को समझें और अगले भाग के लिए सही विकल्प चुनें :

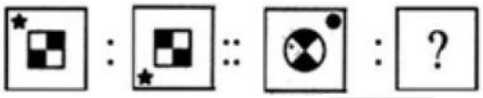

(a)
(b)
(c)
(d)

MP Police Constable Exam- 23 August-2023 Shift-1

Ans. (c) : जिस प्रकार, आकृति-A को 90° वामावर्त घुमाने पर आकृति-B प्राप्त हो रही है उसी प्रकार, आकृति-C को 90° वामावर्त घुमाने पर प्रश्न चिह्न के स्थान पर विकल्प आकृति (c) प्राप्त होगी।

237. A figure analogy is given below. Understand the logic behind it and complete the analogy for the next figure.
एक आकृति सादृश्य नीचे दिया गया है। इसके पीछे के तर्क को समझें और अगली आकृति के लिए सादृश्य को पूर्ण करें।

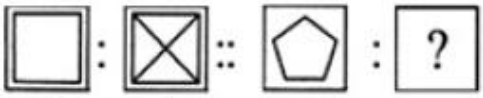

(a)
(b)
(c)
(d)

MP Police Constable Exam- 25 August-2023 Shift-2

Ans. (b) : जिस प्रकार पहली आकृति में चार शीर्षों को मिलाकर चार भुजाएं बन रही है उसी प्रकार तीसरी आकृति (पंचभुज) के पाँच शीर्षों को मिलाकर पाँच भुजाएं बनेगी। अतः विकल्प (b) अगली आकृति होगी।

238. A figure analogy is given below. Understand the logic behind it and complete the analogy for the next figure.
एक आकृति सादृश्य नीचे दिया गया है। इसके पीछे के तर्क को समझें और अगली आकृति के लिए सादृश्य को पूर्ण करें।

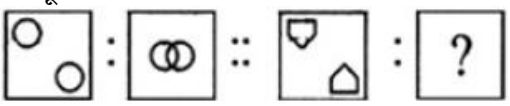

(a)
(b)
(c)
(d)

MP Police Constable Exam- 24 August-2023 Shift-3

Ans. (a) : जिस प्रकार पहली आकृति में दो वृत्त जो दूसरी आकृति के बीच में कुछ हिस्सा मिल रहा है उसी प्रकार तीसरी आकृति से समानता रखने वाली तथा प्रश्नवाचक चिह्न को प्रतिस्थापित करने वाली आकृति (a) होगी।

239. Select the option that is related to the third figure in the same way that the second figure is related to the first figure.
उस विकल्प का चयन करें जो तीसरी आकृति से उसी प्रकार संबंधित है जिस प्रकार दूसरी आकृति, पहली आकृति से संबंधित है।

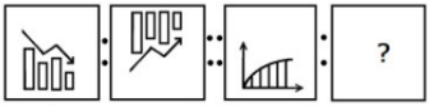

(a) 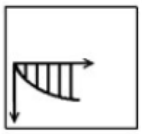
(b) 
(c)
(d) 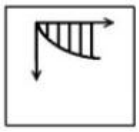

MP Police Constable Exam- 31 August-2023 Shift-2

Ans. (d) : जिस प्रकार पहली आकृति को पलटने पर दूसरी आकृति प्राप्त होती है। उसी प्रकार तीसरी आकृति को पलटने पर विकल्प (d) वाली आकृति प्राप्त होगी।

240. Select the option that is related to the third figure in the same way that the second figure is related to the first figure.
उस विकल्प का चयन करें जो तीसरी आकृति से उसी प्रकार संबंधित है जिस प्रकार दूसरी आकृति, पहली आकृति से संबंधित है।

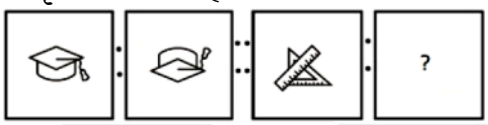

(a)
(b)
(c)
(d)

MP Police Constable Exam- 1 Sep-2023 Shift-1

GET IT ON Google Play Best Study PDF के लिए हमारी App को Download करें "GK Trick By Nitin Gupta"

Ans. (c) : जिस प्रकार पहली आकृति का जल प्रतिबिम्ब दूसरी आकृति है उसी प्रकार, तीसरी आकृति का जल प्रतिबिम्ब विकल्प आकृति (c) से संबंधित है।
∴ विकल्प (c) सही है।

241. Select the figure that will come next in the following series.
निम्नलिखित श्रृंखला में आगे आने वाली आकृति का चयन कीजिए।

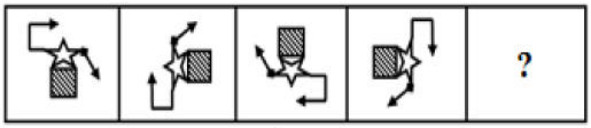

(a) 
(b) 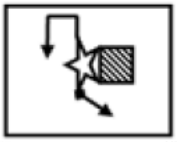
(c)
(d) 

MP Police Constable Exam- 20 August-2023 Shift-2

Ans. (a) : प्रश्नानुसार, दी गई प्रश्न आकृति (90°) वामावर्त दिशा में घूम रही है। अतः प्रश्न चिह्न के स्थान पर विकल्प (a) की आकृति आयेगी।

242. In the sequence shown below, which figure comes next?
नीचे दिखाये गये क्रम में, अगली आकृति कौन-सी होगी?

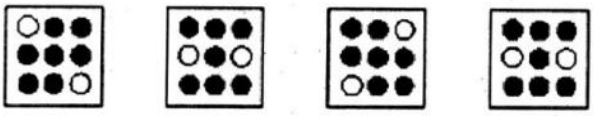

(a)
(b)
(c) 
(d) 

MP Police Constable Exam 25 July 2016 - 9:am

Ans : (b) दिये गये प्रश्न आकृति में खाली गोले ऊपर से नीचे (↓↑) की ओर एक-एक स्थान घूम रहे हैं, चौथे आकृति में पुनः गोला अपने पूर्व पथ को दोहरायेगा जिससे स्पष्ट है कि उत्तर विकल्प (b) होगा।

243. In the sequence shown below, which figure comes next?
नीचे दिखाये गये क्रम में अगली आकृति कौन-सी होगी?

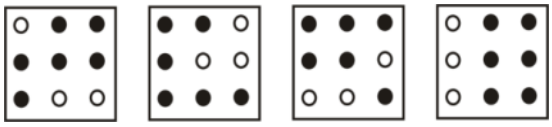

(a)
(b)
(c)
(d)

MP Police Constable Exam 17 July 2016 - 12:am

Ans. (b) दिखायी गई आकृतियों में सभी 9 गोलों में से 6 रंगे हुये है एवं 3 बिना रंगे हुए है अतः श्रृंखला क्रम में अगली आकृति विकल्प (b) होगी।

Type-7: विविध

244. The product code of the windscreen wiper of Maruti Alto car is–
मारुति अल्टो कार के विंडस्क्रीन वाइपर का उत्पाद कोड है:
MUL:ISZ:56438756:Rub/77650:Alto:ext:003487017854
Compare it with the following and identify which of them has exactly one mistake.
निम्न के साथ तुलना करें एवं पहचानें कि इनमें से किसमें मात्र एक गलती है।

(a) MUL: ISZ: 56438756: Rub/77650: Alto:ext: 003487027854
(b) MUL: ISZ: 56438756: Rub/77650: Alto: Ext:003487017854
(c) MUL: ISZ: 56738756: Rub/77650: Alto: ext: 003487617854
(d) MUL: ISZ: 56438756: Rub/77650: Alto: ext : 003487017854

MP Police Constable Exam- 18 July-2016 - 9: am

Ans : (a) विकल्प (a) 003487027854 दिया गया जबकि अन्य सभी विकल्प में 003487017854 दिया गया है अतः विकल्प (a) उत्तर होगा।

245. Parekh's PANCARD, Voter's ID and passport numbers are ABTFW4632P, HYV4475328 and F4160087. Check which of the following is the same as these.
पारेख का पैन कार्ड, मतदाता पहचान पत्र एवं पासपोर्ट संख्या हैं ABTFW4632P, HYV4475328 एवं F4160087 जाँच करें कि निम्न में से कौन इनके समान है।

(a) ABTEW4632P, HYV4475328 and F416O087
(b) ABTFW4632P, HYV4775328 and F4160087
(c) ABTFW4632P, HYV4475328 and F4160087
(d) ABIFW4632P, HYV4475328 and F4160887

MP Police Constable Exam- 18 July-2016 - 9: am

Ans : (c) विकल्प (c) प्रश्न में दिये गये डाटा के पूर्णतः समान है। अतः विकल्प (c) सही उत्तर होगा।

GET IT ON Google Play Best Study PDF के लिए हमारी App को Download करें "GK Trick By Nitin Gupta"

246. Which one of the following four addresses is NOT EXACTLY the same as the one given below?
निम्न दिये गये चार पतों में से नीचे दिये गये पते के ठीक समान कौन-सा एक नहीं है?

Tussey Mountain Outfitters, Inc.
226 N. Water Street
Bellefonte, PA 16823
(814) 355-5690

(a) Tussey Mountain Outfitters, Inc.
226 N. Water Street
Bellefonte, PA 16828
(814) 355-5690

(b) Tussey Mountain Outfitters, Inc.
226 N. Water Street
Bellefonte, PA 16823
(814) 355-5690

(c) Tussey Mountain Outfitters, Inc.
226 N. Water Street
Bellefonte, PA 16823
(814) 355-5690

(d) Tussey Mountain Outfitters, Inc.
226 N. Water Street
Bellefonte, PA 16823
(814) 355-5690

MP Police Constable Exam 17 July 2016 - 9:am

Ans : (a) दिये गये पतें में PA 16823 दिया गया है जबकि विकल्प (a) में 16828 दिया गया है अतः विकल्प (a) पते के ठीक समान नहीं है।

247. Which one of the following four addresses is NOT EXACTLY same as the one given below?
निम्न दिये गये चार पतों में से नीचे दिये गये पते के ठीक समान कौन-सा एक नहीं है?

Mrs Brown
Flat 2
173 Park Road
Johnsonville
Wellington 6004
NEW ZEALAND

(a) Mrs Brown
Flat 2
172 Park Road
Johnosnville
Welington 6004
NEW ZEALAND

(b) Mrs Brown
Flat 2
173 Park Road
Johnsonville
Wellington 6004
NEW ZEALAND

(c) Mrs Brown
Falt 2
173 Park Road
Johnsonville
Wellington 6004
NEW ZEALAND

(d) Mrs Brown
Flat 2
173 Park Road
Johnsonville
Wellington 6004
NEW ZEALAND

MP Police Constable Exam 25 July 2016 - 9:am

Ans : (a) विकल्प (a) wellington के स्थान पर welington दिया गया है।
अतः विकल्प (a) दिये गये पते के समान नहीं है।

248. Which one of the following four addresses is NOT EXACTLY same as the one given below?
निम्न दिये गये चार पतों में से नीचे दिये गये पते के ठीक समान कौन-सा एक नहीं है?

Mr. CHAN Kwok-kwong
Flat 25, 12/F, Acacia Building
150 Kennedy Road
WAN CHAI
HONG KONG
PEOPLE'S REPUBLIC OF CHINA

(a) Mr. CHAN Kwok-kwong
Flat 25, 12/F, Acacia Building
150 Kennedy Road
WAN CHAI
HONG KONG
PEOPLE'S REPUBLIC OF CHINA

(b) Mr. CHAN Kwok-kwong
Flat 25, 12/F, Acacia Building
150 Kennedy Road
WAN CHAI
HONG KONG
PEOPLE'S REPUBLIC OF CHINA

(c) Mr. CHAN Kwok-kwong
Flat 25, 12/F, Acacia Building
150 Kenedy Road
WAN CHAI
HONG KONG
PEOPLE'S REPUBLIC OF CHINA

(d) Mr. CHAN Kwok-kwong
Flat 25, 12/F, Acacia Building
150 Kennedy Road
WAN CHAI
HONG KONG
PEOPLE'S REPUBLIC OF CHINA

MP Police Constable Exam 24 July 2016 - 9:am

Ans : (c) विकल्प (c) दिया गया पता प्रश्न में दिये गये पते के बिल्कुल समान नहीं है, क्योंकि विकल्प (c) में Kennedy की जगह Kenedy लिखा गया है।

249. Which one of the following four addresses is NOT EXACTLY the same as the one given below?
निम्न दिये गये चार पतों में से नीचे दिये गये पते के ठीक समान कौन-सा एक नहीं है?

Beauty Mountain Whitewater Trippers, Inc.
General Delivery

GET IT ON Google Play Best Study PDF के लिए हमारी App को Download करें "GK Trick By Nitin Gupta"

Edmond, West Virginia 25837
(304) 574-0211

(i) Beauty Mountain Whitewater Trippers, Inc.
General Delivery
Edmond, West Virginia 25837
(304) 574-0211

(ii) Beauty Mountain Whitewater Trippers, Inc.
General Delivery
Edmond, West Virginia 25837
(304) 574-0211

(ii) Beauty Mountain Whitewater Trippers, Inc.
General Delivery
Edmond, West Virginia 25837
(304) 574-0211

(iii) Beauty Mountain Whitewater Trippers, Inc.
General Delivery
Edmond, West Virginia 25837
(304) 574-0211

(iv) Beauty Mountain Whitewater Trippers, Inc.
General Deliver
Edmond, West Virginia 25837
(304) 574-0211

(a) i (b) ii
(c) iii (d) iv

MP Police Constable Exam 17 July 2016 - 12:am

Ans. (d) विकल्प (d) में दिया गया विकल्प प्रश्न के पते के ठीक समान नहीं है।
विकल्प (d) Beauty Mountain Whitewater Trippers, Inc.
General Deliver
Edmond, West Virginia 25837
(304) 574 - 0211

250. Select the option that is related to the third word in the same way as the second pair is related to the first pair.
उस विकल्प का चयन करें जो तीसरे शब्द से उसी प्रकार संबंधित है जैसे दूसरा युग्म पहले युग्म से संबंधित है।

RAW : India :: CIA : ?
RAW : भारत :: CIA : ?

(a) Japan/जापान (b) China/चीन
(c) England/इंग्लैंड (d) America/अमेरिका

MP Police Constable Exam- 13 August-2023 Shift-3

Ans. (d) : जिस प्रकार 'भारत' की खूफिया एजेंसी को 'RAW' कहा जाता है। उसी प्रकार 'अमेरिका' के खूफिया एजेंसी को 'CIA' कहा जाता है।

251. Select the option that is related to the third word in the same way as the second pair is related to the first pair.
उस विकल्प का चयन करें जो तीसरे शब्द से उसी प्रकार संबंधित है जैसे दूसरा युग्म पहले युग्म से संबंधित है।

Manipur : Imphal :: Mizoram : ?
मणिपुर : इंफाल :: मिजोरम : ?

(a) Kohima/कोहिमा (b) Shillong/शिलांग
(c) Aizawl/आइजोल (d) Gangtok/गंगटोक

MP Police Constable Exam- 13 August-2023 Shift-3

Ans. (c) : जिस प्रकार 'मणिपुर' की राजधानी 'इंफाल' है। उसी प्रकार मिजोरम की राजधानी 'आइजोल' हैं।

252. Which two of the following four addresses are EXACTLY the same?
निम्न में से कौन से दो पते एकदम समान हैं?

(i) ABB Flexible Automation GmbH
Grüner Weg 6
D-61169 Friedburg
GERMANY

(ii) ABB Flexible Automaton GmbH
Grüner Weg 6
D-61169 Friedberg
GERMANY

(iii) ABB Flexible Automation GmbH
Grüner Weg 6
D-611169 Friedberg
GERMANY

(iv) ABB Flexible Automation GmbH
Grüner Weg 6
D-61169 Friedberg
GERMANY

(a) I and III/ I और III (b) I and IV/ I और IV
(c) II and III/ II और III (d) II and IV/ II और IV

MP Police Constable Exam- 26 July-2016 - 9: am

Ans : (b) पता (i) और पता (iv) समान है।

253. Which one of the following four addresses is NOT EXACTLY the same as the one given below?/निम्न दिये गये चार पतों में से नीचे दिये गये पते के ठीक समान कौन सा एक नहीं है?

Sunrise County Canoe Expeditions, Inc.
Cathance Lake
Grove Post, Maine 04638
(207) 454-7708

(i) Sunrise County Canoe Expeditions, Inc.
Cathance Lake
Grove Post, Maine 04638
(207) 454-7708

(ii) Sunrise County Canoe Expeditions, Inc.
Cathance Lake
Grove Post, Maine 04638
(207) 454-7708

(iii) Sunrise County Canoe Expeditions, Inc.
Cathance Lake
Grove Post, Maine 04638
(207) 454-7708

(iv) Sunrise County Canoe Expeditions, Inc.
Cathance Lake
Growe Post, Maine 04638
(207) 456-7708

(a) i (b) ii
(c) iii (d) iv

MP Police Constable Exam- 20 July-2016 - 9: am

Ans : (d) चारों विकल्पों में विकल्प (d) दिये गये पते से मेल नहीं खा रहा है। क्योंकि विकल्प (d) में Growe की जगह Grove एवं अन्तिम लाइन में 456 की जगह 454 होगा।

GET IT ON Google Play Best Study PDF के लिए हमारी App को Download करें "GK Trick By Nitin Gupta"

भाग-2.

कोडिंग-डिकोडिंग (Coding-Decoding)

Type-1: अंग्रेजी वर्णमाला के अक्षरों के अंकों में कूट पर आधारित प्रश्न

1. If 'THEN' is written as 'RLBS', then how may 'CASE' be written in that code ?
यदि 'THEN' को किसी कोड में 'RLBS' लिखा जाता है, तो बताइए 'CASE' को उसी कोड में क्या लिखा जाएगा ?

(a) AEPJ (b) APEP
(c) EPAP (d) PAEJ

MP Police Constable Exam- 24 August-2023 Shift-2

Ans. (a) : प्रश्नानुसार,

जिस प्रकार,

T H E N
–2 +4 –3 +5
R L B S

उसी प्रकार,

C A S E
–2 +4 –3 +5
A E P J

अतः ? = AEPJ

2. If HECK is coded as 94410 and DIG is coded as 588, then how will BIKE coded as ?
यदि HECK को 94410 कोडित किया जाता है और DIG को 588 कोडित किया जाता है, तो BIKE को कैसे कोडित किया जाएगा ?

(a) 38124 (b) 39105
(c) 19113 (d) 38115

MP Police Constable Exam- 24 August-2023 Shift-2

Ans. (a) : प्रश्नानुसार,

जिस प्रकार,

H E C K = 94410
8 5 3 11
+1 –1 +1 –1
9 4 4 10

तथा,

D I G = 588
4 9 7
+1 –1 +1
5 8 8

उसी प्रकार,

B I K E = ?
2 9 11 5
+1 –1 +1 –1
3 8 12 4

अतः ? = 38124

3. If SMOKE is coded as 81643 and PRANK is coded as 72954, how would you code ROSE ?
यदि SMOKE को 81643 के रूप में और PRANK को 72954 के रूप में कूटबद्ध किया जाता है तो ROSE को किस रूप में कूटबद्ध किया जाएगा ?

(a) 2682 (b) 3276
(c) 9238 (d) 2683

MP Police Constable Exam- 29 August-2023 Shift-2

Ans. (d) : जिस प्रकार, तथा

S M O K E → 8 1 6 4 3
P R A N K → 7 2 9 5 4

उसी प्रकार उपर्युक्त कूट से,

R O S E
↓ ↓ ↓ ↓
2 6 8 3

अतः ROSE को 2683 लिखा जाएगा।

4. In a certain code language, 'ROCK' is written as '3587' and 'TIDE' is written as '4261'. How will 'DOCTOR' be written in the same code language' ?
एक निश्चित कोड भाषा में, 'ROCK' को '3587' को 'TIDE', के रूप में '4261', लिखा जाता है। 'DOCTOR' को समान कोड भाषा में कैसे लिखा जाएगा ?

(a) 658435 (b) 658453
(c) 654853 (d) 685453

MP Police Constable Exam- 29 August-2023 Shift-2

Ans. (b) : जिस प्रकार, तथा

R O C K → 3 5 8 7
T I D E → 4 2 6 1

उसी प्रकार उपर्युक्त कूट से,

D O C T O R
↓ ↓ ↓ ↓ ↓ ↓
6 5 8 4 5 3

अतः DOCTOR को 658453 लिखा जाएगा।

5. If Q = 8.5 and JOY = 25, then how will you code FROZEN?
यदि Q = 8.5 और JOY = 25 तो आप FROZEN का कूट कैसे लिखगे?

(a) 60 (b) 46
(c) 48 (d) 42

MP Police Constable Exam- 2 Sep-2023 Shift-2

GET IT ON Google Play Best Study PDF के लिए हमारी App को Download करें "GK Trick By Nitin Gupta"

Ans. (d) : जिस प्रकार,

$$Q = \frac{17}{2} = 8.5$$

और

$$JOY = \frac{10+15+25}{2} = 25$$

उसी प्रकार,

$$FROZEN = \frac{6+18+15+26+5+14}{2} = 42$$

∴ सही उत्तर विकल्प (d) होगा।

6. If CAB = 12 and FED = 30, then HIDE = _____.
यदि CAB = 12 और FED = 30 है, तो HIDE = _____.

(a) 48 (b) 52
(c) 44 (d) 68

MP Police Constable Exam- 27 August-2023 Shift-1

Ans. (b) : जिस प्रकार,

CAB = 12
3 1 2

तर्क → (3 + 1 + 2) × 2 = 12

तथा,

FED = 30
6 5 4

तर्क → (6 + 5 + 4) × 2 = 30

उसी प्रकार,

HIDE = ?
8 9 4 5

तर्क → (8 + 9 + 4 + 5) × 2 = 52

अतः ? = 52

7. In a certain code language, SON is written as 345 and ROAM is written as 6412. How will RANSOM be written as in the same language ?
एक निश्चित कूट भाषा में, SON को 345 और ROAM को 6412 लिखा जाता है। उस भाषा RANSOM को में कैसे लिखा जाएगा ?

(a) 615342 (b) 651342
(c) 615324 (d) 612435

MP Police Constable Exam- 27 August-2023 Shift-1

Ans. (a) : जिस प्रकार,

तथा

S O N → 3 4 5
R O A M → 6 4 1 2

उसी प्रकार उपर्युक्त कूट से–

R A N S O M → 6 1 5 3 4 2

अतः 'RANSOM' को '615342' लिखा जायेगा।

8. If in a code language 'WORD' is written as '1234', 'GOD' as '524', and 'PUT' as '678' then 'GOOD' can be written as_____.
यदि किसी कोड भाषा में 'WORD' को '1234', 'GOD' को '524', और 'PUT' को '678' लिखा जाता है तो 'GOOD' को _____ लिखा जा सकता है।

(a) 7224 (b) 6224
(c) 5224 (d) 4223

MP Police Constable Exam- 8 Sep-2023 Shift-2

Ans. (c) : जिस प्रकार,

W O R D G O D P U T
↓ ↓ ↓ ↓ ↓ ↓ ↓ ↓ ↓ ↓
1 2 3 4 5 2 4 6 7 8

उसी प्रकार,

G O O D
↓ ↓ ↓ ↓
5 2 2 4

अतः विकल्प (c) सही उत्तर होगा।

9. If in a certain code language, 'EAT is written as '318' and 'CHAIR' is written as '24156', then how 'TEACHER' be written in that code language ?
यदि एक निश्चित कोड भाषा में 'EAT' को '318', 'CHAIR' को '24156' लिखा जाता है, तो 'TEACHER' को उस भाषा में कैसे लिखा जाएगा ?

(a) 8313426 (b) 8312436
(c) 8321436 (d) 8312346

MP Police Constable Exam- 28 August-2023 Shift-2

Ans. (b) : जिस प्रकार, तथा

E A T → 3 1 8
C H A I R → 2 4 1 5 6

उसी प्रकार उपर्युक्त कूट से,

T E A C H E R → 8 3 1 2 4 3 6

अतः 'TEACHER' को '8312436' के रूप में लिखा जाएगा।

10. If DIG is coded as 25 and CUT is coded as 49, then how will KICK be coded as ?
यदि DIG को 25 के रूप में और CUT को 49 के रूप में कूटबद्ध किया जाता है तो KICK को किस रूप में कूटबद्ध किया जाएगा ?

(a) 43 (b) 39
(c) 41 (d) 34

MP Police Constable Exam- 25 August-2023 Shift-3

Ans. (b) : जिस प्रकार,

DIG = 4 + 9 + 7 = 20 ⇒ 20 + 5 = 25

तथा

CUT = 3 + 21 + 20 = 44 ⇒ 44 + 5 = 49

उसी प्रकार,

KICK = 11 + 9 + 3 + 11 = 34 ⇒ 34 + 5 = 39

GET IT ON Google Play Best Study PDF के लिए हमारी App को Download करें "GK Trick By Nitin Gupta"

11. In a code language, if PICTURE is coded as 16932021185 then how will FUNCTION be coded in the same language?
किसी कूट भाषा में, PICTURE को 16932021185 के रूप में कूटबद्ध किया जाता है। उस कूट भाषा में FUNCTION को किस प्रकार कूटबद्ध किया जाएगा?

(a) 6211432091413 (b) 6211432081514
(c) 6211432091514 (d) 6211332091513

MP Police Constable Exam- 18 August-2023 Shift-1

Ans. (c) : जिस प्रकार,

P I C T U R E
स्थानीय क्रमांक ↓ ↓ ↓ ↓ ↓ ↓ ↓
16 9 3 20 21 18 5

उसी प्रकार,

F U N C T I O N
स्थानीय क्रमांक ↓ ↓ ↓ ↓ ↓ ↓ ↓ ↓
6 21 14 3 20 9 15 14

12. In a certain code, 15789 is written as AXBTC, 2346 is written as MPDU. How is 23549 written in that code?
एक निश्चित कूट में, 15789 को AXBTC लिखा जाता है, 2346 को MPDU लिखा जाता है, 23549 का कूट कैसे लिखा जायेगा?

(a) MPXDT
(b) MPADC
(c) MPXDC
(d) None of the given options/दिए गए विकल्पों में से कोई नहीं

MP Police Constable Exam- 18 August-2023 Shift-1

Ans. (c) : जिस प्रकार,

A X B T C
↓ ↓ ↓ ↓ ↓
1 5 7 8 9

तथा

M P D U
↓ ↓ ↓ ↓
2 3 4 6

उसी प्रकार, उपर्युक्त कूट से,

M P X D C
↑ ↑ ↑ ↑ ↑
2 3 5 4 9

अतः विकल्प (c) सही उत्तर है।

13. If A = 1, HAT = 29, then PAN = ?
यदि A = 1, HAT = 29 हो, तो PAN = ?

(a) 21 (b) 31
(c) 41 (d) 28

MP Police Constable Exam- 18 August-2023 Shift-1

Ans. (b) : जिस प्रकार, A = 1
और, $H + A + T \Rightarrow 8 + 1 + 20 = 29$
उसी प्रकार,
$P + A + N \Rightarrow 16 + 1 + 14 = 31$
अतः $\boxed{? = 31}$

14. If S = 19, SUN = 54 and CAKE = 20, then MISTAKE = ?
यदि S = 19, SUN = 54 और CAKE = 20 हो, तो MISTAKE किसके बराबर होगा?

(a) 78 (b) 68
(c) 59 (d) 48

MP Police Constable Exam- 19 August-2023 Shift-2

Ans. (a) : जिस प्रकार,
$S \rightarrow 19$
तथा $SUN \rightarrow 19 + 21 + 14 = 54$
एवं $CAKE \rightarrow 3 + 1 + 11 + 5 = 20$
उसी प्रकार,
$MISTAKE \rightarrow 13 + 9 + 19 + 20 + 1 + 11 + 5 = 78$
अतः विकल्प (a) सही उत्तर होगा।

15. If A = 4 and C = 6, then how will you code POWER?
यदि A = 4 और C = 6 है, तो आप POWER को कैसे कूटबद्ध करेंगे?

(a) 191826821 (b) 191825821
(c) 131726821 (d) 181725720

Ans. (a) : जिस प्रकार,
$A \Rightarrow 1 + 3 \Rightarrow 4$
और
$C \Rightarrow 3 + 3 \Rightarrow 6$
उसी प्रकार,

P	O	W	E	R
↓	↓	↓	↓	↓
16+3	15+3	23+3	5+3	18+3
↓	↓	↓	↓	↓
19	18	26	8	21

अतः 'POWER' के लिए कूट '191826821' होगा।

16. If A = 2 and C = 4, then PARTICLE = _____.
यदि A = 2 है और C = 4, है तो PARTICLE = _____ है।

(a) 172172094136 (b) 1621820104136
(c) 1721921104136 (d) 172192094126

MP Police Constable Exam- 12 August-2023 Shift-2

Ans. (c) : जिस प्रकार,
$A \Rightarrow 1 + 1 \Rightarrow 2$
और
$C \Rightarrow 3 + 1 \Rightarrow 4$
उसी प्रकार,

P	A	R	T	I	C	L	E
↓	↓	↓	↓	↓	↓	↓	↓
16+1	1+1	18+1	20+1	9+1	3+1	12+1	5+1
↓	↓	↓	↓	↓	↓	↓	↓
17	2	19	21	10	4	13	6

अतः 'PARTICLE' के लिए कूट '1721921104136' होगा।

17. If EAGER is coded as 51759 then how will CADET be coded?
यदि EAGER को 51759 को रूप में कूटबद्ध किया जाता है तो CADET को किस रूप में कूटबद्ध किया जाएगा?

(a) 31457 (b) 34157
(c) 31547 (d) 31450

MP Police Constable Exam- 13 August-2023 Shift-1

GET IT ON Google Play Best Study PDF के लिए हमारी App को Download करें "GK Trick By Nitin Gupta"

Ans. (a) : जिस प्रकार,

E → 5
A → 1
G → 7
E → 5
R → 9
अक्षर क्रम

उसी प्रकार,

C → 3
A → 1
D → 4
E → 5
T → 7
अक्षर क्रम

अतः विकल्प (a) सही है।

18. If X = 48 and ACT = 48, then TALL = _____.
यदि X = 48 है और ACT = 48 है, तो TALL = _____ होगा।

(a) 88 (b) 92
(c) 90 (d) 45

MP Police Constable Exam- 13 August-2023 Shift-1

Ans. (c) : जिस प्रकार,

X = 48
24×2

और

ACT = 48
(1+3+20)×2

उसी प्रकार,

TALL = 90
(20+1+12+12)×2

अतः रिक्त स्थान पर 90 आयेगा।

19. If AN = 14 and CAT = 60, then BEG = ?
यदि AN = 14 और CAT = 60, तो BEG = ?

(a) 72 (b) 168
(c) 74 (d) 70

MP Police Constable Exam- 13 August-2023 Shift-2

Ans. (d) : जिस प्रकार,

A N = 14
1 × 14

और

C A T = 60
3 × 1 × 20

उसी प्रकार,

B E G = 70
2 × 5 × 7

नोटः अक्षरों के क्रमों का गुणा करके उत्तर प्राप्त किया गया है।

20. If POSTER is coded as 592314 and DARK is coded as 8647, then how will STROKE be coded as?
यदि POSTER को 592314 के रूप में और DARK को 8647 के रूप में कूटबद्ध किया जाता है तो STROKE को किस रूप में कूटबद्ध किया जाएगा?

(a) 234917 (b) 234971
(c) 493287 (d) 324917

MP Police Constable Exam- 13 August-2023 Shift-2

Ans. (b) : जिस प्रकार,

P → 5
O → 9
S → 2
T → 3
E → 1
R → 4

और

D → 8
A → 6
R → 4
K → 7

उसी प्रकार, उपर्युक्त कोड से

S → 2
T → 3
R → 4
O → 9
K → 7
E → 1

अतः STROKE = 234971

21. If 'J' is coded as '20' and 'BAT' is coded as '46' then how will 'CRICKET' be coded ?
यदि 'J' को 20 के रूप में कूटबद्ध किया जाता है और 'BAT' को '46' के रूप में कूटबद्ध किया जाता है तो 'CRICKET' को किस रूप में कूटबद्ध किया जाएगा?

(a) 138 (b) 158
(c) 142 (d) 140

MP Police Constable Exam- 23 August-2023 Shift-2

Ans. (a) : प्रश्नानुसार,

J → 20 = 2 × 10
BAT → 2 + 1 + 20 = 23 × 2 = 46
CRICKET → 3 + 18 + 9 + 3 + 11 + 5 + 20
= 69 × 2
= 138

अतः विकल्प (a) सही है।

22. If code P is denoted by 7, X by 9, M by 5, Z by 8, L by 2, T by 1, then ZLTPXM will be:
यदि P, 7 को दर्शाता है, X, 9 को दर्शाता है, M, 5 को दर्शाता है, Z, 8 को दर्शाता है, L, 2 को दर्शाता है, T, 1 को दर्शाता है, तो ZLTPXM का कोड क्या होगा?

(a) 812851 (b) 821591
(c) 812715 (d) 821795

MP Police Constable Exam- 16 August-2023 Shift-1

Ans. (d) : प्रश्नानुसार, अक्षरों का कोड प्रतिस्थापित करने पर-

Z	L	T	P	X	M
↓	↓	↓	↓	↓	↓
8	2	1	7	9	5

अतः ZLTPXM = 821795

23. If 'MACHINE' is coded as '19-7-9-14-15-20-11', how will you code 'DANGER'?
यदि 'MACHINE' को '19-7-9-14-15-20-11' कूटित किया जाता है, तो 'DANGER' का कूट क्या होगा?

(a) 10-7-20-13-11-24 (b) 11-7-20-16-11-24
(c) 13-7-20-9-11-25 (d) 13-7-20-10-11-25

MP Police Constable Exam- 16 August-2023 Shift-1

Ans. (a) : जिस प्रकार,

13	1	3	8	9	14	5
M	A	C	H	I	N	E
+6 ↓	+6 ↓	+6 ↓	+6 ↓	+6 ↓	+6 ↓	+6 ↓
19	7	9	14	15	20	11

GET IT ON Google Play Best Study PDF के लिए हमारी App को Download करें "GK Trick By Nitin Gupta"

उसी प्रकार,

4	1	14	7	5	18
D	A	N	G	E	R
+6 ↓	+6 ↓	+6 ↓	+6 ↓	+6 ↓	+6 ↓
10	7	20	13	11	24

अतः स्पष्ट है कि 'DANGER' के लिए कूट '10-7-20-13-11-24' होगा।

24. In a code language, YOGHURT is written as 251578211820. How will DEVELOP be written as in that language?
किसी कूट भाषा में, YOGHURT को 251578211820 लिखा जाता है। उसी कूट भाषा में DEVELOP को लिखा जाएगा?

(a) 45225111516 (b) 45215121516
(c) 45225121516 (d) 45225121515

MP Police Constable Exam- 16 August-2023 Shift-1

Ans. (c) : जिस प्रकार,

Y	O	G	H	U	R	T
↓	↓	↓	↓	↓	↓	↓
25	15	7	8	21	18	20

उसी प्रकार,

D	E	V	E	L	O	P
↓	↓	↓	↓	↓	↓	↓
4	5	22	5	12	15	16

अतः 'DEVELOP' = 45225121516
नोट-अक्षरों को उनके आंकिक मान के रूप में दर्शाया गया है।

25. What should come in the place of question mark?
प्रश्नवाचक चिह्न के स्थान पर क्या आयेगा?
DF13 HI15 LL17 PO19 ?

(a) TR21 (b) RT21
(c) TR23 (d) RT23

MP Police Constable Exam- 12 Sep-2023 Shift-2

Ans. (a) : दिया गया संख्या – अक्षर शृंखला निम्नवत् है-

D $\xrightarrow{+4}$ H $\xrightarrow{+4}$ L $\xrightarrow{+4}$ P $\xrightarrow{+4}$ T
F $\xrightarrow{+3}$ I $\xrightarrow{+3}$ L $\xrightarrow{+3}$ O $\xrightarrow{+3}$ R
13 $\xrightarrow{+2}$ 15 $\xrightarrow{+2}$ 17 $\xrightarrow{+2}$ 19 $\xrightarrow{+2}$ 21

अतः ? = TR21

26. If BACK is coded as 11312 and CAKE is coded as 51113, then how will MADE be coded as ?
यदि BACK को 11312 के रूप में और CAKE को 51113 के रूप में कूटबद्ध किया जाता है तो MADE को किस रूप में कूटबद्ध किया जाएगा ?

(a) 51413 (b) 54113
(c) 31145 (d) 13145

MP Police Constable Exam- 26 August-2023 Shift-3

Ans. (b) : जिस प्रकार,

2	1	3	11
B	A	C	K
11	3	1	2

तथा,

3	1	11	5
C	A	K	E
5	11	1	3

उसी प्रकार,

13	1	4	5
M	A	D	E
5	4	1	13

अतः 'MADE' का कूट '54113' होगा।

27. In a certain code Language, 'DEAR' is written as '7465' and 'LIFE' is written as '8394'. How will 'IDEAL' be written in the same code language?
किसी कूट भाषा में, 'DEAR' को '7465' के रूप में लिखा गया है और 'LIFE' को '8394' के रूप में लिखा गया है, 'IDEAL' को इसी कूट भाषा में कैसे लिखा जाएगा?

(a) 37468 (b) 34673
(c) 73648 (d) 37634

MP Police Constable Exam- 12 August-2023 Shift-3

Ans. (a) : जिस प्रकार,

D	E	A	R
↓	↓	↓	↓
7	4	6	5

तथा

L	I	F	E
↓	↓	↓	↓
8	3	9	4

उसी प्रकार, उपरोक्त कोड से,

I	D	E	A	L
↓	↓	↓	↓	↓
3	7	4	6	8

नोटः- दिये गये प्रश्न में प्रत्येक अक्षर को एक निश्चित संख्या से कोडित किया गया है।

28. If DIG = 41 and GOAD = 55, then FACT = _____.
यदि DIG = 41 और GOAD = 55 तब FACT = _____.

(a) 45 (b) 53
(c) 63 (d) 61

MP Police Constable Exam- 12 August-2023 Shift-3

Ans. (d) : जिस प्रकार,

$(D + I + G) \times 2 + 1 \Rightarrow (4 + 9 + 7) \times 2 + 1$
$\Rightarrow 20 \times 2 + 1 = 41$

तथा

$(G + O + A + D) \times 2 + 1 \Rightarrow (7 + 15 + 1 + 4) \times 2 + 1$
$\Rightarrow 27 \times 2 + 1 = 55$

उसी प्रकार,

$(F + A + C + T) \times 2 + 1 \Rightarrow (6 + 1 + 3 + 20) \times 2 + 1$
$\Rightarrow 30 \times 2 + 1 = 61$

GET IT ON Google Play Best Study PDF के लिए हमारी App को Download करें "GK Trick By Nitin Gupta"

29. If DRIVE is coded as 59372 and SPUR is coded as 6489. what Will be the code for PRIDE ?
यदि DRIVE को 59372 और SPUR को 6489 के रूप में कोडित किया गया है। PRIDE के लिए कोड क्या होगा ?

(a) 94532 (b) 49352
(c) 43925 (d) 49235

MP Police Constable Exam- 23 August-2023 Shift-3

Ans. (b) : जिस प्रकार,

D R I V E → 5 9 3 7 2
S P U R → 6 4 8 9

उपर्युक्त कोड से,

P R I D E → 4 9 3 5 2

नोट :- यहाँ अक्षरों के कोड को सीधे-सीधे कूट किया गया है।

अतः PRIDE का कूट '49352' होगा।

30. Which of the following can replace the question mark ?
निम्न में से कौन प्रश्नवाचक चिह्न को प्रतिस्थापित कर सकता है ?
14ISZ, ?, 20KMR, 23LJN

(a) 17IPV (b) 17JQV
(c) 17JPV (d) 17JRV

MP Police Constable Exam- 23 August-2023 Shift-3

Ans. (c) : दी गई श्रृंखला निम्नवत् है–

14 $\xrightarrow{+3}$ 17 $\xrightarrow{+3}$ 20 $\xrightarrow{+3}$ 23
I $\xrightarrow{+1}$ J $\xrightarrow{+1}$ K $\xrightarrow{+1}$ L
S $\xrightarrow{-3}$ P $\xrightarrow{-3}$ M $\xrightarrow{-3}$ J
Z $\xrightarrow{-4}$ V $\xrightarrow{-4}$ R $\xrightarrow{-4}$ N

अतः ? = 17JPV

31. If A = 4 and C = 6, then how will you code POWER ?
यदि A = 4 और C = 6 है, तो आप POWER को कैसे कूटबद्ध करेंगे ?

(a) 191826821 (b) 191825821
(c) 131726821 (d) 181725720

MP Police Constable Exam- 12 August-2023 Shift-2

MP Police Constable Exam- 23 August-2023 Shift-3

Ans. (a) : प्रश्नानुसार,

जिस प्रकार, तब, उसी प्रकार,

A $\xrightarrow{+3}$ 4 C $\xrightarrow{+3}$ 6

P O W E R
+3 +3 +3 +3 +3
19 18 26 8 21

अतः 'POWER' का कूट '191826821' होगा।

32. If D = 4, DESK = 39, what will be the value of DRAW is?
यदि D = 4, DESK = 39 हो, तो DRAW का मान क्या होगा?

(a) 57 (b) 46
(c) 45 (d) 36

MP Police Constable Exam- 17 August-2023 Shift-2

Ans. (b) : जिस प्रकार, तथा

D = 4 ↓ 4 = 4

D E S K = 39
↓ ↓ ↓ ↓
4 + 5 + 19 + 11 = 39

उसी प्रकार,

D R A W = ?
↓ ↓ ↓ ↓
4 + 18 + 1 + 23 = 46

33. In a code language, ARDOUS is written as 1184152119. How will SYSTEM be written as in that language?/ किसी कूट भाषा में, ARDOUS को 1184152119 लिख जाता है। उसी कूट भाषा में SYSTEM को क्या लिखा जाएगा?

(a) 19251920513 (b) 19251920514
(c) 19251921513 (d) 18251820513

MP Police Constable Exam- 17 August-2023 Shift-2

Ans. (a) : जिस प्रकार,

A → 1
R → 18
D → 4
O → 15
U → 21
S → 19

उसी प्रकार,

S → 19
Y → 25
S → 19
T → 20
E → 5
M → 13

अतः 'SYSTEM' को कूट भाषा में '19251920513' लिखा जायेगा।

Note – अक्षरों के आंकिक मान को लिखा गया है।

34. If A = 1, FAT = 27, then FAITH = ?
यदि A = 1, FAT = 27, तो FAITH = ?

(a) 44 (b) 42
(c) 41 (d) 40

MP Police Constable Exam- 17 August-2023 Shift-2

Ans. (a) : जिस प्रकार, तथा

A = 1 ↓ 1

F A T = 27
↓ ↓ ↓
6 + 1 + 20 = 27

उसी प्रकार,

F A I T H = ?
↓ ↓ ↓ ↓ ↓
6 + 1 + 9 + 20 + 8 = 44

अतः ? = 44

35. If A = 1, CAT = 60, then MAN = ?
यदि A = 1, CAT = 60, हो तो MAN = ?

(a) 27 (b) 90
(c) 180 (d) 182

MP Police Constable Exam- 16 August-2023 Shift-3

Ans. (d) : दिया है-

A = 1
CAT = 3 × 1 × 20 = 60

उसी प्रकार,

MAN = 13 × 1 × 14 = 182

अतः ? = 182

GET IT ON Google Play Best Study PDF के लिए हमारी App को Download करें "GK Trick By Nitin Gupta"

36. If MOBILITY is coded as 46293927, then EXAMINATION is coded as:
यदि MOBILITY का कूट 46293927 है तब, EXAMINATION का कूट है-

(a) 45038401854 (b) 56149512965
(c) 57159413955 (d) 67250623076

MP Police Constable Exam- 16 August-2023 Shift-3

Ans. (b) : जिस प्रकार,

M	O	B	I	L	I	T	Y
13	15	2	9	12	9	20	25
1+3	1+5	2	9	1+2	9	2+0	2+5
4	6	2	9	3	9	2	7

उसी प्रकार,

E	X	A	M	I	N	A	T	I	O	N
5	24	1	13	9	14	1	20	9	15	14
5	2+4	1	1+3	9	1+4	1	2+0	9	1+5	1+4
5	6	1	4	9	5	1	2	9	6	5

अतः 'EXAMINATION' का कूट '56149512965' है।

37. If T = 20, MEDIA = 32, then ELICIT = ?
यदि T = 20, MEDIA = 32 है, तो ELICIT = ?

(a) 57 (b) 58
(c) 59 (d) 60

MP Police Constable Exam- 14 August-2023 Shift-3

Ans. (b) : जिस प्रकार,
T = 20
तथा
MEDIA = 32
13 + 5 + 4 + 9 + 1 = 32
उसी प्रकार,
ELICIT
5 + 12 + 9 + 3 + 9 + 20
= 58

38. If AS = 19 and BAT = 40, then how will you code BREAD?
यदि AS = 19 और BAT = 40 है, तो आप BREAD को कैसे कोड करेंगे?

(a) 625 (b) 720
(c) 205 (d) 30

MP Police Constable Exam- 14 August-2023 Shift-3

Ans. (b) : जिस प्रकार,
AS = 19
$1 \times 19 = 19$
तथा
BAT = 40
$2 \times 1 \times 20 = 40$
उसी प्रकार,
BREAD
$2 \times 18 \times 5 \times 1 \times 4$
= 720

39. If DON is coded as 345 and ROAM is coded as 6412, then how will RANDOM be coded?
यदि DON को 345 के रूप में कूटबद्ध किया जाता है और ROAM को 6412 के रूप में कूटबद्ध किया जाता है तो RANDOM को किस रूप में कूटबद्ध किया जाएगा?

(a) 615342 (b) 615324
(c) 613542 (d) 651342

MP Police Constable Exam- 14 August-2023 Shift-3

Ans. (a) : जिस प्रकार,
DON → 345
तथा
ROAM → 6412
उसी प्रकार उपरोक्त कोड से,
RANDOM → 615342

40. In a code language, 54831 is coded as 63922. What will be the code for 86274 in that language?/यदि किसी कूट भाषा में, 54831 को 63922 के रूप में कूटबद्ध किया जाता है, तो उसी कूट भाषा में 86274 के लिए कूट क्या होगा?

(a) 75365 (b) 77185
(c) 95365 (d) 95185

MP Police Constable Exam- 13 August-2023 Shift-3

Ans. (c) : जिस प्रकार,
5 $\xrightarrow{+1}$ 6
4 $\xrightarrow{-1}$ 3
8 $\xrightarrow{+1}$ 9
3 $\xrightarrow{-1}$ 2
1 $\xrightarrow{+1}$ 2

उसी प्रकार,
8 $\xrightarrow{+1}$ 9
6 $\xrightarrow{-1}$ 5
2 $\xrightarrow{+1}$ 3
7 $\xrightarrow{-1}$ 6
4 $\xrightarrow{+1}$ 5

अतः ? = 95365

41. If A = 1 and ANT = 35, then PAT = ?
यदि A = 1 और ANT = 35, तो PAT = ?

(a) 32 (b) 47
(c) 25 (d) 37

MP Police Constable Exam- 28 August-2023 Shift-3

Ans. (d) : प्रश्नानुसार,
जिस प्रकार,
A = 1
↓
तर्क → 1 = 1

तथा
A N T
↓ ↓ ↓
तर्क → 1+14+20 = 35

उसी प्रकार,
P A T
↓ ↓ ↓
तर्क → 16+1+20 = 37

अतः ? = 37

42. If N = 28 and ORE = 76, then how will you code PALE ? /यदि N = 28 और ORE = 76 है, तो आप PALE को किस रूप में कूटबद्ध करेंगे ?

(a) 68 (b) 76
(c) 19 (d) 72

MP Police Constable Exam- 23 August-2023 Shift-1

Ans. (a) : जिस प्रकार,
N = 28
↓
$14 \times 2 \Rightarrow 28$

तथा
O R E = 76
↓ ↓ ↓
$(15+18+5) \times 2 \Rightarrow 76$

उसी प्रकार,
P A L E = ?
↓ ↓ ↓ ↓
$(16+1+12+5) \times 2 \Rightarrow 68$

अतः ? = 68

GET IT ON Google Play Best Study PDF के लिए हमारी App को Download करें "GK Trick By Nitin Gupta"

43. If CAB is coded as 6 and BED is coded as 40, then how will HAD be coded as ?
यदि CAB को 6 के रूप में और BED को 40 के रूप में कूटबद्ध किया जाता है तो HAD को किस रूप में कूटबद्ध किया जाएगा ?

(a) 16 (b) 52
(c) 32 (d) 46

MP Police Constable Exam- 28 August-2023 Shift-3

Ans. (c) : प्रश्नानुसार,
जिस प्रकार,

C A B = 6
3 1 2
तर्क → 3 × 1 × 2 = 6

तथा

B E D = 40
2 5 4
तर्क → 2 × 5 × 4 = 40

उसी प्रकार,

H A D = ?
8 1 4
तर्क → 8 × 1 × 4 = 32

अतः ? = 32

44. If 'ROSE' is coded as '6821', 'CHAIR' is coded as '73456' and 'PREACH' is coded as '961473', then what will be the code of 'SEARCH'?
यदि 'ROSE' को '6821' कूटित किया जाता है, 'CHAIR' को '73456' कूटित किया जाता है और 'PREACH' को '961473' कूटित किया जाता है तो 'SEARCH' का कूट क्या होगा?

(a) 246173 (b) 214673
(c) 214763 (d) 216473

MP Police Constable Exam- 18 August-2023 Shift-2

Ans. (b) : जिस प्रकार,

R O S E
6 8 2 1

और

C H A I R
7 3 4 5 6

तथा

P R E A C H
9 6 1 4 7 3

उपर्युक्त कोड से-

S E A R C H
2 1 4 6 7 3

अतः विकल्प (b) सही है।

45. If an a certain code language 'TALK' is written as '2121312', then how will 'PATNA' be coded in that language?
यदि एक निश्चित कोड भाषा 'TALK' को '2121312' लिखा जाता है, तो उस भाषा में 'PATNA' को कैसे कोडित किया जाएगा?

(a) 17212152 (b) 17221251
(c) 17221125 (d) 17221152

MP Police Constable Exam- 11 Sep-2023 Shift-2

Ans. (d) : जिस प्रकार,

T → 20+1=21
A → 1+1=2
L → 12+1=13
K → 11+1=12

(21 2 13 12)

उसी प्रकार,

P → 16+1=17
A → 1+1=2
T → 20+1=21
N → 14+1=15
A → 1+1=2

(17 2 21 15 2)

अतः विकल्प (d) सही उत्तर होगा।

46. If in a certain code language 'TRUE' is written as '2018215', then how will 'TAP' be written in that language?
यदि किसी निश्चित कूट भाषा में 'TRUE' को '2018215' लिखा जाता है, तो उस भाषा में 'TAP' को कैसे लिखा जाएगा?

(a) 20117 (b) 20116
(c) 20155 (d) 11223

MP Police Constable Exam- 11 Sep-2023 Shift-2

Ans. (b) : जिस प्रकार

T → 20
R → 18
U → 21
E → 5

उसी प्रकार,

T → 20
A → 1
P → 16

अतः विकल्प (b) सही उत्तर होगा।
नोट-दिये गये अक्षरों का वर्णमाला क्रम में स्थानीय मान दिया गया है।

47. If CAB = 12 and FED = 30, then HIDE = _____.
यदि CAB = 12 और FED = 30 है, तो HIDE = _____.

(a) 48 (b) 52
(c) 44 (d) 68

MP Police Constable Exam- 24 August-2023 Shift-3

Ans. (b) :
जिस प्रकार,

CAB = 12
3 1 2
तर्क → (3 + 1 + 2) × 2 = 12

तथा,

FED = 30
6 5 4
तर्क → (6 + 5 + 4) × 2 = 30

उसी प्रकार,

HIDE = ?
8 9 4 5
तर्क → (8 + 9 + 4 + 5) × 2 = 52

अतः ? = 52

GET IT ON Google Play Best Study PDF के लिए हमारी App को Download करें "GK Trick By Nitin Gupta"

48. If A = 1, AND = 19, then ANT = ?
यदि A = 1, AND = 19 हो तो ANT = ? किसके बराबर होगा?

(a) 35 (b) 33
(c) 23 (d) 19

MP Police Constable Exam- 17 August-2023 Shift-3

Ans. (a) : दिया है-
A = 1
AND = 1 + 14 + 4 = 19
∴ ANT = 1 + 14 + 20 = 35

49. If 'ARUN' is coded as 54, then how will 'VARUN' be coded as ?
यदि 'ARUN' को 54 रूप में कूटबद्ध किया जाता है, तो 'VARUN' को कैसे कूटबद्ध किया जाएगा ?

(a) 76 (b) 78 (c) 67 (d) 87

MP Police Constable Exam- 26 August-2023 Shift-2

Ans. (a) : जिस प्रकार,
A R U N
↓ ↓ ↓ ↓
वर्णमाला क्रम ⟶ 1+18+21+14 = 54
उसी प्रकार,
V A R U N
↓ ↓ ↓ ↓ ↓
वर्णमाला क्रम ⟶ 22+1+18+21+14 = 76

50. If HEAD is coded as 37 and BANK is coded as 57, then how will KITE be coded as?
यदि HEAD को 37 के रूप में और BANK को 57 के रूप में कूटबद्ध किया जाता है तो KITE को किस रूप में कूटबद्ध किया जाएगा?

(a) 87 (b) 91
(c) 69 (d) 76

MP Police Constable Exam- 12 Sep-2023 Shift-1

Ans. (b) : जिस प्रकार,
H E A D = 37
↓ ↓ ↓ ↓
8 5 1 4 = (8 + 5 + 1 + 4) × 2 + 1 = 18 × 2 + 1 = 37
तथा
B A N K = 57
↓ ↓ ↓ ↓
2 1 14 11 = (2 + 1 + 14 + 11) × 2 + 1 = 28 × 2 + 1 = 57
उसी प्रकार,
K I T E = □
↓ ↓ ↓ ↓
11 9 20 5 = (11 + 9 + 20 + 5) × 2 + 1 = 45 × 2 + 1
= 91
अतः 'KITE' का कूटबद्ध किये जाने पर '91' आयेगा।

51. If in a certain code language 'PERFECT' is written as '73', then how will 'PACT' be written in that code?
यदि किसी निश्चित कोड भाषा में 'PERFECT' को '73' लिखा जाता है, तो उस कोड में 'PACT' को कैसे लिखा जाएगा?

(a) 85 (b) 35
(c) 45 (d) 40

MP Police Constable Exam- 10 Sep-2023 Shift-2

Ans. (d) : जिस प्रकार,
P E R F E C T = 73
↓ ↓ ↓ ↓ ↓ ↓ ↓
16 + 5 + 18 + 6 + 5 + 3 + 20 = 73
उसी प्रकार,
P A C T
↓ ↓ ↓ ↓
16 + 1 + 3 + 20 = 40
Note- अक्षरों के आंकिक मानों का योग किया गया है।

52. If in a code language letters, of the word 'CAMEL' is coded as '25106', the word 'LION' is coded as '6793' and the word 'TIRE' is coded as '4780'. How will the letters of the word 'ELITE' be coded in that language?
यदि एक कोड भाषा में शब्द 'CAMEL' के अक्षरों को '25106' के रूप में कोडित किया जाता है, शब्द 'LION' को '6793' के रूप में कोडित किया जाता है और शब्द 'TIRE' को '4780' के रूप में कोउित किया जाता है। उस भाषा में 'ELITE' शब्द के अक्षरों को कैसे कोडित किया जाएगा?

(a) 06740 (b) 06470
(c) 60476 (d) 06704

MP Police Constable Exam- 10 Sep-2023 Shift-2

Ans. (a) : जिस प्रकार,
C A M E L , L I O N , T I R E
↓ ↓ ↓ ↓ ↓ ↓ ↓ ↓ ↓ ↓ ↓ ↓ ↓
2 5 1 0 6 6 7 9 3 4 7 8 0
उसी प्रकार,
E L I T E
↓ ↓ ↓ ↓ ↓
0 6 7 4 0
अतः 'ELITE' को कोड रूप में '06740' लिखा जायेगा।

53. In a certain code language. "BREAK" is written as "23615455". How is "XEROX" written in that code language ?
एक निश्चित कोड भाषा में, "BREAK" को "23615455" लिखा जाता है। "XEROX" को उस कोड भाषा में कैसे लिखेंगे ?

(a) 24154610 (b) 24105460120
(c) 2410546012 (d) 2410546024

MP Police Constable Exam- 31 August-2023 Shift-2

Ans. (b) :
जिस प्रकार,
B R E A K
2 18 5 1 11
×1 ×2 ×3 ×4 ×5
2 36 15 4 55
उसी प्रकार,
X E R O X
24 5 18 15 24
×1 ×2 ×3 ×4 ×5
24 10 54 60 120

GET IT ON Google Play Best Study PDF के लिए हमारी App को Download करें "GK Trick By Nitin Gupta"

54. If CLEAN is coded as 1415123 and BLOW is coded as 2315122, then how will JOKE be coded as ?
यदि CLEAN को 1415123 के रूप में और BLOW को 2315122 के रूप में कूटबद्ध किया जाता है तो JOKE को किस रूप में कूटबद्ध किया जाएगा ?

(a) 4111612 (b) 5121611
(c) 5111510 (d) 1011155

MP Police Constable Exam- 31 August-2023 Shift-2

Ans. (c) :
जिस प्रकार,

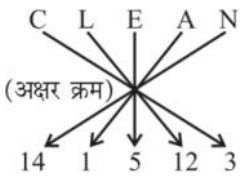

तथा

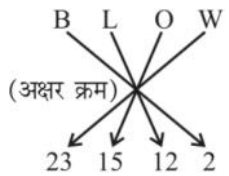

उसी प्रकार,

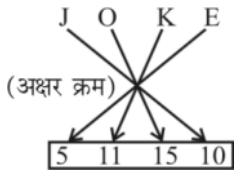

55. If E = 5 and EVEN = 46, then ENTER = ?
यदि E = 5 और EVEN = 46 है, तो ENTER = ?

(a) 62 (b) 52
(c) 72 (d) 42

MP Police Constable Exam- 29 August-2023 Shift-1

Ans. (a) : प्रश्नानुसार,
E = 5

जिस प्रकार,	उसी प्रकार,
EVEN = 46	ENTER = ?
5 + 22 + 5 + 14 = 46	5 + 14 + 20 + 5 + 18 = 62
	= 62

अतः ? = 62

56. In a code languages ROUTINE is written as 181521209145. How will VEHICLE be written as in that language?
एक कूट भाषा में, ROUTINE को 181521209145 लिखेंगे तो उसी भाषा में VEHICLE को कैसे लिखा जाएगा?

(a) 215893125 (b) 225893125
(c) 225893115 (d) 225793125

MP Police Constable Exam- 19 August-2023 Shift-3

Ans. (b) : जिस प्रकार,

	R	O	U	T	I	N	E
Place Value	↓	↓	↓	↓	↓	↓	↓
	18	15	21	20	9	14	5

उसी प्रकार,

	V	E	H	I	C	L	E
Place Value	↓	↓	↓	↓	↓	↓	↓
	22	5	8	9	3	12	5

अतः ? = 225893125

57. If RACKET is written as 813524 in a certain code, how would TRACK be written in that code?
यदि एक निश्चित कूट में RACKET को 813524 लिखा जाता है उस कूट में, TRACK को कैसे लिखा जायेगा?

(a) 28153 (b) 41835
(c) 81253 (d) 48135

MP Police Constable Exam- 19 August-2023 Shift-3

Ans. (d) : दिया गया है-

	R	A	C	K	E	T
Place Value	↓	↓	↓	↓	↓	↓
	8	1	3	5	2	4

उसी प्रकार,

	T	R	A	C	K
Place Value	↓	↓	↓	↓	↓
	4	8	1	3	5

Note:- उपर्युक्त कोड का प्रयोग कर कोडित किया गया है।

58. If in a certain code language 'GRADE' is written as '718145', then how will 'HAND' be written in that language?
यदि एक निश्चित कूट भाषा में 'GRADE' को '718145' लिखा जाता है, तो उस भाषा में 'HAND' कैसे लिखा जाएगा?

(a) 81144 (b) 81244
(c) 82144 (d) 81145

MP Police Constable Exam- 11 Sep-2023 Shift-3

Ans. (a) : जिस प्रकार,
G → 7
R → 18
A → 1
D → 4
E → 5
उसी प्रकार,
H → 8
A → 1
N → 14
D → 4
अतः 'HAND' को कूट भाषा में '81144' लिखा जायेगा।

59. If in a certain code language 'REAL' is written as '121518', then how will 'PEN' be written in that language?/यदि किसी निश्चित कूट भाषा में 'REAL' को '121518' लिखा जाता है, तो उस भाषा में 'PEN' को कैसे लिखा जाएगा?

(a) 14516 (b) 14517
(c) 14518 (d) 14519

MP Police Constable Exam- 11 Sep-2023 Shift-3

Ans. (a) : जिस प्रकार,

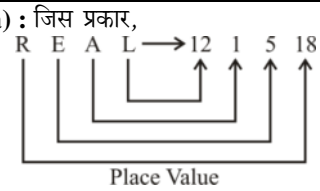

उसी प्रकार,

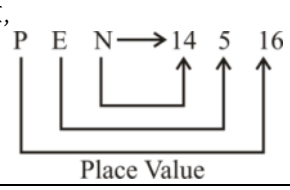

GET IT ON Google Play Best Study PDF के लिए हमारी App को Download करें "GK Trick By Nitin Gupta"

60. In a code language, CLIMAX is written as 312913124. How will RESIGN be written as in that language?
एक कूट भाषा में, CLIMAX को 312913124 लिखेंगे तो उसी भाषा में RESIGN को कैसे लिखा जाएगा?

(a) 185199714 (b) 185198614
(c) 195209714 (d) 195199713

MP Police Constable Exam- 18 August-2023 Shift-3

Ans. (a) : जिस प्रकार,

C L I M A X
↓ ↓ ↓ ↓ ↓ ↓
3 12 9 13 1 24

उसी प्रकार,

R E S I G N
↓ ↓ ↓ ↓ ↓ ↓
18 5 19 9 7 14

61. If I = 9 and SLIP = 56, then FALL = ?
यदि I = 9 और SLIP = 56 हो, तो FALL = ?

(a) 21 (b) 31
(c) 41 (d) 51

MP Police Constable Exam- 18 August-2023 Shift-3

Ans. (b) : दिया है, I = 9
जिस प्रकार,
SLIP = 56
19 + 12 + 9 + 16 = 56
56 = 56
उसी प्रकार,
FALL
6 + 1 + 12 + 12
= 31

62. If 'MADAGASCAR' can be written as '4727879670', then 'MADRAS' can be written as:
यदि 'MADAGASCAR' को '4727879670' लिखा जाता है, तब 'MADRAS' को क्या लिखा जायेगा?

(a) 424290 (b) 427409
(c) 472079 (d) 472490

MP Police Constable Exam- 1 Sep-2023 Shift-1

Ans. (c) : जिस प्रकार,

M A D A G A S C A R
↓ ↓ ↓ ↓ ↓ ↓ ↓ ↓ ↓ ↓
4 7 2 7 8 7 9 6 7 0

उसी प्रकार, उपर्युक्त कोड से,

M A D R A S
↓ ↓ ↓ ↓ ↓ ↓
4 7 2 0 7 9

∴ विकल्प (c) सही है।

63. In a code language, if LAMINATE is coded as 121139141205, then how will SYSTEMIC be coded in the same language?
एक कूट भाषा में, LAMINATE को 121139141205 लिखा जाता है। उसी भाषा में SYSTEMIC को कैसे लिखा जाएगा?

(a) 1925192051393 (b) 1925192051493
(c) 1825182051393 (d) 1925192051383

MP Police Constable Exam- 20 August-2023 Shift-3

Ans. (a) : जिस प्रकार,

L A M I N A T E
↓ ↓ ↓ ↓ ↓ ↓ ↓ ↓
12 1 13 9 14 1 20 5

उसी प्रकार,

S Y S T E M I C
↓ ↓ ↓ ↓ ↓ ↓ ↓ ↓
19 25 19 20 5 13 9 3

Note- दिए गए अक्षरों के आंकिक मान को दर्शाया गया है।

64. If MAMMAL is written as 13-1-13-13-1-12, using the same code REPTILE is written as _____.
यदि MAMMAL को 13-1-13-13-1-12 लिखा जाता है, तो समान कूट का उपयोग करके REPTILE को लिखा जाता है _____.

(a) 18-5-16-20-9-12-5 (b) 18-5-20-16-9-12-5
(c) 16-5-16-20-9-12-5 (d) 18-5-16-20-9-5-12

MP Police Constable Exam- 20 August-2023 Shift-1

Ans. (a) : जिस प्रकार,

M A M M A L
↓ ↓ ↓ ↓ ↓ ↓
13 1 13 13 1 12

उसी प्रकार,

R E P T I L E
↓ ↓ ↓ ↓ ↓ ↓ ↓
18 5 16 20 9 12 5

65. If AU = 21 and EGG = 245, then how will you code BAKE?
यदि AU = 21 और EGG = 245 हो, तो आप BAKE को किस प्रकार कोडबद्ध करेंगे?

(a) 19 (b) 75
(c) 110 (d) 115

MP Police Constable Exam- 20 August-2023 Shift-3

Ans. (c) : जिस प्रकार,
A U = 21
↓ ↓
1 × 21 = 21

तथा
E G G = 245
↓ ↓ ↓
5 × 7 × 7 = 245

उसी प्रकार,
B A K E
↓ ↓ ↓ ↓
2 × 1 × 11 × 5 = 110

अतः BAKE को कोड रूप में 110 लिखा जायेगा।

66. If D = 4, DOG = 26, then find the value of ANIMAL = ?
यदि D = 4, DOG = 26 तो ANIMAL का मान ज्ञात कीजिए?

(a) 47 (b) 49
(c) 48 (d) 50

MP Police Constable Exam- 14 August-2023 Shift-2

GET IT ON Google Play Best Study PDF के लिए हमारी App को Download करें "GK Trick By Nitin Gupta"

Ans. (d) : जिस प्रकार,

D = 4

वर्णमाला क्रम

तथा

D O G = 26

वर्णमाला क्रम

(4 + 15 + 7)

उसी प्रकार,

A N I M A L = 50

वर्णमाला क्रम

(1 + 14 + 9 + 13 + 1 + 12)

नोटः- प्रत्येक अक्षर के वर्णमाला क्रमांक का योग किया गया है।

67. If AT = 20 and BEG = 70, then BANK = _____.
यदि AT = 20 और BEG = 70, तो BANK = _____.

(a) 318 (b) 308
(c) 228 (d) 282

MP Police Constable Exam- 14 August-2023 Shift-2

Ans. (b) : जिस प्रकार,

A T = 20

(1 × 20)

तथा

B E G = 70

(2 × 5 × 7)

उसी प्रकार,

B A N K = 308

(2 × 1 × 14 × 11)

नोटः- प्रत्येक अक्षर के वर्णमाला क्रमांक का आपस में गुणा किया गया है।

68. If FLOWER is coded as 14 and DISTASTE is coded as 18. then how Will BUREAUCRAT be coded as ?/यदि FLOWER को 14 के रूप में और DISTASTE को 18 के रूप में कूटबद्ध किया जाता है तो BUREAUCRAT को किस रूप में कूटबद्ध किया जाएगा ?

(a) 22 (b) 18
(c) 20 (d) 28

MP Police Constable Exam- 27 August-2023 Shift-2

Ans. (a) : जिस प्रकार,

FLOWER 14

(अक्षरों की संख्या + 1) × 2

तथा,

DISTASTE 18

(अक्षरों की संख्या + 1) × 2

उसी प्रकार,

BUREAUCRAT 22

(अक्षरों की संख्या + 1) × 2

69. If in a certain code language 'BRACKET' is written as '9341285', 'DEAR' is written as '6843', then how will 'TRADE' be written in that language?
यदि एक निश्चित कूट भाषा में 'BRACKET' को '9341285', 'DEAR' को '6843' लिखा जाता है, तो 'TRADE' को उस भाषा में कैसे लिखा जाएगा?

(a) 59468 (b) 34568
(c) 53468 (d) 53648

MP Police Constable Exam- 01 Feb-2022 Shift-1

Ans. (c) : प्रश्नानुसार,

	तथा	
B = 9		D = 6
R = 3		E = 8
A = 4		A = 4
C = 1		R = 3
K = 2		
E = 8		
T = 5		

उपरोक्त कोडों का प्रयोग करने पर-

T = 5
R = 3
A = 4
D = 6
E = 8

70. If in a certain code language 'SAGE' is written as '4169', 'PERT is written as '7928', then how will 'STEP' be written in that language?
यदि एक निश्चित कोड भाषा में 'SAGE' को '4169' , 'PERT' को '7928' लिखा जाता है, तो 'STEP' को उस भाषा में कैसे लिखा जाएगा?

(a) 4897 (b) 4987
(c) 4197 (d) 4387

MP Police Constable Exam- 09 Feb-2022 Shift-1

Ans. (a) : प्रश्नानुसार,

	तथा	
S = 4		P = 7
A = 1		E = 9
G = 6		R = 2
E = 9		T = 8

उपरोक्त कोडों का प्रयोग करने पर -

S = 4
T = 8
E = 9
P = 7

71. If 'GEAR' is written as '1234' and 'REACH' is written as '42368' and then 'CHEER' is written as?
यदि 'GEAR' को '1234' के रूप में लिखा जाता है तथा 'REACH' को '42368' के रूप में लिखा जाता है तो 'CHEER' को कैसे लिखा जाता है?

(a) 68124 (b) 68224
(c) 18224 (d) 68223

MP Police Constable Exam- 02 Feb-2022 Shift-1

GET IT ON Google Play Best Study PDF के लिए हमारी App को Download करें "GK Trick By Nitin Gupta"

Ans. (b) : दिया है,

$G \to 1$, $E \to 2$, $A \to 3$, $R \to 4$ तथा $R \to 4$, $E \to 2$, $A \to 3$, $C \to 6$, $H \to 8$

उपरोक्त कोडों के प्रयोग से,

$C \to \boxed{6}$
$H \to \boxed{8}$
$E \to \boxed{2}$
$E \to \boxed{2}$
$R \to \boxed{4}$

72. If MACHINE is coded as 19–7–9–14–15–20–11, how will you code DANGER?/यदि MACHINE को 19-7-9-14-15-20-11 के रूप में कोडित किया जाता है, तो आप DANGER को कैसे कोड करेंगे?

(a) 10-7-20-13-11-24 (b) 11-7-20-16-11-24
(c) 13-7-20-09-11-25 (d) 13-7-20-10-11-25

MP Police Constable Exam- 10 Jan -2022 Shift-2

Ans. (a) :

जिस प्रकार,

M $\xrightarrow{\text{अक्षर क्रमांक +6}}$ $\boxed{19}$
A $\xrightarrow{\text{अक्षर क्रमांक +6}}$ $\boxed{7}$
C $\xrightarrow{\text{अक्षर क्रमांक +6}}$ $\boxed{9}$
H $\xrightarrow{\text{अक्षर क्रमांक +6}}$ $\boxed{14}$
I $\xrightarrow{\text{अक्षर क्रमांक +6}}$ $\boxed{15}$
N $\xrightarrow{\text{अक्षर क्रमांक +6}}$ $\boxed{20}$
E $\xrightarrow{\text{अक्षर क्रमांक +6}}$ $\boxed{11}$

उसी प्रकार,

D $\xrightarrow{\text{अक्षर क्रमांक +6}}$ $\boxed{10}$
A $\xrightarrow{\text{अक्षर क्रमांक +6}}$ $\boxed{7}$
N $\xrightarrow{\text{अक्षर क्रमांक +6}}$ $\boxed{20}$
G $\xrightarrow{\text{अक्षर क्रमांक +6}}$ $\boxed{13}$
E $\xrightarrow{\text{अक्षर क्रमांक +6}}$ $\boxed{11}$
R $\xrightarrow{\text{अक्षर क्रमांक +6}}$ $\boxed{24}$

73. If CALIBRE is coded as 9124356 then BRAZIL is coded as/यदि CALIBRE को 9124356 से कोडित किया जाता है, तो BRAZIL को ऐसे कोडित किया जायेगा।

(a) 352741 (b) 315842
(c) 351742 (d) 351224

MP Police Constable Exam- 26 July-2016 - 9: am

Ans : (c) दिया है–C = 9, A = 1, L = 2, I = 4, B = 3, R = 5, E = 6

विकल्प से,

(a) 3 5 2 $\boxed{7}$ 4 1
B R L $\boxed{D}$ I A

(b) 3 1 5 $\boxed{8}$ 4 2
B A R $\boxed{C}$ I A

(c) 3 5 1 $\boxed{7}$ 4 2
B R A $\boxed{Z}$ I L

(d) 3 5 1 $\boxed{2}$ 2 4
B R A $\boxed{C}$ C I

$\therefore$ BRAZIL = 351 $\boxed{7}$ 42

74. In a certain code 2346 is written as NPSU and 15789 is written as XTZAL. What is the manner in which 23549 is written?
किसी खास कोड में 2346 को NPSU लिखा जाता है और 15789 को XTZAL लिखा जाता है। 23549 को किस तरीके से लिखा जायेगा?

(a) NCTRM (b) PNSTL
(c) NPLUT (d) NPTSL

MP Police Constable Exam 19 July 2016 - 9:am

Ans : (d) प्रश्नानुसार–

जिस प्रकार,
2 3 4 6
↓ ↓ ↓ ↓
N P S U

तथा
1 5 7 8 9
↓ ↓ ↓ ↓ ↓
X T Z A L

उसी प्रकार
$\boxed{\begin{matrix} 2 & 3 & 5 & 4 & 9 \\ \downarrow & \downarrow & \downarrow & \downarrow & \downarrow \\ N & P & T & S & L \end{matrix}}$ होगा।

75. In a certain coded language, 3456 is coded as ROSE and 12783 is coded as CHAIR, then 567312 is the code for
यदि एक कूट भाषा में 3456 को ROSE तथा 12783 को CHAIR लिखा जाता है, तो उसी कूट भाषा में 567312 को लिख जाएगा

(a) SEARCH
(b) PEARCH
(c) RACESH
(d) None of the above/उपर्युक्त में से कोई नहीं

MP Police Constable Recruitment (Second)Test - 2013

Ans. (a) : ROSE $\Rightarrow$ 3456
एवं
CHAIR $\Rightarrow$ 12783
उपर्युक्त कूट का प्रयोग करने पर
$\boxed{567312 \Longrightarrow \text{SEARCH}}$

76. If GIVE is coded as 5137 and BAT is coded as 924, how is BITE coded?
यदि GIVE को कूट भाषा में 5137 तथा BAT को 924 लिखा जाता है, तो उसी कूट भाषा में BITE होगा?

(a) 7941 (b) 9147
(c) 4971 (d) 9417

MP Police Constable Recruitment (Second)Test - 2013

Ans. (b) : G I V E $\Rightarrow$ 5 1 3 7
B A T $\Rightarrow$ 9 2 4
उपर्युक्त कूट का प्रयोग करने पर
BITE $\Rightarrow$ 9147

77. If 74683 means GREAT, then 7684 means
यदि 74683 का अर्थ GREAT है, तो 7684 का अर्थ है

(a) GEAR (b) HEAR
(c) REAG (d) GAER

MP Police Constable Recruitment Test - 2013

GET IT ON Google Play Best Study PDF के लिए हमारी App को Download करें "GK Trick By Nitin Gupta"

Ans. (a) : जिस प्रकार,

G ⟶ 7

R ⟶ 4

E ⟶ 6

A ⟶ 8

T ⟶ 3

उसी प्रकार, उपर्युक्त कूट का प्रयोग करने पर

7 ⟶ G

6 ⟶ E

8 ⟶ A

4 ⟶ R

78. In a certain code language if CRICKET is coded as 3923564, ROCKET is coded as 913564 and KETTLE is coded as 564406, then how is LITTLE coded in that language?

एक विशिष्ट कूट भाषा में यदि CRICKET को 3923564, ROCKET को 913564 तथा KETTLE को 564406 लिखा जाता है, तो LITTLE को इस कूट भाषा में क्या लिखा जायेगा?

(a) 204406 (b) 024406

(c) 020446 (d) 200446

MP Police Constable Recruitment Test - 2013

Ans. (b) : CRICKET ⇒ 3923564

ROCKET ⇒ 913564

एवं

KETTLE ⇒ 564406

उपर्युक्त कूटों का प्रयोग करने पर

LITTLE ⟹ 024406

79. If 'PROPERTY' is coded as '133' and 'ESTATE' is coded as '70' then how will 'DEVELOPMENT' be coded?

यदि 'PROPERTY' को '133' के रूप में और 'ESTATE' को '70' के रूप में कूटबद्ध किया जाता है तो 'DEVELOPMENT' को किस रूप में कूटबद्ध किया जाएगा?

(a) 129 (b) 130

(c) 131 (d) 139

MP Police Constable Exam- 21 August-2023 Shift-3

Ans. (c) : जिस प्रकार,

P R O P E R T Y

वर्णमाला अक्षर क्रमांक

16 + 18 + 15 + 16 + 5 + 18 + 20 + 25 = 133

तथा

E S T A T E

वर्णमाला अक्षर क्रमांक

5 + 19 + 20 + 1 + 20 + 5 = 70

उसी प्रकार,

D E V E L O P M E N T

वर्णमाला अक्षर क्रमांक

4 + 5 + 22 + 5 + 12 + 15 + 16 + 13 + 5 + 14 + 20 = 131

80. If A = 26 and X-RAY = 40, then WHAT = ?

यदि A = 26 और X-RAY = 40, तो WHAT = ?

(a) 52 (b) 54

(c) 56 (d) 58

MP Police Constable Exam- 16 August-2023 Shift-2

Ans. (c) : जिस प्रकार,

A —विपरीत अक्षर का वर्णानुक्रम→ 26

एवं

X R A Y

विपरीत विपरीत विपरीत विपरीत

3 + 9 + 26 + 2 = 40

उसी प्रकार,

W H A T

विपरीत विपरीत विपरीत विपरीत

4 + 19 + 26 + 7 = 56

अतः WHAT को 56 के रूप में कोडित किया जायेगा।

81. If 'TOUR' is encrypted as 1234, 'CLEAR' is encrypted as 56784 and 'SPARE' as 90847, how will the word 'SCULPTURE' be encrypted as?/यदि 'TOUR' को 1234 से एनक्रिप्ट किया गया है, 'CLEAR' को 56784 से एनक्रिप्ट किया गया है और 'SPARE' को 90847 से, तब आप 'SCULPTURE' को कैसे एनक्रिप्ट करेंगे?

(a) 953601347 (b) 935601347

(c) 567903417 (d) 53016347

MP Police Constable Exam- 20 July-2016 - 9: am

Ans : (a) जिस प्रकार,

T→1	C→5	S→9
O→2	L→6	P→0
U→3	E→7	A→8
R→4	A→8	R→4
	R→4	E→7

उसी प्रकार उपर्युक्त कोड से,

SCULPTURE = 953601347

82. If 'HARD' is encrypted as 1357 and 'SOFT' is encrypted as 2468, what does '21448' stand for?/यदि 'HARD' को 1357 से एनक्रिप्ट किया गया है और 'SOFT' को 2468 से एनक्रिप्ट किया गया है, तो '21448' का अर्थ क्या है?

(a) SHOOP (b) SHOOL

(c) SCOOL (d) SHOOT

MP Police Constable Exam- 20 July-2016 - 9: am

Ans : (d) प्रश्न में दिया गया है–

H→1	S→2
A→3	O→4
R→5	F→6
D→7	T→8

उपर्युक्त कोड से,

21448 = SHOOT

GET IT ON Google Play Best Study PDF के लिए हमारी App को Download करें "GK Trick By Nitin Gupta"

83. In a certain code SMILE is represented by 36492 and RUN is represented by 058. What does the code 90089 represent in the code?/किसी खास कोड में SMILE को 36492 से दर्शाया गया है और RUN को 058 से दर्शाया गया है। 90089 कोड उस कोड में क्या दर्शाता है?

(a) LRRNL (b) RNLLR
(c) NRRLL (d) LRLNN

MP Police Constable Exam- 20 July-2016 - 9: am

Ans : (a) प्रश्न में दिया गया है–

S→3 R→0
M→6 U→5
I→4 N→8
L→9
E→2

उपर्युक्त कोड से,

90089 = LRRNL

84. If GRASS is coded as 79188 and NEAT is 5316, then GREEN is coded as
यदि GRASS को 79188 से कोडित किया जाता है और NEAT को 5316 से कोडित किया जाता है, तो GREEN को ऐसे कोडित किया जाता है

(a) 98335 (b) 69335
(c) 19335 (d) 79335

MP Police Constable Exam 25 July 2016 - 9:am

Ans : (d) जिस प्रकार,

G R A S S N E A T
| | | | | | | | |
7 9 1 8 8 एवं 5 3 1 6

उसी प्रकार,

G R E E N
| | | | |
7 9 3 3 5

अतः GREEN = 79335 होगा।

85. In a certain code, 2346 is the code for ALUR and 15789 is the code for EGKPT. What does 23549 represent in the code.
किसी खास कोड में, ALUR के लिये कोड 2346 है और EGKPT के लिये कोड 15789 है। कोड में 23549 क्या दर्शाता है?

(a) EPALR (b) AGULT
(c) KLUPR (d) ALGUT

MP Police Constable Exam 17 July 2016 - 9:am

Ans : (d)
ALUR EGKPT
| | | | तथा | | | | |
2 3 4 6 1 5 7 8 9

उपर्युक्त कूटों का प्रयोग करने पर-

2 3 5 4 9
∴ | | | | |
ALGUT

अतः ? ⇒ ALGUT

86. If alphabets are encrypted as numbers, J-B+D is equal to/यदि अक्षरों को संख्याओं के रूप में एन्क्रिप्ट किया गया है, तो J-B+D बराबर है इसके

(a) 9 (b) 21 (c) 16 (d) 12

MP Police Constable Exam- 1 August-2016, 3:pm

Ans : (d) J B तथा D का अंकीय मान लेने पर ⇒

J = 10
B = 2
D = 4

∵ J – B + D = 10 – 2 + 4 = 12

87. If alphabets are encrypted as numbers, A+B-F is equal to/यदि अक्षरों को संख्याओं के रूप में एन्क्रिप्ट किया गया है, तो A+B-F बराबर है इसके

(a) –3 (b) 6 (c) 9 (d) 11

MP Police Constable Exam- 1 August-2016, 3:pm

Ans : (a) A, B तथा F का अंकीय मान =

A = 1
B = 2
F = 6

∴ A + B – F = 1 + 2 – 6
= 3 – 6
= –3

88. If ENTRY is coded as 54367 and SAFE is coded as 9165, then how can FATE be coded?
यदि ENTRY को 54367 से कोडित किया जाता है और SAFE को 9165 से कोडित किया जाता है, तो FATE को कैसे कोडित किया जा सकता है?

(a) 9135 (b) 7135
(c) 6135 (d) 4135

MP Police Constable Exam 24 July 2016 - 9:am

Ans : (c) प्रश्नानुसार,

E N T R Y तथा S A F E
↓ ↓ ↓ ↓ ↓ ↓ ↓ ↓ ↓
5 4 3 6 7 9 1 6 5

FATE ⇒ 6135 होगा।

89. KARAOKE is written as 11118115115 in a certain code. How will EQUATION be written in the same code?
एक निश्चित भाषा में KARAOKE को 11118115115 के रूप में लिखा जाता है। तो उसी कूट भाषा में EQUATION को कैसे लिखा जाएगा?

(a) 5162112091514 (b) 6172112091514
(c) 5172112091514 (d) 5172112291514

MP Police Constable Exam- 09 Feb-2022 Shift-1

Ans. (c) : जिस प्रकार,

K → 11
A → 1
R → 18
A → 1
O → 15
K → 11
E → 5

उसी प्रकार,

E → 5
Q → 17
U → 21
A → 1
T → 20
I → 9
O → 15
N → 14

GET IT ON Google Play Best Study PDF के लिए हमारी App को Download करें "GK Trick By Nitin Gupta"

Type-2: अंग्रेजी वर्णमाला के अक्षरों की अक्षरों में कोडिंग पर आधारित प्रश्न

90. Select the option that is related to the third term in the same way as the second term is related to the first term.
उस विकल्प का चयन करें जो तीसरे पद से उसी प्रकार संबंधित है जैसे दूसरा पद पहले पद से संबंधित है।

HIA : QRJ :: EFG : ?

(a) NOP (b) VUT
(c) VWT (d) TUW

MP Police Constable Exam- 27 August-2023 Shift-1

Ans. (a) : जिस प्रकार, उसी प्रकार,

H I A → +9 +9 +9 → Q R J

E F G → +9 +9 +9 → N O P

अतः ? = NOP

91. Select the option that is related to the third term in the same way as the second term is related to the first term.
उस विकल्प का चयन करें जो तीसरे पद से उसी प्रकार संबंधित है जैसे दूसरा पद पहले पद से संबंधित है।

CEGI : AGEK :: IKMO : ?

(a) GMJS (b) GMKQ
(c) GHIK (d) GMLS

MP Police Constable Exam- 23 August-2023 Shift-2

Ans. (b) : जिस प्रकार CEGI : AGEK

C $\xrightarrow{-2}$ A
E $\xrightarrow{+2}$ G
G $\xrightarrow{-2}$ E
I $\xrightarrow{+2}$ K

उसी प्रकार,

I $\xrightarrow{-2}$ G
K $\xrightarrow{+2}$ M
M $\xrightarrow{-2}$ K
O $\xrightarrow{+2}$ Q

? = GMKQ

अतः विकल्प (b) सही है।

92. Select the option that is related to the third term in the same way as the second term is related to the first term.
जिस प्रकार नीचे दिए गए अक्षरों के समूह में दूसरा अक्षर समूह पहले अक्षर समूह से संबंधित है, उसी प्रकार तीसरे अक्षर समूह से संबंधित विकल्प का चयन कीजिए।

MUSCLE : SUMLEC :: OUTPUT : _____.

(a) UTOPUT (b) PUTOUT
(c) TOUTUP (d) TUOUTP

MP Police Constable Exam- 13 August-2023 Shift-2

Ans. (d) : जिस प्रकार, उसी प्रकार,

M U S → S U M
C L E → L E C

O U T → T U O
P U T → U T P

अतः ? = TUOUTP

93. Select the letter-cluster that is related to the third letter-cluster in the same way as the second letter-cluster is related to the first letter-cluster.
उस अक्षर-समूह का चयन करें जो तीसरे अक्षर-समूह से उसी प्रकार संबंधित है जैसे दूसरा अक्षर-समूह, पहले अक्षर-समूह से संबंधित है।

BDF : HJL :: MOQ : ?

(a) XVT (b) TVX
(c) VTX (d) SUW

MP Police Constable Exam- 26 August-2023 Shift-3

Ans. (d) : जिस प्रकार,

2 4 6 8 10 12
B D F H J L
+6 +6 +6

उसी प्रकार,

13 15 17 19 21 23
M O Q S U W
+6 +6 +6

अतः ? = SUW

94. What should come in place of question mark (?) in the following question ?
निम्नलिखित प्रश्न में प्रश्न चिह्न (?) के स्थान पर क्या मान आना चाहिए ?

PNT : RKX :: ? : FEO

(a) DHK (b) DLK
(c) DHJ (d) DHI

MP Police Constable Exam- 25 August-2023 Shift-1

Ans. (a) : जिस प्रकार,

P $\xrightarrow{+2}$ R
N $\xrightarrow{-3}$ K
T $\xrightarrow{+4}$ X

उसी प्रकार विकल्प (a) से–

D $\xrightarrow{+2}$ F
H $\xrightarrow{-3}$ E
K $\xrightarrow{+4}$ O

अतः ? = DHK

95. Select the letter-cluster that is related to the third letter-cluster in the same way as the second letter-cluster is related to the first letter-cluster.

GET IT ON Google Play Best Study PDF के लिए हमारी App को Download करें "GK Trick By Nitin Gupta"

उस अक्षर-समूह का चयन करें जो तीसरे अक्षर-समूह से उसी प्रकार संबंधित है जैसे दूसरा अक्षर-समूह, पहले अक्षर-समूह से संबंधित है।

EGIK : FILO :: FHJL : ?

(a) GJMP (b) GMJP
(c) JGMP (d) JGPM

MP Police Constable Exam- 25 August-2023 Shift-1

Ans. (a) : जिस प्रकार,

E $\xrightarrow{+1}$ F
G $\xrightarrow{+2}$ I
I $\xrightarrow{+3}$ L
K $\xrightarrow{+4}$ O

उसी प्रकार,

F $\xrightarrow{+1}$ G
H $\xrightarrow{+2}$ J
J $\xrightarrow{+3}$ M
L $\xrightarrow{+4}$ P

अतः ? = GJMP

96. Select the option that is related to the third term in the same way as the second term is related to the first term.
उस विकल्प का चयन करें जो तीसरे पद से उसी प्रकार संबंधित है जैसे दूसरा पद पहले पद से संबंधित है।

ACEG: BEHK :: MOQS : ?

(a) NQTV (b) NOPW
(c) NQTW (d) NTWX

MP Police Constable Exam- 28 August-2023 Shift-3

Ans. (c) : प्रश्नानुसार,

जिस प्रकार,

A $\xrightarrow{+1}$ B
C $\xrightarrow{+2}$ E
E $\xrightarrow{+3}$ H
G $\xrightarrow{+4}$ K

उसी प्रकार,

M $\xrightarrow{+1}$ N
O $\xrightarrow{+2}$ Q
Q $\xrightarrow{+3}$ T
S $\xrightarrow{+4}$ W

अतः ? = NQTW

97. Select the option that is related to the third term in the same way as the second term is related to the first term.
उस विकल्प का चयन करें जो तीसरे पद से उसी प्रकार संबंधित है जिस प्रकार दूसरा पद पहले पद से संबंधित है।

ACF : ZXU :: ILB : ?

(a) RNY (b) ROY
(c) RNZ (d) ROZ

MP Police Constable Exam- 23 August-2023 Shift-1

Ans. (b) : जिस प्रकार,

A $\xrightarrow{\text{विपरीत}}$ Z
C $\xrightarrow{\text{विपरीत}}$ X
F $\xrightarrow{\text{विपरीत}}$ U

उसी प्रकार,

I $\xrightarrow{\text{विपरीत}}$ R
L $\xrightarrow{\text{विपरीत}}$ O
B $\xrightarrow{\text{विपरीत}}$ Y

अतः ? = ROY

98. Select the letter-cluster that is related to the third letter-cluster in the same way as the second letter-cluster is related to the first letter-cluster.
उस अक्षर-समूह का चयन करें जो तीसरे अक्षर-समूह से उसी प्रकार संबंधित है जैसे दूसरा अक्षर-समूह, पहले अक्षर-समूह से संबंधित है।

VIJAY : YAJIV :: SUDHA : ?

(a) AHDUS (b) SUAHD
(c) ASUDH (d) HASUD

MP Police Constable Exam- 17 August-2023 Shift-3

Ans. (a) : जिस प्रकार VIJAY के अक्षरों का क्रम पलटने पर YAJIV प्राप्त होता है। उसी प्रकार SUDHA के अक्षरों का क्रम पलटने AHDUS प्राप्त होता है।

99. If FOREST is coded as EQOINZ, then USEFUL is coded as?
यदि FOREST का कोड है EQOINZ, तो USEFUL का कोड क्या है?

(a) TUBJPR (b) TRBKOS
(c) TUBKQS (d) TUBJZR

MP Police Constable Exam- 12 Sep-2023 Shift-1

Ans. (a) : जिस प्रकार,

F	O	R	E	S	T
−1	+2	−3	+4	−5	+6
E	Q	O	I	N	Z

उसी प्रकार,

U	S	E	F	U	L
−1	+2	−3	+4	−5	+6
T	U	B	J	P	R

अतः 'USEFUL' को कोड रूप में 'TUBJPR' लिखा जायेगा।

100. Select the letter-cluster that is related to the third letter-cluster in the same way as the second letter-cluster is related to the first letter-cluster./उस अक्षर-समूह का चयन करें जो तीसरे अक्षर-समूह से उसी प्रकार संबंधित है जैसे दूसरा अक्षर-समूह, पहले अक्षर-समूह से संबंधित है।

FLIM : IOLP :: MILK : ?

(a) ADGF (b) HDGE
(c) PLON (d) HEGF

MP Police Constable Exam- 19 August-2023 Shift-3

Ans. (c) : जिस प्रकार,

F $\xrightarrow{+3}$ I
L $\xrightarrow{+3}$ O
I $\xrightarrow{+3}$ L
M $\xrightarrow{+3}$ P

उसी प्रकार,

M $\xrightarrow{+3}$ P
I $\xrightarrow{+3}$ L
L $\xrightarrow{+3}$ O
K $\xrightarrow{+3}$ N

अतः ? = PLON

101. Select the option that is related to the third term in the same way as the second term is related to the first term.
उस विकल्प का चयन करें जो तीसरे पद से उसी प्रकार संबंधित है जैसे दूसरा पद पहले पद से संबंधित है।

ZXV: YYU:: TRP : ?

(a) SQS (b) SSO
(c) SST (d) SSU

MP Police Constable Exam- 20 August-2023 Shift-3

GET IT ON Google Play Best Study PDF के लिए हमारी App को Download करें "GK Trick By Nitin Gupta"

Ans. (b) : जिस प्रकार,

Z $\xrightarrow{-1}$ Y
X $\xrightarrow{+1}$ Y
V $\xrightarrow{-1}$ U

उसी प्रकार,

T $\xrightarrow{-1}$ S
R $\xrightarrow{+1}$ S
P $\xrightarrow{-1}$ O

अतः ? = SSO

102. Select the letter-cluster that is related to the third letter-cluster in the same way as the second letter-cluster is related to the first letter-cluster.
उस अक्षर-समूह का चयन करें जो तीसरे अक्षर-समूह से उसी प्रकार संबंधित है जैसे दूसरा अक्षर-समूह, पहले अक्षर-समूह से संबंधित है।

ACEG : BDFH :: ADGJ : ?

(a) NRTX (b) ORVX
(c) NQSU (d) BEHK

MP Police Constable Exam- 20 August-2023 Shift-3

Ans. (d) : जिस प्रकार,

A $\xrightarrow{+1}$ B
C $\xrightarrow{+1}$ D
E $\xrightarrow{+1}$ F
G $\xrightarrow{+1}$ H

उसी प्रकार,

A $\xrightarrow{+1}$ B
D $\xrightarrow{+1}$ E
G $\xrightarrow{+1}$ H
J $\xrightarrow{+1}$ K

अतः ? = BEHK

103. Select the option that is related to the third term in the same way as the second term is related to the first term.
उस विकल्प का चयन करें जो तीसरे पद से उसी प्रकार संबंधित है जैसे दूसरा पद पहले पद से संबंधित है।

VAB : UCD :: TEF : ?

(a) RIJ (b) SKL
(c) SIJ (d) SGH

MP Police Constable Exam- 20 August-2023 Shift-1

Ans. (d) : जिस प्रकार,

V A B : U C D
−1
+2
+2

उसी प्रकार,

T E F : S G H
−1
+2
+2

अतः (?) = SGH

104. Select the letter-cluster that is related to the third letter-cluster in the same way as the second letter-cluster is related to the first letter-cluster.
उस अक्षर-समूह का चयन करें जो तीसरे अक्षर-समूह से उसी प्रकार संबंधित है जैसे दूसरा अक्षर-समूह, पहले अक्षर-समूह से संबंधित है।

BJNT : CLOV :: DHPV : ?

(a) EJQX (b) EIQW
(c) ELPV (d) EIOU

MP Police Constable Exam- 20 August-2023 Shift-1

Ans. (a) : जिस प्रकार,

B J N T C L O V
+1
+2
+1
+2

उसी प्रकार,

D H P V E J Q X
+1
+2
+1
+2

अतः (?) = EJQX

105. Select the option that is related to the third term in the same way as the second term is related to the first term.
उस विकल्प का चयन करें जो तीसरे पद से उसी प्रकार संबंधित है जिस प्रकार दूसरा पद पहले पद से संबंधित है।

FONT : ENMS :: LIFT : ?

(a) KFGS (b) KHES
(c) KFES (d) KEFS

MP Police Constable Exam- 20 August-2023 Shift-3

Ans. (b) :
जिस प्रकार,

F $\xrightarrow{-1}$ E
O $\xrightarrow{-1}$ N
N $\xrightarrow{-1}$ M
T $\xrightarrow{-1}$ S

उसी प्रकार,

L $\xrightarrow{-1}$ K
I $\xrightarrow{-1}$ H
F $\xrightarrow{-1}$ E
T $\xrightarrow{-1}$ S

अतः ? = KHES

106. What should come in place of question mark (?) in the following question?
निम्नलिखित प्रश्न में प्रश्न चिह्न (?) के स्थान पर क्या मान आना चाहिए ?

FHKP : BEIO :: ? : KORV

(a) QRTW (b) QSTW
(c) OPTW (d) ORTW

MP Police Constable Exam- 27 August-2023 Shift-2

GET IT ON Google Play Best Study PDF के लिए हमारी App को Download करें "GK Trick By Nitin Gupta"

Ans. (d) : जिस प्रकार,

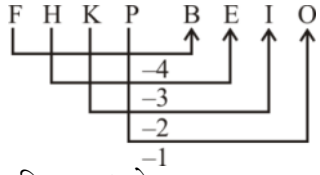

उसी प्रकार विकल्प (d) से–

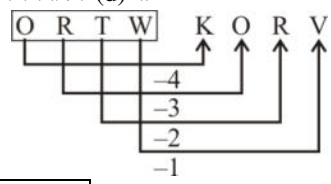

अतः ? = ORTW

107. Find the missing term in the following series.
निम्नलिखित श्रृंखला में लुप्त पद ज्ञात कीजिए।

OUTPUT : TOUTUP : : COFFEE : ?

(a) FECEFO (b) FECOEF
(c) OCEFFE (d) FCOEEF

MP Police Constable Exam- 27 August-2023 Shift-2

Ans. (d) : जिस प्रकार,

1 2 3 4 5 6 3 1 2 6 5 4
O U T P U T ⟶ T O U T U P

उसी प्रकार,

1 2 3 4 5 6 3 1 2 6 5 4
C O F F E E ⟶ F C O E E F

अतः ? = FCOEEF

108. Find the related group of letters from the given alternatives.
दिए गए विकल्प से संबंधित अक्षर का समूह खोजें।

AFMV : DBPR :: ? : FIJK

(a) CMFO (b) CMGP
(c) CMGN (d) CMGO

MP Police Constable Exam- 02 Feb-2022 Shift-1

Ans. (d) : जिस प्रकार,

A $\xrightarrow{+3}$ D
F $\xrightarrow{-4}$ B
M $\xrightarrow{+3}$ P
V $\xrightarrow{-4}$ R

उसी प्रकार,

C $\xrightarrow{+3}$ F
M $\xrightarrow{-4}$ I
G $\xrightarrow{+3}$ J
O $\xrightarrow{-4}$ K

109. Select the letter-cluster that is related to the third letter-cluster in the same way as the second letter-cluster is related to the first letter-cluster.
उस अक्षर-समूह का चयन करें जो तीसरे अक्षर-समूह से उसी प्रकार संबंधित है जैसे दूसरा अक्षर-समूह, पहले अक्षर-समूह से संबंधित है।

NJMP : PLOR :: RTVX : ?

(a) VTXZ (b) TVXZ
(c) TVZX (d) SVZX

MP Police Constable Exam- 8 Jan-2022 Shift-2

Ans. (b) :

जिस प्रकार,

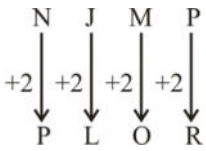

उसी प्रकार,

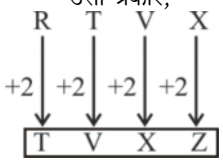

अतः ? = TVXZ

110. In the following question, there is certain relationship between the first two terms. Choose the fourth term from the following options which has a similar kind of relation with the third term
निम्न प्रश्न में पहले दो पदों के बीच किसी प्रकार से कोई संबंध है। निम्न विकल्पों में से चौथा पद चुनिये जिसका तीसरे पद के साथ उसी प्रकार का संबंध है।

BDAC : FHEG :: NPMO : ?

(a) QTRS (b) RQTS
(c) TRQS (d) RTQS

MP Police Constable Exam 19 July 2016 - 9:am

Ans : (d) जिस प्रकार,

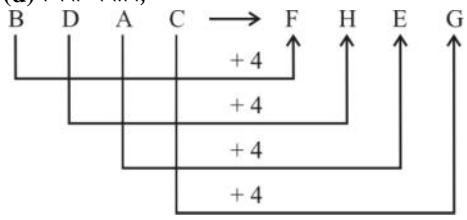

उसी प्रकार,

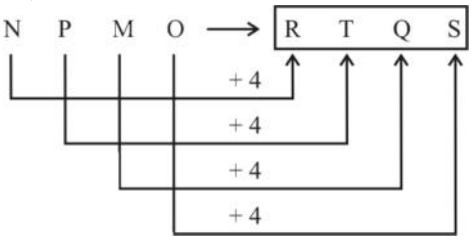

111. In the following question, there is certain relationship between the first two terms. Choose the fourth term from the following option which has a similar kind of relation with the third term.
निम्न प्रश्न में, पहले दो पदों के बीच किसी प्रकार से काई संबंध है। निम्न विकल्पों में से चौथा पद चुनिये जिसका तीसरे पद के साथ उसी प्रकार का संबंध है।

JLN : SQO : : PRT : ?

(a) UYW (b) UTV
(c) YWU (d) VUT

MP Police Constable Exam- 26 July-2016 - 9: am

Ans : (c) जिस प्रकार,

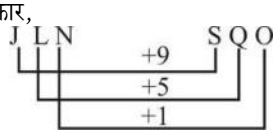

उसी प्रकार,

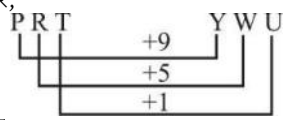

अतः ? ⇒ YWU

GET IT ON Google Play Best Study PDF के लिए हमारी App को Download करें "GK Trick By Nitin Gupta"

112. Select the letter-cluster that is related to the third letter-cluster in the same way as the second letter-cluster is related to the first letter-cluster.

उस अक्षर-समूह का चयन करें जो तीसरे अक्षर-समूह से उसी प्रकार संबंधित है जैसे दूसरा अक्षर-समूह, पहले अक्षर-समूह से संबंधित है।

FHEG : JLIK :: PROQ : ?

(a) TVSU (b) VTUS
(c) TVUS (d) SUVT

MP Police Constable Exam- 21 August-2023 Shift-2

Ans. (a) : जिस प्रकार,

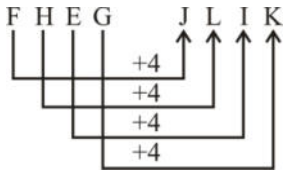

उसी प्रकार,

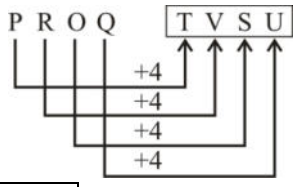

अतः ? = TVSU

113. Select the letter-cluster that is related to the third letter-cluster in the same way as the second letter-cluster is related to the first letter-cluster.

उस अक्षर-समूह का चयन करें जो तीसरे अक्षर-समूह से उसी प्रकार संबंधित है जैसे दूसरा अक्षर-समूह, पहले अक्षर-समूह से संबंधित है।

VIJAY : XKLCA :: SUDHA : ?

(a) UWEJC (b) UWFJC
(c) UVFJC (d) UVGKD

MP Police Constable Exam- 21 August-2023 Shift-2

Ans. (b) : जिस प्रकार,

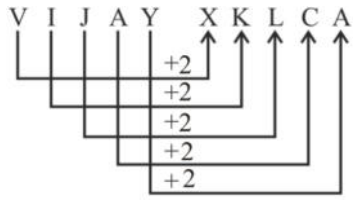

उसी प्रकार,

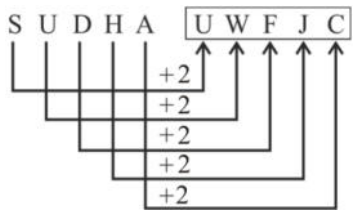

अतः ? = UWFJC

114. Select the option that is related to the third term in the same way as the second term is related to the first term.

उस विकल्प का चयन करें जो तीसरे पद से उसी प्रकार संबंधित है। जिस प्रकार दूसरा पद पहले पद से संबंधित है।

CDHA : FWSD :: JNBU : ?

(a) MNYX (b) MNYY
(c) MMYX (d) MMYY

MP Police Constable Exam- 21 August-2023 Shift-2

Ans. (c) : जिस प्रकार,

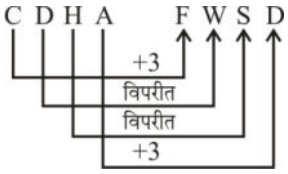

उसी प्रकार,

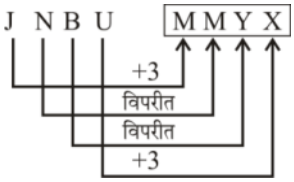

अतः ? = MMYX

115. In the following question, there is certain relationship between the first two terms. Choose the fourth term from the following options which has a similar kind of relation with the third term.

निम्न प्रश्न में, पहले दो पदों के बीच किसी प्रकार से कोई संबंध है। निम्न विकल्पों में से चौथा पद चुनिये जिसका तीसरे पद के साथ उसी प्रकार का संबंध है।

PRLN : XZTV :: JLFH : ?

(a) RTNP (b) NPRT
(c) NRPT (d) NTRP

MP Police Constable Exam- 20 July-2016 - 9: am

Ans : (a) जिस प्रकार,

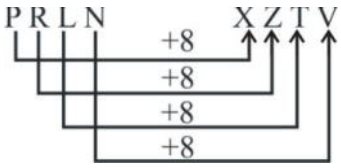

उसी प्रकार,

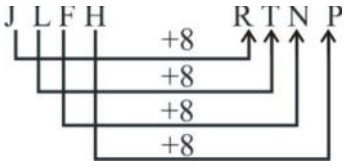

अतः ? ⇒ RTNP होगा।

116. What should come in place of question mark (?) in the following question?

निम्नलिखित प्रश्न में प्रश्न चिह्न (?) के स्थान पर क्या मान आना चाहिए?

EFG : GFE :: ?

(a) GHI : LJI (b) ABC : CBA
(c) NOP : USR (d) UWX : DCB

MP Police Constable Exam- 18 August-2023 Shift-2

GET IT ON Google Play Best Study PDF के लिए हमारी App को Download करें "GK Trick By Nitin Gupta"

Ans. (b) : जिस प्रकार,

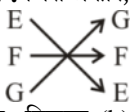

उसी प्रकार, विकल्प (b) से-

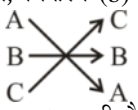

अतः विकल्प (b) सही है।

117. Select the letter-cluster that is related to the third letter-cluster in the same way as the second letter-cluster is related to the first letter-cluster./उस अक्षर-समूह का चयन करें जो तीसरे अक्षर-समूह से उसी प्रकार संबंधित है जैसे दूसरा अक्षर-समूह, पहले अक्षर-समूह से संबंधित है।

BCFE : HILK :: NORQ : ?

(a) TXWU (b) TXUW
(c) TUXW (d) TVWX

MP Police Constable Exam- 18 August-2023 Shift-2

Ans. (c) : जिस प्रकार,

B $\xrightarrow{+6}$ H
C $\xrightarrow{+6}$ I
F $\xrightarrow{+6}$ L
E $\xrightarrow{+6}$ K

उसी प्रकार,

N $\xrightarrow{+6}$ T
O $\xrightarrow{+6}$ U
R $\xrightarrow{+6}$ X
Q $\xrightarrow{+6}$ W

अतः ? = TUXW

118. In the following question, there is certain relationship between the first two terms. Choose the fourth term from the following options which has a similar kind of relation with the third term.
निम्न प्रश्न में, पहले तो पदों के बीच किसी प्रकार से कोई संबंध है। निम्न विकल्पों में से चौथा पद चुनिये जिसका तीसरे पद के साथ उसी प्रकार का संबंध है।

NUMBER: UNBMRE :: GHOST : ?

(a) HSOGT (b) HOGST
(c) HGOST (d) HGSOT

MP Police Constable Exam 17 July 2016 - 9:am

Ans : (d) जिस प्रकार,

1 2 3 4 5 6 → 2 1 4 3 6 5
NUMBER ⟶ UNBMRE

उसी प्रकार,

1 2 3 4 5 → 2 1 4 3 5
GHOST ⟶ HGSOT

119. In a code language, PENCIL is written as PNEICL. How will MOTHER be written as in that language ?/एक कोड भाषा में, PENCIL को PNEICL के रूप में लिखा जाता है। उस भाषा में MOTHER कैसे लिखा जाएगा ?

(a) MTOEHR (b) OMHTRE
(c) MTOREH (d) MHTORE

MP Police Constable Exam- 24 August-2023 Shift-2

Ans. (a) : प्रश्नानुसार,

जिस प्रकार,

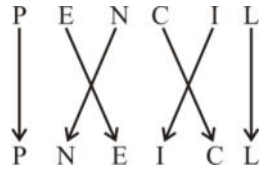

उसी प्रकार,

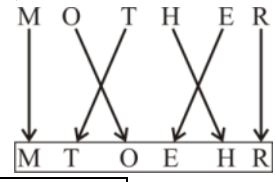

अतः ? = MTOEHR

120. Select the letter-cluster that is related to the third letter-cluster in the same way as the second letter-cluster is related to the first letter-cluster.
उस अक्षर-समूह का चयन करें जो तीसरे अक्षर-समूह से उसी प्रकार संबंधित है जैसे दूसरा अक्षर-समूह, पहले अक्षर-समूह से संबंधित है।

Kcac : Cack :: XgmF : ?

(a) EmgF (b) EgmX
(c) FmgX (d) GmeF

MP Police Constable Exam- 24 August-2023 Shift-2

Ans. (c) : जिस प्रकार,

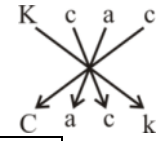

उसी प्रकार,

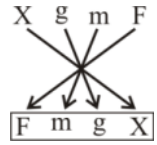

अतः ? = FmgX

121. In a code language, REGULAR is written as GERTRAL. How will BROTHER be written as in that language ?
किसी कूट भाषा में, REGULAR को GERTRAL लिखा जाता है। उसी कूट भाषा में BROTHER को क्या लिखा जाएगा ?

(a) ORBSREH (b) ROBSERH
(c) ORBUREH (d) ORBEHTS

MP Police Constable Exam- 31 August-2023 Shift-3

Ans. (a) : प्रश्नानुसार,

जिस प्रकार,

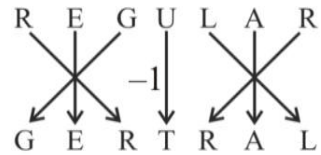

उसी प्रकार,

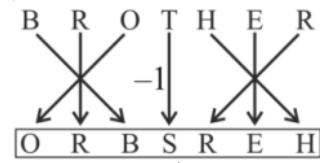

अतः विकल्प (a) सही उत्तर है।

GET IT ON Google Play Best Study PDF के लिए हमारी App को Download करें "GK Trick By Nitin Gupta"

122. What should come in place of question mark (?) in the following question ?
निम्नलिखित प्रश्न में प्रश्न चिह्न (?) के स्थान पर क्या मान आना चाहिए ?

ABC : ? :: PQR : QSU

(a) BCD (b) BDF
(c) BDE (d) BDG

MP Police Constable Exam- 24 August-2023 Shift-2

Ans. (b) : जिस प्रकार, उसी प्रकार,

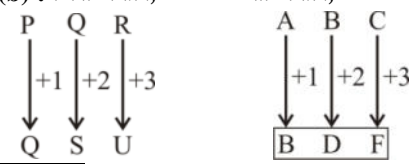

अतः ? = BDF

123. Select the option that is related to the third term in the same way as the second term is related to the first term.
उस विकल्प का चयन करें जो तीसरे पद से उसी प्रकार संबंधित है जैसे दूसरा पद पहले पद से संबंधित है।

ABC : DEF : : GHI : ?

(a) IJK (b) JKL
(c) HIJ (d) KJL

MP Police Constable Exam- 27 August-2023 Shift-1

Ans. (b) : जिस प्रकार, उसी प्रकार,

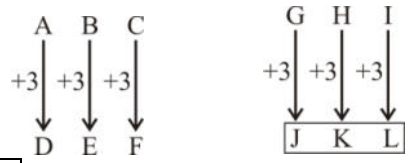

अतः ? = JKL

124. Select the option that is related to the third term in the same way as the second term is related to the first term.
उस विकल्प का चयन करें जो तीसरे पद से उसी प्रकार संबंधित है जैसे दूसरा पद पहले पद से संबंधित है।

CFIL : DGJM :: DHLP : ?

(a) EJMQ (b) EIMQ
(c) EIMO (d) EIJQ

MP Police Constable Exam- 24 August-2023 Shift-3

Ans. (b) : जिस प्रकार,

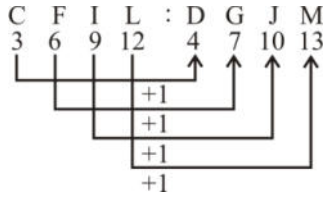

उसी प्रकार,

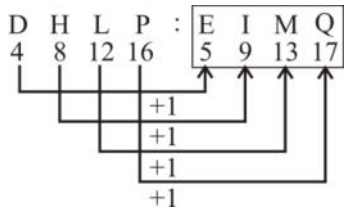

अतः ? = EIMQ

125. In a certain code CAMEL is written as MFNBD. How shall TIGER be written in that code ?
यदि CAMEL को MFNBD लिखा जा सकता है, तो TIGER का उस कोड में कैसे लिखा जायेगा ?

(a) SFUJH (b) SFHJU
(c) SFJUH (d) SHFJU

MP Police Constable Exam- 27 August-2023 Shift-1

Ans. (b) : जिस प्रकार,

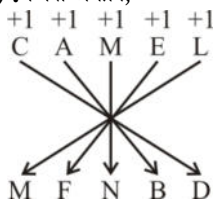

उसी प्रकार,

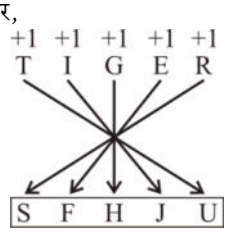

अतः ? = SFHJU

126. In a code language EXPLAIN is written as XEALPNI. How will FACTORY be written in that language ?
एक कोड भाषा में EXPLAIN को XEALPNI के रूप में लिखा गया है। उस भाषा में FACTORY को कैसे लिखा जाएगा ?

(a) AFTOCYR (b) AFTCROY
(c) CAEOTYR (d) AFOTCYR

MP Police Constable Exam- 27 August-2023 Shift-1

Ans. (d) : प्रश्नानुसार,
जिस प्रकार,

उसी प्रकार,

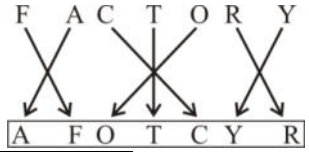

अतः ? = AFOTCYR

127. In a certain code, if ALPHABET is coded as RHZDFSJD and MARKER is coded as PHIUYP, then how is "MATERIAL" coded in that code ?
किसी निश्चित कूट में, यदि ALPHABET को RHZDFSJD कूटित करते हैं और MARKER को PHIUYP कूटित करते हैं, तो उस कूट में "MATERIAL" को कैसे कूटित किया जाएगा ?

(a) JDGPCWYP (b) JDGUHWYP
(c) JDGUCWYP (d) HRDPJDGP

MP Police Constable Exam- 24 August-2023 Shift-3

GET IT ON Google Play Best Study PDF के लिए हमारी App को Download करें "GK Trick By Nitin Gupta"

Ans. (c) : जिस प्रकार,

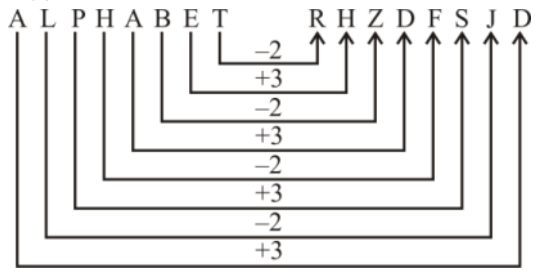

तथा

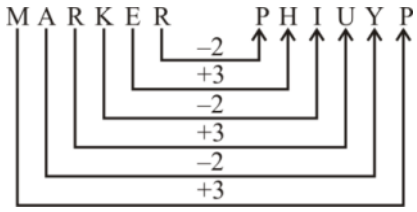

उसी प्रकार,

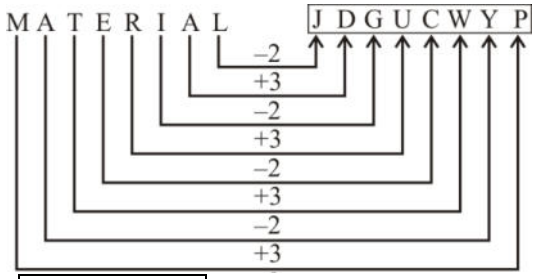

अतः ? = JDGUCWYP

128. In a code language, TEMPLE is written as DKOLDS. How will WORSHIP be written as in that language ?

किसी कूट भाषा में, TEMPLE को DKOLDS लिखा जाता है। उसी कूट भाषा में WORSHIP को क्या लिखा जाएगा ?

(a) OHGRQNV (b) VNQGHOR
(c) QJITSPX (d) OGHQRVN

MP Police Constable Exam- 8 Sep-2023 Shift-2

Ans. (a) : जिस प्रकार,

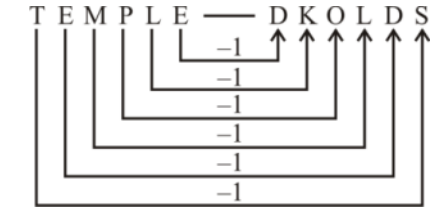

उसी प्रकार,

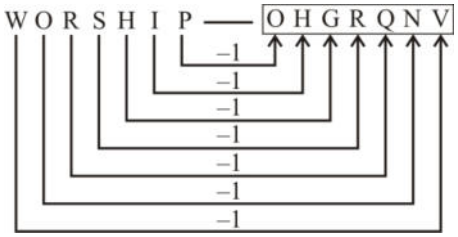

अतः 'WORSHIP' को 'OHGRQNV' लिखा जायेगा।

129. What should come in place of question mark (?) in the following question ?

निम्नलिखित प्रश्न में प्रश्न चिह्न (?) के स्थान पर क्या मान आना चाहिए ?

PRT : ? :: QTW : MXS

(a) LVP (b) JVP
(c) LVQ (d) JLP

MP Police Constable Exam- 28 August-2023 Shift-2

Ans. (a) : जिस प्रकार,

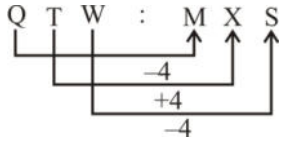

उसी प्रकार,

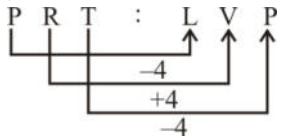

अतः ? = LVP

130. In a code language SUNDAY is written as DNUAYS. How will MOTHER be written as in that language ?

एक कूट भाषा में SUNDAY को DNUAYS लिखा जाता है। MOTHER को इस कूट भाषा में कैसे लिखा जायेगा ?

(a) HTEOMR (b) HTOERM
(c) HOTERM (d) THEORM

MP Police Constable Exam- 28 August-2023 Shift-2

Ans. (b) : जिस प्रकार,

1 2 3 4 5 6 4 3 2 5 6 1
S U N D A Y ⟶ D N U A Y S

उसी प्रकार,

1 2 3 4 5 6 4 3 2 5 6 1
M O T H E R ⟶ H T O E R M

अतः 'MOTHER' को 'HTOERM' के रूप में लिखा जाएगा।

131. If in a certain code, EDITION is written as VWRGRLM then which word will be coded as SLMVHGB ?

यदि एक निश्चित कोड में EDITION को VWRGRLM के रूप में लिखा जाता है तो SLMVHGB को कैसे कोड किया जाएगा ?

(a) HAUGHTY (b) HONESTY
(c) AMNSTY (d) EDITORS

MP Police Constable Exam- 28 August-2023 Shift-2

Ans. (b) : जिस प्रकार,

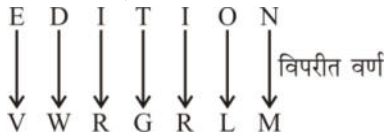

उसी प्रकार,

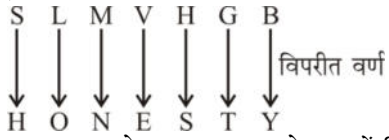

अतः 'SLMVHGB' को 'HONESTY' के रूप में लिखा जाएगा।

GET IT ON Google Play Best Study PDF के लिए हमारी App को Download करें "GK Trick By Nitin Gupta"

132. Find the missing term in the following series.
निम्नलिखित श्रृंखला में लुप्त पद ज्ञात कीजिए।
SOFA : RTNPEGZB : : TICKET : ?
(a) SUHJBDJLDFSU (b) UVJKDELMFGUV
(c) SUGJBEJLDFSU (d) SUHJBDILCFUV

MP Police Constable Exam- 25 August-2023 Shift-3

Ans. (a) : जिस प्रकार,

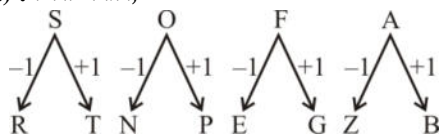

उसी प्रकार,

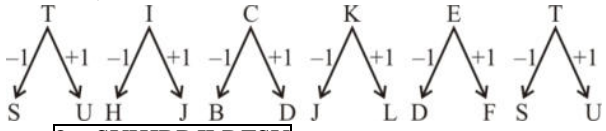

अतः ? = SUHJBDJLDFSU

133. What should come in place of question mark (?) in the following question ?
निम्नलिखित प्रश्न में प्रश्न चिह्न (?) के स्थान पर क्या मान आना चाहिए ?
EG : DH :: ? : IK
(a) JJ (b) CD
(c) DQ (d) RP

MP Police Constable Exam- 25 August-2023 Shift-3

Ans. (a) : जिस प्रकार,

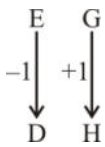

उसी प्रकार,

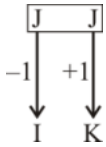

अतः ? = JJ

134. Select the letter-cluster that is related to the third letter-cluster in the same way as the second letter-cluster is related to the first letter-cluster.
उस अक्षर-समूह का चयन करें जो तीसरे अक्षर-समूह से उसी प्रकार संबंधित है जैसे दूसरा अक्षर-समूह, पहले अक्षर-समूह से संबंधित है।
LOGIC : BHFNK :: CLERK : ?
(a) XVRPA (b) QBKJA
(c) LPRTU (d) JQDKB

MP Police Constable Exam- 25 August-2023 Shift-3

Ans. (d) : जिस प्रकार,

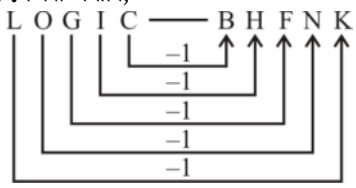

उसी प्रकार,

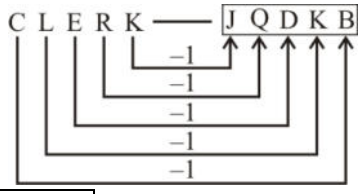

अतः ? = JQDKB

135. If TEMPLE is coded as ELPMET, then how will CHURCH be coded as ?
यदि TEMPLE को ELPMET के रूप में कूटबद्ध किया जाता है तो CHURCH को कैसे कूटबद्ध किया जाएगा ?
(a) HCURCH (b) HCRUHC
(c) HCRUCH (d) HCURHC

MP Police Constable Exam- 25 August-2023 Shift-3

Ans. (b) : जिस प्रकार,

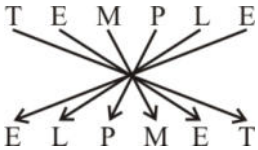

उसी प्रकार,



अतः 'CHURCH' का कूट 'HCRUHC' है।

136. Select the letter-cluster that is related to the third letter-cluster in the same way as the second letter-cluster is related to the first letter-cluster.
उस अक्षर-समूह का चयन करें जो तीसरे अक्षर-समूह से उसी प्रकार संबंधित है जैसे दूसरा अक्षर-समूह, पहले अक्षर-समूह से संबंधित है।
GIKM : TRPN :: JLNP : ?
(a) QOMK (b) WUSQ
(c) PRTV (d) TVXZ

MP Police Constable Exam- 18 August-2023 Shift-1

Ans. (a) : जिस प्रकार,

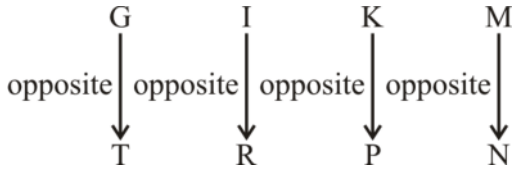

उसी प्रकार,

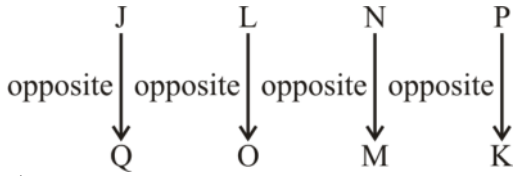

अतः स्पष्ट है कि, (?) के स्थान पर 'QOMK' आयेगा।

137. If MOTHER is coded as KMRFCP, then HOUSE is coded as:
यदि MOTHER को KMRFCP लिखा जाए, तो HOUSE को क्या लिखा जाएगा?
(a) FMRPC (b) GNSQD
(c) GNRQD (d) FMSQC

MP Police Constable Exam- 18 August-2023 Shift-1

GET IT ON Google Play Best Study PDF के लिए हमारी App को Download करें "GK Trick By Nitin Gupta"

Ans. (d) : जिस प्रकार,

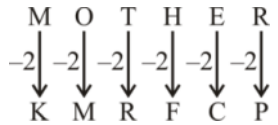

उसी प्रकार,

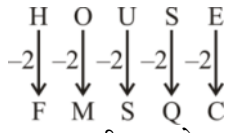

अतः विकल्प (d) सही उत्तर होगा।

138. Select the option that is related to the third term in the same way as the second term is related to the first term.
उस विकल्प का चयन करें जो तीसरे पद से उसी प्रकार संबंधित है जैसे दूसरा पद पहले पद से संबंधित है।
BEH : CGK :: QUI : ?

(a) RVM (b) RWM
(c) RVL (d) RWL

MP Police Constable Exam- 19 August-2023 Shift-2

Ans. (d) : जिस प्रकार,

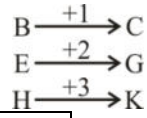

उसी प्रकार,

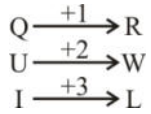

अतः ? = RWL

139. Select the letter-cluster that is related to the third letter-cluster in the same way as the second letter-cluster is related to the first letter-cluster.
उस अक्षर-समूह का चयन करें जो तीसरे अक्षर-समूह से उसी प्रकार संबंधित है जैसे दूसरा अक्षर-समूह, पहले अक्षर-समूह से संबंधित है।
ACEG : IKMO :: PRTV : ?

(a) QRUW (b) JLMP
(c) WXAC (d) XZBD

MP Police Constable Exam- 19 August-2023 Shift-2

Ans. (d) : जिस प्रकार,

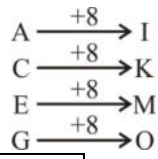

उसी प्रकार,

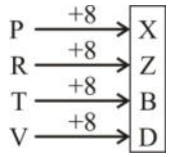

अतः ? = XZBD

140. In a code language, DISTRIBUTION is written as SIDIRTTUBNOI. How will ABBREVIATING be written as in that language?
एक कूट भाषा में, DISTRIBUTION को SIDIRTTUBNOI के रूप में लिखा गया है। उसी भाषा में ABBREVIATING को कैसे लिखा जाएगा?

(a) BBAVERIATGNI
(b) VERBBAGNITAI
(c) BBAVERTAIGNI
(d) BABRVEAIITGN

MP Police Constable Exam- 19 August-2023 Shift-2

Ans. (c) : जिस प्रकार,

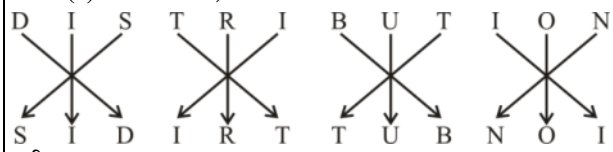

उसी प्रकार,

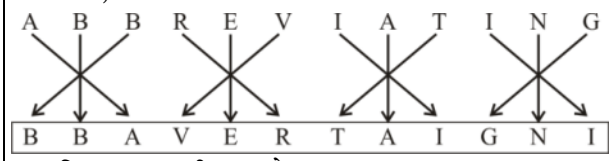

अतः विकल्प (c) सही उत्तर होगा।

141. In a certain code 'SUBJECT' is written as 'ATRIUDF'. How is ORDINAL written in that code?
एक निश्चित कूट में 'SUBJECT' को 'ATRIUDF' लिखा जाता है। तो उसी कूटभाषा में ORDINAL को किस प्रकार लिखा जायेगा?

(a) CQNHMBO (b) CQNHBMO
(c) NQCHMBO (d) ESFHMBO

MP Police Constable Exam- 19 August-2023 Shift-2

Ans. (a) : जिस प्रकार,

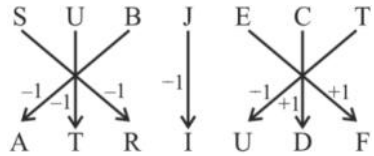

उसी प्रकार,

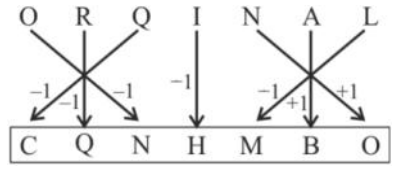

अतः 'ORDINAL' का कोड 'CQNHMBO' होगा।

142. If 'POPULAR' is coded as 'QPQVMBS', then, 'FAMOUS' will be coded as:
यदि 'POPULAR' का कोड 'QPQVMBS' है, तो उसी कोड में 'FAMOUS' का कोड बताइए।

(a) GBNPUT (b) GNBPTV
(c) GBNPVS (d) GBNPVT

MP Police Constable Exam- 19 August-2023 Shift-2

Ans. (d) : जिस प्रकार,

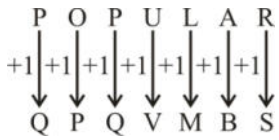

उसी प्रकार,

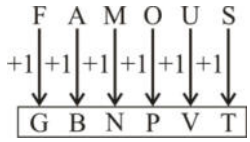

अतः 'FAMOUS' का कोड 'GBNPVT' होगा।

GET IT ON Google Play Best Study PDF के लिए हमारी App को Download करें "GK Trick By Nitin Gupta"

143. In a certain code, 'INDIA' is written as 'KOFJC'. How 'CURRENT' written in same code ?
किसी कोड भाषा में, 'INDIA' को 'KOFJC' के रूप में लिखते है। उसी कोड में 'CURRENT' को क्या लिखते है ?

(a) EVTSGOV (b) EVSTGOV
(c) EVTUEOV (d) EVSTVOG

MP Police Constable Exam- 2 Sep-2023 Shift-3

Ans. (a) : जिस प्रकार,

I N D I A
+2 +1 +2 +1 +2
K O F J C

उसी प्रकार,

C U R R E N T
+2 +1 +2 +1 +2 +1 +2
E V T S G O V

144. In a code language, PASTEUR is coded as TPRUASE. How would SEVENTY be coded in that language?
किसी कूट भाषा में, PASTEUR को TPRUASE लिखा जाता है। उसी कूट भाषा में SEVENTY को क्या लिखा जाएगा?

(a) ENVETYS (b) NSYTEVN
(c) ESYETNV (d) ESYTEVN

MP Police Constable Exam- 12 August-2023 Shift-2

Ans. (d) : जिस प्रकार,

1 2 3 4 5 6 7 4 1 7 6 2 3 5
P A S T E U R ⟶ T P R U A S E

उसी प्रकार,

1 2 3 4 5 6 7 4 1 7 6 2 3 5
S E V E N T Y ⟶ E S Y T E V N

अतः 'SEVENTY' के लिए कूट 'ESYTEVN' होगा।

145. In a certain code BRIGHT is written as JSCSGF. How is JOINED written in that code?
एक निश्चित कूट भाषा में, BRIGHT को JSCSGF लिखा जाता है। JOINED उस कूट में, कैसे लिखा जायेगा?

(a) JPKEFO
(b) JPKMDC
(c) KPJCDM
(d) None of the given options/दिए गए विकल्पों में से कोई नहीं

MP Police Constable Exam- 12 August-2023 Shift-2

Ans. (d) : जिस प्रकार,

B R I G H T
+1 +1 +1 −1 −1 −1
J S C S G F

उसी प्रकार,

J O I N E D
+1 +1 +1 −1 −1 −1
J P K C D M

स्पष्ट है कि, 'JOINED' के लिए कूट शब्द 'JPKCDM' होगा।

146. If in a certain language, EXAMPLE is coded as DWZLOKD, how will ELECTION be coded in that language?
यदि किसी कूट भाषा में, EXAMPLE को DWZLOKD रूप में कूटबद्ध किया गया है, तो उसी भाषा में ELECTION को कैसे कूटबद्ध किया जाएगा?

(a) DKDBSJHM (b) DKEBSHNM
(c) EKDBSHNM (d) DKDBSHNM

MP Police Constable Exam- 13 August-2023 Shift-1

Ans. (d) : जिस प्रकार,

E −1 ⟶ D
X −1 ⟶ W
A −1 ⟶ Z
M −1 ⟶ L
P −1 ⟶ O
L −1 ⟶ K
E −1 ⟶ D

उसी प्रकार,

E −1 ⟶ D
L −1 ⟶ K
E −1 ⟶ D
C −1 ⟶ B
T −1 ⟶ S
I −1 ⟶ H
O −1 ⟶ N
N −1 ⟶ M

अतः 'ELECTION' का कूट 'DKDBSHNM' होगा।

147. If 'STAGE' is coded as 'TUBHF', 'STRANGER' will be coded as '_____'.
यदि 'STAGE' का कूट होगा 'TUBHF', 'STRANGER' का कूट होगा '_____'.

(a) TUSOBHFS (b) TUBOFSHS
(c) TUSBOHFS (d) TUBSOHFS

MP Police Constable Exam- 13 August-2023 Shift-2

Ans. (c) : जिस प्रकार,

S +1 ⟶ T
T +1 ⟶ U
A +1 ⟶ B
G +1 ⟶ H
E +1 ⟶ F

उसी प्रकार,

S +1 ⟶ T
T +1 ⟶ U
R +1 ⟶ S
A +1 ⟶ B
N +1 ⟶ O
G +1 ⟶ H
E +1 ⟶ F
R +1 ⟶ S

अतः विकल्प (c) सही है।

148. Select the letter-cluster that is related to the third letter-cluster in the same way as the second letter-cluster is related to the first letter-cluster.
उस अक्षर-समूह का चयन करें जो तीसरे अक्षर-समूह से उसी प्रकार संबंधित है जैसे दूसरा अक्षर-समूह, पहले अक्षर-समूह से संबंधित है।

ACE : FHJ :: OQS : ?

(a) PRT (b) RTU
(c) TVX (d) UWY

MP Police Constable Exam- 23 August-2023 Shift-2

GET IT ON Google Play Best Study PDF के लिए हमारी App को Download करें "GK Trick By Nitin Gupta"

Ans. (c) : जिस प्रकार :: उसी प्रकार

A C E → +5 +5 +5 → F H J

O Q S → +5 +5 +5 → T V X

अतः ? = TVX

149. If HARBOUR is written as IBSCPVS, how is 'HABITAT' written in that code ?
यदि HARBOUR को IBSCPVS के रूप में लिखा जाता है, तो 'HABITAT' को उसी कोड में कैसे लिखा जाएगा ?

(a) GZAHSZS (b) IBCJUBU
(c) IBAHSZS (d) IBCJBUU

MP Police Constable Exam- 23 August-2023 Shift-2

Ans. (b) : जिस प्रकार,

H A R B O U R → +1 +1 +1 +1 +1 +1 +1 → I B S C P V S

उसी प्रकार,

H A B I T A T → +1 +1 +1 +1 +1 +1 +1 → I B C J U B U

अतः ? = IBCJUBU

150. If in a certain code 'OPERATION' is written as 'BWDADCPBJ' and 'PARENT' is written as 'WTADJX', how will 'ORIENT' be written in that cede ?
एक निश्चित कोड भाषा में 'OPERATION' को 'BWDADCPBJ' और 'PARENT' को 'WTADJX' तो उसी भाषा में 'ORIENT' को कैसे लिखा जाएगा।

(a) PSJFOU (b) BWPDJX
(c) BAPDJX (d) BPADJX

MP Police Constable Exam- 23 August-2023 Shift-2

Ans. (c) : जिस प्रकार– और,

O P E R A T I O N → B W D A D C P B J

P A R E N T → W T A D J X

उसी प्रकार उपर्युक्त कोड से 'ORIENT' को BAPDJX लिखा जाएगा।

151. Find the missing term in the following series.
निम्नलिखित श्रृंखला में लुप्त पद ज्ञात कीजिए।

DONKEY : GLQHHV : : ? : TURTLE

(a) HIWOXQ (b) WRUQOB
(c) QXOWIH (d) WRUQMC

MP Police Constable Exam- 26 August-2023 Shift-3

Ans. (c) : जिस प्रकार,

4 15 14 11 5 25
D O N K E Y
→ +3 –3 +3 –3 +3 –3 →
7 12 17 8 8 22
G L Q H H V

उसी प्रकार,

17 24 15 23 9 8
Q X O W I H
→ +3 –3 +3 –3 +3 –3 →
20 21 18 20 12 5
T U R T L E

अतः ? = QXOWIH

152. What should come in place of question mark (?) in the following question ?
निम्नलिखित प्रश्न में प्रश्न चिह्न (?) के स्थान पर क्या मान आना चाहिए ?

BYDW : CXEV :: ? : IRKP

(a) HSJO (b) HSJP
(c) HSJQ (d) HPJQ

MP Police Constable Exam- 26 August-2023 Shift-3

Ans. (c) : जिस प्रकार,

2 25 4 23
B Y D W
→ +1 –1 +1 –1 →
C X E V
3 24 5 22

उसी प्रकार,

8 19 10 17
H S J Q
→ +1 –1 +1 –1 →
I R K P
9 18 11 16

अतः ? = HSJQ

153. In a code language, COMPUTER is written as IVGFKNLX. How will TELEPHONE be written in that language?
किसी कूट भाषा में, COMPUTER को IVGFKNLX लिखा जाता है। उसी कूट भाषा में TELEPHONE को क्या लिखा जाएगा?

(a) VMNSKVOVG (b) GVOVKSLMV
(c) VMLSKUOVG (d) VMLSKVOVG

MP Police Constable Exam- 12 August-2023 Shift-3

GET IT ON Google Play Best Study PDF के लिए हमारी App को Download करें "GK Trick By Nitin Gupta"

Ans. (d) : जिस प्रकार,

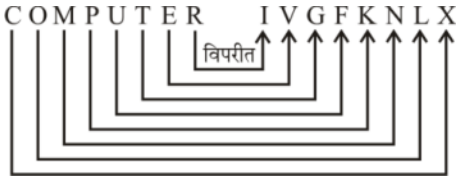

उसी प्रकार,

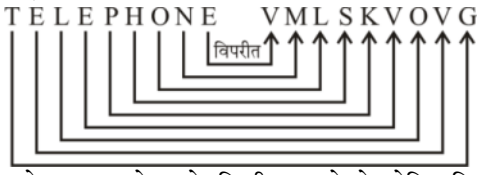

नोटः- प्रत्येक अक्षर को उसके विपरीत अक्षरो से कोडित किया गया है।

154. In a certain code 'HENRY' is written as "Jgpta", how will COUNTRY be coded?
किसी निश्चित कूट में 'HENRY' को "Jgpta" लिखा जाता है, तो COUNTRY किस प्रकार कूटित किया जाएगा?

(a) Eqwputa
(b) Eqwpvta
(c) Eqwvpte
(d) None of these/इनमें से कोई नहीं

MP Police Constable Exam- 12 August-2023 Shift-3

Ans. (b) : जिस प्रकार,

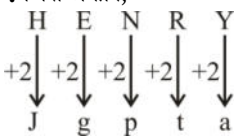

उसी प्रकार,

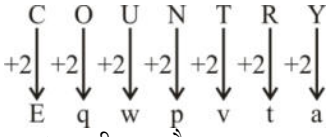

अतः विकल्प (b) सही उत्तर है।

155. Select the letter-cluster that is related to the third letter-cluster in the same way as the second letter-cluster is related to the first letter-cluster.
उस अक्षर-समूह का चयन करें जो तीसरे अक्षर-समूह से उसी प्रकार संबंधित है जैसे दूसरा अक्षर-समूह, पहले अक्षर-समूह से संबंधित है।

ACEG : DFHJ :: QSUW : ?

(a) KMNP (b) MNPR
(c) TQST (d) TVXZ

MP Police Constable Exam- 23 August-2023 Shift-3

Ans. (d) : प्रश्नानुसार, दी गई अक्षर शृंखला निम्नवत् है–
जिस प्रकार,

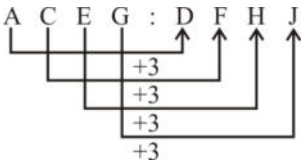

उसी प्रकार,

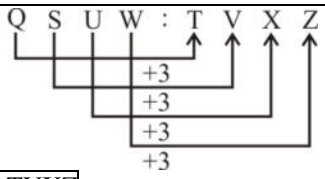

अतः ? = TVXZ

156. In a certain code 'GIVE' is written as 'VIEG' and 'OVER' is written as 'EVRO'. How will 'DISK' be written in that code ?
किसी कूट भाषा में 'GIVE' को 'VIEG' के रूप में लिखा जाता है और 'OVER' को 'EVRO' के रूप में लिखा जाता है। उसी कूट भाषा में 'DISK' को कैसे लिखेंगे ?

(a) SIDK (b) KISD
(c) KDSI (d) SIKD

MP Police Constable Exam- 25 August-2023 Shift-1

Ans. (d) : जिस प्रकार, तथा

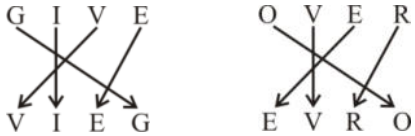

उसी प्रकार,

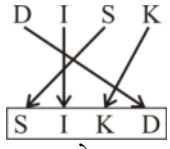

अतः 'DISK' को 'SIKD' के रूप में लिखेंगे।

157. Find the missing term in the following series.
निम्नलिखित शृंखला में लुप्त पद ज्ञात कीजिए।

ADK, EZQ, IVW, MRC, ?

(a) CKV (b) QNI
(c) QMJ (d) MQJ

MP Police Constable Exam- 23 August-2023 Shift-3

Ans. (b) : प्रश्नानुसार, अक्षर शृंखला निम्नवत् है–

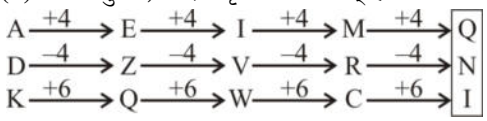

अतः ? = QNI

158. What should come in place of question mark (?) in the following question?
निम्नलिखित प्रश्न में प्रश्न चिह्न (?) के स्थान पर क्या मान आना चाहिए ?

BDF : ? :: LNP : PRT

(a) FHJ (b) FHI
(c) FIJ (d) FGJ

MP Police Constable Exam- 23 August-2023 Shift-3

Ans. (a) : प्रश्नानुसार, अक्षर शृंखला निम्नवत् है–
जिस प्रकार,

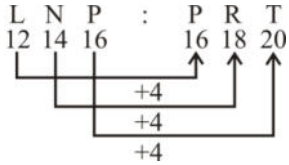

GET IT ON Google Play Best Study PDF के लिए हमारी App को Download करें "GK Trick By Nitin Gupta"

उसी प्रकार,

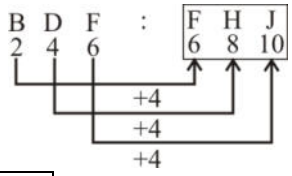

अतः ? = FHJ

159. If LIGHT is coded as MJHIU, then find the code for NORMAL.
यदि LIGHT को MJHIU लिखा जा सकता है, तो उसी कोड में NORMAL को क्या लिखेंगे?

(a) ORNMAL (b) OPSNBM
(c) ORSBNM (d) MNROLA

MP Police Constable Exam- 17 August-2023 Shift-2

Ans. (b) : जिस प्रकार,

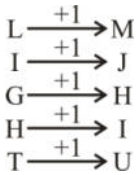

उसी प्रकार,

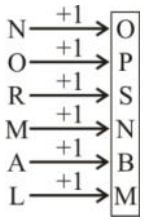

अतः कोड रूप में 'NORMAL' को 'OPSNBM' लिखा जायेगा।

160. If 'BLACKSMITH' is coded as 'CNBELUNKUJ', then 'CHILDREN' is coded as-
यदि 'BLACKSMITH' का कोड 'CNBELUNKUJ' हो, तो 'CHILDREN' का कोड क्या होगा?

(a) DIJMESFO (b) DJJNETFP
(c) DJINETEP (d) DJJNETEP

MP Police Constable Exam- 16 August-2023 Shift-3

Ans. (b) : जिस प्रकार,

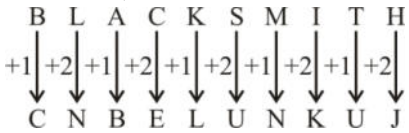

उसी प्रकार,

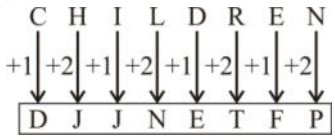

161. In a code language, INFORMATIVE is written as ROFNILEVITA. How will SUPERFICIAL be written as in that language?
किसी कूट भाषा में, INFORMATIVE को ROFNILEVITA लिखा जाता है। उसी कूट भाषा में SUPERFICIAL को क्या लिखा जाएगा?

(a) USEPRFICAIL (b) REPUSGLAICI
(c) LAICIGREPUS (d) REPUSELAICI

MP Police Constable Exam- 16 August-2023 Shift-3

Ans. (d) : जिस प्रकार,

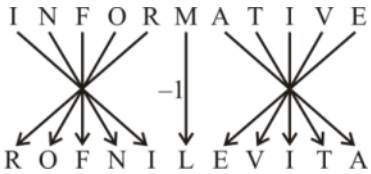

उसी प्रकार,

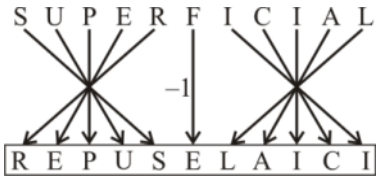

162. If 'LAME' is written as 'ODPH', how can 'MALE' be written in that code?
यदि 'LAME' को 'ODPH' लिखा जाता है, तो इस कूट में 'MALE' को किस प्रकार लिखेंगे?

(a) HOPD (b) DOPH
(c) OPDH (d) PDOH

MP Police Constable Exam- 14 August-2023 Shift-3

Ans. (d) : जिस प्रकार,

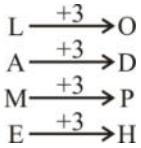

उसी प्रकार,

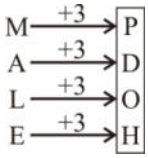

163. In a certain code RAIN is written as TCKP. How is CLOUD written in that code?
यदि किसी निश्चित कूट में, RAIN को लिखते हैं TCKP उस कूट में, CLOUD को कैसे लिखा जाएगा?

(a) ENQWF (b) EMQWF
(c) FNQWE (d) ENRWF

MP Police Constable Exam- 13 August-2023 Shift-3

Ans. (a) : जिस प्रकार,

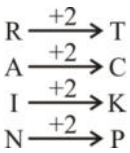

उसी प्रकार,

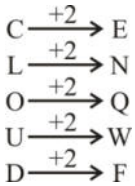

अतः ? = ENQWF

164. In a code language, NEEDLE is written as MFDEKF. How will HAMMER be written in the same language?
किसी कूट भाषा में, NEEDLE को MFDEKF लिखा जाता है। उसी कूट भाषा में HAMMER को क्या लिखा जाएगा?

(a) GBLNFT (b) IBLNDS
(c) GALNDS (d) GBLNDS

MP Police Constable Exam- 13 August-2023 Shift-3

GET IT ON Google Play Best Study PDF के लिए हमारी App को Download करें "GK Trick By Nitin Gupta"

Ans. (d) : जिस प्रकार,

N $\xrightarrow{-1}$ M
E $\xrightarrow{+1}$ F
E $\xrightarrow{-1}$ D
D $\xrightarrow{+1}$ E
L $\xrightarrow{-1}$ K
E $\xrightarrow{+1}$ F

उसी प्रकार,

H $\xrightarrow{-1}$ G
A $\xrightarrow{+1}$ B
M $\xrightarrow{-1}$ L
M $\xrightarrow{+1}$ N
E $\xrightarrow{-1}$ D
R $\xrightarrow{+1}$ S

अतः ? = GBLNDS

165. If in a certain code, EARTH is written as FZSSI, which word would be coded as XZUDS?
यदि किसी कूट भाषा में, EARTH को FZSSI के रूप में लिखा गया है, तो किस विकल्प को XZUDS के रूप में कूटबद्ध किया जाएगा?

(a) WAVER (b) YXVET
(c) WATER (d) WAVES

MP Police Constable Exam- 13 August-2023 Shift-3

Ans. (c) : जिस प्रकार,

E $\xrightarrow{+1}$ F
A $\xrightarrow{-1}$ Z
R $\xrightarrow{+1}$ S
T $\xrightarrow{-1}$ S
H $\xrightarrow{+1}$ I

उसी प्रकार,विकल्प (c) से,

W $\xrightarrow{+1}$ X
A $\xrightarrow{-1}$ Z
T $\xrightarrow{+1}$ U
E $\xrightarrow{-1}$ D
R $\xrightarrow{+1}$ S

अतः ? = WATER

166. If in a certain code, EDITION is written as VWRGRLM, which word would be coded as SLMVHGB ?
यदि एक निश्चित कोड में, EDITION को VWRGRLM के रूप में लिखा जाता है, तो कौन-सा शब्द SLMVHGB के रूप में कोडित किया जाएगा ?

(a) EDITORS (b) HONESTY
(c) AMNESTY (d) HAUGHTY

MP Police Constable Exam- 28 August-2023 Shift-3

Ans. (b) : प्रश्नानुसार,
जिस प्रकार,

E D I T I O N
↓ ↓ ↓ ↓ ↓ ↓ ↓
विपरीत अक्षर → V W R G R L M

उसी प्रकार,

S L M V H G B
↓ ↓ ↓ ↓ ↓ ↓ ↓
विपरीत अक्षर → H O N E S T Y

अतः विकल्प (b) सही उत्तर है।

167. In a certain code language, if the word NESTLE is coded as ODUROB, then how is the word OPPOSITE coded in that language ?
किसी निश्चित कूट भाषा में, यदि शब्द NESTLE को कूटित करते हैं ODUROB, तो उस भाषा में शब्द OPPOSITE को कैसे कूटित किया जाएगा ?

(a) PQRMVEXA (b) PORMVFXA
(c) POSNVGYA (d) PNSLWEYA

MP Police Constable Exam- 23 August-2023 Shift-1

Ans. (b) : जिस प्रकार,

N	E	S	T	L	E
14	5	19	20	12	5
+1	−1	+2	−2	+3	−3
O	D	U	R	O	B
15	4	21	18	15	2

उसी प्रकार,

O	P	P	O	S	I	T	E
15	16	16	15	19	9	20	5
+1	−1	+2	−2	+3	−3	+4	−4
P	O	R	M	V	F	X	A
16	15	18	13	22	6	24	1

अतः ? = PORMVFXA

168. In a code language, CINEMA is written as NICAME. How will ACTORS be written in that language ?
किसी कूट भाषा में, CINEMA को NICAME लिखा जाता है। उसी कूट भाषा में ACTORS को क्या लिखा जाएगा ?

(a) CAOTSR (b) TCAROS
(c) SROTCA (d) TCASRO

MP Police Constable Exam- 23 August-2023 Shift-1

Ans. (d) : जिस प्रकार,

C I N E M A
N I C A M E

उसी प्रकार,

A C T O R S
T C A S R O

अतः ? = TCASRO

169. If 'MOMENTUM' is Coded as 'EMOMNTUM', then 'MAGNETIC' will be coded as :
यदि 'MOMENTUM' को किसी कोड में 'EMOMNTUM', लिखा जाता है, तो 'MAGNETIC' को उसी कोड में क्या लिखा जा सकता है ?

(a) NGMAEITC (b) NGAMECTI
(c) NGAMETIC (d) NGMAETIC

MP Police Constable Exam- 23 August-2023 Shift-1

Ans. (c) : जिस प्रकार,

M O M E N T U M
E M O M N T U M

GET IT ON Google Play Best Study PDF के लिए हमारी App को Download करें "GK Trick By Nitin Gupta"

उसी प्रकार,

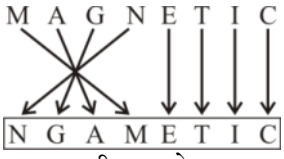

अतः विकल्प (c) सही उत्तर होगा।

170. Select the letter-cluster that is related to the third letter-cluster in the same way as the second letter-cluster is related to the first letter cluster.
उस अक्षर-समूह का चयन करें जो तीसरे अक्षर-समूह से उसी प्रकार संबंधित है जिस प्रकार दूसरा अक्षर-समूह, पहले अक्षर-समूह से संबंधित है।

CAT : DDY :: BIG : ?

(a) CLL (b) CLM
(c) CML (d) CEP

MP Police Constable Exam- 25 August-2023 Shift-2

Ans. (a) : जिस प्रकार,

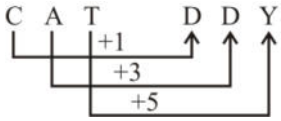

उसी प्रकार,

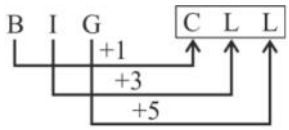

171. Select the option that is related to the third term in the same way as the second term is related to the first term.
उस विकल्प का चयन करें जो तीसरे पद से उसी प्रकार संबंधित है जैसे दूसरा पद पहले पद से संबंधित है।

HLP : MQU :: EIK : ?

(a) UVW (b) UOP
(c) UQP (d) JNP

MP Police Constable Exam- 25 August-2023 Shift-2

Ans. (d) : जिस प्रकार,

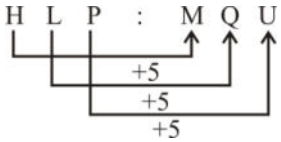

उसी प्रकार,

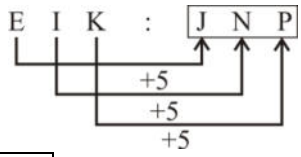

अतः ? = JNP

172. In a certain code language the word EXAMPLES is written as EMAXSEPL. How will the word BUOYANCY be written in that language ?
किसी कोड भाषा में EXAMPLES को EMAXSEPL लिखा जाता है। उस भाषा में BUOYANCY शब्द को कैसे लिखा जाएगा ?

(a) YBANCYOU (b) CUOYYBAN
(c) CUYOYBAN (d) CYOUYBAN

MP Police Constable Exam- 25 August-2023 Shift-2

Ans. (d) : जिस प्रकार,

E X A M P L E S → E M A X S E P L
1 2 3 4 5 6 7 8 → 7 4 3 2 8 1 5 6

उसी प्रकार,

B U O Y A N C Y → C Y O U Y B A N
1 2 3 4 5 6 7 8 → 7 4 3 2 8 1 5 6

173. Select the related word/letters/numbers from the given alternatives:
दिये गये विकल्पों में से संबंधित शब्द/अक्षरों/संख्या को चुनिए।

OOQR : QQST :: UUWX : ?

(a) WWYZ (b) YYWZ
(c) ZZWY (d) YYZZ

MP Police Constable Exam- 18 August-2023 Shift-2

Ans. (a) : जिस प्रकार,

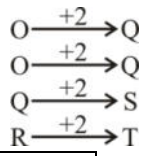

उसी प्रकार,

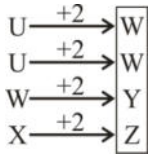

अतः ? = WWYZ

174. If 'BUDDHISM' is coded as 'DWFFJKUO', then 'CHRISTIAN' will be coded as _____.'
यदि एक कोड में 'BUDDHISM' को 'DWFFJKUO' लिखा जाता है, तो उस कोड में 'CHRISTIAN' को क्या लिखा जाएगा?

(a) ETTJUVKBP (b) EJTKUVJCO
(c) EJTKVYDCP (d) EJTKUVKCP

MP Police Constable Exam- 18 August-2023 Shift-2

Ans. (d) : जिस प्रकार,

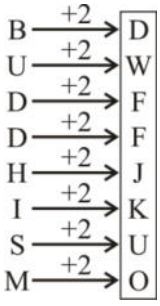

उसी प्रकार,

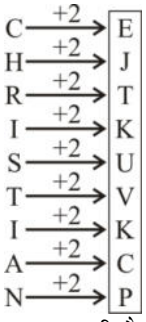

अतः विकल्प (d) सही है।

GET IT ON Google Play Best Study PDF के लिए हमारी App को Download करें "GK Trick By Nitin Gupta"

175. In a code language, SELECTION is written as ESELDITNO. How will NOSTTALGLA be written in the same language?

किसी कूट भाषा में, SELECTION को ESELDITNO लिखा जाता है। उसी कूट भाषा में NOSTALGLA को क्या लिखा जाएगा?

(a) ONSTBGLAI (b) ONTSBGLAL
(c) NOTSBLGAI (d) ONTSZGLAI

MP Police Constable Exam- 18 August-2023 Shift-2

Ans. (b) : जिस प्रकार,

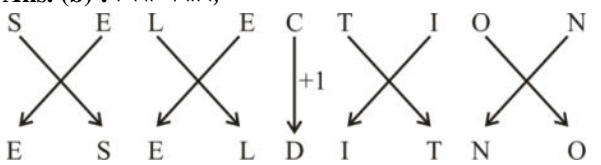

उसी प्रकार,

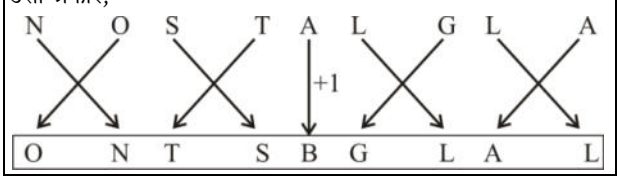

176. Select the option that is related to the third term in the same way as the second term is related to the first term.

उस विकल्प का चयन करें जो तीसरे पद से उसी प्रकार संबंधित है जैसे दूसरा पद पहले पद से संबंधित है।

CFIL : DGJM :: DHLP : ?

(a) EJMQ (b) EIMQ
(c) EIMO (d) EIJQ

MP Police Constable Exam- 24 August-2023 Shift-3

Ans. (b) :

जिस प्रकार,

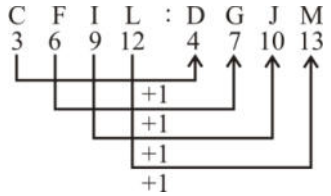

उसी प्रकार,

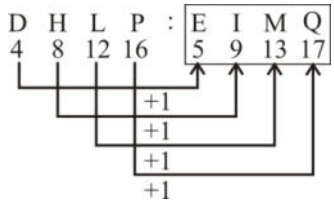

अतः ? = EIMQ

177. In a certain code CAMEL is written as MFNBD. How shall TIGER be written in that code ?

यदि CAMEL को MFNBD लिखा जा सकता है, तो TIGER को उस कोड में कैसे लिखा जायेगा ?

(a) SFUJH (b) SFHJU
(c) SFJUH (d) SHFJU

MP Police Constable Exam- 24 August-2023 Shift-3

Ans. (b) :

जिस प्रकार,

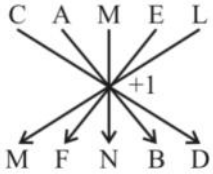

उसी प्रकार,

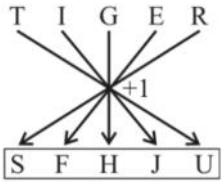

अतः ? = SFHJU

178. In a code language EXPLAIN is written as XEALPNI. How will FACTORY be written in that language ?

एक कोड भाषा में EXPLAIN को XEALPNI के रूप में लिखा गया है। उस भाषा में FACTORY को कैसे लिखा जाएगा ?

(a) AFTOCYR (b) AFTCROY
(c) CAEOTYR (d) AFOTCYR

MP Police Constable Exam- 24 August-2023 Shift-3

Ans. (d) :

जिस प्रकार,

उसी प्रकार,

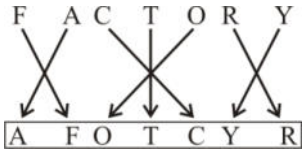

अतः ? = AFOTCYR

179. In a certain code, if ALPHABET is coded as RHZDFSJD and MARKER is coded as PHIUYP, then how is "MATERIAL" coded in that code ?

किसी निश्चित कूट में, यदि ALPHABET को RHZDFSJD कूटित करते हैं और MARKER को PHIUYP कूटित करते हैं, तो उस कूट में "MATERIAL" को कैसे कूटित किया जाएगा ?

(a) JDGPCWYP (b) JDGUHWYP
(c) JDGUCWYP (d) HRDPJDGP

MP Police Constable Exam- 24 August-2023 Shift-3

GET IT ON Google Play Best Study PDF के लिए हमारी App को Download करें "GK Trick By Nitin Gupta"

Ans. (c) :

जिस प्रकार,

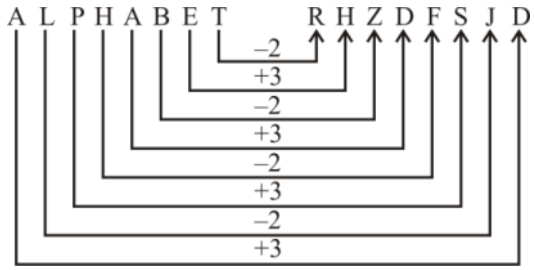

तथा

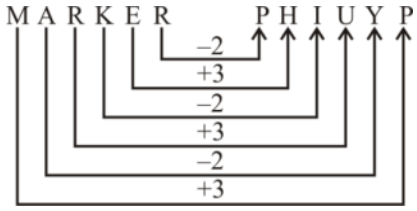

उसी प्रकार,

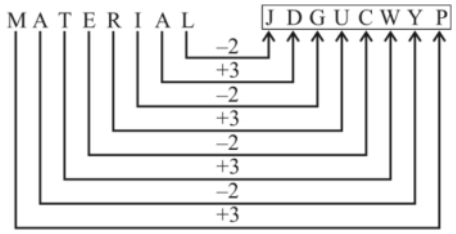

अतः ? = JDGUCWYP

180. FRIEND is coded as HTKGPF then REVEAL will be coded as:

यदि एक कोड में FRIEND को HTKGPF लिखा जाता है, तो उस कोड में REVEAL को क्या लिखा जाएगा?

(a) TGXFCN (b) TGXNGC
(c) TXGNCG (d) TGXGCN

MP Police Constable Exam- 17 August-2023 Shift-3

Ans. (d) : जिस प्रकार,

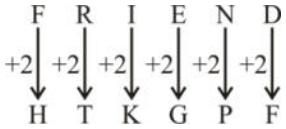

उसी प्रकार,

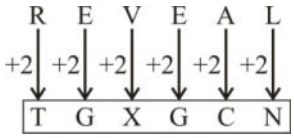

181. In a code language, PAINTER is written as SCLPWGU. How will WRITER be written in the same language?

किसी कूट भाषा में, PAINTER को SCLPWGU लिखा जाता है। उसी कूट भाषा में WRITER को क्या लिखा जाएगा?

(a) YTLVHT (b) ZTLVHU
(c) ZTLVHT (d) ZTLVGV

MP Police Constable Exam- 17 August-2023 Shift-3

Ans. (c) : जिस प्रकार,

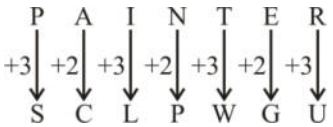

उसी प्रकार,

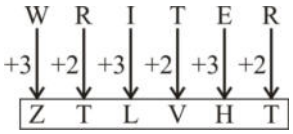

182. If CENPNPJL stands for DOOK, what does FHNPNPCE stand for?

यदि CENPNPJL का प्रतीकत्व है DOOK, FHNPNPCE का प्रतीकत्व क्या है?

(a) FOOD (b) ROOT
(c) GOOD (d) FOUR

MP Police Constable Exam- 17 August-2023 Shift-3

Ans. (c) : जिस प्रकार,

उसी प्रकार,

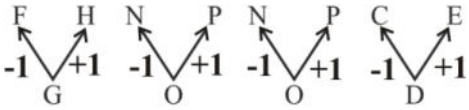

183. Select the letter-cluster that is related to the third letter-cluster in the same way as the second letter-cluster is related to the first letter-cluster.

उस अक्षर-समूह का चयन करें जो तीसरे अक्षर-समूह से उसी प्रकार संबंधित है जैसे दूसरा अक्षर-समूह, पहले अक्षर-समूह से संबंधित है।

PALE : QZMD :: RMST : ?

(a) SLTS (b) POHS
(c) SHOP (d) OPSH

MP Police Constable Exam- 26 August-2023 Shift-2

Ans. (a) : जिस प्रकार,

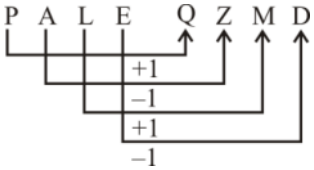

उसी प्रकार,

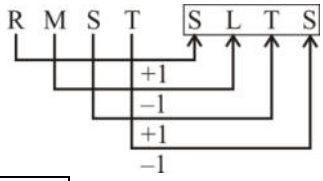

अतः ? = SLTS

184. In a code language, VICTORY is written as CIVSYRO. How will TRAITOR be written as in that language ?

GET IT ON Google Play Best Study PDF के लिए हमारी App को Download करें "GK Trick By Nitin Gupta"

किसी कूट भाषा में, VICTORY को CIVSYRO लिखा जाता है। उसी कूट भाषा में TRAITOR को क्या लिखा जाएगा ?

(a) RATHORT (b) RTAJORT
(c) ARTJOTR (d) ARTHROT

MP Police Constable Exam- 26 August-2023 Shift-2

Ans. (d) : जिस प्रकार,

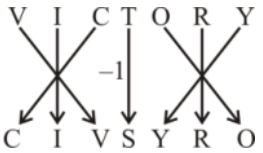

उसी प्रकार,

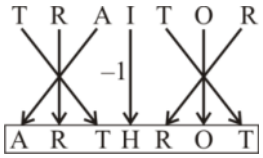

185. In a certain code language 'TANGLE' is coded as 'UBOHMF', then how will be 'USEFUL' coded in that code language ?

एक निश्चित कूट भाषा में 'TANGLE' को 'UBOHMF' के रूप में कूटबद्ध किया जाता है, तो उसी कूट भाषा में 'USEFUL' को किस प्रकार कूटबद्ध किया जाएगा ?

(a) VTFVMG (b) VFTGVM
(c) VTFGMV (d) VTFGVM

MP Police Constable Exam- 29 August-2023 Shift-1

Ans. (d) : जिस प्रकार,

T $\xrightarrow{+1}$ U
A $\xrightarrow{+1}$ B
N $\xrightarrow{+1}$ O
G $\xrightarrow{+1}$ H
L $\xrightarrow{+1}$ M
E $\xrightarrow{+1}$ F

उसी प्रकार,

U $\xrightarrow{+1}$ V
S $\xrightarrow{+1}$ T
E $\xrightarrow{+1}$ F
F $\xrightarrow{+1}$ G
U $\xrightarrow{+1}$ V
L $\xrightarrow{+1}$ M

अतः ? = VTFGVM

186. In a certain language, JUSTICE is coded as JSUTCIE. How will JUPITER be coded in that language ?

एक निश्चित भाषा में, JUSTICE को JSUTCIE के रूप में कोडित किया गया है। JUPITER को उस भाषा में कैसे कोडित किया जाएगा ?

(a) PJUIETR (b) JPUEITR
(c) JPUIERT (d) JPUIETR

MP Police Constable Exam- 29 August-2023 Shift-1

Ans. (d) : जिस प्रकार,



उसी प्रकार,

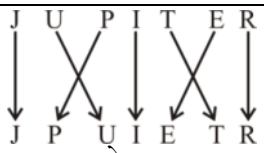

अतः JUPITER को 'JPUIETR' के रूप में कोडित किया जायेगा।

187. In a code language, STROKE is written as FLPSUT. How would BRIGHT be written in the same code language ?

किसी कूट भाषा में, STROKE को FLPSUT लिखा जाता है। उसी कूट भाषा में BRIGHT को क्या लिखा जाएगा ?

(a) UIHJSC (b) CSJHIU
(c) SGFHQA (d) UJHHCS

MP Police Constable Exam- 29 August-2023 Shift-1

Ans. (a) : जिस प्रकार,

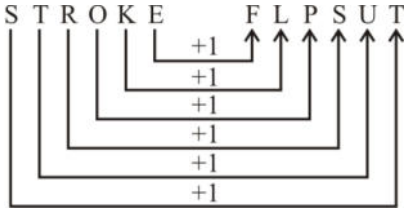

उसी प्रकार,

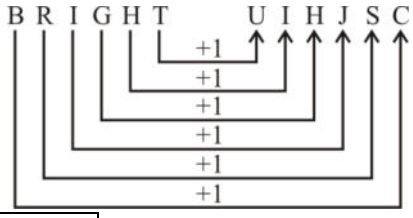

अतः ? = UIHJSC

188. What should come in place of question mark (?) in the following question?

निम्नलिखित प्रश्न में प्रश्न चिह्न (?) के स्थान पर क्या मान आना चाहिए?

EIKL : IELK :: ?

(a) AEGC : EACG (b) AEGC : AECG
(c) AECG : EACG (d) AECG : AEGC

MP Police Constable Exam- 19 August-2023 Shift-3

Ans. (a) : जिस प्रकार,

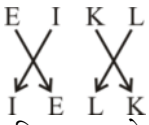

उसी प्रकार विकल्प (a) से,

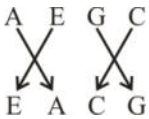

अतः विकल्प (a) सही उत्तर है।

189. In a code language if FRIDGE is written as GTLHLK then in the same language how will you write the word KETTLE?

GET IT ON Google Play Best Study PDF के लिए हमारी App को Download करें "GK Trick By Nitin Gupta"

एक कूट भाषा में यदि FRIDGE को GTLHLK लिखा जाता है तो इसी कूट भाषा में आप KETTLE को कैसे लिखेगे?

(a) WQLGXK (b) LGWXQK
(c) GLXWQK (d) XKWQLG

MP Police Constable Exam- 19 August-2023 Shift-3

Ans. (b) : जिस प्रकार,

F $\xrightarrow{+1}$ G
R $\xrightarrow{+2}$ T
I $\xrightarrow{+3}$ L
D $\xrightarrow{+4}$ H
G $\xrightarrow{+5}$ L
E $\xrightarrow{+6}$ K

उसी प्रकार,

K $\xrightarrow{+1}$ L
E $\xrightarrow{+2}$ G
T $\xrightarrow{+3}$ W
T $\xrightarrow{+4}$ X
L $\xrightarrow{+5}$ Q
E $\xrightarrow{+6}$ K

अतः ? = LGWXQK

190. If 'FRIEND' is coded as 'HUMJTK', how can 'CANDLE' be written in that coded?
यदि 'FRIEND' को किसी कोड भाषा में 'HUMJTK' लिखा जाता है, तो उसी कोड में 'CANDLE' को कैसे लिखा जाएगा?

(a) EDRIRL (b) ESJFME
(c) DCQHQK (d) DEQJQM

MP Police Constable Exam- 19 August-2023 Shift-3

Ans. (a) : जिस प्रकार,

F $\xrightarrow{+2}$ H
R $\xrightarrow{+3}$ U
I $\xrightarrow{+4}$ M
E $\xrightarrow{+5}$ J
N $\xrightarrow{+6}$ T
D $\xrightarrow{+7}$ K

उसी प्रकार,

C $\xrightarrow{+2}$ E
A $\xrightarrow{+3}$ D
N $\xrightarrow{+4}$ R
D $\xrightarrow{+5}$ I
L $\xrightarrow{+6}$ R
E $\xrightarrow{+7}$ L

अतः ? = EDRIRL

191. If in a certain code, ALMIRAH is written as BNPMWGO, Which would be written as DNRWLUA?
यदि एक निश्चित कोड में, ALMIRAH को BNPMWGO के रूप में लिखा जाता है, तो किसे DNRWLUA के रूप में लिखा जाएगा?

(a) COSGOLT (b) TOGSOLC
(c) CLOSGOT (d) TOGCLOS

MP Police Constable Exam- 11 Sep-2023 Shift-3

Ans. (c) : जिस प्रकार,

A $\xrightarrow{+1}$ B
L $\xrightarrow{+2}$ N
M $\xrightarrow{+3}$ P
I $\xrightarrow{+4}$ M
R $\xrightarrow{+5}$ W
A $\xrightarrow{+6}$ G
H $\xrightarrow{+7}$ O

उसी प्रकार,

C $\xrightarrow{+1}$ D
L $\xrightarrow{+2}$ N
O $\xrightarrow{+3}$ R
S $\xrightarrow{+4}$ W
G $\xrightarrow{+5}$ L
O $\xrightarrow{+6}$ U
T $\xrightarrow{+7}$ A

अतः ? = CLOSGOT

192. If HOUSE is written as FQSUC, then how can CHAIR be written in that code?
यदि HOUSE को FQSUC लिखा जा सकता है, तो CHAIR को कैसे लिख सकते हैं?

(a) DIBJS (b) SBJID
(c) SHBGD (d) AJYKP

MP Police Constable Exam- 18 August-2023 Shift-3

Ans. (d) : जिस प्रकार,

H O U S E
$\downarrow$ −2 $\downarrow$ +2 $\downarrow$ −2 $\downarrow$ +2 $\downarrow$ −2
F Q S U C

उसी प्रकार,

C H A I R
$\downarrow$ −2 $\downarrow$ +2 $\downarrow$ −2 $\downarrow$ +2 $\downarrow$ −2
A J Y K P

193. In the following question, select the related word from the given alternatives.
निम्नलिखित प्रश्न में, दिए गए विकल्पों में से संबंधित शब्द का चयन करें।

DOC : V :: CAT : ?

(a) Y (b) X
(c) Z (d) W

MP Police Constable Exam- 1 Sep-2023 Shift-1

Ans. (b) : जिस प्रकार,

D O C
$\downarrow$ $\downarrow$ $\downarrow$
4 + 15 + 3 $\longrightarrow$ 22(V)

उसी प्रकार,

C A T
$\downarrow$ $\downarrow$ $\downarrow$
3 + 1 + 20 $\longrightarrow$ 24(X)

अतः विकल्प (b) सही है।

194. In the following question find out the alternative which will replace the question mark.
निम्नलिखित प्रश्न में उस विकल्प को ज्ञात कीजिए जो प्रश्न चिह्न के स्थान पर आएगा।

FILL : LRXX : : DAME : ?

(a) HBZJ (b) HBBJ
(c) HBZZ (d) HBZG

MP Police Constable Exam- 1 Sep-2023 Shift-1

Ans. (a) : जिस प्रकार,

6 9 12 12
F I L L
$\downarrow$ ×2 $\downarrow$ ×2 $\downarrow$ ×2 $\downarrow$ ×2 $\downarrow$
L R X X

उसी प्रकार,

4 1 13 5
D A M E
$\downarrow$ ×2 $\downarrow$ ×2 $\downarrow$ ×2 $\downarrow$ ×2 $\downarrow$
H B Z J

अतः ? = HBZI

GET IT ON Google Play Best Study PDF के लिए हमारी App को Download करें "GK Trick By Nitin Gupta"

195. If the word ANGEL is coded as BOHFM, then what will be the third alphabet in the code for the word SAVAGE?/यदि ANGEL को BOHFM के रूप में लिखा जाता है, तो SAVAGE के लिए बनने वाले कोड में तीसरा अक्षर क्या होगा?

(a) B (b) U
(c) W (d) X

MP Police Constable Exam- 1 Sep-2023 Shift-1

Ans. (c) : जिस प्रकार,

A N G E L
+1 +1 +1 +1 +1
B O H F M

उसी प्रकार,

S A V A G E
+1 +1 +1 +1 +1 +1
T B W B H F

∴ SAVAGE से बनने वाले कोड में तीसरा अक्षर 'W' होगा।

196. If in a code 'GONE' is written as 'ILPB', then, how may 'CRIB' be written in that code?
यदि किसी कोड में, 'GONE' को 'ILPB' लिखा जाता है, तो उसी कोड में 'CRIB' को कैसे लिखा जाएगा?

(a) EUKY (b) EKUY
(c) EYUK (d) EOKY

MP Police Constable Exam- 20 August-2023 Shift-1

Ans. (d) : जिस प्रकार,

G O N E
+2 –3 +2 –3
I L P B

उसी प्रकार,

C R I B
+2 –3 +2 –3
E O K Y

197. If SUN is coded as NUS and TOP is coded as POT, then which is the last letter in the code for the word FUR?
यदि SUN को NUS के रूप में लिखा जाता है और TOP को POT के रूप में लिखा जाता है, तो FUR कोड में अंतिम अक्षर-होगा?

(a) F (b) U
(c) R (d) E

MP Police Constable Exam- 14 August-2023 Shift-2

Ans. (a) : जिस प्रकार,

1 2 3 3 2 1
S U N ⟶ N U S

तथा

1 2 3 3 2 1
T O P ⟶ P O T

उसी प्रकार,

1 2 3 3 2 1
F U R ⟶ R U F

अतः उपर्युक्त से स्पष्ट है कि FUR कोड में अंतिम अक्षर 'F' होगा।

198. In a certaion code 'WATER' is coded as 'DZGVI'. How 'COLOUR' written in same code ?
एक कोड भाषा में 'WATER' को 'DZGVI' को किया जाता हैं। उसी कोड में 'COLOUR' को किस प्रकार लिखा जायेगा।

(a) XMVJVI (b) XLFLOI
(c) XLOLFI (d) XLOIFL

MP Police Constable Exam- 3 Sep-2023 Shift-1

Ans. (c) : प्रश्नानुसार,

W A T E R
D Z G V I ← (विपरीत)

उसी प्रकार,

C O L O U R
X L O L F I ← (विपरीत)

199. Select the option that is related to the third term in the same way as the second term is related to the first term.
उस विकल्प का चयन करें जो तीसरे पद से उसी प्रकार संबंधित है जैसे दूसरा पद पहले पद से संबंधित है।
BE : DC :: JM : ?

(a) LK (b) IK
(c) KJ (d) KL

MP Police Constable Exam- 27 August-2023 Shift-2

Ans. (a) : जिस प्रकार,

B E D C
–1
+1

उसी प्रकार,

J M L K
–1
+1

अतः ? = LK

200. In a certain code SIKKIM is written as THLJJL. How is MANIPUR written in that code?
किसी खास कोड में, SIKKIM को THLJJL लिखा जाता है, तो उस कोड में MANIPUR को कैसे लिखा जायेगा?

(a) NZOHQTQ (b) NZOJQTQ
(c) NBOHQTQ (d) NZOHQTS

MP Police Constable Exam 23 July 2016 - 9:am

Ans : (d) जिस प्रकार,

S I K K I M ⟶ T H L J J L
+1
-1
+1
-1
+1
-1

उसी प्रकार,

GET IT ON Google Play Best Study PDF के लिए हमारी App को Download करें "GK Trick By Nitin Gupta"

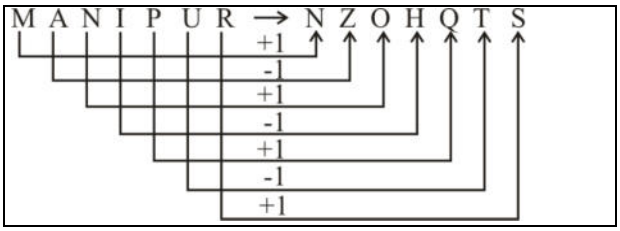

201. In a certain code, VICTORY is written as YLFWRUB, how is SUCCESS written
किसी खास कोड में, VICTORY को YLFWRUB लिखा जाता है, तो उस कोड में SUCCESS को कैसे लिखा जायेगा?

(a) VXEEIVV (b) VXFFHVV
(c) VYEEIVV (d) VYFFHVV

MP Police Constable Exam 23 July 2016 - 9:am

Ans : (b) जिस प्रकार,

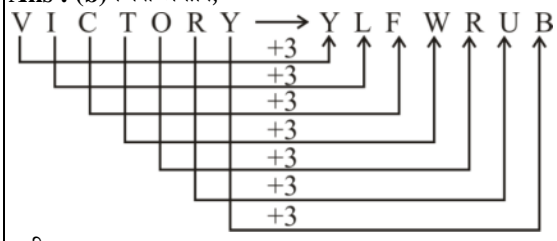

उसी प्रकार,

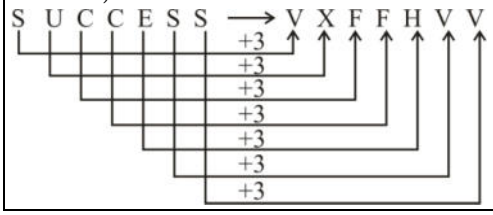

202. Select the option that is related to the third term in the same way as the second term is related to the first term.
AYWC : CWUE :: CTIF : ?
उस विकल्प का चयन करें जो तीसरे पद से उसी प्रकार संबंधित है जिस प्रकार दूसरा पद पहले पद से संबंधित है।

(a) ESGH (b) ERGH
(c) ERGI (d) ESGI

MP Police Constable Exam- 01 Feb-2022 Shift-1

Ans. (b) : जिस प्रकार, उसी प्रकार,

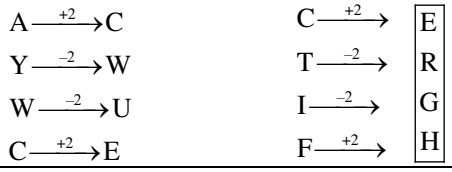

203. In a certain code language 'STRANDED' is written as 'XYWFSIJI'. How will 'MIGRANT' be written as in that language?
एक निश्चित कूट भाषा में 'STRANDED' को 'XYWFSIJI' के रूप में लिखा जाता है। उसी कूट भाषा में 'MIGRANT' को किस प्रकार लिखा जाएगा?

(a) RNLLGTY (b) KRBWFSY
(c) RNLWFSY (d) RNLWMGT

MP Police Constable Exam- 01 Feb-2022 Shift-1

Ans. (c) :

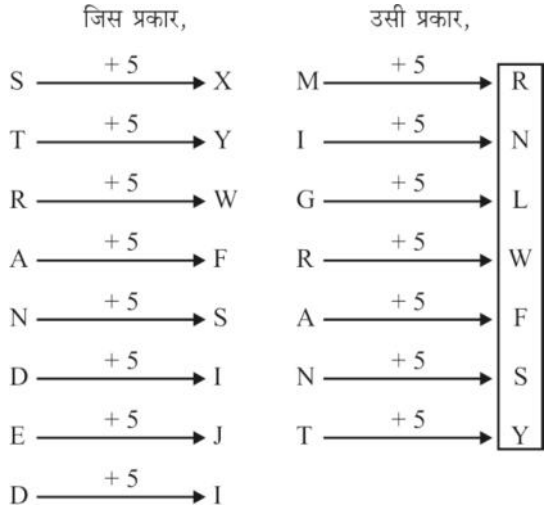

204. If ROBUST is coded as QNATRS in a certain language, which word would be coded as ZXCMP?
यदि किसी निश्चित भाषा में ROBUST को QNATRS के रूप में कोडित किया जाता है, तो किस शब्द को ZXCMP के रूप में कोडित किया जाएगा?

(a) YWBLO (b) YYBNO
(c) AWDLQ (d) AYDNQ

MP Police Constable Exam- 09 Feb-2022 Shift-1

Ans. (d) : जिस प्रकार,

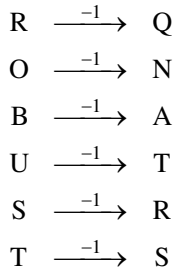

उसी प्रकार,

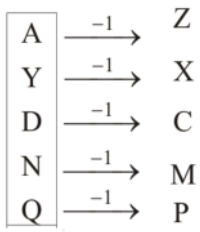

205. If in a certain language, UTENSIL is coded as WVGPUKN, which word would be coded as DMSFXG?/यदि एक निश्चित भाषा में, UTENSIL को WVGPUKN के रूप में कोडित किया जाता है, तो एक शब्द को DMSFXG के रूप में कोडित किया जाएगा?

(a) BKQEVE (b) BKQDWE
(c) BKQDWF (d) BKQDVE

MP Police Constable Exam- 02 Feb-2022 Shift-1

GET IT ON Google Play Best Study PDF के लिए हमारी App को Download करें "GK Trick By Nitin Gupta"

Ans. (d) : जिस प्रकार,

U $\xrightarrow{+2}$ W

T $\xrightarrow{+2}$ V

E $\xrightarrow{+2}$ G

N $\xrightarrow{+2}$ P

S $\xrightarrow{+2}$ U

I $\xrightarrow{+2}$ K

L $\xrightarrow{+2}$ N

उसी प्रकार,

B $\xrightarrow{+2}$ D

K $\xrightarrow{+2}$ M

Q $\xrightarrow{+2}$ S

D $\xrightarrow{+2}$ F

V $\xrightarrow{+2}$ X

E $\xrightarrow{+2}$ G

206. If in a symbolic language 'BEAUTIFUL' is written as 'CDOGHJKMN' then 'LEAF' will be written in the same language as?
यदि किसी सांकेतिक भाषा में 'BEAUTIFUL' को 'CDOGHJKMN' लिखा जाता है तो 'LEAF' उसी भाषा में किस प्रकार लिखा जाएगा ?

(a) NDOK (b) KNND
(c) ODNK (d) DKON

MP Police Constable Exam- 8 Jan-2022 Shift-2

Ans. (a) : जिस प्रकार,

B E A U T I F U L
↓ ↓ ↓ ↓ ↓ ↓ ↓ ↓ ↓
C D O G H J K M N

उपरोक्त कोडों का प्रयोग करने पर,

L E A F
↓ ↓ ↓ ↓
N D O K

207. If in a symbolic language 'WORLD' is written 'GICMA' then 'WORD' will be written in the same language as?
यदि किसी सांकेतिक भाषा में 'WORLD' को 'GICMA' लिखा जाए तो 'WORD' को उसी भाषा में लिखा जाएगा जिसमें?

(a) LORD (b) ORLD
(c) ROLD (d) GICA

MP Police Constable Exam- 8 Jan-2022 Shift-2

Ans. (d) : जिस प्रकार,

W O R L D
↓ ↓ ↓ ↓ ↓
G I C M A

उपरोक्त कोड का प्रयोग करने पर

W O R D
↓ ↓ ↓ ↓
G I C A

208. Select the option that is related to the third term in the same way as the second term is related to the first term./उस विकल्प का चयन करें जो तीसरे पद से उसी प्रकार संबंधित है जिस प्रकार दूसरा पद पहले पद से संबंधित है।
ROSE : ORES :: FILE : ?

(a) IFLE (b) IEFL
(c) IFEL (d) IELF

MP Police Constable Exam- 8 Jan-2022 Shift-2

Ans. (c) : ROSE : ORES : : FILE

जिस प्रकार,

R O S E
O R E S

उसी प्रकार,

F I L E
I F E L

209. Select the option that is related to the third term in the same way as the second term is related to the first term.
उस विकल्प का चयन करें जो तीसरे पद से उसी प्रकार संबंधित है जैसे दूसरा पद पहले पद से संबंधित है।
CEGI : IKMO :: LNPR : ?

(a) RTUV (b) RTVW
(c) RTVT (d) RTVX

MP Police Constable Exam- 8 Jan-2022 Shift-2

Ans. (d) : जिस प्रकार,

C E G I
+6 +6 +6 +6
I K M O

उसी प्रकार,

L N P R
+6 +6 +6 +6
R T V X

अतः ? = RTVX

210. If in a certain language, UTENSIL is coded as WVGPUKN, which word would be coded as DMSFXG?
यदि एक निश्चित भाषा में, UTENSIL को WVGPUKN के रूप में कोडित किया जाता है, तो DMSFXG किस शब्द के रूप में कोडित किया जाएगा?

(a) BARED (b) BRAED
(c) BREAD (d) BRADE

MP Police Constable Exam- 8 Jan-2022 Shift-2

Ans. (*) : जिस प्रकार,

U T E N S I L
+2 +2 +2 +2 +2 +2 +2
W V G P U K N

उसी प्रकार,

D M S F X G
+2 +2 +2 +2 +2 +2
F O U H Z I

GET IT ON Google Play Best Study PDF के लिए हमारी App को Download करें "GK Trick By Nitin Gupta"

211. Select the option that is related to the third term in the same way as the second term is related to the first term.
उस विकल्प का चयन करें जो तीसरे पद से उसी प्रकार संबंधित है जिस प्रकार दूसरा पद पहले पद से संबंधित है।

PS : MV : : GJ : ?

(a) EM (b) DN
(c) EN (d) DM

MP Police Constable Exam- 10 Jan -2022 Shift-2

Ans. (d) : जिस प्रकार,

$P \xrightarrow{-3} M$
$S \xrightarrow{+3} V$

उसी प्रकार,

$G \xrightarrow{-3} \boxed{D}$
$J \xrightarrow{+3} \boxed{M}$

212. Select the option that is related to the third term in the same way as the second term is related to the first term.
उस विकल्प का चयन करें जो तीसरे पद से उसी प्रकार संबंधित है जैसे दूसरा पद पहले पद से संबंधित है।

FKLM : BNJN : : HPRS : ?

(a) DSPR (b) DSPS
(c) DSPT (d) DSPU

MP Police Constable Exam- 10 Jan -2022 Shift-2

Ans. (c) : जिस प्रकार, उसी प्रकार,

$F \xrightarrow{-4} B$ $H \xrightarrow{-4} \boxed{D}$
$K \xrightarrow{+3} N$ $P \xrightarrow{+3} \boxed{S}$
$L \xrightarrow{-2} J$ $R \xrightarrow{-2} \boxed{P}$
$M \xrightarrow{+1} N$ $S \xrightarrow{+1} \boxed{T}$

213. Select the letter-cluster that is related to the third letter cluster in the same way as the second letter-cluster is related to the first letter-cluster.
उस अक्षर-समूह का चयन करें जो तीसरे अक्षर-समूह से उसी प्रकार संबंधित है जैसे दूसरा अक्षर-समूह, पहले अक्षर' समूह से संबंधित है।

VXZ : JLN : : GIK : ?

(a) QSO (b) QRS
(c) UWY (d) LMO

MP Police Constable Exam- 10 Jan -2022 Shift-2

Ans. (c) : जिस प्रकार,

$V \xrightarrow{-12} J$
$X \xrightarrow{-12} L$
$Z \xrightarrow{-12} N$

उसी प्रकार,

$G \xrightarrow{-12} \boxed{U}$
$I \xrightarrow{-12} \boxed{W}$
$K \xrightarrow{-12} \boxed{Y}$

214. If in a symbolic language 'NOIDA' is written 'STNIF' then 'MEERUT' will be written in the same language as ?
यदि किसी सांकेतिक भाषा में 'NOIDA' को 'STNIF' लिखा जाए, तो 'MEERUT' को उसी भाषा में किस प्रकार लिखा जाएगा?

(a) QIIVYX (b) RJJWZV
(c) RJJWZY (d) RIIVYX

MP Police Constable Exam- 10 Jan -2022 Shift-2

Ans. (c) : जिस प्रकार, उसी प्रकार,

$N \xrightarrow{+5} S$ $M \xrightarrow{+5} \boxed{R}$
$O \xrightarrow{+5} T$ $E \xrightarrow{+5} \boxed{J}$
$I \xrightarrow{+5} N$ $E \xrightarrow{+5} \boxed{J}$
$D \xrightarrow{+5} I$ $R \xrightarrow{+5} \boxed{W}$
$A \xrightarrow{+5} F$ $U \xrightarrow{+5} \boxed{Z}$
$T \xrightarrow{+5} \boxed{Y}$

215. If in a symbolic language 'PILOT' is written 'MFILQ' then 'TRAIN' will be written in the same language as ?
यदि किसी सांकेतिक भाषा में 'PILOT' को 'MFILQ' लिखा जाए तो 'TRAIN' को उसी भाषा में किस प्रकार लिखा जाएगा ?

(a) QOXFK (b) QUXLK
(c) QODLK (d) QVDFK

MP Police Constable Exam- 10 Jan -2022 Shift-2

Ans. (a) : जिस प्रकार, उसी प्रकार,

$P \xrightarrow{-3} M$ $T \xrightarrow{-3} \boxed{Q}$
$I \xrightarrow{-3} F$ $R \xrightarrow{-3} \boxed{O}$
$L \xrightarrow{-3} I$ $A \xrightarrow{-3} \boxed{X}$
$O \xrightarrow{-3} L$ $I \xrightarrow{-3} \boxed{F}$
$T \xrightarrow{-3} Q$ $N \xrightarrow{-3} \boxed{K}$

216. If CLINIC is coded as ENKPKE, then how is DOCTOR coded?
यदि CLINIC को ENKPKE से कोडित किया जाता है, तो DOCTOR को कैसे कोडित किया जाता है?

(a) FQEUQT (b) FREVRT
(c) FQEUQS (d) FQEVQT

MP Police Constable Exam- 26 July-2016 - 9: am

Ans : (d) जिस प्रकार,

C L I N I C
+2 +2 +2 +2 +2 +2
E N K P K E

उसी प्रकार,

D O C T O R
+2 +2 +2 +2 +2 +2
F Q E V Q T

217. In a certain code 'SCRIPT' is written a 'TCQIQT'. How is 'DIGEST' written in the same code?

GET IT ON Google Play Best Study PDF के लिए हमारी App को Download करें "GK Trick By Nitin Gupta"

किसी खास कोड में, 'SCRIPT' को लिखा जाता है 'TCQIQT'। उस कोड में 'DIGEST' को कैसे लिखा जाता है?

(a) EIGHT (b) TIHETT
(c) EIFETT (d) TIFETT

MP Police Constable Exam 19 July 2016 - 9:am

Ans : (c) जिस प्रकार,

S	C	R	I	P	T
+1↓	↓	↓–1	↓	↓+1	↓
T	C	Q	I	Q	T

उसी प्रकार,

D	I	G	E	S	T
+1↓	↓	↓–1	↓	↓+1	↓
E	I	F	E	T	T

218. If in a certain coded language HOUSE is coded as IPVTF, then BZQQNL will be coded as
यदि एक कूट भाषा में HOUSE को IPVTF लिखा जाता है, तो उसी कूट भाषा में BZQQNL होगा

(a) CARROM (b) CASSON
(c) AXPPMN (d) AYRRMN

MP Police Constable Recruitment (Second)Test - 2013

Ans. (a) : जिस प्रकार,

H $\xrightarrow{+1}$ I
O $\xrightarrow{+1}$ P
U $\xrightarrow{+1}$ V
S $\xrightarrow{+1}$ T
E $\xrightarrow{+1}$ F

उसी प्रकार,

B $\xrightarrow{+1}$ C
Z $\xrightarrow{+1}$ A
Q $\xrightarrow{+1}$ R
Q $\xrightarrow{+1}$ R
N $\xrightarrow{+1}$ O
L $\xrightarrow{+1}$ M

219. Select the letter-cluster that is related to the third letter-cluster in the same way as the second letter-cluster is related to the first letter-cluster.
उस अक्षर-समूह का चयन करें जो तीसरे अक्षर-समूह से उसी प्रकार संबंधित है जैसे दूसरा अक्षर-समूह, पहले अक्षर-समूह से संबंधित है।

EJOT : VQLG :: BGLQ : ?

(a) ZUPK (b) AFKP
(c) AEIM (d) YTOJ

MP Police Constable Exam- 21 August-2023 Shift-3

Ans. (d) : जिस प्रकार,

E J O T ↓ ↓ ↓ ↓ विपरीत अक्षर
V Q L G

उसी प्रकार,

B G L Q ↓ ↓ ↓ ↓ विपरीत अक्षर
Y T O J

अतः ? = YTOJ

220. Select the option that is related to the third term in the same way as the second term is related to the first term.
उस विकल्प का चयन करें जो तीसरे पद से उसी प्रकार संबंधित है जिस प्रकार दूसरा पद पहले पद से संबंधित है।

DD : GH :: MM : ?

(a) OP (b) UV
(c) PQ (d) WX

MP Police Constable Exam- 21 August-2023 Shift-3

Ans. (c) : जिस प्रकार,

D D G H
+3
+4

उसी प्रकार,

M M P Q
+3
+4

अतः ? = PQ

221. What should come in place of question mark (?) in the following question?
निम्नलिखित प्रश्न में प्रश्न चिह्न (?) के स्थान पर क्या मान आना चाहिए?

AZ : BY :: ? : IR

(a) HI (b) HS
(c) HQ (d) OP

MP Police Constable Exam- 21 August-2023 Shift-3

Ans. (b) : जिस प्रकार,

A Z B Y
+1
–1

उसी प्रकार,

H S I R
+1
–1

अतः ? = HS

222. In a certain code language, if the word HANDLE is coded as ADEHNL and HAMPER is coded as APRHME, then how is the word REGION coded in that language?
किसी निश्चित कूट भाषा में, यदि शब्द HANDLE को ADEHNL कूटित करते हैं और HAMPER को APRHME कूटित करते हैं, तो उस भाषा में शब्द REGION को कैसे कूटित किया जाएगा?

(a) RINGEO (b) GRINEO
(c) EINRGO (d) EORING

MP Police Constable Exam- 21 August-2023 Shift-3

GET IT ON Google Play Best Study PDF के लिए हमारी App को Download करें "GK Trick By Nitin Gupta"

Ans. (c) : जिस प्रकार,

1 2 3 4 5 6 → 2 4 6 1 3 5

H A N D L E → A D E H N L

तथा

1 2 3 4 5 6 → 2 4 6 1 3 5

H A M P E R → A P R H M E

उसी प्रकार,

1 2 3 4 5 6 → 2 4 6 1 3 5

R E G I O N → E I N R G O

223. If 'SYSTEM' is written as 'RXRSDL', how can 'CORRECT' be written in that code?
यदि 'SYSTEM' को 'RXRSDL' लिखा जाता है, तो 'CORRECT' को उसी कोड में कैसे लिखा जा सकता है?

(a) BNQQDBS (b) BQQNDBS
(c) BNQQBDS (d) BNQDQBS

MP Police Constable Exam- 21 August-2023 Shift-3

Ans. (a) : जिस प्रकार,

S Y S T E M
−1 −1 −1 −1 −1 −1
R X R S D L

उसी प्रकार,

C O R R E C T
−1 −1 −1 −1 −1 −1 −1
B N Q Q D B S

224. In a code language if VERY is written as UDQX, then in the same language how will you write the word URGENT?
किसी सांकेतिक भाषा में अगर VERY को UDQX के रूप में लिखा जाता है, तो उसी भाषा में URGENT को कैसे लिखा जाएगा?

(a) TMSQFD (b) MSQTFD
(c) QFDTMS (d) TQFDMS

MP Police Constable Exam- 21 August-2023 Shift-3

Ans. (d) : जिस प्रकार,

V E R Y
−1 −1 −1 −1
U D Q X

उसी प्रकार,

U R G E N T
−1 −1 −1 −1 −1 −1
T Q F D M S

225. In a code language, SEDATIVE is coded as ATDESEVI. How would PERSONAL be coded in that language?
किसी कूट भाषा में, SEDATIVE को ATDESEVI लिखा जाता है। उसी कूट भाषा में PERSONAL को क्या लिखा जाएगा?

(a) OSREPLAN (b) SOPERLAN
(c) SOREPLAN (d) SOERPANL

MP Police Constable Exam- 21 August-2023 Shift-2

Ans. (c) : जिस प्रकार,

1 2 3 4 5 6 7 8 → 4 5 3 2 1 8 7 6

S E D A T I V E → A T D E S E V I

उसी प्रकार,

1 2 3 4 5 6 7 8 → 4 5 3 2 1 8 7 6

P E R S O N A L → S O R E P L A N

226. If THOUGHT is coded as THGUOHT then THROAT will be coded as?
यदि THOUGHT को THGUOHT लिखा जाता है, तो उसी कोड में THROAT को कैसे लिखा जाएगा।

(a) TAROHT (b) TAORTH
(c) TAROHH (d) TAORHT

MP Police Constable Exam- 21 August-2023 Shift-2

Ans. (d) : जिस प्रकार,

1 2 3 4 5 6 7 → 7 6 5 4 3 2 1

T H O U G H T → T H G U O H T

उसी प्रकार,

1 2 3 4 5 6 → 6 5 4 3 2 1

T H R O A T → T A O R H T

अतः THROAT = TAORHT

227. In a code language, FRIEND is written as GQJDOC. How will PEACE be written in that language?
एक कूट भाषा में FRIEND को GQJDOC लिखा जाता है। इस कूट भाषा में PEACE को कैसे लिखा जाएगा?

(a) QDBDF (b) ODBBF
(c) QFBBF (d) QDBBF

MP Police Constable Exam- 21 August-2023 Shift-2

Ans. (d) : जिस प्रकार,

F R I E N D
+1 −1 +1 −1 +1 −1
G Q J D O C

उसी प्रकार,

P E A C E
+1 −1 +1 −1 +1
Q D B B F

228. If EARTHQUAKE is coded as EKAUQHTRAE then ELECTORATE will be coded as?
यदि EARTHQUAKE को EKAUQHTRAE लिखा जा सकता है, तो ELECTORATE का कैसे लिखा जाएगा?

(a) ETAROELECT (b) EARTOTCELE
(c) ETAROTCELE (d) ETAROCTELE

MP Police Constable Exam- 20 August-2023 Shift-2

Ans. (c) : जिस प्रकार,

E A R T H Q U A K E → E K A U Q H T R A E

GET IT ON Google Play Best Study PDF के लिए हमारी App को Download करें "GK Trick By Nitin Gupta"

उसी प्रकार,

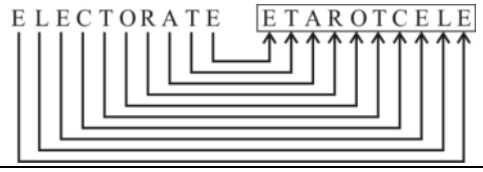

229. Select the letter-cluster that is related to the third letter-cluster in the same way as the second letter-cluster is related to the first letter-cluster./उस अक्षर-समूह का चयन करें जो तीसरे अक्षर-समूह से उसी प्रकार संबंधित है जैसे दूसरा अक्षर-समूह, पहले अक्षर-समूह से संबंधित है।

KIJM : QOPS :: IGHK : ?

(a) LMOR (b) OMNS
(c) KMOQ (d) OMNQ

MP Police Constable Exam- 20 August-2023 Shift-2

Ans. (d) : जिस प्रकार,

K $\xrightarrow{+6}$ Q
I $\xrightarrow{+6}$ O
J $\xrightarrow{+6}$ P
M $\xrightarrow{+6}$ S

उसी प्रकार,

I $\xrightarrow{+6}$ O
G $\xrightarrow{+6}$ M
H $\xrightarrow{+6}$ N
K $\xrightarrow{+6}$ Q

अतः ? = OMNQ

230. In a code language, PERMANENT is written as EPMRBENTN. How will TECHNICAL be written as in that language?

किसी कूट भाषा में, PERMANENT को EPMRBENTN लिखा जाता है। उसी कूट भाषा में TECHNICAL को क्या लिखा जाएगा?

(a) TEHCOCIAL (b) ETCHOCILA
(c) ETHCPCILA (d) ETHCOCILA

MP Police Constable Exam- 16 August-2023 Shift-2

Ans. (d) : जिस प्रकार,

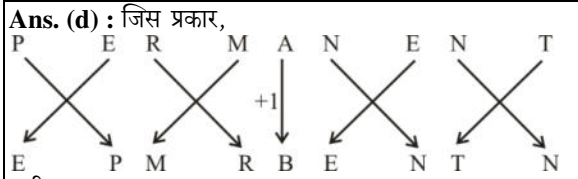

उसी प्रकार,

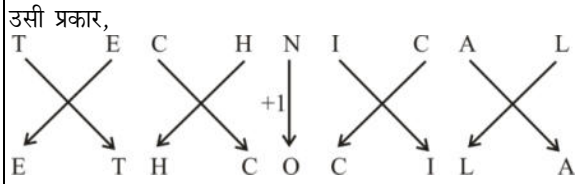

अतः TECHNICAL ⇒ ETHCOCILA

231. If BRAVE = APXRZ, then SALUTE = ?

यदि BRAVE = APXRZ, तब SALUTE = ?

(a) RIYQOY (b) YRIQOY
(c) RYIQOY (d) RYIQYO

MP Police Constable Exam- 16 August-2023 Shift-2

Ans. (c) : जिस प्रकार,

B $\xrightarrow{-1}$ A
R $\xrightarrow{-2}$ P
A $\xrightarrow{-3}$ X
V $\xrightarrow{-4}$ R
E $\xrightarrow{-5}$ Z

उसी प्रकार,

S $\xrightarrow{-1}$ R
A $\xrightarrow{-2}$ Y
L $\xrightarrow{-3}$ I
U $\xrightarrow{-4}$ Q
T $\xrightarrow{-5}$ O
E $\xrightarrow{-6}$ Y

232. In a code language, TEACHING is written as SDBDGHOH. How will BOOKWORM be written as in the language?

किसी कूट भाषा में, TEACHING को SDBDGHOH लिखा जाता है। उसी कूट भाषा में BOOKWORM को क्या लिखा जाएगा?

(a) ANPLXNNS (b) ANPLXPSL
(c) CPNJXPSL (d) ANPLVNSN

MP Police Constable Exam- 20 August-2023 Shift-2

Ans. (d) : जिस प्रकार,

T $\xrightarrow{-1}$ S
E $\xrightarrow{-1}$ D
A $\xrightarrow{+1}$ B
C $\xrightarrow{+1}$ D
H $\xrightarrow{-1}$ G
I $\xrightarrow{-1}$ H
N $\xrightarrow{+1}$ O
G $\xrightarrow{+1}$ H

उसी प्रकार,

B $\xrightarrow{-1}$ A
O $\xrightarrow{-1}$ N
O $\xrightarrow{+1}$ P
K $\xrightarrow{+1}$ L
W $\xrightarrow{-1}$ V
O $\xrightarrow{-1}$ N
R $\xrightarrow{+1}$ S
M $\xrightarrow{+1}$ N

233. In a code language, TROPICAL is written as PORTLACI. How Will DISTANCE be written in that language?

एक कूट भाषा में, TROPICAL को PORTLACI के रूप में लिखा गया है। उसी भाषा में DISTANCE को कैसे लिखा जाएगा?

(a) ISTSNAEF (b) TSIDECNA
(c) TSJDECAN (d) STJDECNA

MP Police Constable Exam- 20 August-2023 Shift-2

Ans. (b) : जिस प्रकार,

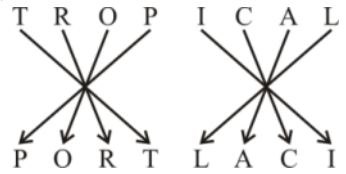

उसी प्रकार,

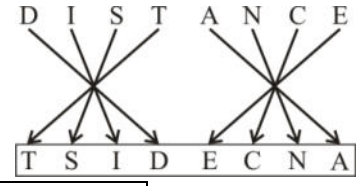

अतः ? = TSIDECNA

234. In a certain code, 'NOTATION' is coded as 'BVRROQLX' and 'SYMBOL' is coded as 'NAVMQE'. How is 'ARGUMENT' coded in that code?

GET IT ON Google Play Best Study PDF के लिए हमारी App को Download करें "GK Trick By Nitin Gupta"

किसी निश्चित कूट में, 'NOTATION' को कूटित करते है 'BVRRROQLX' और 'SYMBOL' को कूटित करते हैं 'NAVMQE'। उस कूट में 'ARGUMENT' को कैसे कूटित किया जाएगा?

(a) UOFNVHSB (b) UPHQTEOW
(c) VIUEUPHQ (d) VHSBUOFN

MP Police Constable Exam- 20 August-2023 Shift-2

Ans. (c) : जिस प्रकार,

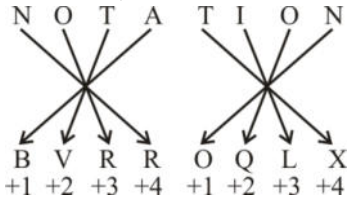

और

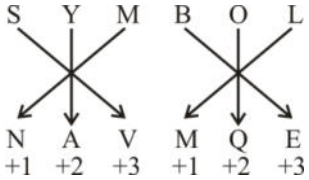

उसी प्रकार,

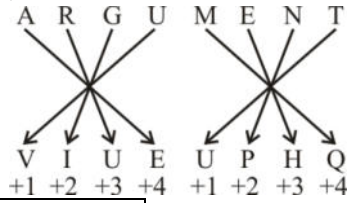

अतः ? = VIUEUPHQ

235. If 'SLEEP' is encrypted as 'XMKKB', 'SPEAR' is encrypted as 'XBKOY' and 'PULL' as 'BFMM' how will you encrypt 'PLEASURE'?/यदि 'SLEEP' को 'XMKKB' से एनक्रिप्ट किया गया है, 'SPEAR' को 'XBKOY' से एनक्रिप्ट किया गया है और 'PULL' को 'BFMM' से, तब आप 'PLEASURE' को कैसे एनक्रिप्ट करेंगे?

(a) XYKBMOKF (b) KOXFYKBM
(c) BKMOXEKY (d) BMKOXFYK

MP Police Constable Exam- 20 July-2016 - 9: am

Ans : (d) प्रश्न में दिया गया है–
जिस प्रकार

S→X	S→X	P→B
L→M	P→B	U→F
E→K	E→K	L→M
E→K	A→O	L→M
P→B	R→Y	

उसी प्रकार, उपर्युक्त कोड से,

PLEASURE = BMKOXFYK

236. In a certain code language INSERT is coded as JOTFSU then in that language PENETRATE is coded as:/किसी खास सांकेतिक भाषा में, INSERT का कोड JOTFSU है तो उसी भाषा में, PENETRATE का कोड होगा

(a) QFMFUSBUF (b) QFOFUSBUG
(c) QFOFVSBUF (d) QFOFUSBUF

MP Police Constable Exam- 20 July-2016 - 9: am

Ans : (d) जिस प्रकार,

I $\xrightarrow{+1}$ J
N $\xrightarrow{+1}$ O
S $\xrightarrow{+1}$ T
E $\xrightarrow{+1}$ F
R $\xrightarrow{+1}$ S
T $\xrightarrow{+1}$ U

उसी प्रकार

P $\xrightarrow{+1}$ Q
E $\xrightarrow{+1}$ F
N $\xrightarrow{+1}$ O
E $\xrightarrow{+1}$ F
T $\xrightarrow{+1}$ U
R $\xrightarrow{+1}$ S
A $\xrightarrow{+1}$ B
T $\xrightarrow{+1}$ U
E $\xrightarrow{+1}$ F

अतः PENETRATE का कोड QFOFUSBUF होगा।

237. If TIME is coded as UJNF, how is WASTE coded?
यदि TIME को UJNF से कोडित किया जाता है, तो WASTE को कैसे कोडित किया जाता है?

(a) XBTUF (b) XCUVA
(c) XDUXE (d) XEWXF

MP Police Constable Exam- 18 July-2016 - 9: am

Ans : (a) जिस प्रकार,

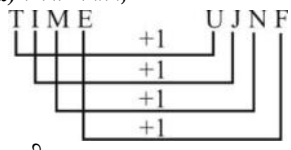

उसी प्रकार,

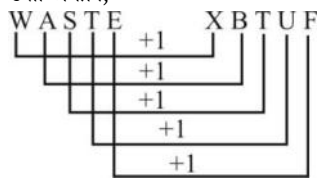

अतः ? ⇒ XBTUF

238. If STAGE is coded as UVCIG, how is HERO coded?
यदि STAGE को UVCIG से कोडित किया जाता है, तो HERO को कैसे कोडित किया जाता है?

(a) JKOQ (b) JGTQ
(c) JSNP (d) DSPQ

MP Police Constable Exam- 18 July-2016 - 9: am

Ans : (b) जिस प्रकार,

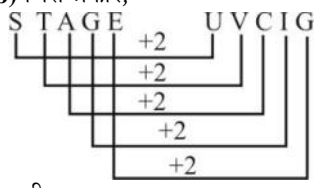

उसी प्रकार,

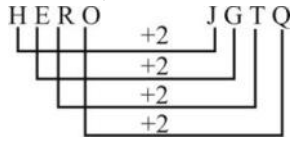

अतः ? ⇒ JGTQ

239. If ABCDEF is coded as ZYXWVU then what will be the code for FERRARI?

GET IT ON Google Play Best Study PDF के लिए हमारी App को Download करें "GK Trick By Nitin Gupta"

यदि ABCDEF को ZYXWVU से कोडित किया जाता है, तो FERRARI के लिये क्या कोड होगा?

(a) UVIIZIR (b) IZUUVUM
(c) UIVVMVZ (d) MUZZVZ

MP Police Constable Exam 17 July 2016 - 9:am

Ans : (a) जिस प्रकार,

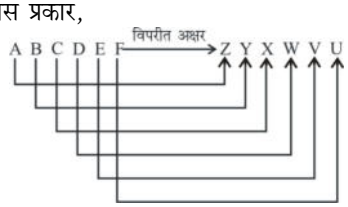

उसी प्रकार,

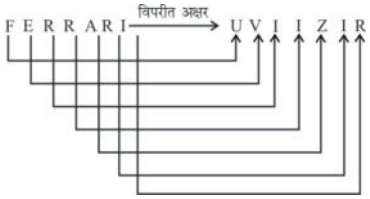

अतः ? ⇒ UVIIZIR

240. In the following question, there is certain relationship between the last two terms. Choose the first term from the following options which has a similar kind of relation with the second term.

निम्न प्रश्न में, अंतिम दो पदों के बीच किसी प्रकार से कोई संबंध है। निम्न विकल्पों में से पहला पद चुनिये जिसका दूसरे पद के साथ उसी प्रकार का संबंध है।

? : DURXQG : : POLITY : SROLWB

(a) AROUND (b) SHOULD
(c) ARMOUR (d) GROUND

MP Police Constable Exam- 1 August-2016, 3:pm

Ans : (a) जिस प्रकार,

P	O	L	I	T	Y
+3↓	+3↓	+3↓	+3↓	+3↓	+3↓
S	R	O	L	W	B

उसी प्रकार, विकल्प (a) से,

A	R	O	U	N	D
+3↓	+3↓	+3↓	+3↓	+3↓	+3↓
D	U	R	X	Q	G

241. If FICTION is coded as CIFTNOI, what will SEMINAR be coded as?

यदि FICTION को CIFTNOI से कोडित किया जाता है, तो SEMINAR को कैसे कोडित किया जायेगा?

(a) MESIRAN (b) MESIRAM
(c) MISERAN (d) MESINAR

MP Police Constable Exam- 1 August-2016, 3:pm

Ans : (a) जिस प्रकार,

उसी प्रकार

अतः ? = MESIRAN होगा।

242. In a certain code language MATHS is coded as LZSGR then in that language GEOGRAPHY is coded as:

किसी खास सांकेतिक भाषा में MATHS, को LZSGR से कोडित किया जाता है तो उस भाषा में GEOGRAPHY को ऐसे कोडित किया जायेगा:

(a) FDNFSZOGX (b) FDNFQZOGX
(c) FDPFQZOGX (d) FDNFQZQGX

MP Police Constable Exam- 1 August-2016, 3:pm

Ans : (b) जिस प्रकार

M $\xrightarrow{-1}$ L
A $\xrightarrow{-1}$ Z
T $\xrightarrow{-1}$ S
H $\xrightarrow{-1}$ G
S $\xrightarrow{-1}$ R

उसी प्रकार

G $\xrightarrow{-1}$ F
E $\xrightarrow{-1}$ D
O $\xrightarrow{-1}$ N
G $\xrightarrow{-1}$ F
R $\xrightarrow{-1}$ Q
A $\xrightarrow{-1}$ Z
P $\xrightarrow{-1}$ O
H $\xrightarrow{-1}$ G
Y $\xrightarrow{-1}$ X

GEOGRAPHY को FDNFQZOGX के रूप में कोडित किया जायेगा।

243. If MYSORE is coded as OREMYS, how is CRADLE coded?

यदि MYSORE को OREMYS से कोडित किया जाता है, तो CRADLE को कैसे कोडित किया जाता है?

(a) ELDARC (b) DLECRA
(c) CRAELD (d) ARCDLE

MP Police Constable Exam 24 July 2016 - 9:am

Ans : (b) जिस प्रकार,

M Y S O R E → O R E M Y S
1 2 3 4 5 6 4 5 6 1 2 3

उसी प्रकार,

C R A D L E → D L E C R A
1 2 3 4 5 6 4 5 6 1 2 3

होगा

244. In a certain code language SOLID is coded TPMJE as then in that language METALLIC is coded as:

किसी सांकेतिक भाषा में SOLID को TPMJE से कोडित किया जाता है तो उस भाषा में METALLIC को ऐसे कोडित किया जायेगा:

(a) NFUBMMJD (b) NFUBMMJB
(c) NFUCNNJD (d) NFUBNNJD

MP Police Constable Exam 17 July 2016 - 12:am

GET IT ON Google Play Best Study PDF के लिए हमारी App को Download करें "GK Trick By Nitin Gupta"

Ans. (a) जिस प्रकार,

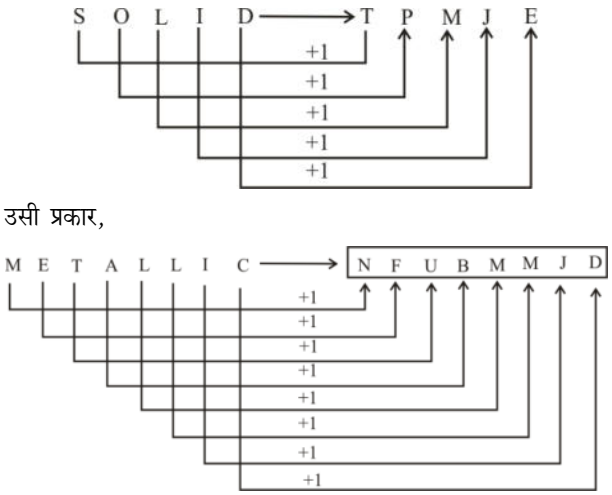

245. In the following question, there is certain relationship between the first two terms. Choose the fourth term from the following options which has a similar kind of relation with the third term.

निम्न प्रश्न में, पहले तो पदों के बीच किसी प्रकार से कोई संबंध है। निम्न विकल्पों में से चौथा पद चुनिये जिसका तीसरे पद के साथ उसी प्रकार का संबंध है।

LJH : KKI :: CIA : ?

(a) BJB (b) BBB
(c) DBB (d) CBZ

MP Police Constable Exam 17 July 2016 - 12:am

Ans. (a) जिस प्रकार,

$L \xrightarrow{-1} K$

$J \xrightarrow{+1} K$

$H \xrightarrow{+1} I$

उसी प्रकार,

$C \xrightarrow{-1} B$

$I \xrightarrow{+1} J$

$A \xrightarrow{+1} B$

अतः $\boxed{? = BJB}$ होगा।

246. If the code for PRACTICE is QSBDUJDF then what will be the code for CONTACT?

यदि PRACTICE के लिये कोड QSBDUJDF है तो CONTACT के लिये क्या कोड होगा?

(a) BDODPUV (b) DPOBDUV
(c) PDOBUDD (d) DPOUBDU

MP Police Constable Exam 17 July 2016 - 12:am

Ans. (d) जिस प्रकार,

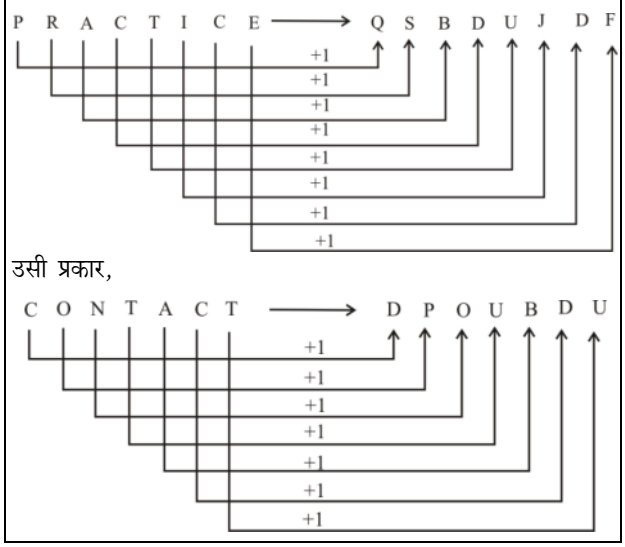

Type-3: शब्द समूहों की कोडिंग पर आधारित प्रश्न

247. If 'DIVISION' is encrypted as 'DVISIOIN', how is 'STATES' encrypted as?

यदि 'DIVISION' को 'DVISIOIN' से एनक्रिप्ट किया गया है, तब 'STATES' को कैसे एनक्रिप्ट किया जायेगा?

(a) SATETS (b) STAETS
(c) SATTES (d) SAETTS

MP Police Constable Exam 17 July 2016 - 9:am

Ans : (a) जिस प्रकार,

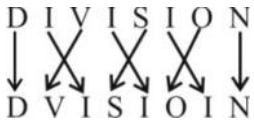

उसी प्रकार,

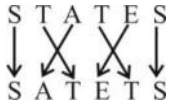

अतः $\boxed{? \Rightarrow SATETS}$

248. IF 'LPPHGLDWH' is encrypted as 'IMMEDIATE' how is 'WRSVHFUHW' encrypted as?

यदि 'LPPHGLDWH' को 'IMMEDIATE' से एनक्रिप्ट किया गया है, तब 'WRSVHFUHW' को कैसे एनक्रिप्ट किया जायेगा?

(a) YUVKIXKY (b) FAITHFUL
(c) TOPSBRASS (d) TOPSECRET

MP Police Constable Exam 17 July 2016 - 9:am

GET IT ON Google Play Best Study PDF के लिए हमारी App को Download करें "GK Trick By Nitin Gupta"

Ans : (d) जिस प्रकार,

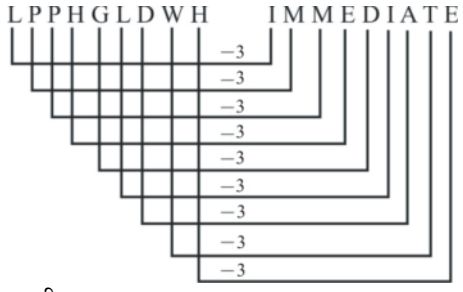

उसी प्रकार,

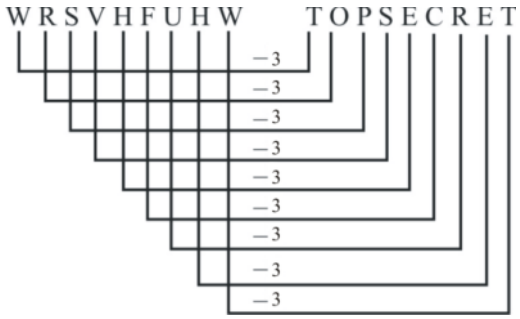

अतः ?=TOPSECRET

249. If 'WOMEN' is encrypted as 'OWMNE', how is 'NOTES' encrypted as?
यदि 'WOMEN' को 'OWMNE' से एनक्रिप्ट किया गया है, तब 'NOTES' को कैसे एनक्रिप्ट किया जायेगा?

(a) OTNES (b) NOETS
(c) SETON (d) ONTSE

MP Police Constable Exam 17 July 2016 - 9:am

Ans : (d) जिस प्रकार,

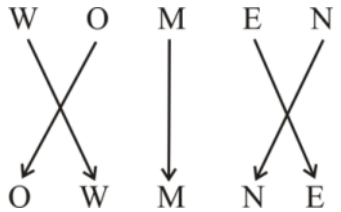

उसी प्रकार,

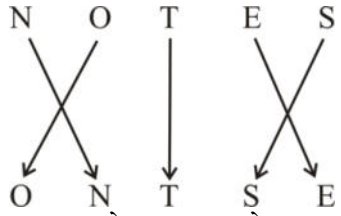

अतः NOTES का कोड ONTSE होगा।

250. Select the option that is related to the third term in the same way as the second term is related to the first term.
उस विकल्प का चयन करें जो तीसरे पद से उसी प्रकार संबंधित है जिस प्रकार दूसरा पद पहले पद से संबंधित है।
AEFG : DCIE :: JMPR : ?

(a) MKSP (b) MJSP
(c) MSKP (d) MSJP

MP Police Constable Exam- 20 August-2023 Shift-2

Ans. (a) : जिस प्रकार,

A $\xrightarrow{+3}$ D
E $\xrightarrow{-2}$ C
F $\xrightarrow{+3}$ I
G $\xrightarrow{-2}$ E

उसी प्रकार,

J $\xrightarrow{+3}$ M
M $\xrightarrow{-2}$ K
P $\xrightarrow{+3}$ S
R $\xrightarrow{-2}$ P

अतः ? = MKSP

251. In a certain code language. 'mee milk pic' means 'roses are yellow", 'nil dic' means 'white flowers' and 'pic muk dic' means 'flowers are fruits'. What is the code for 'white' in that language
एक विशेष कूट भाषा में 'mee milk pic' को 'roses are yellow', 'nil dic' को 'white flowers' और 'pic muk dic' को 'flowers are fruits' लिखा जाता है तो 'white' को क्या लिखा जायेगा

(a) muk (b) nil
(c) dic (d) pic

MP Police Constable Exam- 26 August-2023 Shift-3

Ans. (b) : दिए गए कूट–

mee milk pic ⟶ roses are yellow
nil [dic] ⟶ white [flowers]
pic muk [dic] ⟶ [flowers] are fruits

अतः 'white' का कोड 'nil' है।

252. In a certain code, 'go home' is written as 'ta na' and 'nice little home' is written as 'na ja pa'. How is 'go' written in that code ?
किसी कोड भाषा में 'go home' को 'ta na' और 'nice little home' को 'na ja pa' लिखा जाता है तो उसी कोड में 'go' को कैसे लिखा जाएगा ?

(a) ta (b) na
(c) ja (d) na or ta

MP Police Constable Exam- 23 August-2023 Shift-3

Ans. (a) : प्रश्नानुसार,

go [home] ⟶ ta [na]
nice little [home] ⟶ [na] ja pa

अतः उपर्युक्त से 'go' का कूट 'ta' होगा।

253. In a certain coded language, 'ilm pa nob' is written as 'look at stars', 'het jur pa' is written as 'stars glowing light' and 'kas ho jur' is written as 'light of sun'. How is 'glowing' written in this code language?
एक खास कोड की भाषा में, 'ilm pa nob' का कोड है 'look at stars' तथा 'het jur pa' का कोड है 'stars glowing light' और 'kas ho jur' का कोड है 'light of sun'। उसी भाषा में 'glowing' का कोड क्या होगा?

(a) pa (b) jur
(c) het (d) pa or jur

MP Police Constable Exam- 9 Sep-2023 Shift-2

GET IT ON Google Play Best Study PDF के लिए हमारी App को Download करें "GK Trick By Nitin Gupta"

Ans. (c) : दिया है-

ilm (pa) nob ⟶ look at (stars)
het [jur] (pa) ⟶ (stars) glowing [light]
kas ho [jur] ⟶ [light] of sun

उपर्युक्त से स्पष्ट है कि, glowing का कोड 'het' होगा।

254. In a certain code language "We are happy" is coded as "du lt my" , "Children are going" is coded as "vx my lr" and "All children are happy" is coded as "mt lr du my".
What is the code for 'children like red' in that code language?
एक निश्चित कोड भाषा में "We are happy" को "du lt my", "Children are going" को "vx my lr" तथा "All children are happy" को "mt lr du my" कोड किया जाता हैं।
उसी कोड भाषा में 'children like red' को किस प्रकार कोड किया जायेगा?

(a) gm qt lr (b) qt lr my
(c) gm mt lr (d) lr vx sq

MP Police Constable Exam- 11 Sep-2023 Shift-2

Ans. (a) : प्रश्नानुसार,
दिए गए कोड से-

We (are) [happy] ⟶ [du] lt (my)
Children (are) going ⟶ vx (my) [lr]
All children (are) [happy] ⟶ mt [lr] [du] (my)

अतः उपर्युक्त कोड से स्पष्ट है कि children like red का कोड gm qt lr होगा।
अतः विकल्प (a) सही उत्तर होगा।

255. In a certain code language "We are happy" is coded as "du lt my" , "Children are going" is coded as "vx my lr" and "All children are happy" is coded as "mt lr du my".
What is the code for 'happy' in that code language?
एक निश्चित कोड भाषा में "We are happy" को "du lt my", "Children are going" को "vx my lr" तथा "All children are happy" को "mt lr du my" कोड किया जाता हैं।
उसी कोड भाषा में 'happy' का कोड क्या होगा?

(a) lt (b) du or vx
(c) my (d) du

MP Police Constable Exam- 10 Sep-2023 Shift-2

Ans. (d) : प्रश्नानुसार,

We (are) [happy] ⟶ [du] lt (my)
Children (are) going ⟶ vx (my) [lr]
All children (are) [happy] ⟶ mt [lr] [du] (my)

अतः स्पष्ट है कि 'happy' का कोड 'du' होगा।

256. In a certain code language "We are happy" is coded as "du lt my", "Children are going" is coded as "vx my lr" and "All children are happy" is coded as "mt lr du my".
What is the code for 'children live happy' in that code language?
एक निश्चित कोड भाषा में "We are happy" को "du lt my", "Children are going" को "vx my lr" तथा "All children are happy" को "mt lr du my" कोड किया जाता हैं।
उसी कोड भाषा में 'children live happy' को किस प्रकार कोड किया जायेगा?

(a) gm du du (b) vx lr du
(c) lr du mx (d) lr my du

MP Police Constable Exam- 11 Sep-2023 Shift-3

Ans. (c) : दिया गया कोड भाषा निम्नवत् है-

We (are) [happy] ⟶ [du] lt (my)
Children (are) going ⟶ vx (my) [lr]
All children (are) [happy] ⟶ mt [lr] [du] (my)

अतः Children ↓ lr, Live ↓ mx, Happy ↓ du

∵ प्रश्न में Live का कोड नहीं है।
∴ विकल्प के अनुसार Live का कोड mx है।
अतः Children live happy का कोड = lr du mx होगा।

257. Here are some words translated from artificial language.
teapl hum means Red Pen
pim teapl means Mark Red
gora lant means Green leaf
Which code could mean "Mark Green" in the same language?
यहां आर्टिफीसियल भाषा से अनुवादित कुछ शब्द दिए गए हैं।
teapl hum का अर्थ है Red Pen
pim teapl का अर्थ है Mark Red
gora lant का अर्थ है Green leaf
उसी भाषा में किस कोड का अर्थ "Mark Green" हो सकता है?

(a) hum gora (b) lant hum
(c) pim gora (d) teapl lant

MP Police Constable Exam- 11 Sep-2023 Shift-3

Ans. (c) : दिया गया है-

[teapl] hum ⟶ [Red] pen
pim [teapl] ⟶ mark [Red]
gora lant ⟶ Green leaf

उपर्युक्त आर्टिफीसियल भाषा के अवलोकन से स्पष्ट है कि-
teapl = Red
hum = pen
pim = mark
gora = green/Leaf
lant = Leaf/green
अतः Mark Green = Pim gora

258. Select the letter-cluster that is related to the third letter-cluster in the same way as the second letter-cluster is related to the first letter-cluster.

GET IT ON Google Play Best Study PDF के लिए हमारी App को Download करें "GK Trick By Nitin Gupta"

उस अक्षर-समूह का चयन करें जो तीसरे अक्षर –समूह से उसी प्रकार संबंधित है जैसे दूसरा अक्षर-समूह, पहले अक्षर-समूह से संबंधित है।

AZBY : CXDW :: EVFU : ?

(a) GTHS (b) GHTS
(c) GSTH (d) TGSH

MP Police Constable Exam- 18 August-2023 Shift-3

Ans. (a) : जिस प्रकार,

A $\xrightarrow{+2}$ C
Z $\xrightarrow{-2}$ X
B $\xrightarrow{+2}$ D
Y $\xrightarrow{-2}$ W

उसी प्रकार,

E $\xrightarrow{+2}$ G
V $\xrightarrow{-2}$ T
F $\xrightarrow{+2}$ H
U $\xrightarrow{-2}$ S

259. If in a certain code language, SHIFT is coded as RFFBO, then which word would be coded as LKUMB?

यदि एक निश्चित कूट भाषा में, SHIFT का कूट है RFFBO, तब किस शब्द का कूट LKUMB क्या हो सकता है?

(a) KIRIW (b) MLVNC
(c) KJVLA (d) MJVLC

MP Police Constable Exam- 18 August-2023 Shift-3

Ans. (a) : जिस प्रकार,

S H I F T
–1 –2 –3 –4 –5
R F F B O

उसी प्रकार,

L K U M B
–1 –2 –3 –4 –5
K I R I W

260. In a certain code Language, 'ELECTRIC' is written as 'FMFDUSJD'. How is 'NATIONAL' written in same code ?

एक निश्चित कोड भाषा में, 'ELECTRIC' को 'FMFDUSJD' लिखा जाता है। उसी कूट भाषा में 'NATIONAL' को किस प्रकार लिखा जाएगा?

(a) BOUJPOBM (b) OBUJOPBM
(c) OBUJPOBM (d) OBJUPOBM

MP Police Constable Exam- 1 Sep-2023 Shift-1

Ans. (c) : जिस प्रकार,

E L E C T R I C
+1 +1 +1 +1 +1 +1 +1 +1
F M F D U S J D

उसी प्रकार, विकल्प (c) से,

N A T I O N A L
+1 +1 +1 +1 +1 +1 +1 +1
O B U J P O B M

∴ विकल्प (c) सही है।

261. If 'BASKET' is written as 'TEKSAB', then, how can 'PILLOW' be written in that code?

यदि 'BASKET' को 'TEKSAB' लिखा जाता है तो 'PILLOW' का कैसे लिखा जाएगा?

(a) WOKLIP (b) WOLKIQ
(c) WPLLIP (d) WOLLIP

MP Police Constable Exam- 20 August-2023 Shift-3

Ans. (d) : जिस प्रकार,

B A S K E T T E K S A B

उसी प्रकार,

P I L L O W W O L L I P

262. In a code language, ASTRONOMY is written as SARTPONYM. How Will FENUGREEK be written as in that language?

एक कूट भाषा में, ASTRONOMY को SARTPONYM के रूप में लिखा गया है। उसी भाषा में FENUGREEK को कैसे लिखा जाएगा?

(a) UNEFGKEER (b) EFUNHKEER
(c) EFUNFERKE (d) EFUNHERKE

MP Police Constable Exam- 20 August-2023 Shift-1

Ans. (d) : जिस प्रकार,

A S T R O N O M Y
+1
S A R T P O N Y M

उसी प्रकार,

F E N U G R E E K
+1
E F U N H E R K E

263. In a code language, COMPUTER is written as OCREPMTU. How will DAUGHTER be written in the same language?

किसी कूट भाषा में, COMPUTER को OCREPMTU लिखा जाता है। उसी कूट भाषा DAUGHTER को क्या लिखा जाएगा?

(a) READTHGU (b) ADTHREGU
(c) ADREGUTH (d) ADERUGTH

MP Police Constable Exam- 20 August-2023 Shift-1

Ans. (c) : जिस प्रकार,

C O M P U T E R
O C R E P M T U

उसी प्रकार,

D A U G H T E R
A D R E G U T H

GET IT ON Google Play Best Study PDF के लिए हमारी App को Download करें "GK Trick By Nitin Gupta"

264. In a certain code language, 'DOME' is written as '8943' and 'MEAL' is written as '4321'. What group of letters can be formed for the code '38249' ?
एक निश्चित कूट भाषा में, 'DOME' को '8943' और 'MEAL' को '4321' लिखा जाता है। कोड '38249' के लिए अक्षरों का कौन-सा समूह बनाया जा सकता है ?

(a) EOADM (b) MEDOA
(c) EMDAO (d) EDAMO

MP Police Constable Exam- 27 August-2023 Shift-2

Ans. (d) : जिस प्रकार, तथा

D O M E → 8 9 4 3
M E A L → 4 3 2 1

उसी प्रकार उपर्युक्त कोड से–

3 8 2 4 9 → E D A M O

अतः विकल्प (d) सही उत्तर होगा।

265. In a certain code language, You are good means Lu Le La; They are palyers means Le Ne Me; He is good means La Si Su. Which is the word for Lu in that code language?
किसी खास कोड भाषा में, You are good का मतलब है Lu Le La; They are palyers का मतलब है Le Ne Me; He is good का मतलब है La Si Su। उसी कोड भाषा में Lu के लिए क्या शब्द है?

(a) Good (b) They
(c) He (d) You

MP Police Constable Exam 23 July 2016 - 9:am

Ans : (d) प्रश्नानुसार,

You are good = Lu Le La
They are players = Le Ne Me
He is good = La Si Su

अतः उसी कोड भाषा में Lu के लिए You शब्द है।

266. In a certain code language I am hungry means Ching Ling Lu; I eat fruits means Ling Li Mon; I am thirsty means Lu Su Ling. Which is the word for Am in that code language
किसी खास कोड भाषा में, I am hungry का मतलब है Ching Ling Lu; I eat fruits का मतलब है Ling Li Mon; I am thirsty का मतलब है Lu Su Ling । उसी कोड भाषा में Am के लिए क्या शब्द है?

(a) Ling (b) Ching
(c) Lu (d) Li

MP Police Constable Exam 23 July 2016 - 9:am

Ans : (c) प्रश्नानुसार,

I am hungry → Ching Ling Lu
I eat fruits → Ling Li Mon
I am thirsty → Lu Su Ling

उसी कोड में Am के लिए Lu शब्द है।

267. In a certain code language I love cricket means Liv Da Bin; I love music means Bin Liv Zo; I play music means Zo Bin Na. Which is the word for Cricket in that code language?
किसी खास कोड भाषा में, I love cricket का मतलब है Liv Da Bin; I love music का मतलब है Bin Liv Zo; I play music का मतलब है Zo Bin Na । उसी कोड भाषा में Cricket के लिए क्या शब्द है?

(a) Liv (b) Da
(c) Bin (d) Zo

MP Police Constable Exam 23 July 2016 - 9:am

Ans : (b) प्रश्नानुसार,

I love cricket → Liv Da Bin
I love music → Bin Liv Zo
I play music → Zo Bin Na

अतः उसी कोड भाषा में Cricket के लिए Da शब्द है।

268. In a certain code language, *sem cax hun ley* means *she is eating mangoes, lop hun dec* means *I like mangoes, kip sem cor ley* means *eating fruits is good*. Which is the word for *she* in that code language?
किसी खास कोड भाषा में *sem cax hun ley* का मतलब है *she is eating mangoes, lop hun dec* का मतलब है *I like mangoes, kip sem cor ley* का मतलब है *eating fruits is good* । उसी कोड भाषा में *she* के लिए क्या शब्द है?

(a) *Sem* (b) *cax*
(c) *hun* (d) *ley*

MP Police Constable Exam- 26 July-2016 - 9: am

Ans : (b)

Sem cax hun ley = she is eating mangoes
lop hun dec = I like mangoes
kip sem cor ley = eating fruits is good

अतः स्पष्ट है कि, Sem = is, Cax = She , hun = mangoes, ley = eating होगा।

269. In a certain code language, *lee levi pepe* means *all wear denim, pepe uno sf* mean *wear only pants, uno lee killer* means *all pants tear*. Which is the word for *levi* in that code language?
किसी खास कोड भाषा में *lee levi pepe* का मतलब है *all wear denim, pepe uno sf* का मतलब है *wear only pants, uno lee killer* का मतलब है *all pants tear* । उसी कोड भाषा में *levi* के लिए क्या शब्द है।

(a) wear (b) denim
(c) pant (d) all

MP Police Constable Exam- 26 July-2016 - 9: am

GET IT ON Google Play Best Study PDF के लिए हमारी App को Download करें "GK Trick By Nitin Gupta"

Ans : (b)

Lee Levi Pepe = all wear denim

Pepe uno sf = Wear only pants

Uno lee killer = all pants tear

अतः स्पष्ट है, Lee = all, Levi = denim तथा Pepe = wear कि होगा।

270. In a certain code language, hi ta ko mean rose is white, no hi tu mean yellow and white, pu no ta means sun is yellow. Which is the word for sun in that code language?

किसी खास कोड भाषा में hi ta ko का मतलब है rose is white, no hi tu का मतलब है yellow and white, pu no ta का मतलब है sun is yellow । उसी कोड भाषा में sun के लिए क्या शब्द है?

(a) hi (b) ta
(c) ko (d) pu

MP Police Constable Exam- 26 July-2016 - 9: am

Ans : (d)

hi ta ko = rose is white

no hi tu = Yellow and white

Pu no ta = Sun is yellow

अतः स्पष्ट है कि Sun = Pu, is = ta, Yellow = no, white = hi, and = tu तथा rose = ko होगा।

271. If 'Monday' is encrypted as 123456 and 'Belt' is encrypted as 0789, how would you encrypt the word 'Tombay'?/यदि 'Monday' को 123456 से और 'Belt' को 0789 से एनक्रिप्ट किया गया है, तब आप 'Tombay' को कैसे एनक्रिप्ट करेंगे?

(a) 921056 (b) 460528
(c) 290165 (d) 460538

MP Police Constable Exam 19 July 2016 - 9:am

Ans : (a) प्रश्नानुसार,

M	O	N	D	A	Y
↓	↓	↓	↓	↓	↓
1	2	3	4	5	6

B	E	L	T
↓	↓	↓	↓
0	7	8	9

अतः

T	O	M	B	A	Y
↓	↓	↓	↓	↓	↓
9	2	1	0	5	6

होगा।

272. If 'Mobility' is encrypted as 46293927, how is 'Examination' encrypted as?

यदि 'Mobility' को 46293927 से एनक्रिप्ट किया गया है, तब 'Examination' को कैसे एनक्रिप्ट किया जायेगा?

(a) 67250623076 (b) 56149512965
(c) 45038401854 (d) 57159413955

MP Police Constable Exam 19 July 2016 - 9:am

Ans : (b) प्रश्नानुसार,

जिस प्रकार–

M – 4
O – 6
B – 2
i – 9
l – 3
i – 9
t – 2
y – 7

उसी प्रकार–

E	X	A	M	I	N	A	T	I	O	N
↓	↓	↓	↓	↓	↓	↓	↓	↓	↓	↓
5	6	1	4	9	5	1	2	9	6	5

होगा।

273. If 'Understand' is encrypted as 1234567823, how is 'Start' is encrypted?

यदि 'Understand' को 1234567823 से एनक्रिप्ट किया गया है, तब 'Start' को कैसे एनक्रिप्ट किया जायेगा?

(a) 56781 (b) 83243
(c) 73652 (d) 67857

MP Police Constable Exam 19 July 2016 - 9:am

Ans : (d) प्रश्नानुसार,

U	N	D	E	R	S	T	A	N	D
↓	↓	↓	↓	↓	↓	↓	↓	↓	↓
1	2	3	4	5	6	7	8	2	3

अतः

S	t	a	r	t
↓	↓	↓	↓	↓
6	7	8	5	7

274. If 4325 is to 5324, then REAP is to

यदि 4325 को 5324 लिखते है, तो इस प्रकार REAP को लिखेंगे

(a) PEAR (b) RAEP
(c) PAER (d) ERAP

MP Police Constable Recruitment (Second)Test - 2013

Ans. (a) : जिस प्रकार,

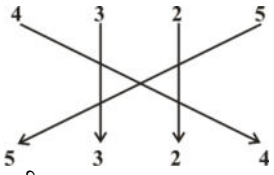

उसी प्रकार

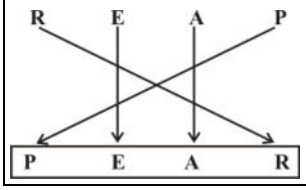

275. In a certain code language, '479' means 'fruit is sweet'; '248' means 'very sweet voice' and '637' means 'eat fruit daily'. Which digit stands for 'is' in that coded language?

GET IT ON Google Play Best Study PDF के लिए हमारी App को Download करें "GK Trick By Nitin Gupta"

किसी विशिष्ट कूट भाषा में, '479' का अर्थ 'fruit is sweet'; '248' का अर्थ 'very sweet voice' तथा '637' का अर्थ 'eat fruit daily' है, तो इस कूट भाषा में किस अंक का अर्थ 'is' है?

(a) 7
(b) 9
(c) 4
(d) Cannot be determined/ज्ञात नहीं किया जा सकता

MP Police Constable Recruitment Test - 2013

Ans. (b) :

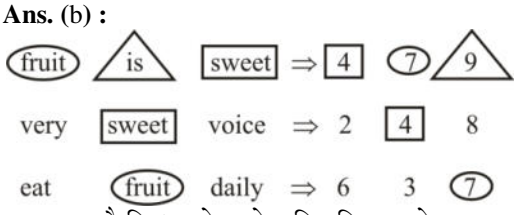

अतः स्पष्ट है कि is को 9 से कूटित किया जायेगा।

276. In a certain code 'My sweet heart' is written as 'cel agase xena'; 'Mango is sweet' is written as 'agase mnkol sey'; and 'Mumbai is costly' is written as 'Bomba sey deara'. In that code the word for 'mango' is:/किसी खास कोड में, 'My sweet heart' को 'cel agase xena' में लिखा है; 'Mango is sweet' को 'agase mnkol sey' और 'Mumbai is costly' को 'Bomba sey deara' में लिखा है। उसी कोड में 'mango' के लिए शब्द है:

(a) mnkol (b) xena
(c) deara (d) agase

MP Police Constable Exam- 18 July-2016 - 9: am

Ans : (a)

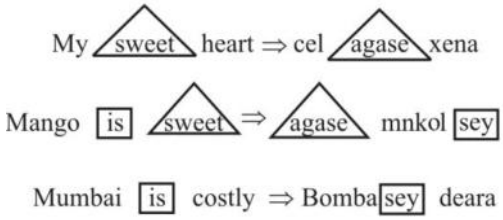

अतः Mango = Mnkol होगा।

277. In a certain code language 'world wide web' is written as 'jim jom jima' and 'Country wide network' is written as 'juma jima joma'. In that code language the word for 'wide' is:
किसी खास कोड भाषा में, 'world wide web' को 'jim jom jima' और 'Country wide network' को 'juma jima joma' में लिखा है। उसी कोड भाषा में 'wide' के लिए शब्द है:

(a) juma (b) jima
(c) jim (d) jom

MP Police Constable Exam- 18 July-2016 - 9: am

Ans : (b)

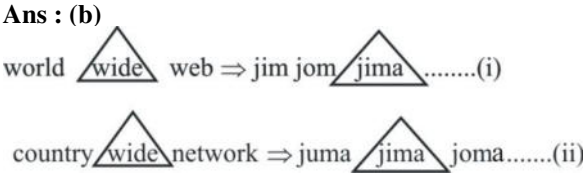

अतः wide = jima होगा।

278. In a certain code language 'My favourite hero' is written as 'deto vya nerolo' and 'Hero is great' is written as 'meb deto nya'. In that code language the word for 'Hero' is:
किसी खास कोड भाषा में, 'My favourite hero' को 'deto vya nerolo' और 'Hero is great' को 'meb deto nya' में लिखा है। उसी कोड भाषा में 'Hero' के लिए शब्द है:

(a) deto (b) vya
(c) meb (d) nya

MP Police Constable Exam- 18 July-2016 - 9: am

Ans : (a)

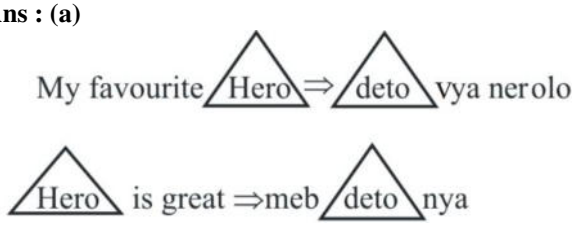

अतः Hero = deto होगा ।

279. If BELIEF is coded as EBILFE. How is BANANA coded?
यदि BELIEF को EBILFE से कोडित किया जाता है, तो BANANA को कैसे कोडित किया जाता है?

(a) ANANAB (b) ABANAN
(c) BANAAN (d) ANABAN

MP Police Constable Exam 25 July 2016 - 9:am

Ans : (b) जिस प्रकार,

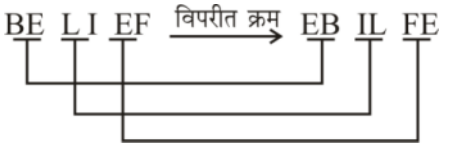

उसी प्रकार,

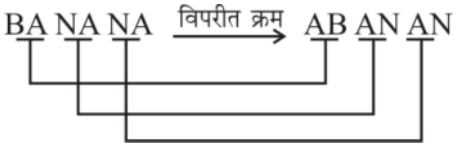

अतः ? = ABANAN

280. In a certain code language, iks pir rit means fine march night, het its pir means every summer night, iks ptr mos means fine for parking. Which is the word for march in that code language?
किसी खास कोड भाषा में, iks pir rit का मतलब है fine march night, het its pir का मतलब है every summer night, iks ptr mos का मतलब है fine for parking। उसी कोड भाषा में march के लिए क्या शब्द है?

(a) iks (b) pir
(c) rit (d) mos

MP Police Constable Exam 25 July 2016 - 9:am

GET IT ON Google Play Best Study PDF के लिए हमारी App को Download करें "GK Trick By Nitin Gupta"

Ans : (c) प्रश्नानुसार,

iks pir rit ⇒ fine march night

het its pir ⇒ every summer night

iks ptr mos ⇒ fine for parking

∴ march = rit

281. In a certain code language, tip rad an means jam is sweet, rad kot ap means sweet and sour, mit an kot means curd is sour. Which is the word for curd in that code language?
किसी खास कोड भाषा में, tip rad an का मतलब है jam is sweet, rad kot ap का मतलब है sweet and sour, mit an kot का मतलब है curd is sour । उसी कोड भाषा में curd के लिए क्या शब्द है?

(a) an (b) kot
(c) mit (d) tip

MP Police Constable Exam 25 July 2016 - 9:am

Ans : (c) प्रश्नानुसार,

tip rad an ⇒ jam is sweet

rad kot ap ⇒ sweet and sour

mit an kot ⇒ curd is sour

∴ mit = curd

282. There are four alternatives for the following question. Find out the correct one.
निम्न प्रश्न के लिए चार विकल्प हैं। सही वाला चुनिए।

(a) 'Quo Cui Heer' means 'Boy is Good'
'Quo Cui Heer' का मतलब है 'Boy is Good'
(b) 'Lai Quo Mea' means 'Meena is fair'
'Lai Quo Mea' का मतलब है 'Meena is fair'
(c) 'Ruo Lev Mea' means' 'All are Fair'
'Ruo Lev Mea' का मतलब है 'All are Fair'
(d) 'Si Hai Cui' means 'Dog was good'
'Si Hai Cui' का मतलब है 'Dog was good'

Which of the following encryptions stands for Good?
निम्न एन्क्रिपशनों में से Good के लिए कौन सा है?

(a) Quo (b) Cui
(c) Heer (d) Lai

MP Police Constable Exam- 1 August-2016, 3:pm

Ans : (b) प्रश्नानुसार,

(i) Quo Cui Heer ⇒ Boy is Good

(ii) Lai Quo Mea ⇒ Meena is fair

(iii) Ruo Lev Mea ⇒ All are fair

(iv) Si Hai Cui ⇒ Dog was good

कूट (i) और (iv) से स्पष्ट है कि
'Good' के लिए कोड 'Cui' होगा।

283. In a certain code language, kom nad lis means large circus tent, tif nok nad means tent is pitched, and mar rit tif means she is crying. Which is the word for pitched in that code language?
किसी खास कोड भाषा में kom nad lis का मतलब है large circus tent, tif nok nad का मतलब है tent is pitched और mar rit tif का मतलब है she is crying। उसी कोड भाषा में pitched के लिए क्या शब्द है?

(a) kom (b) nad
(c) tif (d) nok

MP Police Constable Exam 24 July 2016 - 9:am

Ans : (d) प्रश्नानुसार,

Kom nad lis = Large Circus tent

tif nok nad = tent is pitched

mar rit tif = she is crying

अतः स्पष्ट है कि, nok = pitched है।

284. In a certain code language, ib ein eip means These great actors, ein tab kil means These fine songs, and eip kil lot means Her great songs. Which is the word for actors in that code language?
किसी खास कोड भाषा में, ib ein eip का मतलब है These great actors, ein tab kil का मतलब है These fine songs और eip kil lot का मतलब है Her great songs। उसी कोड भाषा में actors के लिए क्या शब्द है?

(a) ib (b) ein
(c) eip (d) kil

MP Police Constable Exam 24 July 2016 - 9:am

Ans : (a) प्रश्नानुसार,

ib ein eip = These great actors

ein tab kil = These fine songs

eip kil lot = Her great songs

स्पष्ट है कि ib = actors
अतः actors का कोड 'ib' होगा।

285. In a certain code language, Nice Monday Night means ki ps ro, Every Friday Night means eh ti ps, and Nice Food Tonight means la ko ki. Which is the word for Monday in that code language?
किसी खास कोड भाषा में Nice Monday Night का मतलब है ki ps ro, Every Friday Night का मतलब है eh ti ps और Nice Food Tonight का मतलब है la ko ki। उसी कोड भाषा में Monday के लिए क्या शब्द है?

(a) ki (b) ps
(c) ro (d) ko

MP Police Constable Exam 24 July 2016 - 9:am

GET IT ON Google Play Best Study PDF के लिए हमारी App को Download करें "GK Trick By Nitin Gupta"

Ans : (c) प्रश्नानुसार,

Nice Monday Night = ki ps ro

Every Friday Night = eh ti ps

Nice Food Tonight = la ko ki

अतः Monday = ro

286. In a certain code language, bart il arn means thrills and frills, hed mik ain means diamonds are forever, ad ket hed means hard as diamonds, lim arn kelt means rock music thrills, ket kelt lim means hard rock music. Which is the word for frills in that code language?

किसी खास कोड भाषा में, bart il arn का मतलब है thrills and frills, hed milk ain का मतलब है diamonds are forever, ad ket hed का मतलब है hard as diamonds, 'lim arn ketl का मतलब है rock music thrills, ket kelt lim का मतलब है hard rock music. उसी कोड भाषा में frills के लिए क्या शब्द है?

(a) bart (b) il
(c) arn (d) bart or il

MP Police Constable Exam 17 July 2016 - 12:am

Ans. (d) प्रश्नानुसार,

bart il arn → thrills and frills _____ (i)
hed mik ain → diamonds are forever _____ (ii)
ad ket hed → hard as diamonds _____ (iii)
lim arn kelt → rock music thrills _____ (iv)
ket kelt lim → Hard rock music _____ (v)

समी (i), और (iv) से स्पष्ट है कि,

arn → thrills

∴ bart or il → frils

287. In a certain code language, bart il arn means thrills and frills, hed mik ain means diamonds are forever, ad ket hed means hard as diamonds, lim arn kelt means rock music thrills, ket kelt lim means hard rock music. Which is the word for rock in that code language?

किसी खास कोड भाषा में, bart il arn का मतलब है thrills and frills, hed mik ain का मतलब है diamonds are forever, ad ket hed का मतलब है hard as diamonds, lim arn kelt का rock music thrills, ket kelt lim का मतलब है hard rock music उसी कोड भाषा में rock के लिए क्या शब्द है?

(a) kelt (b) lim
(c) kelt or lim (d) Neither kelt nor lim

MP Police Constable Exam 17 July 2016 - 12:am

Ans. (c) प्रश्नानुसार-

bart il arn → thrills and frills _____ (i)
hed mik ain → diamonds are forever _____ (ii)
ad ket hed → hard as diamonds _____ (iii)
lim arn kelt → rock music thrills _____ (iv)
ket kelt lim → hard rock music _____ (v)

समी (iii) एवं (v) से

Ket ⇒ hard
Kelt or lim ⇒ rock

288. Read all information carefully and answer following question ?

दिए गए निर्देशों को पढ़े और पूछे गए प्रश्न का उत्तर दें।

Digits/Symbols/अंक/प्रतीक-

*** $ % + # Δ © 3 5 4 7 2 1 6 8 9**

Codes/कोड - A B C D E F G H I J K L M N O P

(I) If first place is even number and last place is odd number then both places are to be coded by first digit / symbol./यदि पहला पद सम संख्या है और अंतिम पद विषम संख्या है तो पहले और अंतिम पद के कोड में पहले पद का कोड लिखा जाएगा।

(II) If first place is odd number and last place is even number then both place codes will be interchanged./यदि पहला पद विषम संख्या है और अंतिम पद सम संख्या है, तो पहले और अंतिम पद के कोडों का आपस में स्थान परिवर्तन किया जाएगा।

5 1 6 9 *

(a) IMFJA (b) INMJA
(c) IMNPA (d) IMGDA

MP Police Constable Exam- 3 Sep-2023 Shift-1

Ans. (c) : प्रश्नानुसार,

अंक/प्रतीक	*	$	%	+	#	Δ	©	3	5	4	7	2	1	6	8	9
कोड	A	B	C	D	E	F	G	H	I	J	K	L	M	N	O	P

प्रतीक/अंक का कोड से तुलना करने पर–

5 1 6 9 * से IMNPA प्राप्त होता है।

289. In a certain code language, bart il arn means thrills and frills, hed mik ain means diamonds are forever, ad ket hed means hard as diamonds, lim arn kelt means rock music thrills, ket kelt lim means hard rock music. Which is the word for diamonds in that code language?

किसी खास कोड भाषा में, bart il arn का मतलब है thrills and frills, hed mik ain का मतलब है diamonds are forever, ad ket hed का मतलब है hard as diamonds, lim arn kelt का मतलब है rock music thrills, ket kelt lim का मतलब है hard rock music | उसी कोड भाषा में diamonds के लिए क्या शब्द है?

(a) hed (b) mik
(c) ain (d) hed or ain

MP Police Constable Exam 17 July 2016 - 12:am

Ans. (a) प्रश्नानुसार-

bart il arn → thrills and frills _____ (i)
hed mik ain → diamonds are Forever _____ (ii)
ad ket hed → hard as diamonds _____ (iii)
lim arn kelt → rock music thrills _____ (iv)
ket kelt lim → Hard rock music _____ (v)

समी (ii) और (iii), से स्पष्ट है कि, hed का कोड diamonds है।

अतः diamonds ⇒ hed

GET IT ON Google Play Best Study PDF के लिए हमारी App को Download करें "GK Trick By Nitin Gupta"

Type-4: विविध

290. 'If 'navy' is called 'tree' ,'tree' is called 'flag', 'flag' is called 'oil', 'oil' is called 'hair, 'hair' is called 'yellow' and 'yellow' is called 'pink' , then what is colour of 'turmeric'.
यदि 'नेवी' को 'पेड़' कहा जाता है, 'पेड़' को 'झंडा' कहा जाता है, 'झंडे' को 'तेल' कहा जाता है, 'तेल' को 'बाल' कहा जाता है, 'बाल' को 'पीला' कहा जाता है और 'पीले' को 'गुलाबी' कहा जाता है, तो 'हल्दी' का रंग क्या होगा ?

(a) Pink/गुलाबी
(b) Yellow/पीला
(c) White/सफेद
(d) Cannot be determine/निर्धारित नहीं किया जा सकता

MP Police Constable Exam- 23 August-2023 Shift-3

Ans. (a) : प्रश्नानुसार,
नेवी → पेड़→ झंडा → तेल → बाल → पीला → गुलाबी
'हल्दी' का रंग पीला होता है और यहाँ पीला को गुलाबी कहा गया है।
अतः हल्दी का रंग गुलाबी है।

291. If teacher is called butler, butler is called washerman, washerman is called tailor, tailor called policeman, policeman is called cook and cook is called postman, then who stitches clothes?
यदि शिक्षक को बटलर कहा जाता है, बटलर को धोबी कहा जाता है, धोबी को दर्जी कहा जाता है, दर्जी को पुलिसकर्मी कहा जाता है, पुलिसकर्मी को रसोइया कहा जाता है और रसोइया को डाकिया कहा जाता है, तो फिर कपड़े कौन सिलता है ?

(a) Policeman/पुलिसकर्मी (b) Butler/बटलर
(c) Tailor/दर्जी (d) Washerman/धोबी

MP Police Constable Exam- 25 August-2023 Shift-2

Ans. (a) : प्रश्नानुसार,
शिक्षक ⟶ बटलर
बटलर ⟶ धोबी
धोबी ⟶ दर्जी
दर्जी ⟶ पुलिसकर्मी
पुलिसकर्मी ⟶ रसोइया
रसोइया ⟶ डाकिया
चूँकि कपड़े दर्जी सिलता है जिसको प्रश्न में पुलिसकर्मी कहा गया है।
अतः कपड़े पुलिसकर्मी सिलेगा।

292. If stove is called refrigerator, refrigerator is called air conditioner, air conditioner is called cooler, cooler is called cupboard and cupboard is called television. Which one of the following is used for cooking food?
यदि स्टोव को रेफ्रिजरेटर कहा जाता है, रेफ्रिजरेटर को एयर कंडीशनर कहा जाता है, एयर कंडीशनर को कूलर कहा जाता है, कूलर को अलमारी कहा जाता है और अलमारी को टेलीविजन कहा जाता है। निम्नलिखित में से किसका उपयोग भोजन पकाने के लिए किया जाता है ?

(a) Refrigerator/रेफ्रिजरेटर (b) Stove/स्टोव
(c) Cooler/कूलर (d) Television/टेलीविजन

MP Police Constable Exam- 25 August-2023 Shift-2

Ans. (a) : प्रश्नानुसार,
स्टोव ⟶ रेफ्रिजरेटर
रेफ्रिजरेटर ⟶ एयर कंडीशनर
एयर कंडीशनर ⟶ कूलर
कूलर ⟶ अलमारी
अलमारी ⟶ टेलीविजन
चूँकि भोजन पकाने के लिए स्टोव की जरुरत होती है और प्रश्न में स्टोव को रेफ्रिजरेटर कहा गया है।
अतः भोजन पकाने के लिए रेफ्रिजरेटर की जरूरत होगी।

293. The jumbled letters of words are given below. Each letter has been numbered. Choose the option which gives the correct order of the letters as indicated by the numbers to form meaningful word.
शब्दों के अव्यवस्थित अक्षर नीचे दिये गये हैं। प्रत्येक अक्षर को संख्यांकित किया गया है। वह विकल्प चुनिये जो सार्थक शब्द की रचना के लिये संख्याओं के रूप में अक्षरों का सही क्रम देता है।

I N L A S G
1 2 3 4 5 6

(a) 2, 4, 3, 6, 1, 5 (b) 3, 4, 6, 1, 2, 5
(c) 5, 1, 6, 2, 4, 3 (d) 6, 1, 3, 5, 4, 2

MP Police Constable Exam- 1 August-2016, 3:pm

Ans : (c) I N L A S G के अक्षरों का प्रयोग करके बना सार्थक शब्द निम्न है–
S I G N A L
5 1 6 2 4 3
अतः विकल्प (c) सही उत्तर होगा।

294. The position of how many letters in the given word remains unchanged when they are arranged in alphabatic order?
जब दिए गए शब्द के अक्षरों वर्णमाला के क्रम में लगाया जाए तब कितने अक्षरों के स्थान अपरिवर्तित रहेंगें?
SWITCH

(a) Two/दो
(b) One/एक
(c) Three/तीन
(d) None of the given options/दिए गए विकल्पों में से कोई नहीं

MP Police Constable Exam- 8 Sep-2023 Shift-1

Ans. (b) : दिया है,
S W I T C H
1 2 3 4 5 6
अक्षरों को वर्णमाला क्रम में व्यवस्थित करने पर-
C H [I] S T W
1 2 [3] 4 5 6
दी गयी संख्या को व्यवस्थित करने पर केवल एक शब्द (I) अपरिवर्तित रहेगा अतः विकल्प (b) सही उत्तर है।

GET IT ON Google Play Best Study PDF के लिए हमारी App को Download करें "GK Trick By Nitin Gupta"

295. Unjumble the given jumbled words and then select the odd one out.
दिए गए अव्यवस्थित शब्दों को व्यवस्थित करें और फिर विषम शब्द का चयन करें।

(a) XGYNOE (b) TNIROEGN
(c) YDHRONGE (d) LATIMUNP

MP Police Constable Exam- 8 Sep-2023 Shift-1

Ans. (d) : विकल्पों से,
(a) XGYNOE → OXYGEN
(b) TNIROEGN → NITROGEN
(c) YDHRONGE → HYDROGEN
(d) LATIMUNP → PLATINUM (विषम)
नोटः- आक्सीजन, नाइट्रोजन तथा हाइड्रोजन तीनों गैसें हैं जबकि विकल्प (d) में दिया गया शब्द प्लैटिनम एक धातु है अतः विकल्प (d) सही उत्तर है।

296. Some equations are solved on the basis of certain system. On the same basis find out the correct answer for the unsolved equation.
कुछ समीकरण निश्चित प्रणाली के आधार पर हल किए जाते हैं। उसी आधार पर हल न किए गए समीकरण का सही उत्तर ज्ञात कीजिए:
$2 \times 8 \times 5 = 28165, 7 \times 3 \times 3 = 73213, 5 \times 7 \times 4 = ?$

(a) 8542 (b) 2132
(c) 8567 (d) 57354

MP Police Constable Exam- 19 August-2023 Shift-2

Ans. (d) : जिस प्रकार,
$2 \times 8 \times 5 \rightarrow 28(2 \times 8)5 = 28165$
तथा
$7 \times 3 \times 3 \rightarrow 73(7 \times 3)3 = 73213$
उसी प्रकार,
$5 \times 7 \times 4 \rightarrow 57(5 \times 7)4 = 57354$
अतः $\boxed{? = 57354}$

297. In a certain code 'PLANT' is written as '$@2*©' and 'YIELD' is written as '#64@%'. How is 'DELAY' written in that code ?
किसी निश्चित कूट में 'PLANT' को लिखते हैं '$@2*©' और 'YIELD' को लिखते हैं '#64@%'। उस कूट में 'DELAY' कैसे लिखा जाएगा ?

(a) #4*2% (b) #4@2%
(c) %42@# (d) %4@2#

MP Police Constable Exam- 31 August-2023 Shift-3

Ans. (d) : प्रश्नानुसार,

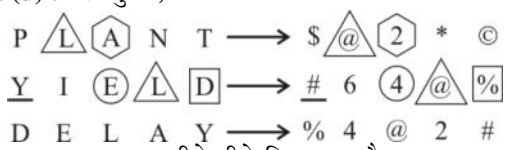

नोट :- अक्षर का कूट सीधे-सीधे किया गया है।
अतः विकल्प (d) सही उत्तर है।

298. In a certain code, 'POWER' is coded as '#*5@7' and 'BREAKS' is coded as '$7@%θ3'. How is 'PAPERS' coded in that coded ?
किसी निश्चित कूट में, 'POWER' को कूटित करते हैं '#*5@7' और 'BREAKS' को कूटित करते हैं '$7@%θ3'। उसी कूट में 'PAPERS' को कैसे कूटित किया जाएगा ?

(a) #%#@73 (b) #%#©73
(c) #%#@57 (d) #%#©57

MP Police Constable Exam- 24 August-2023 Shift-2

Ans. (a) : प्रश्नानुसार,

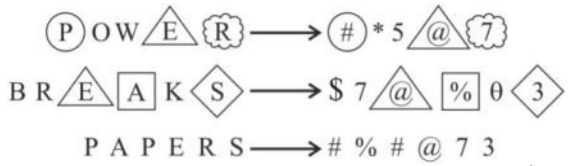

नोट :- यहाँ अक्षरों के कोड को सीधे-सीधे कूट किया गया है।
अतः PAPERS का कूट #%#@73 होगा।

299. In the following question, one statement is given followed by two conclusions I and II. You have to consider the statement to be true even if they seem to be at variance from commonly known facts. You have to decide which of the given conclusions, if any follow from the given statements.
निम्नलिखित प्रश्न में एक/दो कथन दिए गए है, जिनके आगे दो निष्कर्ष I और II और दिए गए है। आपको विचार करना है कि कथन सत्य है चाहें वे सामान्यतः ज्ञात तथ्यों से भिन्न प्रतीत होता हो। आपको निर्णय करना है कि दिए गए निष्कर्षों में से कौन-सा निष्कर्ष, यदि कोई हो, दिए गए कथनों से निकलता है।

Statement/कथन :
Songs always have singers to sing them./गानों को गाने के लिए सदैव गायक होते हैं।

Conclusions/निष्कर्ष :
I. Singers make a song./गायक गाना बनाते हैं।
II. There is no un-sung song./ऐसा कोई गीत नहीं है जिसे गाया न गया हो।

(a) Only conclusion II follows/केवल निष्कर्ष II अनुसरण करता है
(b) Both conclusions I and II follow/निष्कर्ष I और II दोनों अनुसरण करते हैं
(c) Neither conclusion I nor II follows/न तो निष्कर्ष I और न ही II अनुसरण करता है
(d) Only conclusion I follows/केवल निष्कर्ष I अनुसरण है

MP Police Constable Exam- 27 August-2023 Shift-1

Ans. (a) : कथन "गानों को गाने के लिए सदैव गायक होते हैं।" का निष्कर्ष "ऐसा कोई गीत नहीं है जिसे गाया न गया हो।" सत्य है। अतः केवल निष्कर्ष II अनुसरण करता है।

300. Which one word can be formed from the following letters ?
निम्नलिखित अक्षरों से कौन-सा एक शब्द बनाया जा सकता है ?

b c k a h u s r

(a) bankrupt (b) backrush
(c) booklet (d) bankers

MP Police Constable Exam- 24 August-2023 Shift-3

Ans. (b) : दिए गए b c k a h u s r शुद्ध के अक्षरों का प्रयोग करके backrush शब्द बनाया जा सकता है।

GET IT ON Google Play Best Study PDF के लिए हमारी App को Download करें "GK Trick By Nitin Gupta"

301. If in a certain code language 'IPL' is written as '37' and 'POLISH' is written 79 then how will 'GRAVITY be coded in that language ?

यदि एक निश्चित कोड भाषा में 'IPL' को '37', 'POLISH' को '79' लिखा जाता है, तो 'GRAVITY' को उस भाषा में कैसे लिखा जाएगा ?

(a) 102 (b) 205
(c) 115 (d) 95

MP Police Constable Exam- 28 August-2023 Shift-2

Ans. (a) : जिस प्रकार,

IPL = 9 + 16 + 12 = 37

तथा POLISH = 16 + 15 + 12 + 9 + 19 + 8 = 79

उसी प्रकार,

GRAVITY = 7 + 18 + 1 + 22 + 9 + 20 + 25
= 102

302. Study the following codes carefully to answer the questions given below.

In a certain code language 'we are good' is coded as '16 8 4' and 'Meena like dance' is coded as '24 21 14'.

What is the code for 'menu bar' in that code language ?

निम्नलिखित कोडों का ध्यानपूर्वक अध्ययन कर नीचे दिये गये प्रश्नों के उत्तर दीजिए।

निम्नलिखित कोड भाषा में 'we are good' को '16 8 4' और 'Meena like dance' को '24 21 14' कोड किया जाता है।

उसी कोड भाषा में 'menu bar' का कोड क्या होगा ?

(a) 5, 2 (b) 15,2
(c) 2,15 (d) 2,5

MP Police Constable Exam- 28 August-2023 Shift-2

Ans. (b) : जिस प्रकार,

W e a r e g o o d
23+5 1+18+5 7+15+15+4
⇓ ⇓ ⇓
28 24 41
⇓ ⇓ ⇓
2×8 2×4 4×1
⇓ ⇓ ⇓
16 8 4

तथा

M e e n a l i k e d a n c e
13+5+5+14+1 12+9+11+5 4+1+14+3+5
⇓ ⇓ ⇓
38 37 27
⇓ ⇓ ⇓
3×8 3×7 2×7
⇓ ⇓ ⇓
24 21 14

उसी प्रकार,

M e n u b a r
13+5+14+21 2+1+18
⇓ ⇓
53 21
⇓ ⇓
5×3 2×1
⇓ ⇓
15 2

अतः Menu bar का कोड = 15, 2

303. Study the following codes carefully to answer the questions given below.

In a certain code language 'we are good' is coded as '16 8 4' and 'Meena like dance' is coded as '24 21 14'.

What is the code for 'Acquired leave' in that code language?

निम्नलिखित कोडों का ध्यानपूर्वक अध्ययन कर नीचे दिये गये प्रश्नों के उत्तर दीजिए।

निम्नलिखित कोड भाषा में 'we are good' को '16 8 4' और 'Meena like dance' को '24 21 14' कोड किया जाता है।

उसी कोड भाषा में 'Acquired leave' का कोड क्या होगा ?

(a) 56,25 (b) 64, 20
(c) 78,45 (d) 56, 20

MP Police Constable Exam- 28 August-2023 Shift-2

Ans. (d) : जिस प्रकार,

W e a r e g o o d
23+5 1+18+5 7+15+15+4
⇓ ⇓ ⇓
28 24 41
⇓ ⇓ ⇓
2×8 2×4 4×1
⇓ ⇓ ⇓
16 8 4

तथा

M e e n a l i k e d a n c e
13+5+5+14+1 12+9+11+5 4+1+14+3+5
⇓ ⇓ ⇓
38 37 27
⇓ ⇓ ⇓
3×8 3×7 2×7
⇓ ⇓ ⇓
24 21 14

उसी प्रकार,

A c q u i r e d l e a v e
1+3+17+21+9+18+5+4 12+5+1+22+5
⇓ ⇓
78 45
⇓ ⇓
7×8 4×5
⇓ ⇓
56 20

अतः Acquired leave का कोड = 56, 20

GET IT ON Google Play Best Study PDF के लिए हमारी App को Download करें "GK Trick By Nitin Gupta"

304. Read all information carefully and answer following question ?
दिए गए निर्देशों को पढ़े और पूछे गए प्रश्न का उत्तर दें।

Digits/Symbols/अंक/प्रतीक- * $ % + # Δ © 3 5 4 7 2 1 6 8 9
Codes/कोड - A B C D E F G H I J K L M N O P

(I) If first place is even number and last place is odd number then both places are to be coded by first digit/symbol./यदि पहला पद सम संख्या है और अंतिम पद विषम संख्या है तो पहले और अंतिम पद के कोड में पहले पद का कोड लिखा जाएगा।

(II) If first place is odd number and last place is even number then both place codes will be interchanged./यदि पहला पद विषम संख्या है और अंतिम पद सम संख्या है, तो पहले और अंतिम पद के कोडों को आपस में स्थान परिवर्तन किया जाएगा।

4 + # $ 1

(a) JDFIO (b) JDEBJ
(c) JDEMB (d) JDFIM

MP Police Constable Exam- 2 Sep-2023 Shift-3

Ans. (b) : दिया है–
4 + # $ 1
दिए गए समीकरण में कथन (I) प्रथम संख्या 4 (सम) है और अंतिम संख्या 1 (विषम) है अतः 4 + # $ 1 का कोड ⇒ J D E B J
अतः विकल्प (b) सही है।

305. If 'blue' is called 'red', 'red' is called 'green', 'green' is called 'black' and 'black' is called 'white' then what is the colour of 'grass'?
यदि 'नीले' को 'लाल' कहा जाता है, 'लाल' को 'हरा' कहा जाता है, 'हरे' को 'काला' कहा जाता है और 'काले' को 'सफेद' कहा जाता है तो 'घास' का रंग क्या होगा?

(a) Red/लाल (b) Black/काला
(c) White/सफेद (d) Green/हरा

MP Police Constable Exam- 13 August-2023 Shift-1

Ans. (b) : प्रश्नानुसार,
नीला → लाल → हरा → काला → सफेद
∵ घास का रंग हरा होता है जबकि प्रश्न में हरा को काला कहा गया है। अतः घास का रंग काला होगा।

306. If 'air' is called 'green', 'green' is called 'blue', 'blue' is called 'sky', 'sky' is called 'yellow', 'yellow' is called 'water' and 'water' is called 'pink', then what is the colour of clear sky ?
यदि हवा को 'हरा' कहते हैं, 'हरा' को 'नीला' कहते हैं, 'नीला' को 'आकाश' कहते हैं, 'आकाश' को 'पीला' कहते हैं और 'पीला' को 'पानी' कहते हैं, 'पानी' को 'गुलाबी' कहते हैं, तो साफ आकाश का रंग क्या होता है ?

(a) Blue/नीला (b) Sky/आकाश
(c) Yellow/पीला (d) Water/पानी

MP Police Constable Exam- 23 August-2023 Shift-2

Ans. (b) : प्रश्नानुसार,
हवा ⟶ हरा
हरा ⟶ नीला
नीला ⟶ आकाश
आकाश ⟶ पीला
पीला ⟶ पानी
पानी ⟶ गुलाबी
दी हुये शर्त से स्पष्ट है कि साफ आकाश का रंग 'नीला' होगा।
नीला ⟶ आकाश
अतः विकल्प (b) सही है।

307. In a certain code 'SPAIN' is written as '<©*&^' and 'LEAVE' is coded as '@%*2% '. How can 'PLEASE' be coded in that code language ?
एक निश्चित कोड में 'SPAIN' को '<©*&^' तथा 'LEAVE' को '@%*2%' किया जाता हैं। उसी कोड भाषा में 'PLEASE' को किस प्रकार कोड किया जायेगा?

(a) ©@%*<% (b) *&@>$^
(c) ©^$*<% (d) *^@>$

MP Police Constable Exam- 12 Sep-2023 Shift-2

Ans. (b) : जिस प्रकार,

S	P	A	I	N
↓	↓	↓	↓	↓
<	©	*	&	^

तथा

L	E	A	V	E
↓	↓	↓	↓	↓
@	%	*	2	%

उसी प्रकार, उपरोक्त कोड से,

P	L	E	A	S	E
↓	↓	↓	↓	↓	↓
©	@	%	*	<	%

अतः विकल्प 'a' सही उत्तर है।

308. If red is called yellow, yellow is called orange, orange is called pink, pink is called green, green is called purple and purple is called black. Then what is the colour of a leaf?
यदि लाल को पीला कहा जाए, पीले को नारंगी कहा जाए, नारंगी को गुलाबी कहा जाए, गुलाबी को हरा कहा जाए, हरे को बैंगनी कहा जाए और बैंगनी को काला कहा जाए। तो एक पत्ती का रंग कैसा होता है ?

(a) Pink/गुलाबी (b) Green/हरा
(c) Purple/बैंगनी (d) Black/काला

MP Police Constable Exam- 25 August-2023 Shift-1

Ans. (c) : कथन–
लाल → पीला → नारंगी → गुलाबी → हरा → बैंगनी → काला
निष्कर्ष–
∵ पत्ती का मूल रंग = हरा
यहाँ हरा = बैंगनी
अतः प्रश्नानुसार पत्ती का रंग = बैंगनी

309. If FATHER = 7 and DAUGHTER = 9, then DISTANT = _____.
यदि FATHER = 7 और DAUGHTER = 9, तो DISTANT = _____.

(a) 6 (b) 8
(c) 7 (d) 10

MP Police Constable Exam- 25 August-2023 Shift-1

GET IT ON Google Play Best Study PDF के लिए हमारी App को Download करें "GK Trick By Nitin Gupta"

Ans. (b) :

जिस प्रकार, तथा

FATHER = 7 DAUGHTER = 9

कुल अक्षर = 6 कुल अक्षर = 8

⇒ 6 + 1 =7 ⇒ 8 + 1 = 9

उसी प्रकार,

DISTANT = ?

कुल अक्षर = 7

⇒ 7 + 1 = 8

अतः DISTANT = 8

310. If cow is called sparrow, sparrow is called hen, hen is called peacock, peacock is called cock, cock is called eagle and eagle is called nightingale. Which one of the following is a national bird ?

यदि गाय को गौरैया कहा जाए, गौरैया को मुर्गी कहा जाए, मुर्गी को मोर कहा जाए, मोर को मुर्गा कहा जाए, मुर्गे को चील कहा जाए और चील को कोकिला कहा जाए। निम्नलिखित में से कौन एक राष्ट्रीय पक्षी है?

(a) Peacock/मोर (b) Nightingale/कोकिला

(c) Cock/मुर्गा (d) Hen/मुर्गी

MP Police Constable Exam- 25 August-2023 Shift-1

Ans. (c) : कथन–

गाय → गौरैया → मुर्गी → मोर → मुर्गा → चील → कोकिला

निष्कर्ष–

∵ राष्ट्रीय पक्षी = मोर

यहाँ मोर = मुर्गा

अतः प्रश्नानुसार मुर्गा, एक राष्ट्रीय पक्षी है।

311. Unjumble the given jumbled words and then select the odd one out.

दिए गए अव्यवस्थित शब्दों को व्यवस्थित करें और फिर विषम शब्द का चयन करें।

(a) VLEIRS (b) RYUCREM

(c) ERTIUPJ (d) OENN

MP Police Constable Exam- 6 Sep-2023 Shift-3

Ans. (c) :

(a) VLEIRS → SILVER

(b) RYUCREM → MERCURY

(c) ERTIUPJ → JUPITER (ग्रह)

(d) OENN → NEON

उपर्युक्त से स्पष्ट है कि विकल्प (c) में दिया गया शब्द JUPITER एक ग्रह है जबकि अन्य धातु और गैसें (पीरिमोडिक टेबल में मौजूद) है अतः सही उत्तर (c) है।

312. Study the following information carefully to answer the question given below-

निम्नलिखित जानकारी का ध्यानपूर्वक अध्ययन कर नीचे दिये गये प्रश्न का उत्तर दीजिये-

Q P O 1 K $ U 7 I 9 A M * L 6 X E 3 D ^ J & K # 5 R < F > 2 Y

Three of the following four are alike in a certain way based on their position, which of the following does not belongs to that group?

निम्नलिखित चार में से तीन किसी प्रकार से एक समान हैं और अपना समूह बनाते हैं वह कौन है जो इस समूह में शामिल नहीं है?

(a) K7M (b) E^#

(c) #<Y (d) ELA

MP Police Constable Exam- 8 Sep-2023 Shift-1

Ans. (d) : विकल्पों से,

(a) K 7 M → [K] # (1) U (2) [7] I (1) 9 (2) A (3) [M]

(b) E ^ # → [E] 3 (1) D (2) [^] J (1) & (2) K (3) [#]

(c) # < Y → [#] 5 (1) R (2) [<] F (1) > (2) 2 (3) [Y]

(d) E L A → [E] X (1) 6 (2) [L] * (1) M (2) [A] (विषम)

नोटः- दी गयी जानकारी के अनुसार विकल्प a, b तथा c में पहले और दूसरे कोड के बीच में दो कोड हैं तथा दूसरे और तीसरे कोड के बीच तीन कूट हैं जबकि विकल्प (d) में ऐसा नहीं है अतः विकल्प (d) सही उत्तर है।

313. Study the following codes carefully to answer the questions given below.

In a certain code language 'we are good' is coded as '16 8 4' and 'Meena like dance' is coded as '24 21 14'.

What is the code for 'Tesmus' in that code language?

निम्नलिखित कोडों का ध्यानपूर्वक अध्ययन करके नीचे दिये प्रश्नों के उत्तर दीजिए।

निम्नलिखित कोड भाषा में 'we are good' को '16 8 4' और 'Meena like dance' को '24 21 14' कोड किया जाता है।

उसी कोड भाषा में 'Tesmus' का कोड क्या होगा ?

(a) 79 (b) 97

(c) 63 (d) 36

MP Police Constable Exam- 28 August-2023 Shift-3

Ans. (c) : जिस प्रकार,

वर्णमाला क्रम: W e a r e g o o d

23+5=28 1+18+5=24 7+15+15+4=41

2×8=16 2×4=8 4×1=4

तथा

वर्णमाला क्रम: M e e n a l i k e d a n c e

13+5+5+14+1=38 12+9+11+5=37 4+1+14+3+5=27

3×8=24 3×7=21 2×7=14

GET IT ON Google Play Best Study PDF के लिए हमारी App को Download करें "GK Trick By Nitin Gupta"

उसी प्रकार,

T e s m u s

वर्णमाला क्रम

20+5+19+13+21+19=97

9×7=63

अतः Tesmus = 63

314. Read all information carefully and answer following question ?
दिए गए निर्देशों को पढ़े और पूछे गए प्रश्न का उत्तर दें।

Digits/Symbols/अंक/प्रतीक-

*** $ % + # Δ © 3 5 4 7 2 1 6 8 9**

Codes/कोड - A B C D E F G H I J K L M N O P

(I) If first place is even number and last place is odd number then both places are to be coded by first digit / symbol./यदि पहला पद सम संख्या है और अंतिम पद विषम संख्या है तो पहले और अंतिम पद के कोड में पहले पद का कोड लिखा जाएगा।

(II) If first place is odd number and last place is even number then both place codes will be interchanged./यदि पहला पद विषम संख्या है और अंतिम पद सम संख्या है, तो पहले और अंतिम पद के कोडों का आपस में स्थान परिवर्तन किया जाएगा।

8 Δ + % 7

(a) OFDCK (b) KFDCO
(c) OIIMN (d) OFDCO

MP Police Constable Exam- 4 Sep-2023 Shift-2

Ans. (d) : दिए गए निर्देशों से स्पष्ट है–

अंक/प्रतीक- * $ % + # Δ © 3 5 4 7 2 1 6 8 9

कोड- A B C D E F G H I J K L M N O P

8 Δ + % 7

(I) से स्पष्ट है कि पहला पद सम तथा अंतिम पद विषम संख्या है तो पहले और अंतिम का कोड पहला वाला कोड होगा सही है।

8 Δ + % 7 का कोड 'OFDCO' होगा।

∴ विकल्प (d) सही है।

315. Given below are capital letters in the first line and symbols in the second line. Symbols and letters are code for each other. Choose the correct code for given letters.
नीचे दी गई सारणी में पहली पंक्ति में अंग्रेजी वर्णमाला के बड़े अक्षर और दूसरी पंक्ति में प्रतीक दिए गए है। प्रतीक और अक्षर एक दूसरे के कोड हैं। दिए गए अक्षरों के लिए सही कोड का चयन करें?

A	C	E	G	H	I	O	N	P	R	T	S	B	D	M
+	-	÷	X	=	(	)	[	]	$	!!	#	!	>	<

PARROT

(a)] + $ $) !! (b)] + $$ [!!
(c)] + && [! (d) [ ] + & ! [

MP Police Constable Exam- 1 Sep-2023 Shift-2

Ans. (a) : प्रश्नानुसार दिए गए अक्षरों के प्रतीक चिह्नों के अनुसार PARROT का कोड इस प्रकार बनेगा।

P A R R O T

] + $ $) !!

316. In a certain code 'VARIETY' is written as '<©*&#><' and 'MAKER' is coded as '?©$#*'. How can 'MANAGER' be coded in that code language ?
एक निश्चित कोड भाषा में 'VARIETY' को '<©*&#><' तथा 'MAKER' को '?©$#*' कोड किया जाता है। उसी कोड भाषा में 'MANAGER' को किस प्रकार कोड किया जायेगा ?

(a) ?@©@!#* (b) ?©@©!#*
(c) ?©@$#*! (d) ?©@©!*#

MP Police Constable Exam- 29 August-2023 Shift-1

Ans. (b) : जिस प्रकार,

V A R I E T Y → कोड– < © * & # > <

M A K E R → ? © $ # *

उसी प्रकार, विकल्प (b) से–

M A N A G E R → ? © @ © ! # *

अतः विकल्प (b) सही है।

317. Read all information carefully and answer following question ?
दिए गए निर्देशों को पढ़े और पूछे गए प्रश्न का उत्तर दें।

Digits/Symbols/अंक/प्रतीक -

*** $ % + # Δ © 3 5 4 7 2 1 6 8 9**

Codes/कोड- A B C D E F G H I J K L M N O P

(I) If first place is even number and last place is odd number then both places are to be coded by first digit / symbol./यदि पहला पद सम संख्या है और अंतिम पद विषम संख्या है तो पहले और अंतिम पद के कोड में पहले पद का कोड लिखा जाएगा।

(II) If first place is odd number and last place is even number then both place codes will be interchanged./यदि पहला पद विषम संख्या है और अंतिम पद सम संख्या है, तो पहले और अंतिम पद के कोडों का आपस में स्थान परिवर्तन किया जाएगा।

Δ 4 6 # *

(a) FJNEA (b) FJNEB
(c) AJNEF (d) FJNMKS

MP Police Constable Exam- 3 Sep-2023 Shift-2

Ans. (a) : प्रश्नानुसार,

अंक/प्रतीक ⟶ * $ % + # Δ © 3 5 4 7 2 1 6 8 9

कोड ⟶ A B C D E F G H I J K L M N O P

Δ 4 6 # * ⟶ FJNEA

अतः 'Δ 4 6 # *' का कोड 'FJNEA' होगा।

GET IT ON Google Play Best Study PDF के लिए हमारी App को Download करें "GK Trick By Nitin Gupta"

318. If eraser is called box, box is called pencil, pencil is called sharpener and sharpener is called bag, then what will a child write with?
यदि रबड़ को डिब्बा कहा जाता है, डिब्बा को पेंसिल कहा जाता है, पेंसिल को शार्पनर कहा जाता है तथा शार्पनर को बैग कहा जाता है, तो बच्चा किसके माध्यम से लिखेगा?

(a) Bag /बैग (b) Pencil /पेंसिल
(c) Eraser /रबड़ (d) Sharpener /शार्पनर

MP Police Constable Exam- 20 August-2023 Shift-3

Ans. (d) : प्रश्नानुसार,
रबर को डिब्बा
डिब्बा को पेंसिल
पेंसिल को शार्पनर
शार्पनर को बैग कहा जाता है।
∵ बच्चा लिखने के लिए पेंसिल का प्रयोग करता है। जबकि पेंसिल को शार्पनर कहाँ गया है।
अतः प्रश्नानुसार बच्चा शार्पनर के माध्यम से लिखेगा।

319. If 'pink' means 'yellow'; 'yellow' means 'white'; 'white' means 'blue'; 'blue' means 'red'; 'red' means 'black'; and 'black' means 'green'; then what is the colour of clear sky?
यदि 'गुलाबी' का अर्थ 'पीला' है, 'पीला' का अर्थ 'सफेद', 'सफेद' का अर्थ 'नीला', 'नीला' का अर्थ 'लाल', 'लाल' का अर्थ 'काला' और 'काला' का अर्थ 'हरा' है, तो साफ आसमान का रंग क्या होगा?

(a) Red/लाल (b) White/सफ़ेद
(c) Green/हरा (d) Black/काला

MP Police Constable Exam- 14 August-2023 Shift-2

Ans. (a) : प्रश्नानुसार,
गुलाबी → पीला
पीला → सफेद
सफेद → नीला
नीला → लाल
लाल → काला
काला → हरा
चूँकि साफ आसमान का रंग नीला होता है लेकिन प्रश्न में 'नीला' को 'लाल' कहा गया है। अतः साफ आसमान का रंग 'लाल' होगा।

320. If in language, 'foot' is called 'elbow', 'elbow' is called 'ankle', 'ankle' is called 'palm', 'palm' is called 'finger' and 'finger' is called 'knee', then in that language, on what would one wear a ring ?
एक निश्चित भाषा में, 'foot' को 'elbow' कहा जाता है, 'elbow' को 'ankle' कहा जाता है, 'ankle' को 'palm', 'palm' को 'finger' और 'finger' को 'knee' कहा जाता है, फिर उस भाषा में, कोई अंगूठी कहाँ पहनेगा ?

(a) Ankle (b) Knee
(c) Palm (d) Finger

MP Police Constable Exam- 27 August-2023 Shift-2

Ans. (b) : दिया है,
foot → elbow
elbow → ankle
ankle → palm
palm → finger
finger → knee
अंगूठी को अंगुली (finger) में पहना जाता है लेकिन यहाँ पर finger को knee कहा गया है इसलिए अंगूठी को knee में पहना जाएगा।
अतः विकल्प (b) सही है।

321. Select the option, which is the logical equivalent of the statement given below:
वह विकल्प चुनिए, जो तर्क की दृष्टि से नीचे दिए गए कथन के समान है:
If you hit a sixer then only we can win the match.
यदि तुम छक्का लगाते हो, केवल तभी हम मैच जीत सकते हैं।

(a) If you do not hit a sixer then we cannot win the match.
यदि तुम छक्का नहीं लगाते हो तब हम मैच नहीं जीत सकते।
(b) If we win the match then you must have hit a sixer.
यदि हम मैच जीत जाते हैं, तब तुमने छक्का लगाया होगा।
(c) If we do not win the match then you must have hit a sixer.
यदि हम मैच नहीं जीतते हैं तब तुमने छक्का लगाया होगा।
(d) Six runs are required to win the match.
मैच जीतने के लिए छह रनों की आवश्यकता है।

MP Police Constable Exam- 18 July-2016 - 9: am

Ans : (b) यदि तुम छक्का लगाते हो, केवल तभी हम मैच जीत सकते हैं। इस वाक्य का समान अर्थ विकल्प (b) से प्रगट होता है कि यदि हम मैच जीत जाते हैं, तब तुमने छक्का लगाया होगा, के द्वारा प्रकट है।

322. Select the option, which is the logical equivalent of the statement given below:
वह विकल्प चुनिए, जो तर्क की दृष्टि से नीचे दिए गए कथन के समान है:
All Indians love curry and rice.
सभी भारतीय करी और चावल पंसद करते हैं।

(a) Some Indian love curry and rice.
कुछ भारतीय करी और चावल पसंद करते है।
(b) Some Pakistanis love curry and rice.
कुछ पाकिस्तानी करी और चावल पसंद करते हैं।
(c) No non-Indian loves curry and rice.
कोई भी गैर-भारतीय करी और चावल पंसद नहीं करता।
(d) Indians do not love biryani.
भारतीय बिरयानी पसंद नहीं करते।

MP Police Constable Exam- 18 July-2016 - 9: am

Ans : (a) सभी में कुछ समाहित होता है अतः सभी भारतीय करी और चावल पसंद करते है तो कुछ भारतीय करी और चावल पसंद करते है।

GET IT ON Google Play Best Study PDF के लिए हमारी App को Download करें "GK Trick By Nitin Gupta"

323. Which one of the following four addresses is NOT EXACTLY the same as the one given below?
निम्न दियें गये चार पतों में से नीचे दिये गये पते के ठीक समान कौन सा एक नहीं है?

Meier, Joel
School of Forestry
University of Montana
Missoula, Montana 59812
(406) 243-6459

(i) Meier, Joel
School of Forestry
University of Montana
Missoula, Montana 59812
(406) 243-6459

(ii) Meier, Joel
School of Forestry
University of Montana
Missoula, Montana 59812
(406) 243-6459

(iii) Meier, Joel
School of Forestry
University of Montana
Missoula, Montana 59812
(406) 243 – 6459

(iv) Meier, Joel
School of Forestry
Univeristy of Montana
Missoula, Montana 59812
(406) 243-6459

(a) i (b) ii
(c) iii (d) iv

MP Police Constable Exam- 1 August-2016, 3:pm

Ans : (d) सही पता
Meier, Joel
Shcool of forestry
University of montana
Missoula, montana 59812
(406) 243-6459
गलत पता
Meier, Joel
School of forestry
Univeristy of montana
Missoula, montana 59812
(406) 243-6459
अतः विकल्प (d) गलत पता है।

324. If wicket is called racket, racket is called bat, bat is called football, football is called shuttle and shuttle is called hockey, we can play cricket with?
यदि विकेट को रैकेट कहा जाता है, रैकेट को बल्ला कहा जाता है, बल्ले को फुटबॉल कहा जाता है, फुटबॉल को शटल कहा जाता है और शटल को हॉकी कहा जाता है, हम किससे क्रिकेट खेल सकते हैं?

(a) Football /फुटबॉल (b) Shuttle /शटल
(c) Bat /बल्ला (d) Hockey /हॉकी

MP Police Constable Exam- 10 Sep-2023 Shift-1

Ans. (a) : क्रिकेट बल्ले से खेला जाता है। प्रश्न में बल्ले को फुटबाल कहा गया है। अतः, हम क्रिकेट फुटबाल से खेल सकते हैं।

325. If dog is called cat, cat is called fox, fox is called bullock, bullock is called rat and rat is called cow. Which one of the follow pull a cart?
यदि कुत्ते को बिल्ली कहा जाए, बिल्ली को लोमड़ी कहा जाए, लोमड़ी को बैल कहा जाए, बैल को चूहा कहा जाए और चूहे को गाय कहा जाए। निम्नलिखित में से कौन गाड़ी खींचता है?

(a) Cat /बिल्ली (b) Rat /चूहा
(c) Cow /गाय (d) Dog /कुत्ता

MP Police Constable Exam- 10 Sep-2023 Shift-1

Ans. (b) : गाड़ी को बैल खींचता है। प्रश्न में बैल को चूहा कहा गया है। अतः गाड़ी को चूहा खींचता है।

326. If table is called cupboard, cupboard is called refrigerator, refrigerator is called chair, chair is called stove and stove is called cooler, where a person can sit?
यदि टेबल को अलमारी कहा जाए, अलमारी को रेफ्रिजरेटर कहा जाए, रेफ्रिजरेटर को कुर्सी कहा जाए, कुर्सी को स्टोव कहा जाए और स्टोव को कूलर कहा जाए, तो व्यक्ति कहाँ बैठ सकता है?

(a) Table/मेज (b) Chair/चेयर
(c) Cooler/कूलर (d) Stove/स्टोव

MP Police Constable Exam- 9 Sep-2023 Shift-3

Ans. (d) : प्रश्नानुसार,
टेबल → आलमारी → रेफ्रिजरेटर → कुर्सी → स्टोव → कूलर
उपर्युक्त से स्पष्ट है कि व्यक्ति स्टोव पर बैठेगा क्योंकि कुर्सी को स्टोव कहा गया है।
अतः विकल्प (d) सही उत्तर होगा।

327. If lipstick is called remover, remover is called bangles, bangles are called ring, nail paint is called eye shadow and eye shadow is called necklace. Then we can paint our nail with?
यदि लिपस्टिक को रिमूवर कहा जाता है, रिमूवर को चूड़ियाँ कहा जाता है, चूड़ियों को रिंग कहा जाता है, नेल पेंट को आई शैडो कहा जाता है और आई शैडो को हार कहा जाता है, तो हम अपने नाखून को किससे पेंट कर सकते हैं?

(a) Polish/पोलिश
(b) Eye Shadow/आई शैडो
(c) Necklace/हार
(d) Bangles/चूड़ियाँ

MP Police Constable Exam- 9 Sep-2023 Shift-3

Ans. (b) : प्रश्नानुसार,
लिपस्टिक → रिमूवर → चूड़ियाँ → रिंग
नेलपेंट → आईशैडो → हार
उपर्युक्त से स्पष्ट है कि व्यक्ति नाखून को आईशैडो से पेंट करेगा क्योंकि नेलपेंट को आईशैडो कहा जाता है।
अतः विकल्प (b) सही उत्तर होगा।

GET IT ON Google Play Best Study PDF के लिए हमारी App को Download करें "GK Trick By Nitin Gupta"

भाग-3.

वर्गीकरण (Classification)

Type-1: शब्दों पर आधारित वर्गीकरण

1. Arrange the following words as per order in the dictionary.
निम्नलिखित शब्दों को शब्दकोश के दिए गए क्रम के अनुसार लिखिए ?
(a) Leprosy (b) Lessen
(c) Lesson (d) Language
(e) Languid
(a) (d), (e), (a), (b), (c)
(b) (e), (a), (c), (d), (b)
(c) (c), (e), (a), (d), (b)
(d) (e), (c), (a), (d), (b)

MP Police Constable Exam- 27 August-2023 Shift-1

Ans. (a) : दिए गए शब्दों का शब्दकोश के अनुसार क्रम–
(d) Language, (e) Languid, (a) Leprosy, (b) Lessen, (c) Lesson
अतः अभीष्ट क्रम = d, e, a, b, c

2. Arrange the following words as per order in the dictionary.
निम्नलिखित शब्दों को शब्दकोश में दिए गए क्रम के अनुसार लिखिए ?
1. Billion 2. Bifurcate
3. Bilateral 4. Bilirubin
(a) 2,1,3,4 (b) 4,3,2,1
(c) 2,3,4,1 (d) 2,3,1,4

MP Police Constable Exam- 24 August-2023 Shift-2

Ans. (c) : प्रश्नानुसार, सार्थक क्रम निम्नवत् है–
2) Bifurcate, (3) Bilateral, (4) Bilirubin, (1) Billion
अतः तार्किक क्रम 2, 3, 4, 1 है।

3. Arrange the following words as per order in the dictionary.
निम्नलिखित शब्दों को शब्दकोश में दिए गए क्रम के अनुसार लिखिए ?
(a) Select (b) Seldom
(c) Send (d) Selfish
(e) Seller
(a) (a), (b), (d), (e), (c)
(b) (b), (a), (e), (d), (c)
(c) (b), (a), (d), (e), (c)
(d) (b), (e), (d), (a), (c)

MP Police Constable Exam- 28 August-2023 Shift-2

Ans. (c) : शब्दकोश के अनुसार शब्दों का क्रम–
(b) Seldom, (a) Select, (d) Selfish, (e) Seller, (c) Send
अतः शब्दकोश के अनुसार क्रम = (b), (a), (d), (e), (c)

4. Arrange the following words as per their order in the English dictionary.
निम्नलिखित शब्दों को अंग्रेजी शब्दकोश में उनके क्रम के अनुसार व्यवस्थित करें।
1. Defect 2. Defence
3. Deerstalker 4. Defensive
(a) 2, 3, 1, 4 (b) 1, 3, 2, 4
(c) 4, 3, 1, 2 (d) 3, 1, 2, 4

MP Police Constable Exam- 28 August-2023 Shift-2

Ans. (d) : अंग्रेजी शब्दकोश के अनुसार शब्दों का क्रम निम्नवत् है–
(3) Deerstalker, (1) Defect, (2) Defence, (4) Defensive
अतः अभीष्ट क्रम = 3, 1, 2, 4

5. Which one of the given responses would be a meaningful order of the following words?
1. Table 2. Tree
3. Wood 4. Seed
5. Plant
निम्नलिखित विकल्पों में से कौन-सा विकल्प नीचे दिए हुए शब्दों के सार्थक क्रम को दर्शाता है?
1. टेबल 2. वृक्ष
3. लकड़ी 4. बीज
5. पौधा
(a) 4, 5, 3, 2, 1 (b) 4, 5, 2, 3, 1
(c) 1, 3, 2, 4, 5 (d) 1, 2, 3, 4, 5

MP Police Constable Exam- 18 August-2023 Shift-1

Ans. (b) : शब्दों का सार्थक क्रम निम्न है-
4. बीज 5. पौधा 2. वृक्ष 3. लकड़ी 1. टेबल
अतः अभीष्ट उत्तर = 4, 5, 2, 3, 1

6. Arrange the following words as per order in the dictionary./निम्नलिखित शब्दों को शब्दकोश में दिए गए क्रम के अनुसार लिखिए?
(a) Spine (b) Spinal
(c) Spinner (d) Spinet
(e) Spindle
(a) (b), (e), (a), (d), (c)
(b) (e), (c), (a), (d), (b)
(c) (a), (e), (c), (d), (b)
(d) (c), (e), (a), (d), (b)

MP Police Constable Exam- 25 August-2023 Shift-3

Ans. (a) : दिए गए शब्दों का अंग्रेजी शब्दकोश के अनुसार क्रम निम्नवत् है–
(b) Spinal, (e) Spindle, (a) Spine, (d) Spinet, (c) Spinner
अतः शब्दकोश क्रम– (b), (e), (a), (d), (c)

7. Arrange the given words in the sequence in which they occur in dictionary?
दिए गए शब्दों को अंग्रेजी शब्दकोश के क्रम में व्यवस्थित कीजिए?
(1) Deteriorate (2) Detergent
(3) Determinant (4) Determine
(5) Deterrent
(a) 21345 (b) 21435
(c) 21543 (d) 21453

MP Police Constable Exam- 10 Sep-2023 Shift-1

GET IT ON Google Play Best Study PDF के लिए हमारी App को Download करें "GK Trick By Nitin Gupta"

Ans. (a) : दिये गये शब्दों को अग्रेंजी शब्दकोश के क्रम में व्यवस्थित करने पर शब्दों का क्रम क्रमशः (2) Detergent (1) Deteriorate (3) Determinant (4) Determine (5) Deterrent होगा।

8. Select the meet alternative to indicate the arrangement of the following words in a logical and meaningful order.
तार्किक और सार्थक क्रम में निम्नलिखित शब्दों को व्यवस्थित करें।

1. Treatment/उपचार **2. Diagnosis/निदान**
3. Doctor/डॉक्टर **4. Discharge/छुट्टी**
5. Bill/बिल

(a) 3,2,5,1,4 (b) 2,3,1,4,5
(c) 3,2,1,5,4 (d) 4,5,3,2,1

MP Police Constable Exam- 23 August-2023 Shift-2

Ans. (c) : निम्नलिखित शब्दों को तार्किक और सार्थक क्रम–
3. डॉक्टर – 2. निदान – 1. उपचार – 5. बिल – 4. छुट्टी
अतः विकल्प (c) सही है।

9. Arrange the following words as per order in the dictionary.
निम्नलिखित शब्दों को शब्दकोश में दिए गए क्रम के अनुसार लिखिए ?

(a) Butterfly **(b) Butler**
(c) Butcher **(d) Button**
(e) Butter

(a) (c), (e), (a), (d), (b)
(b) (b), (d), (a), (e), (c)
(c) (b), (e), (a), (c), (d)
(d) (c), (b), (e), (a), (d)

MP Police Constable Exam- 26 August-2023 Shift-3

Ans. (d) : दिए गए शब्दों का अंग्रेजी शब्दकोश के अनुसार क्रम निम्नवत् है–
(c) Butcher, (b) Butler, (e) Butter, (a) Butterfly, (d) Button
अतः शब्दकोश क्रम– (c), (b), (e), (a), (d)

10. Arrange the following words as per their order in the English dictionary.
निम्नलिखित शब्दों को अंग्रेज़ी शब्दकोश के दिए गए क्रम के अनुसार लिखिए।

1. Incompatible **2. Incomparable**
3. Incongruous **4. Inconsistent**

(a) 2, 1, 4, 3 (b) 3, 4, 2, 1
(c) 4, 2, 1, 3 (d) 2, 1, 3, 4

MP Police Constable Exam- 26 August-2023 Shift-3

Ans. (d) : दिए गए शब्दों का अंग्रेजी शब्दकोश के अनुसार क्रम निम्नवत् है–
2. Incomparable, 1. Incompatible, 3. Incongruous, 4. Inconsistent
अतः शब्दकोश क्रम– 2, 1, 3, 4

11. Arrange the following words as per their order in the dictionary:
निम्नलिखित शब्दों को शब्दकोष के क्रम में व्यवस्थित करें।

1. Advocacy **2. Advowson**
3. Adynamic **4. Advisors**
5. Adynamia

(a) 41253 (b) 41235
(c) 35214 (d) 53214

MP Police Constable Exam- 10 Sep-2023 Shift-1

Ans. (a) : दिये गये शब्दों को शब्दकोष के क्रम में व्यवस्थित करने पर क्रम क्रमशः 4. Advisors 1. Advocacy 2. Advowson 5. Adynamia 3. Adynamic होगा।

12. Arrange the following words as per order in the dictionary.
निम्नलिखित शब्दों को शब्दकोश में दिए गए क्रम के अनुसार लिखिए ?

(1) Host **(2) Haphazard**
(3) Haste **(4) Hang**
(5) Handkerchief

(a) 5, 4, 2, 3, 1 (b) 5, 4, 2, 1, 3
(c) 4, 3, 2, 1, 5 (d) 3, 2, 1, 5, 4

MP Police Constable Exam- 25 August-2023 Shift-1

Ans. (a) : दिये गये शब्दों का शब्दकोश के अनुसार क्रम निम्नवत् है–
5- Handkerchief
4- Hang
2- Haphazard
3- Haste
1- Host
अतः शब्दों का शब्दकोश क्रम 5, 4, 2, 3, 1 है।

13. Arrange the following words as per their order in the English dictionary.
निम्नलिखित शब्दों को अंग्रेजी शब्दकोश में दिए गए क्रम के अनुसार लिखिए।

1. Patriot **2. Pastor**
3. Patron **4. Pattern**
5. Pastern

(a) 5, 2, 3, 1, 4 (b) 5, 2, 1, 3, 4
(c) 5, 2, 4, 1, 3 (d) 5, 2, 4, 3, 1

MP Police Constable Exam- 12 Sep-2023 Shift-2

Ans. (b) : दिये गये शब्दों के अंग्रेजी शब्दकोश के अनुसार क्रम निम्नवत् है-
(5) Pastern, (2) Pastor, (1) Patriot, (3) Patron, (4) Pattern
अतः विकल्प 'b' सही उत्तर है।

14. Which one of the given responses would be a meaningful order of the following words?

1. Police **2. Punishment**
3. Crime **4. Justice**
5. Judgement

निम्नलिखित विकल्पों में से कौन-सा विकल्प नीचे दिए हुए शब्दों के सार्थक क्रम को दर्शाता है?

1. पुलिस **2. सज़ा**
3. अपराध **4. न्याय**
5. निर्णय

(a) 2, 1, 5, 4, 3 (b) 3, 5, 4, 2, 1
(c) 2, 1, 4, 3, 5 (d) 3, 1, 4, 5, 2

MP Police Constable Exam- 17 August-2023 Shift-2

Ans. (d) : दिए गए शब्दों का सार्थक क्रम निम्न है-
3. अपराध, 1. पुलिस, 4. न्याय, 5. निर्णय, 2. सजा
अतः विकल्प (d) 3, 1, 4, 5, 2 सही क्रम है।

GET IT ON Google Play Best Study PDF के लिए हमारी App को Download करें "GK Trick By Nitin Gupta"

15. Select the correct alternative to indicate the arrangement of the following words in a logical and meaningful order.
तार्किक और सार्थक क्रम में निम्नलिखित शब्दों को व्यवस्थित करें।

1. Cloud/मेघ **2. Shelter/आश्रय**
3. Monsoon/मानसून **4. Rain/वर्षा**
5. Flood/बाढ़
6. Relief/राहत

(a) 4,1,2,5,2,6 (b) 1,3,4,5,6,2
(c) 3,1,4,2,5,6 (d) 3,1,4,5,2,6

MP Police Constable Exam- 23 August-2023 Shift-3

Ans. (d) : प्रश्नानुसार, तार्किक क्रम निम्नवत् है–
3. मानसून, 1. मेघ, 4. वर्षा, 5. बाढ़, 2. आश्रय, 6. राहत
अतः सार्थक क्रम 3, 1, 4, 5, 2, 6 है।

16. Select the correct alternative to indicate the arrangement of the following words in a logical and meaningful order.
एक तार्किक और सार्थक क्रम में व्यवस्थित करने के लिए निम्नलिखित शब्दों के लिए उपयुक्त विकल्प का चयन करें।

1. Injury/चोट
2. Recovery/ठीक होना
3. Accident/दुर्घटना
4. Showroom/शोरूम
5. Drive/गाड़ी चलाना
6. Car/कार

(a) 4,6,5,3,2,1 (b) 4,6,5,3,1,2
(c) 5,6,3,2,1,4 (d) 6,4,3,5,1,2

MP Police Constable Exam- 23 August-2023 Shift-1

Ans. (b) : तार्किक सार्थक क्रम निम्नवत् है–
(4) शोरूम, (6) कार, (5) गाड़ी चलाना, (3) दुर्घटना, (1) चोट, (2) ठीक होना
अतः तार्किक क्रम 4, 6, 5, 3, 1, 2 है।

17. Arrange the following words as per order in the dictionary.
निम्नलिखित शब्दों को शब्दकोश में दिए गए क्रम के अनुसार लिखिए।

1. Tortoise **2. Torrid**
3. Torso **4. Torque**
5. Tortuous

(a) 4, 2, 3, 1, 5 (b) 3, 2, 4, 1, 5
(c) 2, 3, 4, 5, 1 (d) 4, 3, 2, 1, 5

MP Police Constable Exam- 28 August-2023 Shift-3

Ans. (a) : प्रश्नानुसार, शब्दों का क्रम निम्नवत् है–
4. Torque, 2. Torrid, 3. Torso, 1. Tortoise, 5. Tortuous
अतः विकल्प (a) सही उत्तर है।

18. Arrange the following words as per order in the dictionary.
निम्नलिखित शब्दों को शब्दकोश में दिए गए क्रम के अनुसार लिखिए ?

(1) Save **(2) Sausage**
(3) Saviour **(4) Savour**
(5) Savage

(a) 5, 4, 2, 3, 1 (b) 2, 5, 1, 3, 4
(c) 2, 3, 4, 1, 5 (d) 3, 2, 1, 5, 4

MP Police Constable Exam- 25 August-2023 Shift-2

Ans. (b) :
दिए गए शब्दों का शब्दकोश के अनुसार क्रम निम्नवत् है–
Sausage, Savage, Save, Saviour, Savour
क्रम– 2, 5, 1, 3, 4
अतः विकल्प (b) सही है।

19. Which one of the given responses would be a meaningful order of the following words?

1. Family **2. Community**
3. Member **4. Locality**
5. Country

निम्नलिखित विकल्पों में से कौन-सा विकल्प नीचे दिए हुए शब्दों के सार्थक क्रम को दर्शाता है?

1. परिवार **2. समुदाय**
3. सदस्य **4. इलाका**
5. देश

(a) 3, 1, 2, 4, 5 (b) 3, 1, 2, 5, 4
(c) 3, 1, 5, 5, 2 (d) 3, 1, 4, 5, 2

MP Police Constable Exam- 18 August-2023 Shift-2

Ans. (a) : प्रश्नानुसार, दिए गए शब्दों का सार्थक क्रम निम्नवत् है-
3. सदस्य → 1. परिवार → 2. समुदाय → 4. इलाका → 5. देश

20. Arrange the following words as per their order in the English dictionary ?
निम्नलिखित शब्दों को अंग्रेजी शब्दकोश में दिए गए क्रम के अनुसार लिखिए ?

1. Drum **2. Drubbing**
3. Drunken **4. Drudgery**
5. Duster

(a) 3, 1, 5, 4, 2 (b) 2, 4, 1, 3, 5
(c) 1, 3, 4, 5, 2 (d) 2, 1, 4, 3, 5

MP Police Constable Exam- 29 August-2023 Shift-1

Ans. (b) : दिये गये शब्दों का शब्दकोश क्रम–
2. Drubbing
4. Drudgery
1. Drum
3. Drunken
5. Duster
अतः सही क्रम 2, 4, 1, 3, 5 है।

21. Arrange the following words as per order in the dictionary.
निम्नलिखित शब्दों को शब्दकोश में दिए गए क्रम के अनुसार लिखिए ?

(a) Robber **(b) Rocket**
(c) Random **(d) Restaurant**
(e) Restrict

(a) (b), (e), (a), (c), (d)
(b) (e), (a), (c), (d), (b)
(c) (c), (e), (a), (d), (b)
(d) (c), (d), (e), (a), (b)

MP Police Constable Exam- 26 August-2023 Shift-2

Ans. (d) : दिए गए शब्दों को शब्दकोश के अनुसार व्यवस्थित करने पर–
(c) Random (d) Restaurant (e) Restrict (a) Robber (b) Rocket
अतः सही क्रम = (c), (d), (e), (a), (b)

GET IT ON Google Play Best Study PDF के लिए हमारी App को Download करें "GK Trick By Nitin Gupta"

22. Arrange the following words as per order in the dictionary.
निम्नलिखित शब्दों को शब्दकोश में दिए गए क्रम के अनुसार लिखिए ?

1. Pick **2. Pith**
3. Pile **4. Perk**
5. Pour

(a) 4, 1, 2, 3, 5 (b) 4, 1, 3, 2, 5
(c) 4, 3, 2, 1, 5 (d) 5, 4, 3, 2, 1

MP Police Constable Exam- 26 August-2023 Shift-2

Ans. (b) : दिये गये शब्दों का शब्दकोश क्रम निम्नवत् है–
4. Perk, 1. Pick, 3. Pile, 2. Pith, 5. Pour
अतः सही क्रम = 4, 1, 3, 2, 5

23. Arrange the following words as per order in the English dictionary.
निम्नलिखित शब्दों को अंग्रेजी शब्दकोश में दिए गए क्रम के अनुसार लिखिए।

1. Preach **2. Praise**
3. Precinet **4. Precept**
5. Precede

(a) 2, 1, 5, 4, 3 (b) 2, 1, 3, 4, 5
(c) 2, 5, 1, 4, 3 (d) 1, 2, 5, 4, 3

MP Police Constable Exam- 19 August-2023 Shift-3

Ans. (a) : प्रश्नानुसार अंग्रेजी शब्दों को शब्दकोश के अनुसार व्यवस्थित करने पर,
(2) Praise, (1) Preach, (5) Precede, (4) Precept, (3) Precinet.
अतः विकल्प 'a' सही उत्तर है।

24. Select the correct alternative to indicate the arrangement of the following words in a logical and meaningful order.

1. State **2. Street**
3. House Number **4. City**
5. Country

तर्कसंगत और अर्थपूर्ण क्रम में निम्नलिखित शब्दों की व्यवस्था को इंगित करने के लिए सही विकल्प का चयन करें।

1. राज्य **2. गली**
3. मकान संख्या **4. शहर**
5. देश

(a) 3,2,4,1,5 (b) 3,4,2,1,5
(c) 2,3,4,5,1 (d) 1,5,4,3,2

MP Police Constable Exam- 19 August-2023 Shift-3

Ans. (a) : दिये गये शब्दों का तर्कसंगत और अर्थपूर्ण क्रम निम्नवत् है-
(3) मकान संख्या, (2) गली, (4) शहर, (1) राज्य, (5) देश
अतः विकल्प 'a' सही उत्तर है।

25. Arrange the following words as per order in the dictionary.
निम्नलिखित शब्दों को शब्दकोश में दिए गए क्रम के अनुसार लिखिए?

1. Syringe **2. Syphilis**
3. Syncretism **4. Synarchy**
5. Submerge

(a) 4,5,2,3,1 (b) 5,4,3,2,1
(c) 5,3,4,1,2 (d) 4,1,2,3,5

MP Police Constable Exam- 20 August-2023 Shift-3

Ans. (b) : शब्दकोश के अनुसार शब्दों का क्रम निम्नवत् है-
(5) Submerge (4) Synarchy (3) Syncretism (2) Syphilis (1) Syringe
अतः अभिष्ट क्रम- 5, 4, 3, 2, 1 है।

26. Which one of the given responses would be a meaningful order of the following words?

1. Study **2. Job**
3. Examination **4. Earn**
5. Apply

निम्नलिखित विकल्पों में से कौन-सा विकल्प नीचे दिए हुए शब्दों के सार्थक क्रम को दर्शाता है?

1. अध्ययन **2. नौकरी**
3. परीक्षा **4. कमाएं**
5. आवेदन

(a) 1, 2, 3, 4, 5 (b) 1, 3, 2, 5, 4
(c) 1, 3, 5, 4, 2 (d) 1, 3, 5, 2, 4

MP Police Constable Exam- 1 Sep-2023 Shift-1

Ans. (d) : दिए गए शब्दों का सार्थक क्रम इस प्रकार है-
1. अध्ययन → 3. परीक्षा → 5. आवेदन → 2. नौकरी → 4. कमाएँ

27. Select the correct alternative to indicate the arrangement of the following words in a logical and meaningful order.

1. Classes **2. Entrance Exam**
3. Result **4. Admission**
5. Graduation **6. Job**

निम्नलिखित में से कौन-सा विकल्प नीचे दिए गए शब्दो के तर्कसंगत और अर्थपूर्ण कम को दर्शाता है।

1. कक्षाएँ **2. प्रवेश परीक्षा**
3. परिणाम **4. प्रवेश**
5. स्नातक **6. नौकरी**

(a) 6,2,5,4,3,1 (b) 5,2,6,4,3,1
(c) 2,3,4,1,5,6 (d) 2,3,4,1,6,5

MP Police Constable Exam- 20 August-2023 Shift-3

Ans. (c) : अर्थपूर्ण क्रम निम्न है-
(2) प्रवेश परीक्षा (3) परिणाम (4) प्रवेश (1) कक्षाएँ (5) स्नातक (6) नौकरी
अतः क्रम 2, 3, 4, 1, 5, 6 है।

28. Arrange the following words as per order in the dictionary.
निम्नलिखित शब्दों को शब्दकोश में दिए गए क्रम के अनुसार लिखिए ?

(a) Wound **(b) Writer**
(c) Whiter **(d) Worst**
(e) Worked

(a) (a), (d), (c), (e), (b)
(b) (b), (a), (c), (d), (e)
(c) (c), (e), (d), (a), (b)
(d) (e), (c), (b), (a), (d)

MP Police Constable Exam- 27 August-2023 Shift-2

Ans. (c) : दिए गए शब्दों को शब्दकोश के अनुसार क्रम निम्नवत् है–
(c) Whiter → (e) Worked → (d) Worst → (a) Wound → (b) Writer
अतः शब्दकोश के अनुसार क्रम– (c), (e), (d), (a), (b)

29. Which word comes first in the English dictionary ?
कौन-सा शब्द अँग्रेजी शब्दकोश में पहले आता है ?

GET IT ON Google Play Best Study PDF के लिए हमारी App को Download करें "GK Trick By Nitin Gupta"

1. Carrom 2. Cormming
3. Carrier 4. Cartoon
(a) 1 (b) 2
(c) 3 (d) 4

MP Police Constable Exam- 27 August-2023 Shift-2

Ans. (c) : दिए गए शब्दों को अंग्रेजी शब्दकोश के अनुसार क्रम निम्नवत् है–
(3) Carrier → (1) Carrom → (4) Cartoon → (2) Cormming
अतः पहले आने वाला शब्द Carrier होगा।

30. Arrange the following words in a logical and meaningful order.
निम्नलिखित शब्दों को एक तार्किक एवं अर्थपूर्ण क्रम में व्यवस्थित कीजिए।
1. Writing/लेखन
2. Distributing/वितरण
3. Publishing/प्रकाशन
4. Printing/मुद्रण
5. Editing/संपादन
(a) 1, 2, 3, 4, 5 (b) 2, 4, 3, 1, 5
(c) 2, 3, 4, 5, 1 (d) 1, 5, 4, 3, 2

MP Police Constable Exam- 10 Jan -2022 Shift-2

Ans. (d) : दिए गए शब्दों का तर्कपूर्ण तथा सार्थक क्रम निम्नवत् है–
(1) लेखन → (5) संपादन → (4) मुद्रण → (3) प्रकाशन → (2) वितरण
अतः अभीष्ट क्रम = 1, 5, 4, 3, 2 है।

31. Arrange the following words in a logical and meaningful order.
निम्नलिखित शब्दों को तर्कपूर्ण तथा सार्थक क्रम में व्यवस्थित कीजिए।
1. Wrist/कलाई 2. Nails/नाखून
3. Shoulder/कंधा 4. Elbow/कोहनी
5. Palm/हथेली 6. Fingers/अंगुलियाँ
(a) 3, 5, 1, 4, 6, 2 (b) 3, 4, 1, 5, 6, 2
(c) 3, 4, 1, 2, 5, 6 (d) 3, 1, 4, 2, 5, 6

MP Police Constable Exam- 10 Jan -2022 Shift-2

Ans. (b) : दिए गए शब्दों का तर्कपूर्ण तथा सार्थक क्रम निम्नवत् है–
(3) कंधा → (4) कोहनी → (1) कलाई → (5) हथेली → (6) अंगुलियाँ → (2) नाखून
अतः अभीष्ट क्रम = 3, 4, 1, 5, 6, 2

32. Arrange the following words in a logical and meaningful order.
निम्नलिखित शब्दों को एक तार्किक एवं अर्थपूर्ण क्रम में व्यवस्थित कीजिए।
1. Learn/सीखना 2. College/कॉलेज
3. Degree/डिग्री 4. Admission/दाखिला
5. Assessment/मूल्यांकन
6. Class/कक्षा
(a) 4, 2, 1, 6, 3, 5 (b) 2, 1, 4, 5, 6, 3
(c) 4, 2, 6, 1, 5, 3 (d) 5, 4, 2, 1, 6, 3

MP Police Constable Exam- 8 Jan-2022 Shift-2

Ans. (c) : दिये गए शब्दों का तर्कपूर्ण क्रम निम्नवत् है–
दाखिला (4) → कॉलेज (2) → कक्षा (6) → सीखना (1) → मूल्यांकन (5) → डिग्री (3)
अतः अभीष्ठ क्रम 426152 होगा।

33. Arrange the following words in a logical and meaningful order.
निम्नलिखित शब्दों को एक तार्किक एवं अर्थपूर्ण क्रम में व्यवस्थित कीजिए-
1. Brass/पीतल 2. Gold/सोना
3. Silver/चाँदी 4. Platenum/प्लैटिनम
5. Iron/लोहा
(a) 3, 1, 5, 2, 4 (b) 5, 1, 3, 2, 4
(c) 2, 1, 5, 3, 4 (d) 5, 4, 3, 2, 1

MP Police Constable Exam- 8 Jan-2022 Shift-2

Ans. (b) : दिए गए शब्दों का अर्थपूर्ण क्रम निम्नवत् है–
लोहा (5) → पीतल (1) → चाँदी (3) → सोना (2) → प्लैटिनम (4)
उपर्युक्त में धातुओं को क्रय मूल्यों के आधार पर व्यवस्थित किया गया है। अतः अभीष्ट क्रम 5, 1, 3, 2, 4 होगा।

34. Select the correct alternative to indicate the arrangement of the following words in a logical and meaningful order.
1. Hour 2. Month
3. Second 4. Days
5. Minute 6. Week
निम्नलिखित में से कौन-सा विकल्प नीचे दिए गए शब्दों के तर्कसंगत और अर्थपूर्ण क्रम को दर्शाता है।
1. घंटा 2. महीना
3. सेकंड 4. दिन
5. मिनट 6. सप्ताह
(a) 6,2,5,4,3,1 (b) 3,5,1,4,6,2
(c) 2,3,4,1,5,6 (d) 2,3,4,1,6,5

MP Police Constable Exam- 21 August-2023 Shift-2

Ans. (b) : दिए गए शब्दों का शब्दकोश के अनुसार क्रम निम्नवत् है-
3. सेकंड → 5. मिनट → 1. घंटा → 4. दिन → 6. सप्ताह → 2. महीना
अतः शब्दकोश के अनुसार क्रम होगा- 3, 5, 1, 4, 6, 2

35. Arrange the following words as per order in the dictionary.
निम्नलिखित शब्दों को शब्दकोश में दिए गए क्रम के अनुसार लिखिए?
1. Scarf 2. Scene
3. Shell 4. Survey
5. Stream
(a) 1, 2, 4, 5, 3 (b) 2, 4, 5, 1, 3
(c) 3, 1, 2, 5, 4 (d) 1, 2, 3, 5, 4

MP Police Constable Exam- 21 August-2023 Shift-2

Ans. (d) : दिए गए शब्दों का अंग्रेजी शब्दकोश के अनुसार क्रम निम्नवत् है-
1. Scarf → 2. Scene → 3. Shell → 5. Stream → 4. Survey
अतः शब्दकोश के अनुसार क्रम होगा- 1, 2, 3, 5, 4

GET IT ON Google Play Best Study PDF के लिए हमारी App को Download करें "GK Trick By Nitin Gupta"

36. Select the correct alternative to indicate the arrangement of the following words in a logical and meaningful order.

1. Diagnosis **2. Recovery**
3. Pain **4. Treatment**
5. Hospital

निम्नलिखित शब्दों की व्यवस्था को तार्किक और सार्थक क्रम में इंगित करने के लिए सही विकल्प का चयन करें।

1. रोग निदान **2. स्वास्थ्य लाभ**
3. दर्द **4. उपचार**
5. अस्पताल

(a) 3,5,4,1,2 (b) 3,5,1,4,2
(c) 5,1,4,1,2 (d) 5,3,1,4.2

MP Police Constable Exam- 21 August-2023 Shift-3

Ans. (b) : दिए गए शब्दों का तार्किक और सार्थक क्रम निम्नवत् है-
3. दर्द → 5. अस्पताल → 1. रोग निदान → 4. उपचार → 2. स्वास्थ्य लाभ
अतः सार्थक क्रम = 3, 5, 1, 4, 2

37. Select the correct alternative to indicate the arrangement of the following words in a logical and meaningful order.

1. Probation **2. Selection**
3. Application **4. Confirmation**
5. Appointment

निम्न में से कौन-सा विकल्प नीचे दिए गए शब्दों के तर्कसंगत और अर्थपूर्ण क्रम को दर्शाता है।

1. परिवीक्षा **2. चयन**
3. आवेदन **4. स्थायीकरण**
5. नियुक्ति

(a) 5,1,4,2.3 (b) 4,1,3,2,5
(c) 3,2,5,4,1 (d) 3,2,5,1,4

MP Police Constable Exam- 20 August-2023 Shift-2

Ans. (d) : प्रश्नानुसार, दिए गए शब्दों का अर्थपूर्ण क्रम निम्नवत् है-
(3) आवेदन → (2) चयन → (5) नियुक्ति → (1) परिवीक्षा → (4) स्थायीकरण
अतः विकल्प (d) सही है।

38. Arrange the following words as per order in the dictionary.

निम्नलिखित शब्दों को शब्दकोश के क्रम के अनुसार व्यवस्थित कीजिये।

1. Modicum **2. Modal**
3. Mode **4. Modifier**

(a) 2,3,1,4 (b) 2,3,4,1
(c) 3,2,1,4 (d) 3,2,4,1

MP Police Constable Exam- 20 August-2023 Shift-2

Ans. (a) : प्रश्नानुसार, शब्दों का शब्दकोश के अनुसार व्यवस्थित क्रम निम्नवत् है-
(2) Modal → (3) Mode → (1) Modicum → (4) Modifier
अतः विकल्प (a) सही है।

39. In the following question arrange the given words in a meaningful sequence and then choose the most appropriate sequence from among the alternatives provided below :

निम्नलिखित प्रश्न में एक सार्थक क्रम में शब्दों की व्यवस्था करें और उसके बाद नीचे दिए गए विकल्पों में से सबसे उपयुक्त अनुक्रम का चयन करें:

1. Key 2. Door 3. Lock
4. Room 5. Switch On
1. चाभी 2. दरवाजा 3. ताला
4. कमरा 5. स्विच खोलना

(a) 1, 2, 3, 4, 5 (b) 1, 3, 2, 4, 5
(c) 4, 2, 1, 5, 3 (d) 5, 1, 2, 4, 3

MP Police Constable Exam 25 July 2016 - 9:am

Ans : (b) दिये गये शब्दों का सार्थक क्रम निम्नलिखित है-
1. चाभी →3. ताला →2. दरवाजा →4. कमरा →5. स्विच खोलना। अतः अनुक्रम =1,3,2,4,5

40. Select the correct alternative to indicate the arrangement of the following words in a logical and meaningful order.

1. Karnataka **2. Bengaluru**
3. Asia **4. India**
5. World

तर्कसंगत और अर्थपूर्ण क्रम में निम्नलिखित शब्दों की व्यवस्था को इंगित करने के लिए सही विकल्प का चयन करें।

1. कर्नाटक **2. बेंगलुरु**
3. एशिया **4. भारत**
5. विश्व

(a) 1,5,4,3,2 (b) 2,3,4,1,5
(c) 3,4,2,1,5 (d) 2,1,4,3,5

MP Police Constable Exam- 19 August-2023 Shift-2

Ans. (d) : दिए गए शब्दों का अर्थपूर्ण क्रम निम्नवत् है-
बेंगलुरु → कर्नाटक → भारत → एशिया → विश्व
↓ ↓ ↓ ↓ ↓
(2) (1) (4) (3) (5)
अतः विकल्प (d) सही उत्तर होगा।

41. If the given words are arranged according to English dictionary, which word will be in third place?

दिए गए शब्दों को अंग्रेजी शब्दकोश के अनुसार क्रम में रखने पर कौन-सा शब्द तीसरे स्थान पर होगा?

1. KNOW **2. KNACK**
3. KNIT **4. KNOB**

(a) KNIT (b) KNACK
(c) KNOW (d) KNOB

MP Police Constable Exam- 19 August-2023 Shift-2

Ans. (d) : दिए गए शब्दों का अंग्रेजी शब्द कोश क्रम निम्नवत् है-
KNACK → KNIT → KNOB → KNOW
↓ ↓ ↓
I^{st} IInd IIIrd
अतः उपर्युक्त से स्पष्ट है कि तीसरे स्थान पर 'KNOB' होगा।

42. Which one of the given responses would be a meaningful order of the following words?

1. Nation **2. Village**
3. Taluk **4. District**
5. State

निम्नलिखित विकल्पों में से कौन-सा विकल्प नीचे दिए हुए शब्दों के सार्थक क्रम को दर्शाता है?

GET IT ON Google Play Best Study PDF के लिए हमारी App को Download करें "GK Trick By Nitin Gupta"

1. राष्ट्र 2. गांव
3. तालुक 4. जिला
5. राज्य

(a) 2, 3, 4, 1, 5 (b) 1, 3, 5, 4, 2
(c) 2, 3, 4, 5, 1 (d) 1, 2, 3, 4, 5

MP Police Constable Exam- 16 August-2023 Shift-3

Ans. (c) : शब्दो का सार्थक क्रम विकल्प (c) में दिया गया है।
(2) गांव → (3) तालुक → (4) जिला → (5) राज्य → (1) राष्ट्र

43. Find the odd word out.
असंगत शब्द का चयन कीजिए।

(a) Lucknow /लखनऊ (b) Varanasi /वाराणसी
(c) Haridwar /हरिद्वार (d) Kanpur /कानपुर

MP Police Constable Exam- 1 Sep-2023 Shift-1

Ans. (c) : लखनऊ, वाराणसी और कानपुर UP के जिले है, जबकि हरिद्वार उत्तराखण्ड का जिला है।
∴ विकल्प (c) अन्य से असंगत है।

44. Pick the odd one.
विषम चुनिए ?

(a) Punjab National Bank/पंजाब नेशनल बैंक
(b) Bank of India/बैंक ऑफ इंडिया
(c) Union Bank of India/यूनियन बैंक ऑफ इंडिया
(d) HDFC Bank/एचडीएफसी बैंक

MP Police Constable Exam- 5 Sep -2023 Shift-1

Ans. (d) : पंजाब नेशनल बैंक, बैंक ऑफ इंडिया और यूनियन बैंक ऑफ इंडिया सार्वजनिक बैंक हैं जबकि एचडीएफसी बैंक निजी बैंक है।

45. Select the option that is related to the third word in the same way as the second pair is related to the first pair.
उस विकल्प का चयन करें जो तीसरे शब्द से उसी प्रकार संबंधित है जैसे दूसरा युग्म पहले युग्म से संबंधित है।

Bhagirathi: Uttarakhand :: Shipra : ?
भागीरथी : उत्तराखंड :: शिप्रा : ?

(a) Bihar/बिहार
(b) Haryana/हरियाणा
(c) Odisha/ओडिशा
(d) Madhya Pradesh/मध्य प्रदेश

MP Police Constable Exam- 18 August-2023 Shift-1

Ans. (d) : जिस प्रकार भागीरथी नदी उत्तराखंड में बहती है, उसी प्रकार शिप्रा नदी मध्य प्रदेश में बहती है।

46. Select the option that is related to the third word in the same way as the second pair is related to the first pair.
उस विकल्प का चयन करें जो तीसरे शब्द से उसी प्रकार संबंधित है जैसे दूसरा युग्म पहले युग्म से संबंधित है।

Taka : Bangladesh :: Pound : ?
टका : बांग्लादेश : : पौंड : ?

(a) Iraq/इराक (b) England/इंग्लैंड
(c) Australia/ऑस्ट्रेलिया (d) USA/यूएसए

MP Police Constable Exam- 18 August-2023 Shift-1

Ans. (b) : जिस प्रकार बांग्लादेश की मुद्रा टका है, उसी प्रकार इंग्लैंड की मुद्रा पौंड है।

47. Find out the odd word/letters/number/number pair from the given alternatives.
दिए गए विकल्पों में से विषम शब्द/अक्षर/संख्या/संख्या के जोड़े का चुनाव करें।

(a) Pizza /पिज़्ज़ा (b) Jumbo /जंबो
(c) Fish /मछली (d) Crazy /पागल

MP Police Constable Exam- 9 Sep-2023 Shift-3

Ans. (c) : प्रश्नानुसार,
दिए गए विकल्पों में पिज्जा, जंबो एवं पागल स्थलीय जीव/वस्तु है जबकि मछली जलीय जीव है। जो कि इन सब में भिन्न हैं।
अतः विकल्प (c) सही उत्तर होगा।

48. Find the related word from the given alternatives.
दिए गए विकल्पों से संबंधित शब्द का चयन करें।

Fire : Fireplace
आग : चिमनी

(a) Book : Cover /पुस्तक : आवरण
(b) Kerosene : Matchstick /केरोसिन : मैचस्टिक
(c) Room : House /कमरा : घर
(d) Pencil : Eraser /पेंसिल : रबड़

MP Police Constable Exam- 18 August-2023 Shift-1

Ans. (c) : जिस प्रकार आग, चिमनी के अंदर होती है, उसी प्रकार कमरा घर के अंदर होता है।

49. Find the odd word out.
असंगत शब्द का चयन कीजिए।

(a) English/अंग्रेजी
(b) Hindi/हिंदी
(c) Malayalam/मलयालम
(d) Physical Education/शारीरिक शिक्षा

MP Police Constable Exam- 28 August-2023 Shift-3

Ans. (d) : अंग्रेजी, हिन्दी और मलयालम ये भाषाएं है, जबकि शारीरिक शिक्षा स्वस्थ और सक्रिय जीवन जीने के लिए जरूरी गतिविधियों को करने में सक्षम बनाना होता है। अतः विकल्प (d) अन्य से असंगत है।

50. Select the option that gives the correct explanation for the following group of words.
Bridge, Link, Chain
उस विकल्प का चयन कीजिए जो निम्नलिखित शब्द-समूह की सही व्याख्या करता है।
पुल, कुड़ी, शृंखला

(a) They join two parts./ये दो हिस्सों को जोड़ते हैं।
(b) They are suits of cards./ये ताश के पत्ते हैं।
(c) They are types of medals./ये पदकों के प्रकार हैं।
(d) They are jewels./ये गहने हैं।

MP Police Constable Exam- 25 August-2023 Shift-2

Ans. (a) : पुल, कुड़ी, शृंखला
उपर्युक्त समूह दो हिस्सों को जोड़ते है।
अतः विकल्प (a) सही है।

51. Select the option that is related to the third word in the same way as the second pair is related to the first pair.
उस विकल्प का चयन करें जो तीसरे शब्द से उसी प्रकार संबंधित है जैसे दूसरा युग्म पहले युग्म से संबंधित है।

GET IT ON Google Play Best Study PDF के लिए हमारी App को Download करें "GK Trick By Nitin Gupta"

Rose : Flower :: Apple : ?
गुलाब : फूल :: सेब : ?

(a) Vegetable/सब्जी (b) Fruit/फल
(c) Plywood/प्लाईवुड (d) Juice/रस

MP Police Constable Exam- 18 August-2023 Shift-3

Ans. (b) : जिस प्रकार गुलाब फूल होता है उसी प्रकार सेब फल होता है।

52. Select the option that is related to the third word in the same way as the second pair is related to the first pair.
उस विकल्प का चयन करें जो तीसरे शब्द से उसी प्रकार संबंधित है जैसे दूसरा युग्म पहले युग्म से संबंधित है।

Karnataka : Yakshagana :: Assam : ?
कर्नाटक : यक्षगान :: असम : ?

(a) Mohiniyattam/मोहिनीअट्टम
(b) Ghoomar/घूमर
(c) Bihu/बिहु
(d) Gidda/गिद्दा

MP Police Constable Exam- 18 August-2023 Shift-3

Ans. (c) : जिस प्रकार कर्नाटक राज्य का लोक नृत्य यक्षगान है उसी प्रकार असम राज्य का लोक नृत्य बिहु है।

53. 'Stone' is related 'Hard' in the same way as 'Feather' is related to
'पत्थर' संबंधित है 'ठोस' से उसी प्रकार से जिस तरह 'पंख' संबंधित है इससे

(a) White/सफेद (b) Bird/चिड़िया
(c) Soft/मुलायम (d) Fly/उड़ना

MP Police Constable Exam 23 July 2016 - 9:am

Ans : (c) जिस प्रकार 'पत्थर' 'ठोस' होता है।, उसी प्रकार 'पंख' 'मुलायम' होता है।

54. Select the Lettered pair that has the same relationship as given in the questions:
Cells : Cytology ?
उस अक्षर युग्म का चयन करें जिसक संबंध प्रश्नों में दिए गए समान संबंध से है:
कोशिका : कोशिका विज्ञान ?

(a) Worms : Ornithology/कीड़े : पक्षीविज्ञान
(b) Insects : Entomology/कीड़े : कीट विज्ञान
(c) Diseases : Physiology/रोग : शरीर क्रिया विज्ञान
(d) Tissues : Morphology/ऊतक : आकृति विज्ञान

MP Police Constable Exam- 09 Feb-2022 Shift-1

Ans. (b) : जिस प्रकार कोशिका का अध्ययन कोशिका विज्ञान के अन्तर्गत किया जाता है, उसी प्रकार 'कीट' का अध्ययन 'कीट विज्ञान' के अन्तर्गत किया जाता है।

55. Find out the pair which is different from the other in the following question.
निम्न प्रश्न में वह युग्म ज्ञात कीजिये जो शेष से अलग है।

(a) Elephants and Trumpet/हाथी और चिंघाड़ना
(b) Horses and heigh/घोड़े और हिनहिनाना
(c) Camels and Roar/ऊँट और दहाड़ना
(d) Dogs and bark/कुत्ते और भौंकना

MP Police Constable Exam- 26 July-2016 - 9: am

Ans : (c) हाथी, घोड़े और कुत्ते के अवाज को क्रमशः चिंघाड़ना, हिनहिनाना और भौंकना कहते हैं। जबकि दहाड़ना शेर की अवाज है न कि ऊँट की आवाज है।

56. Choose a word from the given alternatives that belongs to the following group of three related words :
दिये गये विकल्पों में से एक शब्द चुनिए जो कि तीन सम्बन्धित शब्दों के निम्नलिखित समूह में आता है:

Jute, Cotton, Wool
जूट, कॉटन, वुल

(a) Terylene/टेरीलीन (b) Silk/सिल्क
(c) Rayon/रेयॉन (d) Nylon/नायलोन

MP Police Constable Recruitment Test - 2013

Ans. (b) : जिस प्रकार जूट, कॉटन, वुल प्राकृतिक रेशे हैं उसी प्रकार सिल्क भी प्राकृतिक रेशा है।
अतः विकल्प (b) सही उत्तर है

57. Identify the odd one out./विषम पहचानें:

(a) Ganga/गंगा (b) Mahanadi/महानदी
(c) Godavari/गोदावरी (d) Krishna/कृष्णा

MP Police Constable Exam- 18 July-2016 - 9: am

Ans : (a) महानदी, गोदावरी और कृष्णा ये तीनों प्रायद्वीपीय भारत की नदियाँ हैं और गंगा उत्तर भारत की नदी है। चारों नदियाँ डेल्टा का निर्माण करती हैं। कृष्णा-गोदावरी का डेल्टा गंगा-ब्रह्मपुत्र डेल्टा के बाद भारत में दूसरा सबसे बड़ा डेल्टा है। हालांकि उत्तर पुस्तिका में उत्तर (c) दिया गया है।

58. As 'Friend' is to 'friendly', 'opponent' is to–
जैसे 'दोस्त' कहें तो 'स्नेहशील', 'विरोधी' कहें तो

(a) Enemy/दुश्मन (b) Hostile/शत्रुतापूर्ण
(c) Defeat/हार (d) Contest/लड़ाई

MP Police Constable Exam 24 July 2016 - 9:am

Ans : (b) जिस प्रकार दोस्त का संबंध स्नेहशील से है।
उसी प्रकार विरोधी का संबंध शत्रुतापूर्ण से है।

59. In the following question, four words are given, out of which three are same in certain way and the remaining one is different. Find out the different one.
निम्न प्रश्न में, चार शब्द दिये गये हैं, जिनमें से तीन किसी प्रकार से समान हैं और बाकी एक अलग है। अलग वाला ज्ञात कीजिये।

(a) Mango/आम (b) Lemon/नींबू
(c) Pear/नाशपाती (d) Orange/नारंगी

MP Police Constable Exam 24 July 2016 - 9:am

Ans : (c) नाशपाती एक असत्य फल (False fruit) है क्योंकि यह सम्पूर्ण पुष्पासन से बनता है जबकि आम, नीबू तथा नारंगी सत्य फल है जो अण्डाशय (Ovary) से विकसित होता है

60. Find out the pair which is different from the other in the following question.
निम्न प्रश्न में वह युग्म ज्ञात कीजिये जो शेष से अलग है।

(a) Sister and Brother/बहन और भाई
(b) Uncle and Aunt/चाचा और चाची
(c) Grandfather and Grandson/दादा और पोता
(d) Father in law and son in law/ससुर और दामाद

MP Police Constable Exam 17 July 2016 - 9:am

Ans : (b) दिये गये विकल्पों में से विकल्प (b) शादी-शुदा जोड़े है। जबकि अन्य में ऐसा नहीं है।

GET IT ON Google Play Best Study PDF के लिए हमारी App को Download करें "GK Trick By Nitin Gupta"

61. Which of the following belongs to the same family as Basket, Pail and Pan?
निम्न में से कौन-से उसी परिवार से संबंधित हैं जैसे कि टोकरी, बाल्टी और पैन?

(a) Knife/छूरी (b) Spoon/चम्मच
(c) Fork/कांटा (d) Bowl/कटोरी

MP Police Constable Exam 17 July 2016 - 9:am

Ans : (d) जिस प्रकार, टोकरी, बाल्टी और पैन किसी वस्तु को रखने के लिए प्रयोग में लायी जाती है। उसी प्रकार कटोरी भी किसी वस्तु को रखने हेतु प्रयोग में लायी जाती है।

62. Find out the pair which is different from the other in the following question.
निम्न प्रश्न में वह युग्म ज्ञात कीजिये जो शेष से अलग है

(a) Black and white/काला और सफेद
(b) In and out/अंदर और बाहर
(c) Weapons and arms/शस्त्र और हथियार
(d) High and low/ऊँचा और नीचा

MP Police Constable Exam 17 July 2016 - 12:am

Ans. (c) दिए गए विकल्प में काला और सफेद, अंदर और बाहर, ऊँचा और नीचा क्रमशः एक दूसरे के विपरीत है जबकि शस्त्र और हथियार विपरीत नहीं है अतः विकल्प (c) अन्य सभी से भिन्न है।

63. Select the odd one out.
विषम शब्द का चयन करें।

(a) CAR/कार
(b) BUS/बस
(c) COOLER/कूलर
(d) TRAIN/रेलगाड़ी

MP Police Constable Exam- 6 Sep-2023 Shift-2

Ans. (c) : कूलर को छोड़कर अन्य सभी यात्रा करने में सहायक साधन हैं। जबकि कूलर वातानुकूलित करने का काम करता है।

Type-2: अंग्रेजी वर्णमाला के अक्षरों तथा प्रतीकों पर आधारित वर्गीकरण

64. From the given alternative words, select the word which cannot be formed using the letters of the given word.
दिए गए वैकल्पिक शब्दों में से वह शब्द चुनिए जो दिए गए शब्द के अक्षरों का प्रयोग करके नहीं बनाया जा सकता।

BACTERIUM

(a) TEAM (b) ACTOR
(c) BEAT (d) MEAT

MP Police Constable Exam- 31 August-2023 Shift-2

Ans. (b) : दिए गए BACTERIUM शब्द से ACTOR शब्द नहीं बनाया जा सकता है क्योंकि BACTERIUM शब्द में 'O' अक्षर नहीं है।

65. From the given alternative word, select the word which cannot be formed using letters of given word?
दिए गए विकल्पों में उस विकल्प का चयन कीजिए जिसे दिए गए शब्द के वर्णों से नहीं बनाया जा सकता है?

NOSTALGIA

(a) TAIL (b) STAG
(c) STOLE (d) NAIL

MP Police Constable Exam- 6 Sep-2023 Shift-2

Ans. (c) : 'STOLE' यह शब्द 'NOSTALGIA' के अक्षरों से नहीं बनाया जा सकता क्योंकि 'STOLE' में 'E' अक्षर जो कि मूल शब्द में मौजूद नहीं है।

66. Find the odd one ?
विषम को पहचानें ?

(a) AEI (b) RVZ
(c) JNR (d) HLO

MP Police Constable Exam- 31 August-2023 Shift-3

Ans. (d) : विकल्पों की जाँच करने पर–

(a) $A \xrightarrow{+4} E \xrightarrow{+4} I$
(b) $R \xrightarrow{+4} V \xrightarrow{+4} Z$
(c) $J \xrightarrow{+4} N \xrightarrow{+4} R$
(d) $H \xrightarrow{+4} L \xrightarrow{+4} P \neq O$ (असंगत)

अतः अक्षर 'HLO' श्रेणी से संबंधित नहीं है।

67. Pick the odd one:
विषम चुनिए

(a) EIM (b) FJN
(c) GKQ (d) LPT

MP Police Constable Exam- 5 Sep-2023 Shift-2

Ans. (c) : दिए गए विकल्पों में विषम निम्नलिखित हैं।

(a) E I M (+4, +4)
(b) F J N (+4, +4)
(c) G K Q (+4, +6)
(d) L P T (+4, +4)

अतः विकल्प (c) विषम है।

68. Study the following information carefully to answer the questions given below
निम्नलिखित जानकारी का ध्यानपूर्वक अध्ययनकर नीचे दिये गये प्रश्नों के उत्तर दीजिए ?

W 1 Y @ U P 7 B * H ! L O & V M % 8 A K ^ Q 9 E 0 # J C < 2 T 3 $ S D

Three of the following four are alike in a certain way based on their position, which of the following does not belongs to that group ?
निम्नलिखित चार में से तीन किसी प्रकार से एक समान हैं और अपना समूह बनाते हैं। वह कौन है जो इस समूह में शामिल नहीं है ?

(a) WYU (b) HL&
(c) M8K (d) Q9E

MP Police Constable Exam- 4 Sep-2023 Shift-3

Ans. (d) : दिये गये शृंखला में विकल्प (d) 'Q9E' समूह में शामिल नहीं है, क्योंकि यह शृंखला के लगातार संख्या-अक्षर समूह है। जबकि अन्य लगातार संख्या-अक्षर-प्रतीकों का समूह नहीं है। अतः विकल्प (d) सही उत्तर है।

69. Select the odd one out.
विषम शब्द का चयन करें।

(a) HL (b) LP
(c) TX (d) NK

MP Police Constable Exam- 12 Sep-2023 Shift-1

GET IT ON Google Play Best Study PDF के लिए हमारी App को Download करें "GK Trick By Nitin Gupta"

Ans. (d) : प्रश्नानुसार,

(a) H L (+4) (b) L P (+4)

(c) T X (+4) (d) N K (−3)

अतः स्पष्ट है विकल्प (d) NK विषम है।

70. Select the odd one out.
विषम शब्द का चयन करें।

GZ IX KV NT

(a) NT (b) IX
(c) GZ (d) KV

MP Police Constable Exam- 10 Sep-2023 Shift-2

Ans. (a) : प्रश्नानुसार,

−2 −2 −2

G Z I X K V [N T]

+2 +2 +3

अतः स्पष्ट है कि 'NT' विषम शब्द है।

71. Select the odd one out.
विषम शब्द का चयन करें।

AC BD CE DI

(a) AC (b) BD
(c) CE (d) DI

MP Police Constable Exam- 10 Sep-2023 Shift-2

Ans. (d) : प्रश्नानुसार,

A C B D C E D I

+2 +2 +2 +5

अतः स्पष्ट है कि DI विषम शब्द है।

72. Choose the group of letter which is different from other.
अक्षरों के उस समूह को चुनिए जो अन्य से भिन्न है।

(a) EFH (b) NOQ
(c) TVW (d) FGI

MP Police Constable Exam- 02 Feb-2022 Shift-1

Ans. (c) : दिए गए विकल्पों से,

(a) $E \xrightarrow{+1} F \xrightarrow{+2} H$

(b) $N \xrightarrow{+1} O \xrightarrow{+2} Q$

(c) $T \xrightarrow{+2} V \xrightarrow{+1} W$

(d) $F \xrightarrow{+1} G \xrightarrow{+2} I$

अतः स्पष्ट कि विकल्प (c) अन्य विकल्प के समूहों से भिन्न है।

73. The series given below contains a sequence of alphabets, numbers and symbols. Identify the incorrect combination:
नीचे दी गई श्रृंखला अक्षरों एवं संख्याओं का अनुक्रम प्रयोग करती है। गलत संयोजन पहचानिये।

(a) hd@y3*sx0$3a (b) hd@y3*sxo$3a
(c) hd@y3*sx0$3a (d) hd@y3*sx0$3a

MP Police Constable Exam- 20 July-2016 - 9: am

Ans : (b) विकल्प (b) में 'sx' के बाद 'o' अक्षर का प्रयोग किया गया है जबकि अन्य में शून्य का प्रयोग किया गया है। अतः विकल्प (b) में गलत संयोजन है।

Type-3: संख्या/संख्या-युग्म पर आधारित वर्गीकरण

74. Select the odd word/letters/ number from the given alternatives.
दिए गए विकल्पों में से विषम शब्द/अक्षरों/संख्या को चुनिए।

(a) 52-61 (b) 43-54
(c) 72-83 (d) 18-29

Ans. (a) : विकल्पों की जाँच करने पर–

(a) 52 — 63≠61 (विषम) (+11) (b) 43 — 54 (+11)

(c) 72 — 83 (+11) (d) 18 — 29 (+11)

अतः विकल्प (a) असंगत है।

75. Find the odd number out.
असंगत संख्या का चयन कीजिए।

(a) 3-27 (b) 7-343
(c) 9-243 (d) 11-1331

MP Police Constable Exam- 4 Sep-2023 Shift-3

Ans. (c) : विकल्पों से,

(a) 3 — 27, $3^3 = 27$ (b) 7 — 343, $7^3 = 343$

(c) 9 — 243, $9^3 = 729 \neq 243$ (विषम) (d) 11 — 1331, 11^3 1331

उपर्युक्त व्याख्या से स्पष्ट है कि विकल्प (c) अन्य से विषम/असंगत है।

76. Select the odd word/letters/ number from the given alternatives.
दिए गए विकल्पों में से विषम शब्द/अक्षरों/संख्या को चुनिए।

(a) 52-61 (b) 43-54
(c) 72-83 (d) 18-29

MP Police Constable Exam- 24 August-2023 Shift-3

Ans. (a) : विकल्पों की जाँच करने पर–

(a) 52 — 63≠61 (विषम) (+11) (b) 43 — 54 (+11)

(c) 72 — 83 (+11) (d) 18 — 29 (+11)

अतः विकल्प (a) असंगत है।

77. Choose the numbers which is different from others in the group ?
दिए गए समूह में से विषम संख्या का चयन करें ?

(a) 3-9 (b) 8-65
(c) 7-49 (d) 13-169

MP Police Constable Exam- 24 August-2023 Shift-3

GET IT ON Google Play Best Study PDF के लिए हमारी App को Download करें "GK Trick By Nitin Gupta"

Ans. (b) : विकल्पों की जाँच करने पर–

(a) $3 — 9$ → $(3)^2 — 9$

(b) $8 — 65$ → $(8)^2 — 64 \neq 65$ (विषम)

(c) $7 — 49$ → $(7)^2 — 49$

(d) $13 — 169$ → $(13)^2 — 169$

अतः विकल्प (b) विषम संख्या है।

78. Three of the following four number-pairs are alike in a certain way and one is different. Find the odd one out.
चार में से तीन नंबर-जोड़े एक निश्चित तरीके से एक जैसे हैं और एक अलग है। विषम चुनें।

(a) 17–136 (b) 23–135
(c) 13–104 (d) 7–56

MP Police Constable Exam- 09 Feb-2022 Shift-1

Ans. (b) : विकल्पों की जाँच करने पर,

(a) $17 — 136 \Rightarrow 17 \times 8 = 136$
(b) $23 — 135 \Rightarrow 23 \times 8 = 184 \neq 135$ (विषम)
(c) $13 — 104 \Rightarrow 13 \times 8 = 104$
(d) $7 — 56 \Rightarrow 7 \times 8 = 56$

अतः स्पष्ट है कि विकल्प (b) अन्य विकल्पों से भिन्न है।

79. Choose the set of numbers from the four alternatives which is similar to the given set:
चार विकल्पों में से अंकों के उस समुच्चय को चुनिए जो कि दिये गये समुच्चय के जैसा ही (समान) है:
(6, 13, 22)

(a) (6, 13, 27) (b) (10, 16, 28)
(c) (11, 18, 27) (d) (13, 19, 27)

MP Police Constable Recruitment Test - 2013

Ans. (c) : जिस प्रकार,

(6, 12, 22) = 6 13 22
+7 +9
+2

उसी प्रकार,
विकल्प (c) से,

(11, 18, 27) = 11 18 27
+7 +9
+2

अतः विकल्प (c) सही उत्तर है।

80. Three of the following four number-pairs are alike in a certain way and one is different. Pick the odd one out.
निम्नलिखित चार संख्या-युग्मों में से तीन युग्म किसी प्रकार एकसमान हैं और एक युग्म असमान है। असमान संख्या-युग्म का चयन कीजिए।

(a) 65 – 101 (b) 26–50
(c) 17–37 (d) 49–82

MP Police Constable Exam- 21 August-2023 Shift-3

Ans. (d) : विकल्पों की जाँच करने पर-

(a) 65 – 101 → $(8)^2+1$ $(10)^2+1$ (+2)

(b) 26 – 50 → $(5)^2+1$ $(7)^2+1$ (+2)

(c) 17 – 37 → $(4)^2+1$ $(6)^2+1$ (+2)

(d) 49 – 82 (असंगत) → $(7)^2$ $(9)^2+1$ (+2)

अतः विकल्प (d) असमान संख्या-युग्म है।

81. Three of the following four number-pairs are alike in a certain way and one is different. Pick the odd one out.
निम्नलिखित चार संख्या-युग्मों में से तीन युग्म किसी प्रकार एकसमान हैं और एक युग्म असमान है। असमान संख्या-युग्म का चयन कीजिए।

(a) 8 : 69 (b) 13 : 179
(c) 12 : 149 (d) 14 : 201

MP Police Constable Exam- 21 August-2023 Shift-3

Ans. (b) : विकल्पों की जाँच करने पर-

(a) $8 : 69 \Rightarrow (8)^2 + 5 = 64 + 5 = 69$

(b) $13 : 179 \Rightarrow (13)^2 + 10 = 169 + 10 = 179$ (असंगत)

(c) $12 : 149 \Rightarrow (12)^2 + 5 = 144 + 5 = 149$

(d) $14 : 201 \Rightarrow (14)^2 + 5 = 196 + 5 = 201$

अतः विकल्प (b) असमान संख्या-युग्म है।

82. Select the odd word/letters/ number from the given alternatives.
दिए गए विकल्पों में से विषम शब्द/अक्षरों/संख्या को चुनिए।

(a) 140 – 45 (b) 110 – 35
(c) 100 – 30 (d) 80 – 25

MP Police Constable Exam- 21 August-2023 Shift-3

Ans. (c) : विकल्पों की जाँच करने पर-

(a) $140 - 45 \Rightarrow (45 \times 3) + 5 = 140$

(b) $110 - 35 \Rightarrow (35 \times 3) + 5 = 110$

(c) $100 - 30 \Rightarrow (30 \times 3) + 10 = 100$ (असंगत)

(d) $80 - 25 \Rightarrow (25 \times 3) + 5 = 80$

अतः विकल्प (c) असंगत है।

83. Select the option that is most like the given set.
दिए गए विकल्पों में से उस संख्या-समूह का चयन कीजिए जो दिए गए समूह की तरह समान है।
(3, 15, 123)

(a) (2, 215, 125) (b) (5, 36, 341)
(c) (4, 24, 214) (d) (8, 63, 998)

MP Police Constable Exam- 16 August-2023 Shift-2

GET IT ON Google Play Best Study PDF के लिए हमारी App को Download करें "GK Trick By Nitin Gupta"

Ans. (c) : जिस प्रकार,

$(3, 15, 123) = (15 \div 3)^3 - 2 = 123$

उसी प्रकार,

विकल्प (c) से,

$(4, 24, 214) = (24 \div 4)^3 - 2 = 214$

अतः विकल्प (c) सही उत्तर है।

84. The series given below contains a sequence of alphabets and numbers. Identify the incorrect combination:

नीचे दी गई श्रृंखला अक्षरों एवं संख्याओं का अनुक्रम प्रयोग करती है। गलत संयोजन पहचानिये।

(a) HS8P8AH8CSD (b) HS8PA8H8CSD

(c) HS8PA8H8CSD (d) HS8PA8H8CSD

MP Police Constable Exam 17 July 2016 - 12:am

Ans. (a) दी गई श्रृंखला अक्षरों एवं संख्याओं के अनुक्रम में विकल्प (a) गलत संयोजन है। अन्य सभी विकल्पों में अनुक्रम समान (एक जैसा) है।

85. In the following question, select the odd number pair from the given alternatives.

निम्नलिखित प्रश्न में दिए गए विकल्पों में से विषम संख्या युग्म को चुनिए।

(a) 38 - 77 (b) 49 - 99

(c) 31 - 64 (d) 42 - 85

MP Police Constable Exam- 31 August-2023 Shift-3

Ans. (c) : विकल्पों की जाँच करने पर–

(a) 38 —— 77 ($\times 2+1$)

(b) 49 —— 99 ($\times 2+1$)

(c) 31 —— 69≠64 (असंगत) ($\times 2+1$)

(d) 42 —— 85 ($\times 2+1$)

अतः विकल्प (c) विषम है।

86. Choose the numbers which is different from others in the group ?

दिए गए समूह में से विषम संख्या का चयन करें ?

(a) 8, 6, 24 (b) 12, 3, 12

(c) 8, 2, 2 (d) 18, 24, 72

MP Police Constable Exam- 24 August-2023 Shift-2

Ans. (c) : नियम :- सभी तीनों संख्याओं को उसके उभयनिष्ठ गुणज से भाग देने पर और पहली व दूसरी संख्या करने पर तीसरी संख्या आयेगी।

(a) (8, 6, 24) ⇒ उभयनिष्ठ गुणज = 2

$$\frac{8}{2}, \frac{6}{2}, \frac{24}{2} = (4, 3, 12) \Rightarrow 4\times3 = 12$$

(b) (12, 3, 12) ⇒ उभयनिष्ठ गुणज = 3

$$\frac{12}{3}, \frac{3}{3}, \frac{12}{3} = (4, 1, 4) \Rightarrow 4\times1 = 4$$

(c) (8, 2, 2) ⇒ उभयनिष्ठ गुणज = 2

$$\frac{8}{2}, \frac{2}{2}, \frac{2}{2} = (4, 1, 1) \Rightarrow 4\times1 = 4 \neq 1$$

(असंगत)

(d) (18, 24, 72) ⇒ उभयनिष्ठ गुणज = 6

$$\frac{18}{6}, \frac{24}{6}, \frac{72}{6} = (3, 4, 12) \Rightarrow 3\times4 = 12$$

अतः विकल्प (C) सही हैं।

87. Find the odd word/letters/ number from the given alternatives.

दिए गए विकल्पों में से विषम शब्द/अक्षरों/संख्या को चुनिए।

(a) 5 – 21 (b) 29 – 45

(c) 48 – 68 (d) 71 – 87

MP Police Constable Exam- 24 August-2023 Shift-2

Ans. (c) : विकल्पों की जाँच करने पर–

(a) 5 – 21
तर्क → 5 + 16 = 21

(b) 29 – 45
तर्क → 29 + 16 = 45

(c) 48 – 68
तर्क → 48 + 20 = 68 (असंगत)

(d) 71 – 87
तर्क → 71 + 16 = 87

अतः विकल्प (c) असंगत (विषम) है।

88. In the following question, select the odd number from the given alternatives.

निम्नलिखित प्रश्न में दिए गए विकल्पों में से विषम संख्या का चयन कीजिए।

(a) 220 (b) 289

(c) 676 (d) 961

MP Police Constable Exam- 29 August-2023 Shift-2

Ans. (a) :

(a) $\sqrt{220}$ (c) $\sqrt{676} = 26$

(b) $\sqrt{289} = 17$ (d) $\sqrt{961} = 31$

विकल्प 'a' को छोड़कर बाकी दिए गए सारे विकल्प का वर्गमूल अपरिमेय है।

89. For the following questions Find the odd word/letters/number pair from the given alternatives.

इस प्रश्न में दिए गए विकल्पों में से विषम शब्द/अक्षर/संख्या युग्म चुनिए ?

(a) 65 - 90 (b) 73 - 97

(c) 112 - 137 (d) 162 - 187

MP Police Constable Exam- 25 August-2023 Shift-3

Ans. (b) : दिए गए विकल्पों से–

(a) 65 - 90 = 90 – 65 = 25

(b) 73 - 97 = 97 – 73 = 24 (विषम)

(c) 112 - 137 = 137 – 112 = 25

(d) 162 - 187 = 187 – 162 = 25

अतः विकल्प (b) अन्य से विषम है।

90. Choose the numbers which is different from others in the group ?

दिए गए समूह में से विषम संख्या का चयन करें ?

(a) 1, 2, 9 (b) 3, 5, 52

(c) 1, 4, 17 (d) 7, 2, 347

MP Police Constable Exam- 25 August-2023 Shift-3

GET IT ON Google Play Best Study PDF के लिए हमारी App को Download करें "GK Trick By Nitin Gupta"

Ans. (a) : दिए गए विकल्पों से–

(a) 1, 2, 9 $\Rightarrow 1^3 + 2^2 = 1 + 4 = 5 \neq 9$ (विषम)

(b) 3, 5, 52 $\Rightarrow 3^3 + 5^2 = 27 + 25 = 52$

(c) 1, 4, 17 $\Rightarrow 1^3 + 4^2 = 1 + 16 = 17$

(d) 7, 2, 347 $\Rightarrow 7^3 + 2^2 = 343 + 4 = 347$

अतः विकल्प (a) अन्य से विषम है।

91. In the following question, select the odd number from the given alternatives.
निम्नलिखित प्रश्न में दिए गए विकल्पों में से विषम संख्या का चयन कीजिए।

(a) 13 (b) 55
(c) 39 (d) 52

MP Police Constable Exam- 28 August-2023 Shift-2

Ans. (b) : दिए गए विकल्पों में विकल्प (b) भिन्न है क्योंकि यह संख्या 13 का गुणज नहीं है, जबकि शेष संख्याएँ 13 के गुणज के रूप में हैं।

अतः विकल्प (b) असंगत है।

92. In the following question, select the odd number from the given alternatives.
निम्नलिखित प्रश्न में दिए गए विकल्पों में से विषम संख्या का चयन कीजिए।

(a) 98 (b) 52
(c) 70 (d) 28

MP Police Constable Exam- 27 August-2023 Shift-1

Ans. (b) : दिये गये विकल्पों में संख्या 28, 70 तथा 98, 14 के गुणज है जबकि संख्या 52, 14 का गुणज नहीं है अतः विकल्प (b) अन्य से विषम है।

93. Choose the numbers which is different from others in the group ?
दिए गए समूह में से विषम संख्या का चयन करे ?

(a) 3, 9, 81 (b) 5, 25, 625
(c) 4, 16, 64 (d) 2, 4, 16

MP Police Constable Exam- 27 August-2023 Shift-1

Ans. (c) : विकल्पों की जाँच करने पर–

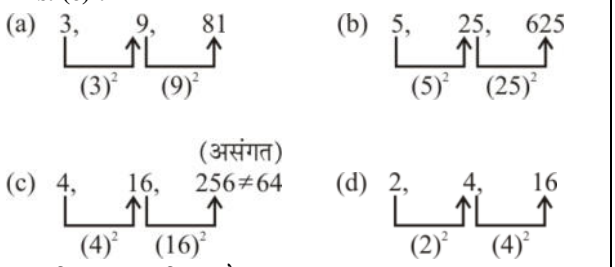

अतः विकल्प (c) विषम है।

94. Three of the following four number-pairs are alike in a certain way and one is different. Find the odd one out.
निम्नलिखित चार संख्या-युग्म में से तीन एक निश्चित तरीके से संबंधित है एक भिन्न है विषम को चुने।

(a) 10:25 (b) 78:20
(c) 18:81 (d) 12:36

MP Police Constable Exam- 19 August-2023 Shift-2

Ans. (b) : प्रश्नानुसार,
दिए गए विकल्पों से-
विकल्प

(a) $10 : 25 \rightarrow 5 \times 2 : (5)^2$

(b) $78 : 20 \rightarrow 78 : 20$ (विषम)

(c) $18 : 81 \rightarrow 9 \times 2 : (9)^2$

(d) $12 : 36 \rightarrow 6 \times 2 : (6)^2$

अतः विकल्प (b) अन्य से भिन्न है।

95. Three of the following four options are similar in a certain way and one is different. Find the one that is different.
निम्नलिखित चार विकल्पों में से तीन विकल्प एक निश्चित तरीके से एक समान है और एक असमान है। विषम को चुने।

(a) 6-36-216 (b) 10-100-1000
(c) 3-6-27 (d) 5-25-125

MP Police Constable Exam- 19 August-2023 Shift-2

Ans. (c) : प्रश्नानुसार,
दिए गए विकल्पों से-
विकल्प

(a) $6 - 36 - 216 \rightarrow (6)^1 - (6)^2 - (6)^3$

(b) $10 - 100 - 1000 \rightarrow (10)^1 - (10)^2 - (10)^3$

(c) $3 - 6 - 27 \rightarrow (3)^1 - 3 \times 2 - (3)^3$ (असमान)

(d) $5 - 25 - 125 \rightarrow (5)^1 - (5)^2 - (5)^3$

अतः विकल्प (c) अन्य से भिन्न है।

96. Find the odd number out.
असंगत संख्या का चयन कीजिए।

(a) 8 (b) 27
(c) 64 (d) 225

MP Police Constable Exam- 2 Sep-2023 Shift-3

Ans. (d) : विकल्पों से–

a) $8 = 2^3$

b) $27 = 3^3$

c) $64 = 4^3$

d) $225 = 15^2$ (विषम)

अतः विकल्प (d) भिन्न है।

97. In the following question, select the odd number pair from the given alternatives.
निम्नलिखित प्रश्न में दिए गए विकल्पों में से विषम संख्या युग्म को चुनिए।

(a) 48 - 56 (b) 21 - 24
(c) 63 - 72 (d) 77 - 88

MP Police Constable Exam- 5 Sep-2023 Shift-2

Ans. (a) : चूँकि विकल्प (a) में दी गई संख्या-युग्म में दोनों सम संख्याएं है, जबकि अन्य विकल्पों में संख्या-युग्म, विषम तथा सम संख्याओं के जोड़े हैं। अतः विकल्प (a) में दी गयी संख्या-युग्म अन्य सभी से भिन्न है।

98. Choose the numbers which is different from others in the group?
दिए गए समूह में से विषम संख्या का चयन करें ?

(a) 2-32 (b) 3-54
(c) 7-2401 (d) 5-3125

MP Police Constable Exam- 23 August-2023 Shift-3

GET IT ON Google Play Best Study PDF के लिए हमारी App को Download करें "GK Trick By Nitin Gupta"

Ans. (b) : दी गई श्रृंखला में विषम संख्या निम्न है–
विकल्पों की जाँच करने पर–
(a) $2 - 32 \rightarrow 2^5 = 32$
(b) 3 – 54 (3 की घात के रूप में नहीं लिखा जा सकता है। (असत्य))
(c) $7 - 2401 \rightarrow 7^4 = 2401$
(d) $5 - 3125 \rightarrow 5^5 = 3125$
अतः विकल्प (b) विषम होगा।

99. Select the odd word/letters/number/number pair from the given alternatives.
दिए गए विकल्पों में से विषम शब्द/अक्षर/संख्या युग्म को चुनिए।
(a) 11 (b) 17
(c) 19 (d) 15

MP Police Constable Exam- 26 August-2023 Shift-3

Ans. (d) : दिए गए विकल्पों में 15 भाज्य है। जबकि 11, 17, 19 अभाज्य संख्याएँ है।

100. In the following question, select the odd number from the given alternatives.
निम्नलिखित प्रश्न में दिए गए विकल्पों में से विषम संख्या का चयन कीजिए।
(a) 81 (b) 97
(c) 53 (d) 59

MP Police Constable Exam- 26 August-2023 Shift-3

Ans. (a) : दिए गए विकल्पों में 81 भाज्य संख्या है जबकि 97, 53, 59 अभाज्य संख्याएं हैं।

101. Select the option that is most like the given set.
दिए गए विकल्पों में से उस संख्या-समूह का चयन कीजिए जो दिए गए समूह की तरह समान है।
(23, 136, 45)
(a) (29, 78, 11) (b) (31, 126, 37)
(c) (17, 50, 33) (d) (19, 96, 29)

MP Police Constable Exam- 16 August-2023 Shift-1

Ans. (d) : प्रश्नानुसार–
जिस प्रकार –
$(23+45)\times 2 = 136$
उसी प्रकार –
$(19+29)\times 2 = 96$

102. Three of the following four number-pairs are alike in a certain way and one is different. Pick the odd one out.
निम्नलिखित चार संख्या-युग्मों में से तीन युग्म किसी प्रकार एकसमान हैं और एक युग्म असमान है। उस असमान संख्या-युग्म का चयन कीजिए।
(a) 7 – 126 (b) 9 – 164
(c) 13 – 234 (d) 11 – 198

MP Police Constable Exam- 23 August-2023 Shift-2

Ans. (b) : (a) $7 \times 18 = 126$ (c) $13 \times 18 = 234$
(b) $9 \times 18 \neq 164$ (d) $11 \times 18 = 198$
अतः विकल्प (b) असमान युग्म है।

103. Find the odd word/letters/number from the given alternatives.
दिए गए विकल्पों में से विषम शब्द/अक्षरों/संख्या को चुनिए।
(a) (3, 12) (b) (2, 6)
(c) (6, 42) (d) (5, 35)

MP Police Constable Exam- 23 August-2023 Shift-2

Ans. (d) :
(a) $3 \overset{+1}{\times} 4 = 12$ (b) $2 \overset{+1}{\times} 3 = 6$
(c) $6 \overset{+1}{\times} 7 = 42$ (d) $5 \overset{+1}{\times} 6 \neq 35$
अतः विकल्प (d) विषम है।

104. Choose the numbers which is different from others in the group ?
दिए गए समूह में से विषम संख्या का चयन करे ?
(a) 7 : 56 (b) 13 : 117
(c) 15 : 120 (d) 16 : 128

MP Police Constable Exam- 23 August-2023 Shift-2

Ans. (b) : दिए गए समूह में विषम–
7 : 56 ($\times 8$), 13 : 117 ($\times 9$ → विषम), 15 : 120 ($\times 8$), 16 : 128 ($\times 8$)
अतः विकल्प (b) सही है।

105. Find the odd word/letters/ number from the given alternatives.
दिए गए विकल्पों में से विषम शब्द/अक्षरों/संख्या को चुनिए।
(a) 6, 612 (b) 5, 521
(c) 4, 46 (d) 7, 543

MP Police Constable Exam- 25 August-2023 Shift-1

Ans. (d) : विकल्पों की जाँच करने पर–
(a) $(6, 612) \Rightarrow \frac{6\times1\times2}{6} = \frac{12}{6} = 2$
(b) $(5, 521) \Rightarrow \frac{5\times2\times1}{5} = \frac{10}{5} = 2$
(c) $(4, 46) \Rightarrow \frac{4\times6}{4} = \frac{24}{4} = 6$
(d) $(7, 543) \Rightarrow \frac{5\times4\times3}{7} = \frac{60}{7} = 8.57$ (असंगत) पूर्णतः विभाज्य नहीं है।)
अतः विकल्प (d) विषम संख्या है।

106. Choose the numbers which is different from others in the group ?
दिए गए समूह में से विषम संख्या का चयन करें ?
(a) 1, 2, 4 (b) 3, 6, 12
(c) 4, 8, 16 (d) 6, 12, 18

MP Police Constable Exam- 25 August-2023 Shift-1

Ans. (d) : विकल्प से–
(a) 1 $\xrightarrow{\times2}$ 2 $\xrightarrow{\times2}$ 4 (b) 3 $\xrightarrow{\times2}$ 6 $\xrightarrow{\times2}$ 12
(c) 4 $\xrightarrow{\times2}$ 8 $\xrightarrow{\times2}$ 16 (d) 6 $\xrightarrow{\times2}$ 12 $\xrightarrow{\times2}$ $24 \neq 18$
अतः विकल्प (d) विषम संख्या है।

GET IT ON Google Play Best Study PDF के लिए हमारी App को Download करें "GK Trick By Nitin Gupta"

107. Choose the numbers which is different from others in the group ?
दिए गए समूह में से विषम संख्या का चयन करें ?

(a) 7-9 (b) 13-15
(c) 5-7 (d) 2-5

MP Police Constable Exam- 25 August-2023 Shift-1

Ans. (d) : विकल्पों की जाँच करने पर–
(a) $7 + 2 \rightarrow 9$
(b) $13 + 2 \rightarrow 15$
(c) $5 + 2 \rightarrow 7$
(d) $2 + 2 \rightarrow 4 \neq 5$
अतः विकल्प (d) विषम संख्या है।

108. Three of the following four number-pairs are alike in a certain way and one is different. Pick the number-pair that is different from the rest.
निम्नलिखित चार संख्या-युग्मों में से तीन युग्म किसी प्रकार एकसमान हैं, और एक युग्म असमान है। असमान युग्म का चयन कीजिए।

(a) 13 : 170 (b) 11 : 120
(c) 5 : 24 (d) 7 : 48

MP Police Constable Exam- 23 August-2023 Shift-1

Ans. (a) : विकल्पों की जाँच करने पर–
(a) 13 : 170
$13^2 + 1 = 170$ (असंगत)
(b) 11 : 120
$11^2 - 1 = 120$
(c) 5 : 24
$5^2 - 1 = 24$
(d) 7 : 48
$7^2 - 1 = 48$
अतः विकल्प (a) समूह से सम्बन्धित नहीं है।

109. Three of the following four number-pairs are alike in a certain way and one is different. Pick the number-pair that is different from the rest.
निम्नलिखित चार संख्या-युग्मों में से तीन युग्म किसी प्रकार एकसमान हैं और एक युग्म असमान है। असमान संख्या युग्म का चयन कीजिए।

(a) 13 : 171 (b) 7 : 51
(c) 8 : 66 (d) 10 : 98

MP Police Constable Exam- 23 August-2023 Shift-1

Ans. (d) : विकल्पों की जाँच करने पर–
(a) 13 : 171
$13^2 + 2 = 171$
(b) 7 : 51
$7^2 + 2 = 51$
(c) 8 : 66
$8^2 + 2 = 66$
(d) 10 : 98
$10^2 + 2 = 102 \neq 98$ (असंगत)
अतः विकल्प (d) समूह से सम्बन्धित नहीं है।

110. Find the odd word/letters/ number from the given alternatives.
दिए गए विकल्पों में से विषम शब्द/अक्षरों/संख्या को चुनिए।

(a) 70, 80 (b) 54, 62
(c) 28, 32 (d) 21, 24

MP Police Constable Exam- 23 August-2023 Shift-1

Ans. (b) : विकल्पों की जाँच करने पर–
(a) $70, 80 \Rightarrow \frac{70}{7} + 70 \Rightarrow 80$
(b) $54, 62 \Rightarrow \frac{54}{7} + 54 \neq 62$ (असंगत)
(c) $28, 32 \Rightarrow \frac{28}{7} + 28 \Rightarrow 32$
(d) $21, 24 \Rightarrow \frac{21}{7} + 21 \Rightarrow 24$
अतः विकल्प (b) समूह से सम्बन्धित नहीं है।

111. Choose the numbers which is different from others in the group?
दिए गए समूह में से विषम संख्या का चयन करें ?

(a) 8-27 (b) 125-216
(c) 1001-1331 (d) 343-512

MP Police Constable Exam- 23 August-2023 Shift-1

Ans. (c) : प्रश्नानुसार,
विकल्पों की जाँच करने पर–

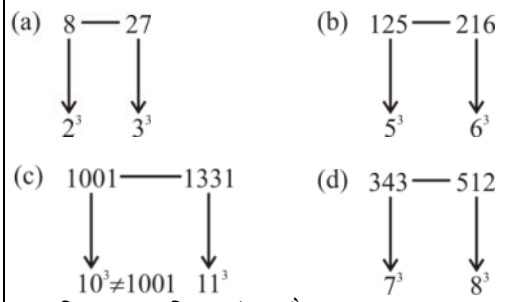

अतः विकल्प (c) विषम संख्या है।

112. In the following question, select the odd number from the given alternatives.
निम्नलिखित प्रश्न में दिए गए विकल्पों में से विषम का चयन कीजिए।

(a) 196 (b) 166
(c) 510 (d) 720

MP Police Constable Exam- 28 August-2023 Shift-3

Ans. (a) : विकल्प (a) में दी गई संख्या (196) पूर्ण वर्ग संख्या है जबकि शेष सभी (166, 510, 720) पूर्ण वर्ग संख्या नहीं है अतः 196 अन्य से भिन्न है।

113. Choose the numbers which is different from others in the group ?
दिए गए समूह में से विषम संख्या का चयन करें ?

(a) 2, 1, 3 (b) 5, 4, 9
(c) 3, 2, 1 (d) 11, 9, 40

MP Police Constable Exam- 25 August-2023 Shift-2

Ans. (c) : विकल्पों की जाँच करने पर–
(a) $(2)^2 - (1)^2 = 3$
(b) $(5)^2 - (4)^2 = 9$
(c) $(3)^2 - (2)^2 = 5 \neq 1$ (विषम)
(d) $(11)^2 - (9)^2 = 40$

GET IT ON Google Play Best Study PDF के लिए हमारी App को Download करें "GK Trick By Nitin Gupta"

114. Choose the numbers which is different from others in the group ?
दिए गए समूह में से विषम संख्या का चयन करें ?

(a) 11-8 (b) 32-25
(c) 73-1000 (d) 62-512

MP Police Constable Exam- 25 August-2023 Shift-2

Ans. (b) : विकल्पों की जाँच करने पर–

(a) 11 — 8
(1+1) → 2^3

(b) 32 — 25
(3+2) → 5^2 → विषम

(c) 73 — 1000
(7+3) → 10^3

(d) 62 — 512
(6+2) → 8^3

अतः विकल्प (b) अन्य सभी से विषम है।

115. Find the odd word/letters/ number from the given alternatives.
दिए गए विकल्पों में से विषम शब्द/अक्षरों/संख्या को चुनिए।

(a) 63-36 (b) 45-74
(c) 48-84 (d) 26-62

MP Police Constable Exam- 25 August-2023 Shift-2

Ans. (b) : विकल्प (a) में संख्याओं के अंकों को बदला गया है। उसी प्रकार विकल्प (c) तथा विकल्प (d) के भी संख्याओं के अंकों को परस्पर बदला गया है।
अतः केवल विकल्प (b) भिन्न है जिसके अंकों को नहीं बदला गया है।

116. For the following questions find the odd word/letters/number pair from the given alternatives.
निम्नलिखित प्रश्न में दिए गए विकल्पों में से विषम शब्द/अक्षर/संख्या युग्म को चुनिए ?

(A) 16 – 28 **(B) 20 – 30**
(C) 30 – 40 **(D) 40 – 50**

(a) A (b) B
(c) C (d) D

MP Police Constable Exam- 26 August-2023 Shift-2

Ans. (a) : दिए गए विकल्पों की जांच करने पर–

(a) $16 \xrightarrow{+10} 26 \neq 28$ (विषम)

(b) $20 \xrightarrow{+10} 30$

(c) $30 \xrightarrow{+10} 40$

(d) $40 \xrightarrow{+10} 50$

अतः विकल्प (a) '16 – 28' विषम संख्या युग्म है।

117. Choose the numbers which is different from others in the group ?
वह संख्याएँ चुनें जो समूह में अन्य से भिन्न हैं ?

(a) 8:2 (b) 1728:13
(c) 1331:11 (d) 64:4

MP Police Constable Exam- 26 August-2023 Shift-2

Ans. (b) : दिए गए विकल्पों की जांच करने पर–

(a) $8 : 2 \Rightarrow \sqrt[3]{8} = 2$

(b) $1728 : 13 \Rightarrow \sqrt[3]{1728} = 12 \neq 13$ (विषम)

(c) $1331 : 11 \Rightarrow \sqrt[3]{1331} = 11$

(d) $64 : 4 \Rightarrow \sqrt[3]{64} = 4$

अतः '1728 : 13' समूह से भिन्न है।

118. Select the letter triad from the given options which follows the same relation as shown below.
दिए गए विकल्पों में से उस विकल्प का चयन करें जो प्रश्न के समान संबंध का अनुसरण करता है।
(RVB, BFL, LPV)

(a) KOU, FJP, YCI
(b) RWQ, VPL, BPE
(c) LAS, SYU, UUQ
(d) YBH, CXD, ITS

MP Police Constable Exam- 12 Sep-2023 Shift-1

Ans. (a) : जिस प्रकार,

R V B B F L L P V
+4 +6 +4 +6 +4 +6

उसी प्रकार– विकल्प (a) से-

K O U F J P Y C I
+4 +6 +4 +6 +4 +6

119. In the following question, select the odd number from the given alternatives.
निम्नलिखित प्रश्न में दिए गए विकल्पों में से विषम संख्या का चयन कीजिए।

(a) 26 (b) 83
(c) 17 (d) 37

MP Police Constable Exam- 29 August-2023 Shift-1

Ans. (b) : दिये गये विकल्प के अनुसार

(a) 26 = 2 + 6 = 8 (सम संख्या)
(b) 83 = 8 + 3 = 11 (विषम संख्या)
(c) 17 = 1 + 7 = 8 (सम संख्या)
(d) 37 = 3 + 7 = 10 (सम संख्या)

अतः दिये गये विकल्प के अनुसार विकल्प (b) विषम है।

120. Three of the following four numbers are alike in a certain way and one is different. Identify the different one.
निम्नलिखित चार में से तीन संख्या-युग्म एक निश्चित तरीके से समान हैं और एक अलग है। अलग की पहचान करें।

(a) 2047 (b) 4702
(c) 6041 (d) 4306

MP Police Constable Exam- 19 August-2023 Shift-3

Ans. (c) : विकल्पों से,

(a) $2047 \Rightarrow 2 + 0 + 4 + 7 = 13$
(b) $4702 \Rightarrow 4 + 7 + 0 + 2 = 13$
(c) $6041 \Rightarrow 6 + 0 + 4 + 1 = 11$ (असंगत)
(d) $4306 \Rightarrow 4 + 3 + 0 + 6 = 13$

उपर्युक्त हल से स्पष्ट है कि विकल्प 'c' अन्य से विषम है।

GET IT ON Google Play Best Study PDF के लिए हमारी App को Download करें "GK Trick By Nitin Gupta"

121. Three of the following four number-pairs are alike in a certain way and one is different. Identify the different one.
निम्नलिखित चार में से तीन जोड़ी-संख्या एक निश्चित तरीके से एक सामान हैं और एक अलग है। अलग जोड़ी-संख्या को पहचानें।

(a) 9 : 729 (b) 13 : 2197
(c) 7 : 343 (d) 17 : 4814

MP Police Constable Exam- 19 August-2023 Shift-3

Ans. (d) : विकल्पों से,
(a) 9 : 729 (b) 13 : 2197
↓ ↓
$(9)^3 = 729$ $(13)^3 = 2197$
(c) 7 : 343 (d) 17 : 4814
↓ ↓
$(7)^3 = 343$ $(17)^3 = 4913 \neq 4814$
उपर्युक्त व्याख्या से स्पष्ट है कि विकल्प 'd' अन्य से भिन्न है।

122. Three of the following four number-pairs are alike in a certain way and one is different. Find the odd one out.
निम्नलिखित चार संख्या-युग्मों में से तीन संख्या-युग्म किसी विशिष्ट संदर्भ में एक दूसरे के समान हैं और इनमें से एक संख्या-युग्म असमान है। उस असमान संख्या-युग्म का चयन कीजिए।

(a) 8 : 25 (b) 14: 33
(c) 9 : 23 (d) 5 : 15

MP Police Constable Exam- 18 August-2023 Shift-3

Ans. (a) : प्रश्नानुसार,
दिए गए विकल्पों से-
(a) $8 : 25 \rightarrow (8 \times 2) + 9 = 25$ (असंगत)
(b) $14 : 33 \rightarrow (14 \times 2) + 5 = 33$
(c) $9 : 23 \rightarrow (9 \times 2) + 5 = 23$
(d) $5 : 15 \rightarrow (5 \times 2) + 5 = 15$
अतः विकल्प (a) सही उत्तर होगा।

123. Choose the numbers which is different from others in the group?
दिए गए समूह में से विषम संख्या का चयन करें?

(a) 15 (b) 57
(c) 255 (d) 31

MP Police Constable Exam- 20 August-2023 Shift-1

Ans. (b) : विकल्पों से-
(a) $\frac{15}{3} = 5$
(b) $\frac{57}{3} = 19$
(c) $\frac{255}{3} = 85$
(d) $\frac{31}{3} = 31.3$ (विषम)

124. Three of the following four numbers are alike in a certain way and one is different. Pick the number that is different from the rest.
निम्नलिखित चार संख्याओं में से तीन संख्याएं किसी प्रकार एकसमान है और एक संख्या असमान है। उस असमान संख्या का चयन कीजिए।

(a) 39 (b) 57
(c) 43 (d) 63

MP Police Constable Exam- 20 August-2023 Shift-3

Ans. (c) : दी गई संख्या 39, 57, 63 3 से विभाज्य है जबकि संख्या 43, 3 से विभाज्य नहीं है अतः 43 विषम संख्या है।

125. Three of the following four numbers are alike in a certain way and one is different. Pick the number that is different from the rest.
निम्नलिखित चार संख्याओं में से तीन संख्याएँ किसी प्रकार एकसमान हैं और एक संख्या असमान है। उस असमान संख्या का चयन कीजिए।

(a) 2197 (b) 1331
(c) 343 (d) 731

MP Police Constable Exam- 20 August-2023 Shift-3

Ans. (d) : दी गई संख्याएं निम्नवत् है-
$2197 = (13)^3$, $1331 = (11)^3$
$343 = (7)^3$, 731 = (विषम है)
Note क्योंकि 731 किसी भी संख्या का पूर्ण घनमूल नहीं है।

126. Three of the following four number-pairs are alike in a certain way and one is different. Pick the number-pair that is different from the rest.
निम्नलिखित चार संख्या-युग्मों में से तीन युग्म किसी प्रकार एकसमान हैं और एक युग्म असमान है। असमान संख्या युग्म का चयन कीजिए।

(a) 7 : 46 (b) 9 : 80
(c) 6 : 35 (d) 4 : 15

MP Police Constable Exam- 20 August-2023 Shift-3

Ans. (a) : प्रश्नानुसार,
7 : 46 9 : 80
↓ ↓
$(7)^2 - 3 = 46$ (विषम) $(9)^2 - 1 = 80$
6 : 35 4 : 15
↓ ↓
$(6)^2 - 1 = 35$ $(4)^2 - 1 = 15$

127. Choose the numbers which is different from others in the group?
दिए गए समूह में से विषम संख्या का चयन करें?

(a) 121 (b) 352
(c) 264 (d) 116

MP Police Constable Exam- 20 August-2023 Shift-3

Ans. (d) : प्रश्नानुसार,
दिए गए विकल्प में (d) 116 विषम है क्योंकि 116, 11 से विभाज्य नहीं है जबकि अन्य विकल्प 121, 352 तथा 264, 11 से विभाज्य है।

128. Three of the following four pairs of numbers are alike in a certain way and one is different. Find the odd one out.
निम्नलिखित चार संख्याओं में से तीन संख्याएं किसी विशिष्ट संदर्भ में एक दूसरे के समान हैं और इनमें से एक संख्या असमान है। इस असमान संख्या का चयन कीजिए।

(a) 22, 4 (b) 11, 8
(c) 7, 12 (d) 44, 2

MP Police Constable Exam- 18 August-2023 Shift-3

GET IT ON Google Play Best Study PDF के लिए हमारी App को Download करें "GK Trick By Nitin Gupta"

Ans. (c) : प्रश्नानुसार,
दिए गए विकल्पों से-
(a) 22, 4 → 22 × 4 = 88
(b) 11, 8 → 11 × 8 = 88
(c) 7, 12 → 7 × 12 = 84 (असंगत)
(d) 44, 2 → 44 × 2 = 88

129. Three of the following four number-pairs are alike in a certain way and one is different. Find the odd one out.
निम्नलिखित चार में से तीन नंबर जोड़े एक निश्चित तरीके से एक जैसे हैं और एक अलग है। विषम चुनें।
(a) 21-43 (b) 25-53
(c) 27-55 (d) 29-59

MP Police Constable Exam- 20 August-2023 Shift-1

Ans. (b) :
(a) 21 – 43
21 × 2 + 1 = 43
(b) 25 – 53
25 × 2 + 3 = 53 (विषम)
(c) 27 – 55
27 × 2 + 1 = 55
(d) 29 – 59
29 ×2 + 1 = 59

130. Three of the following four number-pairs are alike in a certain way and one is different. Find the odd one out.
निम्नलिखित चार में से तीन नंबर जोड़े एक निश्चित तरीके से एक जैसे हैं और एक अलग है। विषम चुनें।
(a) 9-29 (b) 13-40
(c) 18-55 (d) 17-52

MP Police Constable Exam- 20 August-2023 Shift-1

Ans. (a) :
(a) 9 – 29
9 × 3 + 2 = 29 (विषम)
(b) 13 – 40
13 × 3 + 1 = 40
(c) 18 – 55
18 × 3 + 1 = 55
(d) 17 – 52
17 × 3 + 1 = 52

131. Select the odd word/letters/ number from the given alternatives./दिए गए विकल्पों में से विषम शब्द/अक्षरों/संख्या को चुनिए।
(a) 24, 7 (b) 36, 11
(c) 50, 15 (d) 54, 17

MP Police Constable Exam- 01 Feb-2022 Shift-1

Ans. (c) : विकल्पों से-
(a) 24, 7 $\Rightarrow \frac{24}{3} = 8 \Rightarrow 8 - 1 = 7$
(b) 36, 11 $\Rightarrow \frac{36}{3} = 12 \Rightarrow 12 - 1 = 11$
(c) 50, 15 ⇒ (नियम लागू नहीं होता)
(d) 54, 17 $\Rightarrow \frac{54}{3} = 18 \Rightarrow 18 - 1 = 17$
अतः विकल्प (c) विषम संख्या-युग्म है।

132. Select the odd word/letters/ number from the given alternatives./इस प्रश्न में दिए गए विकल्पों में से विषम शब्द/अक्षर/ संख्या युग्म चुनिए?
(a) 1, 0.75, 0.5, 1.25 (b) 4, 3, 2, 5
(c) 1, 4, 2, 8 (d) 2, 1.5, 1, 2.5

MP Police Constable Exam- 01 Feb-2022 Shift-1

Ans. (c) : विकल्पों से-
(a) $\boxed{1} \times \frac{3}{4} = \boxed{0.75} \times \frac{2}{3} = \boxed{0.5} \times \frac{5}{2} = \boxed{1.25}$
(b) $\boxed{4} \times \frac{3}{4} = \boxed{3} \times \frac{2}{3} = \boxed{2} \times \frac{5}{2} = \boxed{5}$
(c) 1, 4, 2, 8 (नियम लागू नहीं होता)
(d) $\boxed{2} \times \frac{3}{4} = \boxed{1.5} \times \frac{2}{3} = \boxed{1} \times \frac{5}{2} = \boxed{2.5}$
स्पष्ट है कि विकल्प (c) विषम संख्या-युग्म है।

133. Find the odd one out.
अन्य तीनों से भिन्न विकल्प है
(a) 23 (b) 17
(c) 13 (d) 15

MP Police Constable Recruitment (Second)Test - 2013

Ans. (d) : प्रश्नानुसार
23, 17, 13 अभाज्य संख्यायें है जबकि 15 अभाज्य संख्या नहीं है।

134. Three of the following four number are alike in a certain way and one is different. Pick the number that is different from the rest.
निम्नलिखित चार संख्याओं में से तीन संख्याएं किसी प्रकार एकसमान है और एक संख्या असमान है। उस असमान संख्या का चयन कीजिए।
(a) 12 (b) 17
(c) 56 (d) 30

MP Police Constable Exam- 20 August-2023 Shift-2

Ans. (b) : विकल्पों से-
(a) 12 → भाज्य संख्या
(b) 17 → अभाज्य संख्या
(c) 56 → भाज्य संख्या
(d) 30 → भाज्य संख्या

135. Find the odd word/letters/number from the given alternatives.
दिए गए विकल्पों में से विषम शब्द/अक्षरों/संख्या को चुनिए।
(a) 443 (b) 633
(c) 821 (d) 245

MP Police Constable Exam- 21 August-2023 Shift-2

Ans. (b) : विकल्पों की जांच करने पर-
(a) 443 ⇒ 4 + 4 + 3 = 11
(b) 633 ⇒ 6 + 3 + 3 = 12 ≠ 11 (असंगत)
(c) 821 ⇒ 8 + 2 + 1 = 11
(d) 245 ⇒ 2 + 4 + 5 = 11
अतः संख्या '633' अन्य से असंगत है।

136. Choose the numbers which is different from others in the group?
दिए गए समूह में से विषम संख्या का चयन करें?
(a) 7-47 (b) 13-167
(c) 9-79 (d) 17-285

MP Police Constable Exam- 21 August-2023 Shift-2

GET IT ON Google Play Best Study PDF के लिए हमारी App को Download करें "GK Trick By Nitin Gupta"

Ans. (d) : विकल्पों की जांच करने पर-

(a) $7 - 47 \Rightarrow (7)^2 - 2 \Rightarrow 49 - 2 = 47$

(b) $13 - 167 \Rightarrow (13)^2 - 2 \Rightarrow 169 - 2 = 167$

(c) $9 - 79 \Rightarrow (9)^2 - 2 \Rightarrow 81 - 2 = 79$

(d) $17 - 285 \Rightarrow (17)^2 - 2 \Rightarrow 289 - 2 = 287 \neq 285$ असंगत

अतः विकल्प (d) में दिया गया संख्या समूह '17 – 285' असंगत है।

137. Three of the four numbers are alike in a certain way and one is different. Pick the odd number out.

निम्नलिखित चार संख्याओं में से तीन संख्याएं किसी प्रकार एक समान हैं और एक संख्या असमान है। उस असमान संख्या का चयन कीजिए।

(a) 325 (b) 362

(c) 123 (d) 145

MP Police Constable Exam- 20 August-2023 Shift-2

Ans. (c) : विकल्पों से-

(a) $325 \rightarrow 18^2 + 1$

(b) $362 \rightarrow 19^2 + 1$

(c) $123 \rightarrow 11^2 + 2$ (विषम)

(d) $145 \rightarrow 12^2 + 1$

अतः विकल्प (c) भिन्न है।

138. Three of the following four numbers are alike in a certain way and one is different. Pick the number that is different from the rest.

निम्नलिखित चार संख्याओं में से तीन संख्याएँ किसी प्रकार एक समान है और एक संख्या असमान है। उस असमान संख्या का चयन कीजिए।

(a) 953 (b) 523

(c) 312 (d) 734

MP Police Constable Exam- 21 August-2023 Shift-2

Ans. (a) : विकल्पों की जांच करने पर-

(a) $953 \Rightarrow 9 - 5 = 4 \neq 3$ (असंगत)

(b) $523 \Rightarrow 5 - 2 = 3$

(c) $312 \Rightarrow 3 - 1 = 2$

(d) $734 \Rightarrow 7 - 3 = 4$

अतः संख्या 953 अन्य तीन से भिन्न है।

139. Three of the following four number-pairs are alike in a certain way and one is different. Pick the odd one out.

निम्नलिखित चार संख्या-युग्मों में से तीन युग्म किसी प्रकार एकसमान हैं और एक युग्म असमान है। असमान युग्म का चयन कीजिए।

(a) 56 : 49 (b) 64 : 54

(c) 104 : 91 (d) 32 : 28

MP Police Constable Exam- 21 August-2023 Shift-2

Ans. (b) : विकल्पों की जांच करने पर-

(a) $56 : 49 \Rightarrow \underset{\downarrow \atop 7\times8}{56} : \underset{\downarrow \atop 7\times7}{49}$

(b) $64 : 54 \Rightarrow \underset{\downarrow \atop 8\times8}{64} : \underset{\downarrow \atop 8\times7}{54} \neq 56$ (असंगत)

(c) $104 : 91 \Rightarrow \underset{\downarrow \atop 13\times8}{104} : \underset{\downarrow \atop 13\times7}{91}$

(d) $32 : 28 \Rightarrow \underset{\downarrow \atop 4\times8}{32} : \underset{\downarrow \atop 4\times7}{28}$

अतः '64 : 54' असमान युग्म है।

140. In the following question, one term in the number series is wrong. Find out the wrong term.

निम्न प्रश्न में, संख्या श्रृंखला में एक पद गलत है। गलत पद ज्ञात कीजिये।

2, 5, 10, 17, 26, 37, 51, 65

(a) 17 (b) 26

(c) 51 (d) 65

MP Police Constable Exam- 18 July-2016 - 9: am

Ans : (c)

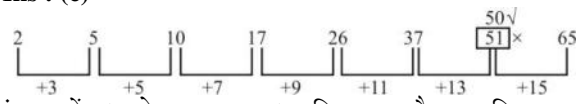

श्रृंखला में '50' के स्थान पर '51' दिया गया है अतः विकल्प (c) उत्तर होगा।

141. Choose the numbers which is different from others in the group?

दिए गए समूह में से विषम संख्या का चयन करें?

(a) 191 (b) 111

(c) 349 (d) 487

MP Police Constable Exam- 20 August-2023 Shift-2

Ans. (b) : विकल्पों से-

(a) 191 → अभाज्य संख्या

(b) 111 → भाज्य संख्या (विषम)

(c) 349 → अभाज्य संख्या

(d) 487 → अभाज्य संख्या

अतः विकल्प (b) समूह में भिन्न है।

Type-4: विविध

142. If red is called blue, blue is called white, white is called black, black is called pink and pink is called orange. What is the colour of milk?

यदि लाल को नीला कहा जाए, नीले को सफेद कहा जाए, सफेद को काला कहा जाए, काले को गुलाबी कहा जाए और गुलाबी को नारंगी कहा जाए। दूध का रंग कैसा होता है?

(a) White/सफेद (b) Black/काला

(c) Pink/गुलाबी (d) Orange/नारंगी

MP Police Constable Exam- 09 Feb-2022 Shift-1

Ans. (b): दूध का रंग सफेद होता है लेकिन प्रश्न में सफेद का कोड "काला" है। अतः दूध का रंग काला होगा।

GET IT ON Google Play Best Study PDF के लिए हमारी App को Download करें "GK Trick By Nitin Gupta"

भाग-4.

शृंखला (Series)

Type-1: अंकों पर आधारित शृंखला

1. Complete the series choosing the missing number :
विलुप्त संख्या चुनकर शृंखला को पूरा कीजिए–
5, 6, 7, 8, 10, 11, 14, ...
(a) 15 (b) 16
(c) 17 (d) 18
MP Police Constable Exam 19 July 2016 - 9:am

Ans : (a) संख्या शृंखला का क्रम निम्नवत् है–

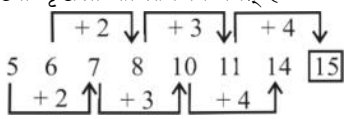

अतः ? = 15

2. In the following question, one term in the number series is wrong. Find out the wrong term :
निम्न प्रश्न में, संख्या शृंखला में एक पद गलत है। गलत पद ज्ञात कीजिये–
10, 18, 34, 68, 130, 258
(a) 130 (b) 258
(c) 68 (d) 18
MP Police Constable Exam 19 July 2016 - 9:am

Ans : (c) संख्या शृंखला का क्रम निम्नवत् है–

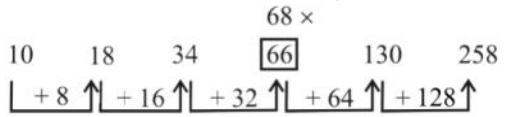

अतः गलत पद = 68

3. Which of the following numbers will replace the question mark (?) sign in the given series?
9, 11, 26, 97, __?__, 2861
श्रेणी 9, 11, 26, 97, __?__, 2861 में प्रश्नवाचक चिह्न (?) के स्थान पर निम्नलिखित में से कौन-सी संख्या आएगी?
(a) 524 (b) 642
(c) 478 (d) 428
MP Police Constable Recruitment (Second)Test - 2013

Ans. (c) : प्रश्नानुसार,

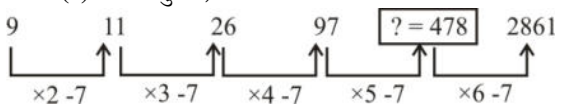

अतः ? = 478

4. In the following question, one term in the number series is wrong. Find out the wrong term./निम्न प्रश्न में, संख्या शृंखला में एक पद गलत है। गलत पद ज्ञात कीजिये।
2,8,16,64,128,510,1024
(a) 16 (b) 128
(c) 510 (d) 1024
MP Police Constable Exam- 20 July-2016 - 9: am

Ans : (c) शृंखला का सही क्रम इस प्रकार है–

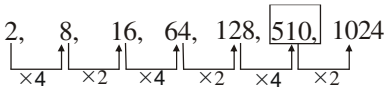

अतः विकल्प (c) गलत होगा क्योंकि यहाँ 510 की जगह 128× 4 = 512 होगा।

5. Find the wrong term in the given series :
दी गई शृंखला में गलत पद ज्ञात करें :
2, 3, 5, 8, 17, 33
(a) 33 (b) 17
(c) 8 (d) 5
MP Police Constable Exam- 31 August-2023 Shift-3

Ans. (c) : दी गई शृंखला में गलत पद निम्नवत् है–

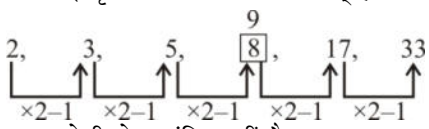

अतः संख्या '8' श्रेणी से सम्बंधित नहीं है।

6. Which is the wrong number in the following number series ?
निम्नलिखित संख्या शृंखला में कौन-सी संख्या गलत है?
20, 30, 40, 50, 65, 70
(a) 40 (b) 50
(c) 65 (d) 20
MP Police Constable Exam- 31 August-2023 Shift-3

Ans. (c) : दी गई श्रेणी निम्नवत् है–

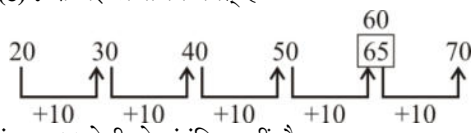

अतः संख्या 65 श्रेणी से संबंधित नहीं है।

7. Find the wrong term in the series ?
शृंखला में गलत क्रम का पता लगाएं ?
1, 4, 9, 16, 27, 36
(a) 4 (b) 9
(c) 27 (d) 36
MP Police Constable Exam- 31 August-2023 Shift-3

Ans. (c) : प्रश्नानुसार, शृंखला का क्रम निम्न् है–

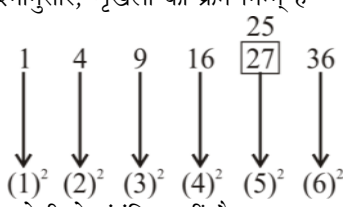

अतः संख्या 27 श्रेणी से संबंधित नहीं है।

GET IT ON Google Play Best Study PDF के लिए हमारी App को Download करें "GK Trick By Nitin Gupta"

8. What should come in place of question Mark '?' in the following number series ?
निम्नलिखित संख्या श्रृंखला में प्रश्न चिह्न '?' के स्थान पर क्या आएगा ?
5, 5, 10, 30, 120, 600, _____
(a) 4200 (b) 1800
(c) 2400 (d) 3600

MP Police Constable Exam- 31 August-2023 Shift-3

Ans. (d) : दी गई श्रृंखला निम्नवत् है–

5 → 5 (×1) → 10 (×2) → 30 (×3) → 120 (×4) → 600 (×5) → 3600 (×6)

अतः ? = 3600

9. Which is the wrong term in the following series?
निम्नलिखित श्रृंखला में कौन-सा पद गलत है ?
4, 7, 12, 19, 28, 41
(a) 40 (b) 28
(c) 12 (d) 19

MP Police Constable Exam- 24 August-2023 Shift-2

Ans. (a) : दी गई श्रृंखला निम्नवत् है–

4 → 7 (+3) → 12 (+5) → 19 (+7) → 28 (+9) → 40 (39≠40) (+11)

अतः गलत पद = 40

10. Which is the wrong number in the following number series ?
निम्नलिखित संख्या श्रृंखला में कौन-सी संख्या गलत है?
15, 20, 18, 23, 21, 24
(a) 15 (b) 18
(c) 20 (d) 24

MP Police Constable Exam- 29 August-2023 Shift-2

Ans. (d) : संख्या श्रृंखला निम्नवत् है–

15 → 20 (+5) → 18 (–2) → 23 (+5) → 21 (–2) → 24 (+5)

अतः विकल्प 'd' गलत है।

11. Find the wrong term in the series ?
श्रृंखला में गलत क्रम का पता लगाएं ?
1, 9, 17, 25, 35
(a) 9 (b) 17
(c) 25 (d) 35

MP Police Constable Exam- 29 August-2023 Shift-2

Ans. (d) : दी गई श्रृंखला निम्नवत् है–

1, → 9, (+8) → 17, (+8) → 25, (+8) → 35 (+8)

अतः विकल्प 'd' गलत है।

12. What should come in place of question mark '?' in the following number series?
12, 35, 106, 317, 952, _____
निम्नलिखित संख्या श्रृंखला में प्रश्न चिह्न '?' के स्थान पर क्या आएगा?
(a) 2851 (b) 2855
(c) 1851 (d) 1849

MP Police Constable Exam- 24 August-2023 Shift-3

Ans. (b) : दी गई श्रृंखला निम्नवत् है-

12 → 35 (×3)–1 → 106 (×3)+1 → 317 (×3)–1 → 952 (×3)+1 → 2855 (×3)–1

अतः स्पष्ट है कि (?) के स्थान पर '2855' आयेगा।

13. Complete the following series
निम्नलिखित श्रृंखला को पूरा करें।
12, 6, 6, 9, 18, 45, ?
(a) 135 (b) 1475
(c) 1075 (d) 105

MP Police Constable Exam- 24 August-2023 Shift-3

Ans. (a) : दी गई श्रृंखला निम्नवत् है-

12 → 6 (×0.5) → 6 (×1) → 9 (×1.5) → 18 (×2) → 45 (×2.5) → 135 (×3)

(+0.5 +0.5 +0.5 +0.5 +0.5)

14. What should come in place of question Mark '?' in the following number series ?
निम्नलिखित संख्या श्रृंखला में प्रश्न चिह्न '?' के स्थान पर क्या आएगा ?
75075, 25025, 5005, 715, ____, 5
(a) 225 (b) 365
(c) 156 (d) 65

MP Police Constable Exam- 24 August-2023 Shift-3

Ans. (d) : दी गयी श्रृंखला निम्नवत् है–

75075, → 25025, (÷3) → 5005, (÷5) → 715, (÷7) → ? 65, (÷11) → 5 (÷13)

अतः ? = 65

15. Which is the wrong term in the following series?
निम्नलिखित श्रृंखला में कौन-सा पद गलत है ?
28, 65, 127, 217, 344
(a) 65 (b) 217
(c) 127 (d) 344

MP Police Constable Exam- 24 August-2023 Shift-3

Ans. (c) : दी गई श्रेणी निम्नवत् है–

28, 65, 126 127, 217, 344

$(3)^3+1$ $(4)^3+1$ $(5)^3+1$ $(6)^3+1$ $(7)^3+1$

अतः संख्या 127 श्रेणी से संबंधित नहीं है।

16. Which is the wrong term in the following series?
निम्नलिखित श्रृंखला में कौन-सा पद गलत है ?
5, 8, 16, 26, 50, 98, 194
(a) 8 (b) 26
(c) 50 (d) 16

MP Police Constable Exam- 27 August-2023 Shift-1

GET IT ON Google Play Best Study PDF के लिए हमारी App को Download करें "GK Trick By Nitin Gupta"

Ans. (d) : दी गयी संख्या श्रृंखला निम्नवत् है–

8 8 14 16 26 50 98 194

×2–2 ×2–2 ×2–2 ×2–2 ×2–2 ×2–2

अतः दी गयी श्रृंखला में 16 गलत पद होगा।

17. Complete the following series.
निम्नलिखित श्रृंखला को पूरा करें।
9, 12, 18, 30, 54, ?

(a) 78 (b) 84
(c) 72 (d) 102

MP Police Constable Exam- 8 Sep-2023 Shift-2

Ans. (d) : दी गयी संख्या श्रृंखला निम्नवत् है-

9 12 18 30 54 ? = 102

+3 +6 +12 +24 +48

×2 ×2 ×2 ×2

अतः ? = 102

18. Which is the wrong number in the following number series ?
निम्नलिखित संख्या श्रृंखला में कौन-सी संख्या गलत है?
80, 78, 76, 75, 72, 70

(a) 78 (b) 76
(c) 75 (d) 72

MP Police Constable Exam- 28 August-2023 Shift-2

Ans. (c) : दी गई श्रृंखला निम्नवत् है–

80 78 76 74 75 72 70

–2 –2 –2 –2 –2

अतः गलत पद = 75

19. Find the missing term in the following series.
निम्नलिखित श्रृंखला में लुप्त पद ज्ञात कीजिए।
14, 78, 252, 620, ?

(a) 510 (b) 1380
(c) 1290 (d) 620

MP Police Constable Exam- 28 August-2023 Shift-2

Ans. (c) : दी गई श्रृंखला निम्नवत् है–

14 78 252 620 1290

$(2)^4-2$ $(3)^4-3$ $(4)^4-4$ $(5)^4-5$ $(6)^4-6$

अतः ? = 1290

20. What will come in place of Question mark (?) in the following number series?
निम्नलिखित संख्या प्रणाली में प्रश्नवाचक चिह्न (?) के स्थान पर क्या आयेगा?
50, 40, (?), 14

(a) 30 (b) 28
(c) 20 (d) 60

MP Police Constable Exam- 8 Sep-2023 Shift-2

Ans. (b) : दी गयी संख्या श्रृंखला निम्नवत् है-

50 40 ? = 28 14

-10 -12 -14

अतः ? = 28

21. What should come in place of question Mark '?' in the following number series?
निम्नलिखित संख्या श्रृंखला में प्रश्न चिह्न '?' के स्थान पर क्या आएगा?
3731, 2923, 1917, 1311, _____

(a) 117 (b) 119
(c) 917 (d) 75

MP Police Constable Exam- 8 Sep-2023 Shift-2

Ans. (d) : दी गयी श्रृंखला-

3731 = 3 + 7 + 3 + 1 = 14 = 1+ 4 = 5

+2

2923 = 2 + 9 + 2 + 3 = 16 = 1 + 6 = 7

+2

1917= 1 + 9 + 1 + 7 = 18 = 1 + 8 = 9

–3

1311 = 1 + 3 + 1 + 1 = 6

–3

विकल्प (d) से 75 = 7 + 5 = 12 = 1+2 = 3

अतः ? = 75

22. Which is the wrong term in the following series?
निम्नलिखित श्रृंखला में कौन-सा पद गलत है ?
6, 13, 19, 22, 58, 31, 180, 40

(a) 19 (b) 58
(c) 40 (d) 180

MP Police Constable Exam- 25 August-2023 Shift-3

Ans. (d) : दी संख्या श्रृंखला निम्नवत् है–

+9 +9 +9

6 13 19 22 58 31 175 180 40

×3+1 ×3+1 ×3+1

अतः गलत पद = 180

23. DIRECTIONS: What should come in place of the question mark (?) in the following number series ?
निर्देश : निम्नलिखित संख्या श्रेणी में प्रश्नवाचक चिह्न (?) के स्थान पर क्या आना चाहिए ?
454, 472, 445, 463, 436, ?

(a) 436 (b) 456
(c) 454 (d) 434

MP Police Constable Exam- 5 Sep -2023 Shift-1

Ans. (c) : दी गई संख्या श्रृंखला इस प्रकार है–

454 472 445 463 436 454

+18 –27 +18 –27 +18

24. Find the next term in the series.
श्रृंखला का अगला पद ज्ञात करें।
10, 15, 25, 35, 55, ?

(a) 65 (b) 70
(c) 85 (d) 40

MP Police Constable Exam- 5 Sep -2023 Shift-1

Ans. (a) : दी गई श्रृंखला इस प्रकार है–

10 15 25 35 55

↓ ↓ ↓ ↓ ↓

5×2 5×3 5×5 5×7 5×11

नोट- 5× क्रमागत अभाज्य संख्या

GET IT ON Google Play Best Study PDF के लिए हमारी App को Download करें "GK Trick By Nitin Gupta"

25. Complete the following series
निम्नलिखित श्रृंखला को पूरा करें
2, 4, 7, 35, 42, 462, ?
(a) 5016 (b) 470
(c) 4712 (d) 475

MP Police Constable Exam- 5 Sep -2023 Shift-1

Ans. (d) : दी गई संख्या श्रृंखला इस प्रकार है–

2 → 4 → 7 → 35 → 42 → 462 → 475
×2 +3 ×5 +7 ×11 +13

अभाज्य संख्या का गुणा एवं जोड़ पर श्रृंखला बन रही है।

26. What will come in place of Question mark (?) in the following number series?
निम्नलिखित संख्या प्रणाली में प्रश्नवाचक चिह्न (?) के स्थान पर क्या आयेगा?
(?), 11, 20, 45, 94
(a) 5 (b) 10
(c) 8 (d) 6

MP Police Constable Exam- 9 Sep-2023 Shift-3

Ans. (b) : दी गई संख्या श्रृंखला निम्नवत् है-

10 → 11 → 20 → 45 → 94
+1 +9 +25 +49
$(1)^2$ $(3)^2$ $(5)^2$ $(7)^2$

अतः ? = 10

27. What should come in place of question Mark '?' in the following number series?
निम्नलिखित संख्या श्रृंखला में प्रश्न चिह्न '?' के स्थान पर क्या आएगा?
(2, 6, 3), (5, 35, 7), (11, 143, (13), (____, ___, ___)
(a) 15, 255, 17 (b) 17, 323, 19
(c) 13, 19, 515 (d) 17, 306, 18

MP Police Constable Exam- 9 Sep-2023 Shift-3

Ans. (b) : प्रश्नानुसार,
दी गई संख्या श्रृंखला निम्नवत् है-

2 6 3 5 35 7 11 143 13 17 323 19
2×3 5×7 11×13 17×19

अतः ? = 17,323,19

28. Which is the wrong number in the following number series?
निम्नलिखित संख्या श्रृंखला में कौन-सी संख्या गलत है?
227, 224, 223, 221, 219, 217
(a) 223 (b) 219
(c) 224 (d) 227

MP Police Constable Exam- 9 Sep -2023 Shift-3

Ans. (c) : प्रश्नानुसार,
दी गई संख्या श्रृंखला निम्नवत् है-

227 224≠225 223 221 219 217
−2 −2 −2 −2 −2

अतः दी गई संख्या श्रृंखला में संख्या 224 के स्थान पर 225 होगा।
अतः विकल्प (c) सही उत्तर होगा।

29. What will come in place of the question mark (?) in each of the following number series ?
निम्नलिखित में से दी हुई श्रृंखला में प्रश्न चिह्न (?) के स्थान पर क्या आएगा ?
5, 12, 17, 29, 46, 75, 121, ___
(a) 185 (b) 196
(c) 192 (d) 188

MP Police Constable Exam- 2 Sep-2023 Shift-3

Ans. (b) : दी गई संख्या श्रृंखला निम्नवत् है–

5 12 17 29 46 75 121 196
+5 +12 +17 +29 +46 +75

अतः ? = 196

नोट : श्रृंखला में संख्या में पिछली संख्या को जोड़कर अगली संख्या प्राप्त होती है।

30. A series is given with one term missing. Select the correct alternative from the given ones that will complete the series.
एक अनुक्रम दिया गया है, जिसमें से एक पद लुप्त है। दिए गए विकल्पों में से वह सही विकल्प चुनिए, जो अनुक्रम को पूरा करे।
10, 37, 145, 577, ?
(a) 2305 (b) 1235
(c) 1877 (d) 1747

MP Police Constable Exam- 2 Sep-2023 Shift-3

Ans. (a) : दी गई संख्या श्रृंखला निम्नवत् है–

10 37 145 577 2305
(×4–3) (×4–3) (×4–3) (×4–3)

अतः ? = 2305

31. Complete the following series
निम्नलिखित श्रृंखला को पूरा करें :
5, 5, 10, 30, 120, 600, ?
(a) 4200 (b) 1800
(c) 2400 (d) 3600

MP Police Constable Exam- 2 Sep-2023 Shift-3

Ans. (d) : दी गई श्रृंखला निम्नवत् है–

5 5 10 30 120 600 ?
×1 ×2 ×3 ×4 ×5 ×6

? = 600 × 6

अतः ? = 3600

32. Complete the following series
निम्नलिखित श्रृंखला को पूरा करें
440, 360, 288, 224, ?
(a) 175 (b) 159
(c) 168 (d) 171

MP Police Constable Exam- 5 Sep-2023 Shift-2

Ans. (c) : दी गई संख्या श्रृंखला निम्नवत् है–

440 360 288 224 168
−80 −72 −64 −56
+8 +8 +8

अतः ? = 168

GET IT ON Google Play Best Study PDF के लिए हमारी App को Download करें "GK Trick By Nitin Gupta"

33. Which is the wrong term in the following series?
निम्नलिखित श्रृंखला में कौन-सा पद गलत है ?
2, 5, 11, 23, 44, 79
(a) 23 (b) 79
(c) 5 (d) 11

MP Police Constable Exam- 23 August-2023 Shift-2

Ans. (b) : श्रृंखला निम्नवत् है–

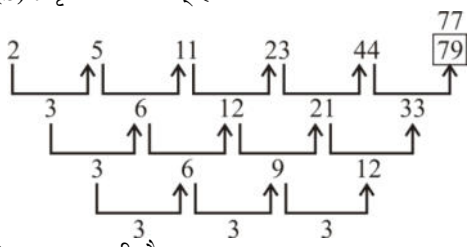

अतः विकल्प (b) सही है।

34. What should come in place of question mark '?' in the following number series?
निम्नलिखित प्रश्न में प्रश्न चिह्न (?) के स्थान पर क्या आयेगा?
11, 17, 39, 85, ?
(a) 72 (b) 163
(c) 153 (d) 113

MP Police Constable Exam- 12 Sep-2023 Shift-2

Ans. (b) : दिया गया सं. श्रृंखला निम्नवत् है-

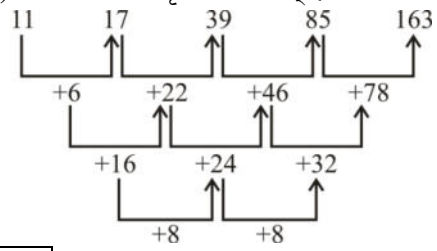

अतः ? = 163

35. What should come in place of question Mark '?' in the following number series?
निम्नलिखित संख्या श्रृंखला में प्रश्न चिह्न '?' के स्थान पर क्या आएगा?
64, 125, 216, 343, ____
(a) 64 (b) 424
(c) 317 (d) 512

MP Police Constable Exam- 12 Sep-2023 Shift-2

Ans. (d) : दिया गया संख्या श्रृंखला निम्नवत् है-

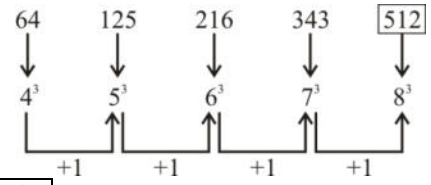

अतः ? = 512

36. Complete the following series
निम्नलिखित श्रृंखला को पूरा करें
150, 392, 810, 1452, 2366, ?
(a) 3375 (b) 3600
(c) 2800 (d) 3000

MP Police Constable Exam- 12 Sep-2023 Shift-2

Ans. (b) : दिया गया सं. श्रृंखला है-

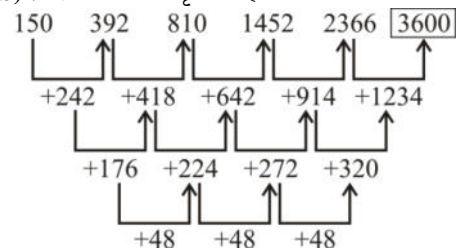

अतः ? = 3600

37. Complete the following series
निम्नलिखित श्रृंखला को पूरा करें
30, 90, 360, 1800, 10800, ?
(a) 75440 (b) 75670
(c) 75770 (d) 75600

MP Police Constable Exam- 12 Sep-2023 Shift-2

Ans. (d) : दिया गया संख्या श्रृंखला निम्नवत् है-

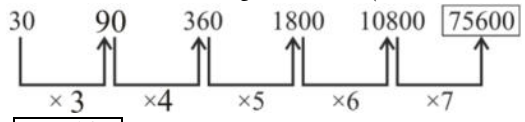

अतः ? = 75600

38. Find the missing term in the following series.
दी गई श्रृंखला में प्रश्नचिह्न (?) के स्थान पर क्या आएगा?
320, 322, 328, 340, ?, 390
(a) 368 (b) 352
(c) 348 (d) 360

MP Police Constable Exam- 16 August-2023 Shift-3

Ans. (d) : दी गई श्रृंखला निम्नवत् है-

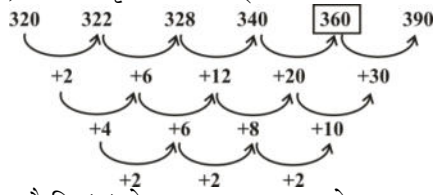

अतः स्पष्ट है कि (d) के स्थान पर '360' आयेगा।

39. What should come in place of question Mark '?' in the following number series?
निम्नलिखित संख्या श्रृंखला में प्रश्न चिह्न '?' के स्थान पर क्या आएगा?
$\frac{5}{7}, \frac{11}{13}, \frac{17}{19}, \frac{23}{29}, ___$
(a) $\frac{31}{33}$ (b) $\frac{31}{35}$
(c) $\frac{31}{37}$ (d) $\frac{33}{37}$

MP Police Constable Exam- 16 August-2023 Shift-3

Ans. (c) : दी गई श्रृंखला निम्नवत् है-

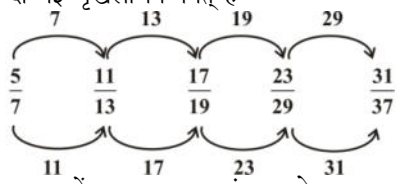

नोट- अंश व हर में एक अभाज्य संख्या छोड़कर अगली अभाज्य संख्या को लेकर भिन्न बनायी जा रही है।

GET IT ON Google Play Best Study PDF के लिए हमारी App को Download करें "GK Trick By Nitin Gupta"

40. Find the wrong term in the given series:
दी गई श्रृंखला में गलत पद ज्ञात करें:
10, 13, 18, 24, 34
(a) 10 (b) 13
(c) 18 (d) 24

MP Police Constable Exam- 6 Sep-2023 Shift-3

Ans. (d) : दी गई श्रेणी निम्नवत् है-

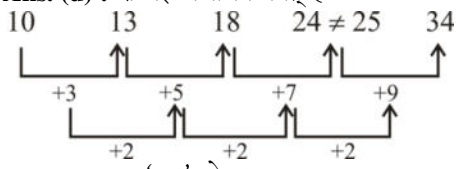

अतः गलत पद '24' होगा।

41. Find the wrong term in the given series:
दी गई श्रृंखला में गलत पद ज्ञात करें:
1, 2, 3, 6, 5, 10, 7, 14, 8, 18
(a) 2 (b) 6
(c) 7 (d) 8

MP Police Constable Exam- 9 Sep-2023 Shift-2

Ans. (d) : दी संख्या श्रृंखला निम्नवत् है-

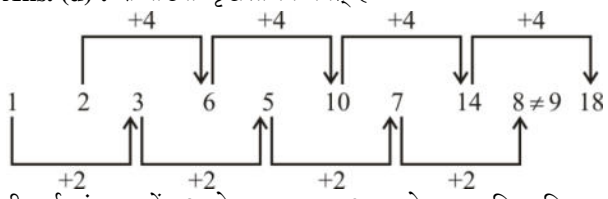

दी गई श्रृंखला में '8' के स्थान पर '9' आयेगा। इसलिए विकल्प (d) सही उत्तर होगा।

42. Which is the wrong number in the following number series?
निम्नलिखित संख्या श्रृंखला में कौन-सी संख्या गलत है?
1, 8, 27, 64, 126
(a) 64 (b) 126
(c) 27 (d) 8

MP Police Constable Exam- 9 Sep-2023 Shift-2

Ans. (b) : दी गई संख्या श्रृंखला निम्नवत् है-

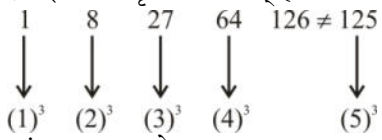

स्पष्ट है कि संख्या '126' के स्थान पर '125' आयेगा। अतः विकल्प (b) भिन्न होगा।

43. Complete the following series
निम्नलिखित श्रृंखला को पूरा करें
13, 39, 118, 356, 1071, 3217, ?
(a) 9656 (b) 6459
(c) 6355 (d) 9649

MP Police Constable Exam- 4 Sep-2023 Shift-3

Ans. (a) : दिया गया श्रृंखला निम्नवत् है–

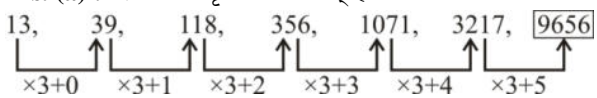

अतः ? = 9656

44. DIRECTIONS: What should come in place of the question mark (?) in the following question?
निर्देश : निम्नलिखित प्रश्न में प्रश्नवाचक चिह्न (?) के स्थान पर क्या आना चाहिए ?
7, 16, 141, 190, 919, ?
(a) 1029 (b) 1019
(c) 1020 (d) 1040

MP Police Constable Exam- 25 August-2023 Shift-2

Ans. (d) : दी गई श्रृंखला निम्नवत् है–

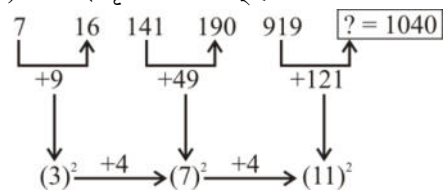

अतः ? = 1040

45. A series is given with one term missing. Choose the correct alternative from the given ones that will complete the series.
एक श्रृंखला दी गई है जिसमें एक पद लुप्त है। दिए गए विकल्पों में सही चुनें जो श्रृंखला को पूरा करेंगे।
4 1228 52 ?
(a) 82 (b) 84
(c) 80 (d) 86

MP Police Constable Exam- 4 Sep-2023 Shift-2

Ans. (b) : दी गई श्रृंखला निम्नवत् है–

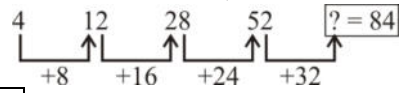

अतः ? = 84

46. Complete the following series
निम्नलिखित श्रृंखला को पूरा करें
12, 35, 106, 317, 952, ?
(a) 2840 (b) 2855
(c) 1851 (d) 1849

MP Police Constable Exam- 4 Sep-2023 Shift-2
MP Police Constable Exam- 2 Sep-2023 Shift-2

Ans. (b) : दी गई श्रृंखला निम्नवत् है–

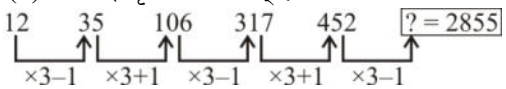

अतः ? = 2855

47. What should come in place of question mark '?' in the following number series?
निम्नलिखित प्रश्न में प्रश्न चिह्न (?) के स्थान पर क्या आयेगा?
3, 5, 5, 19, 7, 41, 9, ?
(a) 72 (b) 73
(c) 71 (d) 113

MP Police Constable Exam- 12 Sep-2023 Shift-1

Ans. (c) : दी गई संख्या श्रृंखला निम्नवत् है-

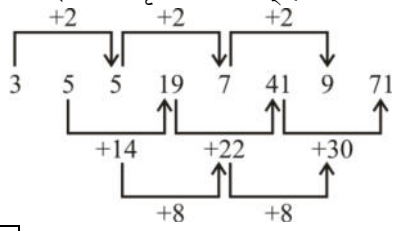

अतः ? = 71

GET IT ON Google Play Best Study PDF के लिए हमारी App को Download करें "GK Trick By Nitin Gupta"

48. What should come in place of question Mark '?' in the following number series?
निम्नलिखित संख्या श्रृंखला में प्रश्न चिह्न '?' के स्थान पर क्या आएगा?

12, 14, 15, 16. 18, 20,

(a) 22 (b) 25
(c) 21 (d) 23

MP Police Constable Exam- 12 Sep-2023 Shift-1

Ans. (c) : दी गई संख्या श्रृंखला निम्नवत् है-

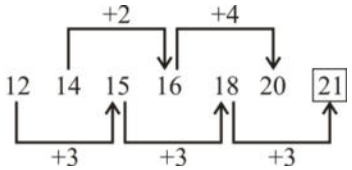

अतः ? = 21

49. Complete the following series
निम्नलिखित श्रृंखला को पूरा करें

6, 24, 60, 120, 210, ?

(a) 432 (b) 343
(c) 336 (d) 322

MP Police Constable Exam- 12 Sep-2023 Shift-1

Ans. (c) : दी गई संख्या श्रृंखला निम्नवत् है-

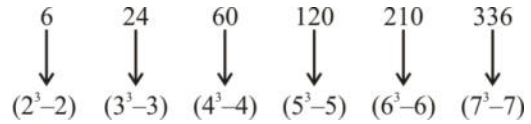

अतः ? = 336

50. Complete the following series
निम्नलिखित श्रृंखला को पूरा करें

54, 103, 184, 305, 474, ?

(a) 699 (b) 869
(c) 558 (d) 584

MP Police Constable Exam- 12 Sep-2023 Shift-1

Ans. (a) : दी गई श्रृंखला-

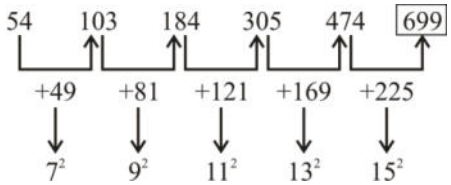

अतः ? = 699

51. What will come in place of the question mark (?) in each of the following number series?
निम्नलिखित में से दी हुई श्रृंखला में प्रश्न चिह्न (?) के स्थान पर क्या आएगा?

95, 126.5, 138, 175.5, 189, 232.5, _____

(a) 256 (b) 272
(c) 247.5 (d) 248

MP Police Constable Exam- 10 Sep-2023 Shift-2

Ans. (d) : दी गई संख्या श्रृंखला निम्नवत् है-

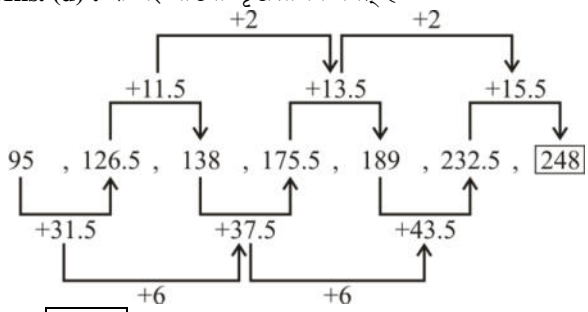

अतः ? = 248

52. What should come in place of question Mark '?' in the following number series?
निम्नलिखित संख्या श्रृंखला में प्रश्न चिह्न '?' के स्थान पर क्या आएगा?

6, 8, 10, 8, 15, 17, 12. 16, _____

(a) 18 (b) 19
(c) 20 (d) 21

MP Police Constable Exam- 10 Sep-2023 Shift-2

Ans. (c) : दी गई श्रृंखला-

6, 8, 10, 8, 15, 17, 12, 16, _____

प्रश्नानुसार,

जिस प्रकार,
$6^2 + 8^2 = 10^2$
$36 + 64 = 100$
$100 = 100$

तथा
$8^2 + 15^2 = 17^2$
$64 + 225 = 289$
$289 = 289$

उसी प्रकार,
$(?)^2 = 12^2 + 16^2$
$= 144 + 256$
$(?)^2 = 400$
$? = \sqrt{400}$
? = 20

53. A series is given with one term missing. Choose the correct alternative from the given ones that will complete the series.
एक श्रृंखला दी गई है जिसमें एक पद लुप्त है। दिए गए विकल्पों में सही चुनें जो श्रृंखला को पूरा करेंगे।

17 21 29 45 ?

(a) 76 (b) 77
(c) 79 (d) 78

MP Police Constable Exam- 10 Sep-2023 Shift-2

Ans. (b) : दी गई श्रृंखला निम्नवत् है-

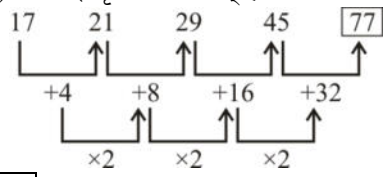

अतः ? = 77

54. What should come in place of question Mark '?' in the following number series ?
निम्नलिखित संख्या श्रृंखला में प्रश्न चिह्न '?' के स्थान पर क्या आएगा ?

12, 6, 6, 9, 18, 45, ____

(a) 135 (b) 1475
(c) 1075 (d) 105

MP Police Constable Exam- 31 August-2023 Shift-2

GET IT ON Google Play Best Study PDF के लिए हमारी App को Download करें "GK Trick By Nitin Gupta"

Ans. (a) : दी गई संख्या श्रृंखला निम्नवत् है–

12 6 6 9 18 45 [135]

×0.5 ×1 ×1.5 ×2 ×2.5 ×3

अतः ? = 135 है।

55. Complete the following series
निम्नलिखित श्रृंखला को पूरा करें।
75075, 25025, 5005, 715, ?, 5
(a) 225 (b) 365
(c) 156 (d) 65

MP Police Constable Exam- 29 August-2023 Shift-2
MP Police Constable Exam- 1 Sep-2023 Shift-2

Ans. (d) : प्रश्नानुसार दी गई श्रृंखला इस प्रकार है–

75075 25025 5005 715 [65] 5

÷3 ÷5 ÷7 ÷11 ÷13

अभाजय संख्याओं से विभाजित किया गया है।

56. What should come in place of question Mark '?' in the following number series ?
निम्नलिखित संख्या श्रृंखला में प्रश्न चिह्न '?' के स्थान पर क्या आएगा ?
8, 16, 48, 96, 288, 576, _____
(a) 1152 (b) 2880
(c) 1052 (d) 1728

MP Police Constable Exam- 29 August-2023 Shift-1

Ans. (d) : दी गई संख्या श्रृंखला निम्नवत् है–

8 16 48 96 288 576 [1728]

×2 ×3 ×2 ×3 ×2 ×3

अतः [? = 1728]

57. Complete the following series
निम्नलिखित श्रृंखला को पूरा करें
12, 21, 39, 75, 147, ?
(a) 273 (b) 291
(c) 283 (d) 263

MP Police Constable Exam- 3 Sep-2023 Shift-2

Ans. (b) : दी गई संख्या श्रृंखला निम्न है–

12, 21, 39, 75, 147, [291]

+9 +18 +36 +72 +144

×2 ×2 ×2 ×2

58. Find the missing term in the following series.
निम्नलिखित श्रृंखला में लुप्त पद ज्ञात कीजिए।
7, 28, 63, 126, 215, ?
(a) 224 (b) 287
(c) 344 (d) 320

MP Police Constable Exam- 19 August-2023 Shift-3

Ans. (c) : दिया गया संख्या श्रृंखला निम्नवत् है-

7 28 63 126 215 [344]

2^3-1 3^3+1 4^3-1 5^3+1 6^3-1 7^3+1

+1 +1 +1 +1 +1

अतः [? = 344]

59. Find the missing term in the following series.
निम्नलिखित श्रृंखला में लुप्त पद ज्ञात कीजिए।
8, 27, 64, ?
(a) 131 (b) 125
(c) 135 (d) 120

MP Police Constable Exam- 19 August-2023 Shift-3

Ans. (b) : दिया गया संख्या श्रृंखला निम्नवत् है-

8 27 64 [125]

2^3 3^3 4^3 5^3

+1 +1 +1

अतः [? = 125]

60. Complete the following series:
निम्नलिखित श्रृंखला को पूरा करें:
17, 34, 102, 408, 2040, ?
(a) 6410 (b) 12240
(c) 7250 (d) 3190

MP Police Constable Exam- 11 Sep-2023 Shift-3

Ans. (b) : दिया गया संख्या श्रृंखला निम्नवत् है-

17 34 102 408 2040 [12240]

×2 ×3 ×4 ×5 ×6

अतः [? = 12240]

61. Find the missing term in the following series.
निम्नलिखित श्रृंखला में लुप्त पद ज्ञात कीजिए।
4, 9, 8, 15, 12, 21, ?
(a) 16 (b) 26
(c) 25 (d) 18

MP Police Constable Exam- 20 August-2023 Shift-3

Ans. (a) : दी गई श्रृंखला निम्नवत् है-

+6 +6

4 9 8 15 12 21 [16]

+4 +4 +4

अतः [? = 16]

62. Find the wrong term in the given series:
दी गई श्रृंखला में गलत पद ज्ञात करें:
2, 5, 9, 14, 21, 27
(a) 5 (b) 14
(c) 21 (d) 27

MP Police Constable Exam- 1 Sep-2023 Shift-1

Ans. (c) : दी गई श्रृंखला निम्नवत् है–

2, 5, 9, 14, 21≠20 27

+3 +4 +5 +6 +7

दी गई श्रृंखला में गलत पद 21 है, इसके स्थान पर '20' आयेगा।

∴ विकल्प (c) सही है।

63. Complete the following series
निम्नलिखित श्रृंखला को पूरा करें :
125, 375, 377, 1131, 1133, ?
(a) 3399 (b) 1136
(c) 1135 (d) 1234

MP Police Constable Exam- 3 Sep-2023 Shift-1
MP Police Constable Exam- 1 Sep-2023 Shift-1

GET IT ON Google Play Best Study PDF के लिए हमारी App को Download करें "GK Trick By Nitin Gupta"

Ans. (a) : दी गई संख्या श्रृंखला इस प्रकार है,

125 375 377 1131 1133 [3399]

×3 +2 ×3 +2 ×3

64. What should come in place of question Mark '?' in the following number series?
निम्नलिखित संख्या श्रृंखला में प्रश्न चिन्ह '?' के स्थान पर क्या आएगा?
1, 3, 25, 343, ?.
(a) 1331 (b) 6560
(c) 729 (d) 14641

MP Police Constable Exam- 09 Feb-2022 Shift-1

Ans. (d) : संख्या श्रृंखला निम्नवत् है -

1 3 25 343 [1464 1]

$(1)^0$ $(3)^1$ $(5)^2$ $(7)^3$ $(11)^4$

अभाज्य संख्याओं का क्रम

65. Complete the following series
निम्नलिखित श्रृंखला को पूरा करें -
64, 125, 216, 343, ____
(a) 64 (b) 424
(c) 317 (d) 512

MP Police Constable Exam- 02 Feb-2022 Shift-1

Ans. (d) : संख्या श्रृंखला निम्नवत है-

64, 125, 216, 343, [512]

4^3 5^3 6^3 7^3 8^3

+1 +1 +1 +1

अतः ____ = 512

66. What will come in place of '?' in the following number series?/निम्न संख्याओं के अनुक्रम में प्रश्न चिह्न '?' के स्थान पर क्या आएगा?
2, 4, 11, 48, ?
(a) 315 (b) 328
(c) 389 (d) 320

MP Police Constable Exam- 8 Jan-2022 Shift-2

Ans. (c) : दिया गया अनुक्रम निम्नवत है–

2, 4, 11, 48, [389]

×1+2 ×2+3 ×4+4 ×8+5

अतः [?=389]

67. Complete the series choosing the missing number :
विलुप्त संख्या चुनकर श्रृंखला को पूरा कीजिए:
3, 8, 15, 24.....
(a) 30 (b) 35
(c) 40 (d) 32

MP Police Constable Exam- 26 July-2016 - 9: am

Ans : (b) संख्या श्रृंखला निम्नवत है–

3 8 15 24 [35]

+5 +7 +9 +11

68. Find out the wrong term from the following :
निम्न में से गलत पद ज्ञात कीजिए :
5, 9, 17, 35, 65, 129
(a) 65 (b) 35
(c) 129 (d) 9

MP Police Constable Recruitment Test - 2013

Ans. (b) : दी गई श्रेणी निम्नवत् है-

33

5 9 17 [35] 65 129

×2-1 ×2-1 ×2-1 ×2-1 ×2-1

उपर्युक्त से स्पष्ट है कि श्रेणी में '35' एक गलत पद है जिसके स्थान पर '33' होगा।

69. Find the missing number of the given series :
निम्न श्रेणी की लुप्त संख्या ज्ञात कीजिए :
19, 2, 38, 3, 114, 4, __?__
(a) 228 (b) 256
(c) 352 (d) 456

MP Police Constable Recruitment Test - 2013

Ans. (d) : दी गई श्रेणी निम्नवत् है-

$19 \times 2 \Rightarrow 38$ (I ×II = III)

$38 \times 3 \Rightarrow 114$ (III ×IV = V)

$114 \times 4 \Rightarrow 456$ (V ×VI = VII)

अतः (?) के स्थान पर '456' आयेगा।

70. Find the next number in the following:
निम्न में अगली संख्या ज्ञात कीजिए :
1, 2, 9, 4, 25, 6, __?__
(a) 51 (b) 49
(c) 50 (d) 47

MP Police Constable Recruitment Test - 2013

Ans. (b) : दी गई श्रृंखला निम्नवत् है-

+2 +2

1 2 9 4 25 6 [49]

+8 +16 +24

अतः (?) = 49

71. Find the missing number of the given series:
निम्न श्रेणी की लुप्त संख्या ज्ञात कीजिए:
1, 8, 9, 64, 25, 216, 49, __?__
(a) 64 (b) 729
(c) 512 (d) 81

MP Police Constable Recruitment Test - 2013

Ans. (c) : दी गई संख्या श्रृंखला निम्नवत है-

1 8 9 64 25 216 49 [512]

$(1)^2$ $(2)^3$ $(3)^2$ $(4)^3$ $(5)^2$ $(6)^3$ $(7)^2$ $(8)^3$

अतः (?) = 512

72. What will come next in the given series?
निम्न श्रेणी में अगला पद क्या होगा?
21, 62, 23, 60, 25, 58, __?__
(a) 29 (b) 56
(c) 27 (d) 60

MP Police Constable Recruitment Test - 2013

GET IT ON Google Play Best Study PDF के लिए हमारी App को Download करें "GK Trick By Nitin Gupta"

Ans. (c) : दी गई श्रृंखला निम्नवत् है-

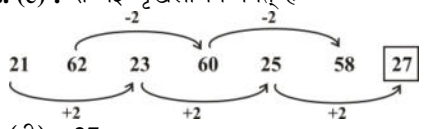

अतः (?) = 27

73. Find the missing term in the following series.
निम्नलिखित श्रृंखला में लुप्त पद ज्ञात कीजिए।
10, 14, 19, 25, 32, ?
(a) 18 (b) 41
(c) 26 (d) 31

MP Police Constable Exam- 21 August-2023 Shift-3

Ans. (*) : दी गई श्रृंखला निम्नवत् है-

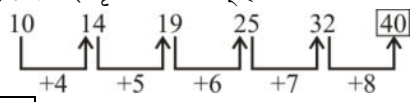

अतः ? = 40

74. Find the missing term in the following series.
निम्नलिखित श्रृंखला में लुप्त पद ज्ञात कीजिए।
9, 13, 17, 21, 25, ?
(a) 34 (b) 29
(c) 40 (d) 45

MP Police Constable Exam- 21 August-2023 Shift-2

Ans. (b) : संख्या श्रृंखला निम्नवत् है-

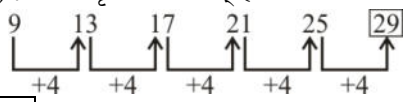

अतः ? = 29

75. Find the missing term in the following series.
निम्नलिखित श्रृंखला में लुप्त पद ज्ञात कीजिए।
24, 34, 46, 60, ?
(a) 76 (b) 78
(c) 80 (d) 72

MP Police Constable Exam- 21 August-2023 Shift-2

Ans. (a) : संख्या श्रृंखला निम्नवत् है-

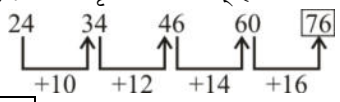

अतः ? = 76

76. Find the missing term in the following series.
निम्नलिखित श्रृंखला में लुप्त पद ज्ञात कीजिए।
2, 13, 24, 35, ?, 57
(a) 44 (b) 46
(c) 48 (d) 49

MP Police Constable Exam- 20 August-2023 Shift-2

Ans. (b) : दी गई संख्या श्रृंखला निम्नवत् है-

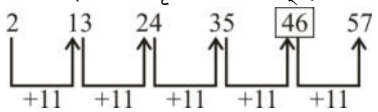

अतः ? = 46

77. Complete the series choosing the missing number:
विलुप्त संख्या चुनकर श्रृंखला को पूरा कीजिए:
1, 3, 6, 12, 24,……..
(a) 40 (b) 28
(c) 34 (d) 48

MP Police Constable Exam- 18 July-2016 - 9: am

Ans : (d) दी गई संख्या श्रृंखला निम्नवत् है-

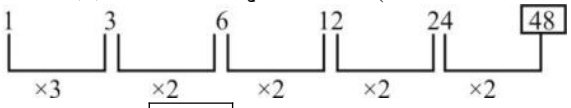

अतः ? ⇒ 48

78. Complete the series choosing the missing number:
विलुप्त संख्या चुनकर श्रृंखला को पूरा कीजिए:
64, 32, 16, 8,……
(a) 0 (b) 4
(c) 2 (d) 1

MP Police Constable Exam- 18 July-2016 - 9: am

Ans : (b) दी गई संख्या श्रृंखला निम्नवत् है-

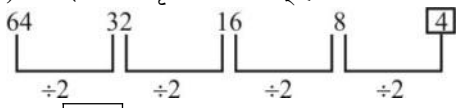

अतः ? = 4

79. Complete the series choosing the missing number:
विलुप्त संख्या चुनकर श्रृंखला को पूरा कीजिए:
80, 40, 20, 10……..
(a) 3 (b) 5
(c) 4 (d) 1

MP Police Constable Exam- 18 July-2016 - 9: am

Ans : (b) दी गई संख्या श्रृंखला निम्नवत् है-

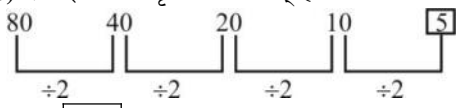

अतः ? = 5

80. Complete the series choosing the missing number:
विलुप्त संख्या चुनकर श्रृंखला को पूरा कीजिए:
1, 2, 4, 8, 16,……
(a) 20 (b) 24
(c) 28 (d) 32

MP Police Constable Exam- 18 July-2016 - 9: am

Ans : (d) दी गई संख्या श्रृंखला निम्नवत् है-

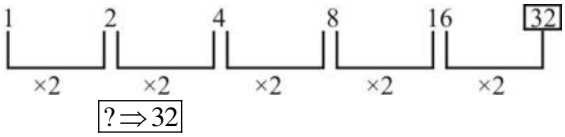

? ⇒ 32

81. Complete the series choosing the missing number:
विलुप्त संख्या चुनकर श्रृंखला को पूरा कीजिए:
121,225,361,……
(a) 441 (b) 484
(c) 529 (d) 729

MP Police Constable Exam 25 July 2016 - 9:am

Ans : (c)

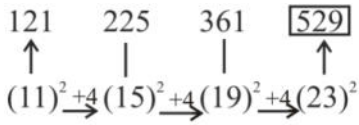

GET IT ON Google Play Best Study PDF के लिए हमारी App को Download करें "GK Trick By Nitin Gupta"

82. Complete the series choosing the missing number:
विलुप्त संख्या चुनकर श्रृंखला को पूरा कीजिए:
2, 6, 18, 54, ...
(a) 160 (b) 164
(c) 158 (d) 162

MP Police Constable Exam- 1 August-2016, 3:pm

Ans : (d)
2, 6, 18, 54, ?
×3 ×3 ×3 ×3
54 × 3 = 162
∴ ? = 162

83. Complete the series choosing the missing number:
विलुप्त संख्या चुनकर श्रृंखला को पूरा कीजिए :
6, 13, 28, 59, _____
(a) 120 (b) 121
(c) 118 (d) 122

MP Police Constable Exam 17 July 2016 - 12:am

Ans. (d) संख्या श्रृंखला निम्नवत् है–
6 13 28 59 122
×2+1 ×2+2 ×2+3 ×2+4

84. Find the wrong term in the given series :
दी गई श्रृंखला में गलत पद ज्ञात करें :
120, 144, 167, 192, 216, 240
(a) 167 (b) 192
(c) 216 (d) 240

MP Police Constable Exam- 31 August-2023 Shift-2

Ans. (a) : दी गई संख्या श्रृंखला–
120, 144, 167, 192, 216, 240
120 + 24 = 144
144 + 24 = 168 ≠ 167
168 + 24 = 192
192 + 24 = 216
216 + 24 = 240
अतः दी गई श्रृंखला में गलत पद '167' है।

85. Find the wrong number in the series:
दी गई श्रृंखला में से गलत संख्या ज्ञात कीजिए:
225, 206, 188, 176, 165,158, 153
(a) 225 (b) 188
(c) 176 (d) 153

MP Police Constable Exam- 23 August-2023 Shift-3

Ans. (b) : दी गई श्रृंखला में गलत पद निम्नवत् है–
225, 206, 188, 176, 165,158, 153
225 – 19 ⇒ 206
206 – 17 ⇒ 189 ≠ 188
189 – 13 ⇒ 176
176 – 11 ⇒ 165
165 – 7 ⇒ 158
158 – 5 ⇒ 153
अतः विकल्प (b) असंगत पद है।

86. Complete the series choosing the missing number:
विलुप्त संख्या चुनकर श्रंखला को पूरा कीजिए:
1, 3, 5, 11, 21, _____
(a) 43 (b) 42
(c) 44 (d) 41

MP Police Constable Exam 17 July 2016 - 12:am

Ans. (a) संख्या श्रृंखला निम्नवत् है।
1 3 5 11 21 43
(1×2)+1 (3×2)-1 (5×2)+1 (11×2)-1 (21×2)+1

87. Which is the wrong term in the following series?
निम्नलिखित श्रृंखला में कौन-सा पद गलत है ?
15, 30, 45, 60, 75, 91, 105
(a) 75 (b) 105
(c) 91 (d) 30

MP Police Constable Exam- 23 August-2023 Shift-3

Ans. (c) : प्रश्नानुसार, दी गई श्रृंखला निम्नवत् है–
15 30 45 60 75 90≠91 105
+15 +15 +15 +15 +15 +15
अतः विकल्प (c) गलत पद होगा।

88. Which is the wrong term in the following series?
निम्नलिखित श्रृंखला में कौन-सा पद गलत है ?
39, 46, 60, 83, 109, 144, 186
(a) 109 (b) 144
(c) 46 (d) 83

MP Police Constable Exam- 25 August-2023 Shift-2

Ans. (d) : दी गई संख्या श्रृंखला निम्नवत् है–
39 46 60 81 ≠ 83 109 144 186
+7 +14 +21 +28 +35 +42
अतः गलत पद 83 होगा।

89. Complete the following series
निम्नलिखित श्रृंखला को पूरा करें -
225, 196, 169, ____121, 100, 81
(a) 156 (b) 144
(c) 136 (d) 125

MP Police Constable Exam- 01 Feb-2022 Shift-1

Ans. (b): प्रश्नगत संख्या श्रृंखला निम्नवत है-
225 196 169 144 121 100 81
$(15)^2$ $(14)^2$ $(13)^2$ $(12)^2$ $(11)^2$ $(10)^2$ $(9)^2$
अतः विकल्प (b) अभीष्ट उत्तर है।

Type-2: अक्षरों पर आधारित श्रृंखला

90. A series is given with one word missing choose the correct alternative from the given ones that will complete the series?
एक श्रृंखला दी गई है जिसमें एक शब्द लुप्त है दिए गए विकल्पों में से उस विकल्प को चुने जो श्रृंखला को पूरा करता हो।
Queen, Aqua, Pique, ?
(a) Squad (b) Torque
(c) Quitet (d) Quicker

MP Police Constable Exam- 11 Sep-2023 Shift-3

GET IT ON Google Play Best Study PDF के लिए हमारी App को Download करें "GK Trick By Nitin Gupta"

Ans. (b) : जिस प्रकार,

Queen – Hearts,
Aqua – Diamonds,
Pique – Spades,

उसी प्रकार,

Torque – Club

Note:- दिये गये शब्द ताश के चार प्रकार के श्रृंखला को दर्शाता है।

91. Find the missing term in the following series.
निम्नलिखित श्रृंखला में लुप्त पद ज्ञात कीजिए।
MNPQ, RISL, WDVG, BYYB, ?
(a) PSTV (b) AUWX
(c) ATDM (d) GTBW

MP Police Constable Exam- 24 August-2023 Shift-2

Ans. (d) : प्रश्नानुसार, दी गयी श्रृंखला निम्नवत् है–

M $\xrightarrow{+5}$ R $\xrightarrow{+5}$ W $\xrightarrow{+5}$ B $\xrightarrow{+5}$ G
N $\xrightarrow{-5}$ I $\xrightarrow{-5}$ D $\xrightarrow{-5}$ Y $\xrightarrow{-5}$ T
P $\xrightarrow{+3}$ S $\xrightarrow{+3}$ V $\xrightarrow{+3}$ Y $\xrightarrow{+3}$ B
Q $\xrightarrow{-5}$ L $\xrightarrow{-5}$ G $\xrightarrow{-5}$ B $\xrightarrow{-5}$ W

अतः ? = GTBW

92. Find the next term in the series.
श्रृंखला का अगला पद ज्ञात करें।
AZ, BY, ?, DV, ET
(a) CX (b) CW
(c) CU (d) CY

MP Police Constable Exam- 24 August-2023 Shift-2

Ans. (b) : दी गई श्रृंखला निम्नवत् है–

A $\xrightarrow{+1}$ B $\xrightarrow{+1}$ C $\xrightarrow{+1}$ D $\xrightarrow{+1}$ E
Z $\xrightarrow{-1}$ Y $\xrightarrow{-2}$ W $\xrightarrow{-1}$ V $\xrightarrow{-2}$ T

अतः ? = CW

93. Identify the next term in the following letter series ?
निम्न अक्षर श्रृंखला में आगे क्या आएगा ?
JQP, NMS, RIV, ?
(a) EYV (b) VEY
(c) EVY (d) YVE

MP Police Constable Exam- 29 August-2023 Shift-2

Ans. (b) : दी गयी अक्षर श्रृंखला निम्नवत् है–

J $\xrightarrow{+4}$ N $\xrightarrow{+4}$ R $\xrightarrow{+4}$ V
Q $\xrightarrow{-4}$ M $\xrightarrow{-4}$ I $\xrightarrow{-4}$ E
P $\xrightarrow{+3}$ S $\xrightarrow{+3}$ V $\xrightarrow{+3}$ Y

अतः ? = VEY

94. Find the missing term in the following series.
निम्नलिखित श्रृंखला में लुप्त पद ज्ञात कीजिए।
SKC, VND, YQE, ?
(a) BTF (b) MPQ
(c) TUW (d) HJJ

MP Police Constable Exam- 24 August-2023 Shift-3

Ans. (a) : प्रश्नानुसार, अक्षर श्रृंखला निम्नवत् है–

S $\xrightarrow{+3}$ V $\xrightarrow{+3}$ Y $\xrightarrow{+3}$ B
K $\xrightarrow{+3}$ N $\xrightarrow{+3}$ Q $\xrightarrow{+3}$ T
C $\xrightarrow{+1}$ D $\xrightarrow{+1}$ E $\xrightarrow{+1}$ F

अतः ? = BTF

95. Find the next term in the series.
श्रृंखला का अगला पद ज्ञात करें।
A, C, ?, G, I
(a) E (b) I
(c) H (d) P

MP Police Constable Exam- 25 August-2023 Shift-3

Ans. (a) : दी गयी श्रृंखला निम्नवत् है–

A $\xrightarrow{+2}$ C $\xrightarrow{+2}$ E $\xrightarrow{+2}$ G $\xrightarrow{+2}$ I

? = E

96. Which set of letters will come next in the following series?
निम्नलिखित श्रृंखला में अक्षरों का कौन-सा समूह आगे आयेगा।
BDZ, DGX, FJV, HMT, JPR, ?
(a) LSD (b) LSP
(c) MSP (d) LTP

MP Police Constable Exam- 18 August-2023 Shift-1

Ans. (b) : अक्षर श्रृंखला निम्नवत् है-

B $\xrightarrow{+2}$ D $\xrightarrow{+2}$ F $\xrightarrow{+2}$ H $\xrightarrow{+2}$ J $\xrightarrow{+2}$ L
D $\xrightarrow{+3}$ G $\xrightarrow{+3}$ J $\xrightarrow{+3}$ M $\xrightarrow{+3}$ P $\xrightarrow{+3}$ S
Z $\xrightarrow{-2}$ X $\xrightarrow{-2}$ V $\xrightarrow{-2}$ T $\xrightarrow{-2}$ R $\xrightarrow{-2}$ P

अतः ? = LSP

97. A series is given, with one term missing. Choose the correct alternative from the given ones that will complete the series.
निम्नलिखित प्रश्न में एक अनुक्रम दिया गया है, जिसमें एक पद लुप्त है। दिए गए विकल्पों में से वह सही विकल्प चुनिए जो अनुक्रम को पूरा करें?
DCB, HGF, ? , PON
(a) LKJ (b) QRO
(c) SUM (d) XZY

MP Police Constable Exam- 18 August-2023 Shift-1

Ans. (a) : दिया गया अनुक्रम निम्नवत् है-

D $\xrightarrow{+4}$ H $\xrightarrow{+4}$ L $\xrightarrow{+4}$ P
C $\xrightarrow{+4}$ G $\xrightarrow{+4}$ K $\xrightarrow{+4}$ O
B $\xrightarrow{+4}$ F $\xrightarrow{+4}$ J $\xrightarrow{+4}$ N

अतः ? = LKJ

98. Select the letter-cluster that can replace the question mark (?) in the following series.
निम्नलिखित श्रृंखला में उस अक्षर-समूह का चयन करें जो प्रश्न चिह्न (?) को प्रतिस्थापित कर सकता है।
TSY, PQX, LOW, HMV, ?
(a) FUK (b) KLM
(c) KUF (d) DKU

MP Police Constable Exam- 18 August-2023 Shift-1

Ans. (d) : दी गई श्रृंखला निम्नवत् है-

–4 –4 –4 –4
T S Y P Q X L O W H M V D K U
–2 –2 –2 –2
–1 –1 –1 –1

अतः स्पष्ट है कि, (?) के स्थान पर 'DKU' होगा।

GET IT ON Google Play Best Study PDF के लिए हमारी App को Download करें "GK Trick By Nitin Gupta"

99. Which letter will come next in-the following series?
निम्नलिखित श्रृंखला में अगला कौन-सा अक्षर आएगा?
Z,U,Q,N,L,?
(a) M (b) G
(c) H (d) K

MP Police Constable Exam- 19 August-2023 Shift-2

Ans. (d) : दी गई अक्षर श्रृंखला निम्नवत् है-

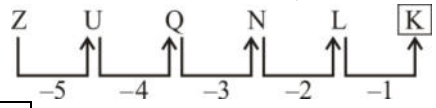

अतः ? = K

100. Select the letter-cluster that can replace the question mark (?) in the following series.
निम्नलिखित श्रृंखला में उस अक्षर-समूह का चयन करें जो प्रश्न चिह्न (?) को प्रतिस्थापित कर सकता है।
BXRJ, DVTK, FTVL, HRXM, ?
(a) MOPQ (b) JPZN
(c) OPQR (d) NPOQ

MP Police Constable Exam- 13 August-2023 Shift-1

Ans. (b) : दी गई अक्षर श्रृंखला निम्नवत् है-

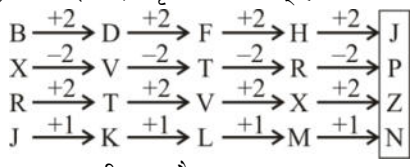

अतः विकल्प (b) सही उत्तर है।

101. Select the odd one out.
विषम शब्द का चयन करें।
A C F K O
(a) A (b) F
(c) C (d) K

MP Police Constable Exam- 5 Sep-2023 Shift-2

Ans. (d) : दी गयी श्रृंखला में विषम शब्द निम्नलिखित है।

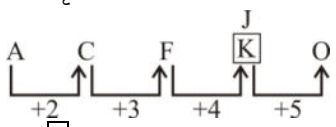

अतः विषम शब्द = K

102. Select the odd one out.
विषम शब्द का चयन करें।
NT QR TP WN ZM
(a) QR (b) TP
(c) ZM (d) WN

MP Police Constable Exam- 5 Sep-2023 Shift-2

Ans. (c) : दी गयी श्रृंखला में विषम शब्द निम्नलिखित हैं–

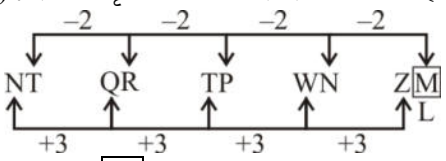

अतः विषम शब्द = ZM

103. Find the missing term in the following series.
निम्नलिखित श्रृंखला में लुप्त पद ज्ञात कीजिए।
FDM, GFO, IHQ, LJS, ?
(a) OSQ (b) PSQ
(c) WRV (d) PLU

MP Police Constable Exam- 23 August-2023 Shift-2

Ans. (d) : दी गई श्रृंखला निम्नवत् है–

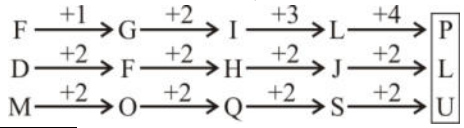

अतः ? = PLU
विकल्प (d) सही है।

104. Select the letter-cluster that can replace the question mark (?) in the following series.
निम्नलिखित श्रृंखला में उस अक्षर-समूह का चयन करें जो प्रश्न चिह्न (?) को प्रतिस्थापित कर सकता है।
GU, KY, OC, SG, ?
(a) UY (b) MK
(c) WK (d) ZK

MP Police Constable Exam- 13 August-2023 Shift-2

Ans. (c) : दी गई श्रृंखला-

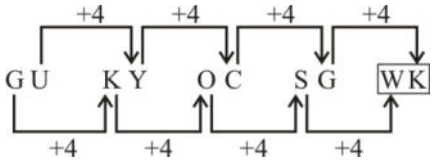

अतः ? = WK

105. A series is given, with one term missing. Choose the correct alternative from the given ones that will complete the series.
निम्नलिखित प्रश्न में एक अनुक्रम दिया गया है, जिसमें एक पद लुप्त है दिए गए विकल्पों में से वह सही विकल्प चुनिए जो अनुक्रम को पूरा करे ?
WYV, ? , IKH, BDA
(a) OPR (b) ROP
(c) PRO (d) OQH

MP Police Constable Exam- 23 August-2023 Shift-2

Ans. (c) : दी गई श्रृंखला निम्नवत् है–

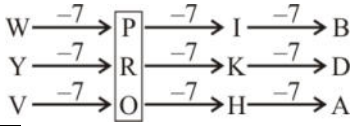

अतः ? = PRO

106. Select the letter-cluster that can replace the question mark (?) in the following series.
निम्नलिखित श्रृंखला में उस अक्षर-समूह का चयन करें जो प्रश्न चिह्न (?) को प्रतिस्थापित कर सकता है।
Z, X, V, ?, R, P, ?
(a) T, N (b) S, N
(c) T, O (d) S, U

MP Police Constable Exam- 16 August-2023 Shift-1

Ans. (a) : दी गयी श्रृंखला निम्नवत् है-

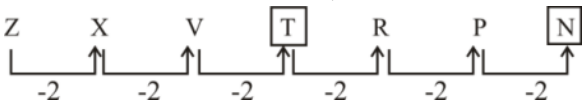

अतः (?) = TN

GET IT ON Google Play Best Study PDF के लिए हमारी App को Download करें "GK Trick By Nitin Gupta"

107. Select the letter-cluster that can replace the question mark (?) in the following series.
निम्नलिखित श्रृंखला में उस अक्षर-समूह का चयन करें जो प्रश्न चिह्न (?) को प्रतिस्थापित कर सकता है।
BM, CL, EK, HJ, ?
(a) MO (b) MD
(c) NF (d) LI

MP Police Constable Exam- 12 August-2023 Shift-3

Ans. (d) : श्रृंखला निम्नवत् है-

B $\xrightarrow{+1}$ C $\xrightarrow{+2}$ E $\xrightarrow{+3}$ H $\xrightarrow{+4}$ L
M $\xrightarrow{-1}$ L $\xrightarrow{-2}$ K $\xrightarrow{-3}$ J $\xrightarrow{-4}$ I

अतः ? = LI

108. Find the missing term in the following series.
निम्नलिखित श्रृंखला में लुप्त पद ज्ञात कीजिए।
MVPP, NUSS, OTVV, PSYY, ?
(a) QVZZ (b) QRXX
(c) QRZZ (d) QRBB

MP Police Constable Exam- 25 August-2023 Shift-1

Ans. (d) : दी गई श्रृंखला निम्नवत् है–

M $\xrightarrow{+1}$ N $\xrightarrow{+1}$ O $\xrightarrow{+1}$ P $\xrightarrow{+1}$ Q
V $\xrightarrow{-1}$ U $\xrightarrow{-1}$ T $\xrightarrow{-1}$ S $\xrightarrow{-1}$ R
P $\xrightarrow{+3}$ S $\xrightarrow{+3}$ V $\xrightarrow{+3}$ Y $\xrightarrow{+3}$ B
P $\xrightarrow{+3}$ S $\xrightarrow{+3}$ V $\xrightarrow{+3}$ Y $\xrightarrow{+3}$ B

अतः दी गई श्रृंखला में लुप्त पद 'QRBB' है।

109. Find the next term in the series.
श्रृंखला का अगला पद ज्ञात करें।
ZA, UF, QJ, ?, LO
(a) NM (b) PM
(c) OM (d) NJ

MP Police Constable Exam- 25 August-2023 Shift-1

Ans. (a) : दी गई श्रृंखला निम्नवत् है–

Z $\xrightarrow{-5}$ U $\xrightarrow{-4}$ Q $\xrightarrow{-3}$ N $\xrightarrow{-2}$ L
A $\xrightarrow{+5}$ F $\xrightarrow{+4}$ J $\xrightarrow{+3}$ M $\xrightarrow{+2}$ O

अतः ? = NM

110. Find the next term in the series.
श्रृंखला का अगला पद ज्ञात करें।
BA, ?, GF, JJ, LO
(a) EG (b) EA
(c) EE (d) EC

MP Police Constable Exam- 23 August-2023 Shift-3

Ans. (d) : दी गई अक्षर श्रृंखला निम्नवत् है–

B $\xrightarrow{+3}$ E $\xrightarrow{+2}$ G $\xrightarrow{+3}$ J $\xrightarrow{+2}$ L
A $\xrightarrow{+2}$ C $\xrightarrow{+3}$ F $\xrightarrow{+4}$ J $\xrightarrow{+5}$ O

अतः ? = EC

111. Which letter will replace the question mark (?) in the following series?
निम्नलिखित श्रृंखला में प्रश्नवाचक चिह्न (?) के स्थान पर कौन-सा अक्षर आएगा?
X, V, T, R, P, ?
(a) N (b) S
(c) Q (d) O

MP Police Constable Exam- 17 August-2023 Shift-2

Ans. (a) : दी गई श्रृंखला-

X $\xrightarrow{-2}$ V $\xrightarrow{-2}$ T $\xrightarrow{-2}$ R $\xrightarrow{-2}$ P $\xrightarrow{-2}$ N

अतः ? = N

112. A series is given, with one term missing. Choose amongst the given responses choose the meaningful one.
निम्नलिखित प्रश्न में एक अनू क्रम दिया गया है, जिसमें एक पद लुप्त है। दिए गए विकल्पों में से सही विकल्प चुनकर अनुक्रम को पूरा कीजिए।
CUS, DVT, EWU, ?
(a) FXV (b) VXF
(c) XFV (d) XVF

MP Police Constable Exam- 17 August-2023 Shift-2

Ans. (a) : दिए गए अनुक्रम-

C $\xrightarrow{+1}$ D $\xrightarrow{+1}$ E $\xrightarrow{+1}$ F
U $\xrightarrow{+1}$ V $\xrightarrow{+1}$ W $\xrightarrow{+1}$ X
S $\xrightarrow{+1}$ T $\xrightarrow{+1}$ U $\xrightarrow{+1}$ V

अतः ? = FXV

113. Select the letter-cluster that can replace the question mark (?) in the following series.
निम्नलिखित श्रृंखला में उस अक्षर-समूह का चयन करें जो प्रश्न चिह्न (?) को प्रतिस्थापित कर सकता है।
KMO, RTV, YAC, FHJ, ?
(a) NOR (b) MOQ
(c) NPQ (d) MQO

MP Police Constable Exam- 17 August-2023 Shift-2

Ans. (b) : अक्षर श्रृंखला-

K $\xrightarrow{+7}$ R $\xrightarrow{+7}$ Y $\xrightarrow{+7}$ F $\xrightarrow{+7}$ M
M $\xrightarrow{+7}$ T $\xrightarrow{+7}$ A $\xrightarrow{+7}$ H $\xrightarrow{+7}$ O
O $\xrightarrow{+7}$ V $\xrightarrow{+7}$ C $\xrightarrow{+7}$ J $\xrightarrow{+7}$ Q

अतः ? = MOQ

114. Select the letter-cluster that can replace the question mark (?) in the following series.
निम्नलिखित श्रृंखला में उस अक्षर-समूह का चयन करें जो प्रश्न चिह्न (?) को प्रतिस्थापित कर सकता है।
CXB, HUI, MRP, ROW, ?
(a) WLD (b) VKD
(c) WLZ (d) VKC

MP Police Constable Exam- 16 August-2023 Shift-3

Ans. (a) : प्रश्नानुसार, दी गई श्रृंखला निम्नवत् है-

C X B
$\downarrow$ +5 $\downarrow$ −3 $\downarrow$ +7
H U I
$\downarrow$ +5 $\downarrow$ −3 $\downarrow$ +7
M R P
$\downarrow$ +5 $\downarrow$ −3 $\downarrow$ +7
R O W
$\downarrow$ +5 $\downarrow$ −3 $\downarrow$ +7
W L D

GET IT ON Google Play Best Study PDF के लिए हमारी App को Download करें "GK Trick By Nitin Gupta"

115. Which letter will replace the question mark (?) in the following series?
निम्नलिखित श्रृंखला में से कौन-सा अक्षर चिह्न (?) के स्थान पर आएगा?
Y,X,V,S,?,J
(a) P (b) O
(c) Q (d) N

MP Police Constable Exam- 16 August-2023 Shift-3

Ans. (b) : दी गयी अक्षर श्रृंखला निम्नवत् है-

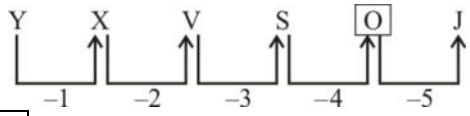

अतः ? = O

116. A series is given, with one term missing. Choose the correct alternative from the given ones that will complete the series.
निम्नलिखित प्रश्न में एक अनुक्रम दिया गया है जिसमें एक पद लुप्त हैं। दिए गए विकल्पों में से वह सही विकल्प चुनिए जो अनुक्रम को पूरा करें।
BDF, CFI, DHL, ?
(a) EJO (b) CJM
(c) EML (d) EMI

MP Police Constable Exam- 16 August-2023 Shift-3

Ans. (a) : प्रश्नानुसार,

B $\xrightarrow{+1}$ C $\xrightarrow{+1}$ D $\xrightarrow{+1}$ E
D $\xrightarrow{+2}$ F $\xrightarrow{+2}$ H $\xrightarrow{+2}$ J
F $\xrightarrow{+3}$ I $\xrightarrow{+3}$ L $\xrightarrow{+3}$ O

अतः ? = EJO

117. A series is given, with one term missing. Choose the correct alternative from the given ones that will complete the series.
दिए गए अनुक्रम में एक पद लुप्त है। दिए गए विकल्पों में से सही विकल्प चुनिए जो अनुक्रम को पूरा करता हैं।
ELFA, GLHA, ILJA, ?, MLNA
(a) OLPA (b) KLMA
(c) LLMA (d) KLLA

MP Police Constable Exam- 14 August-2023 Shift-3

Ans. (d) : दी गयी अक्षर श्रृंखला निम्नवत् है-

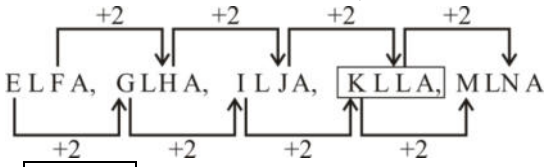

अतः ? = KLLA

118. Select the letter-cluster that can replace the question mark (?) in the following series.
निम्नलिखित श्रृंखला में उस अक्षर-समूह का चयन करें जो प्रश्न चिह्न (?) को प्रतिस्थापित कर सकता है।
HG, IJ, KM, NP, ?
(a) OP (b) RS
(c) QP (d) PQ

MP Police Constable Exam- 14 August-2023 Shift-3

Ans. (b) : दी गयी अक्षर श्रृंखला निम्नवत् है-

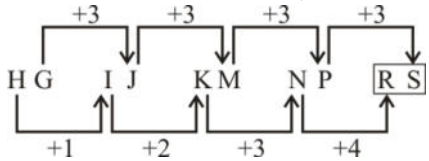

अतः ? = RS

119. Which set of letters when sequentially placed at the gaps in the given letter series shall complete it?
दिए गए विकल्पों में से अक्षरों का कौन-सा समूह खाली स्थानों पर क्रमानुसार रखने पर दी गयी श्रृंखला पूर्ण हो सकेगी?
K H D Y ?
(a) R (b) S
(c) T (d) U

MP Police Constable Exam- 9 Sep-2023 Shift-2

Ans. (b) : दी गई श्रृंखला निम्नवत् है-

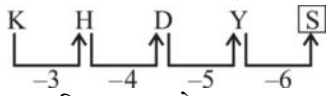

अतः सही उत्तर विकल्प (b) होगा।

120. Select the letter-cluster that can replace the question mark (?) in the following series.
निम्नलिखित श्रृंखला में उस अक्षर-समूह का चयन करें जो प्रश्न चिह्न (?) को प्रतिस्थापित कर सकता है।
BCD, DEF, FGH, HIJ, ?
(a) JHJ (b) IJI
(c) JKL (d) HJH

MP Police Constable Exam- 13 August-2023 Shift-3

Ans. (c) : दिया गया अक्षर श्रृंखला निम्नवत् है-

B $\xrightarrow{+2}$ D $\xrightarrow{+2}$ F $\xrightarrow{+2}$ H $\xrightarrow{+2}$ J
C $\xrightarrow{+2}$ E $\xrightarrow{+2}$ G $\xrightarrow{+2}$ I $\xrightarrow{+2}$ K
D $\xrightarrow{+2}$ F $\xrightarrow{+2}$ H $\xrightarrow{+2}$ J $\xrightarrow{+2}$ L

अतः ? = JKL

121. Identify the next term in the following letter series ?
निम्न अक्षर श्रृंखला में आगे क्या आएगा ?
CGH, EJL, GMP, ?
(a) IOR (b) IPT
(c) IQS (d) IMS

MP Police Constable Exam- 28 August-2023 Shift-3

Ans. (b) : दी गई श्रृंखला निम्नवत् है–

C $\xrightarrow{+2}$ E $\xrightarrow{+2}$ G $\xrightarrow{+2}$ I
G $\xrightarrow{+3}$ J $\xrightarrow{+3}$ M $\xrightarrow{+3}$ P
H $\xrightarrow{+4}$ L $\xrightarrow{+4}$ P $\xrightarrow{+4}$ T

अतः ? = IPT

122. Select the odd one out.
विषम शब्द का चयन करें।
ML QN UP YR PG
(a) ML (b) PG
(c) QN (d) YR

MP Police Constable Exam- 4 Sep-2023 Shift-2

GET IT ON Google Play Best Study PDF के लिए हमारी App को Download करें "GK Trick By Nitin Gupta"

Ans. (b) : दी गई श्रृंखला से–

ML $\xrightarrow{+4}$ QN $\xrightarrow{+4}$ UP $\xrightarrow{+4}$ YR $\xrightarrow{+4}$ PG ≠ CT

PG $\xrightarrow{+2}$ YR $\xrightarrow{+2}$ UP $\xrightarrow{+2}$ QN $\xrightarrow{+2}$ ML

∴ दी गई श्रृंखला में 'PG' विषम शब्द है।

123. Find the missing term in the following series.
निम्नलिखित श्रृंखला में लुप्त पद ज्ञात कीजिए।
PAM, TEI, XIE, BMA, ?
(a) FQW (b) EXD
(c) KWE (d) MIY

MP Police Constable Exam- 25 August-2023 Shift-2

Ans. (a) : दी गई अक्षर श्रृंखला निम्नवत् है–

P $\xrightarrow{+4}$ T $\xrightarrow{+4}$ X $\xrightarrow{+4}$ B $\xrightarrow{+4}$ F
A $\xrightarrow{+4}$ E $\xrightarrow{+4}$ I $\xrightarrow{+4}$ M $\xrightarrow{+4}$ Q
M $\xrightarrow{-4}$ I $\xrightarrow{-4}$ E $\xrightarrow{-4}$ A $\xrightarrow{-4}$ W

124. What should come in place of question mark ?
प्रश्नवाचक चिह्न के स्थान पर क्या आयेगा ?
BAT DCV FEX HGZ ?
(a) JBI (b) IJB
(c) JIB (d) IBJ

MP Police Constable Exam- 25 August-2023 Shift-2

Ans. (c) : दी गई शब्द श्रृंखला निम्नवत् है–

B $\xrightarrow{+2}$ D $\xrightarrow{+2}$ F $\xrightarrow{+2}$ H $\xrightarrow{+2}$ J
A $\xrightarrow{+2}$ C $\xrightarrow{+2}$ E $\xrightarrow{+2}$ G $\xrightarrow{+2}$ I
T $\xrightarrow{+2}$ V $\xrightarrow{+2}$ X $\xrightarrow{+2}$ Z $\xrightarrow{+2}$ B

अतः ? = JIB

125. What should come in place of question mark ?
प्रश्नवाचक चिह्न के स्थान पर क्या आयेगा ?
BBC GFF LJI QNL ?
(a) VOR (b) VRO
(c) RVO (d) ROV

MP Police Constable Exam- 25 August-2023 Shift-2

Ans. (b) : दी गई अक्षर श्रृंखला निम्नवत् है–

B $\xrightarrow{+5}$ G $\xrightarrow{+5}$ L $\xrightarrow{+5}$ Q $\xrightarrow{+5}$ V
B $\xrightarrow{+4}$ F $\xrightarrow{+4}$ J $\xrightarrow{+4}$ N $\xrightarrow{+4}$ R
C $\xrightarrow{+3}$ F $\xrightarrow{+3}$ I $\xrightarrow{+3}$ L $\xrightarrow{+3}$ O

अतः ? = VRO

126. Select the letter-cluster that can replace the question mark (?) in the following series.
निम्नलिखित श्रृंखला में उस अक्षर-समूह का चयन करें जो प्रश्न चिह्न (?) को प्रतिस्थापित कर सकता है।
XAY, XEY, XIY, XOY, ?
(a) KSF (b) XUY
(c) KTR (d) KRF

MP Police Constable Exam- 18 August-2023 Shift-2

Ans. (b) : दी गई अक्षर श्रृंखला निम्नवत् है-

X → X → X → X → X
स्वर शब्दों का क्रम → A → E → I → O → U
Y → Y → Y → Y → Y

अतः विकल्प (b) सही है।

127. Select the letter-cluster that can replace the question mark (?) in the following series.
निम्नलिखित श्रृंखला में उस अक्षर-समूह का चयन करें जो प्रश्न चिह्न (?) को प्रतिस्थापित कर सकता है।
GMV, JOY, MQB, PSE, SUH, ?
(a) PMO (b) DWS
(c) HYT (d) VWK

MP Police Constable Exam- 18 August-2023 Shift-2

Ans. (d) : दी गई अक्षर श्रृंखला निम्नवत् है-

G $\xrightarrow{+3}$ J $\xrightarrow{+3}$ M $\xrightarrow{+3}$ P $\xrightarrow{+3}$ S $\xrightarrow{+3}$ V
M $\xrightarrow{+2}$ O $\xrightarrow{+2}$ Q $\xrightarrow{+2}$ S $\xrightarrow{+2}$ U $\xrightarrow{+2}$ W
V $\xrightarrow{+3}$ Y $\xrightarrow{+3}$ B $\xrightarrow{+3}$ E $\xrightarrow{+3}$ H $\xrightarrow{+3}$ K

अतः ? = VWK

128. Which letter will replace the question mark (?) in the following series?
निम्नलिखित श्रृंखला में प्रश्न चिह्न (?) का स्थान कौन-सा अक्षर लेगा?
Z,X,V,T,R,P,N,?
(a) Q (b) L
(c) S (d) O

MP Police Constable Exam- 18 August-2023 Shift-2

Ans. (b) : दी गई अक्षर श्रृंखला निम्नवत् है-

Z $\xrightarrow{-2}$ X $\xrightarrow{-2}$ V $\xrightarrow{-2}$ T $\xrightarrow{-2}$ R $\xrightarrow{-2}$ P $\xrightarrow{-2}$ N $\xrightarrow{-2}$ L

अतः ? = L

129. In the given series one term is missing. Choose the correct alternative from the given ones that will complete the series.
दिए गए अनुक्रम में एक पद लुप्त है। दिए गए विकल्पों में से वह सही विकल्प चुनिए जो अनुक्रम को पूरा करे।
XBC,WFG,VJK,?
(a) XGH (b) UNO
(c) YFG (d) WKL

MP Police Constable Exam- 17 August-2023 Shift-3

Ans. (b) : प्रश्नानुसार,

X $\xrightarrow{-1}$ W $\xrightarrow{-1}$ V $\xrightarrow{-1}$ U
B $\xrightarrow{+4}$ F $\xrightarrow{+4}$ J $\xrightarrow{+4}$ N
C $\xrightarrow{+4}$ G $\xrightarrow{+4}$ K $\xrightarrow{+4}$ O

अतः प्रश्न वाचक चिह्न के स्थान पर 'UNO' आयेगा।

130. Select the letter-cluster that can replace the question mark (?) in the following series.
निम्नलिखित श्रृंखला में उस अक्षर-समूह का चयन करें जो प्रश्न चिह्न (?) को प्रतिस्थापित कर सकता है।
P, R, T, V, X, ?
(a) Z (b) X
(c) A (d) W

MP Police Constable Exam- 17 August-2023 Shift-3

Ans. (a) : निम्नवत् दी गयी श्रृंखला निम्नवत् है।

P $\xrightarrow{+2}$ R $\xrightarrow{+2}$ T $\xrightarrow{+2}$ V $\xrightarrow{+2}$ X $\xrightarrow{+2}$ Z

131. Select the letter-cluster that can replace the question mark (?) in the following series.

GET IT ON Google Play Best Study PDF के लिए हमारी App को Download करें "GK Trick By Nitin Gupta"

निम्नलिखित श्रृंखला में उस अक्षर-समूह का चयन करें जो प्रश्न चिह्न (?) को प्रतिस्थापित कर सकता है।

V, T, R, P, N, ?

(a) P (b) G
(c) L (d) S

MP Police Constable Exam- 17 August-2023 Shift-3

Ans. (c) : दी गयी श्रृंखला में अक्षर 'L' प्रश्नवाचक चिह्न को प्रतिस्थापित करेगा।

V → T → R → P → N → [L]
−2 −2 −2 −2 −2

132. Find the next term in the series.
श्रृंखला का अगला पद ज्ञात करें।

XA, ?, VC, UD, TE

(a) ZE (b) YE
(c) WB (d) BE

MP Police Constable Exam- 24 August-2023 Shift-3

Ans. (c) : प्रश्नानुसार, अक्षर श्रृंखला निम्नवत् है–

X $\xrightarrow{-1}$ [W] $\xrightarrow{-1}$ V $\xrightarrow{-1}$ U $\xrightarrow{-1}$ T
A $\xrightarrow{+1}$ [B] $\xrightarrow{+1}$ C $\xrightarrow{+1}$ D $\xrightarrow{+1}$ E

अतः [? = WB]

133. Find the missing term in the following series.
निम्नलिखित श्रृंखला में लुप्त पद ज्ञात कीजिए।

FCIR, GELR, HGOR, IIRR, ?

(a) DRMP (b) JRZP
(c) JKUR (d) KTRS

MP Police Constable Exam- 26 August-2023 Shift-2

Ans. (c) : दी गई अक्षर श्रृंखला निम्नवत् है–

F $\xrightarrow{+1}$ G $\xrightarrow{+1}$ H $\xrightarrow{+1}$ I $\xrightarrow{+1}$ [J]
C $\xrightarrow{+2}$ E $\xrightarrow{+2}$ G $\xrightarrow{+2}$ I $\xrightarrow{+2}$ [K]
I $\xrightarrow{+3}$ L $\xrightarrow{+3}$ O $\xrightarrow{+3}$ R $\xrightarrow{+3}$ [U]
R → R → R → R → [R]

अतः [? = JKUR]

134. Which letter-cluster will replace the question mark (?) in the following series?
निम्नलिखित श्रृंखला में प्रश्नवाचक चिह्न (?) के स्थान पर कौन-सा अक्षर-समूह आएगा?

GXB, JVD, MTF, PRH, ?

(a) RPJ (b) SPJ
(c) SQJ (d) RQI

MP Police Constable Exam- 17 August-2023 Shift-3

Ans. (b) : प्रश्नानुसार,

G $\xrightarrow{+3}$ J $\xrightarrow{+3}$ M $\xrightarrow{+3}$ P $\xrightarrow{+3}$ [S]
X $\xrightarrow{-2}$ V $\xrightarrow{-2}$ T $\xrightarrow{-2}$ R $\xrightarrow{-2}$ [P]
B $\xrightarrow{+2}$ D $\xrightarrow{+2}$ F $\xrightarrow{+2}$ H $\xrightarrow{+2}$ [J]

प्रश्नवाचक चिह्न के स्थान पर SPJ आयेगा।

135. Find the next term in the series.
श्रृंखला का अगला पद ज्ञात करें।

E, H, K, N, ?

(a) O (b) Q
(c) M (d) N

MP Police Constable Exam- 26 August-2023 Shift-2

Ans. (b) : दी गई अक्षर श्रृंखला निम्नवत् है–

E → H → K → N → [Q]
+3 +3 +3 +3

अतः [? = Q]

136. Identify the next term in the following letter series ?
निम्न अक्षर श्रृंखला में आगे क्या आएगा ?

CVEX , ATGZ , YRIB , ?

(a) WKPD (b) WKPC
(c) WPKD (d) WPKC

MP Police Constable Exam- 29 August-2023 Shift-1

Ans. (c) : दी गई अक्षर श्रृंखला निम्नवत् है-

C V E X
-2↓ -2↓ +2↓ +2↓
A T G Z
-2↓ -2↓ +2↓ +2↓
Y R I B
-2↓ -2↓ +2↓ +2↓
[W P K D]

अतः [? = WPKD]

137. Which letter-cluster Will replace the question mark (?) in the following series?
निम्नलिखित श्रृंखला में कौन-सा अक्षर-समूह प्रश्न चिह्न (?) का स्थान लेगा?

IVM, HWL, GXK, FYJ, ?

(a) EZH (b) EAH
(c) EZI (d) DZI

MP Police Constable Exam- 19 August-2023 Shift-3

Ans. (c) : दिया गया अक्षर श्रृंखला निम्नवत् है-

I $\xrightarrow{-1}$ H $\xrightarrow{-1}$ G $\xrightarrow{-1}$ F $\xrightarrow{-1}$ [E]
V $\xrightarrow{+1}$ W $\xrightarrow{+1}$ X $\xrightarrow{+1}$ Y $\xrightarrow{+1}$ [Z]
M $\xrightarrow{-1}$ L $\xrightarrow{-1}$ K $\xrightarrow{-1}$ J $\xrightarrow{-1}$ [I]

अतः [? = EZI]

138. Select the letter-cluster that can replace the question mark (?) in the following series.
निम्नलिखित श्रृंखला में उस अक्षर-समूह का चयन करें जो प्रश्न चिह्न (?) को प्रतिस्थापित कर सकता है।

FAK, IEN, LIQ, ?

(a) ORP (b) OPT
(c) OMT (d) NOT

MP Police Constable Exam- 18 August-2023 Shift-3

Ans. (c) : दी गई श्रृंखला इस प्रकार है-

F $\xrightarrow{+3}$ I $\xrightarrow{+3}$ L $\xrightarrow{+3}$ [O]
A $\xrightarrow{+4}$ E $\xrightarrow{+4}$ I $\xrightarrow{+4}$ [M]
K $\xrightarrow{+3}$ N $\xrightarrow{+3}$ Q $\xrightarrow{+3}$ [T]

139. Select the letter-cluster that can replace the question mark (?) in the following series.
निम्नलिखित श्रृंखला में उस अक्षर-समूह का चयन करें जो प्रश्न चिह्न (?) को प्रतिस्थापित कर सकता है।

JAM, EVH, ZQC, ULX, PGS, ?

(a) KBN (b) FES
(c) LOP (d) CDS

MP Police Constable Exam- 18 August-2023 Shift-3

GET IT ON Google Play Best Study PDF के लिए हमारी App को Download करें "GK Trick By Nitin Gupta"

Ans. (a) : दी गई शृंखला इस प्रकार है-

J $\xrightarrow{-5}$ E $\xrightarrow{-5}$ Z $\xrightarrow{-5}$ U $\xrightarrow{-5}$ P $\xrightarrow{-5}$ K
A $\xrightarrow{-5}$ V $\xrightarrow{-5}$ Q $\xrightarrow{-5}$ L $\xrightarrow{-5}$ G $\xrightarrow{-5}$ B
M $\xrightarrow{-5}$ H $\xrightarrow{-5}$ C $\xrightarrow{-5}$ X $\xrightarrow{-5}$ S $\xrightarrow{-5}$ N

140. Which letter will replace the question mark (?) in the following series?
निम्नलिखित शृंखला में (?) की जगह पर क्या आएगा?
J, Q, L, O, N, ?, P, K
(a) K (b) M
(c) I (d) L

MP Police Constable Exam- 18 August-2023 Shift-3

Ans. (b) : दी गई शृंखला इस प्रकार है-

J Q L O N [M] P K
−2 −2 −2
+2 +2 +2

141. Find the missing term in the following series.
निम्नलिखित शृंखला में लुप्त पद ज्ञात कीजिए।
AMP, BMO, CMN, ?, EML
(a) DMN (b) DMM
(c) DMP (d) DML

MP Police Constable Exam- 20 August-2023 Shift-3

Ans. (b) : दी गई शृंखला निम्नवत् है-

A $\xrightarrow{+1}$ B $\xrightarrow{+1}$ C $\xrightarrow{+1}$ [D] $\xrightarrow{+1}$ E
M $\xrightarrow{+0}$ M $\xrightarrow{+0}$ M $\xrightarrow{+0}$ [M] $\xrightarrow{+0}$ M
P $\xrightarrow{-1}$ O $\xrightarrow{-1}$ N $\xrightarrow{-1}$ [M] $\xrightarrow{-1}$ L

अतः [? = DMM]

142. Which letter-cluster Will replace the question mark (?) in the following series?
निम्नलिखित शृंखला में कौन-सा अक्षर-समूह प्रश्न चिह्न (?) का स्थान लेगा?
CID, DKG, EMJ, FOM, GQP, ?
(a) HSS (b) HST
(c) GSS (d) HSG

MP Police Constable Exam- 20 August-2023 Shift-3

Ans. (a) : दी गई शृंखला-

C $\xrightarrow{+1}$ D $\xrightarrow{+1}$ E $\xrightarrow{+1}$ F $\xrightarrow{+1}$ G $\xrightarrow{+1}$ [H]
I $\xrightarrow{+2}$ K $\xrightarrow{+2}$ M $\xrightarrow{+2}$ O $\xrightarrow{+2}$ Q $\xrightarrow{+2}$ [S]
D $\xrightarrow{+3}$ G $\xrightarrow{+3}$ J $\xrightarrow{+3}$ M $\xrightarrow{+3}$ P $\xrightarrow{+3}$ [S]

अतः [? = HSS]

143. Find the missing term in the following series.
निम्नलिखित शृंखला में लुप्त पद ज्ञात कीजिए।
C, I, O, U, ?
(a) A (b) D
(c) C (d) B

MP Police Constable Exam- 20 August-2023 Shift-1

Ans. (a) : दी गयी अक्षर शृंखला निम्नवत् है-

C I O U [A]
+6 +6 +6 +6

अतः (?) = A

144. Which letter will replace the question mark (?) in the following series?
निम्नलिखित पत्र में कौन-सा अक्षर प्रश्न चिह्न (?) को प्रतिस्थापित करेगा?
A, D, G, J, M, ?
(a) Q (b) P
(c) N (d) O

MP Police Constable Exam- 20 August-2023 Shift-1

Ans. (b) : दी गयी अक्षर शृंखला निम्नांकित है-

A D G J M [P]
+3 +3 +3 +3 +3

अतः (?) = P

145. Select the letter-cluster that can replace the question mark (?) in the following series.
निम्नलिखित शृंखला में उस अक्षर-समूह का चयन करें जो प्रश्न चिह्न (?) को प्रतिस्थापित कर सकता है।
CEG, HJL, MOQ, RTV, ?
(a) ZTU (b) WYA
(c) YCA (d) SQU

MP Police Constable Exam- 14 August-2023 Shift-2

Ans. (b) : प्रश्नानुसार दिए गए शृंखला में प्रश्न-चिह्न (?) को निम्नलिखित अक्षर-समूह प्रतिस्थापित करेगा।

C $\xrightarrow{+5}$ H $\xrightarrow{+5}$ M $\xrightarrow{+5}$ R $\xrightarrow{+5}$ [W]
E $\xrightarrow{+5}$ J $\xrightarrow{+5}$ O $\xrightarrow{+5}$ T $\xrightarrow{+5}$ [Y]
G $\xrightarrow{+5}$ L $\xrightarrow{+5}$ Q $\xrightarrow{+5}$ V $\xrightarrow{+5}$ [A]

अतः अक्षर-समूह = WYA

146. Find the next term in the series.
शृंखला का अगला पद ज्ञात कीजिए।
IMI, JOL, KQO, LSR,?,
(a) LJQ (b) MIQ
(c) MUU (d) MIM

MP Police Constable Exam- 09 Feb-2022 Shift-1

Ans. (c) : प्रश्नगत शृंखला निम्नवत् है -

I $\xrightarrow{+1}$ J $\xrightarrow{+1}$ K $\xrightarrow{+1}$ L $\xrightarrow{+1}$ [M]
M $\xrightarrow{+2}$ O $\xrightarrow{+2}$ Q $\xrightarrow{+2}$ S $\xrightarrow{+2}$ [U]
I $\xrightarrow{+3}$ L $\xrightarrow{+3}$ O $\xrightarrow{+3}$ R $\xrightarrow{+3}$ [U]

147. Find the next term in the series.
शृंखला का अगला पद ज्ञात कीजिए।
A, CD, GHI, ?, UVWXY
(a) LMNO (b) MNO
(c) NOPQ (d) MNOP

MP Police Constable Exam- 09 Feb-2022 Shift-1

Ans. (d) : प्रश्नगत अक्षर-समूह शृंखला निम्नवत् है -

A C D G H I [M N O P] U V W X Y
+2 +3 +4 +5

नोटः- इस शृंखला में पदों में अक्षरों की संख्या में निरंतर 1 की वृद्धि हो रही है।

148. Select the letter-cluster that can replace the question mark (?) in the following series.
निम्नलिखित शृंखला में उस अक्षर-समूह का चयन करें जो प्रश्न चिह्न (?) को प्रतिस्थापित कर सकता है।

GET IT ON Google Play Best Study PDF के लिए हमारी App को Download करें "GK Trick By Nitin Gupta"

BDF, CFI, EIM, ?

(a) AEH (b) HMR
(c) KPS (d) RVZ

MP Police Constable Exam- 16 August-2023 Shift-2

Ans. (b) : दी गई श्रृंखला निम्नवत् है-

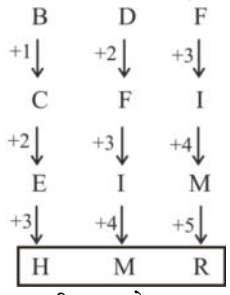

अतः विकल्प (b) सही उत्तर होगा।

149. Which letter-cluster will replace the question mark (?) in the following series?
निम्नलिखित श्रृंखला में से क्रम संख्या विकल्प चिह्न (?) की जगह लेगा?

CGE, EIG, GKI, IMK, ?

(a) KOM (b) YAZ
(c) KZY (d) XBZ

MP Police Constable Exam- 16 August-2023 Shift-2

Ans. (a) : दी गई अक्षर श्रृंखला निम्नवत् है-

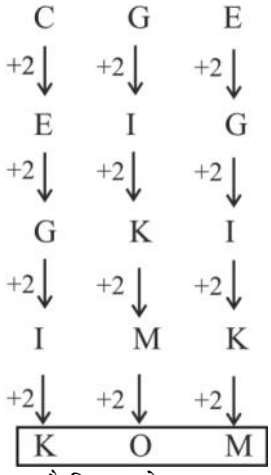

उपर्युक्त से स्पष्ट है कि (?) के स्थान पर 'KOM' आएगा।

150. Find the missing term in the following series.
निम्नलिखित श्रृंखला में लुप्त पद ज्ञात कीजिए।

PLUMS, UFXDV, ZYAUY, ?

(a) EQDLB (b) EPQRS
(c) EMPST (d) EREMA

MP Police Constable Exam- 27 August-2023 Shift-1

Ans. (a) : दी गयी अक्षर श्रृंखला निम्नवत् है–

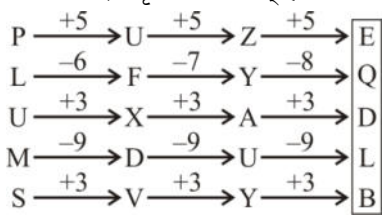

अतः ? = EQDLB

151. Select the letter-cluster that can replace the question mark (?) in the following series.
निम्नलिखित श्रृंखला में उस अक्षर-समूह का चयन करें जो प्रश्न चिह्न (?) को प्रतिस्थापित कर सकता है।

LP, MR, ?, OV, PX

(a) MT (b) NU
(c) MU (d) NT

MP Police Constable Exam- 18 August-2023 Shift-1

Ans. (d) : दी गई श्रेणी निम्नवत् है-

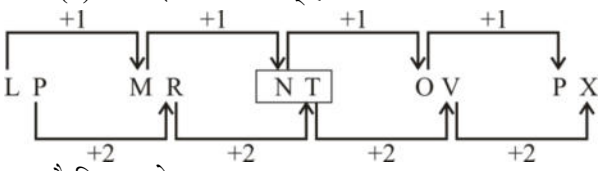

स्पष्ट है कि, (?) के स्थान पर 'NT' आएगा।

152. Select the letter-cluster that can replace the question mark (?) in the following series.
निम्नलिखित श्रृंखला में उस अक्षर-समूह का चयन करें जो प्रश्न चिह्न (?) को प्रतिस्थापित कर सकता है।

CSD, GPF, KMH, ?, SGL

(a) UVW (b) OKJ
(c) OJJ (d) OLM

MP Police Constable Exam- 19 August-2023 Shift-2

Ans. (c) : प्रश्नानुसार,
दी गई अक्षर श्रृंखला निम्नवत् है-

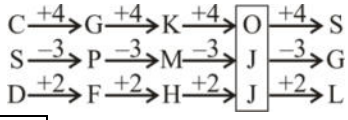

अतः ? = OJJ

153. Find the next term in the series.
श्रृंखला का अगला पद ज्ञात करें।

AG, CH, FJ, ?, OQ

(a) HK (b) GK
(c) JM (d) LK

MP Police Constable Exam- 25 August-2023 Shift-2

Ans. (c) : दी गई श्रृंखला निम्नवत् है–

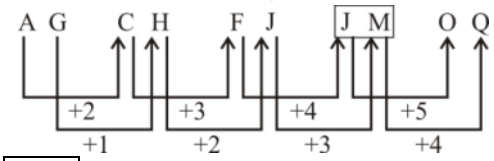

अतः ? = JM

154. Find the missing term in the following series.
निम्नलिखित श्रृंखला में लुप्त पद ज्ञात कीजिए।

SKC, VND, YQE, ?

(a) BTF (b) MPQ
(c) TUW (d) HJJ

MP Police Constable Exam- 24 August-2023 Shift-3

Ans. (a) : दिया गया अक्षर श्रृंखला निम्नवत् है–

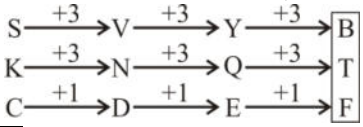

अतः ? = BTF

GET IT ON Google Play Best Study PDF के लिए हमारी App को Download करें "GK Trick By Nitin Gupta"

155. Select the option that is related to the third term in the same way as the second term is related to the first term.
उस विकल्प का चयन करें जो तीसरे पद से उसी प्रकार संबंधित है जैसे दूसरा पद पहले पद से संबंधित है।

EHK : KHE :: HKO : ?

(a) LPO (b) OKH
(c) LPJ (d) LKJ

MP Police Constable Exam- 26 August-2023 Shift-2

Ans. (b) : जिस प्रकार,

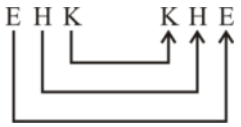

उसी प्रकार,

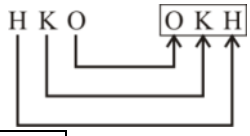

अतः ? = OKH

156. What should come in the place of question mark ?
प्रश्नवाचक चिह्न के स्थान पर क्या आयेगा ?

SMD TLE UKF VJG WIH ?

(a) IHX (b) XIH
(c) HXI (d) XHI

MP Police Constable Exam- 31 August-2023 Shift-2

Ans. (d) : दी गई अक्षर श्रृंखला निम्नवत् है–

S $\xrightarrow{+1}$ T $\xrightarrow{+1}$ U $\xrightarrow{+1}$ V $\xrightarrow{+1}$ W $\xrightarrow{+1}$ X
M $\xrightarrow{-1}$ L $\xrightarrow{-1}$ K $\xrightarrow{-1}$ J $\xrightarrow{-1}$ I $\xrightarrow{-1}$ H
D $\xrightarrow{+1}$ E $\xrightarrow{+1}$ F $\xrightarrow{+1}$ G $\xrightarrow{+1}$ H $\xrightarrow{+1}$ I

अतः (?) = XHI

157. A series is given with one term missing. Select the correct alternative from the given ones that will complete the series.
एक अनुक्रम दिया गया है, जिसमें से एक पद लुप्त है। दिए गए विकल्पों में से वह सही विकल्प चुनिए, जो अनुक्रम को पूरा करे।

RA, JF, BK, TP, LU, ?

(a) QY (b) RX
(c) DZ (d) TZ

MP Police Constable Exam- 3 Sep-2023 Shift-1

Ans. (c) : दी गई अक्षर श्रृंखला इस प्रकार है–

R $\xrightarrow{-8}$ J $\xrightarrow{-8}$ B $\xrightarrow{-8}$ T $\xrightarrow{-8}$ L $\xrightarrow{-8}$ D
A $\xrightarrow{+5}$ F $\xrightarrow{+5}$ K $\xrightarrow{+5}$ P $\xrightarrow{+5}$ U $\xrightarrow{+5}$ Z

158. Find out the wrong term from the following :
निम्न में से गलत पद ज्ञात कीजिए :

ABC, DGJ, HMR, NTA, SBK, ZKV

(a) DGJ (b) HMR
(c) NTA (d) SBK

MP Police Constable Recruitment Test - 2013

Ans. (c) : अक्षर श्रृंखला निम्नांकित है

A $\xrightarrow{+3}$ D $\xrightarrow{+4}$ H $\xrightarrow{+6}$ N $\xrightarrow{+6}$ S $\xrightarrow{+7}$ Z
B $\xrightarrow{+5}$ G $\xrightarrow{+6}$ M $\xrightarrow{+7}$ T $\xrightarrow{+8}$ B $\xrightarrow{+9}$ K
C $\xrightarrow{+7}$ J $\xrightarrow{+8}$ R $\xrightarrow{+9}$ A $\xrightarrow{+10}$ K $\xrightarrow{+11}$ N

स्पष्ट है कि NTA पद गलत है जबकि सही पद 'MTA' होना चाहिए।

159. Find the missing letters in the following :
निम्न में लुप्त अक्षरसमूह ज्ञात कीजिए :

BCFH, __?__, HILN, KLOQ, NORT

(a) MNQS (b) EFIK
(c) NOPQ (d) PQTV

MP Police Constable Recruitment Test - 2013

Ans. (b) : अक्षर समूह श्रृंखला निम्नांकित है-

B $\xrightarrow{+3}$ E $\xrightarrow{+3}$ H $\xrightarrow{+3}$ K $\xrightarrow{+3}$ N
C $\xrightarrow{+3}$ F $\xrightarrow{+3}$ I $\xrightarrow{+3}$ L $\xrightarrow{+3}$ O
F $\xrightarrow{+3}$ I $\xrightarrow{+3}$ L $\xrightarrow{+3}$ O $\xrightarrow{+3}$ R
H $\xrightarrow{+3}$ K $\xrightarrow{+3}$ N $\xrightarrow{+3}$ Q $\xrightarrow{+3}$ T

? = EFIK

160. Complete the series choosing the missing letter:
विलुप्त अक्षर चुनकर श्रंखला को पूरा कीजिए:

__bca__cda__cd__

(a) abcd (b) bcde
(c) abdd (d) abbe

MP Police Constable Exam- 1 August-2016, 3:pm

Ans : (d) श्रृंखला का क्रम है-

abca b cda b cd e

∴ ? = abbe

161. Complete the series choosing the missing letter:
विलुप्त अक्षर चुनकर श्रंखला को पूरा कीजिए:

_ _ bdac_d_cb_ac_d

(a) acbbad (b) acbabd
(c) acbadb (d) acbbda

MP Police Constable Exam- 1 August-2016, 3:pm

Ans : (c) श्रृंखला का क्रम होगा-

a c bd ac b da c b dac b d

∴ ? = acbadb होगा।

162. Which of the following can replace the question mark?
निम्न में से कौन प्रश्नवाचक चिह्न को प्रतिस्थापित कर सकता है?

AB, ED, IF, OH, ?

(a) UJ (b) HJ
(c) IK (d) KL

MP Police Constable Exam- 20 August-2023 Shift-3

Ans. (a) : प्रश्नानुसार,

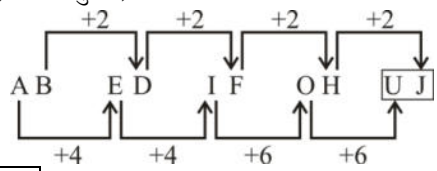

अतः ? = UJ

GET IT ON Google Play Best Study PDF के लिए हमारी App को Download करें "GK Trick By Nitin Gupta"

Type-3: अंको तथा अक्षरों की मिश्रित शृंखला

163. The below series uses a sequence of alphabets and numbers. Identify the incorrect combination.
नीचे दी गई शृंखला अक्षरों एवं संख्याओं का अनुक्रम प्रयोग करती है। गलत संयोजन पहचानिये।

(a) KS26413902RUO
(b) KS26473902RUO
(c) KS26413902RUO
(d) KS26413902RUO

MP Police Constable Exam 23 July 2016 - 9:am

Ans : (b) विकल्प (a), (c) तथा (d) समान है जबकि विकल्प (b) भिन्न है क्योंकि विकल्प (b) KS264 7 3902RUO में 7 की जगह अन्य सभी विकल्पों में एक दिया गया है।

164. Find the missing term in the following letter-cluster series given below :
निम्नलिखित अक्षर-समूह शृंखला में लुप्त पद ज्ञात कीजिए :

J10T, O15Y, ? , Y25I, D30N

(a) S20C (b) T20D
(c) C20D (d) T20C

MP Police Constable Exam- 31 August-2023 Shift-3

Ans. (b) : प्रश्नानुसार, अक्षर-समूह निम्नवत् है–

J $\xrightarrow{+5}$ O $\xrightarrow{+5}$ T $\xrightarrow{+5}$ Y $\xrightarrow{+5}$ D
10 $\xrightarrow{+5}$ 15 $\xrightarrow{+5}$ 20 $\xrightarrow{+5}$ 25 $\xrightarrow{+5}$ 30
T $\xrightarrow{+5}$ Y $\xrightarrow{+5}$ D $\xrightarrow{+5}$ I $\xrightarrow{+5}$ N

अतः ? = T20D

165. In the following question, a certain series of numbers or letters is given of which one series is empty. You have to decide which of the alternative series of the answer will be used in the blank space that is originally related to the sequence of that series.
निम्नलिखित प्रश्न में, संख्याओं या अक्षरों की एक निश्चित शृंखला दी गई हे, जिसमें से एक शृंखला खाली है। आपको यह तय करना है कि मूल रूप से शृंखला के अनुक्रम से संबंधित रिक्त स्थान में उत्तर की कौन-सी वैकल्पिक शृंखला का उपयोग किया जाएगा।

GL6, IJ9, KH12, MF15, ?

(a) OD18 (b) OB18
(c) PB18 (d) PB17

MP Police Constable Exam- 24 August-2023 Shift-2

Ans. (a) : प्रश्नानुसार, दी गयी शृंखला निम्नवत् है–

G $\xrightarrow{+2}$ I $\xrightarrow{+2}$ K $\xrightarrow{+2}$ M $\xrightarrow{+2}$ O
L $\xrightarrow{-2}$ J $\xrightarrow{-2}$ H $\xrightarrow{-2}$ F $\xrightarrow{-2}$ D
6 $\xrightarrow{+3}$ 9 $\xrightarrow{+3}$ 12 $\xrightarrow{+3}$ 15 $\xrightarrow{+3}$ 18

अतः ? = OD18

166. What should come in the place of question mark ?
प्रश्नवाचक चिह्न के स्थान पर क्या आयेगा ?

BFU33 RTD364 XVM541 UTY?

(a) 521 (b) 445
(c) 454 (d) 550

MP Police Constable Exam- 29 August-2023 Shift-2

Ans. (b) : जिस प्रकार,

2 6 21
B F U 33
$2 \times 6 + 21 = 33$

तथा

18 20 4
R T D 364
$18 \times 20 + 4 = 364$

और

24 22 13
X V M 541
$24 \times 22 + 13 = 541$

उसी प्रकार,

21 20 25
U T Y ?
$21 \times 20 + 25 = 445$

अतः ? = 445

167. In the following question, a certain series of numbers or letters is given of which one series is empty. You have to decide which of the alternative series of the answer will be used in that is originally related to the sequence of that series.
निम्नलिखित प्रश्न में, संख्याओं या अक्षरों की एक निश्चित शृंखला दी गई है, जिसमें से एक शृंखला खाली है। आपको यह तय करना है कि मूल रूप से उस शृंखला के अनुक्रम से संबंधित रिक्त स्थान में उत्तर की कौन-सी वैकल्पिक शृंखला का उपयोग किया जायेगा।

2A, 4B, 8D, 16G, 32K, ?

(a) 34Q (b) 64P
(c) 34R (d) 38S

MP Police Constable Exam- 27 August-2023 Shift-1

Ans. (b) : दी गयी अक्षर-संख्या शृंखला निम्नवत् है–

2 $\xrightarrow{\times 2}$ 4 $\xrightarrow{\times 2}$ 8 $\xrightarrow{\times 2}$ 16 $\xrightarrow{\times 2}$ 32 $\xrightarrow{\times 2}$ 64
A $\xrightarrow{+1}$ B $\xrightarrow{+2}$ D $\xrightarrow{+3}$ G $\xrightarrow{+4}$ K $\xrightarrow{+5}$ P

अतः ? = 64P

168. Which of the following can replace the question mark ?
निम्न में से कौन प्रश्नवाचक चिह्न को प्रतिस्थापित कर सकता है ?

A4, D8, H16, M32, ?

(a) S64 (b) P64
(c) O64 (d) R64

MP Police Constable Exam- 27 August-2023 Shift-1

Ans. (a) : दी गयी अक्षर-संख्या शृंखला निम्नवत् है–

A $\xrightarrow{+3}$ D $\xrightarrow{+4}$ H $\xrightarrow{+5}$ M $\xrightarrow{+6}$ S
4 $\xrightarrow{\times 2}$ 8 $\xrightarrow{\times 2}$ 16 $\xrightarrow{\times 2}$ 32 $\xrightarrow{\times 2}$ 64

अतः ? = S64

GET IT ON Google Play Best Study PDF के लिए हमारी App को Download करें "GK Trick By Nitin Gupta"

169. In the following question, a certain series of numbers or letters is given of which one series is empty. You have to decide which of the alternative series of the answer will be used in the blank space that is originally related to the sequence of that series.

निम्नलिखित प्रश्न में, संख्याओं या अक्षरों की एक निश्चित शृंखला दी गई है, जिसमें से एक शृंखला खाली है। आपको यह तय करना है कि मूल रूप से उस शृंखला के अनुक्रम से संबंधित रिक्त स्थान में उत्तर की कौन-सी वैकल्पिक शृंखला का उपयोग किया जाएगा।

DE5, EF6, FG7, GH8, ?

(a) HI9 (b) HJ10
(c) GI9 (d) GJ10

MP Police Constable Exam- 25 August-2023 Shift-3

Ans. (a) : दी गयी अक्षर-संख्या शृंखला निम्नवत् है–

D $\xrightarrow{+1}$ E $\xrightarrow{+1}$ F $\xrightarrow{+1}$ G $\xrightarrow{+1}$ H
E $\xrightarrow{+1}$ F $\xrightarrow{+1}$ G $\xrightarrow{+1}$ H $\xrightarrow{+1}$ I
5 $\xrightarrow{+1}$ 6 $\xrightarrow{+1}$ 7 $\xrightarrow{+1}$ 8 $\xrightarrow{+1}$ 9

अतः ? = HI9

170. Find the missing term in the following series.
निम्नलिखित शृंखला में लुप्त पद ज्ञात कीजिए।

C4X, F9U, I16R, ?

(a) L25P (b) K25P
(c) L27P (d) L25O

MP Police Constable Exam- 18 August-2023 Shift-1

Ans. (d) : दी गई श्रेणी निम्नवत् है-

C $\xrightarrow{+3}$ F $\xrightarrow{+3}$ I $\xrightarrow{+3}$ L
4^2 $\longrightarrow$ 3^2 $\longrightarrow$ 4^2 $\longrightarrow$ 5^2
X $\xrightarrow{-3}$ U $\xrightarrow{-3}$ R $\xrightarrow{-3}$ O

अतः (?) के स्थान पर 'L25O' आयेगा।

171. Select the letter-cluster that can replace the question mark (?) in the following series.
निम्नलिखित शृंखला में उस अक्षर-समूह का चयन करें जो प्रश्न चिह्न (?) को प्रतिस्थापित कर सकता है।

K –1, L–2, M – 3, N – 4, O – 5, ?

(a) P – 6 (b) P – 8
(c) P – 10 (d) W – 12

MP Police Constable Exam- 12 August-2023 Shift-2

Ans. (a) : दी गई शृंखला निम्नवत् है।

K – 1 $\xrightarrow{+1}$ L – 2 $\xrightarrow{+1}$ M – 3 $\xrightarrow{+1}$ N – 4 $\xrightarrow{+1}$ O – 5 $\xrightarrow{+1}$ P – 6

अतः (?) के स्थान पर 'P – 6' आयेगा।

172. In the following question, a certain series of numbers or letters is given of which one series is empty. You have to decide which of the alternative series of the answer will be used in the blank space that is originally related to the sequence of that series.

निम्नलिखित प्रश्न में, संख्याओं या अक्षरों की एक निश्चित शृंखला दी गई है, जिसमें से एक शृंखला खाली है। आपको यह तय करना है कि मूल रूप से उस शृंखला के अनुक्रम से संबंधित रिक्त स्थान में उत्तर की कौन-सी वैकल्पिक शृंखला का उपयोग किया जाएगा।

2A13, 4E16, 6I19, ?

(a) 12N22 (b) 4N21
(c) 8M22 (d) 14N18

MP Police Constable Exam- 23 August-2023 Shift-2

Ans. (c) : दी गई शृंखला निम्नवत् है–

2 $\xrightarrow{+2}$ 4 $\xrightarrow{+2}$ 6 $\xrightarrow{+2}$ 8
A $\xrightarrow{+4}$ E $\xrightarrow{+4}$ I $\xrightarrow{+4}$ M
13 $\xrightarrow{+3}$ 16 $\xrightarrow{+3}$ 19 $\xrightarrow{+3}$ 22

? = 8M22

अतः विकल्प (c) सही है।

173. Which of the following can replace the question mark ?
निम्न में से कौन प्रश्नवाचक चिह्न को प्रतिस्थापित कर सकता है ?

AC25, CE36, EG49, GI64, ?

(a) HO52 (b) KM72
(c) HI22 (d) IK81

MP Police Constable Exam- 23 August-2023 Shift-2

Ans. (d) : निम्नलिखित शृंखला इस प्रकार है–

A $\longrightarrow$ C $\longrightarrow$ E $\longrightarrow$ G $\longrightarrow$ I
C $\longrightarrow$ E $\longrightarrow$ G $\longrightarrow$ I $\longrightarrow$ K
5^2 $\longrightarrow$ 6^2 $\longrightarrow$ 7^2 $\longrightarrow$ 8^2 $\longrightarrow$ $9^2=81$

अतः ? = IK81

174. In the following question, a certain series of numbers or letters is given of which one series is empty. You have to decide which of the alternative series of the answer will be used in space that is originally related to the sequence of that series.

निम्नलिखित प्रश्न में, संख्याओं या अक्षरों की एक निश्चित शृंखला दी गई है, जिसमें से एक शृंखला खाली है। आपको यह तय करना है कि मूल रूप से उस शृंखला के अनुक्रम से संबंधित रिक्त स्थान में उत्तर की कौन-सी वैकल्पिक शृंखला का उपयोग किया जाएगा।

BC6, DE8, FG10, ?

(a) HI12 (b) IJ90
(c) GJ70 (d) GI72

MP Police Constable Exam- 26 August-2023 Shift-3

Ans. (a) : दी गई अक्षर शृंखला निम्नवत् है–

B $\xrightarrow{+2}$ D $\xrightarrow{+2}$ F $\xrightarrow{+2}$ H
C $\xrightarrow{+2}$ E $\xrightarrow{+2}$ G $\xrightarrow{+2}$ I
6 $\xrightarrow{+2}$ 8 $\xrightarrow{+2}$ 10 $\xrightarrow{+2}$ 12

अतः ? = HI12

GET IT ON Google Play Best Study PDF के लिए हमारी App को Download करें "GK Trick By Nitin Gupta"

175. Which of the following can replace the question mark ?
निम्न में से कौन प्रश्नवाचक चिह्न को प्रतिस्थापित कर सकता है ?

A2I, E4J, I8K, O16L,?

(a) U32M (b) U16N
(c) U18N (d) U32L

MP Police Constable Exam- 26 August-2023 Shift-3

Ans. (a) : दी गयी अक्षर श्रृंखला निम्नवत् है–

A $\xrightarrow{\text{स्वर अक्षर}}$ E $\xrightarrow{\text{स्वर अक्षर}}$ I $\xrightarrow{\text{स्वर अक्षर}}$ O $\xrightarrow{\text{स्वर अक्षर}}$ U

2 $\xrightarrow{\times 2}$ 4 $\xrightarrow{\times 2}$ 8 $\xrightarrow{\times 2}$ 16 $\xrightarrow{\times 2}$ 32

I $\xrightarrow{+1}$ J $\xrightarrow{+1}$ K $\xrightarrow{+1}$ L $\xrightarrow{+1}$ M

अतः ? = U32M

176. In the following question, a certain series of numbers or letters is given of which one series is empty. You have to decide which of the alternative series of the answer will be used in the blank space that is originally related to the sequence of that series.
निम्नलिखित प्रश्न में, संख्याओं या अक्षरों की एक निश्चित श्रृंखला दी गई है, जिसमें से एक श्रृंखला खाली है। आपको यह तय करना है कि मूल रूप से उस श्रृंखला के अनुक्रम से संबंधित रिक्त स्थान में उत्तर की कौन-सी वैकल्पिक श्रृंखला का उपयोग किया जाएगा।

A, 4, C, 9, ?, 14, G, 19

(a) D (b) E
(c) F (d) H

MP Police Constable Exam- 25 August-2023 Shift-1

Ans. (b) : संख्याओं या अक्षरों की श्रृंखला निम्नवत् है–

A $\xrightarrow{+2}$ C $\xrightarrow{+2}$ E $\xrightarrow{+2}$ G

4 $\xrightarrow{+5}$ 9 $\xrightarrow{+5}$ 14 $\xrightarrow{+5}$ 19

अतः ? = E

177. In the following question, a certain series of numbers or letters is given of which one series is empty. You have to decide which of the alternative series of the answer will be used in the blank space that is originally related to the sequence of that series.
निम्नलिखित प्रश्न में, संख्याओं या अक्षरों की एक निश्चित श्रृंखला दी गई है, जिसमें से एक श्रृंखला खाली है। आपको यह तय करना है कि मूल रूप से उस श्रृंखला के अनुक्रम से संबंधित रिक्त स्थान में उत्तर की कौन-सी वैकल्पिक श्रृंखला का उपयोग किया जाएगा।

4G, 7H, 10J, 13M, ?

(a) 26Q (b) 16Q
(c) 28N (d) 25Q

MP Police Constable Exam- 23 August-2023 Shift-3

Ans. (b) : दी गई श्रृंखला निम्नवत् है–

4 $\xrightarrow{+3}$ 7 $\xrightarrow{+3}$ 10 $\xrightarrow{+3}$ 13 $\xrightarrow{+3}$ 16

G $\xrightarrow{+1}$ H $\xrightarrow{+2}$ J $\xrightarrow{+3}$ M $\xrightarrow{+4}$ Q

अतः ? = 16Q

178. In question, a series is given, with one term missing. Choose the correct alternative from the given one that will complete the series.
प्रश्न में, एक श्रृंखला दी गई है जिसमें एक पद लुप्त है। दिए गए विकल्पों में से योग्य उत्तर चुनिए, जो इस श्रृंखला को पूरा करें।

DI8, HG5, ?, MZ4, NU6

(a) HK3 (b) NP8
(c) RT4 (d) KD7

MP Police Constable Exam- 8 Sep-2023 Shift-1

Ans. (d) : श्रृंखला निम्नवत् है-

D $\xrightarrow{+4}$ H $\xrightarrow{+3}$ K $\xrightarrow{+2}$ M $\xrightarrow{+1}$ N

I $\xrightarrow{-2}$ G $\xrightarrow{-3}$ D $\xrightarrow{-4}$ Z $\xrightarrow{-5}$ U

8 5 7 4 6

−1 −1 −1

? = KD7

अतः विकल्प (d) सही उत्तर है।

179. In the following question, a certain series of numbers or letters is given of which one series is empty. You have to decide which of the alternative series of the answer will be used in the blank space that is originally related to the sequence of that series.
निम्नलिखित प्रश्न में, संख्याओं या अक्षरों की एक निश्चित श्रृंखला दी गई है, जिसमें से एक श्रृंखला खाली है। आपको यह तय करना है कि मूल रूप से उस श्रृंखला के अनुक्रम से संबंधित रिक्त स्थान में उत्तर की कौन-सी वैकल्पिक श्रृंखला का उपयोग किया जाएगा।

5A25, 10D100, 15G400, ?

(a) 20K400 (b) 20J1900
(c) 21J200 (d) 20J1600

MP Police Constable Exam- 23 August-2023 Shift-1

Ans. (d) : दी गयी श्रृंखला निम्नवत् है–

5 $\xrightarrow{+5}$ 10 $\xrightarrow{+5}$ 15 $\xrightarrow{+5}$ 20

A $\xrightarrow{+3}$ D $\xrightarrow{+3}$ G $\xrightarrow{+3}$ J

25 $\xrightarrow{\times 4}$ 100 $\xrightarrow{\times 4}$ 400 $\xrightarrow{\times 4}$ 1600

अतः ? = 20J1600

180. Which of the following can replace the question mark ?
निम्न में से कौन प्रश्नवाचक चिह्न को प्रतिस्थापित कर सकता है ?

A2B, E3F, I5J, O7N, ?

(a) U8V (b) U11R
(c) U13V (d) U15V

MP Police Constable Exam- 28 August-2023 Shift-3

Ans. (b) : प्रश्नानुसार, श्रृंखला क्रम निम्नवत् है–

(स्वर क्रम) → A → E → I → O → U

(अभाज्य संख्या क्रम) → 2 → 3 → 5 → 7 → 11

B $\xrightarrow{+4}$ F $\xrightarrow{+4}$ J $\xrightarrow{+4}$ N $\xrightarrow{+4}$ R

अतः ? = U11R

GET IT ON Google Play Best Study PDF के लिए हमारी App को Download करें "GK Trick By Nitin Gupta"

181. Which of the following can replace the question mark ?
निम्न में से कौन प्रश्नवाचक चिह्न को प्रतिस्थापित कर सकता है ?

N15A, P18B, R21C, ?, V27E

(a) S23D (b) S25F
(c) T24D (d) T25E

MP Police Constable Exam- 23 August-2023 Shift-1

Ans. (c) : प्रश्नानुसार,

N $\xrightarrow{+2}$ P $\xrightarrow{+2}$ R $\xrightarrow{+2}$ [T] $\xrightarrow{+2}$ V
15 $\xrightarrow{+3}$ 18 $\xrightarrow{+3}$ 21 $\xrightarrow{+3}$ [24] $\xrightarrow{+3}$ 27
A $\xrightarrow{+1}$ B $\xrightarrow{+1}$ C $\xrightarrow{+1}$ [D] $\xrightarrow{+1}$ E

अतः ? = T24D

182. In the following question, a certain series of numbers or letters is given of which one series is empty. You have to decide which of the alternative series of the answer will be used in the blank space that is originally related to the sequence of that series.
निम्नलिखित प्रश्न में, संख्याओं या अक्षरों की एक निश्चित श्रृंखला दी गई है, जिसमें से एक श्रृंखला खाली है। आपको यह तय करना है कि मूल रूप से उस श्रृंखला के अनुक्रम से संबंधित रिक्त स्थान में उत्तर की कौन-सी वैकल्पिक श्रृंखला का उपयोग किया जाएगा।

D4, G8, J16, M32, ?

(a) P64 (b) O60
(c) N48 (d) Q58

MP Police Constable Exam- 25 August-2023 Shift-2

Ans. (a) : दी गई अक्षर संख्या श्रृंखला निम्नवत् है–

D 4 $\xrightarrow{+3}$ G 8 $\xrightarrow{+3}$ J 16 $\xrightarrow{+3}$ M 32 $\xrightarrow{+3}$ [P64]
$\xrightarrow{\times 2}$ $\xrightarrow{\times 2}$ $\xrightarrow{\times 2}$ $\xrightarrow{\times 2}$

अतः ? = P64

183. Find the missing term in the following series.
निम्नलिखित श्रृंखला में लुप्त पद ज्ञात कीजिए।

CAB4, FDE6, IGH8, ?

(a) LJK10 (b) JLK12
(c) LKJ14 (d) JKL16

MP Police Constable Exam- 18 August-2023 Shift-2

Ans. (a) : दी गई श्रृंखला निम्नवत् है-

C $\xrightarrow{+3}$ F $\xrightarrow{+3}$ I $\xrightarrow{+3}$ [L]
A $\xrightarrow{+3}$ D $\xrightarrow{+3}$ G $\xrightarrow{+3}$ [J]
B $\xrightarrow{+3}$ E $\xrightarrow{+3}$ H $\xrightarrow{+3}$ [K]
4 $\xrightarrow{+2}$ 6 $\xrightarrow{+2}$ 8 $\xrightarrow{+2}$ [10]

अतः ? = LJK10

184. Which of the following can replace the question mark?
निम्न में से कौन प्रश्नवाचक चिह्न को प्रतिस्थापित कर सकता है?

D6, J12, P24, V48?

(a) B12 (b) B96
(c) F96 (d) B12

MP Police Constable Exam- 18 August-2023 Shift-2

Ans. (b) : दी गई संख्या श्रृंखला निम्नवत् है-

D $\xrightarrow{+6}$ J $\xrightarrow{+6}$ P $\xrightarrow{+6}$ V $\xrightarrow{+6}$ [B]
6 $\xrightarrow{\times 2}$ 12 $\xrightarrow{\times 2}$ 24 $\xrightarrow{\times 2}$ 48 $\xrightarrow{\times 2}$ [96]

185. In the following question, a certain series of numbers or letters is given of which one series is empty. You have to decide which of the alternative series of the answer will be used in the blank space that is originally related to the sequence of that series.
निम्नलिखित प्रश्न में, संख्याओं या अक्षरों की एक निश्चित श्रृंखला दी गई है, जिसमें से एक श्रृंखला खाली है। आपको यह तय करना है कि मूल रूप से उस श्रृंखला के अनुक्रम से संबंधित रिक्त स्थान में उत्तर की कौन-सी वैकल्पिक श्रृंखला का उपयोग किया जाएगा।

D4W, G9T, J14Q, ?

(a) L25N (b) P25M
(c) O25J (d) M19N

MP Police Constable Exam- 24 August-2023 Shift-3

Ans. (d) : दी गई श्रृंखला निम्नवत् है–

D $\xrightarrow{+3}$ G $\xrightarrow{+3}$ J $\xrightarrow{+3}$ [M]
4 $\xrightarrow{+5}$ 9 $\xrightarrow{+5}$ 14 $\xrightarrow{+5}$ [19]
W $\xrightarrow{-3}$ T $\xrightarrow{-3}$ Q $\xrightarrow{-3}$ [N]

अतः ? = M19N

186. In the following question, a certain series of numbers or letters is given of which one series is empty. You have to decide which of the alternative series of the answer will be used in the blank space that is originally related to the sequence of that series.
निम्नलिखित प्रश्न में, संख्याओं या अक्षरों की एक निश्चित श्रृंखला दी गई है, जिसमें से एक श्रृंखला खाली है। आपको यह तय करना है कि मूल रूप से उस श्रृंखला के अनुक्रम से संबंधित रिक्त स्थान में उत्तर की कौन-सी वैकल्पिक श्रृंखला का उपयोग किया जाएगा।

C10, E12, ?, I16, K18

(a) G14 (b) H16
(c) F16 (d) J14

MP Police Constable Exam- 26 August-2023 Shift-2

Ans. (a) : दी गई श्रृंखला निम्नवत् है–

C $\xrightarrow{+2}$ E $\xrightarrow{+2}$ [G] $\xrightarrow{+2}$ I $\xrightarrow{+2}$ K
10 $\xrightarrow{+2}$ 12 $\xrightarrow{+2}$ [14] $\xrightarrow{+2}$ 16 $\xrightarrow{+2}$ 18

अतः ? = G14

187. Which of the following can replace the question mark?
निम्न में से कौन प्रश्नवाचक चिह्न को प्रतिस्थापित कर सकता है?

B-4, C-9, D-16, E-?

(a) 25 (b) 36
(c) 49 (d) 64

MP Police Constable Exam- 19 August-2023 Shift-3

GET IT ON Google Play Best Study PDF के लिए हमारी App को Download करें "GK Trick By Nitin Gupta"

Ans. (a) : दिया गया अक्षर-संख्या शृंखला निम्नवत् है-

B – 4, C – 9, D – 16, E – ?

$2^2=4$ $3^2=9$ $4^2=16$ $5^2=25$

अतः ? = 25

188. Which of the following can replace the question mark?
निम्न में से कौन प्रश्नवाचक चिह्न को प्रतिस्थापित कर सकता है?

M21, R35, W49, B63, ?

(a) T77 (b) G77
(c) G15 (d) D18

MP Police Constable Exam- 18 August-2023 Shift-3

Ans. (b) : दी गई शृंखला इस प्रकार है-

M $\xrightarrow{+5}$ R $\xrightarrow{+5}$ W $\xrightarrow{+5}$ B $\xrightarrow{+5}$ G

21 $\xrightarrow{+14}$ 35 $\xrightarrow{+14}$ 49 $\xrightarrow{+14}$ 63 $\xrightarrow{+14}$ 77

189. Which of the following can replace the question mark?
निम्न में से कौन प्रश्नवाचक चिह्न को प्रतिस्थापित कर सकता है?

P6Q, Q6T, R6W, S6Z, ?

(a) F121E (b) T6C
(c) P136U (d) T128U

MP Police Constable Exam- 1 Sep-2023 Shift-1

Ans. (b) : दी गई शृंखला निम्नवत् है–

P $\xrightarrow{+1}$ Q $\xrightarrow{+1}$ R $\xrightarrow{+1}$ S $\xrightarrow{+1}$ T

6 $\xrightarrow{+0}$ 6 $\xrightarrow{+0}$ 6 $\xrightarrow{+0}$ 6 $\xrightarrow{+0}$ 6

Q $\xrightarrow{+3}$ T $\xrightarrow{+3}$ W $\xrightarrow{+3}$ Z $\xrightarrow{+3}$ C

अतः ? = T6C

190. In the following question, a certain series of numbers or letters is given of which one series is empty. You have to decide which of the alternative series of the answer will be used in the blank space that is originally related to the sequence of that series.
निम्नलिखित प्रश्न में, संख्याओं या अक्षरों की एक निश्चित शृंखला दी गई है, जिसमें से एक शृंखला खाली है। आपको यह तय करना है कि मूल रूप से उस शृंखला के अनुक्रम से संबंधित रिक्त स्थान में उत्तर की कौन-सी वैकल्पिक शृंखला का उपयोग किया जाएगा।

N-14, P-16, R-18, ?

(a) V-21 (b) T-20
(c) M-13 (d) J-11

MP Police Constable Exam- 20 August-2023 Shift-3

Ans. (b) : दी गई अक्षर संख्या शृंखला निम्न है-

N - 14 $\xrightarrow{+2}$ P - 16 $\xrightarrow{+2}$ R - 18 $\xrightarrow{+2}$ T - 20

अतः ? = T-20

191. In the following question, a certain series of numbers or letters is given of which one series is empty. You have to decide which of the alternative series of the answer will be used in the blank space that is originally related to the sequence of that series.
निम्नलिखित प्रश्न में, संख्याओं या अक्षरों की एक निश्चित शृंखला दी गई है, जिसमें से एक शृंखला खाली है। आपको यह तय करना है कि मूल रूप से उस शृंखला के अनुक्रम से संबंधित रिक्त स्थान में उत्तर की कौन-सी वैकल्पिक शृंखला का उपयोग किया जाएगा।

8, A, 6, B, 11, C, 9, D, ?

(a) 8 (b) 14
(c) 18 (d) 21

MP Police Constable Exam- 20 August-2023 Shift-1

Ans. (b) : दी गयी शृंखला निम्नवत् है-

8 A 6 B 11 C 9 D 14

+1 +1 +1

–2 +5 –2 +5

192. Which of the following can replace the question mark?
निम्न में से कौन प्रश्नवाचक चिह्न को प्रतिस्थापित कर सकता है?

QM55, TP55, WS55, ZV55, ?

(a) CV112 (b) CY55
(c) DF112 (d) SA213

MP Police Constable Exam- 20 August-2023 Shift-1

Ans. (b) : दी गयी शृंखला निम्नवत् है-

Q M 55 T P 55 W S 55 Z V 55 C Y 55

+3 +3 +3 +3

+3 +3 +3 +3

अतः (?) = CY55

193. In the following question, a certain series of numbers or letters is given of which one series is empty. You have to decide which of the alternative series of the answer will be used in the blank space that is originally related to the sequence of that series.
निम्नलिखित प्रश्न में, संख्याओं या अक्षरों की एक निश्चित शृंखला दी गई है, जिसमें से एक शृंखला खाली है। आपको यह तय करना है कि मूल रूप से उस शृंखला के अनुक्रम से संबंधित रिक्त स्थान में उत्तर की कौन-सी वैकल्पिक शृंखला का उपयोग किया जाएगा।

AD7, EH11, IL15, MP19, ?

(a) QT23 (b) QT22
(c) QT25 (d) QT24

MP Police Constable Exam- 01 Feb-2022 Shift-1

GET IT ON Google Play Best Study PDF के लिए हमारी App को Download करें "GK Trick By Nitin Gupta"

Ans. (a) : प्रश्नगत शृंखला निम्न प्रकार है-

$A \xrightarrow{+4} E \xrightarrow{+4} I \xrightarrow{+4} M \xrightarrow{+4}$ Q

$D \xrightarrow{+4} H \xrightarrow{+4} L \xrightarrow{+4} P \xrightarrow{+4}$ T

$7 \xrightarrow{+4} 11 \xrightarrow{+4} 15 \xrightarrow{+4} 19 \xrightarrow{+4}$ 23

अतः ? = QT23

194. In the following question, a certain series of numbers or letters is given of which one series is empty. You have to decide which of the alternative series of the answer will be used in the blank space that is originally related to the sequence of that series./निम्नलिखित प्रश्न में, संख्याओं या अक्षरों की एक निश्चित शृंखला दी गई है, जिसमें से एक शृंखला खाली है। आपको यह तय करना है कि मूल रूप से उस शृंखला के अनुक्रम से संबंधित रिक्त स्थान में उत्तर की कौन-सी वैकल्पिक शृंखला का उपयोग किया जाएगा।

D20S, F22U, C19R, G23V, ?

(a) H22W (b) H23U
(c) H24W (d) H21W

MP Police Constable Exam- 01 Feb-2022 Shift-1

Ans. (c) : प्रश्नगत संख्या शृंखला निम्नवत् है-

$D \xrightarrow{+2} F \xrightarrow{-3} C \xrightarrow{+4} G \xrightarrow{+1}$ H

$20 \xrightarrow{+2} 22 \xrightarrow{-3} 19 \xrightarrow{+4} 23 \xrightarrow{+1}$ 24

$S \xrightarrow{+2} U \xrightarrow{-3} R \xrightarrow{+4} V \xrightarrow{+1}$ W

195. Which of the following can replace the question mark ?
निम्न में से कौन प्रश्नवाचक चिह्न को प्रतिस्थापित कर सकता है ?

Z2, X5, U10, ?, L26

(a) Q15 (b) Q17
(c) P17 (d) P15

MP Police Constable Exam- 27 August-2023 Shift-2

Ans. (b) : दी गई शृंखला निम्नवत् है–

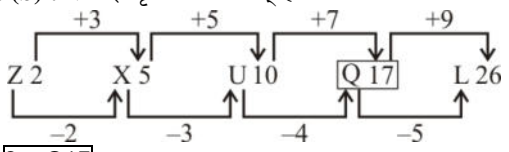

अतः ? = Q17

196. In the following question, a certain series of numbers or letters is given of which one series is empty. You have to decide which of the alternative series of the answer will be used blank space that is originally related to the sequence of that series.
निम्नलिखित प्रश्न में, संख्याओं या अक्षरों की एक निश्चित शृंखला दी गई है, जिसमें से एक शृंखला खाली है। आपको यह तय करना है कि मूल रूप से उस शृंखला के अनुक्रम से संबंधित रिक्त स्थान में उत्तर की कौन सी वैकल्पिक शृंखला का प्रयोग किया जाएगा।

D25F, H20J, L15N, P10R, ?

(a) T10V (b) T5U
(c) T15V (d) T5V

MP Police Constable Exam- 09 Feb-2022 Shift-1

Ans. (d) : प्रश्नगत शृंखला निम्नवत् है -

$D \xrightarrow{+4} H \xrightarrow{+4} L \xrightarrow{+4} P \xrightarrow{+4}$ T

$25 \xrightarrow{-5} 20 \xrightarrow{-5} 15 \xrightarrow{-5} 10 \xrightarrow{-5}$ 5

$F \xrightarrow{+4} J \xrightarrow{+4} N \xrightarrow{+4} R \xrightarrow{+4}$ V

अतः ? = T5V

197. In the following question, a certain series of numbers or letters is given of which one series is empty. You have to decide which of the alternative series of the answer will be used in the blank space that is originally related to the sequence of that series.
निम्नलिखित प्रश्न में, संख्याओं या अक्षरों की एक निश्चित शृंखला दी गई है, जिसमें से एक शृंखला खाली है। आपको यह तय करना है कि मूल रूप से उस शृंखला के अनुक्रम से संबंधित रिक्त स्थान में उत्तर की कौन-सी वैकल्पिक शृंखला का उपयोग किया जाएगा।

V-19, U-14, T-10, ?, R-5

(a) R-9 (b) S-7
(c) S-17 (d) T-15

MP Police Constable Exam- 21 August-2023 Shift-3

Ans. (b) : दी गई शृंखला निम्नवत् है-

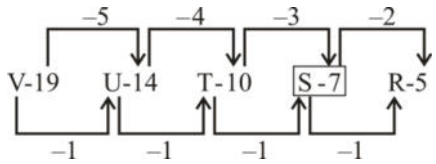

अतः ? = S-7

198. In the following question, a certain series of numbers or letters is given of which one series is empty. You have to decide which of the alternative series of the answer will be used in the blank space that is originally related to the sequence of that series.
निम्नलिखित प्रश्न में, संख्याओं या अक्षरों की एक निश्चित शृंखला दी गई है, जिसमें से एक शृंखला खाली है। आपको यह तय करना है कि मूल रूप से उस शृंखला के अनुक्रम से संबंधित रिक्त स्थान में उत्तर की कौन-सी वैकल्पिक शृंखला का उपयोग किया जाएगा।

Z1C, X2F, V3I, T4L, ?

(a) K21O (b) L22Q
(c) R24O (d) R5O

MP Police Constable Exam- 21 August-2023 Shift-2

Ans. (d) : अक्षर शृंखला निम्नवत् है-

$Z \xrightarrow{-2} X \xrightarrow{-2} V \xrightarrow{-2} T \xrightarrow{-2}$ R

$1 \xrightarrow{+1} 2 \xrightarrow{+1} 3 \xrightarrow{+1} 4 \xrightarrow{+1}$ 5

$C \xrightarrow{+3} F \xrightarrow{+3} I \xrightarrow{+3} L \xrightarrow{+3}$ O

अतः ? = R5O

GET IT ON Google Play Best Study PDF के लिए हमारी App को Download करें "GK Trick By Nitin Gupta"

199. In the following question, a certain series of numbers or letters is given of which one series is empty. You have to decide which of the alternative series of the answer will be used in the blank space that is originally related to the sequence of that series.

निम्नलिखित प्रश्न में, संख्याओं या अक्षरों की एक निश्चित शृंखला दी गई है, जिसमें से एक शृंखला खाली है। आपको यह तय करना है कि मूल रूप से उस शृंखला के अनुक्रम से संबंधित रिक्त स्थान में उत्तर की कौन-सी वैकल्पिक शृंखला का उपयोग किया जाएगा।

A4X, D9U, G16R, ?

(a) K25O (b) J24O
(c) J25O (d) L36O

MP Police Constable Exam- 20 August-2023 Shift-2

Ans. (c) : दी गई अक्षर-संख्या शृंखला निम्नवत् है-

A $\xrightarrow{+3}$ D $\xrightarrow{+3}$ G $\xrightarrow{+3}$ J
$4=(2)^2 \rightarrow 9=(3)^2 \rightarrow 16=(4)^2 \rightarrow 25=(5)^2$
X $\xrightarrow{-3}$ U $\xrightarrow{-3}$ R $\xrightarrow{-3}$ O

अतः ? = J25O

200. Which of the following can replace the question mark?

निम्न में से कौन प्रश्नवाचक चिह्न को प्रतिस्थापित कर सकता है?

B12, Z24, X36, V48, ?

(a) S25 (b) A30
(c) T60 (d) F23

MP Police Constable Exam- 20 August-2023 Shift-2

Ans. (c) : दी गई अक्षर-संख्या शृंखला निम्नवत् है-

B $\xrightarrow{-2}$ Z $\xrightarrow{-2}$ X $\xrightarrow{-2}$ V $\xrightarrow{-2}$ T
12 $\xrightarrow{+12}$ 24 $\xrightarrow{+12}$ 36 $\xrightarrow{+12}$ 48 $\xrightarrow{+12}$ 60

अतः ? = T60

201. Which of the following can replace the question mark ?

निम्न में से कौन प्रश्नवाचक चिह्न को प्रतिस्थापित कर सकता है ?

E4A, J8E, ?, T16O, Y20U

(a) P10I (b) P12I
(c) O10I (d) O12I

MP Police Constable Exam- 31 August-2023 Shift-2

Ans. (d) : दी गई अक्षर शृंखला निम्नवत् है–

E $\xrightarrow{+5}$ J $\xrightarrow{+5}$ O $\xrightarrow{+5}$ T $\xrightarrow{+5}$ Y
4 $\xrightarrow{+4}$ 8 $\xrightarrow{+4}$ 12 $\xrightarrow{+4}$ 16 $\xrightarrow{+4}$ 20
A $\rightarrow$ E $\rightarrow$ I $\rightarrow$ O $\rightarrow$ U (स्वर क्रम)

अतः ? =O12I

202. Find the missing term in the following series.

निम्नलिखित शृंखला में लुप्त पद ज्ञात कीजिए।

Q1F, S2E, U6D, W21C, ?

(a) Y44B (b) Y88B
(c) B88Y (d) Y66B

MP Police Constable Exam- 09 Feb-2022 Shift-1

Ans. (b) : प्रश्नगत शृंखला निम्नवत् है-

Q $\xrightarrow{+2}$ S $\xrightarrow{+2}$ U $\xrightarrow{+2}$ W $\xrightarrow{+2}$ Y
1 $\xrightarrow{\times1+1}$ 2 $\xrightarrow{\times2+2}$ 6 $\xrightarrow{\times3+3}$ 21 $\xrightarrow{\times4+4}$ 88
F $\xrightarrow{-1}$ E $\xrightarrow{-1}$ D $\xrightarrow{-1}$ C $\xrightarrow{-1}$ B

अतः ? = Y88B

203. The below series uses a sequence of alphabets and numbers. Identify the incorrect combination:

नीचे दी गई शृंखला अक्षरों एवं संख्याओं का अनुक्रम प्रयोग करती है। गलत संयोजन पहचानिये।

(i) AX1235YQ5 (ii) AX1235YQ5
(iii) AX1235YQ5 (iv) AX1253YQ5

(a) i (b) ii
(c) iii (d) iv

MP Police Constable Exam- 26 July-2016 - 9: am

Ans : (d) (i) A X 1 2 3 5 Y Q 5
(ii) A X 1 2 3 5 Y Q 5
(iii) A X 1 2 3 5 Y Q 5
(iv) A X 1 2 5 3 Y Q 5

अतः विकल्प (d) गलत संयोजन है।

204. Find the missing term in the following :

निम्न में लुप्त पद ज्ञात कीजिए :

F3X, H7U, J15R, L31O, __?__

(a) M46L (b) N44L
(c) N63L (d) N44M

MP Police Constable Recruitment Test - 2013

Ans. (c) : अक्षर संख्या शृंखला निम्नांकित है-

F $\xrightarrow{+2}$ H $\xrightarrow{+2}$ J $\xrightarrow{+2}$ L $\xrightarrow{+2}$ N
3 $\xrightarrow{\times2+1}$ 7 $\xrightarrow{\times2+1}$ 15 $\xrightarrow{\times2+1}$ 31 $\xrightarrow{\times2+1}$ 63
X $\xrightarrow{-3}$ U $\xrightarrow{-3}$ R $\xrightarrow{-3}$ O $\xrightarrow{-3}$ L

? = N63L

205. Which of the following can replace the question mark?

निम्न में से कौन प्रश्नवाचक चिह्न को प्रतिस्थापित कर सकता है?

$$\frac{B}{8}, \frac{D}{64}, \frac{F}{216}, _____ \frac{J}{1000}$$

(a) $\frac{G}{343}$ (b) $\frac{G}{49}$
(c) $\frac{H}{512}$ (d) $\frac{H}{64}$

MP Police Constable Exam- 21 August-2023 Shift-3

Ans. (c) : दी गई शृंखला निम्नवत् है-

$\frac{B}{8} \xrightarrow{+2} \frac{D}{64} \xrightarrow{+2} \frac{F}{216} \xrightarrow{+2} \frac{H}{512} \xrightarrow{+2} \frac{J}{1000}$

$(2)^3$ $(4)^3$ $(6)^3$ $(8)^3$ $(10)^3$

अतः $? = \frac{H}{512}$

नोट- दिए गए अक्षरों का वर्णमाला के क्रमांक का घन किया गया है।

GET IT ON Google Play Best Study PDF के लिए हमारी App को Download करें "GK Trick By Nitin Gupta"

206. Find the missing term in the following series.
निम्नलिखित श्रृंखला में लुप्त पद ज्ञात कीजिए।
ZW3, UR6, PM10, KH15, ?

(a) FC21 (b) FB21
(c) FC26 (d) FD20

MP Police Constable Exam- 17 August-2023 Shift-3

Ans. (a) : प्रश्नानुसार,

$Z \xrightarrow{-5} U \xrightarrow{-5} P \xrightarrow{-5} K \xrightarrow{-5} \boxed{F}$
$W \xrightarrow{-5} R \xrightarrow{-5} M \xrightarrow{-5} H \xrightarrow{-5} \boxed{C}$
$3 \xrightarrow{+3} 6 \xrightarrow{+4} 10 \xrightarrow{+5} 15 \xrightarrow{+6} \boxed{21}$

अतः ? = FC21

207. Find the missing term in the following series.
निम्नलिखित श्रृंखला में लुप्त पद ज्ञात कीजिए।
AFO2, ZGL5, BHI8, YIF11, ?

(a) CKC3 (b) CJD6
(c) DJC9 (d) CJC14

MP Police Constable Exam- 18 August-2023 Shift-3

Ans. (d) : दी गई श्रृंखला इस प्रकार है-

$A \xrightarrow{-1} Z \xrightarrow{+2} B \xrightarrow{-3} Y \xrightarrow{+4} \boxed{C}$
$F \xrightarrow{+1} G \xrightarrow{+1} H \xrightarrow{+1} I \xrightarrow{+1} \boxed{J}$
$O \xrightarrow{-3} L \xrightarrow{-3} I \xrightarrow{-3} F \xrightarrow{-3} \boxed{C}$
$2 \xrightarrow{+3} 5 \xrightarrow{+3} 8 \xrightarrow{+3} 11 \xrightarrow{+3} \boxed{14}$

अतः ? = CJCI4

Type-4: आकृतियों पर आधारित श्रृंखला

208. In the sequence shown below, which figure comes next?
नीचे दिखाये गये क्रम में अगली आकृति कौन-सी होगी?

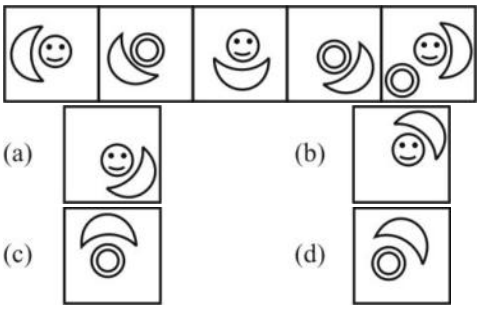

MP Police Constable Exam- 18 July-2016 - 9: am

Ans : (d) अर्द्ध चन्द्रकार वाली आकृति 45^0 Anti clock wise घूम रही है। अतः अगली आकृति विकल्प (d) वाली आकृति होगी।

209. In the sequence shown below, which figure comes next?
नीचे दिखाये गये क्रम में अगली आकृति कौन सी होगी?

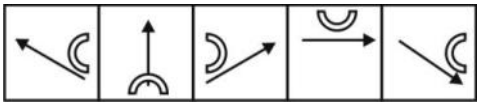

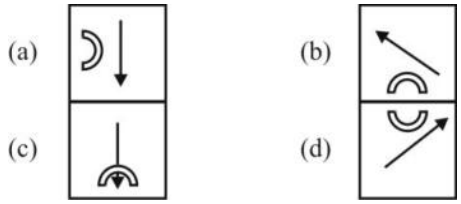

MP Police Constable Exam- 18 July-2016 - 9: am

Ans : (c) प्रत्येक तीर 45^0 clock wise घूम रहा है और अर्धवृत्त 90^0 clock wise घूम रहा है अतः अगली आकृति विकल्प (c) होगी।

210. Select the option that will come next in the given series.
उस विकल्प का चयन करें जो दी गई श्रृंखला में आगे आएगा।

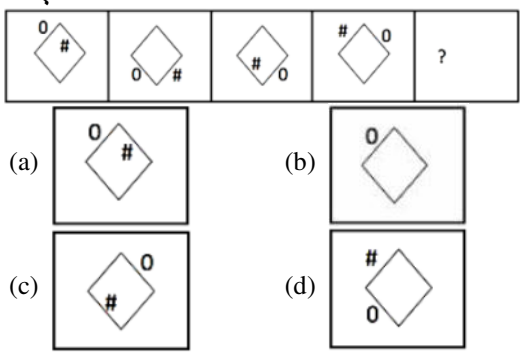

MP Police Constable Exam- 24 August-2023 Shift-3

Ans. (a) : दी गई आकृति श्रृंखला में चिह्न 90° वामावर्त घुमकर अगली आकृति बना रहा है तथा # चिह्न 90° दक्षिणावर्त घुमकर क्रमशः आकृति में अंदर बाहर हो रहा है।
अतः इसी क्रम में प्रश्नचिह्न के स्थान पर विकल्प आकृति (a) आएगी तथा श्रेणी को पूरा करेगी।

211. Select the option that will come next in the given series.
उस विकल्प का चयन करें जो दी गई श्रृंखला में आगे आएगा।

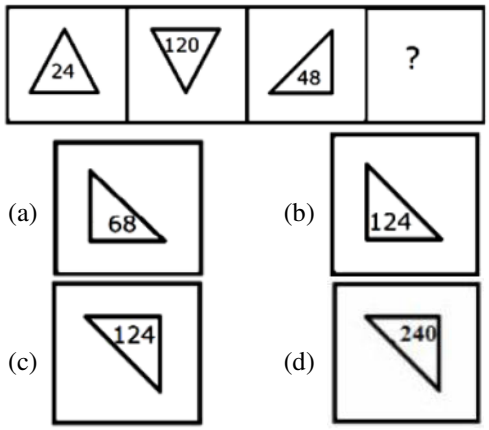

MP Police Constable Exam- 25 August-2023 Shift-3

Ans. (d) : जिस प्रकार पहली आकृति के अन्दर दी गई संख्या का पाँच गुना करके आकृति का जल प्रतिबिम्ब दूसरी आकृति में दिखाया गया है उसी प्रकार तीसरी आकृति का जल प्रतिबिम्ब तथा उसमें निहित संख्या का पाँच गुना करने पर उत्तर आकृति विकल्प (d) प्राप्त होगी।

GET IT ON Google Play Best Study PDF के लिए हमारी App को Download करें "GK Trick By Nitin Gupta"

212. Select the figure that will come next in the following series.
निम्नलिखित श्रृंखला में आगे आने वाली आकृति का चयन कीजिए।

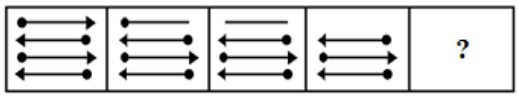

(a) 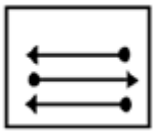
(b)
(c)
(d) 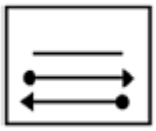

MP Police Constable Exam- 28 August-2023 Shift-3

Ans. (c) : दी गई आकृति श्रृंखला में आगे आने वाली आकृति विकल्प आकृति (c) होगी।

213. Which answer figure will complete the pattern in the question figure ?
दी गई उत्तर आकृतियों में से कौन-सी प्रश्न आकृति के पैटर्न को पूरा करेगी ?

(a)
(b)
(c)
(d)

MP Police Constable Exam- 3 Sep-2023 Shift-2

Ans. (b) : प्रश्नानुसार,
विकल्प (b) में दी गई आकृति प्रश्न-आकृति के पैटर्न को पूरा करेगी।

214. Identify the figure that completes the pattern.
उस आकृति की पहचान करें जो पैटर्न को पूरा करती है।

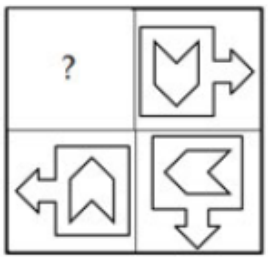

(a)
(b) 
(c)
(d) 

MP Police Constable Exam- 3 Sep-2023 Shift-2

Ans. (b) : प्रश्नानुसार,
विकल्प (b) में दी गई आकृति प्रश्न-आकृति के पैटर्न को पूरा करेगी।

215. Select the figure that will come next in the following series.
निम्नलिखित श्रृंखला में आगे आने वाली आकृति का चयन कीजिए।

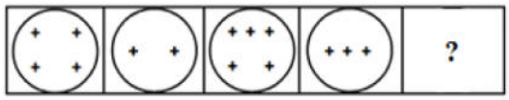

(a) 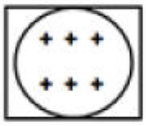
(b) 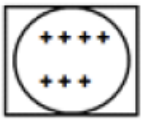
(c) 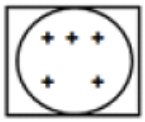
(d) 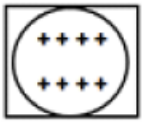

MP Police Constable Exam- 20 August-2023 Shift-1

Ans. (a) : जिस प्रकार पहली आकृति से तीसरी आकृति में एक धन चिह्न बढ़ा है तथा दूसरी आकृति से चौथी आकृति में एक धन चिह्न बढ़ा है। उसी प्रकार तीसरी आकृति से पाँचवीं आकृति में एक धन चिह्न बढ़ जायेगा। अतः विकल्प (a) सही उत्तर है।

216. Which answer figure will complete the pattern in the question figure?
निम्नलिखित विकल्पों में से कौन सी उत्तर आकृति प्रश्न आकृति में पैटर्न को पूरा करेगी?

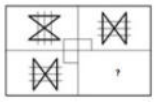

(a)
(b) 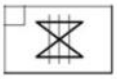
(c) 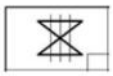
(d) 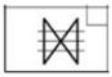

MP Police Constable Exam- 09 Feb-2022 Shift-1

Ans. (b) : विकल्प आकृतियों का अवलोकन करने से स्पष्ट है कि विकल्प (b) की आकृति प्रश्नगत पैटर्न को पूरा करेगी।

217. In the sequence shown below, which figure comes next ?
नीचे दिखाये गये क्रम में अगली आकृति कौन-सी होगी?

GET IT ON Google Play Best Study PDF के लिए हमारी App को Download करें "GK Trick By Nitin Gupta"

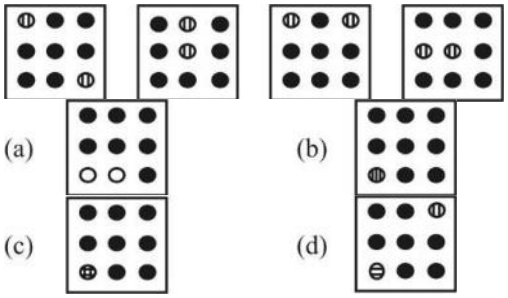

MP Police Constable Exam- 26 July-2016 - 9: am

Ans : (c) अतः प्रश्न में दी गयी आकृति शृंखला की अगली आकृति विकल्प (c) में दी गयी है।

218. Select the figure that will come next in the following series.
निम्नलिखित शृंखला में आगे आने वाली आकृति का चयन कीजिए।

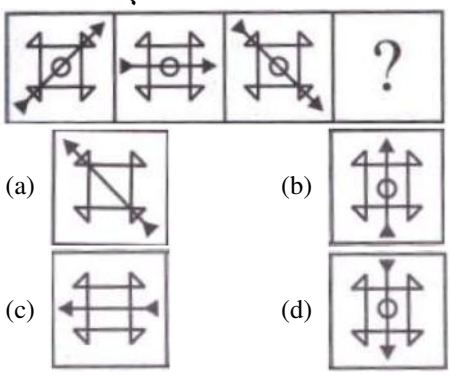

MP Police Constable Exam- 21 August-2023 Shift-3

Ans. (d) : दी गई शृंखला आकृति में प्रश्न चिह्न के स्थान पर आने वाली आकृति विकल्प आकृति (d) होगी।

219. Select the figure that will come next in the following series.
निम्नलिखित शृंखला में आगे आने वाली आकृति का चयन कीजिए।

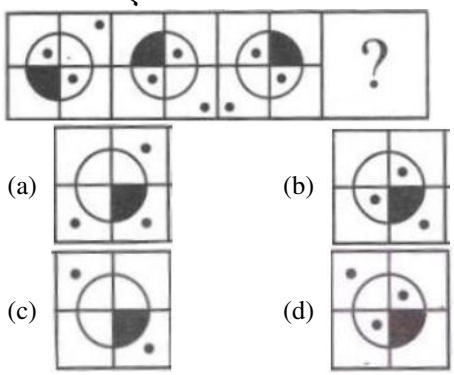

MP Police Constable Exam- 21 August-2023 Shift-2

Ans. (d) : दी गई आकृति शृंखला में वर्ग के अन्दर की आकृतियां क्रमशः 90° दक्षिणावर्त दिशा में घूम रही है। अतः इसी क्रम में प्रश्नचिह्न के स्थान पर आने वाली अगली आकृति विकल्प (d) में दी गई आकृति होगी।

220. In the sequence shown below, which figure comes next?
नीचे दिखाये गये क्रम में अगली आकृति कौन सी होगी?

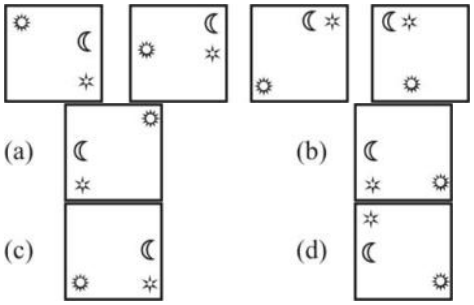

MP Police Constable Exam 17 July 2016 - 9:am

Ans : (d) दी गई क्रम में वर्ग की प्रत्येक आकृति भुजा के आधी दूरी Anticlock wise घूम रही है अतः अगली आकृति उत्तर आकृति (d) होगी।

221. Select the option that will come next in the given series.
उस विकल्प का चयन करें जो दी गई शृंखला में आगे आएगा।

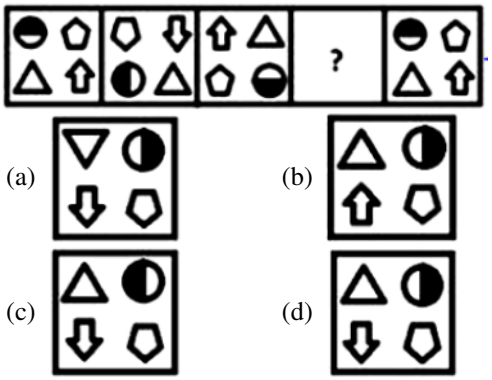

MP Police Constable Exam- 24 August-2023 Shift-2

Ans. (d) : दिये गये प्रश्न चित्र में पहले चित्र से दूसरे चित्र में 90° वामावर्त और दूसरे चित्र से तीसरे चित्र में 90° वामावर्त घूम रहा है इसी प्रकार विकल्प (d) की आकृति रिक्त स्थान को पूर्ण करेगी।

222. Select the figure that will come next in the following series.
निम्नलिखित शृंखला में आगे आने वाली आकृति का चयन कीजिए।

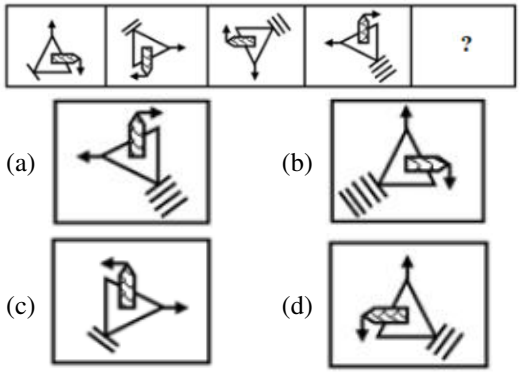

MP Police Constable Exam- 29 August-2023 Shift-2

Ans. (b) : दिए गए शृंखला में आकृतियां एक निश्चित क्रम 90° में घुमाया जा रहा है और एक सरल रेखा बढ़ रही है। अतः प्रश्नवाचक चिह्न के स्थान पर आकृति 'b' चयन की जाएगी।

GET IT ON Google Play Best Study PDF के लिए हमारी App को Download करें "GK Trick By Nitin Gupta"

223. Select the figure that will replace the question mark (?) in the following figure series.

उस आकृति का चयन करें जो निम्नलिखित आकृति श्रृंखला में प्रश्न चिह्न (?) को प्रतिस्थापित करेगी।

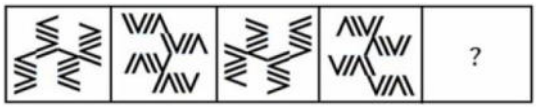

(a)

(b) 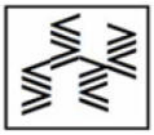

(c)

(d)

MP Police Constable Exam- 8 Sep-2023 Shift-2

Ans. (b) : दी गई श्रृंखला को पूरा करने के लिए प्रश्नवाचक चिह्न के स्थान पर विकल्प (b) में दी गई आकृति आयेगी।

224. Select the next figure in the following figure series ?

निम्नलिखित आकृति श्रृंखला में अगली आकृति का चयन करें ?

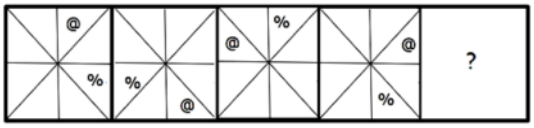

(a) 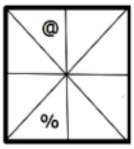

(b) 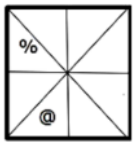

(c) 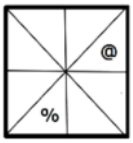

(d) 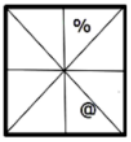

MP Police Constable Exam- 25 August-2023 Shift-3

Ans. (b) : दिये गये आकृति श्रृंखला में दोनों आकृतियाँ @ तथा % 3 स्थान स्थानान्तरण होकर अगली आकृति बना रही है। अतः अगली आकृति विकल्प (b) की आकृति होगी।

225. Select the figure that will come next in the following figure series.

उस आकृति का चयन करें जो निम्नलिखित आकृति श्रृंखला में आगे आएगी।

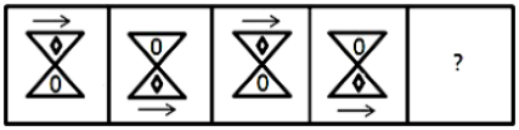

(a)

(b) 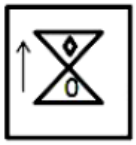

(c) 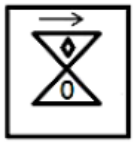

(d) 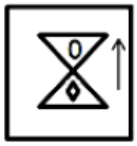

MP Police Constable Exam- 26 August-2023 Shift-3

Ans. (c) : दी गई आकृति श्रृंखला में प्रयुक्त पैटर्न के अनुसार अगली आकृति उत्तर आकृति विकल्प (c) होगी जो प्रश्नवाचक चिह्न को प्रतिस्थापित करेगी।

226. Select the figure that will come next in the following series.

उस आकृति का चयन करें जो निम्नलिखित श्रृंखला में आगे आएगी।

(a)

(b)

(c)

(d)

MP Police Constable Exam- 26 August-2023 Shift-3

Ans. (b) : दी गई आकृति श्रृंखला में प्रयुक्त पैटर्न के अनुसार अगली आकृति उत्तर आकृति विकल्प (b) होगी जो श्रृंखला में आगे आएगी।

227. Select the next figure in the following figure series ?

निम्नलिखित आकृति श्रृंखला में अगली आकृति का चयन करें ?

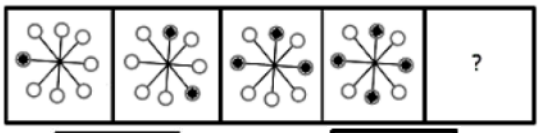

(a) 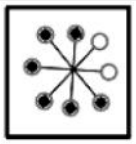

(b)

(c)

(d) 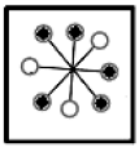

MP Police Constable Exam- 25 August-2023 Shift-1

Ans. (d) : दी गयी प्रश्न आकृति श्रृंखला में काले वृत्तों की संख्या क्रमशः 1-1 बढ़ रही है अतः उत्तर आकृति (d) प्रश्न चिह्न को प्रतिस्थापित करेगी।

GET IT ON Google Play Best Study PDF के लिए हमारी App को Download करें "GK Trick By Nitin Gupta"

228. Select the next figure in the following figure series ?
निम्नलिखित आकृति श्रृंखला में अगली आकृति का चयन करें?

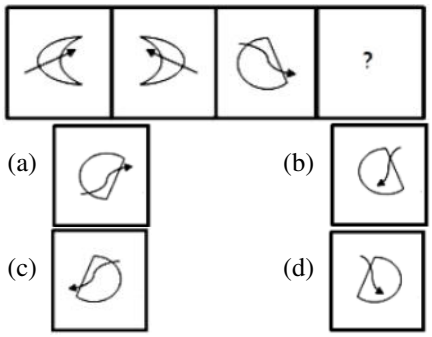

MP Police Constable Exam- 25 August-2023 Shift-2

Ans. (c) : जिस प्रकार दूसरी आकृति पहली आकृति दर्पण प्रतिबिम्ब है। उसी प्रकार तीसरी आकृति का दर्पण प्रतिबिम्ब विकल्प आकृति (c) होगी।
अतः विकल्प (c) सही है।

229. Select the option that will come next in the given series.
उस विकल्प का चयन करें जो दी गई श्रृंखला में आगे आएगा।

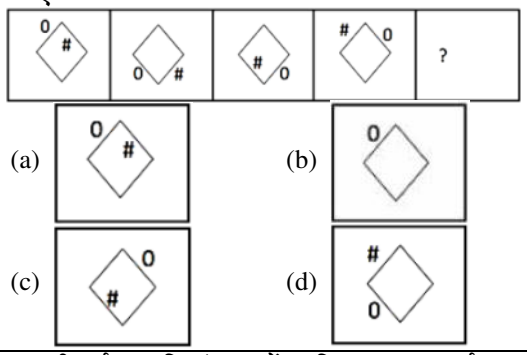

Ans. (a) : दी गई आकृति श्रृंखला में 0 चिह्न 90° वामावर्त घूमकर अगली आकृति बना रहा है तथा # चिह्न 90° दक्षिणावर्त घूमकर क्रमशः आकृति में अंदर बाहर हो रहा है।
अतः इसी क्रम में प्रश्नचिह्न के स्थान पर विकल्प आकृति (a) आएगी तथा श्रेणी को पूरा करेगी।

230. Select the figure that will come next in the following figure series.
उस आकृति का चयन करें जो निम्नलिखित आकृति श्रृंखला में आगे आएगी।

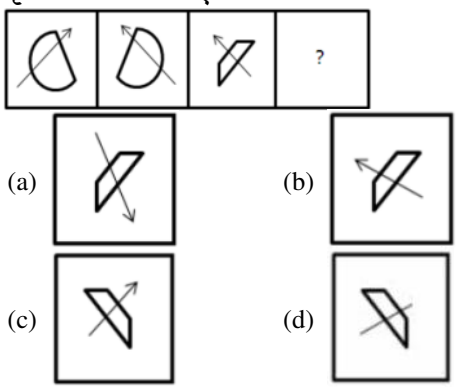

MP Police Constable Exam- 26 August-2023 Shift-2

Ans. (c) : जिस प्रकार पहली आकृति का दर्पण प्रतिबिंब दूसरी आकृति है उसी प्रकार तीसरी आकृति का दर्पण प्रतिबिंब विकल्प आकृति (c) होगी।

231. Select the figure that will come next in the following series.
उस आकृति का चयन करें जो निम्नलिखित श्रृंखला में आगे आएगी।

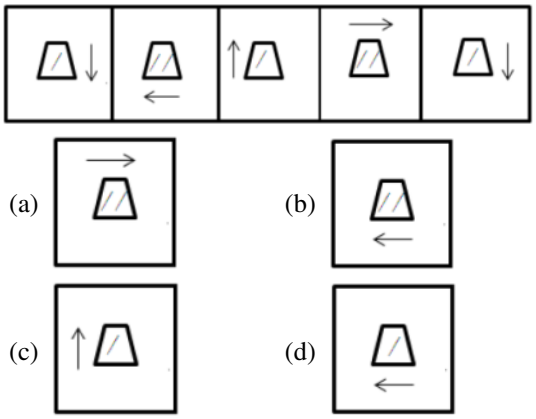

MP Police Constable Exam- 26 August-2023 Shift-2

Ans. (b) : दी गई आकृति श्रृंखला में तीर (↓) क्रमशः दक्षिणावर्त दिशा में एक-एक स्थान आगे बढ़ रही है तथा मध्य में बनी रेखा (/) एकान्तर क्रम में बढ़ एवं घट रही है।
इसी क्रम में अगले स्थान पर आने वाली आकृति विकल्प (b) होगी।

232. Select the figure that will come next in the following series.
निम्नलिखित श्रृंखला में आगे आने वाली आकृति का चयन कीजिए।

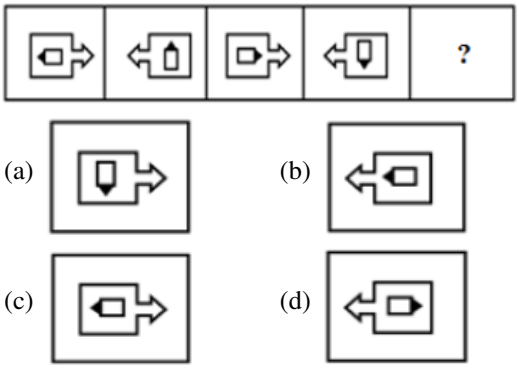

MP Police Constable Exam- 31 August-2023 Shift-2

Ans. (c) : दी गई आकृति में जिस प्रकार प्रथम आकृति में बड़ी वाली आकृति 180° वामावर्त घूम कर और छोटी वाली आकृति 90° दक्षिणावर्त घूमकर दूसरी आकृति बनाती है। उसी क्रम में चौथी आकृति घूमकर विकल्प (c) वाली आकृति बनायेगी।

233. Complete the following sequence of figures.
आकृतियों के निम्न क्रम को पूरा कीजिये:

GET IT ON Google Play Best Study PDF के लिए हमारी App को Download करें "GK Trick By Nitin Gupta"

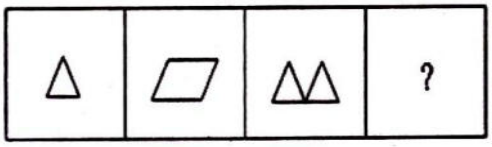

(a)

(b) 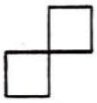

(c) 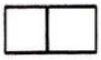

(d)

MP Police Constable Exam- 1 August-2016, 3:pm

Ans : (d) प्रश्न आकृति के क्रम को विकल्प (d) की आकृति पूरा करेगी।

Type-5: विविध

234. Which of the following can replace the question mark ?
निम्न में से कौन प्रश्नवाचक चिह्न को प्रतिस्थापित कर सकता है ?
J6X, L12V, O20T, S30R, ?
(a) X40P (b) X42P
(c) Y40P (d) Y42P

MP Police Constable Exam- 29 August-2023 Shift-2

Ans. (b) :

J $\xrightarrow{+2}$ L $\xrightarrow{+3}$ O $\xrightarrow{+4}$ S $\xrightarrow{+5}$? X
6 $\xrightarrow{+6}$ 12 $\xrightarrow{+8}$ 20 $\xrightarrow{+10}$ 30 $\xrightarrow{+12}$ 42
X $\xrightarrow{-2}$ V $\xrightarrow{-2}$ T $\xrightarrow{-2}$ R $\xrightarrow{-2}$ P

अतः ? = X42P

235. Find the wrong term in the given series:
दी गई श्रृंखला में गलत पद ज्ञात करें:
4, 8, 32, 257, 4096
(a) 8 (b) 32
(c) 257 (d) 4096

MP Police Constable Exam- 8 Sep-2023 Shift-2

Ans. (c) : दी गयी संख्या श्रृंखला निम्नवत् है-

4 $\xrightarrow{\times 2}$ 8 $\xrightarrow{\times 4}$ 32 $\xrightarrow{\times 8}$ 256 257 $\xrightarrow{\times 16}$ 4096

अतः गलत पद = 256

236. Find the wrong term in the given series:
दी गई श्रृंखला में गलत पद ज्ञात करें:
20, 30, 42, 55, 72, 90
(a) 30 (b) 42
(c) 55 (d) 72

MP Police Constable Exam- 10 Sep-2023 Shift-1

Ans. (c) : दिया है

20 $\xrightarrow{+10}$ 30 $\xrightarrow{+12}$ 42 $\xrightarrow{+14}$ 56 55 $\xrightarrow{+16}$ 72 $\xrightarrow{+18}$ 90

अतः, 55 गलत संख्या है।

237. How many '7's are preceded by 9 and followed by 6 in the given series?
दी गई श्रृंखला में कितने '7' के पहले, 9 और बाद में 6 हैं?
7, 8, 9, 7, 6, 5, 3, 4, 2, 8, 9, 7, 2, 4, 5, 9, 2, 9, 7, 6, 4, 7
(a) 5 (b) 4
(c) 3 (d) 2

MP Police Constable Exam- 10 Sep-2023 Shift-1

Ans. (d) : प्रश्नानुसार,
7, 8, 9, 7, 6, 5, 3, 4, 2, 8, 9, 7, 2, 4, 5, 9, 2, 9, 7, 6, 4, 7
अतः, विकल्प (d) सही उत्तर है।

238. Which is the wrong number in the following number series?
निम्नलिखित संख्या श्रृंखला में कौन-सी संख्या गलत है?
4, 27, 16, 125, 36, 345
(a) 36 (b) 345
(c) 27 (d) 125

MP Police Constable Exam- 10 Sep-2023 Shift-1

Ans. (b) : प्रश्नानुसार,

4 ↓ 2^2, 27 ↓ 3^3, 16 ↓ $(2+2)^2$, 125 ↓ $(3+2)^3$, 36 ↓ $(4+2)^2$, 343 ↓ $(5+2)^3$

अतः विकल्प (b) में दी गयी संख्या गलत है।

239. Which is the wrong term in the following series?
निम्नलिखित श्रृंखला में कौन-सा पद गलत है ?
1, 3, 9, 31, 128, 651, 3913
(a) 651 (b) 128
(c) 31 (d) 9

MP Police Constable Exam- 26 August-2023 Shift-3

Ans. (b) : दी गई श्रेणी निम्नवत् है–

1 $\xrightarrow{\times 1+2}$ 3 $\xrightarrow{\times 2+3}$ 9 $\xrightarrow{\times 3+4}$ 31 $\xrightarrow{\times 4+5}$ 129 128 $\xrightarrow{\times 5+6}$ 651 $\xrightarrow{\times 6+7}$ 3913

अतः गलत पद 128 है।

240. Find the wrong term in the given series:
दी गई श्रृंखला में गलत पद ज्ञात करें:
645120, 46080, 3840, 384, 48, 6
(a) 3840 (b) 384
(c) 48 (d) 6

MP Police Constable Exam- 12 Sep-2023 Shift-2

Ans. (d) : दिया गया संख्या श्रृंखला निम्नवत् है-

645120 $\xrightarrow{\div 14}$ 46080 $\xrightarrow{\div 12}$ 3840 $\xrightarrow{\div 10}$ 384 $\xrightarrow{\div 8}$ 48 $\xrightarrow{\div 6}$ 8

$\xrightarrow{-2}$ $\xrightarrow{-2}$ $\xrightarrow{-2}$ $\xrightarrow{-2}$

अतः पद 6 पद गलत है। इसके स्थान पर 8 होना चाहिए।

GET IT ON Google Play Best Study PDF के लिए हमारी App को Download करें "GK Trick By Nitin Gupta"

241. Which is the wrong number in the following number series?
निम्नलिखित संख्या श्रृंखला में कौन-सी संख्या गलत है?
200, 180, 160, 146, 132, 120
(a) 160 (b) 146
(c) 132 (d) 180

MP Police Constable Exam- 12 Sep-2023 Shift-2

Ans. (a) : दिया गया संख्या श्रृंखला निम्नवत् है-

200 180 [162] 146 132 120
−20 −18 −16 −14 −12
+2 +2 +2 +2

अतः गलत संख्या = 160

242. Which is the wrong term in the following series?
निम्नलिखित श्रृंखला में कौन-सा पद गलत है ?
5, 24, 65, 122, 213
(a) 24 (b) 65
(c) 213 (d) 122

MP Police Constable Exam- 25 August-2023 Shift-1

Ans. (b) : दी गई संख्या-श्रृंखला निम्नवत् है–

61
5 24 [65] 122 213
2^3-3 3^3-3 4^3-3 5^3-3 6^3-3

अतः दी गई श्रृंखला में '65' गलत पद है।

243. Find the wrong term in the given series:
दी गई श्रृंखला में गलत पद ज्ञात करें:
4, 15, 47, 147, 444
(a) 4 (b) 15
(c) 47 (d) 147

MP Police Constable Exam- 8 Sep-2023 Shift-1

Ans. (c) : श्रृंखला निम्नवत् है-

[47]
4 15 48 147 444
×3+3 ×3+3 ×3+3 ×3+3

अतः श्रृंखला में संख्या '47' गलत पद है।

244. Select the odd one out.
विषम शब्द का चयन करें।
Z X W T
(a) X (b) Z
(c) T (d) W

MP Police Constable Exam- 8 Sep-2023 Shift-1

Ans. (d) : श्रृंखला निम्नवत् है-

[W]
Z X V T
−2 −2 −2

अतः विषम शब्द W होगा।

245. Select the odd one out.
विषम शब्द का चयन करें।
MN LO KP JQ IR HS FU
(a) MN (b) JQ
(c) FU (d) IR

MP Police Constable Exam- 8 Sep-2023 Shift-1

Ans. (c) : श्रृंखला निम्नवत् है-

M $\xrightarrow{-1}$ L $\xrightarrow{-1}$ K $\xrightarrow{-1}$ J $\xrightarrow{-1}$ I $\xrightarrow{-1}$ H $\xrightarrow{-2}$ [F]
N $\xrightarrow{+1}$ O $\xrightarrow{+1}$ P $\xrightarrow{+1}$ Q $\xrightarrow{+1}$ R $\xrightarrow{+1}$ S $\xrightarrow{+2}$ [U]

अतः विकल्प (c) विषम शब्द है।

246. Which is the wrong number in the following number series ?
निम्नलिखित संख्या श्रृंखला में कौन-सी संख्या गलत है?
600, 300, 150, 75, 40
(a) 150 (b) 300
(c) 40 (d) 75

MP Police Constable Exam- 28 August-2023 Shift-3

Ans. (c) : प्रश्नानुसार, श्रृंखला में गलत पद निम्न है–

600 300 150 75 [$37.5 \neq 40$]
÷2 ÷2 ÷2 ÷2

अतः संख्या '40' श्रेणी से संबंधित नहीं है।

247. Find the wrong term in the series ?
श्रृंखला में गलत क्रम का पता लगाएं ?
3, 9, 27, 81, 91
(a) 27 (b) 9
(c) 81 (d) 91

MP Police Constable Exam- 28 August-2023 Shift-3

Ans. (d) : दी गई श्रृंखला का गलत पद निम्नवत् है–

3 9 27 81 [$243 \neq 91$]
3^1 3^2 3^3 3^4 3^5

अतः संख्या '91' श्रेणी से संबंधित नहीं है।

248. Which is the wrong term in the following series?
निम्नलिखित श्रृंखला में कौन-सा पद गलत है ?
PAR, RAT, TAV, VAW, XAZ, ZAB
(a) VAW (b) XAZ
(c) ZAB (d) PAR

MP Police Constable Exam- 23 August-2023 Shift-1

Ans. (a) : दी गयी श्रृंखला निम्नवत् है–

P $\xrightarrow{+2}$ R $\xrightarrow{+2}$ T $\xrightarrow{+2}$ [V] $\xrightarrow{+2}$ X $\xrightarrow{+2}$ Z
A $\xrightarrow{+0}$ A $\xrightarrow{+0}$ A $\xrightarrow{+0}$ [A] $\xrightarrow{+0}$ A $\xrightarrow{+0}$ A
R $\xrightarrow{+2}$ T $\xrightarrow{+2}$ V $\xrightarrow{+2}$ [X≠W] $\xrightarrow{+2}$ Z $\xrightarrow{+2}$ B

अतः दी गयी श्रृंखला में 'VAW' गलत पद है।

249. Find the wrong term in the letter-cluster series given below:
निम्नलिखित अक्षर-समूह श्रृंखला में गलत पद ज्ञात कीजिए:
DLXF, KREL, RXLR, YDSX, EKZD
(a) KREL (b) RXLR
(c) YDSX (d) EKZD

MP Police Constable Exam- 11 Sep-2023 Shift-2

GET IT ON Google Play Best Study PDF के लिए हमारी App को Download करें "GK Trick By Nitin Gupta"

Ans. (d) : प्रश्नानुसार,

D $\xrightarrow{+7}$ K $\xrightarrow{+7}$ R $\xrightarrow{+7}$ Y $\xrightarrow{+7}$ E

L $\xrightarrow{+6}$ R $\xrightarrow{+6}$ X $\xrightarrow{+6}$ D $\xrightarrow{+7}$ K (गलत)

X $\xrightarrow{+7}$ E $\xrightarrow{+7}$ L $\xrightarrow{+7}$ S $\xrightarrow{+7}$ Z

F $\xrightarrow{+6}$ L $\xrightarrow{+6}$ R $\xrightarrow{+6}$ X $\xrightarrow{+6}$ D

अतः दी गई श्रृंखला में 'EKZD' गलत है।

250. Find the wrong term in the given series:
दी गई श्रृंखला में गलत पद ज्ञात करें:
85, 72, 83, 74, 81, 77, 79
(a) 85 (b) 83
(c) 77 (d) 79

MP Police Constable Exam- 11 Sep-2023 Shift-2

Ans. (c) : प्रश्नानुसार,
दी गई संख्या श्रृंखला निम्नवत् है-

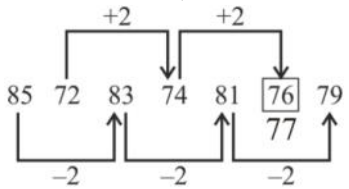

अतः विकल्प (c) सही उत्तर होगा।

251. Which is the wrong number in the following number series?
निम्नलिखित संख्या श्रृंखला में कौन-सी संख्या गलत है?
15, 60, 240, 960, 3840, 15500
(a) 60 (b) 240
(c) 15500 (d) 960

MP Police Constable Exam- 11 Sep-2023 Shift-2

Ans. (c) : प्रश्नानुसार,
दी गई संख्या श्रृंखला निम्नवत् है-

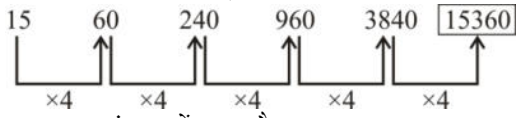

अतः '15500' श्रृंखला में गलत है।

252. Which is the wrong term in the following series?
निम्नलिखित श्रृंखला में कौन-सा पद गलत है ?
63, 75, 87, 99, 111, 133, 135, 147
(a) 133 (b) 111
(c) 99 (d) 147

MP Police Constable Exam- 26 August-2023 Shift-2

Ans. (a) : दी गई श्रृंखला में गलत पद निम्नवत् है–

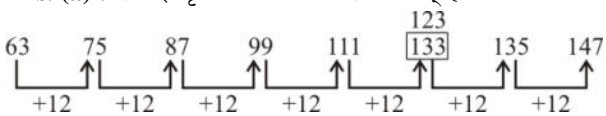

अतः गलत पद = 133

253. Which is the wrong number in the following number series?
निम्नलिखित संख्या श्रृंखला में कौन-सी संख्या गलत है?
25, 36, 48, 60, 75, 90
(a) 36 (b) 48
(c) 60 (d) 75

MP Police Constable Exam- 12 Sep-2023 Shift-1

Ans. (c) : दी गई संख्या श्रृंखला निम्नवत् है-

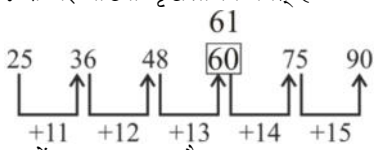

अतः श्रृंखला में 60 गलत पद है।

254. Select the odd one out.
विषम शब्द का चयन करें।
ZC YD XE WF VG TG
(a) ZC (b) TG
(c) XC (d) VG

MP Police Constable Exam- 12 Sep-2023 Shift-1

Ans. (b) : प्रश्नानुसार, अक्षर श्रृंखला निम्नांकित है-

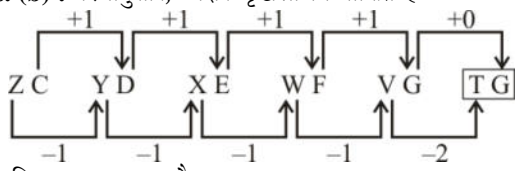

अतः विषम शब्द 'TG' है।

255. Find the wrong term in the given series:
दी गई श्रृंखला में गलत पद ज्ञात करें:
3, 5, 25, 75, 1125, 84375
(a) 25 (b) 1125
(c) 84375 (d) 75

MP Police Constable Exam- 12 Sep-2023 Shift-1

Ans. (a) : दी गई श्रृंखला-
15
3, 5, 25, 75, 1125, 84375
5 × 3 = 15
15 × 5 = 75
75 × 15 = 1125
1125 × 75 = 84375
अतः स्पष्ट है कि 25 गलत पद है।
Note- पिछली दो संख्याओं को गुणा करके अगली तीसरी संख्या प्राप्त होती है।

256. Find the wrong term in the given series:
दी गई श्रृंखला में गलत पद ज्ञात करें:
8, 14, 23, 35, 51
(a) 51 (b) 23
(c) 8 (d) 35

MP Police Constable Exam- 10 Sep-2023 Shift-2

Ans. (a) : दी गई श्रृंखला निम्नवत् है-

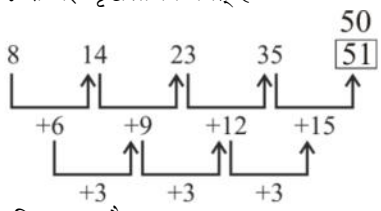

अतः '51' विषम पद है।

257. Which is the wrong number in the following number series?
निम्नलिखित संख्या श्रृंखला में कौन-सी संख्या गलत है?
2, 6, 18, 54, 160
(a) 6 (b) 18
(c) 54 (d) 160

MP Police Constable Exam- 10 Sep-2023 Shift-2

GET IT ON Google Play Best Study PDF के लिए हमारी App को Download करें "GK Trick By Nitin Gupta"

Ans. (d) : दी गई संख्या श्रृंखला निम्नवत् है-

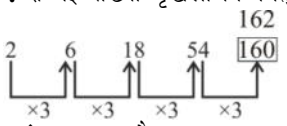

अतः गलत संख्या '160' है।

258. Which is the wrong number in the following number series ?
निम्नलिखित संख्या श्रृंखला में कौन-सी संख्या गलत है?
20, 18, 16, 15, 11, 12
(a) 11 (b) 15
(c) 12 (d) 18

MP Police Constable Exam- 31 August-2023 Shift-2

Ans. (a) : दी गई संख्या श्रृंखला निम्नवत् है–

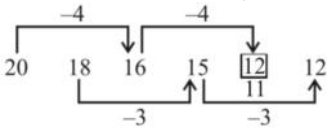

∴ $12 \neq 11$

अतः दी गई संख्या श्रृंखला में संख्या '11' गलत है।

259. Find the wrong term in the series ?
श्रृंखला में गलत क्रम का पता लगाएं ?
1800, 900, 449, 225
(a) 449 (b) 1800
(c) 225 (d) 900

MP Police Constable Exam- 31 August-2023 Shift-2

Ans. (a) : दी गई श्रृंखला में गलत पद निम्नवत् है–

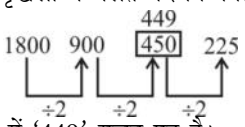

अतः दी गई श्रृंखला में '449' गलत पद है।

260. Find the wrong term in the series?
8 16 24 35 40 48
श्रृंखला में गलत क्रम का पता लगाए?
(a) 8 (b) 24
(c) 35 (d) 48

MP Police Constable Exam- 1 Sep-2023 Shift-2

Ans. (c) : दी गई श्रृंखला निम्नवत् है-

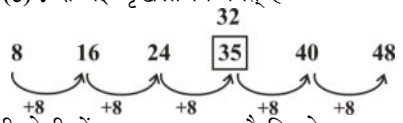

अतः दी श्रेणी में गलत पद '35' है जिसके स्थान पर '32' होगा।

261. Which is the wrong number in the following number series ?
निम्नलिखित संख्या श्रृंखला में कौन-सी संख्या गलत है?
33, 99, 296, 891, 2673, 8019
(a) 99 (b) 296
(c) 891 (d) 8019

MP Police Constable Exam- 29 August-2023 Shift-1

Ans. (b) : दी गई संख्या श्रृंखला निम्नवत् है–

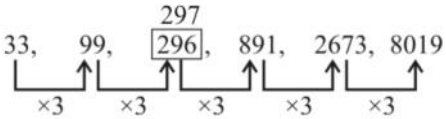

$99 \times 3 = 297 \neq 296$

अतः श्रृंखला में '296' गलत है।

262. Find the wrong term in the series ?
श्रृंखला में गलत क्रम का पता लगाएं ?
5, 8, 11, 14, 18
(a) 5 (b) 14
(c) 18 (d) 8

MP Police Constable Exam- 29 August-2023 Shift-1

Ans. (c) : दी गई श्रृंखला में गलत पद निम्नवत् है–

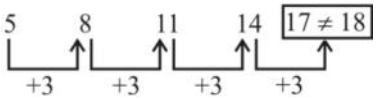

अतः गलत पद = 18

263. Find the wrong term in the series?
70-80 63-72 28-32 54-62 14-16
श्रृंखला में गलत क्रम का पता लगाए?
(a) 70-80 (b) 63-72
(c) 28-32 (d) 54-62

MP Police Constable Exam- 1 Sep-2023 Shift-1

Ans. (d) : दी गई श्रृंखला निम्नवत् है-

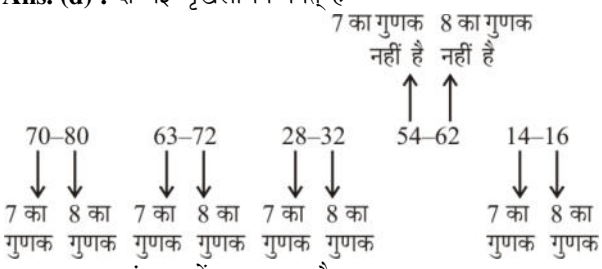

अतः 54-62 श्रृंखला में गलत क्रम है।

∴ विकल्प (d) सही है।

264. Which is the wrong number in the following number series?
25, 50, 75, 100, 127, 150
निम्नलिखित संख्या श्रृंखला में कौन-सी संख्या गलत है?
(a) 50 (b) 127
(c) 100 (d) 150

MP Police Constable Exam- 1 Sep-2023 Shift-1

Ans. (b) : दी गई श्रृंखला निम्नवत् है–

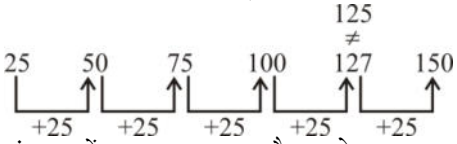

दी गई श्रृंखला में गलत पद 127 है, इसके स्थान पर '125' आयेगा।

∴ विकल्प (b) सही है।

265. Which is the wrong number in the following number series ?
निम्नलिखित संख्या श्रृंखला में कौन-सी संख्या गलत है?
40, 42, 44, 47, 48, 50
(a) 42 (b) 47
(c) 48 (d) 44

MP Police Constable Exam- 27 August-2023 Shift-2

Ans. (b) : दी गई संख्या श्रृंखला निम्नवत् है–

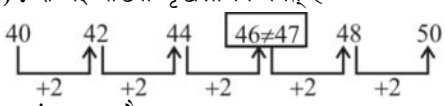

अतः गलत संख्या 47 है।

GET IT ON Google Play Best Study PDF के लिए हमारी App को Download करें "GK Trick By Nitin Gupta"

266. Find the wrong term in the given series:
दी गई श्रृंखला में गलत पद ज्ञात करें :
2, 10, 34, 105, 322
(a) 105 (b) 322
(c) 34 (d) 10

MP Police Constable Exam- 09 Feb-2022 Shift-1

Ans. (a): संख्या श्रृंखला निम्नवत् है-

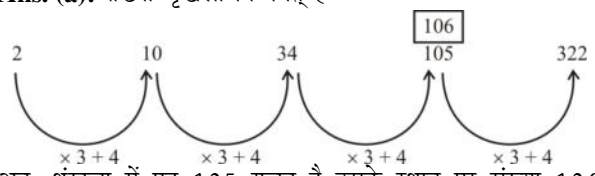

अतः श्रृंखला में पद 105 गलत है उसके स्थान पर संख्या 106 होनी चाहिए।

267. Find the wrong term in the series?
श्रृंखला में गलत क्रम का पता लगाएं?
3, 7, 11, 15, 20, 23
(a) 7 (b) 11
(c) 15 (d) 20

MP Police Constable Exam- 02 Feb-2022 Shift-1

Ans. (d) : संख्या श्रृंखला निम्नवत् है-

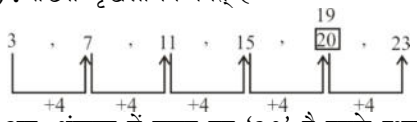

अतः श्रृंखला में गलत पद '20' है इसके स्थान पर '19' होना चाहिए।

268. Find the wrong term in the series?
श्रृंखला में गलत क्रम का पता लगाएँ?
2, 5, 12, 27, 54
(a) 2 (b) 12
(c) 27 (d) 54

MP Police Constable Exam- 8 Jan-2022 Shift-2

Ans. (d) : दी गई श्रृंखला निम्नवत् है–

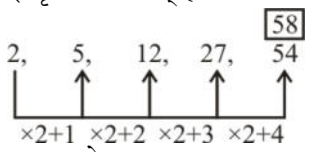

∵ 54 के स्थान पर 58 होगा। अतः 54 गलत पद है।

269. Find the wrong term in the series?
श्रृंखला में गलत क्रम का पता लगाएँ?
2, 5, 7, 10, 12, 14
(a) 10 (b) 14
(c) 12 (d) 7

MP Police Constable Exam- 8 Jan-2022 Shift-2

Ans. (b) : दी गई श्रृंखला निम्नवत है–

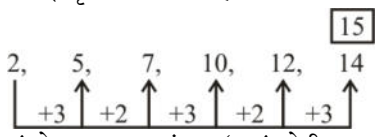

∵ संख्या '14' के स्थान पर संख्या '15' होगी। अतः '14' गलत पद है।

270. Find the wrong term in the series ?
श्रृंखला में गलत क्रम का पता लगाएँ?
97, 86, 73, 58, 45, 34
(a) 58 (b) 73 (c) 34 (d) 45

MP Police Constable Exam- 10 Jan -2022 Shift-2

Ans. (d) : संख्या श्रृंखला निम्नवत् है–

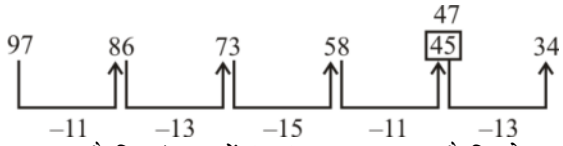

अतः स्पष्ट है कि श्रृंखला में '45' एक गलत पद है जिसके स्थान पर '47' होगा।

271. Find the wrong term in the series ?
श्रृंखला में गलत क्रम का पता लगाएँ ?
3, 8, 13, 24, 41, 68
(a) 68 (b) 41 (c) 24 (d) 3

MP Police Constable Exam- 10 Jan -2022 Shift-2

Ans. (a) : प्रश्नगत श्रृंखला निम्नवत् है–
3, 8, 13, 24, 41, 68
3 + 8 + 2 =13
8 + 13 + 3 = 24
13 + 24 + 4 = 41
24 + 41 + 5 = 70

अतः स्पष्ट है कि 68 गलत पद है, जिसके स्थान पर 70 होगा।

272. In the following question, one term in the number series is wrong. Find out the wrong term.
निम्न प्रश्न में, संख्या श्रृंखला में एक पद गलत है। गलत पद ज्ञात कीजिये।
0, 4, 9, 16, 25
(a) 4 (b) 9
(c) 25 (d) 0

MP Police Constable Exam- 26 July-2016 - 9: am

Ans : (d) संख्या श्रृंखला निम्नवत है–



अतः स्पष्ट है कि, यहाँ '0' के स्थान पर '1' होगा। क्योंकि श्रृंखला 1 से शुरु होकर के वर्ग की है।

273. In the following question, one term in the number series is wrong. Find out the wrong term.
निम्न प्रश्न में, संख्या श्रृंखला में एक पद गलत है। गलत पद ज्ञात कीजिये।
1,3,5,7,10,11
(a) 11 (b) 10
(c) 5 (d) 1

MP Police Constable Exam 25 July 2016 - 9:am

Ans : (b) संख्या श्रृंखला निम्नवत है–

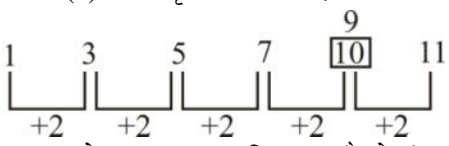

अतः '9' के स्थान पर '10' दिया गया है जो श्रृंखला में गलत है।

274. The below series uses a sequence of alphabets and numbers. Identify the incorrect combination.

GET IT ON Google Play Best Study PDF के लिए हमारी App को Download करें "GK Trick By Nitin Gupta"

नीचे दी गई शृंखला अक्षरों एवं संख्याओं अनुक्रम प्रयोग करती है। गलत संयोजन पहचानिये।

(a) BA32456789Y4 (b) BA32456789Y4
(c) BA32456789V4 (d) BA32456789Y4

Ans : (c) अन्य सभी विकल्प में दाये से दूसरे स्थान पर Y है जबकि विकल्प (c) में v दिया गया है जो अन्य सभी से भिन्न है।

275. In the following question, one term in the number series is wrong. Find out the wrong term.
निम्न प्रश्न में, संख्या शृंखला में एक पद गलत है। गलत पद ज्ञात कीजिये।

19, 2, 38, 3, 116, 4, 456

(a) 19 (b) 4
(c) 116 (d) 38

MP Police Constable Exam 17 July 2016 - 9:am

Ans : (c) 19, 2, 38, 3, $\boxed{116}$, 4, 456

$19 \times 2 = 38, 38 \times 3 = 114, 114 \times 4 = 456$

अतः '114' के स्थान पर '116' दिया गया है जो गलत है।

276. In the follwing question, one term in the number series is wrong. Find out the wrong term.
निम्न प्रश्न में, संख्या शृंखला में एक पद गलत है। गलत पद ज्ञात कीजिये।

1,8,27,64,125,215

(a) 125 (b) 64
(c) 215 (d) 1

MP Police Constable Exam- 1 August-2016, 3:pm

Ans : (c) अक्षर शृंखला निम्नांकित है-

1, 8, 27, 64, 125, $\boxed{215}$ (216)

$(1)^3$ $(2)^3$ $(3)^3$ $(4)^3$ $(5)^3$ $(6)^3$

$(6)^3 = 6\times6\times6 = 216$

∵गलत पद = 215

277. The below series uses a sequence of alphabets and numbers. Identify the incorrect combination.
नीचे दी गई शृंखला अक्षरों एवं संख्याओं का अनुक्रम प्रयोग करती है। गलत संयोजन पहचानिये–

(a) QO93765985H7 (b) QO98765985H7
(c) QO98765985H7 (d) QO98765985H7

MP Police Constable Exam 24 July 2016 - 9:am

Ans : (a) विकल्प (a) में शृंखला अक्षरों का गलत अनुक्रम दिया गया है। QO93765985H7 में अन्य विकल्पों में 3 की स्थान पर 8 है।

278. If the following question, one term in the number series is wrong. Find out the wrong term.
निम्न प्रश्न में, संख्या श्रृंखला में एक पद गलत है। गलत पद ज्ञात कीजिए।

3, 9, 27, 81, 249

(a) 9 (b) 81
(c) 27 (d) 249

MP Police Constable Exam 24 July 2016 - 9:am

Ans : (d) संख्या शृंखला निम्नवत है–

3 → 9 (×3) → 27 (×3) → 81 (×3) → $\boxed{249}$ (×3) (243)

अतः स्पष्ट है कि '249' की जगह '243' होगा।

279. In the following question, one term in the number series is wrong. Find out the wrong term.
निम्न प्रश्न में, संख्या शृंखला में एक पद गलत है। गलत पद ज्ञात कीजिये।

2, 3, 5, 7, 9, 11, 13, 17

(a) 11 (b) 13
(c) 9 (d) 7

MP Police Constable Exam 17 July 2016 - 12:am

Ans. (c) संख्या शृंखला क्रमागत अभाज्य संख्याओं का बढ़ता क्रम है

2,3,5,7, $\boxed{9}$,11,13,17

अतः 9 अभाज्य संख्या नहीं है।

अभाज्य संख्या-वे संख्याएँ जो स्वयं एवं 1 के अलावा किसी अन्य संख्या से विभाजित न हो अभाज्य संख्या कहलाती है।

280. Find the wrong term in the letter-cluster series given below:
निम्नलिखित अक्षर-समूह शृंखला में गलत पद ज्ञात कीजिए :

TCRJ, YGWN, DRBR, IOGV, NSLZ

(a) YGWN (b) DRBR
(c) IOGV (d) NSLZ

MP Police Constable Exam- 31 August-2023 Shift-2

Ans. (b) : दी गई अक्षर-समूह शृंखला–

T $\xrightarrow{+5}$ Y $\xrightarrow{+5}$ $\boxed{D}$ $\xrightarrow{+5}$ I $\xrightarrow{+5}$ N
C $\xrightarrow{+4}$ G $\xrightarrow{+11}$ R $\xrightarrow{-3}$ O $\xrightarrow{+4}$ S
R $\xrightarrow{+5}$ W $\xrightarrow{+5}$ B $\xrightarrow{+5}$ G $\xrightarrow{+5}$ L
J $\xrightarrow{+4}$ N $\xrightarrow{+4}$ R $\xrightarrow{+4}$ V $\xrightarrow{+4}$ Z

अतः दी गई अक्षर-समूह शृंखला में गलत पद 'DRBR' है।

281. Select the odd one out.
विषम शब्द का चयन करें।

A B C G K

(a) A (b) B
(c) C (d) G

MP Police Constable Exam- 6 Sep-2023 Shift-2

Ans. (c) : दी गई श्रेणी निम्नवत् है।

A $\xrightarrow{+1}$ B $\xrightarrow{+2}$ $\boxed{C}$ (D) $\xrightarrow{+3}$ G $\xrightarrow{+4}$ K

अतः श्रेणी में अक्षर 'C' के स्थान पर 'D' होगा।

GET IT ON Google Play Best Study PDF के लिए हमारी App को Download करें "GK Trick By Nitin Gupta"

भाग-5.

लुप्त संख्या/अक्षर/पद/आकृति
(Missing Number/Letter/Term/Figure)

Type-1: लुप्त संख्या पर आधारित प्रश्न

1. Complete the series choosing the missing number:
विलुप्त संख्या चुनकर श्रृंखला को पूरा कीजिए :
5, 9,17, 29,.....
(a) 45 (b) 40
(c) 50 (d) 42
MP Police Constable Exam 23 July 2016 - 9:am

Ans : (a) दिया गया श्रृखंला निम्नवत् है।
5 9 17 29 [45]
+4 +8 +12 +16

2. Complete the series choosing the missing number:
विलुप्त संख्या चुनकर श्रृंखला को पूरा कीजिए:
20, 19, 17,.....10, 5
(a) 12 (b) 13
(c) 14 (d) 15
MP Police Constable Exam 23 July 2016 - 9:am

Ans : (c) दिया गया श्रृखला निम्नवत् है–
20 19 17 [14] 10 5
-1 -2 -3 -4 -5

3. Select the option that is related to the third number in the same way as the second number is related to the first number./उस विकल्प का चयन करें जो तीसरी संख्या से उसी प्रकार संबंधित है जैसे दूसरी संख्या, पहली संख्या से संबंधित है।
4 : 14 : : 9 : ?
(a) 19 (b) 16
(c) 13 (d) 11
MP Police Constable Exam- 10 Jan -2022 Shift-2

Ans. (a) : जिस प्रकार, उसी प्रकार,
4 : 14 9 : [19]
+10 +10

4. Complete the series choosing the missing number :
विलुप्त संख्या चुनकर श्रृंखला को पूरा कीजिए–
60, 54, 48, 42, ...
(a) 38 (b) 36
(c) 34 (d) 40
MP Police Constable Exam 19 July 2016 - 9:am

Ans : (b) संख्या श्रृंखला का क्रम निम्नवत् है–
60 54 48 42 [36]
– 6 – 6 – 6 – 6
अतः ? = 36

5. Which of the following numbers will replace the question mark (?) sign?/प्रश्नवाचक चिह्न (?) के स्थान पर निम्नलिखित में से कौन-सी संख्या आएगी?
0, 7, 26, 63, __?__
(a) 176 (b) 114
(c) 138 (d) 124
MP Police Constable Recruitment (Second)Test - 2013

Ans. (d) : जिस प्रकार,
$0 = 1^3 - 1$
$7 = 2^3 - 1,$
$26 = 3^3 - 1,$
तथा
$63 = 4^3 - 1$
उसी प्रकार
$? = 5^3 - 1 = 124$
अतः विकल्प (d) सही उत्तर है।

6. Which of the following numbers will replace the question mark (?) sign?/निम्नलिखित में से प्रश्नवाचक चिह्न (?) के स्थान पर कौन-सी संख्या आएगी?
17, 12, 18, 11, __?__, 10
(a) 16 (b) 19
(c) 21 (d) 22
MP Police Constable Recruitment (Second)Test - 2013

Ans. (b) : प्रश्नानुसार,
17 12 18 11 [? = 19] 10
-5 +6 -7 +8 -9
अतः [? = 19]

7. Find the missing term in the following series.
निम्नलिखित श्रृंखला में लुप्त पद ज्ञात कीजिए।
3, 4, 6, 21, ?, 405
(a) 88 (b) 80
(c) 100 (d) 110
MP Police Constable Exam- 19 August-2023 Shift-3

Ans. (b) : दी गयी संख्या श्रृंखला निम्नवत् है-
3 4 6 21 [80] 405
×1+1 ×2–2 ×3+3 ×4–4 ×5+5
अतः [? = 80]

8. What should come in place of question mark '?' in the following number series?
निम्नलिखित श्रृंखला में प्रश्न चिह्न (?) के स्थान पर क्या आयेगा?
4, 18, ?, 100, 180, 294, 448
(a) 72 (b) 48
(c) 71 (d) 113
MP Police Constable Exam- 11 Sep-2023 Shift-3

GET IT ON Google Play Best Study PDF के लिए हमारी App को Download करें "GK Trick By Nitin Gupta"

Ans. (b) : दी गयी संख्या श्रृंखला निम्नवत् है-

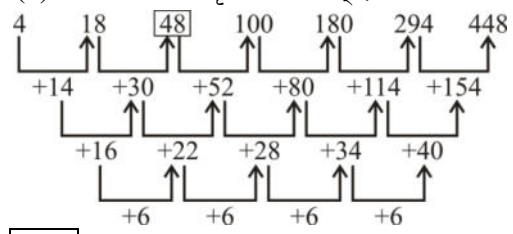

अतः ? = 48

9. What should come in place of question Mark '?' in the following number series?
निम्नलिखित संख्या श्रृंखला में प्रश्न चिह्न (?) के स्थान पर क्या आएगा?
225, 196, 169, ____121, 100, 81
(a) 156 (b) 144
(c) 136 (d) 125

MP Police Constable Exam- 11 Sep-2023 Shift-3

Ans. (b) : दी गयी श्रृंखला निम्नवत् है-

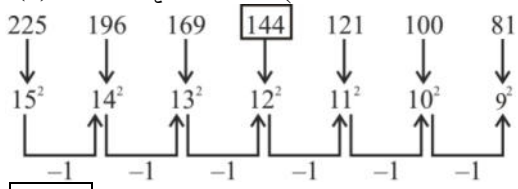

अतः ? = 144

10. What should come in place of question Mark '?' in the following number series?
निम्नलिखित संख्या श्रृंखला में प्रश्न चिन्ह '?' के स्थान पर क्या आएगा?
5, 13, 41, 85, 257, ?
(a) 773 (b) 516
(c) 716 (d) 517

MP Police Constable Exam- 10 Jan -2022 Shift-2

Ans. (d) : संख्या श्रृंखला निम्नवत् है–

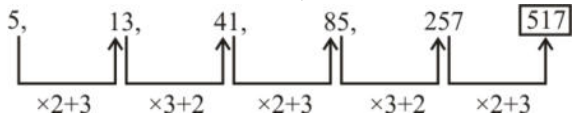

अतः ? = 517

11. Complete the series choosing the missing number:
विलुप्त संख्या चुनकर श्रृंखला को पूरा कीजिए:
2, 7, 22,....., 202
(a) 68 (b) 60
(c) 67 (d) 62

MP Police Constable Exam- 26 July-2016 - 9: am

Ans : (c) संख्या श्रृंखला निम्नवत है–

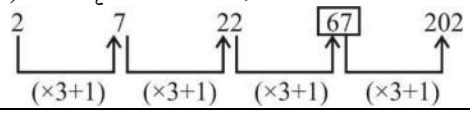

12. Find the missing term in the following series.
निम्नलिखित श्रृंखला में लुप्त पद ज्ञात कीजिए।
4, 28, 7, 21, ?, 14, 13
(a) 3 (b) 9
(c) 10 (d) 11

MP Police Constable Exam- 21 August-2023 Shift-3

Ans. (c) : दी गई श्रृंखला निम्नवत् है-

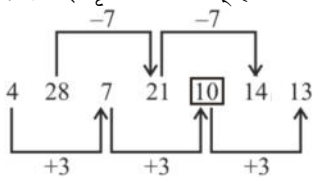

अतः ? = 10

13. Complete the series choosing the missing number:
विलुप्त संख्या चुनकर श्रृंखला को पूरा कीजिए:
1, 9, 17, 33, ..., 73
(a) 50 (b) 49
(c) 45 (d) 60

MP Police Constable Exam 25 July 2016 - 9:am

Ans : (b) श्रृंखला निम्नवत है–

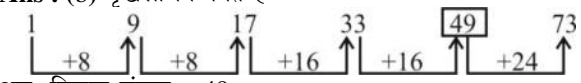

अतः विलुप्त संख्या = 49

14. Complete the series choosing the missing number:
विलुप्त संख्या चुनकर श्रृंखला को पूरा कीजिए:
16, 22, 30, ...52, 66
(a) 45 (b) 43
(c) 40 (d) 38

MP Police Constable Exam- 1 August-2016, 3:pm

Ans : (c) संख्या श्रृंखला का क्रम इस प्रकार होगा

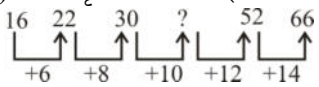

∴ ? = 30 + 10 = 40

15. Complete the series choosing the missing letter:
विलुप्त अक्षर चुनकर श्रृंखला को पूरा कीजिए:
aa__bcc__a__bcc__abbc__
(a) babac (b) bbaac
(c) baabc (d) bbacc

MP Police Constable Exam 17 July 2016 - 12:am

Ans. (a) अक्षर श्रृंखला निम्नवत् है–

aabb|ccaa|bbcc|aabb|cc

16. Find the missing term.
लुप्त पद ज्ञात कीजिए।

2	29	5
4	52	6
5	89	?

(a) 6 (b) 8
(c) 12 (d) 10

MP Police Constable Exam- 18 August-2023 Shift-1

Ans. (b) : जिस प्रकार,
$2^2 + 5^2$
$\Rightarrow 4 + 25 = 29$

तथा
$4^2 + 6^2$
$\Rightarrow 16 + 36 = 52$

उसी प्रकार,
$5^2 + (?)^2 = 89$
$\Rightarrow (?)^2 = 89 - 25 = 64$
$? = \sqrt{64}$
$? = 8$

GET IT ON Google Play Best Study PDF के लिए हमारी App को Download करें "GK Trick By Nitin Gupta"

17. Find the missing term in the following series.
निम्नलिखित श्रृंखला में लुप्त पद ज्ञात कीजिए।

9, 10, 24, 81, ?, 1725

(a) 340 (b) 252
(c) 289 (d) 430

MP Police Constable Exam- 19 August-2023 Shift-2

Ans. (a) : प्रश्नानुसार,
दी गई संख्या श्रृंखला निम्नवत् है-

9 → 10 → 24 → 81 → 340 → 1725

$\times 1+(1)^2$ $\times 2+(2)^2$ $\times 3+(3)^2$ $\times 4+(4)^2$ $\times 5+(5)^2$

अतः ? = 340

18. Find the missing term./लुप्त पद ज्ञात कीजिए।

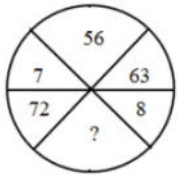

(a) 64 (b) 54
(c) 66 (d) 40

MP Police Constable Exam- 12 August-2023 Shift-2

Ans. (a) : जिस प्रकार,
63 – 56 = 7
उसी प्रकार,
72 – ? = 8
? = 72 – 8
? = 64
अतः (?) के स्थान पर '64' आयेगा।

19. Find the missing term./लुप्त पद ज्ञात कीजिए।

4	3
16	9
64	?

(a) 12 (b) 8
(c) 32 (d) 27

MP Police Constable Exam- 12 August-2023 Shift-2

Ans. (d) : जिस प्रकार,
4 × 16 = 64
उसी प्रकार,
3 × 9 = 27
अतः ? = 27

20. Find the missing term.
लुप्त पद ज्ञात कीजिए।

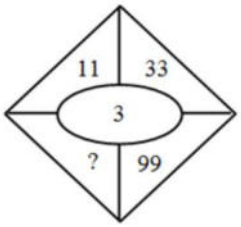

(a) 279 (b) 297
(c) 227 (d) 299

MP Police Constable Exam- 13 August-2023 Shift-1

Ans. (b) : प्रश्नानुसार,

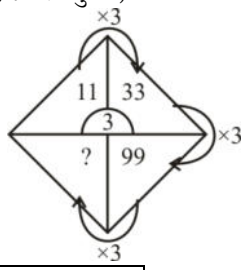

अतः ? = 99 × 3 = 297

21. Find the missing term./लुप्त पद ज्ञात कीजिए।

8594	7254
16	?
8338	6770

(a) 26 (b) 25
(c) 22 (d) 29

MP Police Constable Exam- 12 August-2023 Shift-2

Ans. (c) : जिस प्रकार,
$8338 + (16)^2 = 8594$
उसी प्रकार,
$(6770) + (?)^2 = 7254$
$(?)^2 = 7254 - 6770$
$(?)^2 = 484$
(?) = 22
अतः (?) के स्थान पर '22' आयेगा।

22. Find the missing term.
लुप्त पद ज्ञात कीजिए।

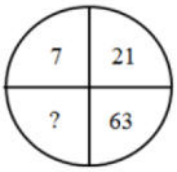

(a) 180 (b) 128
(c) 144 (d) 189

MP Police Constable Exam- 13 August-2023 Shift-1

Ans. (d) : प्रश्नानुसार,

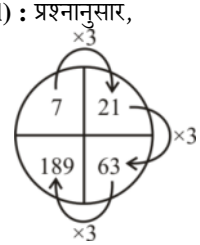

अतः ? = 189

23. Find the missing term./लुप्त पद ज्ञात कीजिए।

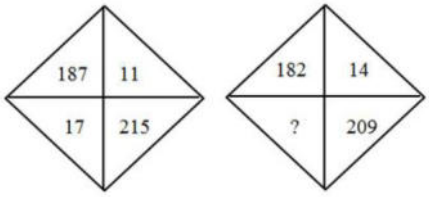

(a) 12 (b) 13
(c) 15 (d) 16

MP Police Constable Exam- 13 August-2023 Shift-2

GET IT ON Google Play Best Study PDF के लिए हमारी App को Download करें "GK Trick By Nitin Gupta"

Ans. (b) : जिस प्रकार,

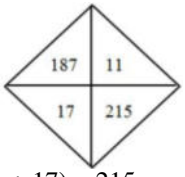

187 + (11 + 17) = 215

उसी प्रकार,

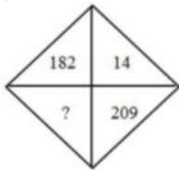

और 182 + (? + 14) = 209

? = 209 – 196

$\boxed{? = 13}$

24. Find the missing term./लुप्त पद ज्ञात कीजिए।

2	5	10
12	6	72
15	7	?

(a) 105 (b) 65
(c) 28 (d) 36

MP Police Constable Exam- 13 August-2023 Shift-2

Ans. (a) : जिस प्रकार,

पंक्ति I में → 2 × 5 = 10

और, पंक्ति II में → 12 × 6 = 72

उसी प्रकार,

पंक्ति III में → 15 × 7 = 105

अतः $\boxed{? = 105}$

25. Find the missing term./लुप्त पद ज्ञात कीजिए।

13	17
169	289
2197	?

(a) 4913 (b) 5832
(c) 1728 (d) 3375

MP Police Constable Exam- 13 August-2023 Shift-2

Ans. (a) : प्रश्नानुसार,

जिस प्रकार

13 ×13 → 169 ×13 → 2197

उसी प्रकार

17 ×17 → 289 ×17 → $\boxed{4913}$

अतः $\boxed{? = 4913}$

26. Find the missing term.
लुप्त पद ज्ञात कीजिए।

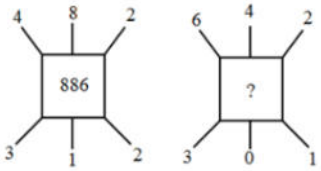

(a) 475 (b) 625
(c) 606 (d) 756

MP Police Constable Exam- 16 August-2023 Shift-1

Ans. (c) : प्रश्नानुसार,

जिस प्रकार	उसी प्रकार
4×2 = 8	6×1 = 6
8×1= 8 ⇒ (886)	4×0 = 0 ⇒ $\boxed{606}$
3×2 = 6	3×2 = 6

अतः विकल्प (c) सही उत्तर होगा।

27. Find the missing term./लुप्त पद ज्ञात कीजिए।

8	11	9
7	6	2
5	8	12
238	669	?

(a) 1813 (b) 2179
(c) 2744 (d) 1728

MP Police Constable Exam- 16 August-2023 Shift-1

Ans. (a) : प्रश्नानुसार,

जिस प्रकार

$= (5)^3 + (7)^2 + (8)^2$

= 125 + 49 + 64

= 238

तथा

$(8)^3 + (6)^2 + (11)^2$

= 512 +36 +121

= 669

उसी प्रकार

$(12)^3 + (2)^2 + (9)^2 = ?$

⇒ 1728+ 4+ 81 = ?

$\boxed{? = 1813}$

28. Find the missing number from the given options in the following question./निम्नलिखित प्रश्न में दिए गए विकल्पों में से लुप्त संख्या ज्ञात कीजिए।

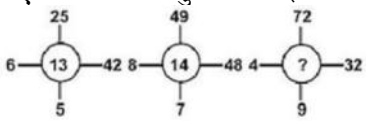

(a) 15 (b) 16
(c) 17 (d) 18

MP Police Constable Exam- 12 Sep-2023 Shift-2

Ans. (c) : जिस प्रकार,

$\frac{42}{6} + \frac{25}{5} + 1$

= 7 + 5 + 1

= 13

तथा

$\frac{48}{8} + \frac{49}{7} + 1$

= 6 + 7 + 1

= 14

उसी प्रकार,

$\frac{32}{4} + \frac{72}{9} + 1$

= 8 + 8 + 1

= 17

अतः $\boxed{? = 17}$

29. Find the missing number in place of question mark (?) in the given question figure.
दी गई प्रश्न आकृति में प्रश्न चिह्न (?) के स्थान पर लुप्त संख्या ज्ञात कीजिए।

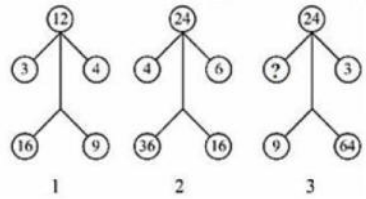

(a) 9 (b) 6
(c) 8 (d) 12

MP Police Constable Exam- 12 Sep-2023 Shift-2

GET IT ON Google Play Best Study PDF के लिए हमारी App को Download करें "GK Trick By Nitin Gupta"

Ans. (c) : जिस प्रकार,

$\sqrt{16} \times \sqrt{9}$

$= 4 \times 3$ (Interchange)

$= 12$

तथा

$\sqrt{36} \times \sqrt{16}$

$= 6 \times 4$ (Interchange)

$= 24$

उसी प्रकार,

$\sqrt{9} \times \sqrt{64}$

$= 3 \times 8$ (Interchange)

$= 24$

अतः $\boxed{? = 8}$

30. Find the missing term./लुप्त पद ज्ञात कीजिए।

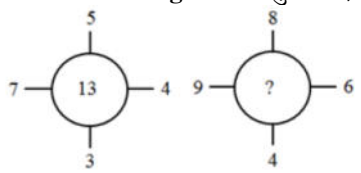

(a) 24 (b) 20
(c) 22 (d) 17

MP Police Constable Exam- 17 August-2023 Shift-2

Ans. (c) : जिस प्रकार,

$7 \times 4 - 5 \times 3 = 13$

$28 - 15 = 13$

$13 = 13$

उसी प्रकार,

$9 \times 6 - 8 \times 4 = ?$

$? = 54 - 32$

$= 22$

अतः $\boxed{? = 22}$

31. Find the missing term./लुप्त पद ज्ञात कीजिए।

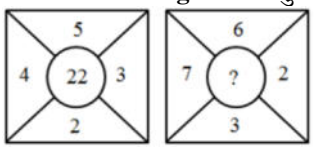

(a) 32 (b) 40
(c) 20 (d) 39

MP Police Constable Exam- 12 August-2023 Shift-3

Ans. (a) : जिस प्रकार,

$(5 \times 2) + (4 \times 3) = 22$

उसी प्रकार,

$(6 \times 3) + (7 \times 2) = \boxed{32}$

अतः $\boxed{? = 32}$

32. Find the missing term./लुप्त पद ज्ञात कीजिए।

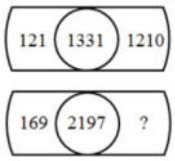

(a) 2028 (b) 2000
(c) 2336 (d) 1487

MP Police Constable Exam- 17 August-2023 Shift-2

Ans. (a) : जिस प्रकार,

$121 + 1210 = 1331$

$1331 = 1331$

उसी प्रकार,

$169 + ? = 2197$

$? = 2197 - 169$

$= 2028$

अतः $\boxed{? = 2028}$

33. Find the missing term.
लुप्त पद ज्ञात कीजिए।

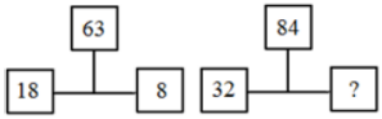

(a) 6 (b) 7
(c) 8 (d) 9

MP Police Constable Exam- 16 August-2023 Shift-3

Ans. (a) : जिस प्रकार,

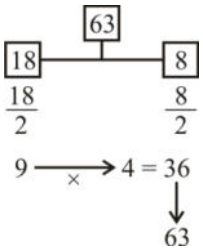

उसी प्रकार,

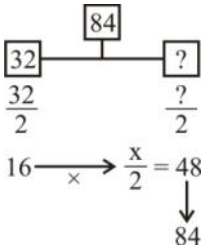

$\therefore \boxed{x = 6}$

34. Find the missing term.
लुप्त पद ज्ञात कीजिए।

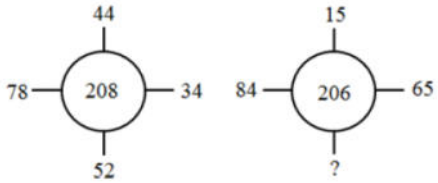

(a) 35 (b) 42
(c) 75 (d) 30

MP Police Constable Exam- 16 August-2023 Shift-3

Ans. (b) : जिस प्रकार,

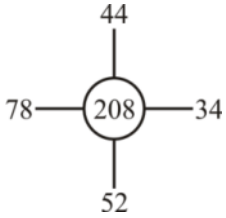

$(34 + 52 + 78 + 44) = 208$

GET IT ON Google Play Best Study PDF के लिए हमारी App को Download करें "GK Trick By Nitin Gupta"

उसी प्रकार,

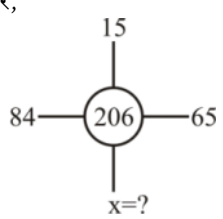

(65 + x + 84 + 15) = 206
164 + x = 206
x = 206 – 164
= 42

35. Find the missing term.
लुप्त पद ज्ञात कीजिए।

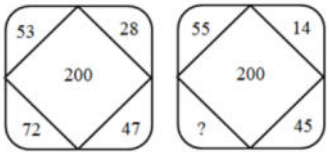

(a) 56 (b) 92
(c) 86 (d) 44

MP Police Constable Exam- 14 August-2023 Shift-3

Ans. (c) : चित्र I में
जिस प्रकार,
53 + 28 + 72 + 47 = 200
चित्र II से
उसी प्रकार,
55 + 14 + 45 + x = 200
114 + x = 200
x = 200 – 114
x = 86

36. Find the missing term.
लुप्त पद ज्ञात कीजिए।

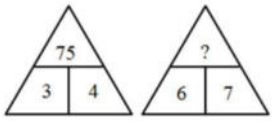

(a) 123 (b) 225
(c) 125 (d) 255

MP Police Constable Exam- 14 August-2023 Shift-3

Ans. (d) : चित्र I से-
जिस प्रकार,
3 × 4 = 12 × 6 = 72 + 3
= 75
चित्र II से-
उसी प्रकार,
6 × 7 = 42 × 6 = 252 + 3
= 255

37. Find the missing term.
लुप्त पद ज्ञात कीजिए।

101	215	112
12	15	?
43	10	84

(a) 13 (b) 14
(c) 15 (d) 16

MP Police Constable Exam- 13 August-2023 Shift-3

Ans. (b) : प्रश्नानुसार,
जिस प्रकार,
$\sqrt{101+43}$
$= \sqrt{144}$
= 12

तथा
$\sqrt{215+10}$
$= \sqrt{225}$
= 15

उसी प्रकार,
$\sqrt{112+84}$
$= \sqrt{196}$
= 14
अतः ? = 14

38. Find the missing term./लुप्त पद ज्ञात कीजिए।

10	20	30
5	10	15
12	24	?

(a) 12 (b) 36
(c) 24 (d) 48

MP Police Constable Exam- 13 August-2023 Shift-3

Ans. (b) : जिस प्रकार,
10 + 20
= 30

तथा
5 + 10
= 15

उसी प्रकार,
12 + 24
= 36
अतः ? = 36

39. Find the missing term./लुप्त पद ज्ञात कीजिए।

8	512
16	?

(a) 4096 (b) 4025
(c) 3122 (d) 4120

MP Police Constable Exam- 18 August-2023 Shift-2

Ans. (a) : प्रश्नानुसार,

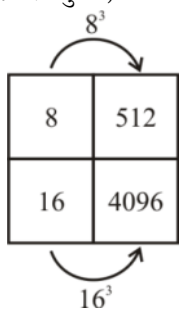

अतः ? = 4096

40. Find the missing term in the following series.
निम्नलिखित श्रृंखला में लुप्त पद ज्ञात कीजिए।
15, 16, 30, 8, 60, 4, 120, 2, ?, ?

(a) 220, 0 (b) 240, 1
(c) 200, 5 (d) 200, 10

MP Police Constable Exam- 23 August-2023 Shift-1

GET IT ON Google Play Best Study PDF के लिए हमारी App को Download करें "GK Trick By Nitin Gupta"

Ans. (b) : दी गयी श्रृंखला निम्नवत् है–

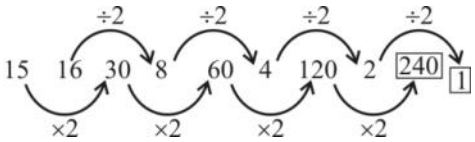

अतः ? = 240, 1

41. Find the missing term in the given series:
श्रृंखला से लुप्त पद ज्ञात करें।
541, 545, 554, 579, 628, ___

(a) 681 (b) 645
(c) 654 (d) 749

MP Police Constable Exam- 11 Sep-2023 Shift-2

Ans. (d) : प्रश्नानुसार,
दी गई संख्या श्रृंखला निम्नवत् है-

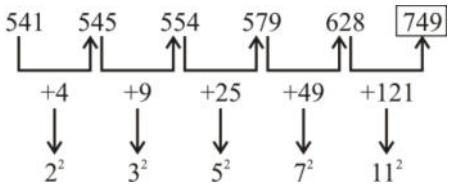

अतः विकल्प (d) सही उत्तर होगा।

42. What should replace the question mark (?) in the given diagram?
दिए गए आरेख में प्रश्न चिह्न (?) के स्थान पर क्या होना चाहिए?

16	25	9
36	64	81
10	13	?

(a) 14 (b) 11
(c) 12 (d) 13

MP Police Constable Exam- 12 Sep-2023 Shift-1

Ans. (c) : जिस प्रकार,

$$\sqrt{16}+\sqrt{36}=4+6=10$$

तथा

$$\sqrt{25}+\sqrt{64}=5+8=13$$

उसी प्रकार,

$$\sqrt{9}+\sqrt{81}=3+9=12$$

अतः ? = 12

43. Find the missing number from the given responses in the following question.
निम्नलिखित प्रश्न में दिए गए विकल्पों में से लुप्त संख्या ज्ञात कीजिए।



(a) 120 (b) 126
(c) 130 (d) 125

MP Police Constable Exam- 12 Sep-2023 Shift-1

Ans. (b) : जिस प्रकार,

$$(19-17)\times 7=2\times 7=14$$

तथा

$$(57-51)\times 7=6\times 7=42$$

उसी प्रकार,

$$?=(171-153)\times 7$$
$$=18\times 7$$
$$=126$$

अतः ? = 126

44. Find the missing term.
लुप्त पद ज्ञात कीजिए।

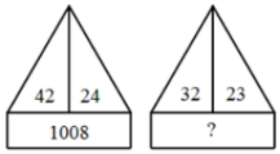

(a) 736 (b) 1022
(c) 1125 (d) 856

MP Police Constable Exam- 17 August-2023 Shift-3

Ans. (a) :

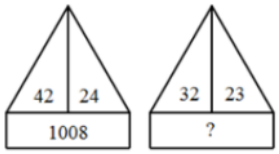

$42\times 24=1008$ $32\times 23=?$

736 = ?

45. Complete the series choosing the missing number:/विलुप्त संख्या चुनकर श्रृंखला को पूरा कीजिए:
(2,3), (3,5), (5,7), (7,11), ————

(a) (11,14) (b) (11,12)
(c) (13,14) (d) (11,13)

MP Police Constable Exam- 20 July-2016 - 9: am

Ans : (d) प्रश्न से,
(2,3), (3,5), (5,7), (7,11), (11, 13)
श्रृंखला में अभाज्य संख्याओं के बढ़ते हुए क्रम को दर्शाया गया है।

46. Complete the series choosing the missing number :
विलुप्त संख्या चुनकर श्रृंखला को पूरा कीजिए–
400, 441, 484, ——

(a) 535 (b) 530
(c) 527 (d) 529

MP Police Constable Exam- 20 July-2016 - 9: am

Ans : (d) श्रृंखला का सही क्रम इस प्रकार है–

400, 441, 484, 529
↑ ↑ ↑ ↑
$(20)^2$ $(21)^2$ $(22)^2$ (23)2

अतः ? = 529 होगा।

47. Comsplete the series choosing the missing number:
विलुप्त संख्या चुनकर श्रृंखला को पूरा कीजिए:
121,144,169,……, 225

(a) 190 (b) 196
(c) 200 (d) 198

MP Police Constable Exam 17 July 2016 - 9:am

GET IT ON Google Play Best Study PDF के लिए हमारी App को Download करें "GK Trick By Nitin Gupta"

Ans : (b) दिया है, 121, 144, 169, ..., 225
∵ श्रृंखला 11^2, 12^2, 13^2, $\underline{14^2}$, 15^2
∴ विलुप्त संख्या $14^2 = 196$

48. Complete the series choosing the missing number:
विलुप्त संख्या चुनकर श्रृंखला को पूरा कीजिए:
1, 3, 6, 11,.....29
(a) 15 (b) 13
(c) 20 (d) 18

MP Police Constable Exam 17 July 2016 - 9:am

Ans : (d) दी गई संख्या श्रृंखला निम्नवत् है-

1 → 3 (+2) → 6 (+3) → 11 (+5) → 18 (+7) → 29 (+11)

प्रत्येक संख्या में क्रमागत अभाज्य संख्या जोड़ने पर अगली संख्या प्राप्त हो रही है।
अतः ? =18

49. Complete the series choosing the missing number–
विलुप्त संख्या चुनकर श्रृंखला को पूरा कीजिए–
1, 3, 5, _____, 9, 11,
(a) 6
(b) 7
(c) 8
(d) None of these/इनमें से कोई नहीं

MP Police Constable Exam 24 July 2016 - 9:am

Ans : (b) श्रृंखला निम्नवत है–

1 → 3 (+2) → 5 (+2) → 7 (+2) → 9 (+2) → 11 (+2)

Type-2: लुप्त अक्षर पर आधारित प्रश्न

50. Complete the following letter series which follows a particular pattern :
निम्नलिखित अक्षर श्रेणी, जो एक निश्चित पैटर्न का पालन करती है, को पूर्ण कीजिए :
c _ bba _ cab _ ac _ ab _ ac
(a) bcaca
(b) abcab
(c) acbcb
(d) None of the above/उपर्युक्त में से कोई नहीं

MP Police Constable Recruitment (Second)Test - 2013

Ans. (c) : प्रश्नानुसार,
दी गयी श्रृंखला-
c <u>a</u> bba <u>c</u> /cab <u>b</u> ac / <u>c</u> ab <u>b</u> ac
अतः विलुप्त अक्षर = acbcb

51. The missing term in the letter series ABE, BCF, CDG, DEH, __?__ is–
अक्षर श्रेणी
ABE, BCF, CDG, DEH, __?__ में लुप्त पद है–
(a) EFG (b) EFI
(c) DEH (d) HIK

MP Police Constable Recruitment (Second)Test - 2013

Ans. (b) : प्रश्नानुसार,

A $\xrightarrow{+1}$ B $\xrightarrow{+1}$ C $\xrightarrow{+1}$ D $\xrightarrow{+1}$ E
B $\xrightarrow{+1}$ C $\xrightarrow{+1}$ D $\xrightarrow{+1}$ E $\xrightarrow{+1}$ F
E $\xrightarrow{+1}$ F $\xrightarrow{+1}$ G $\xrightarrow{+1}$ H $\xrightarrow{+1}$ I

अतः ? = EFI

52. Select the combination of letters that when sequentially placed in the gaps of the given letter sense will complete the series.
उस अक्षर संयोजन का चयन कीजिए जिसे नीचे दी गई अक्षर श्रृंखला के रिक्त स्थानों पर क्रमानुसार रखने से दी गई श्रृंखला पूर्ण हो जाए।
bac_cab_cd_a_ac_ca
(a) bdadc (b) dcbac
(c) cadbc (d) dacbd

MP Police Constable Exam- 21 August-2023 Shift-2

Ans. (d) : दी गई अक्षर श्रृंखला निम्नवत् है-
b a c <u>d</u> c a / b <u>a</u> c d <u>c</u> a / <u>b</u> a c <u>d</u> c a
अतः रिक्त स्थान पर dacbd आ कर अक्षर संयोजन को पूर्ण कर देगी।

53. Complete the series choosing the missing letter/s
विलुप्त अक्षर चुनकर श्रृंखला को पूरा कीजिए:
pq _ rp _ prpqp _ _ qpr
(a) rppq (b) pqpr
(c) prqp (d) pqrp

MP Police Constable Exam- 20 July-2016 - 9: am

Ans : (d) श्रृंखला का क्रम इस प्रकार होगा–
pq <u>p</u> r/p <u>q</u> pr/pqp <u>r/</u> <u>p</u> qpr
अतः विलुप्त अक्षर = pqrp होगा।

54. In the following question, a series of letters is given. Some letters have been removed in these series, and they are in the options given below the series in the same order as they should be. Study the given series carefully out of the four alternatives given below, and find the one that best fits in place of the missing letter of the series.
निम्नलिखित प्रश्न में अक्षरों की एक श्रृंखला दी गई है। इन श्रृंखलाओं में कुछ अक्षर हटा दिए गए हैं। और वे श्रृंखला के नीचे दिए गए विकल्पों में उसी क्रम में हैं जैसे उन्हें होना चाहिए। नीचे दिए गए चार विकल्पों में से दी गई श्रृंखला का ध्यानपूर्वक अध्ययन करें और श्रृंखला के लुप्त अक्षरों के स्थान पर वह विकल्प खोजें जो सबसे उपयुक्त हो।
__ c b __ a c a __ b b a __ a c __ b a c a c
(a) a b c c b (b) b c b c a
(c) c b a c a (d) a b c b a

MP Police Constable Exam- 12 August-2023 Shift-2

Ans. (a) : दी गई श्रृंखला निम्नवत् है।
<u>a</u> c b <u>b</u> / a c a <u>c</u> / b b a <u>c</u> / a c <u>b</u> b / a c a c
अतः विकल्प (a) सही उत्तर होगा।

55. In the following question, a series of letters is given. Some letters have been removed in these series, and they are in the options given below the series in the same order as they should be. Study the given series carefully out of the four alternatives given below, and find the one that best fits in place of the missing letter of the series.

GET IT ON Google Play Best Study PDF के लिए हमारी App को Download करें "GK Trick By Nitin Gupta"

निम्नलिखित प्रश्न में अक्षरों की एक शृंखला दी गई है। इन शृंखलाओं में कुछ अक्षर हटा दिए गए हैं। और वे शृंखला के नीचे दिए गए विकल्पों में उसी क्रम में हैं जैसे उन्हें होना चाहिए। नीचे दिए गए चार विकल्पों में से दी गई शृंखला का ध्यानपूर्वक अध्ययन करें और शृंखला के लुप्त अक्षरों के स्थान पर वह विकल्प खोजें जो सबसे उपयुक्त हो।

a a a __ b b __ a a b __ b a a a __ b b

(a) a b a b (b) b b a a
(c) a a b b (d) b a b b

MP Police Constable Exam- 12 August-2023 Shift-2

Ans. (d) : दी गई शृंखला निम्नवत् है।
a a a / b b b / a a a / b b b / a a a / b b b
अतः विकल्प (d) सही उत्तर होगा।

56. In the following question, a series of letters is given. Some letters have been removed in these series, and they are in the options given below the series in the same order as they should be. Study the given series carefully out of the four alternatives given below, and find the one that best fits in place of the missing letter of the series.
निम्नलिखित प्रश्न में अक्षरों की एक शृंखला दी गई है। इन शृंखलाओं में कुछ अक्षर हटा दिए गए हैं, और वे शृंखला के नीचे दिए गए विकल्पों में उसी क्रम में हैं जैसे उन्हें होना चाहिए। नीचे दिए गए चार विकल्पों में से दी गई शृंखला का ध्यानपूर्वक अध्ययन करें और शृंखला के लुप्त अक्षरों के स्थान पर वह विकल्प खोजें जो सबसे उपयुक्त हो।

a __ b b __ c a a a b __ b c c __ a a a a

(a) a b c c (b) a c c b
(c) a c b c (d) a c b b

MP Police Constable Exam- 13 August-2023 Shift-1

Ans. (c) : दी गई अक्षर शृंखला निम्नवत् है-
a a b b c c / a a a b b b c c c / a a a a
अतः रिक्त स्थान पर acbc आयेगा।
नोटः- दी गई शृंखला में अक्षर a, b और c दो-दो बार, फिर तीन-तीन बार और चार-चार बार आ रहा है।

57. In the following question, a series of letters is given. Some letters have been removed in these series, and they are in the options given below the series in the same order as they should be. Study the given series carefully out of the four alternatives given below, and find the one that best fits in place of the missing letter of the series.
निम्नलिखित प्रश्न में अक्षरों की एक शृंखला दी गई है। इन शृंखलाओं में कुछ अक्षर हटा दिए गए हैं, और वे शृंखला के नीचे दिए गए विकल्पों में उसी क्रम में हैं जैसे उन्हें होना चाहिए। नीचे दिए गए चार विकल्पों में से दी गई शृंखला का ध्यानपूर्वक अध्ययन करें और शृंखला के लुप्त अक्षरों के स्थान पर वह विकल्प खोजें जो सबसे उपयुक्त हो।

a b a __ b a c a __ b a _ b a c a a b a c __ a c a

(a) c a c b (b) b a b c
(c) c c a b (d) c a b c

MP Police Constable Exam- 13 August-2023 Shift-1

Ans. (a) : दी गई अक्षर शृंखला निम्नवत् है-
a b a c b a c a / a b a c b a c a / a b a c b a c a
अतः रिक्त स्थान पर cacb आयेगा।

58. Which of the following will come in the place of question mark?
निम्नलिखित में से क्या प्रश्नवाचक चिह्न के स्थान पर आएगा?

aab - ab - cabcca - bcab - c

(a) bbbc (b) bbab
(c) cabb (d) cbab

MP Police Constable Exam- 12 August-2023 Shift-2

Ans. (d) : दी गई श्रेणी निम्नवत् है-
a a b c / a b b c / a b c c / a a b c / a b b c
अतः विकल्प (d) सही उत्तर होगा।

59. Which of the following will come in the place of question mark?
निम्नलिखित में से क्या प्रश्नवाचक चिह्न के स्थान पर आएगा?

a_a_bb_a_ba_

(a) ababb (b) babaa
(c) abbab (d) aabba

MP Police Constable Exam- 12 August-2023 Shift-2

Ans. (a) : दी गई श्रेणी निम्नवत् है।
a a / a b / b b / a a / b b / a b
अतः सही उत्तर विकल्प (a) होगा।

60. Which of the following will come in the place of question mark?
निम्नलिखित में से क्या प्रश्नवाचक चिह्न के स्थान पर आएगा?

ba - b - aabb - a - - a - b

(a) bbaabb (b) ababba
(c) ababab (d) bababa

MP Police Constable Exam- 13 August-2023 Shift-1

Ans. (b) : दी गई शृंखला निम्नवत् है-
b a a b / b a a b / b a a b / b a a b
अतः शृंखला baab है और रिक्त स्थान पर ababba आयेगा।

61. Which of the following will come in the place of question mark?
निम्नलिखित में से क्या प्रश्नवाचक चिह्न के स्थान पर आएगा?

a _ b_a_a _ b ba_a_bbbb

(a) ababaa (b) bababa
(c) abbabb (d) aabbba

MP Police Constable Exam- 13 August-2023 Shift-1

Ans. (a) : दी गई शृंखला निम्नवत् है-
a a b b /a a a b b b / a a a b b b b
अतः रिक्त स्थान पर ababaa आयेगा।

62. In the following question, a series of letters is given. Some letters have been removed in these series, and they are in the options given below the series in the same order as they s the four alternatives given below, and find the one that best fits in place of the missing letter of the series.

GET IT ON Google Play Best Study PDF के लिए हमारी App को Download करें "GK Trick By Nitin Gupta"

निम्नलिखित प्रश्न में अक्षरों की एक शृंखला दी गई है। इन शृंखलाओं में कुछ अक्षर हटा दिए गए हैं, और वे शृंखला के नीचे दिए गए विकल्पों में उसी क्रम में हैं जैसे उन्हें होना चाहिए। नीचे दिए गए चार विकल्पों में से दी गई शृंखला में लुप्त अक्षर के स्थान पर सबसे उपयुक्त अक्षर ज्ञात कीजिए।

b a __ b a __ b a c __ a c b __ c b a c

(a) c b a c (b) c c b a
(c) b c b a (d) b b c a

MP Police Constable Exam- 16 August-2023 Shift-1

Ans. (b) : दी गई श्रेणी निम्नवत् है-
b a c / b a c / b a c / b a c / b a c / b a c
अतः विकल्प (b) 'c c b a' सही उत्तर होगा।

63. In the following question, a series of letters is given. Some letters have been removed in these series, and they are in the options given below the series in the same order as they s the four alternatives given below, and find the one that best fits in place of the missing letter of the series.
निम्नलिखित प्रश्न में अक्षरों की एक शृंखला दी गई है। इन शृंखलाओं में कुछ अक्षर हटा दिए गए हैं, और वे शृंखला के नीचे दिए गए विकल्पों में उसी क्रम में हैं जैसे उन्हें होना चाहिए। नीचे दिए गए चार विकल्पों में से दी गई शृंखला में लुप्त अक्षर के स्थान पर सबसे उपयुक्त अक्षर युक्त कीजिए।

m __ m __ m n __ n m __ m n

(a) n n m n (b) n m m n
(c) n n m m (d) m m n n

MP Police Constable Exam- 16 August-2023 Shift-1

Ans. (a) : दी गई श्रेणी निम्नवत् है-
m n m n / m n m n / m n m n
अतः विकल्प (a) 'n n m n' सही उत्तर होगा।

64. Which one set of letters when sequentially placed at the gaps in the given letter series shall complete it?
अक्षरों का कौन-सा समूह खाली स्थानों पर क्रमवार रखने से दी गई अक्षर शृंखला को पूरा करता है?

xy_kx_zk_yzk xyz_

(a) zyxk (b) zykx
(c) zkxy (d) zxyk

MP Police Constable Exam- 16 August-2023 Shift-1

Ans. (a) : विकल्प (a) से,
x y z k / x y z k / x y z k / x y z k
अतः विकल्प (a) 'zyxk' सही उत्तर होगा।

65. Which of the following will come in the place of question mark?
निम्नलिखित में से क्या प्रश्नवाचक चिह्न के स्थान पर आएगा?

aabca - bcaab - aa - caa - c

(a) bbac (b) bbaa
(c) acbb (d) acac

MP Police Constable Exam- 16 August-2023 Shift-1

Ans. (c) : दी गई श्रेणी निम्नवत् है-
aabc / a a bc / aab c / aa b c / aa b c
अतः विकल्प (c) 'acbb' सही उत्तर होगा।

66. In the following question, a series of letters is given. Some letters have been removed in these series, and they are in the options given below the series in the same order as they should be. Study the given series carefully out of the four alternatives given below, and find the one that best fits in place of the missing letter of the series.
निम्नलिखित प्रश्न में अक्षरों की एक शृंखला दी गई है। इन शृंखलाओं में कुछ अक्षर हटा दिए गए हैं, और वे शृंखला के नीचे दिए गए विकल्पों में उसी क्रम में हैं जैसे उन्हें होना चाहिए। नीचे दिए गए चार विकल्पों में से दी गई शृंखला का ध्यानपूर्वक अध्ययन करें और शृंखला के लुप्त अक्षरों के स्थान पर वह विकल्प खोजें जो सबसे उपयुक्त हो।

__ a c c b __ c c b __ c c __ a c c

(a) a c a b (b) a a a b
(c) b a b a (d) b a a b

MP Police Constable Exam- 12 August-2023 Shift-3

Ans. (d) : शृंखला निम्नवत् है-
b a c c / b a c c / b a c c / b a c c
अतः विकल्प (d) सही उत्तर है।

67. In the following question, a series of letters is given. Some letters have been removed in these series, and they are in the options given below the series in the same order as they should be. Study the given series carefully out of the four alternatives given below, and find the one that best fits in place of the missing letter of the series.
निम्नलिखित प्रश्न में अक्षरों की एक शृंखला दी गई है। इन शृंखलाओं में कुछ अक्षर हटा दिए गए हैं, और वे शृंखला के नीचे दिए गए विकल्पों में उसी क्रम में हैं जैसे उन्हें होना चाहिए। नीचे दिए गए चार विकल्पों में से दी गई शृंखला का ध्यानपूर्वक अध्ययन करें और शृंखला के लुप्त अक्षरों के स्थान पर वह विकल्प खोजें जो सबसे उपयुक्त हो।

a b __ b a a b c __ a a b c b __ a b c b __

(a) b c a a (b) b a c a
(c) c b a a (d) a b c a

MP Police Constable Exam- 12 August-2023 Shift-3

Ans. (c) : अक्षर शृंखला निम्नवत् है-
a b c b a / a b c b a / a b c b a / a b c b a
अतः विकल्प (d) सही उत्तर है।

68. Which of the following will come in the place of question mark?
निम्नलिखित में से क्या प्रश्नवाचक चिह्न के स्थान पर आएगा?

bccd - ccd - ccd - ccd

(a) bbb (b) bbba
(c) baab (d) babc

MP Police Constable Exam- 12 August-2023 Shift-3

Ans. (a) : शृंखला निम्नवत् है-
b c c d / b c c d / b c c d / b c c d
अतः विकल्प (a) सही उत्तर है।

GET IT ON Google Play Best Study PDF के लिए हमारी App को Download करें "GK Trick By Nitin Gupta"

69. Which of the following will come in the place of question mark?
निम्नलिखित में से क्या प्रश्नवाचक चिह्न के स्थान पर आएगा?

pq_s_pqr_ _qrp_

(a) rpqst (b) sqprs
(c) rtspq (d) pqrsp

MP Police Constable Exam- 12 August-2023 Shift-3

Ans. (c) : श्रृंखला निम्नवत् है-
p q r s t / p q r s / p q r / p q
अतः विकल्प (c) सही उत्तर है।

70. In the following question, a series of letters is given. Some letters have been removed in these series, and they are in the options given below the series in the same order as they should be. Study the given series carefully out of the four alternatives given below, and find the one that best fits in place of the missing letter of the series.
निम्नलिखित प्रश्न में अक्षरों की एक श्रृंखला दी गई है। इन श्रृंखलाओं में कुछ अक्षर हटा दिए गए हैं, और वे श्रृंखला के नीचे दिए गए विकल्पों में उसी क्रम में हैं जैसे उन्हें होना चाहिए। नीचे दिए गए चार विकल्पों में से दी गई श्रृंखला का ध्यानपूर्वक अध्ययन करें और श्रृंखला के लुप्त अक्षरों के स्थान पर वह विकल्प खोजें जो सबसे उपयुक्त हो।

b c c __ c c b c __ a c c b c c __ c __ b

(a) a c a c (b) c a a c
(c) a b a c (d) a b a b

MP Police Constable Exam- 17 August-2023 Shift-2

Ans. (a) : प्रश्नानुसार,
विकल्प (a) से- acac
b c c a c c / b c c a c c / b c c a c c / b

71. In the following question, a series of letters is given. Some letters have been removed in these series, and they are in the options given below the series in the same order as they should be. Study the given series carefully out of the four alternatives given below, and find the one that best fits in place of the missing letter of the series.
निम्नलिखित प्रश्न में अक्षरों की एक श्रृंखला दी गई है। इन श्रृंखलाओं में कुछ अक्षर हटा दिए गए हैं, और वे श्रृंखला के नीचे दिए गए विकल्पों में उसी क्रम में हैं जैसे उन्हें होना चाहिए। नीचे दिए गए चार विकल्पों में से दी गई श्रृंखला का ध्यानपूर्वक अध्ययन करें और श्रृंखला के लुप्त अक्षरों के स्थान पर वह विकल्प खोजें जो सबसे उपयुक्त हो।

b a __ b __ a a b __ a __ b

(a) a b b a (b) a b a b
(c) b a a b (d) b a b b

MP Police Constable Exam- 17 August-2023 Shift-2

Ans. (a) : प्रश्नानुसार,
विकल्प (a) से- abba
b a a b / b a a b / b a a b

72. Select the combination of letters that when sequentially placed in the gaps of the given letter series will complete the series.
उस अक्षर संयोजन का चयन कीजिए जिसे नीचे दी गई अक्षर श्रृंखला के रिक्त स्थानों पर क्रमानुसार रखने से दी गई श्रृंखला पूर्ण हो जाए।

dc_abc_cb_bcd_ba_c

(a) dbacb (b) cbadb
(c) bdacb (d) bdcab

MP Police Constable Exam- 23 August-2023 Shift-1

Ans. (c) : श्रृंखला निम्न तरीके से पूर्ण होगी–
d c b / a b c / d c b / a b c / d c b / a b c
अतः विकल्प (c) में दिया गया अक्षर संयोजन 'bdacb' श्रृंखला को पूर्ण करेगा।

73. Which set of letters when sequentially placed at the gaps in the given letter series shall complete it?
निम्नलिखित प्रश्न में, अक्षरों के किस श्रृंखला को रिक्त स्थान पर भरे जाने पर दी गई अक्षर श्रृंखला पूर्ण हो सकेगी?

_ k _ p _ f _ b _ x _ _ b p _

(a) f b x p k f k x (b) b f x k p k f x
(c) x f b x p f b k (d) f b x k p f k x

MP Police Constable Exam- 10 Sep-2023 Shift-2

Ans. (d) : दी गई अक्षर श्रृंखला निम्नवत् है-
_ k _ p _ f _ b _ x _ _ b p _
विकल्प (d) से रिक्त स्थान को भरने पर-
f k b p x / f k b p x / f k b p x
अतः रिक्त स्थान पर भरा जाने वाला अक्षर f b x k p f k x है।

74. Find the missing term in the following letter-cluster series given below:
निम्नलिखित अक्षर-समूह श्रृंखला में लुप्त पद ज्ञात कीजिए:

E16JT, K23PZ, Q30VF, ? , C44HR

(a) W36BL (b) V37BL
(c) W37BL (d) W38BL

MP Police Constable Exam- 11 Sep-2023 Shift-3

Ans. (c) : दिया गया संख्या-अक्षर श्रृंखला निम्नवत् है-

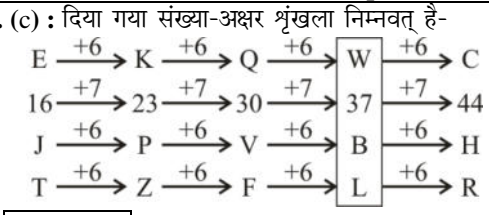

अतः ? = W37BL

75. Find the missing term in the following series.
निम्नलिखित श्रृंखला में लुप्त पद ज्ञात कीजिए।

AF, BG, DI, GL, ?, PU

(a) HM (b) KP
(c) SV (d) NQ

MP Police Constable Exam- 20 August-2023 Shift-1

Ans. (b) : दी गयी श्रृंखला निम्नवत् है-

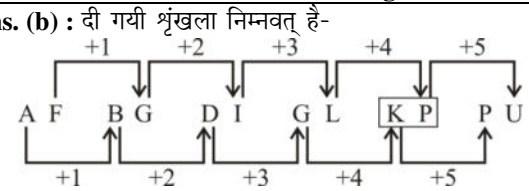

अतः (?) = KP

GET IT ON Google Play Best Study PDF के लिए हमारी App को Download करें "GK Trick By Nitin Gupta"

76. In the following question, a series of letters is given. Some letters have been removed in these series, and they are in the options given below the series in the same order as they should be. Study the given series carefully out of the four alternatives given below, and find the one that best fits in place of the missing letter of the series.

निम्नलिखित प्रश्न में अक्षरों की एक श्रृंखला दी गई है। इन श्रृंखलाओं में कुछ अक्षर हटा दिए गए हैं, और वे श्रृंखला के नीचे दिए गए विकल्पों में उसी क्रम में हैं जैसे उन्हें होना चाहिए। नीचे दिए गए चार विकल्पों में से दी गई श्रृंखला का ध्यानपूर्वक अध्ययन करें और श्रृंखला के लुप्त अक्षरों के स्थान पर वह विकल्प खोजें जो सबसे उपयुक्त हो।

a b b __ b a a __ a __ b a b __ a b

(a) a b b a (b) a a b b
(c) a b b b (d) b b a a

MP Police Constable Exam- 14 August-2023 Shift-2

Ans. (a) : दी गई श्रृंखला में लुप्त अक्षर निम्ननिखित है-
a b b a / b a a b / a b b a / b a a b
अतः लुप्त अक्षर = abba

77. In the following question, a series of letters is given. Some letters have been removed in these series, and they are in the options given below the series in the same order as they should be. Study the given series carefully out of the four alternatives given below, and find the one that best fits in place of the missing letter of the series.

निम्नलिखित प्रश्न में अक्षरों की एक श्रृंखला दी गई है। इन श्रृंखलाओं में कुछ अक्षर हटा दिए गए हैं, और वे श्रृंखला के नीचे दिए गए विकल्पों में उसी क्रम में हैं जैसे उन्हें होना चाहिए। नीचे दिए गए चार विकल्पों में से दी गई श्रृंखला का ध्यानपूर्वक अध्ययन करें और श्रृंखला के लुप्त अक्षरों के स्थान पर वह विकल्प खोजें जो सबसे उपयुक्त हो।

b __ a __ a a b __ a b __ __

(a) a a a b a (b) a a b b a
(c) a b a a a (d) a b a b a

MP Police Constable Exam- 14 August-2023 Shift-2

Ans. (c) : दी गई श्रृंखला में लुप्त अक्षर निम्ननिखित है-
b a a / b a a / b a a / b a a
अतः लुप्त अक्षर = abaaa

78. Which of the following will come in the place of question mark?

निम्नलिखित में से क्या प्रश्नवाचक चिह्न के स्थान पर आएगा?

- abb - - bb - a - bbab -

(a) bababa (b) bbabbb
(c) ababaa (d) aaaabb

MP Police Constable Exam- 14 August-2023 Shift-2

Ans. (b) : प्रश्नवाचक चिह्न के स्थान पर बायें से दाये क्रमशः निम्न अक्षर समूह आयेगा।
b a b b / b a b b / b a b b / b a b b
अतः अक्षर समूह = bbabbb

79. Which of the following will come in the place of question mark?

निम्नलिखित में से क्या प्रश्नवाचक चिह्न के स्थान पर आएगा?

st_v_ _ uvst_ _

(a) stuut (b) ustuv
(c) tustu (d) stuts

MP Police Constable Exam- 14 August-2023 Shift-2

Ans. (b) : प्रश्नवाचक चिह्न के स्थान पर निम्न अक्षर समूह आयेगा।
s t u v / s t u v / s t u v
अतः अक्षर समूह = ustuv

80. Complete the series choosing the missing letter:

विलुप्त अक्षर चुनकर श्रृंखला को पूरा कीजिए :

... abb ... ... bb... a ... bbab ... ba

(a) bababa (b) bbabbb
(c) ababaa (d) aaaabb

MP Police Constable Exam- 26 July-2016 - 9: am

Ans : (b) संख्या श्रृंखला निम्नवत है–
b/abb/b/abb/b/abb/b/abb/b/a
∴ विलुप्त अक्षर = bbabbb

81. In the following letter series, some of the letters are missing which are given in that order as one of the alternatives below it. Choose the correct alternative:

निम्नलिखित अक्षर श्रेणी में कुछ अक्षर लुप्त हैं जिन्हें उसी क्रम में श्रेणी के नीचे किसी एक विकल्प के रूप में दिया गया है। सही विकल्प चुनिए:

a _ ca _ bcaab _ a _ bcaabc _ ab

(a) bacaa (b) aacba
(c) bcacc (d) cabba

MP Police Constable Recruitment Test - 2013

Ans. (a) : दी गई श्रेणी इस प्रकार है-
a b ca / a bca / ab c a / a bca / abc a / ab
अतः (?) = bacaa

82. Complete the series choosing the missing letter

aa... abbb ... cccca .. aa .. bb .. cc .. c

विलुप्त अक्षर चुनकर श्रृंखला को पूरा कीजिए:

aa... abbb ... cccca .. aa .. bb .. cc .. c

(a) ababbc (b) aabbbc
(c) abacbb (d) aabcbb

MP Police Constable Exam- 26 July-2016 - 9: am

Ans : (a) श्रृंखला निम्नवत है–
aaaa/bbb b/cccc/a a aa/bbbb/ cccc
अतः विलुप्त अक्षर = ababbc

83. Complete the given letter series :

दी गई अक्षर श्रेणी को पूरा कीजिए :

J _ HL _ K _ IH _ LKJI _ LLK

(a) HILJL (b) ILJLH
(c) LJLHI (d) JLHIL

MP Police Constable Recruitment Test - 2013

Ans. (b) : दी गई श्रृंखला निम्नवत् है-
J I H / L L K / J I H / L L K / J I H / L L K
अतः रिक्त स्थान = ILJLH

GET IT ON Google Play Best Study PDF के लिए हमारी App को Download करें "GK Trick By Nitin Gupta"

84. A letter series is given below in which some letters are missing. Select the option that gives the letters that can fill these blanks in that order.
उस अक्षर संयोजन का चयन कीजिए जिसे नीचे दी गई अक्षर श्रृंखला के रिक्त स्थानों पर क्रमानुसार रखने से दी गई श्रृंखला पूर्ण हो जाए।

ba_d_cb_cdb_ba_dbc

(a) cbcad (b) cbacc
(c) abbdc (d) bcabc

MP Police Constable Exam- 21 August-2023 Shift-3

Ans. (b) : दिया गया अक्षर संयोजन निम्नवत् है-
b a c d b c / b a c d b c / b a c d b c
अतः रिक्त स्थान = cbacc

85. In the following question, a series of letters is given. Some letters have been removed in these series, and they are in the options given below the series in the same order as they should be. Study the given series carefully out of the four alternatives given below, and find the one that best fits in place of the missing letter of the series.
निम्नलिखित प्रश्न में अक्षरों की एक श्रृंखला दी गई है। इन श्रृंखलाओं में कुछ अक्षर हटा दिए गए हैं, और वे श्रृंखला के नीचे दिए गए विकल्पों में उसी क्रम में हैं जैसे उन्हें होना चाहिए। नीचे दिए गए चार विकल्पों में से दी गई श्रृंखला का ध्यानपूर्वक अध्ययन करें और श्रृंखला के लुप्त अक्षरों के स्थान पर वह विकल्प खोजें जो सबसे उपयुक्त हो।

a c c __ b c __ a __ c c b b c c __

(a) a a b b (b) a b a b
(c) b c a a (d) a a b c

MP Police Constable Exam- 16 August-2023 Shift-2

Ans. (c) : दी गई श्रृंखला निम्नवत् है-
a c c b / b c c a / a c c b / b c c a
अतः रिक्त स्थान = b c a a

86. In the following question, a series of letters is given. Some letters have been removed in these series, and they are in the options given below the series in the same order as they should be. Study the given series carefully out of the four alternatives given below, and find the one that best fits in place of the missing letter of the series.
निम्नलिखित प्रश्न में अक्षरों की एक श्रृंखला दी गई है। इन श्रृंखलाओं में कुछ अक्षर हटा दिए गए हैं, और वे श्रृंखला के नीचे दिए गए विकल्पों में उसी क्रम में हैं जैसे उन्हें होना चाहिए। नीचे दिए गए चार विकल्पों में से दी गई श्रृंखला का ध्यानपूर्वक अध्ययन करें और श्रृंखला के लुप्त अक्षरों के स्थान पर वह विकल्प खोजें जो सबसे उपयुक्त हो।

c b a__c__a d c b __d c b __d__b a d

(a) d b a a a (b) a a a a a
(c) d b a a c (d) b b a a c

MP Police Constable Exam- 16 August-2023 Shift-2

Ans. (c) : दी गई श्रृंखला निम्नवत् है-
c b a d /c b a d / c b a d / c b a d / c b a d
अतः रिक्त स्थान = d b a a c

87. A series is given, with one term missing. Choose the correct alternative from the given ones that will complete the series.
अक्षरों का कौन-सा समूह खाली स्थानों पर क्रमवार रखने से दी गई अक्षर श्रृंखला को पूरा करता है?

deb, ijg, nol, ?, xyv

(a) stq (b) rsp
(c) rsq (d) stp

MP Police Constable Exam- 16 August-2023 Shift-2

Ans. (a) : दी गई श्रृंखला निम्नवत् है-

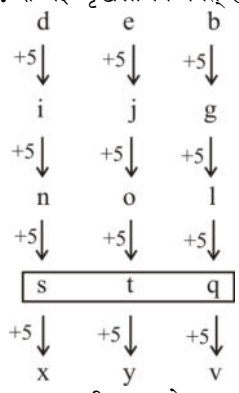

अतः विकल्प (a) सही उत्तर होगा।

88. Find the missing term in the following series.
निम्नलिखित श्रृंखला में लुप्त पद ज्ञात कीजिए।

AMN, BOP, CQR, ?, EUV

(a) DST (b) DPM
(c) UJI (d) IJT

MP Police Constable Exam- 20 August-2023 Shift-2

Ans. (a) : दी गई अक्षर श्रृंखला निम्नवत् है-

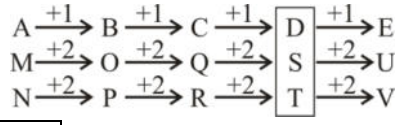

अतः ? = DST

89. Complete the series choosing the missing letter/s :
विलुप्त अक्षर चुनकर श्रृंखला को पूरा कीजिए:

aa–baaa– –aab–aab

(a) aaba (b) aaab
(c) baaa (d) abaa

MP Police Constable Exam- 20 July-2016 - 9: am

Ans : (d) खाली स्थान को भरने पर श्रृंखला का क्रम इस प्रकार होगा→
a a a b/ a a a b/ a a a b/ a a a b
∴ अभीष्ट उत्तर = abaa

90. Select the combination of letters that when sequentially placed in the gaps of the given letter series will complete the series.
उस अक्षर संयोजन का चयन कीजिए जिसे नीचे दी गई अक्षर श्रृंखला के रिक्त स्थानों पर क्रमानुसार रखने से दी गई श्रृंखला पूर्ण हो जाए।

ac_d_b_cbdd_a_bddb

(a) bdabc (b) bdbca
(c) bdcab (d) cbdbc

MP Police Constable Exam- 20 August-2023 Shift-2

GET IT ON Google Play Best Study PDF के लिए हमारी App को Download करें "GK Trick By Nitin Gupta"

Ans. (a) : दी गई श्रृंखला निम्नवत् है-

a c b d d b / a c b d d b / a c b d d b

अतः स्पष्ट है कि अक्षर समूह 'bdabc' को रिक्त स्थान पर क्रम से बाये से दाये रखने पर श्रृंखला पूर्ण होगी।

91. Complete the series choosing the missing letter/s:
विलुप्त अक्षर चुनकर श्रृंखला को पूरा कीजिए:

oo_ooo_oooo_ oooo_ p

(a) pooo (b) ppoo
(c) pppp (d) pppo

MP Police Constable Exam- 18 July-2016 - 9: am

Ans : (d) अक्षर श्रृंखला निम्नांकित है-

oo P/ ooo P/oooo P/oooo o P

अतः ? ⇒ PPPo

92. Complete the series choosing the missing letter:
विलुप्त अक्षर चुनकर श्रृंखला को पूरा कीजिए :

a_cd_cda_dab_abc

(a) cdbb (b) bbcd
(c) bcdb (d) bcdd

MP Police Constable Exam 17 July 2016 - 12:am

Ans. (b) श्रृंखला का क्रम इस प्रकार है

abcd / bcda / cdab / dabc

∴ ? = bbcd होगा।

93. Find the missing term.
लुप्त पद ज्ञात कीजिए।

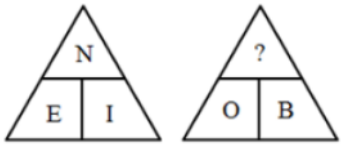

(a) V (b) R
(c) Q (d) P

MP Police Constable Exam- 18 August-2023 Shift-1

Ans. (c) : जिस प्रकार,

E(5) + I(9) = N(14)

⇒ 5 + 9 = 14

उसी प्रकार,

O(15) + B(2) = Q(17)

⇒ 15 + 2 = 17 (Q का 17 होता है)

अतः ? = Q

94. In the following question, a series of letters is given. Some letters have been removed in these series, and they are in the options given below the series in the same order as they should be. Study the given series carefully out of the four alternatives given below, and find the one that best fits in place of the missing letter of the series.
निम्नलिखित प्रश्न में अक्षरों की एक श्रृंखला दी गई है। इन श्रृंखलाओं में कुछ अक्षर हटा दिए गए हैं, और वे श्रृंखला के नीचे दिए गए विकल्पों में उसी क्रम में हैं जैसे उन्हें होना चाहिए। नीचे दिए गए चार विकल्पों में से दी गई श्रृंखला का ध्यानपूर्वक अध्ययन करें और श्रृंखला के लुप्त अक्षरों के स्थान पर वह विकल्प खोजें जो सबसे उपयुक्त हो।

a b __ d e __ g h__ jkl __ no

(a) a b c d (b) c d b m
(c) c f i m (d) c b a b

MP Police Constable Exam- 13 August-2023 Shift-2

Ans. (c) : दिया है-

a b __ d e __ g h__ jkl __ no

विकल्प (c) से- c f i m

a b c d e f g h I j k l m n o

Note- दी गई अक्षर श्रृंखला में अक्षरों को वर्णमाला के क्रम में रखा गया है।

95. In the following question, a series of letters is given. Some letters have been removed in these series, and they are in the options given below the series in the same order as they should be. Study the given series carefully out of the four alternatives given below, and find the one that best fits in place of the missing letter of the series.
निम्नलिखित प्रश्न में अक्षरों की एक श्रृंखला दी गई है। इन श्रृंखलाओं में कुछ अक्षर हटा दिए गए हैं, और वे श्रृंखला के नीचे दिए गए विकल्पों में उसी क्रम में हैं जैसे उन्हें होना चाहिए। नीचे दिए गए चार विकल्पों में से दी गई श्रृंखला का ध्यानपूर्वक अध्ययन करें और श्रृंखला के लुप्त अक्षरों के स्थान पर वह विकल्प खोजें जो सबसे उपयुक्त हो।

a __ a b __ b c b c __ c a c a __

(a) b c a b (b) b c b c
(c) b c c b (d) a c b a

MP Police Constable Exam- 13 August-2023 Shift-2

Ans. (a) : दिया है-

a __ a b __ b c b c __ c a c a __

विकल्प (a) से, b c a b

a b a b c / b c b c a / c a c a b

अतः, लुप्त अक्षरों को समूह bcab है।

96. Which of the following will come in the place of question mark?
निम्नलिखित में से क्या प्रश्नवाचक चिह्न के स्थान पर आएगा?

cab - a - c - bc - bc - b - ab

(a) bcbbab (b) bcbbbc
(c) acacab (d) cbaaac

MP Police Constable Exam- 13 August-2023 Shift-2

Ans. (d) : दी गई अक्षर श्रृंखला निम्नवत् है-

c a b / c a b / c a b / c a b / c a b / c a b

अतः रिक्त स्थान पर cbaaac आयेगा।

97. Which of the following will come in the place of question mark?
निम्नलिखित में से क्या प्रश्नवाचक चिह्न के स्थान पर आएगा?

a _ ca_b_aa_ca

(a) baaa (b) bacb
(c) acba (d) abba

MP Police Constable Exam- 13 August-2023 Shift-2

Ans. (b) : दी गई अक्षर श्रृंखला निम्नवत् है-

a b c a / a b c a / a b c a

अतः रिक्त स्थान पर bacb आयेगा।

GET IT ON Google Play Best Study PDF के लिए हमारी App को Download करें "GK Trick By Nitin Gupta"

98. In the following question, a series of letters is given. Some letters have been removed in these series, and they are in the options given below the series in the same order as they should be. Study the given series carefully out of the four alternatives given below, and find the one that best fits in place of the missing letter of the series.

निम्नलिखित प्रश्न में अक्षरों की एक श्रृंखला दी गई है। इन श्रृंखलाओं में कुछ अक्षर हटा दिए गए हैं, और वे श्रृंखला के नीचे दिए गए विकल्पों में उसी क्रम में हैं जैसे उन्हें होना चाहिए। नीचे दिए गए चार विकल्पों में से दी गई श्रृंखला का ध्यानपूर्वक अध्ययन करें और श्रृंखला के लुप्त अक्षरों के स्थान पर वह विकल्प खोजें जो सबसे उपयुक्त हो।

a b b _ a_b a a_b a a_b a

(a) b c c a (b) b c a c
(c) a b b b (d) c b b a

MP Police Constable Exam- 16 August-2023 Shift-3

Ans. (c) : दी गयी श्रृंखला निम्नवत् है-

a b b a / a b b a / a b b a / a b b a

उपर्युक्त से स्पष्ट है कि सही विकल्प (c) है।

99. Find the missing term.
लुप्त पद ज्ञात कीजिए।

A	16	O
U	26	E
R	22	?

(a) D (b) I
(c) S (d) B

MP Police Constable Exam- 14 August-2023 Shift-3

Ans. (a) : जिस प्रकार,

A + O = 16

तथा

U + E = 26

उसी प्रकार,

R + D = 22

अतः ? = D

100. In the following question, a series of letters is given. Some letters have been removed in these series, and they are in the options given below the series in the same order as they should be. Study the given series carefully out of the four alternatives given below, and find the one that best fits in place of the missing letter of the series.

निम्नलिखित प्रश्न में अक्षरों की एक श्रृंखला दी गई है। इन श्रृंखलाओं में कुछ अक्षर हटा दिए गए हैं, और वे श्रृंखला के नीचे दिए गए विकल्पों में उसी क्रम में हैं जैसे उन्हें होना चाहिए। नीचे दिए गए चार विकल्पों में से दी गई श्रृंखला का ध्यानपूर्वक अध्ययन करें और श्रृंखला के लुप्त अक्षरों के स्थान पर वह विकल्प खोजें जो सबसे उपयुक्त हो।

a b c __ a b__ d__ b c d __ b c d

(a) a b b a (b) b a b a
(c) b b a a (d) d c a a

MP Police Constable Exam- 14 August-2023 Shift-3

Ans. (d) : दी गयी अक्षर श्रृंखला निम्नवत् है-

a b c d / a b c d / a b c d / a b c d

अतः रिक्त स्थानों पर dcaa आयेगा।

101. In the following question, a series of letters is given. Some letters have been removed in these series, and they are in the options given below the series in the same order as they should be. Study the given series carefully out of the four alternatives given below, and find the one that best fits in place of the missing letter of the series.

निम्नलिखित प्रश्न में अक्षरों की एक श्रृंखला दी गई है। इन श्रृंखलाओं में कुछ अक्षर हटा दिए गए हैं, और वे श्रृंखला के नीचे दिए गए विकल्पों में उसी क्रम में हैं जैसे उन्हें होना चाहिए। नीचे दिए गए चार विकल्पों में से दी गई श्रृंखला का ध्यानपूर्वक अध्ययन करें और श्रृंखला के लुप्त अक्षरों के स्थान पर वह विकल्प खोजें जो सबसे उपयुक्त हो।

__ s r __ t r __ s r s __ r __ s r s t __

(a) t t s s r r (b) t s r t s r
(c) s t r t r s (d) t s t t t r

MP Police Constable Exam- 14 August-2023 Shift-3

Ans. (d) : दी गयी अक्षर श्रृंखला निम्नवत् है-

t s r / s t r / t s r / s t r / t s r / s t r

अतः रिक्त स्थानों पर t s t t t r आयेगा।

102. Which of the following will come in the place of question mark?
निम्नलिखित में से क्या प्रश्नवाचक चिह्न के स्थान पर आएगा?

ccb - c - bbc - b - cc - - ccbb

(a) bccbbb (b) bcccbb
(c) aaaaba (d) bbbbbb

MP Police Constable Exam- 14 August-2023 Shift-3

Ans. (a) : दिया गया अनुक्रम निम्नवत् है-

c c b b / c c b b / c c b b / c c b b / c c b b

अतः रिक्त स्थानों पर bccbbb आयेगा।

103. In the following question, a series of letters is given. Some letters have been removed in these series, and they are in the options given below the series in the same order as they should be. Study the given series carefully out of the four alternatives given below, and find the one that best fits in place of the missing letter of the series.

निम्नलिखित प्रश्न में अक्षरों की एक श्रृंखला दी गई है। इन श्रृंखलाओं में कुछ अक्षर हटा दिए गए हैं, और वे श्रृंखला के नीचे दिए गए विकल्पों में उसी क्रम में हैं जैसे उन्हें होना चाहिए। नीचे दिए गए चार विकल्पों में से दी गई श्रृंखला का ध्यानपूर्वक अध्ययन करें और श्रृंखला के लुप्त अक्षरों के स्थान पर वह विकल्प खोजें जो सबसे उपयुक्त हो।

b c __ b __ c __ b _ c c b

(a) c b c b (b) c b b c
(c) b c b c (d) b b c c

MP Police Constable Exam- 13 August-2023 Shift-3

GET IT ON Google Play Best Study PDF के लिए हमारी App को Download करें "GK Trick By Nitin Gupta"

Ans. (a) : दिया गया अक्षर शृंखला निम्नवत् है-

b c c b / b c c b / b c c b

अतः ? = cbcb होगा, क्योंकि अक्षरों का क्रम 'bccb' है।

104. In the following question, a series of letters is given. Some letters have been removed in these series, and they are in the options given below the series in the same order as they should be. Study the given series carefully out of the four alternatives given below, and find the one that best fits in place of the missing letter of the series.

निम्नलिखित प्रश्न में अक्षरों की एक शृंखला दी गई है। इन शृंखलाओं में कुछ अक्षर हटा दिए गए हैं, और वे शृंखला के नीचे दिए गए विकल्पों में उसी क्रम में हैं जैसे उन्हें होना चाहिए। नीचे दिए गए चार विकल्पों में से दी गई शृंखला का ध्यानपूर्वक अध्ययन करें और शृंखला के लुप्त अक्षरों के स्थान पर वह विकल्प खोजें जो सबसे उपयुक्त हो।

b c c __ b c __ a b c c __ b __ c a

(a) a c a b (b) b a b c
(c) a c c a (d) a c a c

MP Police Constable Exam- 13 August-2023 Shift-3

Ans. (d) : दिया गया अक्षरों की शृंखला निम्नवत् है-

b c c a / b c c a / b c c a / b c c a

∵ अक्षरों का क्रम 'bcca' के रूप में है।

∴ ? = acac

105. Which of the following will come in the place of question mark?

निम्नलिखित में से क्या प्रश्नवाचक चिह्न के स्थान पर आएगा?

p_r_pq_p_qr_

(a) rpqrp (b) qqprs
(c) qprpp (d) pqrrp

MP Police Constable Exam- 13 August-2023 Shift-3

Ans. (c) : दिया गया अक्षर शृंखला निम्नवत् है-

p q r p / p q r p / p q r p

अतः ? = qprpp

106. Which of the following will come in the place of question mark?

निम्नलिखित में से क्या प्रश्नवाचक चिह्न के स्थान पर आएगा?

cccbb - aa - cc - bbbaa - c

(a) acbc (b) baca
(c) baba (d) acba

MP Police Constable Exam- 13 August-2023 Shift-3

Ans. (b) : दिया गया अक्षर शृंखला निम्नवत् है-

c c c b b b a a a c c c b b b a a a c

अतः प्रश्न चिह्न के स्थान पर 'baca' आएगा।

107. Find the missing term.

लुप्त पद ज्ञात कीजिए।

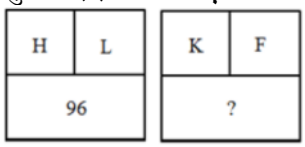

(a) 110 (b) 81
(c) 66 (d) 72

MP Police Constable Exam- 13 August-2023 Shift-3

Ans. (c) : जिस प्रकार,

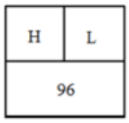

$\Rightarrow 8 \times 12 = 96$

उसी प्रकार,

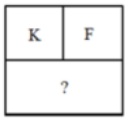

$\Rightarrow 11 \times 6 = 66$

Note- अंग्रेजी वर्णमाला के place value का गुणनफल दिया गया है।

108. Find the missing term.

लुप्त पद ज्ञात कीजिए।

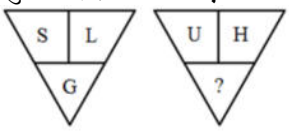

(a) M (b) N
(c) O (d) Y

MP Police Constable Exam- 18 August-2023 Shift-2

Ans. (a) : जिस प्रकार,

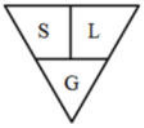

L + G = S

12 + 7 = 19

उसी प्रकार,

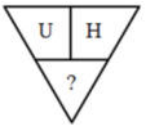

H + ? = U

8 + ? = 21

? = 13 = M

अतः ? = M

109. Find the missing term.

लुप्त पद ज्ञात कीजिए।

D	T	42
N	E	91
L	?	32

(a) K (b) J
(c) R (d) O

MP Police Constable Exam- 17 August-2023 Shift-3

Ans. (a) : प्रश्न से,

D	T	42
N	E	91
L	?	32

D + T → 4+ 20 = 24 का विपरीत = 42

N + E → 14 + 5 = 19 का विपरीत = 91

उसी प्रकार,

L + ? → 12 + ? = 23

? = 23 – 12

= 11

? = K

GET IT ON Google Play Best Study PDF के लिए हमारी App को Download करें "GK Trick By Nitin Gupta"

110. Complete the series choosing the missing letter/s:
विलुप्त अक्षर चुनकर श्रृंखला को पूरा कीजिए:
a_bbc_aab_cca_bbcc
(a) bacb (b) acba
(c) abba (d) caba
MP Police Constable Exam 23 July 2016 - 9:am

Ans : (b) श्रृखंला निम्नवत है -
aabbcc / aabbcc / aabbcc
अतः विलुप्त अक्षर = a c b a

111. Complete the series choosing the missing letter/ विलुप्त अक्षर चुनकर श्रृंखला को पूरा कीजिए:
a_b_aab_a_bb
(a) abaa (b) abba
(c) baab (d) babb
MP Police Constable Exam 23 July 2016 - 9:am

Ans : (b) श्रृंखला निम्नवत है।
a a b b / a a b b / a a b b
अतः विलुप्त अक्षर = a b b a

112. Which of the following will come in the place of question mark?
aa - abbb - ccccd - ddccc - bb - b
निम्नलिखित में से क्या प्रश्नवाचक चिह्न के स्थान पर आएगा।
(a) abcda (b) abdbc
(c) abdcb (d) abaad
MP Police Constable Exam- 01 Feb-2022 Shift-1

Ans. (c) : विकल्प (c) के अनुसार,
a a a a / b b b b / c c c c / d d d d / c c c c / b b b b
अतः विकल्प (c) अभीष्ट उत्तर है।

113. Which of the following will come in the place of question mark?
निम्नलिखित में से क्या प्रश्नवाचक चिह्न के स्थान पर आएगा?
b_b a_ ab _ bc_ _
(a) abcac (b) babca
(c) ccabb (d) bcabb
MP Police Constable Exam- 01 Feb-2022 Shift-1

Ans. (a) : विकल्प (a) के अनुसार,
b a b /a b a / b c b/ c a c
अतः विकल्प (a) अभीष्ट उत्तर है।

114. Which of the following will come in the place of question mark?/निम्नलिखित में से क्या प्रश्नवाचक चिह्न के स्थान पर आएगा?
ab - abb - bba - b
(a) aba (b) bba
(c) bab (d) baa
MP Police Constable Exam- 02 Feb-2022 Shift-1

Ans. (c) : दी गई अक्षर श्रृंखला निम्नवत् है-
a b b / a b b / a b b / a b b
अतः अभीष्ट संयोजन b a b होगा।

115. In the following question, a series of letters is given. Some letters have been removed in these series, and they are in the options given below the series in the same order as should be. Study the given series carefully out of the four alternatives given below, and find the one that best fits in place of the missing letter of the series.
निम्नलिखित प्रश्न में अक्षरों की एक श्रृंखला दी गई है। इन श्रृंखलाओं में कुछ अक्षर हटा दिए गए हैं, और वे श्रृंखला के नीचे दिए गए विकल्पों में उसी क्रम में हैं जैसे उन्हें होना चाहिए। नीचे दिए गए चार विकल्पों में से दी गई श्रृंखला का अध्ययन करें और श्रृंखला के लुप्त अक्षरों के स्थान पर वह विकल्प खोजें जो सबसे उपयुक्त हो।
b c __ b b c __ b b c __ b b __ b b
(a) b c b c (b) b b c c
(c) c b b b (d) b b b c
MP Police Constable Exam- 02 Feb-2022 Shift-1

Ans. (d) : दी गई अक्षर श्रृंखला निम्नवत् है–
bc b b|b c b b| b c b b| b c bb
अतः अभीष्ट उत्तर = bbbc

116. Which of the following will come in the place of question mark?/निम्नलिखित में से क्या प्रश्नवाचक चिह्न के स्थान पर आएगा?
adb - ac - da - cddcb - dbc - cbda
(a) bccba (b) cbbaa
(c) ccbba (d) bbcad
MP Police Constable Exam- 02 Feb-2022 Shift-1

Ans.(b): प्रश्नगत अक्षर श्रृंखला निम्न प्रकार है-
adbc/acbd/abcd/dcba/dbca/cbda
उपर्युक्त श्रृंखला में a, b, c तथा c , 4 अक्षरों का संयोजन प्राप्त हो रहा है। अतः अभीष्ट उत्तर = c b b a a

117. Complete the series choosing the missing letter विलुप्त अक्षर चुनकर श्रृंखला को पूरा कीजिए–
a _ ccab _ c _ _ cca _ c–
(a) babbcc (b) bcabbc
(c) abcbbc (d) cbbacb
MP Police Constable Exam 19 July 2016 - 9:am

Ans : (b) अक्षर श्रृंखला का क्रम निम्नवत् है–
abcc|abcc|abcc|abcc
अभीष्ट उत्तर ⇒ b c a bb c

118. Complete the series choosing the missing letter/s :/विलुप्त अक्षर चुनकर श्रृंखला को पूरा कीजिए : abc bcd cde ....
(a) efg (b) def
(c) efh (d) cdf
MP Police Constable Exam 19 July 2016 - 9:am

Ans : (b) अक्षर श्रृंखला का क्रम निम्नवत् है–
abc| bcd|cde|def
अतः अभीष्ट उत्तर ⇒ def

119. Complete the series choosing the missing letter/s:
विलुप्त अक्षर चुनकर श्रृंखला को पूरा कीजिए:
ac_cab_baca_aba_acac
(a) aacb (b) acbc
(c) babb (d) bcbb
MP Police Constable Exam 25 July 2016 - 9:am

Ans : (a) श्रृंखला निम्नवत है–
acac/abab/acac/abab/acac
अतः विलुप्त पद aacb होगा।

GET IT ON Google Play Best Study PDF के लिए हमारी App को Download करें "GK Trick By Nitin Gupta"

120. Complete the series choosing the missing letter/s:
विलुप्त अक्षर चुनकर शृंखला को पूरा कीजिए:
rrqq_pp_rr_qpppp_r
(a) ppqr (b) qprp
(c) qpqp (d) prqp
MP Police Constable Exam 25 July 2016 - 9:am

Ans : (a) शृंखला निम्नवत है–
rrqqpppp/rrqqpppprr
अतः रिक्त स्थान पर ppqr होगा।

121. Complete the series choosing the missing letter/s :
विलुप्त अक्षर चुनकर शृंखला को पूरा कीजिए:
a_cbab_b_bc_ab_b
(a) bcabc (b) bcbac
(c) bbcac (d) cabcb
MP Police Constable Exam 17 July 2016 - 9:am

Ans : (a) दी गई शृंखला निम्नवत् है-
abcb/abcb/abcb/abcb
अतः ? = bcabc

122. Complete the series choosing the missing letter/s–
विलुप्त अक्षर चुनकर शृंखला को पूरा कीजिए–
ab_bc_c_ba_c
(a) baac (b) aabb
(c) caab (d) aaab
MP Police Constable Exam 24 July 2016 - 9:am

Ans : (c) शृंखला निम्नवत है–
abc/bca/cab/abc
अतः caab अक्षर शृंखला को पूरा करेंगे।

123. Complete the series choosing the missing letter/s:
विलुप्त अक्षर चुनकर शृंखला को पूरा कीजिए:
_bcbca _ _ ab _
(a) cbcc (b) ccba
(c) abac (d) abcc
MP Police Constable Exam 17 July 2016 - 9:am

Ans : (d) दी गई शृंखला निम्नवत् है-
abc/bcab c/abc
अतः ? = abcc

124. In the following question, a series of letters is given. Some letters have been removed in these series, and they are in the options given below the series in the same order as they should be. Study the given series carefully out of the four alternatives given below, and find the one that best fits in place of the missing letter of the series.
निम्नलिखित प्रश्न में अक्षरों की एक शृंखला दी गई है। इन शृंखलाओं में कुछ अक्षर हटा दिए गए हैं, और वे शृंखला के नीचे दिए गए विकल्पों में उसी क्रम में हैं जैसे उन्हें होना चाहिए। नीचे दिए गए चार विकल्पों में से दी गई शृंखला का ध्यानपूर्वक अध्ययन करें और शृंखला के लुप्त अक्षरों के स्थान पर वह विकल्प खोजें जो सबसे उपयुक्त हो।
__ a a b __ a __ a __ b a
(a) b a b a (b) b a b b
(c) b a a a (d) b b a a
MP Police Constable Exam- 16 August-2023 Shift-3

Ans. (a) : दी गयी शृंखला निम्नवत् है-
b a a / b a a / b a a / b a
उपर्युक्त से स्पष्ट है कि सही विकल्प (a) है।

125. Complete the series choosing the missing letter/s–
विलुप्त अक्षर चुनकर शृंखला को पूरा कीजिए–
ccbab _ caa _ bccc _ a _
(a) babb (b) bbba
(c) baab (d) babc
MP Police Constable Exam 24 July 2016 - 9:am

Ans : (a) cc/ba/bb/ca/aa/bc/cc/ba/b
अतः babb अभीष्ट उत्तर होगा।

Type-3: लुप्त आकृति पर आधारित प्रश्न

126. Identify the figure that completes the pattern.
उस आकृति की पहचान करें जो पैटर्न को पूरा करती है।

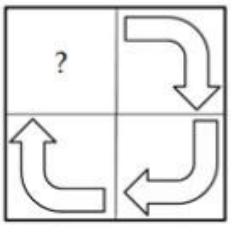

(a)
(b)
(c)
(d)

MP Police Constable Exam- 5 Sep -2023 Shift-1

Ans. (b) : दी गई प्रश्न आकृति को उत्तर आकृति (b) पूर्ण करेगी।

127. Which answer figure will complete the pattern in the question figure ?
कौन-सी उत्तर आकृति प्रश्न आकृति के प्रतिरूप को पूरा करेगी ?



(a)
(b)
(c)
(d)

MP Police Constable Exam- 5 Sep -2023 Shift-1

Ans. (b) : दी गई प्रश्न आकृति को उत्तर आकृति (b) पूर्ण करेगी।

GET IT ON Google Play Best Study PDF के लिए हमारी App को Download करें "GK Trick By Nitin Gupta"

128. What should come in place of question mark ?
प्रश्नवाचक चिह्न के स्थान पर क्या आयेगा ?

(a) 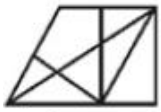
(b) 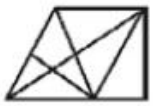
(c)
(d)

MP Police Constable Exam- 2 Sep-2023 Shift-3

Ans. (a) : प्रश्नानुसार, विकल्प (a) में दी गई आकृति प्रश्न आकृति को पूर्ण करेगी। अतः विकल्प (a) सही है।

129. Which answer figure will complete the pattern in the question figure ?
कौन-सी उत्तर आकृति प्रश्न आकृति के प्रतिरूप को पूरा करेगी ?

(a)
(b)
(c)
(d)

MP Police Constable Exam- 2 Sep-2023 Shift-3

Ans. (b) : प्रश्नानुसार, दी गई प्रश्न आकृति को विकल्प (b) की आकृति पूर्ण करेगी। अतः विकल्प (b) सही है।

130. Identify the figure that completes the pattern.
उस आकृति की पहचान करें जो पैटर्न को पूरा करती है।

(a)
(b)
(c)
(d)

MP Police Constable Exam- 2 Sep-2023 Shift-3

Ans. (d) : प्रश्नानुसार, दी गई प्रश्न आकृति को विकल्प (d) की आकृति पूर्ण करेगी। अतः विकल्प (d) सही है।

131. Which answer figure will complete the pattern in the question figure?
कौन-सी उत्तर आकृति प्रश्न आकृति के पैटर्न को पूरा करेगी?

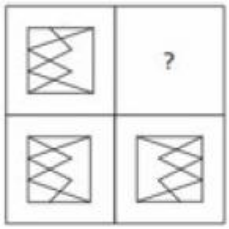

(a)
(b)
(c)
(d)

MP Police Constable Exam- 10 Sep-2023 Shift-1

Ans. (c) : प्रश्नानुसार विकल्प (c) में दी गयी उत्तर आकृति प्रश्न आकृति के पैटर्न को पूरा करेगी।

132. Identify the figure that completes the pattern.
उस आकृति की पहचान करें जो पैटर्न को पूरा करती है।

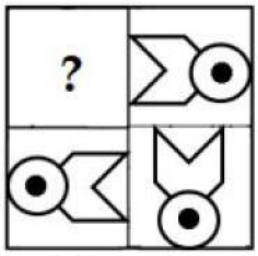

(a)
(b)
(c) 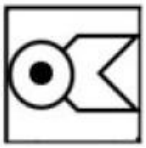
(d) 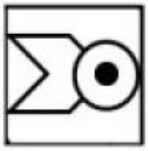

MP Police Constable Exam- 12 Sep-2023 Shift-2

Ans. (b) : प्रश्न आकृति के अवलोकन से स्पष्ट है कि आकृतियाँ clock wise 90^0 घुम रही है। अतः अगली आकृति विकल्प 'b' की आकृति प्राप्त होगी।

133. Which answer figure will complete the question figure?
नीचे दी गई कौन-सी उत्तर आकृति प्रश्न आकृति को पूरा करेगी?

GET IT ON Google Play Best Study PDF के लिए हमारी App को Download करें "GK Trick By Nitin Gupta"

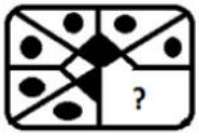

(a) (b)

(c) (d)

MP Police Constable Exam- 6 Sep-2023 Shift-3

Ans. (d) : विकल्प (d) में दी गई आकृति प्रश्न आकृति को पूरा करेगी।

134. From the given answer figure, which will complete the pattern in the question figure ?
दिए गए उत्तर आकृतियों में से, कौन-सी प्रश्न आकृति के पैटर्न को पूरा करेगी ?

Question Figure/प्रश्न आकृति :

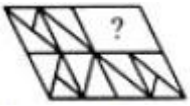

Answer Figures/उत्तर आकृतियाँ :

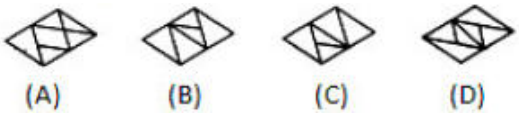

(a) A (b) B
(c) C (d) D

MP Police Constable Exam- 4 Sep-2023 Shift-3

Ans. (b) : प्रश्न आकृति के अवलोकन से स्पष्ट है कि विकल्प (b) की आकृति, प्रश्न आकृति को पूर्ण करेगी।

135. Identify the figure that completes the pattern.
उस आकृति की पहचान करें जो पैटर्न को पूरा करती है।

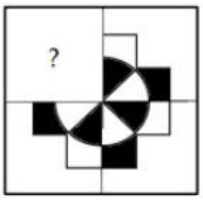

(a) (b)

(c) (d)

MP Police Constable Exam- 4 Sep-2023 Shift-3

Ans. (d) : प्रश्न आकृति को पूर्ण करने हेतु, विकल्प (d) की आकृति उपयुक्त है।
अतः विकल्प (d) सही उत्तर है।

136. Which answer figure will complete the pattern in the question figure?
कौन-सी उत्तर आकृति प्रश्न आकृति के प्रतिरूप को पूरा करेगी?



(a) (b)

(c) (d)

MP Police Constable Exam- 6 Sep-2023 Shift-2

Ans. (c) : विकल्प (c) में दी गई आकृति प्रश्न आकृति के प्रतिरूप को पूरा करेगी।

137. Identify the figure that completes the pattern.
उस आकृति की पहचान करें जो पैटर्न को पूरा करती है।

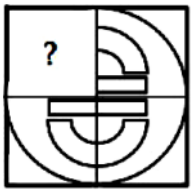

(a) (b)

(c) (d)

MP Police Constable Exam- 6 Sep-2023 Shift-2

Ans. (a) : दी गई अपूर्ण प्रश्न आकृति को विकल्प आकृति (a) पूर्ण करेगी।

138. Which answer figure will complete the pattern in the question figure?
कौन-सी उत्तर आकृति प्रश्न आकृति के प्रतिरूप को पूरा करेगी?

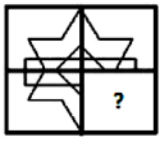

(a) (b)

(c) (d)

MP Police Constable Exam- 1 Sep-2023 Shift-2

Ans. (b) : प्रश्न आकृति को विकल्प आकृति (b) पूर्ति करेगी।

GET IT ON Google Play Best Study PDF के लिए हमारी App को Download करें "GK Trick By Nitin Gupta"

139. Which answer figure will complete the pattern in the question figure ?
दी गई उत्तर आकृतियों में से कौन-सी प्रश्न आकृति के पैटर्न को पूरा करेगी ?

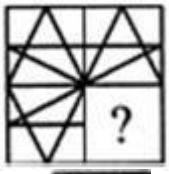

(a)
(b) 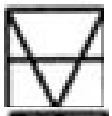
(c)
(d) 

MP Police Constable Exam- 3 Sep-2023 Shift-1

Ans. (a) : विकल्प (a) में दी गयी उत्तर आकृति, प्रश्न आकृति के पैटर्न को पूर्ण करेगी

140. Identify the figure that completes the pattern.
उस आकृति की पहचान करें जो पैटर्न को पूरा करती है।

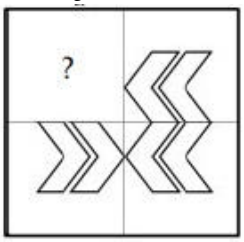

(a)
(b)
(c)
(d)

MP Police Constable Exam- 3 Sep-2023 Shift-1

Ans. (a) : विकल्प (a) में दी गयी उत्तर आकृति, प्रश्न आकृति के पैटर्न को पूर्ण करेगी

141. Find the missing term.
लुप्त पद ज्ञात कीजिए।

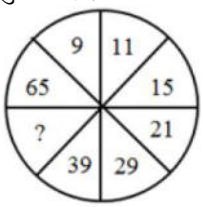

(a) 51 (b) 60
(c) 55 (d) 63

MP Police Constable Exam- 14 August-2023 Shift-2

Ans. (a) : लुप्त पद निम्नलिखित है।

$9 \xrightarrow{+2} 11 \xrightarrow{+4} 15 \xrightarrow{+6} 21 \xrightarrow{+8} 29 \xrightarrow{+10} 39 \xrightarrow{+12} \boxed{51} \xrightarrow{+14} 65$

अतः लुप्त पद = 51

142. Find the missing term.
लुप्त पद ज्ञात कीजिए।

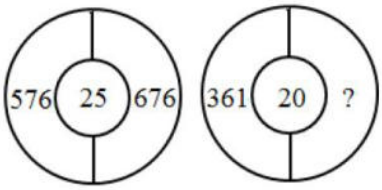

(a) 144 (b) 441
(c) 414 (d) 141

MP Police Constable Exam- 14 August-2023 Shift-2

Ans. (b) : जिस प्रकार,

$(25 - 1)^2 \Rightarrow (24)^2 = 576$

$(25 + 1)^2 \Rightarrow (26)^2 = 676$

उसी प्रकार,

$(20 - 1)^2 \Rightarrow (19)^2 = 361$

$(20 + 1)^2 \Rightarrow (21)^2 = \boxed{441}$

अतः $\boxed{? = 441}$

143. Find the missing term.
लुप्त पद ज्ञात कीजिए।

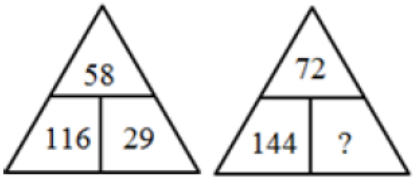

(a) 48 (b) 36
(c) 40 (d) 55

MP Police Constable Exam- 14 August-2023 Shift-2

Ans. (b) : जिस प्रकार,

$29 \times 2 = 58$

तथा

$58 \times 2 = 116$

उसी प्रकार,

$? \times 2 = 72$

$? = \boxed{36}$

तथा $72 \times 2 = 144$

अतः $\boxed{? = 36}$

144. Find the missing term.
लुप्त पद ज्ञात कीजिए।

351
117
39
?

(a) 12 (b) 13
(c) 15 (d) 25

MP Police Constable Exam- 18 August-2023 Shift-3

GET IT ON Google Play Best Study PDF के लिए हमारी App को Download करें "GK Trick By Nitin Gupta"

Ans. (b) : प्रश्नानुसार,

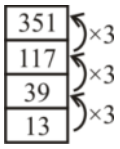

अतः ? = 13

145. Which answer figure will complete the question figure?/नीचे दी गई कौन-सी उत्तर आकृति प्रश्न आकृति को पूरा करेगी?

(a)
(b)
(c)
(d)

MP Police Constable Exam- 01 Feb-2022 Shift-1

Ans. (a) : प्रश्नगत आकृति से स्पष्ट है कि विकल्प (a) की आकृति प्रश्न आकृति को पूरी करेगी।

146. Which answer figure will complete the pattern in the question figure?/कौन-सी उत्तर आकृति, प्रश्न आकृति में पैटर्न को पूर्ण करेगी?

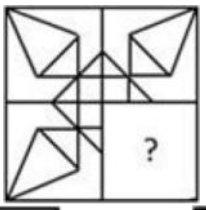

(a) 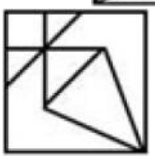
(b) 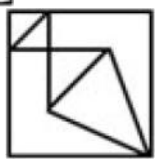
(c) 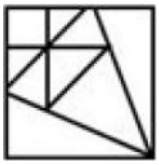
(d) 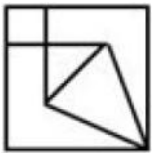

MP Police Constable Exam- 10 Jan -2022 Shift-2

Ans. (a) : विकल्प आकृति (a), दिए गए प्रश्न आकृति के पैटर्न को पूर्ण करेगी।

147. Find the missing term.
लुप्त पद ज्ञात कीजिए।

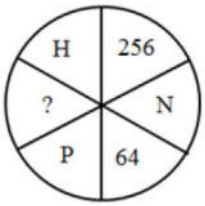

(a) 144 (b) 196
(c) 121 (d) 100

MP Police Constable Exam- 16 August-2023 Shift-2

Ans. (b) : जिस प्रकार –

$H \rightarrow 8 \Rightarrow (8)^2 = 64$

$P \rightarrow 16 \Rightarrow (16)^2 = 256$

उसी प्रकार –

$N \rightarrow 14 \Rightarrow (14)^2 = 196$

अतः ? = 196

148. Find the missing term.
लुप्त पद ज्ञात कीजिए।

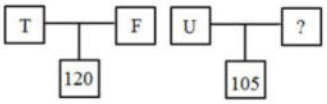

(a) E (b) L
(c) C (d) R

MP Police Constable Exam- 16 August-2023 Shift-2

Ans. (a) : जिस प्रकार –

T (20) × F (6)

⇒ 20 × 6 = 120

उसी प्रकार –

U (21) × ? = 105

21 × ? = 105

? = E (5)

अतः ? = E

149. Find the missing term.
लुप्त पद ज्ञात कीजिए।

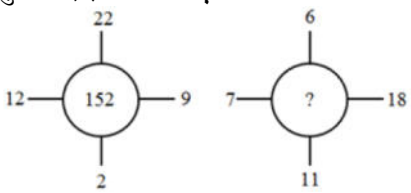

(a) 192 (b) 188
(c) 201 (d) 198

MP Police Constable Exam- 16 August-2023 Shift-2

Ans. (a) : जिस प्रकार –

12 × 9 + 22 × 2

108 + 44 = 152

उसी प्रकार –

7 × 18 + 6 × 11

126 + 66 = 192

अतः ? = 192

150. Which of the following numbers will replace the question mark (?) sign?
प्रश्नवाचक चिह्न (?) के स्थान पर निम्नलिखित में से कौन-सी संख्या आएगी?

2	**6**	**10**
22	**18**	**14**
?	**30**	**34**

(a) 26
(b) 24
(c) 28
(d) None of the above/उपर्युक्त में से कोई नहीं

MP Police Constable Recruitment (Second)Test - 2013

GET IT ON Google Play Best Study PDF के लिए हमारी App को Download करें "GK Trick By Nitin Gupta"

Ans. (a) : : जिस प्रकार –

$10 \times 2 + 14 = 34$

तथा $6 \times 2 + 18 = 30$

उसी प्रकार –

$2 \times 2 + 22 = 26$

अतः $\boxed{? = 26}$

151. Identify the figure that completes the pattern.
उस आकृति की पहचान करें जो पैटर्न को पूरा करती है।

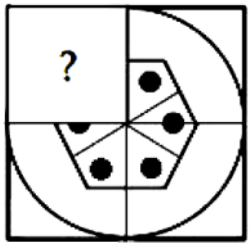

(a)
(b)
(c)
(d)

MP Police Constable Exam- 2 Sep-2023 Shift-2

Ans. (d) : प्रश्न आकृति में दिए गए पैटर्न को पूर्ण करने वाली उत्तर आकृति विकल्प (d) होगी।

152. Which answer figure will complete the pattern in the question figure?
प्रश्न आकृति में दिए गए पैटर्न को कौन सी उत्तर आकृति पूरा करेगी?

(a)
(b)
(c)
(d) 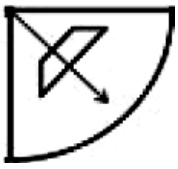

MP Police Constable Exam- 2 Sep-2023 Shift-2

Ans. (a) : प्रश्न आकृति में दिए गए पैटर्न को पूर्ण करने वाली उत्तर आकृति विकल्प (a) होगी।

153. Identify the figure that completes the pattern.
उस आकृति की पहचान करें जो पैटर्न को पूरा करती है।

(a)
(b)
(c)
(d)

MP Police Constable Exam- 5 Sep-2023 Shift-2

Ans. (c) : प्रश्न में दी गयी आकृति को देखने से स्पष्ट है कि विकल्प (c) में दी गयी आकृति प्रश्न आकृति के पैटर्न को पूरा करेगी।

154. Which answer figure will complete the pattern in the question figure ?
कौन-सी उत्तर आकृति प्रश्न आकृति में पैटर्न को पूर्ण करेगी।

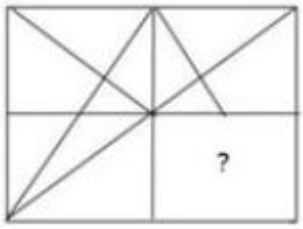

(a)
(b)
(c)
(d)

MP Police Constable Exam- 5 Sep-2023 Shift-2

Ans. (a) : दी गयी उत्तर आकृतियों से स्पष्ट है कि विकल्प (a) में दी गयी उत्तर आकृति प्रश्न आकृति में पैटर्न को पूर्ण करेगी।

155. Complete the question figure by choosing the best alternative from the answer figure.
उत्तर आकृति में से सबसे ठीक विकल्प चुनकर प्रश्न आकृति को पूरा कीजिए।

GET IT ON Google Play Best Study PDF के लिए हमारी App को Download करें "GK Trick By Nitin Gupta"

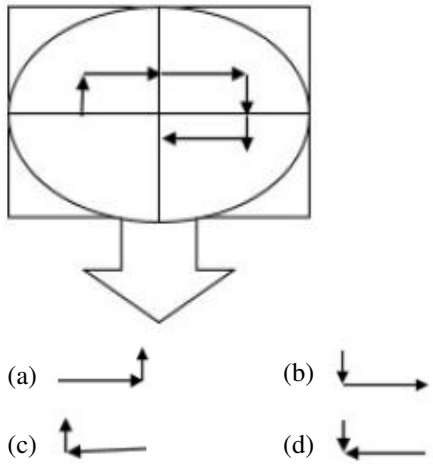

MP Police Constable Exam- 26 August-2023 Shift-3

Ans. (c) : दी गई प्रश्न आकृति को पूरा करने में विकल्प आकृति (c) सबसे ठीक है।

156. In the following question, select the related figure from the given alternatives.
निम्नलिखित प्रश्न में, दिए गए विकल्पों से सम्बन्धित आकृति का चयन करें?

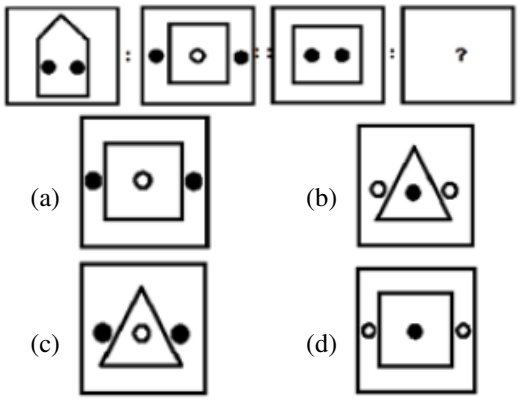

MP Police Constable Exam- 6 Sep-2023 Shift-3

Ans. (c) : जिस प्रकार पहली आकृति से दूसरी आकृति में एक रेखा की संख्या कम तथा अन्दर के दोनों काले गोले बाहर तथा अंदर एक सफेद गोला आ जाता है उसी प्रकार तीसरी आकृति से विकल्प (c) में दी गई आकृति संबंधित है।

Type-4: विविध

157. The series given below contains a sequence of alphabets and numbers. Identify the incorrect combination :
नीचे दी गई शृंखला अक्षरों एवं संख्याओं का अनुक्रम प्रयोग करती है। गलत संयोजन पहचानिये।

(a) hj1t4×7t2vuwa (b) hj1t4×7t2vuwa
(c) hj1t4×7t2vuwa (d) hj1t4×7t2uvwa

MP Police Constable Exam 19 July 2016 - 9:am

Ans : (d) दी गई शृंखला अक्षरों एवं संख्याओं में गलत संयोजन विकल्प (d) (hj1t4×7t2uvwa) है।

158. Which of the following can replace the question mark ?
निम्न में से कौन प्रश्नवाचक चिह्न को प्रतिस्थापित कर सकता है ?
?, C4E, E6I, G8O, I10U

(a) A2A (b) A2E
(c) B2A (d) B2E

MP Police Constable Exam- 28 August-2023 Shift-2

Ans. (a) : दी गई शृंखला निम्नवत् है–

A $\xrightarrow{+2}$ C $\xrightarrow{+2}$ E $\xrightarrow{+2}$ G $\xrightarrow{+2}$ I
2 $\xrightarrow{+2}$ 4 $\xrightarrow{+2}$ 6 $\xrightarrow{+2}$ 8 $\xrightarrow{+2}$ 10
A $\xrightarrow{+4}$ E $\xrightarrow{+4}$ I $\xrightarrow{+6}$ O $\xrightarrow{+6}$ U

अतः ? = A2A

159. Which of the following can replace the question mark?
निम्न में से कौन प्रश्नवाचक चिह्न को प्रतिस्थापित कर सकता है?
LM4, PQ8, TU12, XY16, ?

(a) DF20 (b) FG24
(c) BC20 (d) FG24

MP Police Constable Exam- 19 August-2023 Shift-2

Ans. (c) : दी गई अक्षर-संख्या शृंखला निम्नवत् है-

L $\xrightarrow{+4}$ P $\xrightarrow{+4}$ T $\xrightarrow{+4}$ X $\xrightarrow{+4}$ B
M $\xrightarrow{+4}$ Q $\xrightarrow{+4}$ U $\xrightarrow{+4}$ Y $\xrightarrow{+4}$ C
4 $\xrightarrow{+4}$ 8 $\xrightarrow{+4}$ 12 $\xrightarrow{+4}$ 16 $\xrightarrow{+4}$ 20

अतः ? = BC20

160. Select the letter-cluster that can replace the question mark (?) in the following series.
निम्नलिखित शृंखला में उस अक्षर-समूह का चयन करें जो प्रश्न चिह्न (?) को प्रतिस्थापित कर सकता है।
K_2, M_3, P_5, T_7, ?

(a) Y_{11} (b) Y_9
(c) X_{11} (d) X_9

MP Police Constable Exam- 19 August-2023 Shift-2

Ans. (a) : दी गई अक्षर-संख्या शृंखला निम्नवत् है-

+2 +3 +4 +5
K_2 M_3 P_5 T_7 Y_{11}
अभाज्य संख्याएं →

अतः ? = Y_{11}

161. Find the missing term.
लुप्त पद ज्ञात कीजिए।

824	951	786
?	C	F
412	317	131

(a) A (b) B
(c) C (d) D

MP Police Constable Exam- 13 August-2023 Shift-1

GET IT ON Google Play Best Study PDF के लिए हमारी App को Download करें "GK Trick By Nitin Gupta"

Ans. (b) : जिस प्रकार, और

951 786

C = 3 F = 6

317 131

↓ ↓

$\frac{951}{3} = 317$ $\frac{786}{6} = 131$

उसी प्रकार,

$\frac{824}{?} = 412$

$? = \frac{824}{412} = 2 = B$

अतः ? = B

162. Find the missing term.

लुप्त पद ज्ञात कीजिए।

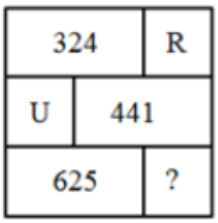

(a) Y (b) Z

(c) X (d) V

MP Police Constable Exam- 16 August-2023 Shift-1

Ans. (a) : जिस प्रकार तथा

R→ 324 4 → 441

$(18)^2 = 324$ $(21)^2 = 441$

उसी प्रकार,

$(?)^2 = 625 \Rightarrow$? = 25 → Y

अतः विकल्प (a) सही उत्तर होगा।

163. Find the missing term.

लुप्त पद ज्ञात कीजिए।

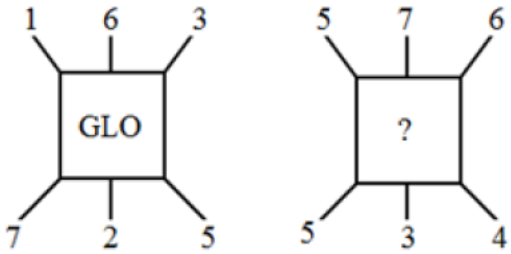

(a) YUX (b) YUD

(c) FSE (d) EWV

MP Police Constable Exam- 12 August-2023 Shift-3

Ans. (a) : जिस प्रकार,

G L O

↓ ↓ ↓

7 12 15

↓ ↓ ↓

7×1 6×2 5×3

उसी प्रकार,

Y U X

↓ ↓ ↓

25 21 24

↓ ↓ ↓

5×5 7×3 6×4

अतः ? = YUX

164. Find the missing term.

लुप्त पद ज्ञात कीजिए।

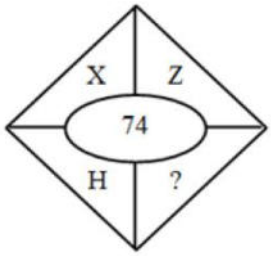

(a) I (b) T

(c) O (d) P

MP Police Constable Exam- 12 August-2023 Shift-3

Ans. (d) : X + Z + H + ? = 74

24 + 26 + 8 + ? = 74

? = 74 – 58

? = 16 = P (∵ P का संख्यात्मक मान 16 होता है)

165. What should come in place of question mark (?) in the following question?

निम्नलिखित प्रश्न में प्रश्न चिह्न (?) के स्थान पर क्या मान आना चाहिए ?

? : ZV :: IM : RN

(a) EA (b) AB

(c) IE (d) AE

MP Police Constable Exam- 23 August-2023 Shift-1

Ans. (d) : प्रश्नानुसार,

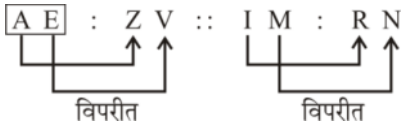

अतः ? = AE

GET IT ON Google Play Best Study PDF के लिए हमारी App को Download करें "GK Trick By Nitin Gupta"

भाग-6.

दिशा परीक्षण (Direction Test)

1. A railway network links some towns in a country such that tracks lie between M and N, between M and O, between O and R, between R and T, between R and U, between T and P and between P and S. No two tracks intersect each other except at the towns. A train can travel from P to N only in that direction and not back.

एक रेलवे नेटवर्क देश के कुछ नगरों को इस तरह से जोड़ता है कि पटरियाँ M और N के बीच, M और O के बीच, O और R के बीच, R और T के बीच, R और U के बीच, T और P के बीच और P और S के बीच स्थित हों। कोई भी दो पटरियाँ नगरों को छोड़कर कहीं भी एक दूसरे को प्रतिच्छेद नहीं करती। एक रेलगाड़ी P से N केवल इसी दिशा में यात्रा कर सकती है और पीछे की दिशा में नहीं।

For a train to go from S to N, it is necessary to go through town:

किसी रेलगाड़ी को यदि S से N की तरफ जाना है, तो इस शहर से जाना जरूरी है:

(a) M (b) P
(c) R (d) T

MP Police Constable Exam- 18 July-2016 - 9: am

Ans : (b) प्रश्नानुसार,

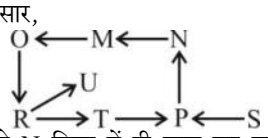

चूँकि रेलगाड़ी P से N दिशा में ही यात्रा कर सकती है। अतः यदि रेलगाड़ी को S से N की तरफ जाना है तो इसे P शहर से जाना जरुरी है।

2. A man walks 4 km in the east direction takes a left turn and walks 4 km. He again turns left and walks 4 km. Accordingly, towards which direction is he facing?/एक व्यक्ति 4 किलोमीटर पूर्व दिशा में चलकर बाएं मुड़ता है और 4 किलोमीटर चलता है। वह पुनः बाएं मुड़कर 4 किलोमीटर चलता है। तदानुसार, वह किस दिशा की ओर उन्मुख है?

(a) East/पूर्व (b) West/पश्चिम
(c) North/उत्तर (d) South/दक्षिण

MP Police Constable Exam- 20 August-2023 Shift-2

Ans. (b) : प्रश्नानुसार, व्यक्ति के चलने का क्रम निम्नवत् है-

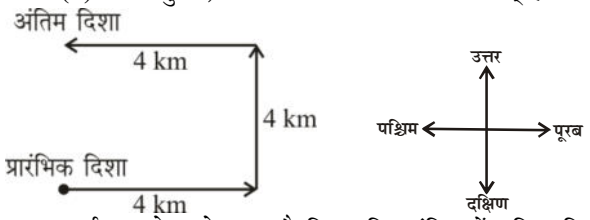

अतः उपर्युक्त आरेख से स्पष्ट है कि व्यक्ति अंतिम में पश्चिम दिशा की ओर उन्मुख है।

3. Tom walks 15 km towards the south and then turn to the right. After walking 9 km he turns to the left and walks 15 km. What direction is the facing right now?

टॉम दक्षिण की ओर 15 किमी चलता है और फिर दाईं ओर मुड़ता है। 9 किमी चलने के बाद वह बाईं ओर मुड़ता है और 15 किमी चलता है। अब उसका मुख किस दिशा की ओर है?

(a) North-East/उत्तर-पूर्व
(b) South-west/दक्षिण-पश्चिम
(c) South/दक्षिण
(d) West/पश्चिम

MP Police Constable Exam- 16 August-2023 Shift-2

Ans. (c) : प्रश्नानुसार, टॉम का दिशा आरेख बनाने पर-

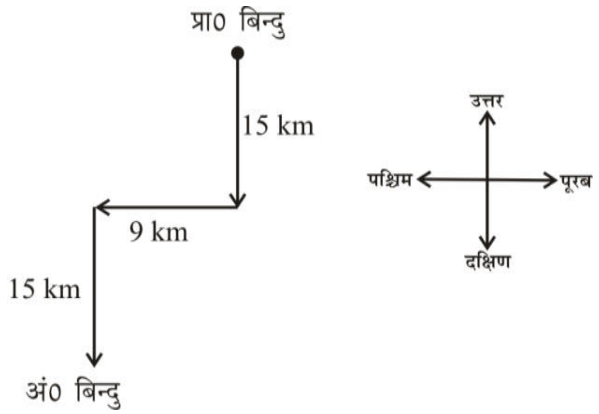

उपर्युक्त आरेख से स्पष्ट है कि अंतिम रूप से टॉम का मुख द0 दिशा में होगा। अतः विकल्प (c) सही उत्तर होगा।

4. Neha walks from her home. She first walks 35 m in north-west direction and then 35m in south-west direction. Next she walks 35 m in south-east direction. Her home is in which direction from her current position?

नेहा अपने घर से चलती है। वह पहले उत्तर-पश्चिम दिशा में 35 मीटर चलती है और फिर दक्षिण-पश्चिम दिशा में 35 मीटर चलती है। इसके बाद वह दक्षिण-पूर्व दिशा में 35 मीटर चलती है। उसका घर उसकी वर्तमान स्थिति से किस दिशा में है?

(a) South-West/दक्षिण-पश्चिम
(b) North-East/उत्तर-पूर्व
(c) North–West/उत्तर-पश्चिम
(d) South- East/दक्षिण-पूर्व

MP Police Constable Exam- 16 August-2023 Shift-2

GET IT ON Google Play Best Study PDF के लिए हमारी App को Download करें "GK Trick By Nitin Gupta"

Ans. (b) : प्रश्नानुसार,
नेहा का गमन पथ निम्नवत् है-

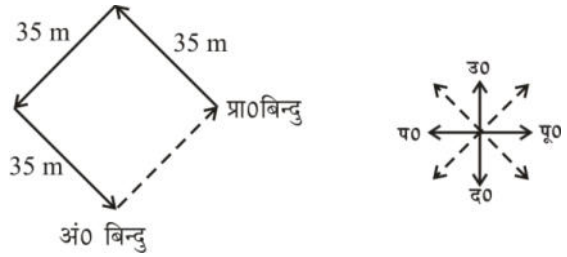

उपर्युक्त आरेख से स्पष्ट है कि नेहा का घर उसकी वर्तमान स्थिति से उत्तर-पूर्व दिशा में है। अतः विकल्प (b) सही उत्तर होगा।

5. A girl walks 6 km to the east and then turns to the South and walks 5 km. Now again she turns to the east and walks 6 km. Then again, she turns northwards and walks 10 km. How far is she now from her starting point?
एक लड़की पूर्व की ओर 6 कि.मी चलती है और फिर दक्षिण की ओर मुड़ती है और 5 कि.मी चलती है। अब फिर से वह पूर्व की ओर मुड़ती है और 6 कि.मी चलती है। फिर, वह उत्तर की ओर मुड़ती है और 10 कि.मी चलती है। अब वह अपने शुरुआती बिंदु से कितनी दूरी पर है?

(a) 16 km/ कि.मी (b) 13 km/कि.मी
(c) 8 km/ कि.मी (d) 10 km/कि.मी

MP Police Constable Exam- 16 August-2023 Shift-2

Ans. (b) : प्रश्नानुसार,
लड़की का गमन पथ आरेख निम्नवत् है-

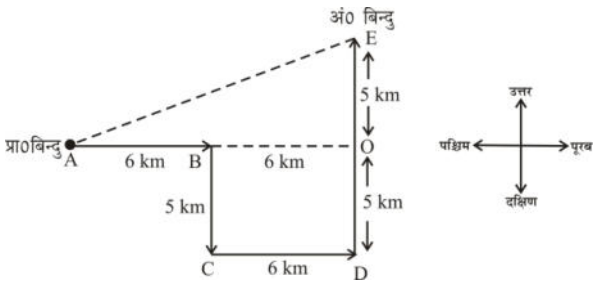

अभीष्ट दूरी $= \sqrt{(12)^2 + (5)^2}$
$= \sqrt{144 + 25}$
$= \sqrt{169}$
$= 13$ km

6. A man walks 5 km towards East, then he turns to his right and walks 4 km, then he turns to his left and walks 5 km. In which direction is he walking now?
एक आदमी पूर्व की ओर 5 किमी चलता है, फिर वह अपने दायें मुड़ता है और 4 किमी चलता है, फिर वह अपनी बाईं ओर मुड़ता है और 5 किमी चलता है। वह आदमी अब किस दिशा में चल रहा है?

(a) East/पूर्व (b) West/पश्चिम
(c) North/उत्तर (d) South/दक्षिण

MP Police Constable Exam- 16 August-2023 Shift-2

Ans. (a) : प्रश्नानुसार, आदमी का गमन पथ आरेख बनाने पर,

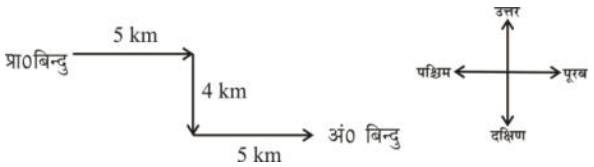

उपर्युक्त दिशा आरेख से स्पष्ट है कि आदमी अंतिम रूप से पूर्व दिशा की ओर चल रहा है।
अतः विकल्प (a) सही उत्तर होगा।

7. Tilak walked towards the east and reached a crossing. He wants to go to university. The road in front of him leads to the market. The road to its left leads to the national park. In which direction is the university?
तिलक पूर्व की ओर चलकर एक चौराहा (क्रॉसिंग) पर पहुंचा। वह विश्वविद्यालय जाना चाहता है। उसके सामने वाली सड़क बाजार जाती है। उसके बाईं ओर वाली सड़क राष्ट्रीय पार्क की ओर जाती है। किस दिशा में विश्वविद्यालय है?

(a) West/पश्चिम (b) East/पूर्व
(c) South/दक्षिण (d) North/उत्तर

MP Police Constable Exam- 21 August-2023 Shift-2

Ans. (c) : तिलक का गमन पथ निम्नवत् है-

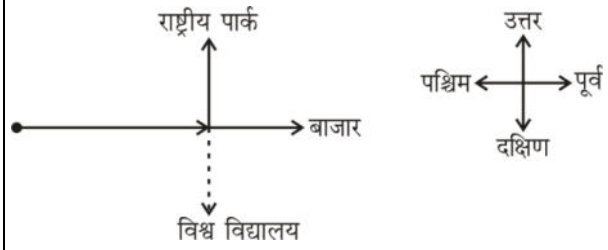

अतः उपर्युक्त से स्पष्ट है कि विश्वविद्यालय चौराहा से दक्षिण दिशा में है।

8. Ram walks 4 km north of his house, then 3 km west, then 8 km south. How many kilometers was he from his house?
राम अपने घर से 4 किलोमीटर उत्तर की ओर जाता है, फिर 3 किलोमीटर पश्चिम की ओर जाता है, फिर 8 किलोमीटर दक्षिण की ओर जाता है। वह अपने घर से कितने किलोमीटर दूर था?

(a) 6 km/ कि.मी. (b) 7 km/ कि.मी.
(c) 5 km/ कि.मी. (d) 4 km/ कि.मी.

MP Police Constable Exam- 21 August-2023 Shift-3

GET IT ON Google Play Best Study PDF के लिए हमारी App को Download करें "GK Trick By Nitin Gupta"

Ans. (c) : राम का गमनपथ निम्नवत् है-

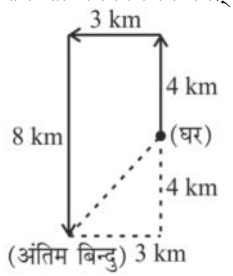

घर से अंतिम बिन्दु की दूरी $= \sqrt{4^2 + 3^2}$

$= \sqrt{16+9}$

$= \sqrt{25}$

$= 5$ km

9. One morning Ram and Shyam were talking to each other face to face at a crossing. If Shyam's shadow was exactly to the left of Ram, then which direction was Ram facing?

एक सुबह राम और श्याम एक-दूसरे का सामना करते हुए एक चौराहे पर बात कर रहे थे। अगर श्याम की छाया राम के ठीक बायीं तरफ थी, तो राम का चेहरा किस दिशा में था?

(a) East/पूर्व (b) West/पश्चिम

(c) North/उत्तर (d) South/दक्षिण

MP Police Constable Recruitment Test - 2013

Ans. (c) : प्रश्नानुसार,



उपर्युक्त से स्पष्ट है कि राम का मुख उत्तर दिशा में है। अतः विकल्प (c) सही उत्तर होगा।

10. If Ram is to the south of Shyam and Naresh is to the east of Shyam, then in which direction is Ram with respect to Naresh?

यदि राम, श्याम के दक्षिण में है और नरेश, श्याम के पूर्व में है, तो नरेश के सापेक्ष राम किस दिशा में है?

(a) South-East/दक्षिण-पूर्व

(b) South-West/दक्षिण-पश्चिम

(c) West/पश्चिम

(d) North-East/उत्तर-पूर्व

MP Police Constable Recruitment (Second)Test - 2013

Ans. (b) : प्रश्नानुसार,

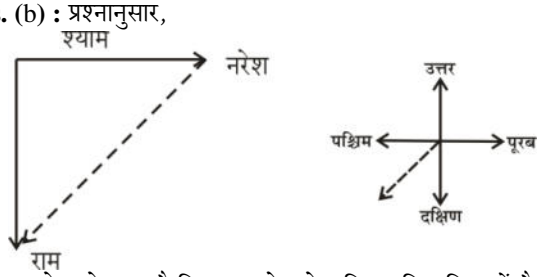

उपर्युक्त आरेख से स्पष्ट है कि राम, नरेश के दक्षिण-पश्चिम दिशा में है। अतः विकल्प (b) सही उत्तर होगा।

11. Seema walks 75 metres towards east; she turns to the left and walks 25 metres. Again she turns to the left and a distance of 40 metres; again she turns to the left and walks a distance of 25 metres. How far is she from the starting point?

सीमा 75 मीटर पूर्व की तरफ चलने के पश्चात् बायीं तरफ मुड़कर 25 मीटर चलती है। पुनः वह बायीं तरफ मुड़कर 40 मीटर चलती है और फिर बायीं तरफ मुड़कर 25 मीटर चलती है। अब वह अपने प्रारम्भिक बिन्दु से कितनी दूरी पर है?

(a) 35 metres/मीटर (b) 25 metres/ मीटर

(c) 90 metres/ मीटर (d) 165 metres/ मीटर

MP Police Constable Recruitment (Second)Test - 2013

Ans. (a) : प्रश्नानुसार,

सीमा का गमन पथ आरेख निम्नवत् है-

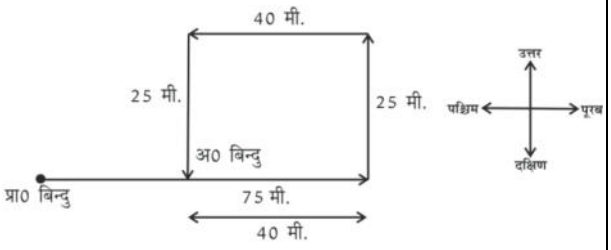

अभीष्ट दूरी $= 75 - 40$

$= 35$ मी0

अतः विकल्प (a) सही उत्तर होगा।

12. Kokila turned 45 degrees right, then 90 degrees left and then 45 degrees right and is now moving towards east. Which direction she was heading in before?

कोकिला दाहिने 45 डिग्री मुड़ी, फिर 90 डिग्री बाएं मुड़ी और फिर 45 डिग्री दाहिने मुड़ी अब पूर्व की ओर बढ़ रही है। किस दिशा में वह पहले जा रही थी?

(a) North/उत्तर (b) South/दक्षिण

(c) East/पूरब (d) West/पश्चिम

Ans : (c) माना कोकिला पूर्व दिशा में पहले जा रही थी।

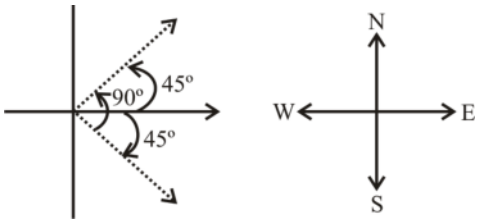

इससे स्पष्ट है कि वह प्रारम्भ में पूरब दिशा की ओर जा रही थी।

13. Vinit and Amit are walking towards each other, when they were 2km apart from each other they turned to their respective rights and walked for 4km each. Then they turned to respective left and walked for 4km again. Find the distance between them?

GET IT ON Google Play Best Study PDF के लिए हमारी App को Download करें "GK Trick By Nitin Gupta"

विनित और अमित एक दूसरे की ओर चल रहे हैं, जब वे एक दूसरे से 2 कि.मी. की दूरी पर थे तो वे अपने संबंधित दाईं ओर मुड़ गए और प्रत्येक ने 4 कि.मी. की दूरी तय की। फिर वे अपनी बाईं ओर मुड़ते हैं ओर पुनः 4 कि.मी. की दूरी तय करते हैं। उनके बीच की दूरी ज्ञात करें?

(a) $8\sqrt{2}$ km / कि.मी. (b) $4\sqrt{5}$ km /कि.मी.

(c) 10 km/ कि.मी. (d) 8 km/ कि.मी.

MP Police Constable Exam- 02 Feb-2022 Shift-1

Ans. (c) : प्रश्नानुसार,

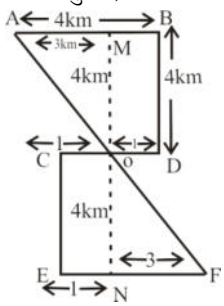

BD = MO = 4km

CE = ON = 4km

AM = AB – 1

AM = 3km

तथा

FN = E F – 1

FN = 3km

विनित तथा अमित के बीच की दूरी = AO + OF

$= \sqrt{AM^2 + OM^2} + \sqrt{ON^2 + FN^2}$

$= \sqrt{3^2 + 4^2} + \sqrt{4^2 + 3^2}$

$= \sqrt{25} + \sqrt{25}$

= 5 + 5

= 10 km.

14. Two friends Ram and Shyam are standing under the clear sky in the morning. Ram's shadow is falling directly on Shyam's back. In which direction Shyam is facing?

दो मित्र- राम और श्याम सुबह साफ़ आसमान के नीचे खड़े हैं। राम की छाया, श्याम के पीछे पड़ रही है। श्याम किस दिशा के सम्मुख है?

(a) North/उत्तर (b) South/दक्षिण

(c) East/पूर्व (d) West/पश्चिम

MP Police Constable Exam- 09 Feb-2022 Shift-1

Ans. (d) : प्रश्नानुसार,

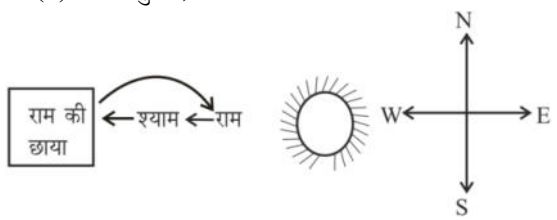

स्पष्ट है कि श्याम पश्चिम दिशा के सम्मुख है।

15. If bad implies going north, and its bad, then it's not going north.

यदि खराब का अर्थ है उत्तर की ओर जाना, और यह खराब है, तो यह उत्तर की ओर नहीं जा रहा है।

(a) True/सही

(b) False/गलत

(c) May be/हो सकता है

(d) Irrelevant/अप्रासंगिक

MP Police Constable Exam 23 July 2016 - 9:am

Ans : (b) चूँकि खराब का अर्थ है उत्तर की ओर जाना।
और यह खराब है, तो यह उत्तर की ओर नहीं जा रहा है, यह कथन गलत है।

16. At sunrise, Ravi and Sachin are having a conversation standing in front of each other. The shadow of Sachin is formed towards the right hand of Ravi. What direction is Sachin facing ?

सूर्योदय के समय, रवि और सचिन एक दूसरे के सामने खड़े होकर बातचीत कर रहे हैं। सचिन की परछाई रवि के दाहिने हाथ की ओर बनी है। सचिन का मुख किस दिशा की ओर है ?

(a) North-West/उत्तर-पश्चिम

(b) South/दक्षिण

(c) North/उत्तर

(d) West/पश्चिम

MP Police Constable Exam- 3 Sep-2023 Shift-1

Ans. (c) : प्रश्नानुसार,

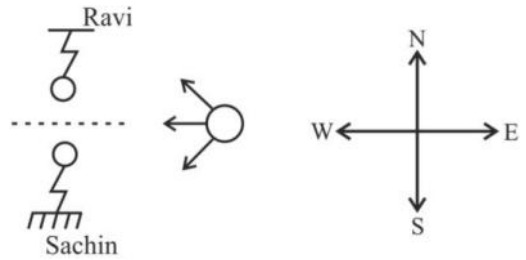

उपर्युक्त से स्पष्ट है कि सचिन का मुख उत्तर दिशा की ओर है।

17. If south-east direction becomes North and North-east becomes West and all the rest directions are changed in the same manner. What will be the direction for the west?

यदि दक्षिण-पूर्व दिशा उत्तर हो जाती है और उत्तर-पूर्व पश्चिम हो जाती है और बाकी सभी दिशाओं को उसी तरह बदल दिया जाता है। पश्चिम की दिशा क्या होगी?

(a) South/दक्षिण

(b) South-east/दक्षिण-पूर्व

(c) South-West/दक्षिण-पश्चिम

(d) North-West/उत्तर-पश्चिम

MP Police Constable Exam- 3 Sep-2023 Shift-1

GET IT ON Google Play Best Study PDF के लिए हमारी App को Download करें "GK Trick By Nitin Gupta"

Ans. (b) : प्रश्नानुसार दक्षिण-पूर्व दिशा से 225° दक्षिणावर्त घूमने पर उत्तर हो जाता है और उत्तर-पूर्व से 225° घूमने पर पश्चिम हो जाता है ठीक उसी प्रकार पश्चिम दिशा से 225° दक्षिणावर्त घूमने पर दक्षिण-पूर्व दिशा प्राप्त होगी।

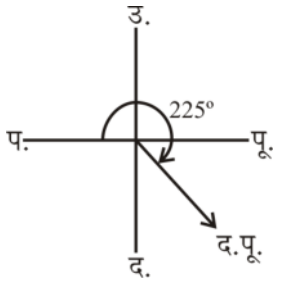

अतः विकल्प (b) सही उत्तर होगा।

18. Mr. Dabolkar starts from his house and travels 14 km towards north and then turns left and travels 30 km. He then turns right and travel 2 km followed by another right turn and travel 6 km. Finally, he travels 9 km southwards. In which direction is the starting point from the final point?

श्री दाबोलकर अपने घर से शुरू करता है और उत्तर की ओर 14 किमी चलता है और फिर बाएं मुड़ता है और 30 किमी चलता है। फिर वह दाएँ मुड़ता है और 2 किमी चलता है, उसके बाद फिर दाएँ मुड़ता है और 6 किमी चलता है। अंत में, वह 9 किमी दक्षिण की ओर चलता है। अंतिम बिंदु से आरंभिक बिंदु किस दिशा में है?

(a) North-east/उत्तर-पूर्व
(b) North-west/उत्तर-पश्चिम
(c) South-east/दक्षिण-पूर्व
(d) South-west/दक्षिण-पश्चिम

MP Police Constable Exam- 20 August-2023 Shift-1

Ans. (c) : प्रश्नानुसार,

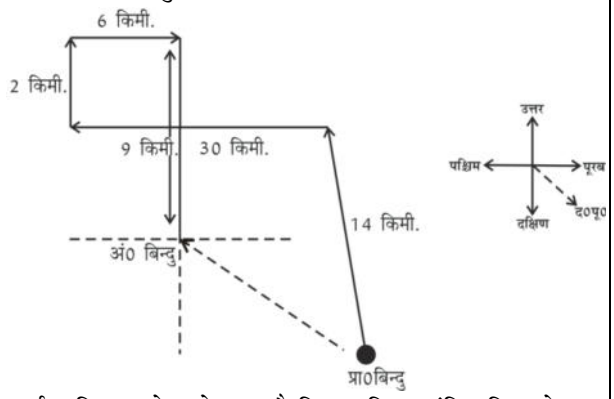

उपर्युक्त दिशा आरेख से स्पष्ट है कि प्रा0बि0, अंतिम बिन्दु से द0-पू0 दिशा में है। अतः विकल्प (c) सही उत्तर होगा।

19. Raman walks 10 m West, then he turns to his left and walks 10 m. Then he takes a right turn and walks 5m and again he takes a right turn and walks 15m. If at last he turns right, then in which direction is he going now?

रमन 10 मीटर पश्चिम में चलता है, तब वह अपने बाएं मुड़कर 10 मीटर चलता है। फिर वह दाएं मुड़कर 5 मीटर चलता है तथा वह पुनः दाएं मुड़ कर 15 मीटर चलता है। यदि अंत में वह दाएं मुड़ता है, तो वह अब किस दिशा में जा रहा है?

(a) North/उत्तर (b) West/पश्चिम
(c) South/दक्षिण (d) East/पूर्व

MP Police Constable Exam- 20 August-2023 Shift-1

Ans. (d) : प्रश्नानुसार, रमन का गमन पथ निम्नवत् है-

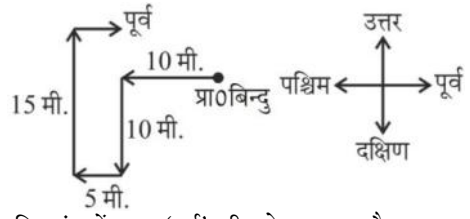

अतः स्पष्ट कि अंत में रमन 'पूर्व' की ओर जा रहा है।

20. Arun travels 8 km in the north direction. After this he turns left and goes 3 km and then turns right and goes 4 km. Finally turns right and goes 3 km. Accordingly, how far does he reach from his point of departure?

अरुण उत्तर दिशा में 8 किलोमीटर की यात्रा करता है। इसके बाद बाएं मुड़कर 3 किलोमीटर जाता है और फिर दाएं मुड़कर 4 किलोमीटर और जाता है। अंततः दाएं मुड़कर 3 किलोमीटर और जाता है। तदानुसार, वह अपने प्रस्थान-बिंदु से कितनी दूर पहुंच जाता है?

(a) 18 km/ कि.मी. (b) 11 km/ कि.मी.
(c) 12 km/ कि.मी. (d) 15 km/ कि.मी.

MP Police Constable Exam- 20 August-2023 Shift-3

Ans. (c) : अरुण के चलने का क्रम निम्न है-

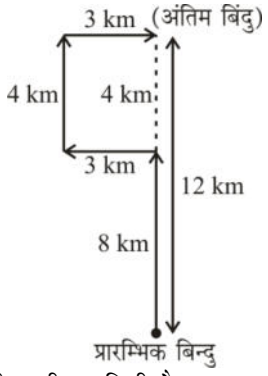

अतः अभीष्ट दूरी 12 किमी है।

21. After travelling 8 km, I turned right and travelled 3 km, then turned right and covered a distance of 2 km. now I am moving towards west. In which direction did I start my journey?

8 किमी की यात्रा करने के बाद, मैं दाएँ मुड़ा और 3 किमी की यात्रा की, फिर दाएँ मुड़ा और 2 किमी की दूरी तय की। अब मैं पश्चिम की ओर बढ़ रहा हूँ। मैंने अपनी यात्रा किस दिशा में शुरू की?

(a) North/उत्तर (b) South/दक्षिण
(c) East/पूर्व (d) West/पश्चिम

MP Police Constable Exam- 18 August-2023 Shift-3

GET IT ON Google Play Best Study PDF के लिए हमारी App को Download करें "GK Trick By Nitin Gupta"

Ans. (c) : मेरा गमन पथ इस प्रकार है-

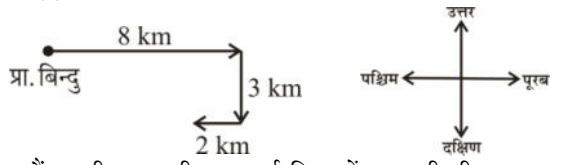

अतः मैं अपनी शुरुआती यात्रा पूर्व दिशा में शुरू की थी।

22. The city D is located to the west of city M. The city R is situated to the south of the city D. City K is located to the east of city R. Which direction is city K with respect to city D?
शहर D, शहर M के पश्चिम में स्थित है। शहर R, शहर D के दक्षिण में स्थित है। शहर K, शहर R के पूर्व में स्थित है। शहर D के संबंध में शहर K किस दशा में है?

(a) South/दक्षिण (b) East/पूर्व
(c) North-East/उत्तर-पूर्व (d) South-East/दक्षिण-पूर्व

MP Police Constable Exam- 18 August-2023 Shift-3

Ans. (d) : प्रश्नानुसार शहरों की स्थिति इस प्रकार स्थित है-

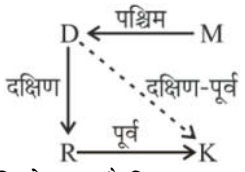

अतः शहरों की स्थिति से स्पष्ट है कि शहर K, शहर D के दक्षिण-पूर्व में स्थित है।

23. Prakash travelled 6 km in the north direction. Then turning left and traveling for 4 kms and again turning left and traveling for 6 kms. Accordingly, how far did Prakash reach from his
प्रकाश ने 6 किलोमीटर की यात्रा उत्तर दिशा में की। फिर बांए मुड़कर 4 किलोमीटर और पुनः बाएं मुड़कर 6 किलोमीटर के यात्रा की। तदानुसार, अपने प्रस्थान बिंदु से प्रकाश कितनी दूर पहुंच गया?

(a) 6 km/किलोमीटर (b) 4 km/ किलोमीटर
(c) 10 km/ किलोमीटर (d) 8 km/ किलोमीटर

MP Police Constable Exam- 18 August-2023 Shift-3

Ans. (b) : प्रश्नानुसार, गमन पथ इस प्रकार है-

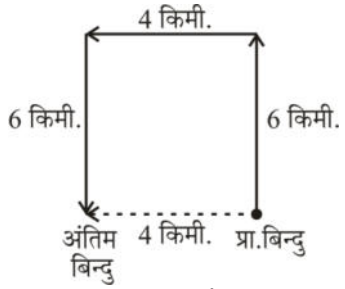

अतः स्पष्ट है कि प्रकाश प्रारम्भिक बिन्दु से 4 किमी. दूर पहुँच गया है।

24. Shweta, starting from point P walked straight 10 m west, then turned right and walked 12 m and again turned right and walked straight 16 m. From there, she walked straight 20m south. At what (shortest) distance is she standing from point P?
श्वेता बिंदु P से पश्चिम दिशा में 10m चलती है फिर दाएँ मुड़कर 12m चलती है और फिर दाएँ मुड़कर 16m चलती है। वहां से, वह दक्षिण की ओर 20m चलती है। उसके और बिंदु P के बीच की न्यूनतम दूरी कितनी है?

(a) 12m/मी. (b) 10m /मी.
(c) 8m/मी. (d) 14m/मी.

MP Police Constable Exam- 11 Sep-2023 Shift-3

Ans. (b) : दिया गया दिशा आरेख निम्नवत् है-

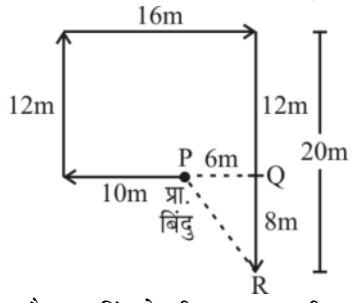

उसके (R) और (P) बिंदु के बीच न्यूनतम् दूरी

$= \sqrt{(PQ)^2 + (QR)^2}$

$= \sqrt{(6)^2 + (8)^2}$

$= \sqrt{36 + 64}$

$= \sqrt{100}$

= 10 मीटर

25. Harry Potter hit the magic ball that can change directions on its own. It travelled 5 km towards east, turned left and travelled 20 km. Then, it turned right, travelled 11 km and then 20 km southwards. How far is the ball from Harry Potter?
हैरी पॉटर ने जादू की गेंद को मारा जो अपने आप दिशा बदल सकती है। इसने पूर्व की ओर 5 किमी की यात्रा की, बाएं मुड़कर 20 किमी की यात्रा की। फिर, यह दायें मुड़ती है, 11 किमी चलती है और फिर 20 किमी दक्षिण की ओर जाती है। हैरी पॉटर से गेंद कितनी दूर है?

(a) 21 km/ किमी (b) 12 km/ किमी
(c) 16 km/ किमी (d) 11 km/ किमी

MP Police Constable Exam- 19 August-2023 Shift-3

Ans. (c) : प्रश्नानुसार,

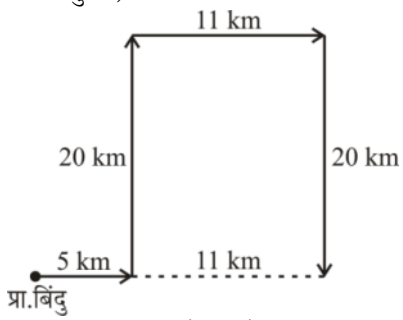

अतः उपर्युक्त आरेख से स्पष्ट है कि हैरी पॉटर से गेंद की दूरी = 5 + 11 = 16 km

GET IT ON Google Play Best Study PDF के लिए हमारी App को Download करें "GK Trick By Nitin Gupta"

26. Ashok starts walking from point P and goes 5 km towards East, from the same point Bharat starts walking and goes 5 km in the opposite direction, again Ashok turns left and Bharat goes right and walks 5 km, so now, what is the distance between them?

अशोक बिंदु P से चलना शुरू करता है और 5 किमी पूर्व की ओर चलता है, उसी बिंदु से भरत चलना शुरू करता है और विपरीत दिशा में 5 किमी चलता है, फिर से अशोक बाईं ओर मुड़ता है और भरत दाईं ओर जाता है और 5 किमी चलता है, तो अब, उनके बीच की दूरी क्या है?

(a) 10 km/ किमी (b) 15 km/ किमी
(c) 5 km/ किमी (d) 20 km/ किमी

MP Police Constable Exam- 19 August-2023 Shift-3

Ans. (a) : प्रश्नानुसार गमन पथ का आरेख निम्नवत् है-

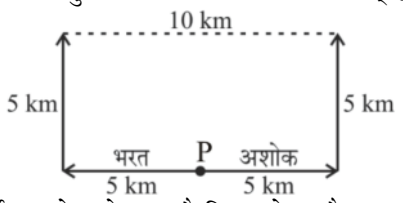

अतः उपर्युक्त आरेख से स्पष्ट है कि अशोक और भरत के बीच 10 km की दूरी है।

27. Lokesh walks 15 km north of his house. Then he turns towards the West and covers a distance of 10 km. After that, he turns towards the South and covers a distance of 5 km. Finally, he turns towards the East and covers a distance of 10 km. What distance is he from his house now?

लोकेश अपने घर से 15 किलोमीटर उत्तर की ओर जाता है। फिर वह पश्चिम की ओर मुड़ जाता है और 10 किलोमीटर दूरी तय करता है। इसके बाद वह दक्षिण की ओर मुड़ जाता है और 5 किलोमीटर दूरी तय करता है। अंत में वह पूर्व की ओर मुड़ जाता है और 10 किलोमीटर दूरी तय करता है। अब वह अपने घर से कितनी दूरी पर है?

(a) 15 km/ किलोमीटर
(b) 10 km/ किलोमीटर
(c) 20 km/ किलोमीटर
(d) 30 km/ किलोमीटर

MP Police Constable Exam- 19 August-2023 Shift-3

Ans. (b) : प्रश्नानुसार लोकेश का यात्रा आरेख निम्नवत् है-

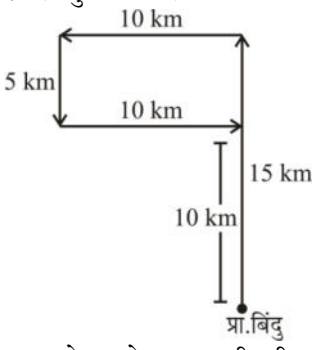

अतः लोकेश अपने घर से 10 km की दूरी पर है।

28. N walks 10 m to west, turns left and walks 10 m and again turns left and walks 10 m. What is the direction he is facing now ?

N पश्चिम दिशा की ओर 10 मी. चलता है। फिर बायें मुड़ता है और 10 मी. चलता है तथा फिर वह तुरन्त बायें मुड़ता है और 10 मी. चलता है। अब वह किस दिशा की ओर देख रहा है ?

(a) East/पूर्व
(b) South-east/दक्षिण-पूर्व
(c) North-West/उत्तर-पश्चिम
(d) South/दक्षिण

MP Police Constable Exam- 3 Sep-2023 Shift-2

Ans. (a) : प्रश्नानुसार, दिशा आरेख निम्न है–

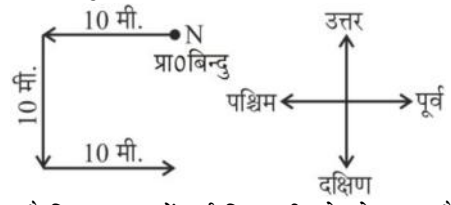

अतः स्पष्ट है कि N अन्त में पूर्व दिशा की ओर देख रहा है।

29. Patel starts from his house and travels 8 km toward north. Then he turns right, travels 2 km, then turns right again and travels 3 km and then travels 3 km towards east. Finally, he starting point? (In kilometers)

पटेल अपने घर से चलना शुरू करता है और उत्तर की ओर 8 किमी चलता है। फिर वह दायें मुड़ता है, 2 किमी चलता है, फिर दायें मुड़ता है और 3 किमी चलता है और फिर 3 किमी पूर्व की ओर यात्रा करता है। अन्ततः वह अपने घर से कितनी दूर है? (किलोमीटर में)

(a) 8 (b) 7.07
(c) 5 (d) 0

MP Police Constable Exam- 17 August-2023 Shift-3

Ans. (b) : प्रश्नानुसार दिशा-दूरी आरेख बनाने पर

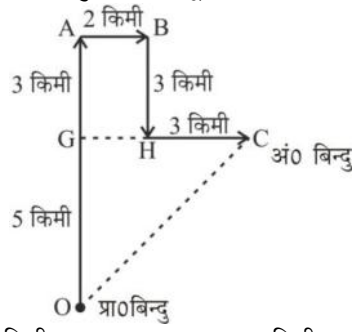

OG = 5 किमी, GC = 2 + 3 = 5 किमी

$\therefore (OC)^2 = (OG)^2 + (GC)^2$

$= (5)^2 + (5)^2$

$= 25 + 25$

$= \sqrt{50}$

$OC = 5\sqrt{2}$

$= 5 \times 1.414$

$= 7.070$

उपर्युक्त विश्लेषण से स्पष्ट है कि परिणामतः वह अपने घर से 7 किमी दूर है।

GET IT ON Google Play Best Study PDF के लिए हमारी App को Download करें "GK Trick By Nitin Gupta"

30. Ratan is walking in the east, after walking a few distances he turned to his left and walked 28m and took a left turn and walked 58m, now he again took a left turn and walked 28m by traveling 26m. Find the distance which was traveled by Ratan initially?

रतन पूर्व की ओर चलता है, कुछ दूरी चलने के बाद वह अपनी बाईं ओर मुड़ता है और 28 मीटर चलता है और बायां मोड़ लेता है और 58 मीटर चलता है, अब वह फिर से बायां मोड लेता है और 28 मीटर चलता है और बायां मोड़ लेता है और 26 मीटर चलता है आरंभ में रतन द्वारा तय की गई दूरी ज्ञात करें?

(a) 42 m/ मीटर (b) 28 m/ मीटर
(c) 32 m/ मीटर (d) 21 m/ मीटर

MP Police Constable Exam- 17 August-2023 Shift-3

Ans. (c) : प्रश्नानुसार दिशा-दूरी आरेख बनाने पर

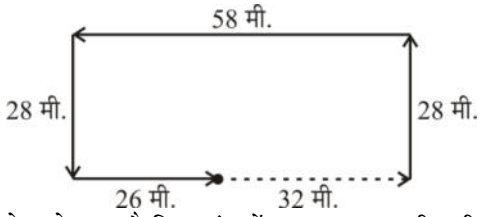

उपर्युक्त आरेख से स्पष्ट है कि आरंभ में रतन द्वारा तय की गयी दूरी 32 मी. है।

31. Wasim walked 30 meters south. He turned left and travelled 50 meters. He turned left again and walked for 30 minutes. How far he is from the starting point?

वसीम दक्षिण की ओर 30 मीटर चला। वह बायें मुड़ा और 50 मीटर की यात्रा की। वह फिर बायें मुड़ा और 30 मीटर तक चला। वह प्रारंभिक बिंदु से कितनी दूर है?

(a) 80 meters/ मीटर
(b) 100 meters/मीटर
(c) 130 meters/मीटर
(d) 50 meters/मीटर

MP Police Constable Exam- 17 August-2023 Shift-3

Ans. (d) : प्रश्नानुसार दिशा-दूरी आरेख बनाने पर–

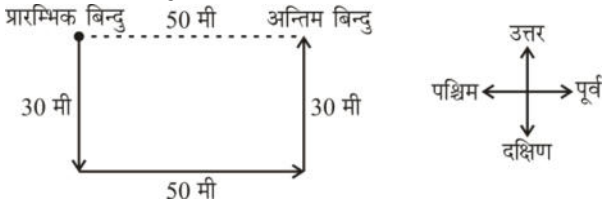

उपर्युक्त आरेख से स्पष्ट है कि वसीम अपने प्रारम्भिक बिन्दु से 50 मी. पूर्व में है।

32. A school bus driver goes 2 kilometers north from the school, turns left and travels 5 kilometers, then turns left and travels 8 kilometers. After there, he turns left and travels 5 kilometers should he return to the school, Then in which direction and how much distance will have to go to reach at school ?

एक स्कूल बस चालक स्कूल से 2 किलोमीटर उत्तर की ओर जाता है, बाएं मुड़ता है और 5 किलोमीटर की यात्रा करता है, फिर बाएं मुड़ता है और 8 किलोमीटर की यात्रा करता है। वहाँ के बाद, वह बाएँ मुड़ता है और रुकने से पहले 5 किलोमीटर लौटना चाहिए, तब बस चालक को स्कूल पहुँचने के लिए कितनी दूरी तथा किस दिशा में चलना पड़ेगा।

(a) 3 km Towards North / किलोमीटर उत्तर की ओर
(b) 7 km Towards East / किलोमीटर पूर्व की ओर
(c) 6 km Towards South / किलोमीटर दक्षिण की ओर
(d) 6 km Towards North / किलोमीटर उत्तर की ओर

MP Police Constable Exam- 17 August-2023 Shift-3

Ans. (d) : प्रश्नानुसार दिशा-दूरी आरेख बनाने पर–

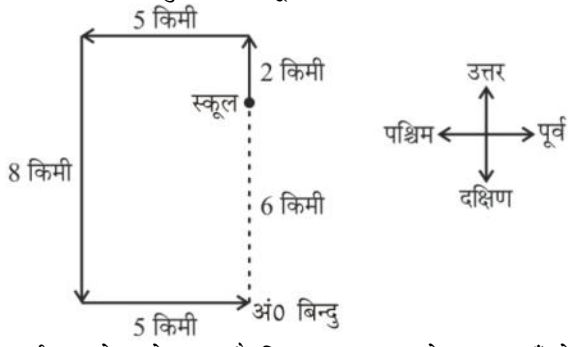

उपर्युक्त आरेख से स्पष्ट है कि बस चालक को स्कूल पहुँचने के लिए 6 किमी उत्तर की ओर चलना चाहिए।

33. Pointing to a woman, Venus said, "She is the second daughter of the only child of my grandmother". How is the woman related to Venus.

एक महिला की ओर इशारा करते हुए, वीनस ने कहा, ''वह मेरी नानी की एकमात्र संतान की दूसरी बेटी है''। स्त्री का वीनस से क्या संबंध है?

(a) Wife/पत्नी (b) Niece/भतीजी
(c) Sister/बहन (d) Mother/मां

MP Police Constable Exam- 11 Sep-2023 Shift-2

Ans. (c) : प्रश्नानुसार,
रक्त संबंध आरेख बनाने पर-

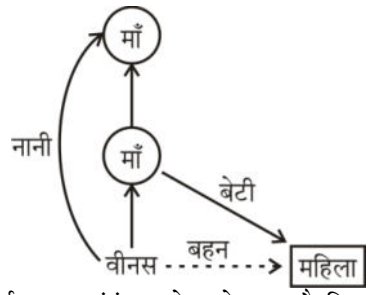

अतः उपर्युक्त रक्त संबंध आरेख से स्पष्ट है कि महिला वीनस की बहन है।
अतः विकल्प (c) सही उत्तर होगा।

34. Rajesh travelled in the following path.12 km towards south-west of house followed by 12 km towards north-west, then 12 km towards north-east followed by 12 km towards south-east. How far is he now from his starting point?

GET IT ON Google Play Best Study PDF के लिए हमारी App को Download करें "GK Trick By Nitin Gupta"

राजेश ने निम्नलिखित पथ में यात्रा की। घर के दक्षिण-पश्चिम की ओर 12 किमी और उसके बाद उत्तर-पश्चिम की ओर 12 किमी, फिर उत्तर-पूर्व की ओर 12 किमी और उसके बाद दक्षिण-पूर्व की ओर 12 किमी यात्रा की। अब वह अपने आरंभिक बिंदु से कितनी दूरी है?

(a) 33 km/ किमी (b) 12 km/ किमी
(c) 0 km/ किमी (d) 8 km/ किमी

MP Police Constable Exam- 18 August-2023 Shift-2

Ans. (c) : प्रश्नानुसार, राजेश के चलने का क्रम निम्नवत् है-

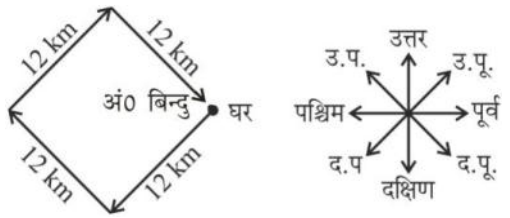

अतः उपर्युक्त से स्पष्ट है कि राजेश अपने आरंभिक बिंदु से 0 किमी दूर है।

35. A ship after sailing 48 km towards south from a particular place covered 55 km more towards east. Then the straightway distance of the ship from that place is in kms?

एक विशेष स्थान से दक्षिण की ओर 48 कि.मी. नौकायन के बाद एक जहाज ने पूर्व की ओर 55 कि.मी. और दूरी तय की। तो फिर उस स्थान से जहाज की सीधी दूरी किलोमीटर में है?

(a) 73 (b) 83
(c) 95 (d) 66

MP Police Constable Exam- 18 August-2023 Shift-2

Ans. (a) : प्रश्नानुसार,

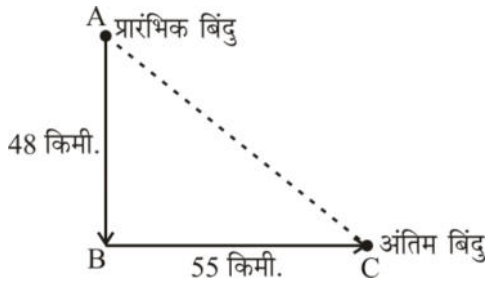

पाइथागोरस परिमेय से-

$48^2 + 55^2 = (AC)^2$

$2304 + 3025 = (AC)^2$

$AC = \sqrt{5329}$

AC = 73 किमी.

36. Kunal walks 20m south, he turns left and walks 30m, then he turns left and walks 35m, then he turns right and walks 15m, then he turns right and walks 15m. He again turns right and walks 15m. Which direction is kunal facing now?

कुणाल 20 मीटर दक्षिण की ओर चलता है, फिर वह बाएं मुड़ता है और 30 मीटर चलता है, फिर वह बाएं मुड़ता है और 35 मीटर चलता है, फिर वह दाएं मुड़ता है और 15 मीटर चलता है, फिर वह दाएं मुड़ता है और 15 मीटर चलता है। वह पुनः दाएं मुड़ता है और 15 मीटर चलता है। कुणाल का मुख अब किस दिशा में है?

(a) East/पूर्व (b) West/पश्चिम
(c) South/दक्षिण (d) North/उत्तर

MP Police Constable Exam- 18 August-2023 Shift-2

Ans. (b) : प्रश्नानुसार, कुणाल के चलने का क्रम निम्नवत् है-

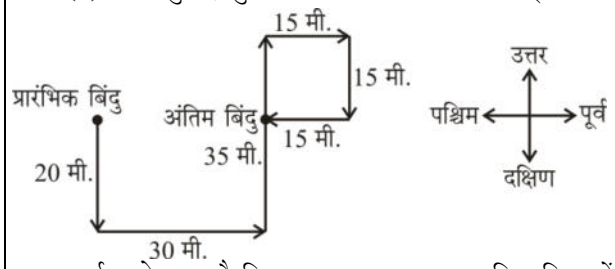

अतः उपर्युक्त से स्पष्ट है कि कुणाल का मुख अब पश्चिम दिशा में है।

37. City D is 13 km to the east of city A. A bus starts from city A and travels 8 km towards West, then takes a right turn. After dying on the right, she walks 5 km and reaches city B. From city B the bus then turns right and travels 21 km and stops. In which direction and how much distance will the bus travel to reach city D?

शहर D शहर A के पूर्व में 13 किलोमीटर की दूरी पर है। एक बस शहर A से चलती है और 8 किलोमीटर पश्चिम की ओर जाती है, फिर दायीं और मुड़ जाती है। दायीं ओर मुड़ने के बाद वह 5 किलोमीटर जाती है तथा शहर B पहुंच जाती है। शहर B से बस फिर दायीं ओर मुड़कर 21 किलोमीटर जाती है तथा रूक जाती है। बस को शहर D तक पहुंचने के लिए किस दिशा में और कितनी दूरी तय करनी पड़ेगी?

(a) 13 kms towards South/दक्षिण की ओर 13 किलोमीटर
(b) 5 kms towards West/पश्चिम की ओर 5 किलोमीटर
(c) 21 kms towards South/दक्षिण की ओर 21 किलोमीटर
(d) 5 kms towards South/दक्षिण की ओर 5 किलोमीटर

MP Police Constable Exam- 18 August-2023 Shift-2

Ans. (d) : प्रश्नानुसार,

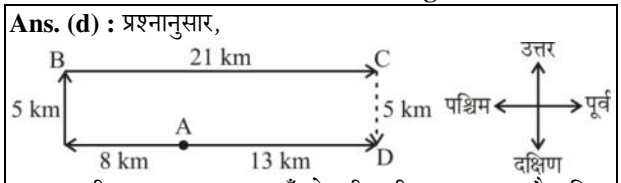

अतः अभीष्ट शहर D तक पहुँचने की दूरी = 5 km और दिशा दक्षिण।

38. The letter 'X' is to the east of the letter 'Y,' which is above the letter 'Z.' If letter 'P' is east of letter 'Z,' then in which direction is letter 'P' from 'X'?

GET IT ON Google Play Best Study PDF के लिए हमारी App को Download करें "GK Trick By Nitin Gupta"

अक्षर 'X' अक्षर 'Y' के पूर्व में है, जो 'Z' अक्षर के ऊपर है। यदि अक्षर 'P' अक्षर 'Z' के पूर्व में है, तो 'X' से अक्षर 'P' किस दिशा में है?

(a) South-East/दक्षिण-पूर्व
(b) South-West/दक्षिण-पश्चिम
(c) North/उत्तर
(d) South/दक्षिण

MP Police Constable Exam- 18 August-2023 Shift-2

Ans. (d) : प्रश्नानुसार,

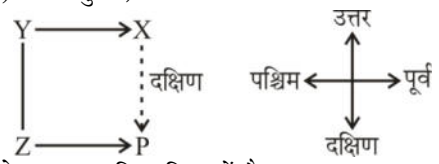

अतः X से अक्षर P दक्षिण दिशा में है।

39. A started from point P and went 2 km East; he turned right and covered 3 km. At the end of 3km, his cycle got punctured. He left it with the mechanic and turned right and went 1 km. Then he turned left and went 1 km and finally he turned right and after walking 1 km, reached his destination.
How far is A's destination from P (shortest distance in km) ?
A बिंदु P से शुरू करता है और 2 कि.मी. पूर्व में जाता है; फिर वह दाईं ओर मुड़ता है और 3 कि.मी. की दूरी तय करता है। 3 कि.मी. के अंत में, उसकी साइकिल पंचर हो जाती है। वह साइकिल को मैकेनिक के पास छोड़ देता है और दाईं ओर मुड़ता है और 1 कि.मी. जाता है। फिर वह बाईं ओर मुड़ता है और 1 कि.मी. जाता है तथा अंततः वह दाईं ओर मुड़ता है और 1 कि.मी. चलने के बाद, अपने गंतव्य तक पहुंचता है। P से A का गंतव्य कितनी दूर है (कि.मी. में सबसे कम दूरी) ?

(a) $\sqrt{3^2+2^2}$ (b) $\sqrt{4^2+3^2}$
(c) $\sqrt{4^2+2^2}$ (d) 4

MP Police Constable Exam- 4 Sep-2023 Shift-2

Ans. (d) : प्रश्नानुसार,

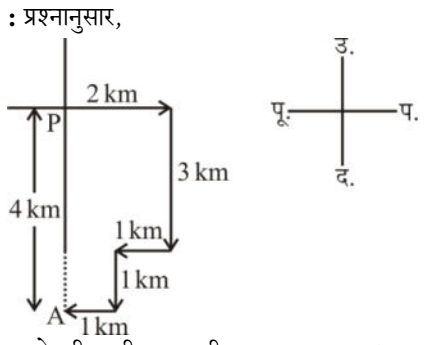

अतः P से A के बीच की कुल दूरी = (3 + 1) = 4 km

40. A boy after running 1 km towards East from his house runs 1 km towards North. He then runs 2 km towards East, 3 km towards South and 3 km towards West. He must run how many km to reach his home?
एक लड़का अपने घर से पूर्व की ओर 1 किलोमीटर दौड़ने के पश्चात 1 किलोमीटर उत्तर की ओर दौड़ता है। वह फिर 2 किलोमीटर पूर्व की ओर दौड़ता है, 3 किलोमीटर दक्षिण की ओर दौड़ता है तथा 3 किलोमीटर पश्चिम की ओर दौड़ता है। उसे अपने घर तक पहुँचने के लिए कितने किमी दौड़ना होगा ?

(a) 1 km North/ किलोमीटर उत्तर
(b) 1 km South/ किलोमीटर दक्षिण
(c) 2 km South/ किलोमीटर दक्षिण
(d) 2 km North/ किलोमीटर उत्तर

MP Police Constable Exam- 23 August-2023 Shift-1

Ans. (d) : प्रश्नानुसार, दिशा आरेख निम्नवत् है–

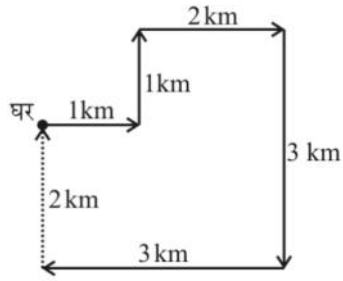

अतः घर तक पहुँचने के लिए 2 km, उत्तर की ओर जाना होगा।

41. A, B, C and D are playing cards. A and B are partners. D faces towards North. If A faces towards West, then who faces towards South?
A, B, C और D ताश खेल रहे हैं। A और B साझेदार हैं। D का मुख उत्तर की ओर है। यदि A का मुख पश्चिम की ओर है, तो किसका मुख दक्षिण की ओर है?

(a) A (b) B
(c) C (d) D

MP Police Constable Exam- 8 Sep-2023 Shift-1

Ans. (c) : प्रश्नानुसार,

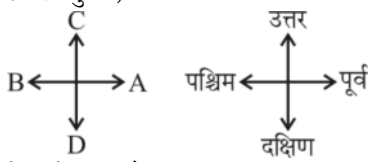

उपर्युक्त आरेख से स्पष्ट है कि C का मुख दक्षिण की ओर है।
नोटः- ताश के खेल में साझेदार हमेसा आमने-सामने होते है।

42. A woman is facing north-west. She turns 90° in the clockwise direction, then 180° in the anticlockwise direction and then another 90° in the same direction. Which direction is she facing now?
एक महिला का मुख उत्तर-पश्चिम की ओर है। वह दक्षिणावर्त दिशा में 90° मुड़ती है, फिर वामावर्त दिशा में 180° मुड़ती है और फिर उसी दिशा में 90° मुड़ती है। अब उसका मुख किस दिशा में है?

(a) South/दक्षिण
(b) South-west/दक्षिण-पश्चिम
(c) West/पश्चिम
(d) South-east/दक्षिण-पूर्व

MP Police Constable Exam- 14 August-2023 Shift-3

GET IT ON Google Play Best Study PDF के लिए हमारी App को Download करें "GK Trick By Nitin Gupta"

Ans. (d) : प्रश्नानुसार, महिला के मुड़ने का क्रम निम्नवत् है-

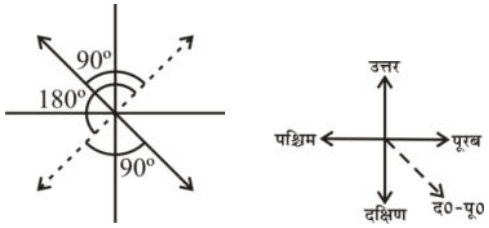

अतः स्पष्ट है कि उसका (महिला) का मुख दक्षिण-पूर्व दिशा में है।

43. Manish after walking 15 km towards east turns 135 degree in the clockwise direction and walks 17 km. How far is he from his starting position?

मनीष पूर्व की ओर 15 किमी चलने के बाद घड़ी की दिशा में 135 डिग्री मुड़ता है और 17 किमी चलता है। वह अपने प्रारंभिक स्थान से कितनी दूर है?

(a) 12 km/ किमी (b) 8 km/ किमी
(c) 10 km/ किमी (d) 9 km/ किमी

MP Police Constable Exam- 16 August-2023 Shift-3

Ans. (b) : प्रश्नानुसार दूरी आरेख बनाने पर-

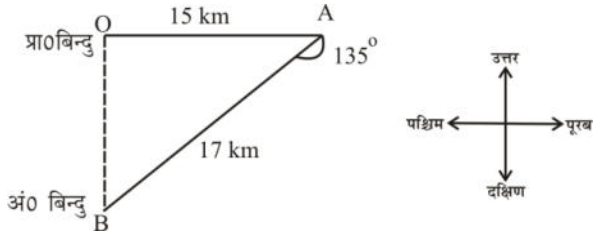

पाइथागोरस प्रमेय से

$(AB)^2 = (OA)^2 + (OB)^2$

$(17)^2 = (15)^2 + (OB)^2$

$(289) = (225) + (OB)^2$

$(OB)^2 = 289 - 225$

$OB = \sqrt{64}$

$OB = 8$

उपर्युक्त विश्लेषण से स्पष्ट है कि व्यक्ति अपने आरम्भिक बिन्दु से 8 किमी दूरी पर है।

44. A person travels 6 km to east, then 4 km towards north, then again 3 km to east, then 5 km towards south-west. How far he may be from his starting point?

एक व्यक्ति 6 कि.मी पूर्व की ओर, फिर 4 कि.मी उत्तर की ओर, फिर 3 कि.मी पूर्व की ओर, फिर 5 कि.मी दक्षिण-पश्चिम की ओर यात्रा करता है। वह अपने प्रारंभिक बिंदु से कितनी दूरी पर है?

(a) 10 km/ कि.मी (b) 13 km/ कि.मी
(c) 6 km/ कि.मी (d) 11 km/ कि.मी

MP Police Constable Exam- 16 August-2023 Shift-3

Ans. (c) : प्रश्नानुसार दिशा दूरी आरेख बनाने पर

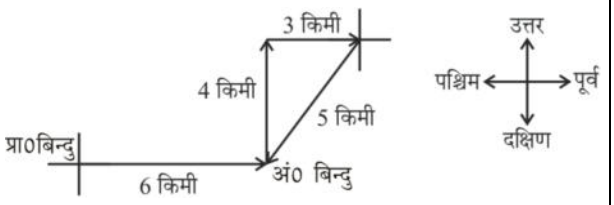

उपर्युक्त दिशा-दूरी आरेख से स्पष्ट है कि व्यक्ति अपने प्रारंभिक बिन्दु से 6 किमी दूरी पर है।

45. A man starts from his home and walks 16 km to the north and turns right and walk 63 km. Then he turns 135 degrees in the clockwise direction and walks 70 km. How far is he from his home?

एक आदमी अपने घर से चलना शुरू करता है और उत्तर की ओर 16 किमी चलता है और दाएँ मुड़ता है और 63 किमी चलता है। फिर वह दक्षिणावर्त दिशा में 135 डिग्री मुड़ता है और 70 किमी चलता है। वह अपने घर से कितनी दूर है?

(a) 5 km/ किमी (b) 10 km/ किमी
(c) 11 km/ किमी (d) 8 km/ किमी

MP Police Constable Exam- 16 August-2023 Shift-3

Ans. (a) : प्रश्नानुसार,

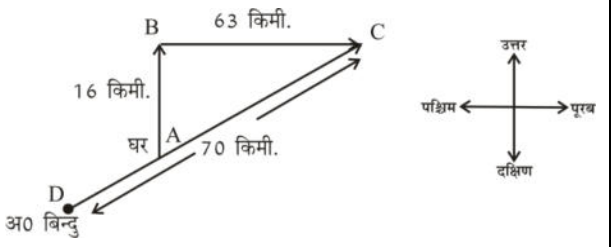

$AC^2 = (16)^2 + (63)^2$

$AC = \sqrt{256 + 3969}$

$= \sqrt{4225}$

$AC = 65$ km

अभीष्ट दूरी = $70 - 65 = 5$ km

46. A man travels towards north to go to his office. He turned to the left and then turned to the right and again turned to the right. Which way is he looking?

एक व्यक्ति अपने कार्यालय जाने के लिए उत्तर की ओर जाता है। वह बायीं ओर मुड़ा और फिर दायीं ओर मुड़ा ओर फिर से दायीं ओर मुड़ा। वह किस ओर देख रहा है?

(a) East/पूर्व (b) West/पश्चिम
(c) North/उत्तर (d) South/दक्षिण

MP Police Constable Exam- 16 August-2023 Shift-3

GET IT ON Google Play Best Study PDF के लिए हमारी App को Download करें "GK Trick By Nitin Gupta"

Ans. (a) : प्रश्नानुसार व्यक्ति के चलने का क्रम निम्नवत् है-

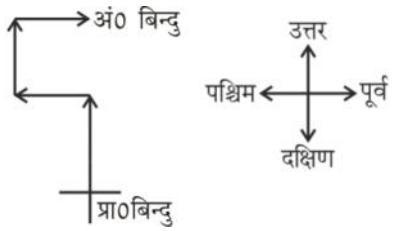

उपर्युक्त आरेख से स्पष्ट है कि व्यक्ति पूर्व की ओर देख रहा है।

47. Pinky walks a distance 600 m towards east, then turns left and moves 500m, then again turns left and walk 600 m and then turns left again and moves 500 m and halts. At what distance (in meter) she is from the starting point?

पिंकी पूर्व की ओर 600 मीटर चलती है, फिर बायीं ओर मुड़ती है और 500 मीटर चलती है, फिर बायीं ओर मुड़ती है और 600 मीटर चलती है और फिर से बायीं ओर मुड़ती है और 500 मीटर चलती है और रुक जाती है। वह प्रारंभिक बिंदु से कितनी दूरी (मीटर में) पर है?

(a) 600 m/ मीटर (b) 500 m/ मीटर
(c) 800 m/ मीटर (d) 0 m/मीटर

MP Police Constable Exam- 6 Sep-2023 Shift-3

Ans. (d) : प्रश्नानुसार,
पिंकी का गमन पथ आरेख निम्नवत् है-

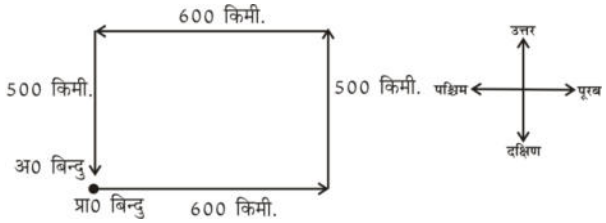

उपर्युक्त दिशा आरेख से स्पष्ट है कि पिंकी अपने प्रा0बिन्दु से 0 मीटर की दूरी पर है। अतः विकल्प (d) सही उत्तर होगा।

48. Rakesh traveled 500 m from his house towards North. He took left turn and traveled 80 m, then 260 m towards his left and again 400 m towards his left. How far (in m) is he from the starting point?

राकेश ने अपने घर से उत्तर की ओर 500 मीटर की यात्रा की। वह बाईं ओर मुड़ा और 80 मीटर चला, फिर अपनी बाईं ओर 260 मीटर और फिर से अपनी बाईं ओर 400 मीटर चला। वह प्रारंभिक बिंदु से कितनी दूर (मीटर में) है?

(a) 400 (b) 100
(c) 200 (d) 300

MP Police Constable Exam- 17 August-2023 Shift-2

Ans. (a) : राकेश द्वारा चला गया यात्रा आरेख निम्न है-

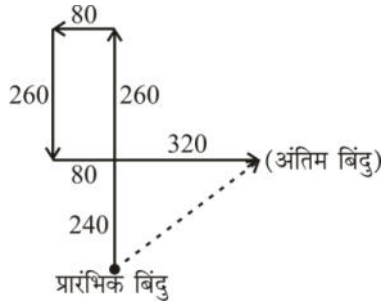

अभिष्ट दूरी $= \sqrt{(320)^2 + (240)^2}$

$= \sqrt{102400 + 57600}$

$= \sqrt{160000}$

$= 400$

49. Two friends Robin and Sansa are standing 10 km apart and Sansa is to the east of robin. Both of them move towards east for 5 km, then robin takes a left and Sansa takes a right and travel 5 km each. Now again both of them take a right turn and travel 5 km. How far they are from each other?

दो मित्र रॉबिन और सांसा एक-दूसरे से 10 कि.मी की दूरी पर खड़े हैं और सांसा, रॉबिन के पूर्व में है। दोनों 5 कि.मी पूर्व की ओर बढ़ते हैं, फिर रॉबिन बाईं ओर मुड़ता है और सांसा दाईं ओर मुड़ती है तथा दोनों 5 कि.मी की दूरी तय करते है। अब फिर से दोनों दाईं ओर मुड़ते हैं तथा 5 कि.मी की दूरी तय करते हैं। वह एक-दूसरे से कितनी दूरी पर हैं?

(a) 10 km/ कि.मी (b) 5 km/ कि.मी
(c) 15 km/ कि.मी (d) 20 km/ कि.मी

MP Police Constable Exam- 17 August-2023 Shift-2

Ans. (a) : दोनों मित्रों का दिशा आरेख निम्न है-

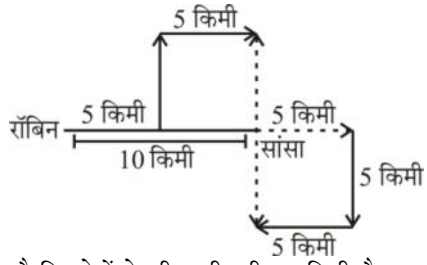

अतः स्पष्ट है कि दोनों के बीच की दूरी 10 किमी है।

50. Reena is in the south-east of Meena at a distance of 10m. Meena is in the north-east of Sangita at a distance of 20m. Sangita is in the south-west of Lata at a distance of 30m. Lata is in the north-west of Gouri at a distance of 40m. Now Gauri is in which direction with respect to Reena?

रीना 10 मीटर की दूरी पर मीना के दक्षिण-पूर्व में है। मीना 20 मीटर की दूरी पर संगीता के उत्तर-पूर्व में है। संगीता 30 मीटर की दूरी पर लता के दक्षिण-पश्चिम में है। लता 40 मीटर की दूरी पर गौरी के उत्तर-पश्चिम में है। अब गौरी, रीना के संबंध में किस दिशा में है?

GET IT ON Google Play Best Study PDF के लिए हमारी App को Download करें "GK Trick By Nitin Gupta"

(a) North-West /उत्तर-पश्चिम
(b) South /दक्षिण
(c) North /उत्तर
(d) South-East /दक्षिण-पूर्व

.MP Police Constable Exam- 17 August-2023 Shift-2

Ans. (d) : दिशा आरेख निम्नवत है-

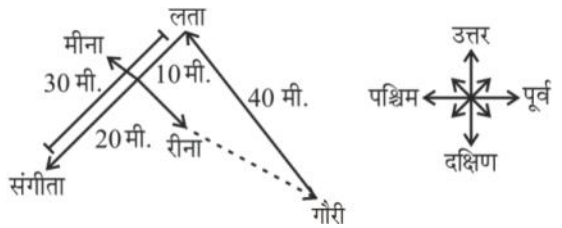

अतः स्पष्ट है कि गौरी, रीना के दक्षिण पूर्व में स्थित है।

51. Rohit walked 30 meters towards East, took a left turn, and walked 20 meters. He then turned left and travelled 30 meters. How far is he from the starting point?
रोहित पूर्व की ओर 30 मीटर चला, बायीं ओर मुड़ा और 20 मीटर चला। फिर वह बायीं ओर मुड़ा और 30 मीटर चला। वह आरंभिक बिंदु से कितनी दूर है?

(a) 20 meters, North/ मीटर, उत्तर
(b) 80 meters, North/ मीटर, उत्तर
(c) 20 meters, South/ मीटर, दक्षिण
(d) 80 meters, South/ मीटर, दक्षिण

MP Police Constable Exam- 17 August-2023 Shift-2

Ans. (a) : प्रश्नानुसार, दिशा आरेख निम्नवत है-

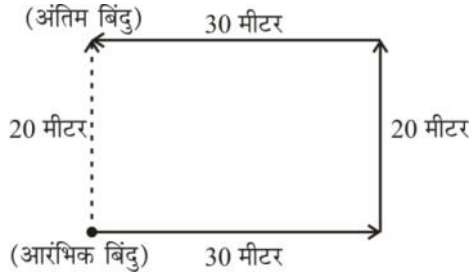

अतः स्पष्ट है कि रोहित आरंभिक बिंदु से 20 मीटर उत्तर की ओर है।

52. Five friends A, B, C, D and E are sitting close to each other. A is to the east of B, C is to the south of D, E is to the south of A and D is to the west of E. Then, C is in which direction with respect to E ?
पाँच मित्र A, B, C, D और E एक दूसरे के निकट बैठे हैं। A, B के पूर्व में है, C, D के दक्षिण में है, E, A के दक्षिण में है और D, E के पश्चिम में है। तो, E के संबंध में C किस दिशा में है ?

(a) South-West/दक्षिण-पश्चिम
(b) North-East/उत्तर-पूर्व
(c) South-East/दक्षिण-पूर्व
(d) North-West/उत्तर-पश्चिम

MP Police Constable Exam- 23 August-2023 Shift-3

Ans. (a) : प्रश्नानुसार, दिशा आरेख निम्नवत् है–

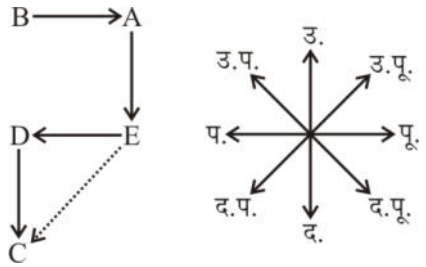

अतः उपर्युक्त आरेख से स्पष्ट है कि E के सापेक्ष C दक्षिण-पश्चिम में है।

53. Rama walked 30m to the south of her house, Rama turns left and goes another 10m. Then, turning to the north, she goes 15m. From there she moves towards her house and starts now?
रामा अपने घर से दक्षिण की ओर 30 मी चलती है, रामा बाएं मुड़ती है और फिर 10 मी. चलती है। फिर, उत्तर की ओर मुड़ती है, वह 15 मी. चलती है। वहां से वह अपने घर की ओर बढ़ती है और उसी दिशा में चलने लगती है।

(a) South-West /दक्षिण-पश्चिम
(b) North-East /उत्तर-पूर्व
(c) North-west /उत्तर-पश्चिम
(d) South- East /दक्षिण-पूर्व

MP Police Constable Exam- 16 August-2023 Shift-1

Ans. (c) : प्रश्नानुसार,
रामा का गमन पथ आरेख निम्नवत् है-

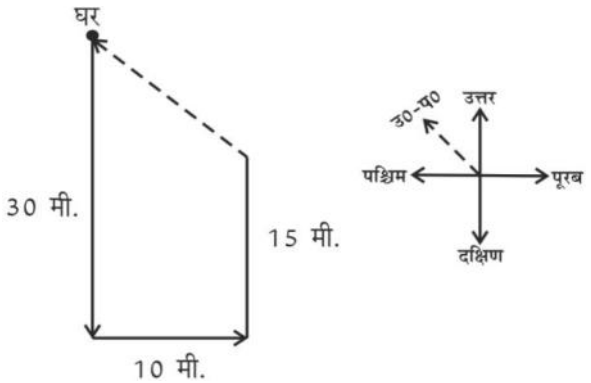

उपर्युक्त आरेख से स्पष्ट है कि रामा अंतिम रूप से उ0-प0 दिशा में चलती है। अतः विकल्प (c) सही उत्तर होगा।

54. Raj walks straight towards the west, then turns left after a short distance, and again turns left after a short distance. What is her current direction?
राज सीधे पश्चिम की ओर चलता है, फिर थोड़ी दूरी के बाद बायीं ओर मुड़ता है, और थोड़ी दूरी के बाद फिर बायीं ओर मुड़ता है। उसकी वर्तमान दिशा क्या है?

(a) East/पूर्व
(b) West/पश्चिम
(c) North/उत्तर
(d) South/दक्षिण

MP Police Constable Exam- 16 August-2023 Shift-1

GET IT ON Google Play Best Study PDF के लिए हमारी App को Download करें "GK Trick By Nitin Gupta"

Ans. (a) : प्रश्नानुसार,
राज का गमन पथ आरेख निम्नवत् है-

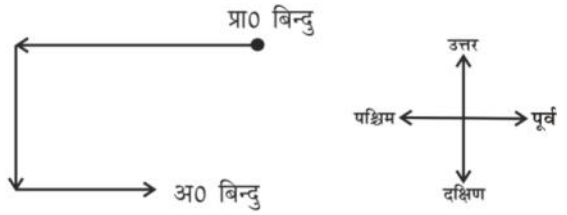

उपर्युक्त से स्पष्ट है कि राज अंतिम रुप से पूर्व दिशा में चल रहा है।
अतः विकल्प (a) सही उत्तर होगा।

55. Starting from point A Tia walks for 20 m till point C in north east direction. Turning to her right, she walks 20m and again turning to her right, walks for 20 m and stopping at point B. How far is point A from point B?

टिया बिंदु A से प्रारंभ करके उत्तर पूर्व दिशा में बिंदु C तक 20 मीटर चलती है। वह अपनी दाईं ओर मुड़कर 20 मीटर चलती है और फिर से अपनी दाईं ओर मुड़कर 20 मीटर चलती है और बिंदु B पर रुकती है। बिंदु A, बिंदु B से कितनी दूर है?

(a) $20\sqrt{2}$ m/मीटर (b) $10\sqrt{2}$ m/मीटर
(c) 20 m/ मीटर (d) 10 m/ मीटर

MP Police Constable Exam- 10 Sep-2023 Shift-1

Ans. (c) : टिया के चलने का क्रम-

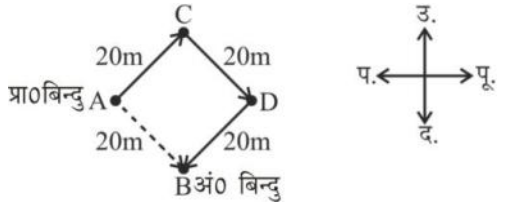

चित्रानुसार, बिन्दु A और B के बीच की दूरी 20 मी. है।

56. A cow runs 20 meters towards East and turns to the right then runs 10 meters then turns to the right and runs 9 meters again. Then turns to the left and runs 5 meters then turns to the left and runs 12 meters and finally she turns left and runs 6 metres. In which direction is the cow facing now ?

एक गाय पूर्व की ओर 20 मीटर दौड़ती है और दाईं ओर मुड़ती है, फिर 10 मीटर दौड़ती है, फिर दाईं ओर मुड़ती है और फिर से 9 मीटर दौड़ती है। फिर बायीं ओर मुड़ती है और 5 मीटर दौड़ती है, फिर बायीं और मुड़ती है और 12 मीटर दौड़ती है और अंत में वह बायीं ओर मुड़ती है और 6 मीटर दौड़ती है। अब गाय का मुख दिशा में है ?

(a) North/उत्तर (b) East/पूर्व
(c) South/दक्षिण (d) West/पश्चिम

MP Police Constable Exam- 23 August-2023 Shift-2

Ans. (a) : प्रश्नानुसार, गाय के दौड़ने का क्रम निम्नवत् है-

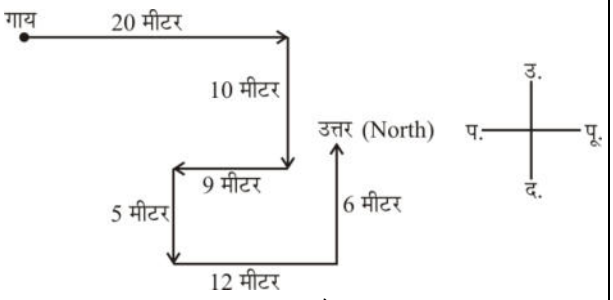

अतः गाय का मुख 'उत्तर' दिशा में है।

57. Raju started walking from point A. He walk 10 m East and reach point B. Then turn 270 degree clockwise direction and move 15 m and reach at point C. Then turn 90 degree right and move 20 m and reach point D. Again turn 90 degree right and move 15 m and reach at point E, turn 90 degree left and move 3 m and reach at point F and again turn 90 degree right and move 4 m and reach point G then turn 135 degree clockwise direction and move 5 m and reach point E and stops.

What is shortest distance between point B and point D ?

राजू बिंदु A से चलना प्रारम्भ करता है, वह 10 मी. पूर्व में चलता है और बिन्दु B पर पहुँचता है। फिर वह 270 डिग्री दक्षिणावर्त दिशा में घूमता है और 15 मी. चलकर बिन्दु C पर पहुँचता है, फिर वह 90 डिग्री दाएं मुड़कर 20 मी. चलता है और बिन्दु D पर पहुँचता है। वह बिन्दु D से 90 डिग्री दाएँ मुड़कर 15 मी. चलता है और बिन्दु E पर पहुँचता है, वह 90 डिग्री बाएं मुड़कर 3 मी. चलता है और बिन्दु F पर पहुँचता है फिर 90 डिग्री दाएँ मुड़कर 4 मी. चलता है और बिन्दु G पर पहुँचता है। बिन्दु G से 135 डिग्री दक्षिणावर्त दिशा में घूमता है और 5 मी. चलकर बिन्दु E पर पहुँचता है और रूक जाता है।

बिन्दु B और बिन्दु D के बीच की न्यूनतम दूरी बताएँ?

(a) 30 m/ मी. (b) 25 m/ मी.
(c) 35 m/ मी. (d) 20 m/ मी.

MP Police Constable Exam- 5 Sep-2023 Shift-2

Ans. (b) : राजू के चलने का क्रम निम्नवत है-

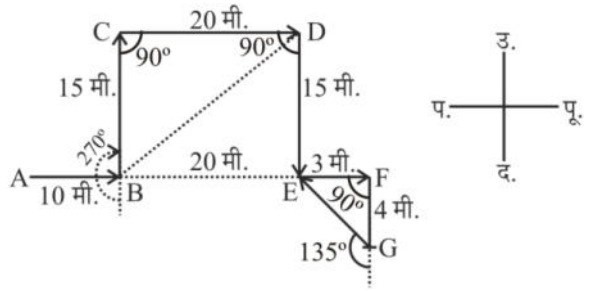

GET IT ON Google Play Best Study PDF के लिए हमारी App को Download करें "GK Trick By Nitin Gupta"

अतः बिन्दु B और D के बीच की न्यूनतम दूरी

$$(BD) = \sqrt{(DE)^2 + (BE)^2}$$
$$= \sqrt{(15)^2 + (20)^2}$$
$$= \sqrt{225 + 400}$$
$$= \sqrt{625}$$
$$= 25 \text{ मी.}$$

58. Starting from his house Rahul walks 40 m towards south. Then he turns right and walks 20 m then turns right again and walks 15 m. He now travels 10 m towards east to reach the park. In which direction is the park with respect to his house?

राहुल अपने घर से शुरू होकर दक्षिण की ओर 40 मीटर चलता है। फिर वह दायें मुड़ता है और 20 मीटर चलता है और फिर दायें मुड़ता है और 15 मीटर चलता है। अब वह पार्क तक पहुँचने के लिए पूर्व की ओर 10 मीटर की यात्रा करता है। उसके घर के सन्दर्भ में पार्क किस दिशा में है?

(a) South-west/दक्षिण-पश्चिम
(b) North-east/उत्तर-पूर्व
(c) East/पूर्व
(d) West/पश्चिम

MP Police Constable Exam- 19 August-2023 Shift-2

Ans. (a) : प्रश्नानुसार,
राहुल का गमन पथ आरेख निम्नवत् है-

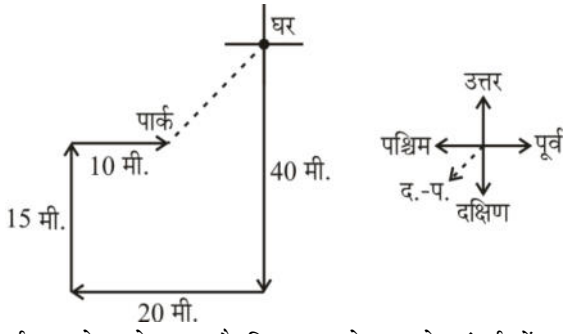

उपर्युक्त आरेख से स्पष्ट है कि राहुल के घर के संदर्भ में पार्क दक्षिण-पश्चिम दिशा में है।
अतः विकल्प (a) सही उत्तर होगा।

59. You're heading straight towards east. After that, you turn right, one more right, and finally a left. Which direction are you heading now?

आप सीधे पूर्व की ओर जा रहे हैं। उसके बाद, आप दाएँ मुड़ते हैं, एक और दाएँ मुड़ते हैं, और अंत में एक बाएँ मुड़ते हैं। अब आप किस दिशा में जा रहे हैं?

(a) East /पूर्व (b) West /पश्चिम
(c) North /उत्तर (d) South /दक्षिण

MP Police Constable Exam- 19 August-2023 Shift-2

Ans. (d) : प्रश्नानुसार,
आप का गमन पथ आरेख निम्नवत् है-

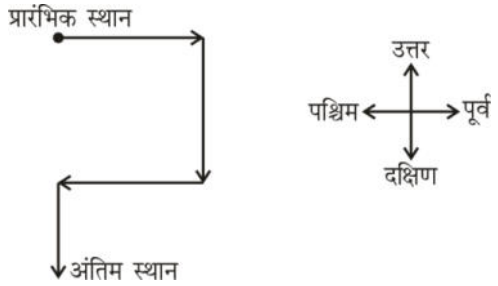

उपर्युक्त दिशा आरेख से स्पट है कि इस समय आप का मुंह दक्षिण दिशा में है।

60. Point P is 11 km to the east of point Q. A person starts from point Q and walks 9 km towards the West. He takes left and goes 4 kilometers. He eventually turns left and goes 20 kilometers before reaching the end. In which direction and for what distance should he walk to reach point P?

बिंदु P, बिंदु Q के पूर्व की ओर 11 किलोमीटर है। एक व्यक्ति बिंदु Q से शुरू करता है और पश्चिम की ओर 9 किलोमीटर चलता है। वह बायीं मुड़ता है और 4 किलोमीटर चलता है। वह अंततः बायीं ओर मुड़ता है और रुकने से पहले 20 किलोमीटर चलता है। बिंदु P तक पहुंचने के लिए उसे किस दिशा में और कितनी दूरी चलना चाहिए?

(a) 11 kms towards South /दक्षिण की ओर 11 किलोमीटर
(b) 4 kms towards North /उत्तर की ओर 4 किलोमीटर
(c) 24 kms towards South /दक्षिण की ओर 24 किलोमीटर
(d) 9 kms towards North /उत्तर की ओर 9 किलोमीटर

MP Police Constable Exam- 19 August-2023 Shift-2

Ans. (b) : प्रश्नानुसार,
व्यक्ति का दिशा आरेख निम्नवत् है-

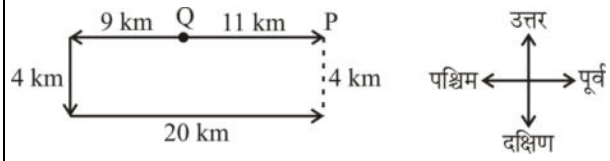

उपर्युक्त दिशा आरेख से,
अंतिम बिन्दु से 'P' की दूरी = 4 km
तथा बिन्दु 'P' अंतिम बिन्दु से उत्तर दिशा में है।

61. Sruthi travels 7 km towards east then travels 25 km south. She then travels 10 km towards east and then travels 6 km towards her right. After this she travels 17 km towards west and stops. How far is she from her starting point in kilometers?

GET IT ON Google Play Best Study PDF के लिए हमारी App को Download करें "GK Trick By Nitin Gupta"

श्रुति पूर्व की ओर 7 किमी चलती है और फिर 25 किमी दक्षिण की ओर चलती है। फिर वह पूर्व की ओर 10 किमी चलती है और फिर 6 किमी अपने दाहिनी ओर चलती है। इसके बाद वह पश्चिम की ओर 17 किमी चलती है और रुक जाती है। वह किलोमीटर में अपने शुरुआती बिंदु से कितनी दूरी है?

(a) 30 (b) 31
(c) 32 (d) 33

MP Police Constable Exam- 18 August-2023 Shift-1

Ans. (b) : प्रश्नानुसार, श्रुति का गमन पथ आरेख निम्नवत् है-

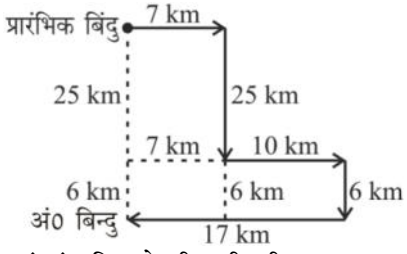

प्रा0 बिन्दु एवं अं0 बिन्दु के बीच की दूरी = 25 +6 ⇒ 31 कि.मी.
उपर्युक्त आरेख से स्पष्ट है कि, श्रुति अपने शुरुआती बिंदु से 31 कि.मी. दूर है।

62. Reeta is in the west of Geeta who is in the south of Mangesh. Mangesh is in the south of Rupesh who is in the west of Lata. Now Lata is in which direction with respect of Reeta?
रीता, गीता के पश्चिम में है जो मंगेश के दक्षिण में है। मंगेश, रूपेश के दक्षिण में है जो लता के पश्चिम में है। अब लता, रीता के संबंध में किस दिशा में है?

(a) North-east /उत्तर-पूर्व (b) North /उत्तर
(c) West /पश्चिम (d) East /पूर्व

MP Police Constable Exam- 18 August-2023 Shift-1

Ans. (a) : प्रश्नानुसार, दिशा संबंध आरेख निम्नवत् है-

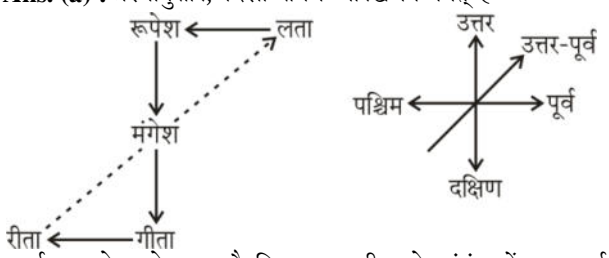

उपर्युक्त आरेख से स्पष्ट है कि, लता, रीता के संबंध में उत्तर-पूर्व दिशा में है।

63. If A x B means A is to the north of B; A + B means A is to the south of B; A % B means A is to the west of B; A - B means A is to the east of B; then in M- V x L % T, T is in which direction with respect to M?
यदि A × B का अर्थ है A, B के उत्तर में है; A + B का अर्थ है A, B के दक्षिण में है; A % B का अर्थ है A, B के पश्चिम में है; A – B का अर्थ है A, B के पूर्व में है; तो M – V × L % T में, T, M के संबंध में किस दिशा में है?

(a) West/पश्चिम (b) North/उत्तर
(c) South/दक्षिण (d) East/पूर्व

MP Police Constable Exam- 18 August-2023 Shift-1

Ans. (c) : प्रश्नानुसार दिये गये समीकरण का दिशा आरेख बनाने पर- M – V × L % T

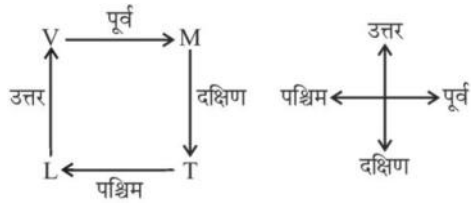

उपर्युक्त आरेख से स्पष्ट है कि, T, M के संबंध में दक्षिण दिशा में है।

64. Amir walked 40 meters to the west, then 30 meters to the left. He then walked 20 meters to his right. He moved 30 meters to the right after turning again. How far he is from the starting point?
आमिर पश्चिम की ओर 40 मीटर चला, फिर बाईं ओर 30 मीटर चला। फिर वह अपने दायें 20 मीटर चला। वह फिर से दायीं ओर मुड़ने के बाद 30 मीटर चला। वह प्रारंभिक बिंदु से कितनी दूर है?

(a) 70 meters/ मीटर (b) 60 meters/ मीटर
(c) 90 meters/ मीटर (d) 80 meters/ मीटर

MP Police Constable Exam- 18 August-2023 Shift-1

Ans. (b) : प्रश्नानुसार, दिशा-आरेख बनाने पर-

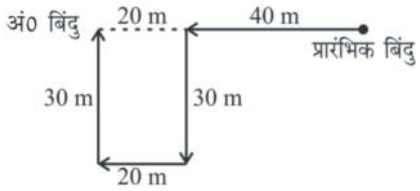

प्रा0 बिंदु एवं अ0 बिंदु के बीच की दूरी = 40 + 20 ⇒ 60 m
उपर्युक्त आरेख से स्पष्ट है कि, आमिर प्रारंभिक बिंदु से 60 मी.दूर है।

65. Vikram walks 3 kilometers towards the Sun during the sunset, then turns left and walks 2 kilometers. He takes a right and walks for 3 kilometers. Finally, he goes to his right and walks 2 kilometers. Which way is Vikram going now?
विक्रम सूर्यास्त के समय सूर्य की ओर 3 किलोमीटर चलता है, फिर बायें मुड़ता है और 2 किलोमीटर चलता है। वह दायीं ओर मुड़ता है और 3 किलोमीटर चलता है। अंत में, वह अपने दाहिनी ओर जाता है और 2 किलोमीटर चलता है। अब विक्रम किस तरफ जा रहा है?

(a) East/पूर्व (b) West/पश्चिम
(c) North/उत्तर (d) South/दक्षिण

MP Police Constable Exam- 18 August-2023 Shift-1

Ans. (c) : प्रश्नानुसार, दिशा आरेख निम्नवत् है-

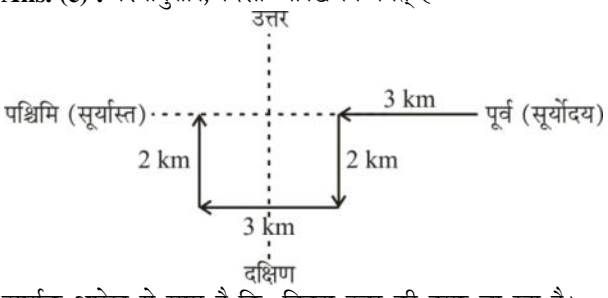

उपर्युक्त आरेख से स्पष्ट है कि, विक्रम उत्तर की तरफ जा रहा है।

GET IT ON Google Play Best Study PDF के लिए हमारी App को Download करें "GK Trick By Nitin Gupta"

66. Raju started walking from point A. He walk 10 m East and reach point B. Then turn 270 degree clockwise direction and move 15 m and reach at point C. Then turn 90 degree right and move 20 m and reach point D. Again turn 90 degree right and move 15 m and reach at point E, turn 90 degree left and move 3 m and reach at point F and again turn 90 degree right and move 4 m and reach point G then turn 135 degree clockwise direction and move 5 m and reach point E and stops.

In which direction is point C with respect to point G ?

राजू बिंदु A से चलना प्रारम्भ करता है, वह 10 मी. पूर्व में चलता है और बिन्दु B पर पहुँचता है। फिर वह 270 डिग्री दक्षिणवर्त दिशा में घूमता है और 15 मी. चलकर बिन्दु C पर पहुँचता है, फिर वह 90 डिग्री दाएं मुड़कर 20 मी. चलता है और बिन्दु D पर पहुँचता है। वह बिन्दु D से 90 डिग्री दाएँ मुड़कर 15 मी. चलता है और बिन्दु E पर पहुँचता हैं, वह 90 डिग्री बाएं मुड़कर 3 मी. चलता है और बिन्दु F पर पहुँचता है फिर 90 डिग्री दाएँ मुड़कर 4 मी. चलता है और बिन्दु G पर पहुँचता है। बिन्दु G से 135 डिग्री दक्षिणावर्त दिशा में घूमता है और 5 मी. चलकर बिन्दु E पर पहुँचता है और रुक जाता है।

बिन्दु G के सापेक्ष से बिन्दु C की दिशा बताए ?

(a) South-East/दक्षिण-पूर्व
(b) North-East/उत्तर-पूर्व
(c) North-West/उत्तर-पश्चिम
(d) South-West/दक्षिण-पश्चिम

MP Police Constable Exam- 5 Sep -2023 Shift-1

Ans. (c) : प्रश्नानुसार राजू का गमन पथ इस प्रकार है–

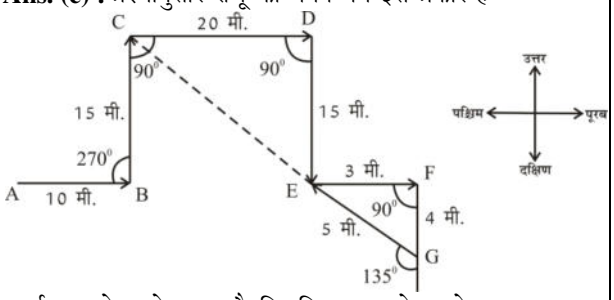

उपर्युक्त आरेख से स्पष्ट है कि बिन्दु 'G' के सापेक्ष 'C' उ0-प0 दिशा में है।

अतः विकल्प (c) सही उत्तर होगा।

67. Abhay walked 20 m towards north, took a right turn and walked 10 m. He again took right turn and walked 20 m. How far and in which direction is he from the starting point ?

अभय उत्तर की ओर 20 मीटर चलता है, फिर दाएं मुड़ता है और 10 मीटर चलता है। वह फिर से दाएं मुड़ता है और 20 मीटर चलता है। वह प्रारंभिक बिंदु से कितनी दूरी पर तथा किस दिशा में है ?

(a) 10m - SOUTH/10 मी.- दक्षिण
(b) 10m - NORTH/10 मी.- उत्तर
(c) 10m - EAST/10 मी.- पूर्व
(d) 10m - WEST/10 मी.- पश्चिम

MP Police Constable Exam- 24 August-2023 Shift-2

Ans. (c) : प्रश्नानुसार, दिशा आरेख निम्नवत् है–

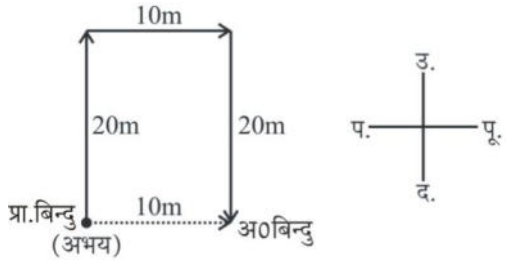

अतः अभय प्रारंभिक बिंदु से 10 मी. पूर्व की ओर है।

68. Raju started walking from point A. He walk 10 m East and reach point B. Then turn 270 degree clockwise direction and move 15 m and reach at point C. Then turn 90 degree right and move 20 m and reach point D. Again turn 90 degree right and move 15 m and reach at point E, turn 90 degree left and move 3 m and reach at point F and again turn 90 degree right and move 4 m and reach point G then turn 135 degree clockwise direction and move 5 m and reach point E and stops.

What is shortest Distance between starting point and ending point ?

राजू बिंदु A से चलना प्रारम्भ करता है, वह 10 मी. पूर्व में चलता है और बिन्दु B पर पहुँचता है। फिर वह 270 डिग्री दक्षिणावर्त दिशा में घूमता है और 15 मी. चलकर बिन्दु C पर पहुँचता है, फिर वह 90 डिग्री दाएं मुड़कर 20 मी. चलता है और बिन्दु D पर पहुँचता है। वह बिन्दु D से 90 डिग्री दाएं मुड़कर 15 मी. चलता है और बिन्दु E पर पहुँचता है, वह 90 डिग्री बाएं मुड़कर 3 मी. चलता है और बिन्दु F पर पहुँचता है फिर 90 डिग्री दाएँ मुड़कर 4 मी. चलता है और बिन्दु G पर पहुँचता है। बिन्दु G से 135 डिग्री दक्षिणावर्त दिशा में घूमता है और 5 मी. चलकर बिन्दु E पर पहुँचता है और रूक जाता है।

प्रारम्भिक बिन्दु और अंतिम बिन्दु के बीच की न्यूनतम दूरी बताएँ?

(a) 33 m/मी. (b) 30 m/मी.
(c) 20 m/मी. (d) 35 m/मी.

MP Police Constable Exam- 6 Sep-2023 Shift-2

Ans. (b) : राजू का गमन पथ निम्नवत् है-

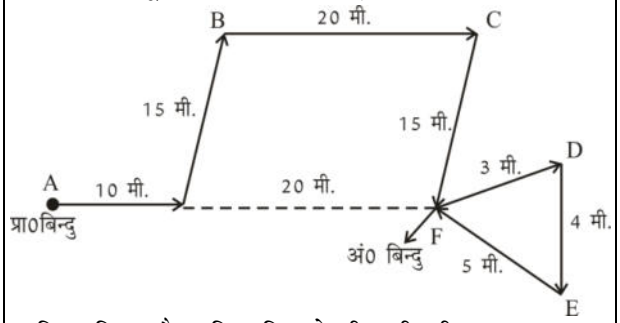

प्रारम्भिक बिन्दु और अन्तिम बिन्दु के बीच की दूरी = 20+10
= 30 मीटर

GET IT ON Google Play Best Study PDF के लिए हमारी App को Download करें "GK Trick By Nitin Gupta"

भाग-7.

रक्त संबंध (Blood Relation)

Type-1: हिन्दी नामों पर आधारित संबंध

1. Pointing to a man, Rina said "He is the son of my grandmother's only child", How is the man related to Rina ?
एक आदमी की ओर इशारा करते हुए, रीना ने कहा, ''वह मेरी दादी की इकलौती संतान का बेटा है'', वह आदमी रीना से कैसे संबंधित है ?

(a) Son/बेटा
(b) Brother/भाई
(c) Data inadequate/डेटा अपर्याप्त
(d) Father/पिता

MP Police Constable Exam- 5 Sep -2023 Shift-1

Ans. (b) : प्रश्नानुसार संबंध आरेख बनाने पर,

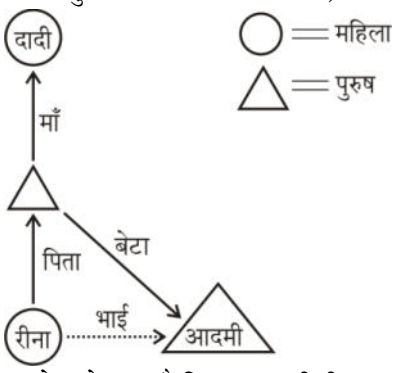

अतः संबंध आरेख से स्पष्ट है कि वह आदमी रीना का भाई है।

2. Jay is the brother of Sayan's uncle. Sayan's grandfather has only two sons. How is Jay related to Sayan?
जय, सायन के चाचा का भाई है। सायन के दादा के केवल दो बेटे हैं। जय, सायन से किस प्रकार संबंधित है?

(a) Brother/भाई (b) Uncle/चाचा
(c) Nephew/भतीजा (d) Father/पिता

MP Police Constable Exam- 12 August-2023 Shift-2

Ans. (d) : प्रश्नानुसार, संबंध-आरेख बनाने पर-

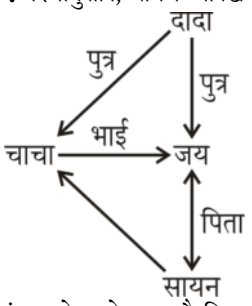

उपर्युक्त संबंध-आरेख से स्पष्ट है कि जय, सायन का पिता है।

3. Rahul is the son of Ravi, who is the husband Radhika. How is Radhika related to Rahul?
राहुल रवि का पुत्र है, जो राधिका का पति है। राधिका राहुल से किस प्रकार संबंधित है?

(a) Cousin/कजिन (b) Mother/माँ
(c) Sister/बहन (d) Wife/पत्नी

MP Police Constable Exam- 12 August-2023 Shift-2

Ans. (b) : कथनानुसार, संबंध-आरेख बनाने पर-

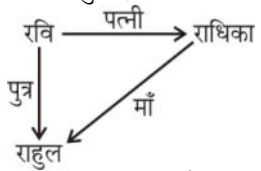

उपर्युक्त संबंध-आरेख से स्पष्ट है कि, राधिका, राहुल की 'माँ' है।

4. Suresh's sister is the wife of Ram. Ram is Rani's brother. Ram's father is Madhur. Sheetal is Ram's grandmother. Rema is Sheetal's daughter-in-law. Rohit is Rani's brother's son. How is Rohit related to Suresh?
सुरेश की बहन राम की पत्नी है। राम, रानी का भाई है। राम के पिता मधुर हैं। शीतल, राम की दादी हैं। रीमा, शीतल की बहू है। रोहित, रानी के भाई का पुत्र है। रोहित का सुरेश से क्या संबंध है?

(a) Brother-in-law/साला
(b) Son/पुत्र
(c) Brother/भाई
(d) Nephew/भतीजा/भांजा

MP Police Constable Exam- 12 August-2023 Shift-2

Ans. (d) : कथनानुसार, संबंध-आरेख बनाने पर-

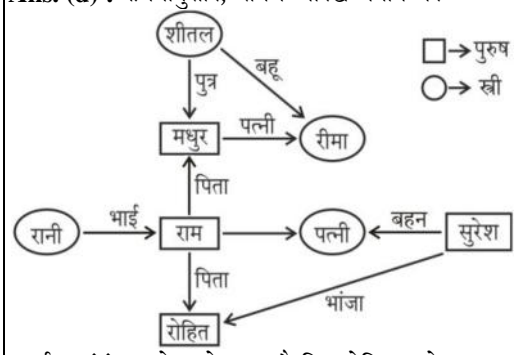

उपर्युक्त संबंध-आरेख से स्पष्ट है कि, रोहित, सुरेश का भांजा है।

5. Binku is brother of Dinku. Dinku is sister of Pinku. Pinku is brother of Rinku. How is Rinku related to Binku?
बिंकू, डिंकू का भाई है। डिंकू पिंकू की बहन है। पिंकू, रिंकू का भाई है। रिंकू, बिंकू से किस प्रकार संबंधित है?

(a) Brother /भाई
(b) Sister /बहन
(c) Brother or Sister /भाई या बहन
(d) Data inadequate /डेटा अपर्याप्त

MP Police Constable Exam- 13 August-2023 Shift-1

GET IT ON Google Play Best Study PDF के लिए हमारी App को Download करें "GK Trick By Nitin Gupta"

Ans. (c) : प्रश्नानुसार, रक्त-संबंध आरेख निम्नवत् है-

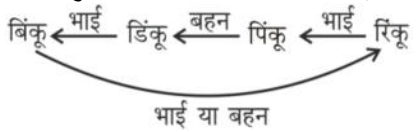

अतः उपर्युक्त आरेख से स्पष्ट है कि बिंकू, रिंकू भाई या बहन हो सकते हें क्योंकि रिंकु का लिंग निर्धारित नही है।

6. Nayan is the son of Ravi. Ravi and Tarun are brothers. Rima is the wife of Tarun and mother of Naina. How is Ravi related to Naina?
नयन रवि का पुत्र है। रवि और तरुण भाई हैं। रीमा तरुण की पत्नी और नैना की मां हैं। रवि, नैना से किस प्रकार संबंधित है?

(a) Son/पुत्र (b) Daughter /पुत्री
(c) Father /पिता (d) Uncle /चाचा

MP Police Constable Exam- 13 August-2023 Shift-1

Ans. (d) : प्रश्नानुसार, रक्त-संबंध आरेख निम्नवत् है-

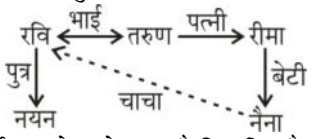

अतः उपर्युक्त आरेख से स्पष्ट है कि रवि, नैना का चाचा है।

7. Pointing to a girl in a photograph, Sunita said, "She is the mother of Renu, whose husband is my son". How is Sunita related to that girl ?
एक तस्वीर में एक लड़की की ओर इशारा करते हुए सुनीता ने कहा, ''वह रेणु की मां है, जिसका पति मेरा बेटा है''। सुनीता उस लड़की से किस प्रकार संबंधित है?

(a) Mother/माँ (b) Aunt/चाची
(c) Cousin/चचेरी बहन (d) Mother-in-law/सास

MP Police Constable Exam- 5 Sep-2023 Shift-2

Ans. (d) : प्रश्नानुसार–
रक्त संबंध आरेख निम्नवत् हैं–

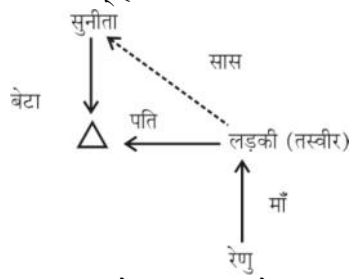

अतः सुनीता, उस लड़की (रेणु) की सास होगी।
अतः विकल्प (d) सही उत्तर होगा।

8. Mathew told his friend Sham, pointing to a photograph "Her father is the only son of my mother." The photograph is of whom?
मैथ्यू ने अपने दोस्त शाम को एक तस्वीर की ओर इशारा करते हुए कहा, ''उसका पिता मेरी मां का इकलौता बेटा है।'' फोटो किसकी है?

(a) Mathew's niece/मैथ्यू की भतीजी
(b) Mathew's mother/मैथ्यू की मां
(c) Mathew's daughter/मैथ्यू की बेटी
(d) Mathew's sister/मैथ्यू की बहन

MP Police Constable Exam- 13 August-2023 Shift-1

Ans. (c) : प्रश्नानुसार, रक्त-संबंध आरेख निम्नवत् है-

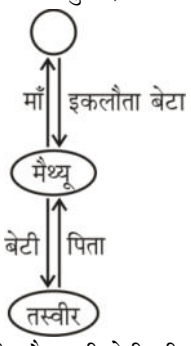

अतः तस्वीर मैथ्यू की बेटी की है।

9. Vishal is the brother of Divya and Divya is sister of Ankit. Ankit is brother of Fenny. How is Fenny related to Vishal?
विशाल दिव्या का भाई है और दिव्या अंकित की बहन है। अंकित फेनी का भाई है। फेनी, विशाल से किस प्रकार संबंधित है?

(a) Brother /भाई
(b) Sister /बहन
(c) Brother or Sister /भाई या बहन
(d) Father /पिता

MP Police Constable Exam- 13 August-2023 Shift-1

Ans. (c) : प्रश्नानुसार, रक्त-संबंध आरेख निम्नवत् है-

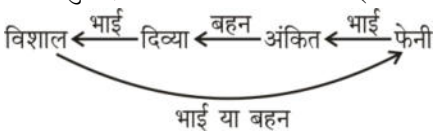

∵ उपर्युक्त आरेख में फेनी का लिंग निर्धारित नही है इसीलिए फेनी विशाल का भाई या बहन हो सकता है।
अतः विकल्प (c) सही उत्तर है।

10. Navin is the husband of Simar. Naresh is the husband of Kavita. Kavita is the daughter-in - law of Navin. How Naresh is related to Navin?
नवीन सिमर का पति है। नरेश कविता का पति हैं। कविता, नवीन की बहू है। नरेश, नवीन से किस प्रकार संबंधित है?

(a) Father/पिता
(b) Brother–in–law/बहनोई
(c) Brother/भाई
(d) Son/पुत्र

MP Police Constable Exam- 13 August-2023 Shift-2

Ans. (d) : रक्त संबंध आरेख निम्न है-

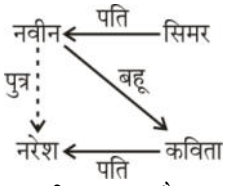

अतः स्पष्ट है कि नरेश, नवीन का पुत्र है।

11. Rakhi is daughter of Divya, whose husband is the only brother of Rakhi's father's sister. How is Rakhi related to Divya's husband?

GET IT ON Google Play Best Study PDF के लिए हमारी App को Download करें "GK Trick By Nitin Gupta"

राखी दिव्या की बेटी है, जिसका पति राखी के पिता की बहन का इकलौता भाई है। राखी का दिव्या के पति से क्या संबंध है?

(a) Brother/भाई (b) Sister/बहन
(c) Daughter/बेटी (d) Niece/भतीजी

MP Police Constable Exam- 13 August-2023 Shift-2

Ans. (c) : प्रश्नानुसार रक्त संबंध निम्नवत् है-

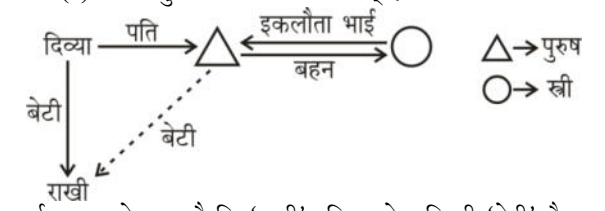

उपर्युक्त हल से स्पष्ट है कि 'राखी', दित्या के पति भी 'बेटी' है।

12. Romit told Rohit,"Yesterday I defeated the only brother of daughter of my paternal grandmother." Whom did Romit defeat?
रोमित ने रोहित से कहा, ''कल मैंने अपनी दादी की पुत्री के इकलौते भाई को हरा दिया।'' रोमित ने किसे हराया?

(a) Son/पुत्र (b) Father/पिता
(c) Brother/भाई (d) Cousin/कजिन

MP Police Constable Exam- 16 August-2023 Shift-1

Ans. (b) : रक्त संबंध आरेख निम्न है-

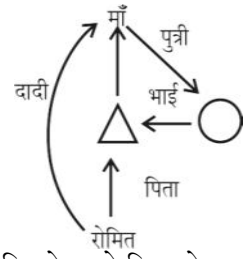

अतः स्पष्ट है कि रोमित ने अपने पिता को हराया।

13. Naren has a sister. Mohini is the daughter of Naren's sister. How Mohini is related to Naren?
नरेन की एक बहन है। मोहिनी नरेन की बहन की बेटी है। मोहिनी नरेन से किस प्रकार संबंधित है?

(a) Nephew /भतीजा (b) Niece /भांजी
(c) Daughter /बेटी (d) Brother /भाई

MP Police Constable Exam- 12 August-2023 Shift-3

Ans. (b) : आरेख निम्नवत् है-

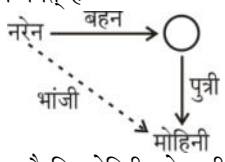

उपरोक्त आरेख से स्पष्ट है कि मोहिनी नरेन की भांजी है।

14. Anita is sister of Veer. Veer is brother of Dheer. Dheer is sister of Mihir. How is Mihir related to Dheer?
अनीता वीर की बहन है। वीर धीर का भाई है। धीर मिहिर की बहन है। मिहिर धीर से किस प्रकार संबंधित है?

(a) Brother/भाई
(b) Brother or Sister/भाई या बहन
(c) Sister/बहन
(d) Data inadequate/डेटा अपर्याप्त

MP Police Constable Exam- 12 August-2023 Shift-3

Ans. (b) : रक्त सम्बन्ध आरेख निम्नवत् है-

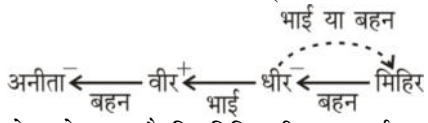

उपरोक्त आरेख से स्पष्ट है कि मिहिर धीर का भाई या बहन है। अतः विकल्प (b) सही उत्तर है।

15. Pointing towards Mukesh, Seema said, "He is the only grandchild of my father". How is she (Seema) related to Mukesh?/मुकेश की ओर इशारा करते हुए सीमा ने कहा, ''वह मेरे पिता का इकलौता पोता है''। वह (सीमा) मुकेश से किस प्रकार संबंधित है?

(a) Brother/भाई
(b) Aunt or Mother/बूआ या मां
(c) Grandmother/दादी
(d) Father/पिता

MP Police Constable Exam- 12 August-2023 Shift-3

Ans. (b) : रक्त सम्बन्ध आरेख निम्नवत् है-

उपरोक्त रक्त आरेख से स्पष्ट है कि सीमा, मुकेश की माँ या बुआ होगी अतः विकल्प (b) सही उत्तर है।

16. Pointing to a boy, Mamta said, "he is the only son of my father-in-law's only child." How is the boy related to Mamta?
एक लड़के की ओर इशारा करते हुए, ममता ने कहा, ''वह मेरे ससुर की एकमात्र संतान का इकलौता बेटा है।'' लड़का ममता से किस प्रकार संबंधित है?

(a) Father/पिता (b) Father-in-law/ससुर
(c) Daughter/बेटी (d) Son/बेटा

MP Police Constable Exam- 16 August-2023 Shift-3

Ans. (d) : प्रश्नानुसार रक्त सम्बन्ध आरेख बनाने पर-

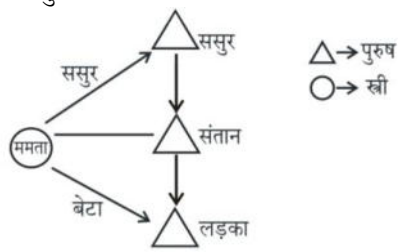

उपर्युक्त रक्त सम्बन्ध आरेख से स्पष्ट है कि लड़का ममता का बेटा है।

17. Pointing to Samar a boy said, "He is the son-in-law of my grandfather and the husband of my mother." How is Samar related to the boy?
समर की ओर इशारा करते हुए एक लड़के ने कहा, ''वह मेरे नाना का दामाद और मेरी मां का पति है।'' समर का लड़के से क्या संबंध है?

(a) Son/बेटा (b) Brother/भाई
(c) Father/पिता (d) Uncle /चाचा

MP Police Constable Exam- 14 August-2023 Shift-3

GET IT ON Google Play Best Study PDF के लिए हमारी App को Download करें "GK Trick By Nitin Gupta"

Ans. (c) : प्रश्नानुसार, रक्त सम्बन्ध आरेख निम्नलिखित है-

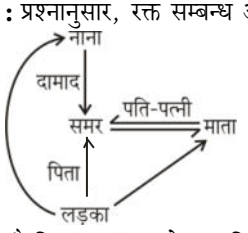

अतः स्पष्ट है कि 'समर' लड़के का पिता है।

18. Amit is the great grandfather of Chandan's only son, who is the husband of Puspa ,whose father-in-law is the husband of Bidya. How is Bidya related to Amit?
अमित चंदन के इकलौते बेटे का परदादा है, जो पुष्पा का पति है, जिसका ससुर बिद्या का पति है। बिद्या का अमित से क्या संबंध है?

(a) Daughter/बेटी
(b) Granddaughter/पोती
(c) Daughter-in-law/बहु
(d) Grand-daughter-in-law/पोते की पत्नी

MP Police Constable Exam- 13 August-2023 Shift-3

Ans. (d) : प्रश्नानुसार रक्त संबध आरेख निम्नवत् है-

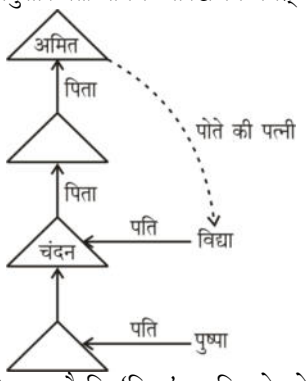

उपर्युक्त आरेख से स्पष्ट है कि 'विद्या', अमित के पोते की पत्नी है।

19. Pointing to a boy in a photograph Sudhir said, "He is the son of my maternal grandfather's only child". How is the boy related to Sudhir?
एक फोटोग्राफ में एक लड़के की ओर इशारा करते हुए सुधीर ने कहा, ''वह मेरे नाना की इकलौती संतान का पुत्र है''। लड़का सुधीर से किस प्रकार संबंधित है?

(a) Himself/स्वयं
(b) Brother/भाई
(c) Cousin brother/चचेरा भाई
(d) Data inadequate/डेटा अपर्याप्त

MP Police Constable Exam- 8 Sep-2023 Shift-1

Ans. (b) : प्रश्नानुसार, संबंध आरेख बनाने पर-

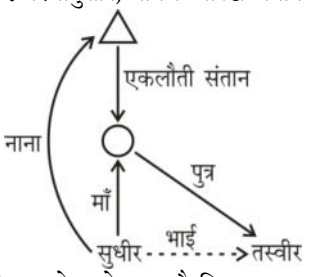

अतः उपरोक्त आरेख से स्पष्ट है कि लड़का सुधीर का भाई है।

20. A man said to a woman, "The only son of your brother, is a brother of my wife." How is that woman related to the wife of that man?
एक आदमी ने एक महिला से कहा, ''तुम्हारे भाई का इकलौता बेटा, मेरी पत्नी का भाई है।'' वह महिला, उस पुरुष की पत्नी से किस प्रकार संबंधित है?

(a) Aunt/आंटी/बुआ
(b) Mother/माँ
(c) Sister/बहन
(d) Grandmother/दादी

MP Police Constable Exam- 12 Sep-2023 Shift-1

Ans. (a) : प्रश्नानुसार, रक्त संबंध आरेख निम्न है-

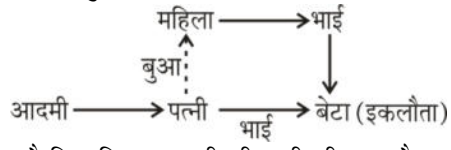

अतः स्पष्ट है कि महिला, आदमी की पत्नी की बुआ है।

21. Ramu and Shyamu are brothers. Aditi and Bela are sisters. Adiiti's daughter is Ramu's sister. What is Bela's relation to Shyamu?
रामू और श्यामू भाई हैं। अदिति और बेला बहनें हैं। अदिति की पुत्री रामू की बहन है। बेला का श्यामू से क्या संबंध है?

(a) Mother/माँ
(b) Grandmother/दादी
(c) Sister/बहन
(d) Aunt/मौसी/बूआ

MP Police Constable Exam- 14 August-2023 Shift-2

Ans. (d) : प्रश्नानुसार रक्त सम्बन्ध आरेख निम्नलिखित है।

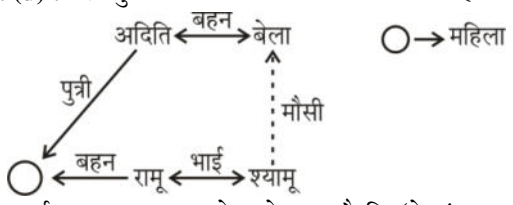

अतः उपर्युक्त रक्त सम्बन्ध आरेख से स्पष्ट है कि 'बेला', श्यामू की मौसी है। अतः विकल्प (d) सही है।

22. Introducing Rimi, Moulik said "Her father is the only son of my father". How is Rimi related to Moulik ?
रिमी का परिचय देते हुए, मौलिक ने कहा, ''उसके पिता मेरे पिता के इकलौते पुत्र हैं''। कैसे, रिमी मौलिक से संबंधित है ?

(a) Daughter/बेटी
(b) Sister/बहन
(c) Aunt/चाची
(d) Mother/मां

MP Police Constable Exam- 3 Sep-2023 Shift-1

Ans. (a) : प्रश्नानुसार, रक्त संबंध आरेख बनाने पर,

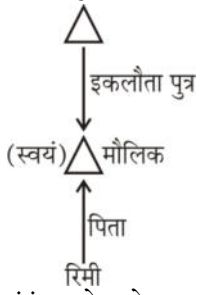

अतः रक्त संबंध आरेख से स्पष्ट है कि रिमी, मौलिक की बेटी है।

GET IT ON Google Play Best Study PDF के लिए हमारी App को Download करें "GK Trick By Nitin Gupta"

23. Arun says, 'Mithun is the son of the father of the mother of my daughter.' How is Mithun related to Arun?
अरुन कहता है, 'मिथुन, मेरी पुत्री की माँ के पिता का पुत्र है।' मिथुन, अरुन से किस प्रकार संबंधित है?

(a) Nephew/भतीजा (b) Brother/भाई
(c) Uncle/चाचा (d) Brother-in-law/साला

MP Police Constable Exam 23 July 2016 - 9:am

Ans : (d) प्रश्नानुसार,

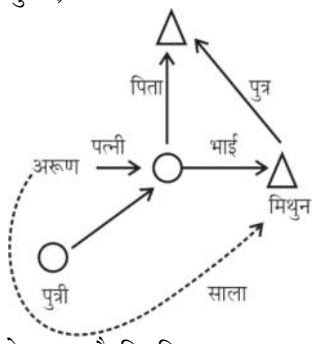

उपर्युक्त आरेख से स्पस्ट है कि मिथुन अरूण का साला है। अतः विकल्प (a) सही उत्तर होगा।

24. Sunil is the son of Kesav. Simran, Kesav's sister, has a son Maruti and daughter Sita. Prem is the maternal uncle of Maruti. How is Sunil related to Maruti ?
सुनील, केशव का पुत्र है। केशव की बहन सिमरन का एक पुत्र मारूति और एक पुत्री सीता है। प्रेम, मारूति का मामा है। सुनील का मारूति से क्या संबंध है?

(a) Nephew/भतीजा (b) Cousin/कजिन
(c) Uncle/अंकल (d) Brother/भाई

MP Police Constable Exam- 09 Feb-2022 Shift-1

Ans. (b) : प्रश्नानुसार रक्त संबंध आरेख बनाने पर -

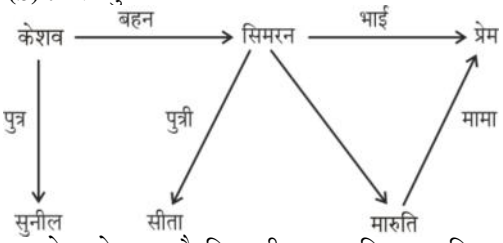

उपर्युक्त आरेख से स्पष्ट है कि सुनील, मारूति का कजिन (ममेरा भाई) है।

25. Qazi is the brother of Rahman. Rahman is the daughter of Prem. Prem is the husband of Atul. How is Quazi related to Atul?/काजी, रहमान का भाई है। रहमान, प्रेम की पुत्री है। प्रेम, अतुल का पति है। काजी, अतुल से किस प्रकार संबंधित है।

(a) Father/पिता (b) Uncle/अंकल
(c) Son-in-law/दामाद (d) Son/पुत्र

MP Police Constable Exam- 10 Jan -2022 Shift-2

Ans. (d) : प्रश्नानुसार, रक्त संबंध आरेख निम्न प्रकार है–

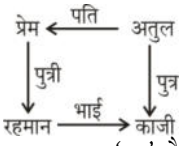

अतः स्पष्ट है कि काजी, अतुल का 'पुत्र' है।

26. Karina is mother - in - law of Hema, who is sister-in-law of Amit. Deepak is father of Suman, the only brother of Amit. How is Karina related to Amit./करीना हेमा की सास है, जो अमित की भाभी है। दीपक, अमित के इकलौते भाई सुमन का पिता है। करीना का अमित से क्या संबंध है?

(a) Mother-in-law/सास (b) Aunt/चाची
(c) Mother/माँ (d) Wife/पत्नी

MP Police Constable Exam- 10 Jan -2022 Shift-2

Ans. (c) : प्रश्नानुसार, रक्त संबंध आरेख निम्नवत् है–

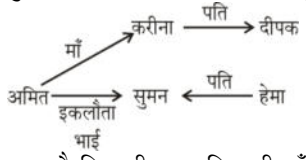

अतः उपर्युक्त से स्पष्ट है कि करीना, अमित की माँ हैं।

27. Pointing to a woman a man says, "Her mother's mother is the mother of my father". How is the man related to that woman?
एक महिला को इंगित करते हुए एक पुरुष कहता है कि ''उसकी माता की माता मेरे पिता की माता है'', तो उस पुरुष का महिला से सम्बन्ध है

(a) Nephew/भतीजे का
(b) Son/पुत्र का
(c) Maternal cousin/ममेरे भाई का
(d) Uncle/चाचा का

MP Police Constable Recruitment Test - 2013

Ans. (c) : प्रश्नानुसार,
रक्त संबंध आरेख बनाने पर-

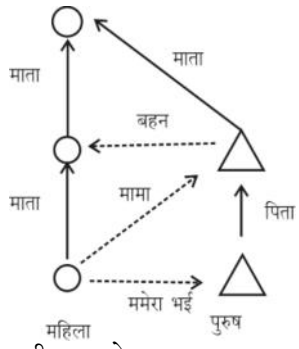

अतः विकल्प (c) सही उत्तर होगा।

28. Ajay and Vijay are brothers. Asha and Kajal are sisters. Ajay's son is Kajal's brother. How Vijay is related to Aasha?/अजय और विजय भाई हैं। आशा और काजल बहनें हैं। अजय का बेटा काजल का भाई है। विजय आशा से कैसे संबंधित है?

(a) Father/पिता (b) Brother/भाई
(c) Grandfather/दादा (d) Uncle/चाचा

MP Police Constable Exam- 20 July-2016 - 9: am

Ans : (d) प्रश्नानुसार,

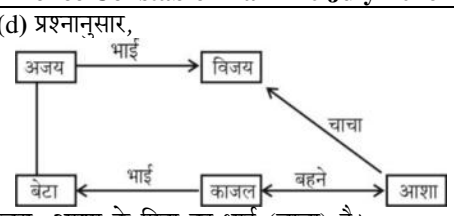

अतः विजय, आशा के पिता का भाई (चाचा) है।

GET IT ON Google Play Best Study PDF के लिए हमारी App को Download करें "GK Trick By Nitin Gupta"

29. The mother of Radha is the only daughter of Nirmala's father. How Nirmala is related to Radha?/राधा की माता निर्मला के पिता की इकलौती बेटी है। निर्मला राधा से कैसे संबंधित है?

(a) Sister/बहन
(b) Mother/माता
(c) Aunt/आंटी
(d) Can't determine/निर्धारित नहीं कर सकते

MP Police Constable Exam- 18 July-2016 - 9:am

Ans : (b) प्रश्नानुसार,

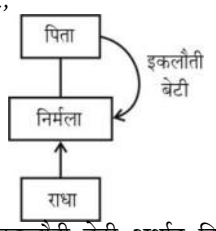

निर्मला के पिता की इकलौती बेटी अर्थात् निर्मला है जो राधा की माता हुई।

30. Pointing to a gentleman, Dinesh said, "His only brother is the father of my daughter's father." How is the gentleman related to Dinesh?
एक सज्जन की ओर इशारा करते हुए, दिनेश ने कहा, ''इसका इकलौता भाई मेरी बेटी के पिता के पिता है।'' सज्जन, दिनेश से कैसे संबंधित है?

(a) Grandfather/दादा
(b) Brother in law/बहनोई
(c) Father/पिता
(d) Uncle/अंकल

MP Police Constable Exam- 18 July-2016 - 9: am

Ans : (d) प्रश्नानुसार,

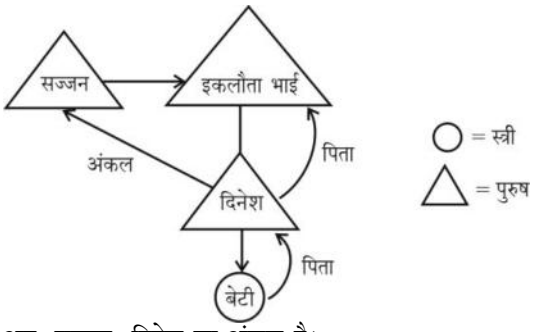

अतः सज्जन, दिनेश का अंकल है।

31. Pointing to a photograph, a lady tells Pradeep, "I am the only daughter of the lady and her son is your maternal uncle." How is the speaker related to Pradeep father?
एक तस्वीर की ओर इशारा करते हुए, एक स्त्री प्रदीप को कहती है, ''मैं इस महिला की इकलौती बेटी हूँ और उसका बेटा आपके मामा है।'' वक्ता प्रदीप के पिता से कैसे संबंधित है?

(a) Sister-in-law/ननद
(b) Either (a) or (c)/(a) अथवा (c)
(c) Wife/पत्नी
(d) Neither (a) or (c)/(a) या (c) में से कोई नहीं

MP Police Constable Exam- 18 July-2016 - 9: am

Ans : (c) प्रश्नानुसार रक्त संबंध आरेख बनाने पर-

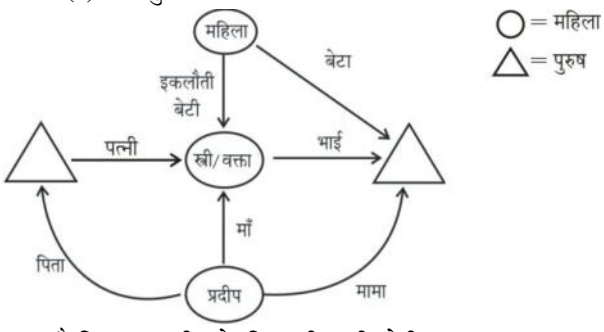

स्पष्ट है कि वक्ता प्रदीप के पिता की पत्नी होगी।

32. A man told a woman, 'Your mother's husband's sister is my paternal aunt.' How is the woman related to him?
एक पुरुष ने एक महिला से कहा, 'तुम्हारी माँ के पति की बहन मेरी बुआ है'। वह महिला उससे किस तरह संबंधित है?

(a) Aunt/आंटी (b) Mother/माँ
(c) Sister/बहन (d) Grandmother/दादी

MP Police Constable Exam 24 July 2016 - 9:am

Ans : (c) कथनानुसार, संबंध आरेख बनाने पर-

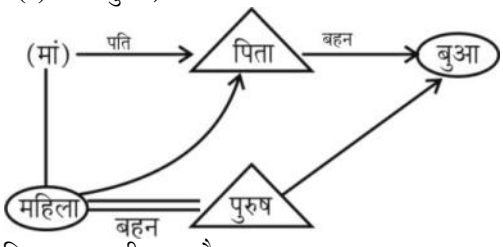

वह महिला, पुरुष की बहन है।

33. Junaid said to his boss, "Sir, I need a leave. My sister's father has invited me to the wedding of his one and only son." to who's wedding does Junaid want to go?
जुनैद ने अपने बॉस से कहा, ''सर, मुझे छुट्टी चाहिए। मेरी बहन के पिता ने अपने इकलौते बेटे की शादी में मुझे आमंत्रित किया है।'' जुनैद किसकी शादी में जाना चाहता है?

(a) His siter's /उसकी बहन की
(b) His brother's/उसके भाई की
(c) His own/उसकी अपनी
(d) He is telling a lie/वो झूंठ बोल रहा है।

MP Police Constable Exam- 1 August-2016, 3:pm

Ans : (c) जुनैद की बहन का पिता यानी जुनैद का पिता उसके पिता का इकलौता पुत्र यानी वह स्वयं अतः जुनैद अपनी खुद की शादी के लिए छुट्टी चाहता है।

34. A, B, C, D, E and F are members of a club. There are two married couples in the group. A is the brother of D's husband. C is the president of All India Working Women's Association. F, a sitarist, is a bachelor. B's wife is not a member of the club. Four of them belong to the same family. B and F are colleagues in the same organization.

GET IT ON Google Play Best Study PDF के लिए हमारी App को Download करें "GK Trick By Nitin Gupta"

A, B, C, D, E और F एक क्लब के सदस्य हैं। इस समूह में दो विवाहित जोड़े हैं। A, D के पति का भाई है। C ऑल इंडिया वर्किंग विमेन एसोसिएशन की अध्यक्षा है। F एक सितारवादक, कुँवारा है। B की पत्नी इस क्लब की सदस्य नहीं है। इनमें से चार व्यक्ति एक ही परिवार के सदस्य हैं। B और F एक ही संगठन में सहकर्मी हैं।

How many unmarried male members are there in the group?
समूह में कितने अविवाहित पुरुष सदस्य हैं?

(a) One/एक (b) Two/दो
(c) Three/तीन (d) Four/चार

MP Police Constable Exam 17 July 2016 - 9:am

Ans : (a) F एक सितारवादक, कुवाँरा है।

Type-2: अंग्रेजी वर्णमाला के अक्षरों के नामकरण पर आधारित रक्त संबंध

35. A is the father of B, C is the daughter of B, D is the brother of B, E is the son of A. What is the relationship between C and E?
A, B का पिता है, C, B की बेटी है, D, B का भाई है, E, A का पुत्र है। C और E के बीच क्या संबंध है?

(a) Brother and sister/भाई और बहन
(b) Cousins/कजिन
(c) Niece and uncle/भतीजी और चाचा
(d) Uncle and aunt/चाचा और चाची

MP Police Constable Exam- 8 Sep-2023 Shift-2

Ans. (c) : प्रश्नानुसार, रक्त-संबंध आरेख निम्नवत् है–

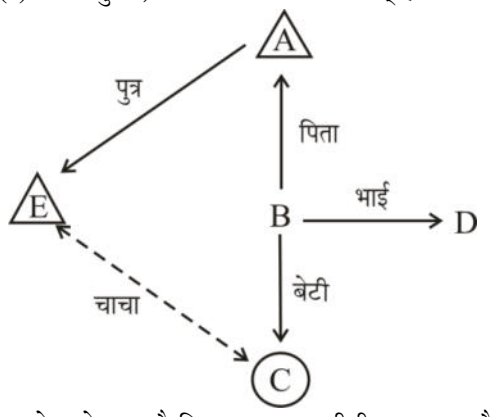

उपरोक्त आरेख से स्पष्ट है कि C तथा E भतीजी तथा चाचा है।

36. Read the information carefully and answer the following.
"P*Q" represents "P is father of Q".
"P@Q" represents "P is mother of Q".
"P%Q" represents "P is husband of Q".
"P$Q" represents "P is wife of Q".
"P©Q" represents "P is brother of Q".
"P<Q" represents "P is sister of Q".
"P=Q" represents "P is son of Q".
"P÷Q" represents "P is daughter of Q".
How is R related to A on given statement?
जानकारी को ध्यान से पढ़ें और निम्नलिखित का उत्तर दें।
"P*Q" का अर्थ "P, Q के पिता है"।
"P@Q" का अर्थ "P, Q की माता है"।
"P%Q" का अर्थ "P, Q का पति है"।
"P$Q" का अर्थ "P, Q की पत्नी है"।
"P©Q" का अर्थ "P, Q का भाई है"।
"P<Q" का अर्थ "P, Q की बहन है"।
"P=Q" का अर्थ "P, Q का बेटा है"।
"P÷Q" का अर्थ "P, Q की बेटी है"।
R का A से सम्बन्ध ज्ञात करें?
T ÷ R % M @ A * U © K

(a) Father/पिता (b) Grandfather/दादा
(c) Son/बेटा (d) Father-in–law/ससुर

MP Police Constable Exam- 2 Sep-2023 Shift-3

Ans. (a) : दिया गया समी.-
T ÷ R % M @ A * U © K
प्रश्नानुसार- रक्त संबंध आरेख बनाने पर-

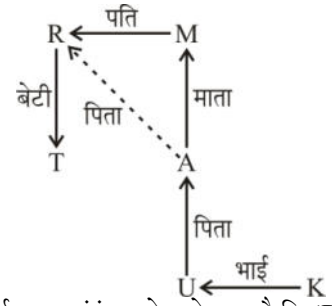

अतः उपर्युक्त रक्त संबंध आरेख से स्पष्ट है कि 'R','A' का पिता है।
अतः विकल्प (a) सही उत्तर होगा।

37. P $ Q means P is the mother of Q
P # Q means P is the father of Q
P @ Q means P is the husband of Q
P % Q means P is the daughter of Q
A @ B $ C # D indicates what relationship of A with D?
P $ Q का अर्थ है P, Q की माता है
P # Q का अर्थ है P, Q का पिता है
P @ Q का अर्थ है कि P, Q का पति है
P % Q का अर्थ है कि P, Q की पुत्री है
A @ B $ C # D इंगित करता है कि A का D के साथ क्या संबंध है?

(a) Paternal grandmother/दादी
(b) Paternal grandfather /दादा
(c) Maternal grandfather /नाना
(d) Maternal grandmother /नानी

MP Police Constable Exam- 12 August-2023 Shift-2

Ans. (b) : कथनानुसार वेन-आरेख बनाने पर-

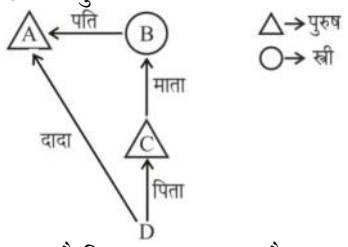

उपर्युक्त से स्पष्ट है कि, A, D का दादा है।

GET IT ON Google Play Best Study PDF के लिए हमारी App को Download करें "GK Trick By Nitin Gupta"

38. A, B and C are playing in the ground. B is the brother of A and son of C. How is C related to A?
A, B और C मैदान में खेल रहे हैं। B, A का भाई है और C का पुत्र है। C, A से किस प्रकार संबंधित है?

(a) Son/पुत्र (b) Daughter/पुत्री
(c) Father/पिता (d) Uncle/चाचा

MP Police Constable Exam- 12 August-2023 Shift-2

Ans. (c) : प्रश्नानुसार, संबंध आरेख बनाने पर-

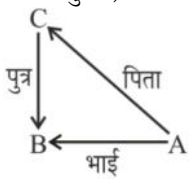

उपर्युक्त संबंध-आरेख से स्पष्ट है कि, C, A का पिता है।

39. W is the sister of A's father. A is the son of P. But P is not the mother of A. How W is related to P?
W, A के पिता की बहन है। A, P का पुत्र है। लेकिन P, A की माता नहीं है। W, P से किस प्रकार संबंधित है?

(a) Brother/भाई (b) Sister/बहन
(c) Daughter/बेटी (d) Wife/पत्नी

MP Police Constable Exam- 13 August-2023 Shift-1

Ans. (b) : प्रश्नानुसार, रक्त-संबंध आरेख निम्नवत् है-

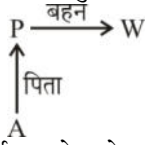

अतः उपर्युक्त आरेख से स्पष्ट है कि W, P की बहन है।

40. A's son B is married to C whose sister D is married to E, who is the brother of B. How is C related to E?
A का पुत्र B, C से विवाहित है, जिसकी बहन D, E से विवाहित है, जो B का भाई है। C, E से किस प्रकार संबंधित है?

(a) Sister-in-law/भाभी (b) Sister/बहन
(c) Daughter/बेटी (d) Cousin/कजिन

MP Police Constable Exam- 13 August-2023 Shift-2

Ans. (a) : रक्त संबंध आरेख निम्न है-

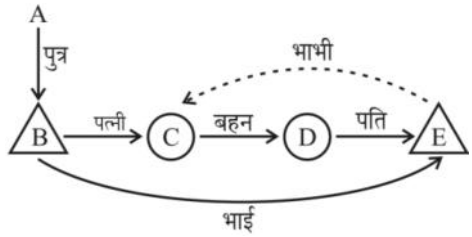

अतः स्पष्ट है कि C, E की भाभी है।

41. P and Q are sisters. R and T are brothers. P's daughter is R's sister. What is Q's relation to T?
P और Q बहनें हैं। R और T भाई हैं। P की पुत्री R की बहन है। Q का T से क्या संबंध है?

(a) Mother/माँ (b) Grandmother/दादी
(c) Sister/बहन (d) Aunt/बूआ/मौसी

MP Police Constable Exam- 13 August-2023 Shift-2

Ans. (d) : प्रश्नानुसार रक्त संबंध निम्नवत् है-

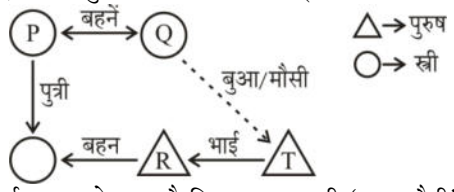

अतः उपर्युक्त हल से स्पष्ट है कि 'Q', 'T' की 'बुआ/मौसी' है।

42. B is brother of D. D is brother of E. E is son of F. How is F related to B?
B, D का भाई है। D, E का भाई है। E, F का पुत्र है। F, B से किस प्रकार संबंधित है?

(a) Brother/भाई
(b) Sister/बहन
(c) Mother or father/माता या पिता
(d) Data inadequate/डेटा अपर्याप्त

MP Police Constable Exam- 16 August-2023 Shift-1

Ans. (c) : रक्त संबंध आरेख निम्न है-

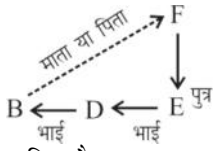

अतः F, B की माता या पिता है।

43. A's father is B's son. C is the paternal uncle of A and D is the son of A. How is D related to C?
A का पिता B का पुत्र है। C, A का चाचा है और D, A का पुत्र है। D, C से किस प्रकार संबंधित है?

(a) Cousin/कजिन (b) Brother/भाई
(c) Nephew/भतीजा (d) Grandson/पोता

MP Police Constable Exam- 13 August-2023 Shift-2

Ans. (d) : प्रश्नानुसार रक्त संबंध आरेख निम्नवत् है-

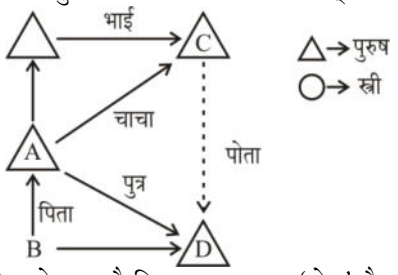

उपर्युक्त आरेख से स्पष्ट है कि 'D', 'C' का 'पोता' है।

44. 'A @ B' means 'A is the father of B'.
'A * B' means 'A is the brother of B'
'A $ B' means 'A is the sister of B'.
If Q*Z*M @ K$T @ U*N, then which of the following statements is NOT correct?
'A @ B' का अर्थ है कि 'A, B का पिता है।'
'A * B' का अर्थ है कि 'A, B का भाई है।'
'A $ B' का अर्थ है कि 'A, B की बहन'
यदि Q*Z*M @ K$T @ U*N, तो निम्नलिखित में से कौन-सा कथन सही नहीं है?

(a) K is the mother of N /K, N की माता है
(b) U is the paternal grandson of M /U, M का पोता है
(c) Q is the paternal uncle of T /Q, T का अंकल है
(d) M is T's father /M, T का पिता है

MP Police Constable Exam- 12 August-2023 Shift-3

GET IT ON Google Play Best Study PDF के लिए हमारी App को Download करें "GK Trick By Nitin Gupta"

Ans. (a) : प्रश्नानुसार आरेख निम्नवत् है-

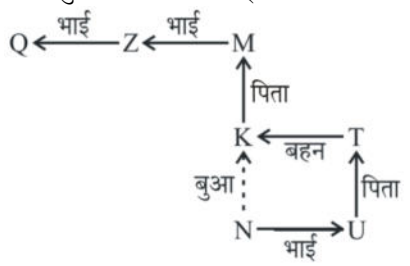

K, N की बुआ है न कि माता, अतः विकल्प (a) सही उत्तर है।

45. A's mother is the only daughter of B. She is also the sister of D. C is the daughter of D. How is A related to C?
A की माँ B की इकलौती पुत्री है। वह D की बहन भी है। C, D की पुत्री है। A, C से किस प्रकार संबंधित है?

(a) Mother/माँ (b) Father/पिता
(c) Cousin/कजिन (d) Brother/भाई

MP Police Constable Exam- 12 August-2023 Shift-3

Ans. (c) : प्रश्नानुसार,

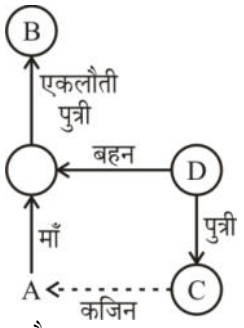

अतः A, C की कजिन है।

46. Read the information carefully and answer the following.
"P*Q" represents "P is father of Q".
"P@Q" represents "P is mother of Q".
"P%Q" represents "P is husband of Q".
"P$Q" represents "P is wife of Q".
"P©Q" represents "P is brother of Q".
"P<Q" represents "P is sister of Q".
"P=Q" represents "P is son of Q".
"P÷Q" represents "P is daughter of Q".
How is R related to K in given line?
जानकारी को ध्यान से पढ़ें और निम्नलिखित का उत्तर दें।
"P*Q" का अर्थ "P, Q के पिता है।"
"P@Q" का अर्थ "P, Q की माता है।"
"P%Q" का अर्थ "P, Q का पति है।"
"P$Q" का अर्थ "P, Q की पत्नी है।"
"P©Q" का अर्थ "P, Q का भाई है।"
"P<Q" का अर्थ "P, Q की बहन है।"
"P=Q" का अर्थ "P, Q का बेटा है।"
"P÷Q" का अर्थ "P, Q की बेटी है।"
दी गई पंक्ति में R का K से संबंध बताए?
T ÷ R % M @ A * U © K

(a) Father/पिता (b) Son/बेटा
(c) Grandfather/दादा (d) Brother-in–law/देवर

MP Police Constable Exam- 6 Sep-2023 Shift-3

Ans. (c) : दी गई पंक्ति का वेन आरेख निम्न है-

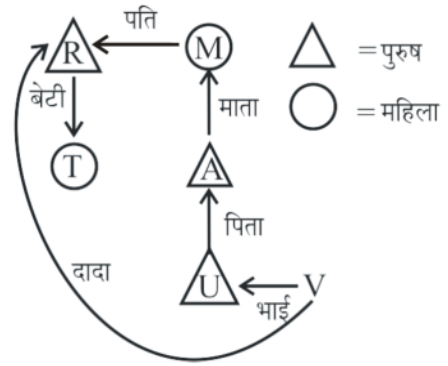

अतः दी गई पंक्ति से R, K के दादा है।

47. R is sister of P. P is brother of S. S is sister of T. T is brother of R. How is P related to R?
R, P की बहन है। P, S का भाई है। S, T की बहन है। T, R का भाई है। P, R से किस प्रकार संबंधित है?

(a) Brother/भाई (b) Paternal Uncl/चाचा
(c) Sister/बहन (d) Aunt/चाची

MP Police Constable Exam- 14 August-2023 Shift-3

Ans. (a) : प्रश्नानुसार, रक्त सम्बन्ध आरेख निम्नवत् है-

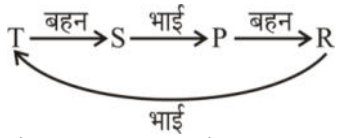

अतः स्पष्ट है कि P, R का भाई है।

48. Read the information carefully and answer the following.
"P*Q" represents "P is father of Q".
"P@Q" represents "P is mother of Q".
"P%Q" represents "P is husband of Q".
"P$Q" represents "P is wife of Q".
"P©Q" represents "P is brother of Q".
"P<Q" represents "P is sister of Q".
"P=Q" represents "P is son of Q".
"P÷Q" represents "P is daughter of Q".
Which option represents B is grandfather of G?
जानकारी को ध्यान से पढ़ें और निम्नलिखित का उत्तर दें।
"P*Q" का अर्थ "P, Q के पिता है।"
"P@Q" का अर्थ "P, Q की माता है।"
"P%Q" का अर्थ "P, Q का पति है।"
"P$Q" का अर्थ "P, Q की पत्नी है।"
"P©Q" का अर्थ "P, Q का भाई है।"
"P<Q" का अर्थ "P, Q की बहन है।"
"P=Q" का अर्थ "P, Q का बेटा है।"
"P÷Q" का अर्थ "P, Q की बेटी है।"
कौन-सा विकल्प दर्शाता है कि B, G के दादा है?

(a) B % C @ D ≤ G
(b) B % C = E © G
(c) B % C @ D * G © F
(d) B % C @ D © G

MP Police Constable Exam- 9 Sep-2023 Shift-2

GET IT ON Google Play Best Study PDF के लिए हमारी App को Download करें "GK Trick By Nitin Gupta"

Ans. (c) : प्रश्नानुसार,
विकल्प (c) से, रक्त संबंध आरेख बनाने पर-

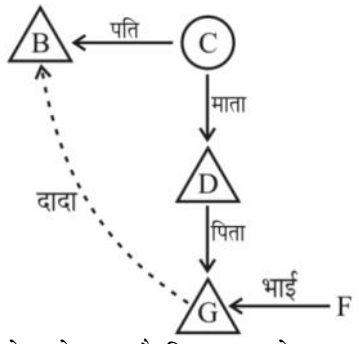

उपर्युक्त आरेख से स्पष्ट है कि, B, G के दादा हैं। इसलिए सही उत्तर विकल्प (c) होगा।

49. E is son of A, C is daughter of B, C is married to E, and B is wife of D. How B is related to E?
E, A का पुत्र है। C, B की पुत्री है। C, E से विवाहित है। B, D की पत्नी है। B का E से संबंध बताए?

(a) Son-in-law/दामाद (b) Son/पुत्र
(c) Mother-in-law/सास (d) Mother/माँ

MP Police Constable Exam- 9 Sep-2023 Shift-2

Ans. (c) : प्रश्नानुसार संबंध आरेख निम्नवत् है-

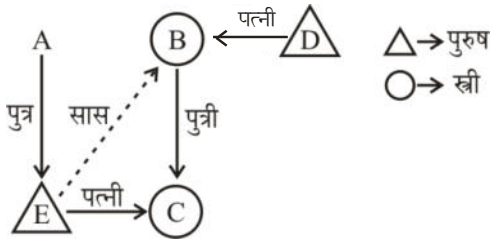

उपर्युक्त आरेख से स्पष्ट है कि 'B' E की सास है।

50. Prashant's father is Kartik's son. Mayank is the paternal uncle of Prashant and Navin is the brother of Kartik. How is Navin related to Mayank?
प्रशांत के पिता कार्तिक के पुत्र हैं। मयंक प्रशांत का चाचा है और नवीन कार्तिक का भाई है। नवीन मयंक से किस प्रकार संबंधित है?

(a) Cousin/कजिन (b) Brother/भाई
(c) Nephew/भतीजा (d) Uncle/चाचा

MP Police Constable Exam- 14 August-2023 Shift-3

Ans. (d) : प्रश्नानुसार, रक्त सम्बन्ध आरेख निम्नवत् है-

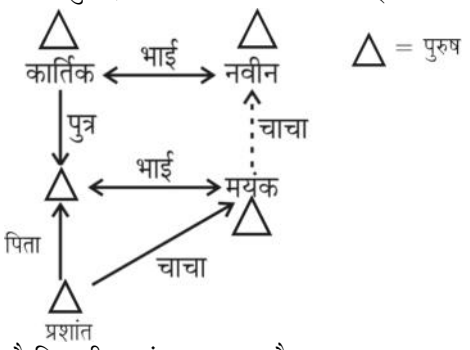

अतः स्पष्ट है कि नवीन मयंक का चाचा है।

51. A is brother of B and C. D is mother of C. If E is father of A, then which of the following is definitely not true?
A, B और C का भाई है। D, C की माता है। यदि E, A का पिता है, तो निम्नलिखित में से कौन-सा निश्चित रूप से सत्य नहीं है?

(a) B is son of E/B, E का पुत्र है
(b) E is father of B/E, B का पिता है
(c) D is wife of E/D, E की पत्नी है
(d) A is son of D/A, D का पुत्र है

MP Police Constable Exam- 13 August-2023 Shift-3

Ans. (a) : प्रश्नानुसार रक्त संबंध निम्नवत् है-

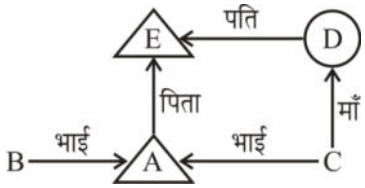

उपर्युक्त व्याख्या से स्पष्ट है कि 'B' और 'C' के लिंग निर्धारण नहीं है।
अतः 'B', 'E' का पुत्र है या पुत्री, पता नहीं चलता है।

52. M is brother of D. R is son of D. F is father of M and T is mother of R. How is D related to T?
M, D का भाई है। R, D का पुत्र है। F, M का पिता है और T, R की माता है। D, T से किस प्रकार संबंधित है?

(a) Brother/भाई (b) Son/बेटा
(c) Daughter/बेटी (d) Husband/पति

MP Police Constable Exam- 13 August-2023 Shift-3

Ans. (d) : प्रश्नानुसार रक्त संबंध निम्नवत् है-

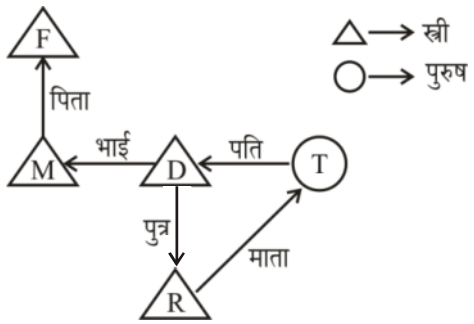

अतः उपर्युक्त आरेख से स्पष्ट है कि 'D', 'T' का पति (Husband) है।

53. A is B's brother, C is A's mother, D is C's father, F is A's son. How is B related to F's child?
A, B का भाई है, C, A की माता है, D, C का पिता है, F, A का पुत्र है। B, F के बच्चे से किस प्रकार संबंधित है?

(a) Aunt/चाची
(b) Cousin/कजिन
(c) Nephew/भतीजा
(d) Grandfather or Grandmother/दादा या दादी

MP Police Constable Exam- 13 August-2023 Shift-3

GET IT ON Google Play Best Study PDF के लिए हमारी App को Download करें "GK Trick By Nitin Gupta"

Ans. (d) : प्रश्नानुसार रक्त संबंध निम्नवत् है-

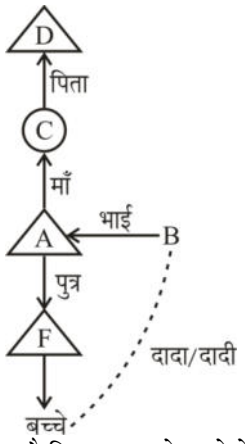

उपर्युक्त व्याख्या से स्पष्ट है कि 'B', 'F' के बच्चे के दादा या दादी है।

54. Read the information carefully and answer the following.
"P*Q" represents "P is father of Q".
"P@Q" represents "P is mother of Q".
"P%Q" represents "P is husband of Q".
"P$Q" represents "P is wife of Q".
"P©Q" represents "P is brother of Q".
"P<Q" represents "P is sister of Q".
"P=Q" represents "P is son of Q".
"P÷Q" represents "P is daughter of Q".
How is T related to A?
T ÷ R % M @ A * U © K
जानकारी को ध्यान से पढ़ें और निम्नलिखित का उत्तर दें।
"P*Q" का अर्थ "P, Q के पिता है।"
"P@Q" का अर्थ "P, Q की माता है।"
"P%Q" का अर्थ "P, Q का पति है।"
"P$Q" का अर्थ "P, Q की पत्नी है।"
"P©Q" का अर्थ "P, Q का भाई है।"
"P<Q" का अर्थ "P, Q की बहन है।"
"P=Q" का अर्थ "P, Q का बेटा है।"
"P÷Q" का अर्थ "P, Q की बेटी है।"
T का A से सम्बन्ध ज्ञात करें?
T ÷ R % M @ A * U © K

(a) Father /पिता (b) Brother /भाई
(c) Sister /बहन (d) Son /बेटा

MP Police Constable Exam- 8 Sep-2023 Shift-1
MP Police Constable Exam- 9 Sep-2023 Shift-3

Ans. (c) : प्रश्नानुसार,

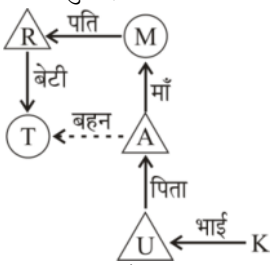

उपरोक्त आरेख से स्पष्ट है कि T, A की बहन है।

55. A is the brother of B. C is the sister of A. If B is a boy then how B is related to C?
A, B का भाई है। C, A की बहन है। यदि B एक लड़का है, तो B, C से किस प्रकार संबंधित है?

(a) Sister/बहन (b) Brother/भाई
(c) Nephew /भतीजा (d) Niece /भतीजी

MP Police Constable Exam- 14 August-2023 Shift-2

Ans. (b) : प्रश्नानुसार रक्त सम्बन्ध आरेख निम्नलिखित हैं।

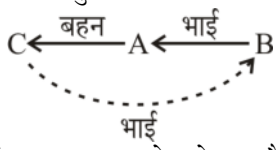

अतः उपर्युक्त रक्त सम्बन्ध आरेख से स्पष्ट है कि 'B', C का भाई है।

56. If P + Q means P is the wife of Q. P × Q means p is the sister of Q. P% Q means P is the brother of Q and P–Q means P is the father of Q. Which of the following means T is the daughter of A?
यदि P + Q का अर्थ है कि P, Q की पत्नी है। P × Q का अर्थ है कि P, Q की बहन है। P % Q का अर्थ है कि P, Q का भाई है और P – Q का अर्थ है कि P, Q का पिता है। निम्नलिखित में से किसका अर्थ है कि T, A की पुत्री है?

(a) A + B – C % T × D
(b) A – B + C % T × D
(c) A × B + C – T % D
(d) A – B + C × T % D

MP Police Constable Exam- 14 August-2023 Shift-2

Ans. (a) : प्रश्नानुसार,
विकल्प (a) A + B – C % T × D, से-

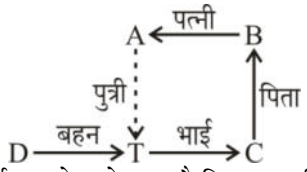

अतः उपर्युक्त आरेख से स्पष्ट है कि T, A की पुत्री हैं।

57. Pointing to P, Q said, "she is the mother of my mother's daughter" How is Q related to P?
P को इंगित करते हुए, Q ने कहा, ''वह मेरी मां की बेटी की माँ है'' Q, P से कैसे संबंधित है?

(a) Sister/बहन
(b) Son/बेटा
(c) Daughter/बेटी
(d) Cannot be determined/निर्धारित नहीं किया जा सकता

MP Police Constable Exam- 10 Sep-2023 Shift-2

Ans. (d) : रक्त संबंध आरेख निम्न है-

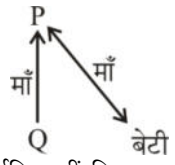

अतः निर्धारित नहीं किया जा सकता क्योंकि Q का लिंग निर्धारित है Q, P का बेटा या बेटी हो सकता है।

GET IT ON Google Play Best Study PDF के लिए हमारी App को Download करें "GK Trick By Nitin Gupta"

58. X and Y are brothers. R is the father of Y. S is the brother of T and maternal uncle of X. How is T related to R if S and T have no other brother or sister.
X और Y भाई हैं। R,Y का पिता है। S,T का भाई है और X का चाचा/मामा है। यदि S और T का कोई अन्य भाई या बहन नहीं है, तो T, R से किस प्रकार संबंधित है?

(a) Mother /माँ (b) Wife /पत्नी
(c) Sister /बहन (d) Brother /भाई

MP Police Constable Exam- 1 Sep-2023 Shift-1

Ans. (b) : प्रश्नानुसार रक्त संबंध आरेख बनाने पर,

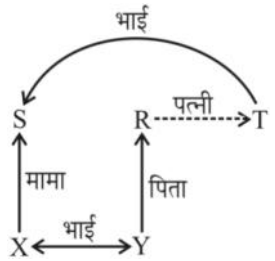

अतः T, R की पत्नी है।

59. Pointing to a person a man said to a woman 'His mother is the only daughter of your father'. How was woman related to that person?
एक व्यक्ति की ओर इशारा करते हुए एक आदमी ने एक महिला से कहा 'उसकी माँ तुम्हारे पिता की इकलौती बेटी है'। महिला का उस व्यक्ति से क्या संबंध था?

(a) Aunt/चाची (b) Mother/माँ
(c) Sister/बहन (d) Wife/पत्नी

MP Police Constable Exam- 3 Sep-2023 Shift-2

Ans. (b) : रक्त संबंध आरेख निम्न है–

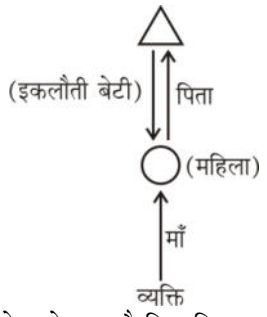

अतः रक्त संबंध आरेख से स्पष्ट है कि महिला व्यक्ति की माँ है।

60. A is the brother of E and E is sister of I. I is brother of O. How is O related to A?
A, E का भाई है और E, I की बहन है। I, O का भाई है। O, A से किस प्रकार संबंधित है?

(a) Brother/भाई
(b) Sister/बहन
(c) Brother or Sister/भाई या बहन
(d) Daughter/बेटी

MP Police Constable Exam- 14 August-2023 Shift-2

Ans. (c) : प्रश्नगत् रक्त संबंध आरेख निम्नलिखित है।

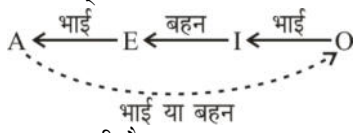

अतः विकल्प (c) सही है।

61. M is the brother of N and N is sister of O. O is brother of P. How is P related to M?
M, N का भाई है और N, O की बहन है। O, P का भाई है। P, M से किस प्रकार संबंधित है?

(a) Daughter/बेटी
(b) Sister/बहन
(c) Brother or Sister/भाई या बहन
(d) Mother/माँ

MP Police Constable Exam- 14 August-2023 Shift-2

Ans. (c) : प्रश्नानुसार रक्त संबंध आरेख निम्नलिखित है।

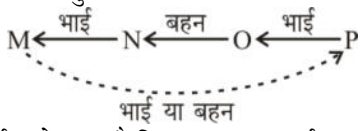

अतः उपर्युक्त से स्पष्ट है कि 'P', M का भाई या बहन है।

62. Read the following information and answer the questions given below it:
'A + B' means 'A is the son of B'.
'A – B' means 'A is the wife of B'.
'A × B' means 'A is the sister of B'.
'A ÷ B' means 'A is the brother of B'.
'A = B' means 'A is father of B'.
What does C + D ÷ G mean?
निम्नलिखित जानकारी का ध्यानपूर्वक अध्ययन करें तथा नीचे दिए गए प्रश्न का उत्तर दें।
'A + B' का अर्थ है 'A, B का पुत्र है'
'A – B' का अर्थ है 'A, B की पत्नी है'
'A × B' का अर्थ है 'A, B की बहन है'
'A ÷ B' का अर्थ है 'A, B का भाई है'
'A = B' का अर्थ है 'A, B का पिता है'
C + D ÷ G का क्या अर्थ है

(a) G is aunt of C/G, C की आंटी है
(b) C is the niece of G/C, G की भतीजी है
(c) D is Brother of G/D, G का भाई है
(d) G is sister of D/G, D की बहन है

MP Police Constable Exam- 01 Feb-2022 Shift-1

Ans. (c) : समी0- C + D ÷ G
रक्त सम्बन्ध आरेख बनाने पर-

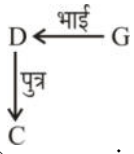

स्पष्ट है कि प्रश्नगत व्यंजक का अर्थ है- D, G का भाई है।

63. If A × B means A is the sister of B. A -B means A is the mother of B. A + B means A is the brother of B. A = B means A is the father of B. Which of the following shows Q is the maternal uncle of M?

GET IT ON Google Play Best Study PDF के लिए हमारी App को Download करें "GK Trick By Nitin Gupta"

यदि A × B का अर्थ है A, B की बहन है। A -B का अर्थ है A, B की माँ है। A + B का अर्थ है A, B का भाई है। A = B का अर्थ है कि A, B का पिता है। निम्नलिखित में से कौन-सा दिखाता है Q, M का मामा है?

(a) P = Q + R – S × M
(b) P × M – Q = R + S
(c) P – M + Q = S × R
(d) R – M × S + P = Q

MP Police Constable Exam- 01 Feb-2022 Shift-1

Ans. (a) : विकलप (a) के अनुसार रक्त सम्बन्ध आरेख बनाने पर-

P = Q + R – S × M

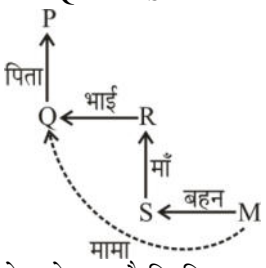

उपर्युक्त आरेख से स्पष्ट है कि विकल्प (a) अभीष्ट उत्तर है।

64. If P # Q means P is the brother of Q. P * Q means P is the mother of Q. P $ Q means P is the daughter of Q. Then in A * B # C $ D who is the father?

यदि P # Q का अर्थ है कि P, Q का भाई है। P * Q का अर्थ है कि P, Q की माता है। P $ Q का अर्थ है कि P, Q की पुत्री है। फिर A * B # C $ D में पिता कौन है?

(a) D (b) B
(c) C (d) A

MP Police Constable Exam- 09 Feb-2022 Shift-1

Ans. (a) : दिया गया व्यंजक -

A * B # C $ D में रक्त संबंध आरेख बनाने पर -

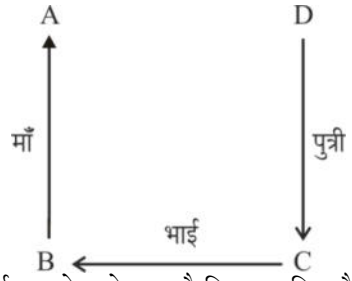

उपर्युक्त आरेख से स्पष्ट है कि "D" पिता है

65. If A is the brother of B and K, D is the mother of B and E is the father of A. Which one of the following statement is not definitely true?

यदि A, B और K का भाई है, D, B की माता है और E, A का पिता है। निम्नलिखित में से कौन-सा कथन निश्चित रूप से सत्य नहीं है?

(a) B is the brother of K/B, K का भाई है
(b) A is the father of K /A, K का पिता है
(c) A is the son of D /A, D का पुत्र है
(d) D is the wife of E /D, E की पत्नी है।

MP Police Constable Exam- 01 Feb-2022 Shift-1

Ans. (b) : प्रश्नानुसार रक्त सम्बन्ध आरेख बनाने पर-

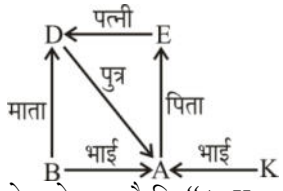

उपर्युक्त आरेख से स्पष्ट है कि "A, K का पिता नहीं है"
अतः विकल्प (b) निश्चित रूप से सत्य नहीं है।

66. A is the father of B. B and C are siblings. But B is not the brother of C. C is the son of D. D is the mother of C. What is the relation between B to C?

A, B का पिता है। B और C भाई-बहन हैं। लेकिन B, C का भाई नहीं है। C, D का पुत्र है। D, C की माता है। B से C के बीच क्या संबंध है?

(a) Father/पिता (b) Son/बेटा
(c) Brother/भाई (d) Sister/बहन

MP Police Constable Exam- 8 Jan-2022 Shift-2

Ans. (d) : प्रश्नानुसार,
रक्त सम्बन्ध आरेख बनाने पर–

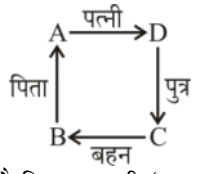

अतः आरेख से स्पष्ट है कि B, C की 'बहन' है।

67. T introduces U saying, "He is the husband of the granddaughter of the father of my father," How is he related to U ?

T, U का परिचय यह कहते हुए कराता है, "वह मेरे पिता के पिता की पोती का पति है," वह U से किस प्रकार संबंधित है?

(a) Son in law/दामाद
(b) Father in law/ससुर
(c) Sister-in-law/सिस्टर-इन-लॉ
(d) Brother-in-law/ब्रदर-इन-लॉ

MP Police Constable Exam- 8 Jan-2022 Shift-2

Ans. (d) : प्रश्नानुसार,

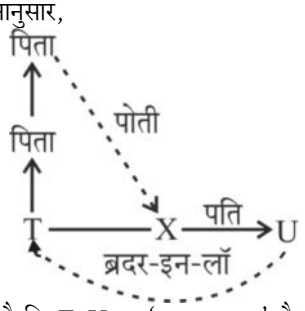

आरेख से स्पष्ट है कि T, U का 'ब्रदर-इन-ला' है।

68. P + Q means P is the father of Q
P – Q means P is the mother of Q
P × Q means P is the brother of Q
P ÷ Q means P is the sister of Q
P * Q means P is the son of Q
P # Q means P is the daughter of Q

GET IT ON Google Play Best Study PDF के लिए हमारी App को Download करें "GK Trick By Nitin Gupta"

How A is related to E in the expression A + B × C + D * E # F
P + Q का अर्थ है कि P, Q का पिता है
P – Q का अर्थ है कि P, Q की माता है
P × Q का अर्थ है कि P, Q का भाई है
P ÷ Q का अर्थ है कि P, Q की बहन है
P * Q का अर्थ है कि P, Q का पुत्र है
P # Q का अर्थ है कि P, Q की पुत्री है
व्यंजक A + B × C + D * E # F में A, E से कैसे संबंधित है?

(a) Son/पुत्र (b) Son-in-law/दामाद
(c) Brother/भाई (d) Father-in-law/ससुर

MP Police Constable Exam- 8 Jan-2022 Shift-2

Ans. (d) : प्रश्नानुसार,
रक्त सम्बन्ध आरेख बनाने पर –

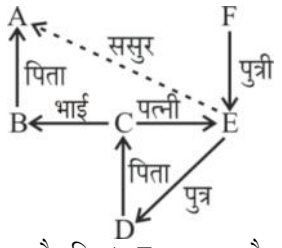

अतः आरेख से स्पष्ट है, कि A, E का ससुर है।

69. A is the mother of B. B is the wife of C. C is the son of D's material uncle. How is B related to D?
A, B की माता है। B, C की पत्नी है। C, D के मामा का पुत्र है। B, D से किस प्रकार संबंधित है।

(a) Maternal sister-in-law/ममेरी भाभी
(b) Maternal aunt/मामी
(c) Sister/बहन
(d) Brother/भाई

MP Police Constable Exam- 10 Jan -2022 Shift-2

Ans. (a) : प्रश्नानुसार रक्त संबंध आरेख निम्नवत् है–

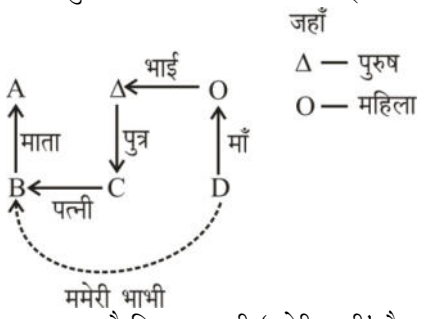

अतः स्पष्ट है कि B, D की 'ममेरी भाभी' है।

70. Given that/दिया हुआ है
i. P is the mother of Q;/P, Q की माता है
ii. R is the son of P;/R, P का पुत्र है
iii. S is the brother of T;/S, T का भाई है
iv. T is the daughter of Q;/T, Q की पुत्री है
The grandmother of S is?/तो S की दादी हैं

(a) P (b) Q
(c) R (d) S

MP Police Constable Exam 19 July 2016 - 9:am

Ans : (a) प्रश्नानुसार,

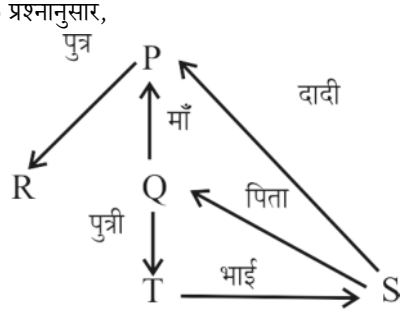

उपर्युक्त आरेख से स्पष्ट है कि 'S' की दादी 'P' है। अतः विकल्प (a) सही उत्तर होगा।

71. If P × Q means P is brother of Q, P ÷ Q means P is son of Q and P – Q means P is sister of Q, then which of the following relations will show that Q is maternal uncle of P?
यदि P × Q का तात्पर्य है कि P, Q का भाई है, P ÷ Q का तात्पर्य है कि P, Q का पुत्र है तथा P – Q का तात्पर्य है कि P, Q की बहन है, तो निम्नलिखित में से कौन-सा सम्बन्ध यह व्यक्त करता है कि Q, P का मामा है?

(a) P × R ÷ Q (b) P ÷ R – Q
(c) R – P ÷ Q (d) Q × R ÷ P

MP Police Constable Recruitment Test - 2013

Ans. (b) : प्रश्नानुसार,
रक्त संबंध आरेख बनाने पर-
दिए गए शर्तो से
विकल्प (b) से – P ÷ R – Q

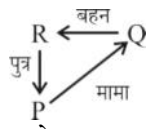

अतः विकल्प (b) सही उत्तर होगा।

72. A + B means A is the brother of B, A – B means A is the daughter of B and A*B means A is the sister of B. What does Q-R*P mean?
यदि A + B का अर्थ है कि A, B का भाई है एवं A-B का अर्थ है कि A, B की पुत्री है एवं A*B का अर्थ है कि A, B की बहन है। Q-R*P का क्या अर्थ है?

(a) P is the maternal uncle of Q/P, Q का मामा है।
(b) P is the brother of Q/P, Q का भाई है
(c) P is the nephew of Q/P, Q का भतीजा है
(d) P is the father of Q/P, Q का पिता है

MP Police Constable Exam- 18 July-2016 - 9: am

Ans : (a) प्रश्नानुसार,
समीकरण Q-R*P

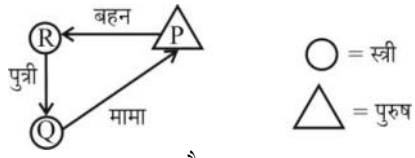

अतः P, Q का मामा है।

GET IT ON Google Play Best Study PDF के लिए हमारी App को Download करें "GK Trick By Nitin Gupta"

73. **p + q means p is the son of q;**
p + q का अर्थ है कि p,q का पुत्र है
p - q means p is the wife of q;
p - q का अर्थ है कि p, q की पत्नी है
p ‘ q means p is the brother of q;
p ‘ q का अर्थ है कि p, q का भाई है
p , q means p is the mother of q;
p , q का अर्थ है कि p, q की माता है
p = q means p is the sister of q;
p = q का अर्थ है कि p, q की बहन है
What does P = R, Q mean?
P = R, Q का क्या अर्थ है?

(a) P is the aunt of Q/P, Q की चाची है
(b) P is the sister of Q/P, Q की बहन है
(c) Q is the niece of P/P, Q की भतीजी है
(d) Q is the daughter of P/P, Q की पुत्री है

MP Police Constable Exam- 18 July-2016 - 9: am

Ans : (a) प्रश्नानुसार,

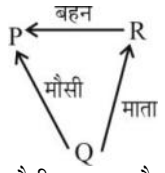

अतः P, Q की मौसी (Aunt) है।

74. **P+Q menas P is the son of Q; P-Q means P is the wife of Q, P×Q means P is the brother of Q, P÷Q menas P is mother of Q and P=Q means P is sister of Q.**
P+Q का मतलब है P, Q का बेटा है; P-Q का मतलब है P, Q की पत्नी है, P×Q का मतलब है का P, Q भाई है, P÷Q का मतलब है P, Q की मां है और P=Q का मतलब है P, Q की बहन है।
What does U+W-V mean?
U+W-V का क्या मतलब है?

(a) V is the father of U/V, U के पिता हैं
(b) V is the son of U/V, U का बेटा है
(c) V is the brother of U/V, U का भाई है
(d) None of the above/उपरोक्त कोई नहीं

MP Police Constable Exam 17 July 2016 - 9:am

Ans : (a) प्रश्नानुसार रक्त संबंध आरेख बनाने पर-

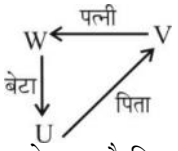

उपर्युक्त रक्त संबंध आरेख से स्पष्ट है कि V, U का पिता है। अतः विकल्प (a) सही उत्तर होगा।

75. **P is the brother of the daughter of the brother of Q. How is P related to Q?**
P, Q के भाई की पुत्री का भाई है। P, Q से कैसे सम्बंधित है?

(a) Mother/ माँ (b) Father/ पिता
(c) Nephew/ भतीजा (d) Son/ पुत्र

MP Police Constable Exam 25 July 2016 - 9:am

Ans : (c) प्रश्नानुसार रक्त संबंध आरेख बनाने पर-

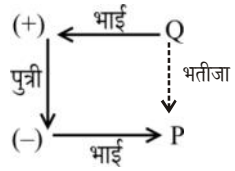

अतः P, Q के भाई का पुत्र अर्थात Q का भतीजा है।

76. **X is the son of Y; Y and L are sisters; Z is the mother of L and P is the son of Z. Which of the following statements is true?**
X, Y का बेटा है; Y और L बहने हैं; Z, L की माता है और P, Z का बेटा है। निम्न में से कौन सा कथन सही है?

(a) P and X are cousins/P और X चचेरे भाई है
(b) P is the maternal uncle of X/P, X के मामा है
(c) L is the maternal grandfather of X
L, X के नाना है
(d) C and P are sisters/C और P बहनें है

MP Police Constable Exam- 18 July-2016 - 9: am

Ans : (b) प्रश्नानुसार रक्त संबंध आरेख बनाने पर-

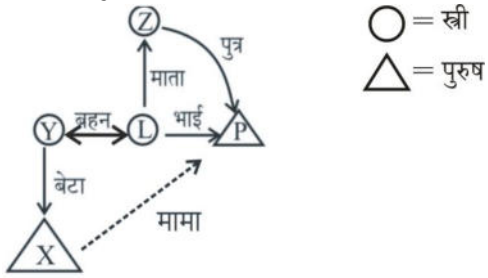

चित्र से स्पष्ट है कि P, X के मामा है।

77. **X is the Husband of Y. A is the sister of X, D is the sister of Y. How is D related to X?**
X, Y का पति है। A, X की बहन है। D, Y की बहन है। D, X से कैसे संबंधित है?

(a) Son/बेटा
(b) Uncle/अंकल
(c) Sister-in-law/साली
(d) Can’t be determined/निर्धारित नहीं किया जा सकता

MP Police Constable Exam- 18 July-2016 - 9: am

Ans : (c) प्रश्नानुसार रक्त संबंध आरेख बनाने पर-

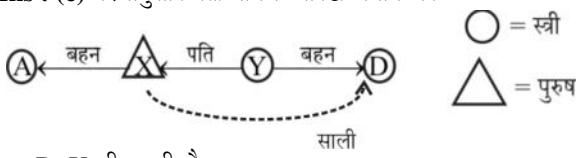

अतः D, X की साली है।

78. **X+Y means X is the daughter of Y, X–Y means X is the husband of Y, X×Y means X is the brother of Y.**
X+Y का मतलब है X, Y की बेटी है, X –Y का मतलब है X, Y का पति है, X × Y का मतलब है X, Y का भाई है।
If A × B + C, which of the following is true?
यदि A × B + C है, तो निम्न से कौन सा सत्य है?

GET IT ON Google Play Best Study PDF के लिए हमारी App को Download करें "GK Trick By Nitin Gupta"

(a) A is the brother of C/A, C का भाई है
(b) A is the daughter of C/ A, C की बेटी है
(c) A is the son of C/A, C का बेटा है
(d) A is the father of C/A, C का पिता है

MP Police Constable Exam 17 July 2016 - 12:am

Ans. (c) कथनानुसार, संबंध आरेख बनाने पर-

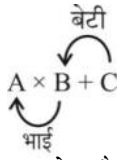

स्पष्ट है कि A, C का बेटा है।

79. A + B means A is the brother of B.
A + B का मतलब है A, B का भाई है।
A × B means A is the father of B.
A × B का मतलब है A, B का पिता है।
A – B means A is the sister of B.
A – B का मतलब है A, B की बहन है।
Which of the following relation represents that S is the niece of T?
निम्न में से कौन सा संबंध दर्शाता है कि S, T की भतीजी है?

(a) T×P+S–Q
(b) T×S+P–Q
(c) T+P×S–Q
(d) Can not predict/अनुमान नहीं लगा सकते

MP Police Constable Exam- 26 July-2016 - 9: am

Ans : (c) विकल्प (c) से,
T + P × S – Q

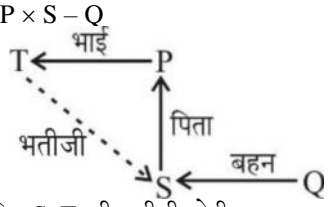

अतः स्पष्ट है कि, S, T की भतीजी होगी।

Type-3: विविध

80. When Aman told Sana about Ravi, He said 'He is the son of my mother's husband'. Who is Ravi to Aman?
जब अमन ने सेना को रवि के बारे में बताया, तो उसने कहा 'वह मेरी माँ के पति का बेटा है'। अमन के लिए रवि कौन है?

(a) Cousin /चचेरा भाई (b) Brother /भाई
(c) Father /पिता (d) Uncle /चाचा

MP Police Constable Exam- 2 Sep-2023 Shift-2

Ans. (b) : कथनानुसार, संबंध आरेख निम्नवत् है-

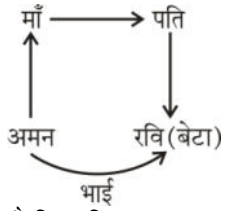

संबंध आरेख से स्पष्ट है कि, रवि, अमन का भाई है।

81. Introducing a man to her husband a woman said "His brother's father is the only son of my grandfather". How is the woman related to this man?
एक पुरुष का अपने पति से परिचय कराते हुए एक महिला ने कहा ''उसके भाई के पिता मेरे दादा के इकलौते पुत्र हैं''। महिला इस पुरुष से किस प्रकार संबंधित है?

(a) Aunt/आंट (b) Sister/बहन
(c) Mother/माँ (d) Daughter/पुत्री

MP Police Constable Exam- 9 Sep-2023 Shift-3

Ans. (b) : प्रश्नानुसार,
रक्त संबंध आरेख बनाने पर-

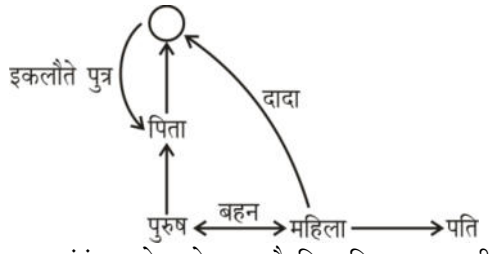

उपर्युक्त रक्त संबंध आरेख से स्पष्ट है कि महिला, पुरुष की बहन है।
अतः विकल्प (b) सही उत्तर होगा।

82. Aarti said to Megha that 'you are the wife of my sister's father'. How is Megha related to Aarti ?
आरती ने मेघा से कहा कि 'तुम मेरी बहन के पिता की पत्नी हो'। मेघा आरती से किस प्रकार संबंधित है?

(a) Aunt/चाची (b) Sister/बहन
(c) Mother/मां (d) Wife/पत्नी

MP Police Constable Exam- 2 Sep-2023 Shift-3

Ans. (c) : प्रश्नानुसार, रक्त-संबंध आरेख निम्नवत् है–

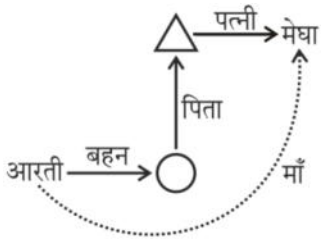

उपर्युक्त रक्त संबंध आरेख से स्पष्ट है कि मेघा, आरती की माँ है।

83. Pointing to a gentleman, a man said "The son of his only brother is the brother of my wife." How is the gentleman's brother related to that man?
एक सज्जन व्यक्ति की ओर इशारा करते हुए, एक आदमी ने कहा ''उसके इकलौते भाई का पुत्र मेरी पत्नी का भाई है।'' सज्जन व्यक्ति का भाई उस आदमी से किस प्रकार संबंधित है?

(a) Brother /भाई (b) Mother /माता
(c) Father /पिता (d) Father-in-law /ससुर

MP Police Constable Exam- 17 August-2023 Shift-2

GET IT ON Google Play Best Study PDF के लिए हमारी App को Download करें "GK Trick By Nitin Gupta"

Ans. (d) : रक्त संबंध आरेख निम्न है-

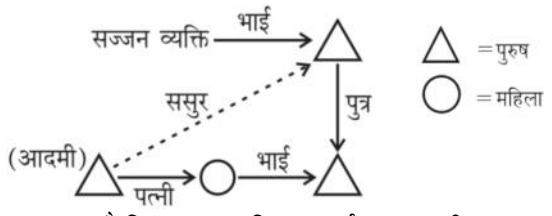

अतः स्पष्ट है कि सज्जन व्यक्ति का भाई उस आदमी का ससुर है।

84. Pointing towards a lady, Vikram said, "She is the daughter of the father of the sister of my brother". How is the lady in photograph related to Vikram?
एक महिला की ओर इशारा करते हुए, विक्रम ने कहा, ''वह मेरे भाई की बहन के पिता की बेटी है''। तस्वीर वाली महिला का विक्रम से क्या संबंध है?

(a) Daughter/बेटी (b) Wife/पत्नी
(c) Mother/माँ (d) Sister/बहन

MP Police Constable Exam- 6 Sep-2023 Shift-3

Ans. (d) : रक्त संबंध आरेख निम्न है-

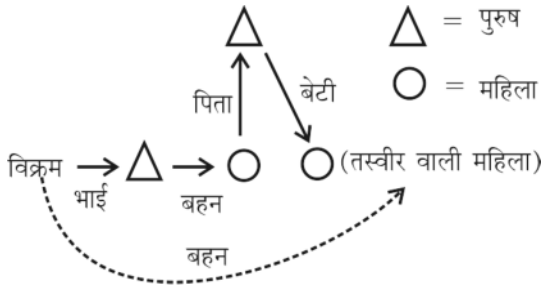

अतः स्पष्ट है कि तस्वीर वाली महिला विक्रम की बहन है।

85. What will my mother's father's son-in-law's daughter's husband be to me, if both my mother and his father have only one child?
यदि मेरी माँ और उसके पिता दोनों की केवल एक ही संतान है, तो मेरी माँ के पिता के दामाद की बेटी का पति मेरे लिए क्या होगा?

(a) Cousin/कजिन (b) Husband /पति
(c) Wife /पत्नी (d) Brother-in-law /बहनोई

MP Police Constable Exam- 14 August-2023 Shift-3

Ans. (b) : प्रश्नानुसार, रक्त सम्बन्ध आरेख निम्नवत् है।

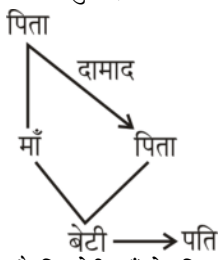

अतः स्पष्ट है कि मेरी माँ के पिता के दामाद की बेटी का पति मेरा पति ही होगा।

86. Pointing to his son's portrait, a man said to a woman. 'His mother is the only daughter of your mother'. How was the woman related to the man ?
एक पुरुष ने अपने पुत्र के चित्र की ओर इशारा करते हुए एक महिला से कहा। 'उसकी माँ तुम्हारी माँ की इकलौती बेटी है'। महिला का पुरुष से क्या संबंध था?

(a) Sister/बहन (b) Mother/माँ
(c) Wife/पत्नी (d) Daughter/बेटी

MP Police Constable Exam- 4 Sep-2023 Shift-3

Ans. (c) : प्रश्नानुसार रक्त संबंध आरेख निम्नवत् है–

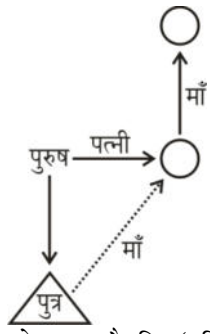

अतः उपर्युक्त आरेख से स्पष्ट है कि 'महिला' पुरुष की पत्नी (wife) है।

87. Introducing a man a girl said "He is the father of the brother of my uncle." How is the man related to the girl?
एक आदमी का परिचय देते हुए एक लड़की ने कहा ''वह मेरे चाचा के भाई के पिता है।'' आदमी का लड़की से क्या संबंध है?

(a) Grandfather/दादा (b) Father/पापा
(c) Uncle/चाचा (d) Daughter/बेटी

MP Police Constable Exam- 13 August-2023 Shift-3

Ans. (a) : प्रश्नानुसार रक्त संबंध आरेख निम्नवत् है-

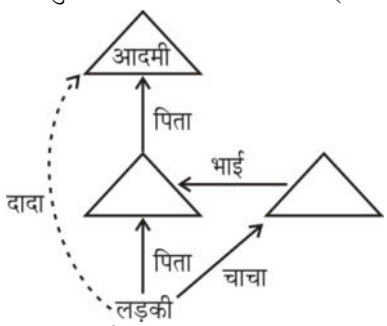

उपर्युक्त आरेख से स्पष्ट है कि 'आदमी', 'लड़की' का 'दादा' है।

88. Pointing to a man in a photograph, a woman said, "His brother's father is the only son of my grandfather." How is the woman related to the man in the photograph ?
एक फोटोग्राफ में एक पुरुष की ओर इशारा करते हुए, एक महिला ने कहा, ''उसके भाई के पिता मेरे दादा के इकलौते पुत्र हैं।'' महिला फोटोग्राफ वाले पुरुष से किस प्रकार संबंधित है ?

(a) Mother/माँ (b) Aunt/चाची
(c) Sister/बहन (d) Daughter/बेटी

MP Police Constable Exam- 4 Sep-2023 Shift-2

GET IT ON Google Play Best Study PDF के लिए हमारी App को Download करें "GK Trick By Nitin Gupta"

Ans. (c) : प्रश्नानुसार, रक्त संबंध आरेख बनाने पर-

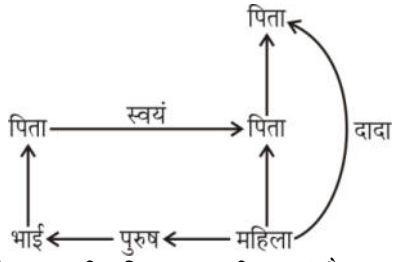

अर्थात् फोटोग्राफ वाली महिला पुरुष की 'बहन' है।
∴ विकल्प (c) होगी।

89. A boy said to a girl 'your mother's husband's sister is my aunt'. How the girl is related to boy?
एक लड़के ने एक लड़की से कहा 'तुम्हारी माँ के पति की बहन मेरी बुआ/मौसी है।' लड़की लड़के से कैसे संबंधित है?

(a) Sister/बहन (b) Aunt/चाची
(c) Wife/पत्नी (d) Daughter/बेटी

MP Police Constable Exam- 1 Sep-2023 Shift-2

Ans. (a) : प्रश्नानुसार रक्त संबंध आरेख बनाने पर,

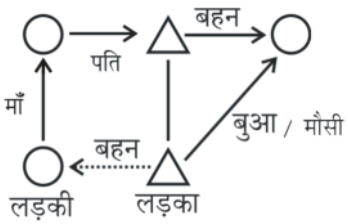

संबंध आरेख से स्पष्ट है कि लड़की लड़के की बहन है।

90. In a joint family, there are father, mother, 3 married sons and one unmarried daughter. Of the sons, 2 have 2 daughters each, and one has a son. How many female members there in the family?/एक संयुक्त परिवार में, पिता, माता, 3 विवाहित पुत्र तथा एक अविवाहित पुत्री है तथा 2 पुत्रों में से प्रत्येक के 2 पुत्रियां हैं तथा एक पुत्र के एक पुत्र है। परिवार में कितनी महिला सदस्य हैं?

(a) 2 (b) 3 (c) 6 (d) 9

MP Police Constable Exam- 02 Feb-2022 Shift-1

Ans. (d) : प्रश्नानुसार,

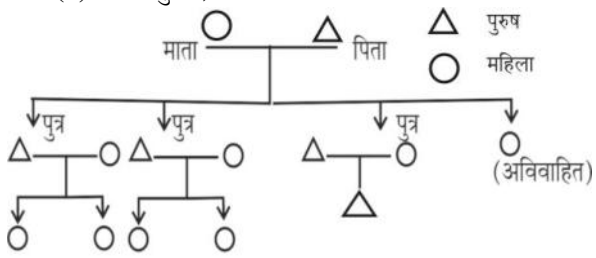

अतः स्पष्ट है कि परिवार में (9) महिला सदस्य है।

91. A woman going with a girl is asked by a man about the relationship between them. The woman replied, "My maternal uncle and the husband of his mother is the same." How is woman related to that girl?
एक लड़की के साथ जा रही महिला से एक पुरूष उसके बीच संबंध के बारे में पूछता है। महिला ने उत्तर दिया, ''मेरे मामा और उसकी माँ का पति एक ही है।'' वह महिला उस लड़की से किस प्रकार संबंधित है।

(a) Maternal cousin/ममेरा बहन
(b) Paternal cousin/चचेरा बहन
(c) Nephew/भतीजी
(d) Aunt/चायी

MP Police Constable Exam- 02 Feb-2022 Shift-1

Ans. (a) : प्रश्नानुसार रक्त सम्बन्ध आरेख बनाने पर-

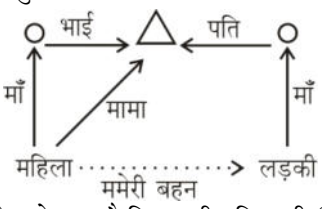

अतः उपर्युक्त आरेख से स्पष्ट है कि लड़की महिला की 'ममेरी बहन' है।

92. What is the relation between the son of Rajkumar's sister's father in law and Raj Kumar's Father.
राजकुमार की बहन के ससुर के पुत्र और राजकुमार के पिता के बीच क्या संबंध है?

(a) Father, Son/पिता, पुत्र
(b) Father-in-law/ससुर
(c) Son-in-law, Father-in-law/दामाद, ससुर
(d) Uncle, Nephew/अंकल, भतीजा

MP Police Constable Exam- 16 August-2023 Shift-2

Ans. (c) : प्रश्नानुसार,
रक्त संबंध आरेख बनाने पर-

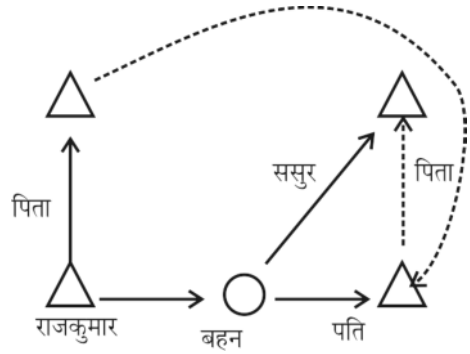

अतः विकल्प (C) सही उत्तर होगा।

93. Which of the following belongs to the same family as Grandfather, Father and Brother?
निम्न में से कौन से उसी परिवार से संबंधित हैं जिनसे कि दादा, पिता और भाई?

(a) Baby/शिशु
(b) Mother in law/सास
(c) Son/बेटा
(d) Daughter in law/पुत्रवधू

MP Police Constable Exam- 20 July-2016 - 9: am

Ans : (c) बेटा, दादा, पिता और भाई एक परिवार (Blood-Relative) से संबंधित है।

GET IT ON Google Play Best Study PDF के लिए हमारी App को Download करें "GK Trick By Nitin Gupta"

भाग-8.

अंकगणितीय संक्रियाएँ (Arithmetical Operations)

Type-1 अंग्रेजी वर्णमाला के अक्षरों के गणितीय चिन्हों में परिवर्तन पर आधारित अंकगणितीय संक्रियाएँ

1. In the following equation, select correct combination of mathematical signs to replace A and balance the equation.
निम्नलिखित समीकरण में, A को प्रतिस्थापित करने और समीकरण को संतुलित करने के लिए गणितीय चिह्नों के सही संयोजन का चयन करें।
57 A 63 A 299 A 23 A 107
(a) +, –, ×, = (b) ÷, ×, =, ×
(c) –, ÷, +, = (d) +, –, ÷, =
MP Police Constable Exam- 24 August-2023 Shift-2

Ans. (d) : विकल्प (d) से–
समी.– 57 A 63 A 299 A 23 A 107
चिह्न परिवर्तित करने पर,
57 + 63 – 299 ÷ 23 = 107
57 + 63 – 13 = 107
120 – 13 = 107
107 = 107
L.H.S. = R.H.S.
अतः स्पष्ट है कि A की जगह, विकल्प (d) के गणतीय चिह्नों को रखने पर समीकरण सन्तुष्ट है।

2. If 'M' denotes '+', 'N' denotes '÷', 'R' denotes '-' and 'Q' denotes '×' then, 15 M 12 Q 5 R 40 N 8 = ?
यदि 'M' का अर्थ '+' है, 'N' का अर्थ '÷' है, 'R' का अर्थ '–' है और 'Q' का अर्थ '×' है, तो 15 M 12 Q 5 R 40 N 8 = ?
(a) 70 (b) 130
(c) 45 (d) 60
MP Police Constable Exam- 24 August-2023 Shift-2

Ans. (a) : दिया है–
'M' → '+'
'N' → '÷'
'R' → '–'
'Q' → '×'
15 M 12 Q 5 R 40 N 8 = ?
चिह्नों को परिवर्तित करने पर,
15 + 12 × 5 – 40 ÷ 8 = ?
? = 15 + 60 – 5
? = 75 – 5
? = 70
अतः ? = 70

3. Which two signs should be interchanged to make the following equation correct?
निम्नलिखित समीकरण को सही बनाने के लिए किन दो संकेतों को परस्पर आपस में बदला जाना चाहिए?
40 ÷ 20 + 50 – 10 × 4 = 40
(a) × and +/× और + (b) + and – /+ और –
(c) – and ÷/– और ÷ (d) + and ÷/+ और ÷
MP Police Constable Exam- 2 Sep-2023 Shift-2

Ans. (c) : दिया गया समीकरण–
40 ÷ 20 + 50 – 10 × 4 = 40
विकल्प (c) से चिह्नों को परिवर्तित करने पर–
40 – 20 + 50 ÷ 10 × 4 = 40
40 – 20 + 5 × 4 = 40
40 – 20 + 20 = 40
40 = 40
अतः सही उत्तर विकल्प (c) होगा।

4. In the following equation, select correct combination of mathematical signs to replace A and balance the equation
निम्नलिखित समीकरण में, A को प्रतिस्थापित करने और समीकरण को संतुलित करने के लिए गणितीय चिह्नों के सही संयोजन का चयन करें।
1024 A 24 A 56 A 88 A 12
(a) +, –, ×, = (b) ÷, =, ×, +
(c) –, +, =, × (d) ÷, ×, –, =
MP Police Constable Exam- 27 August-2023 Shift-1

Ans. (c) : दिया गया समीकरण निम्नवत् है–
1024 A 24 A 56 A 88 A 12
विकल्प (c) से चिह्नों को प्रतिस्थापित करने पर,
1024 – 24 + 56 = 88 × 12
1080 – 24 = 1056
1056 = 1056
L.H.S = R.H.S

5. In the following equation, select correct combination of mathematical signs to replace A and balance the equation.
निम्नलिखित समीकरण में, A को प्रतिस्थापित करने और समीकरण को संतुलित करने के लिए गणितीय चिह्नों के सही संयोजन का चयन करें।
89 A 79 A 10 A 7 A 80
(a) +, –, ×, = (b) ÷, =, ×, +
(c) –, +, ×, = (d) +, ÷, =, ×
MP Police Constable Exam- 28 August-2023 Shift-2

GET IT ON Google Play Best Study PDF के लिए हमारी App को Download करें "GK Trick By Nitin Gupta"

Ans. (c) : दिया गया समी. → 89 A 79 A 10 A 7 A 80
विकल्प (c) से चिह्नों को प्रतिस्थापित करने पर–
$89 - 79 + 10 \times 7 = 80$
$89 - 79 + 70 = 80$
$159 - 79 = 80$
$80 = 80$
L.H.S. = R.H.S.
अतः विकल्प (c) सही है।

6. If '+' represents '÷', '÷' represents '×', '–' represents '+' and '×' represents '–', then what is the value of the following expression ?
यदि '+', '÷' को दर्शाता है, '÷', '×' को दर्शाता है, '–', '+' को दर्शाता है तथा '×', '–' को दर्शाता है, तो निम्नलिखित अभिव्यक्ति का मान क्या होगा ?
$36 + 4 \div 7 - 11 \times 50$
(a) 24 (b) 34
(c) 44 (d) 54
MP Police Constable Exam- 28 August-2023 Shift-2

Ans. (a) : (+) → ÷
(÷) → ×
(–) → +
(×) → –
$36 + 4 \div 7 - 11 \times 50 = ?$
उपर्युक्त मानों को प्रतिस्थापित करने पर–
$36 \div 4 \times 7 + 11 - 50 = ?$
$9 \times 7 + 11 - 50 = ?$
$63 + 11 - 50 = ?$
$74 - 50 = ?$
$\boxed{? = 24}$

7. In the following equation, select correct combination of mathematical signs to replace A and balance the equation.
निम्नलिखित समीकरण में, A को प्रतिस्थापित करने और समीकरण को संतुलित करने के लिए गणितीय चिह्नों के सही संयोजन का चयन करें।
957 A 11 A 19 A 4 A 11
(a) +, –, ×, = (b) ÷, =, ×, +
(c) –, ÷, +, = (d) ÷, ×, –, =
MP Police Constable Exam- 25 August-2023 Shift-3

Ans. (b) : समीकरण
957 A 11 A 19 A 4 A 11
विकल्प (b) से चिह्नों को प्रतिस्थापित करने पर–
$957 \div 11 = 19 \times 4 + 11$
$\frac{957}{11} = 76 + 11$
$87 = 87$
L.H.S = R.H.S

8. In a certain code if 'M' denotes '÷', 'N' denotes '×', 'O' denotes '+' and 'P' denotes '-' then what will be the value of 9 N 3 M 1 O 5 M 5 N 4 P 16?
एक निश्चित कोड में यदि 'M' का अर्थ '÷' है, 'N' का अर्थ '×' है, 'O' का अर्थ '+' है और 'P' का अर्थ '-' है तो 9 N 3 M 1 O 5 M 5 N 4 P 16 का मान क्या होगा?
(a) 22 (b) 17
(c) 15 (d) 12
MP Police Constable Exam- 19 August-2023 Shift-2

Ans. (c) : दिया है-
(M → ÷, N → ×, O → +, P → –)
समी.
9 N 3 M 1 O 5 M 5 N 4 P 16
चिह्नों को बदलने पर
$= 9 \times 3 \div 1 + 5 \div 5 \times 4 - 16$
$= 27 + 4 - 16$
$= 31 - 16$
$= 15$

9. In the following equation, select correct combination of mathematical signs to replace A and balance the equation.
निम्नलिखित समीकरण में, A को प्रतिस्थापित करने और समीकरण को संतुलित करने के लिए गणितीय चिह्नों के सही संयोजन का चयन करें।
51 A 58 A 9 A 0.3 A 79
(a) +, –, ×, = (b) ÷, +, =, –
(c) –, ÷, +, = (d) +, –, ÷, =
MP Police Constable Exam- 23 August-2023 Shift-2

Ans. (d) : दिया हैं,
51 A 58 A 9 A 0.3 A 79
विकल्प (d) से,
$51 + 58 - 9 \div 0.3 = 79$
$79 = 51 + 58 - \frac{9}{\frac{3}{10}}$
$79 = 51 + 58 - \frac{90}{3}$
$79 = 51 + 58 - 30$
$79 = 51 + 28$
$79 = 79$
= R.H.S
अतः विकल्प (d) सही है।

10. In the following equation, select correct combination of mathematical signs to replace A and balance the equation.
निम्नलिखित समीकरण में, A को प्रतिस्थापित करने और समीकरण को संतुलित करने के लिए गणितीय चिह्नों के सही संयोजन का चयन करें।
576 A 24 A 11 A 936 A 3
(a) +, –, ×, = (b) ÷, =, ×, +
(c) –, ×, =, ÷ (d) ÷, ×, –, =
MP Police Constable Exam- 26 August-2023 Shift-3

Ans. (c) : दिया गया समीकरण निम्नवत् है–
576 A 24 A 11 A 936 A 3
विकल्प (c) से चिह्नों को प्रतिस्थापित करने पर–
$576 - 24 \times 11 = 936 \div 3$
$576 - 264 = 312$
$312 = 312$
L.H.S = R.H.S
अतः विकल्प (c) सही है।

11. If P means '×', Q means '÷', R means '–' and S means '+', then
यदि P का अर्थ है '×', Q का अर्थ है '÷', R का अर्थ है '–' और S का अर्थ है '+', तो
46 R 12 P 3 S 18 Q 9 = ?
(a) 13.3 (b) 14
(c) 12 (d) 16
MP Police Constable Exam- 23 August-2023 Shift-3

GET IT ON Google Play Best Study PDF के लिए हमारी App को Download करें "GK Trick By Nitin Gupta"

Ans. (c) : दिया है–

$P \rightarrow \times$
$Q \rightarrow \div$
$R \rightarrow -$
$S \rightarrow +$

समी. $\rightarrow$ 46 R 12 P 3 S 18 Q 9 = ?

चिह्न परिवर्तित करने पर–

$46 - 12 \times 3 + 18 \div 9 = ?$
$? = 46 - 12 \times 3 + 2$
$? = 46 - 36 + 2$
$? = 48 - 36$
$? = 12$

12. In the following equation, select correct combination of mathematical signs to replace A and balance the equation.
निम्नलिखित समीकरण में, A को प्रतिस्थापित करने और समीकरण को संतुलित करने के लिए गणितीय चिह्नों के सही संयोजन का चयन करें।

187 A 136 A 32 A 61 A 17

(a) +, –, ×, = (b) ÷, ×, =, ×
(c) –, ÷, +, = (d) ÷, ×, =, –

MP Police Constable Exam- 25 August-2023 Shift-1

Ans. (d) : समीकरण–187 A 136 A 32 A 61 A 17

विकल्प (d) के अनुसार (÷, ×, =, –) गणितीय चिह्नों को प्रतिस्थापित करने पर–

$187 \div 136 \times 32 = 61 - 17$
$\frac{187}{136} \times 32 = 44$
$44 = 44$
LHS = RHS

13. In the following equation, select correct combination of mathematical signs to replace A and balance the equation.
निम्नलिखित समीकरण में, A को प्रतिस्थापित करने और समीकरण को संतुलित करने के लिए गणितीय चिह्नों के सही संयोजन का चयन करें।

969 A 34 A 2 A 19 A 3

(a) +, -, ×, = (b) ÷, ×, =, ×
(c) –, ÷, +, = (d) +, -, ÷, =

MP Police Constable Exam- 23 August-2023 Shift-3

Ans. (b) : विकल्प (b) से–

समी. $\rightarrow$ 969 A 34 A 2 A 19 A 3

चिह्न परिवर्तित करने पर,

$969 \div 34 \times 2 = 19 \times 3$
$57 = 57$
L.H.S = R.H.S

14. In the following equation, select correct combination of mathematical signs to replace A and balance the equation.
निम्नलिखित समीकरण में, A को प्रतिस्थपित करने और समीकरण को संतुलित करने के लिए गणितीय चिह्नों के सही संयोजन का चयन करें।

45 A 6 A 85 A 0.6 A 0

(a) +, –, ×, = (b) ÷, +, =, –
(c) –, ÷, +, = (d) ÷, ×, +, =

MP Police Constable Exam- 23 August-2023 Shift-1

Ans. (a) : दिया गया समी0 45 A 6 A 85 A 0.6 A 0

विकल्प (a) से चिह्नों को प्रतिस्थापित करने पर–

$45 + 6 - 85 \times 0.6 = 0$
$45 + 6 - 51 = 0$
$51 - 51 = 0$
$0 = 0$
L.H.S = R.H.S

15. In the following equation, select correct combination of mathematical signs to replace A and balance the equation
निम्नलिखित समीकरण में, A को प्रतिस्थापित करने और समीकरण को संतुलित करने के लिए गणितीय चिह्नों के सही संयोजन का चयन करें।

64 A 8 A 8 A 86 A 22

(a) +, –, ×, = (b) ÷, =, ×, +
(c) –, +, ×, = (d) ÷, ×, =, –

MP Police Constable Exam- 28 August-2023 Shift-3

Ans. (d) : विकल्प (d) से–

समी.– 64 A 8 A 8 A 86 A 22

विकल्प (d) से चिह्नों को प्रतिस्थापित करने पर–

$64 \div 8 \times 8 = 86 - 22$
$8 \times 8 = 64$
$64 = 64$
L.H.S = R.H.S

16. If 'P' denotes '–', 'Q' denotes '×', 'R' denotes '÷' and 'S' denotes '+', then what will be the numeric value of 42 R 2 S 29 P 4 Q 8 = ?
यदि 'P' का अर्थ '–' है, 'Q' का अर्थ '×' है, 'R' का अर्थ '÷' है और 'S' का अर्थ '+' है, तो 42 R 2 S 29 P 4 Q 8 का संख्यात्मक मान क्या होगा ?

(a) 19 (b) 21
(c) 18 (d) 24

MP Police Constable Exam- 28 August-2023 Shift-3

Ans. (c) : दिया है–

$P \rightarrow -$
$Q \rightarrow \times$
$R \rightarrow \div$
$S \rightarrow +$

समी.– 42 R 2 S 29 P 4 Q 8

चिह्न परिवर्तित करने पर–

$42 \div 2 + 29 - 4 \times 8$
$\Rightarrow 21 + 29 - 32$
$\Rightarrow 50 - 32$
$\Rightarrow 18$

अतः विकल्प (c) सही उत्तर है।

17. In the following equation, select correct combination of mathematical signs to replace A and balance the equation.
निम्नलिखित समीकरण में, A को प्रतिस्थापित करने और समीकरण को संतुलित करने के लिए गणितीय चिह्नों के सही संयोजन का चयन करें।

259 A 21 A 9 A 11 A 100

(a) +, –, ×, = (b) ÷, ×, =, ×
(c) –, ÷, +, = (d) ÷, ×, -, =

MP Police Constable Exam- 25 August-2023 Shift-2

GET IT ON Google Play Best Study PDF के लिए हमारी App को Download करें "GK Trick By Nitin Gupta"

Ans. (d) : दिया गया समीकरण निम्नवत् है–

259 A 21 A 9 A 11 A 100

विकल्प (d) के चिह्नों को रखने पर–

$259 \div 21 \times 9 - 11 = 100$

$\frac{259}{21} \times 9 - 11 = 100$

$37 \times 3 - 11 = 100$

$111 - 11 = 100$

$100 = 100$

L.H.S = R.H.S

18. If a means –, b means +, c means ÷, d means ×, then

यदि a का अर्थ –, b का अर्थ +, c का अर्थ ÷, d का अर्थ × है, तो

21 b 13 a 24 c 8 d 2

(a) 21 (b) 15

(c) 34 (d) 28

MP Police Constable Exam- 25 August-2023 Shift-2

Ans. (d) : प्रश्नानुसार,

a का अर्थ = –

b का अर्थ = +

c का अर्थ = ÷

d का अर्थ = ×

= 21 b 13 a 24 c 8 d 2

प्रश्नानुसार,

$= 21 + 13 - 24 \div 8 \times 2$

$= 21 + 13 - 3 \times 2$

$= 21 + 13 - 6$

$= 21 + 7$

$= 28$

19. In the following equation, select correct combination of mathematical signs to replace A and balance the equation.

निम्नलिखित समीकरण में, A को प्रतिस्थापित करने और समीकरण को संतुलित करने के लिए गणितीय चिह्नों के सही संयोजन का चयन करें।

60 A 5307 A 174 A 2 A 1

(a) +, –, ×, = (b) ÷, ×, =, ×

(c) –, ÷, +, = (d) =, ÷, ×, –

MP Police Constable Exam- 24 August-2023 Shift-3

Ans. (d) :

विकल्प (d) से–

दिया है, → 60 A 5307 A 174 A 2 A 1

A के स्थान पर गणितीय चिह्नों को प्रतिस्थापित करने पर–

$60 = 5307 \div 174 \times 2 - 1$

$60 = 30.5 \times 2 - 1$

$60 = 61 - 1$

$60 = 60$

L.H.S = R.H.S

20. In the following equation, select correct combination of mathematical signs to replace A and balance the equation.

निम्नलिखित समीकरण में, A को प्रतिस्थापित करने और समीकरण को संतुलित करने के लिए गणितीय चिह्नों के सही संयोजन का चयन करें।

87 A 56 A 8 A 6 A 95

(a) +, –, ×, = (b) ÷, =, ×, +

(c) –, ÷, +, = (d) ÷, ×, –, =

MP Police Constable Exam- 26 August-2023 Shift-2

Ans. (a) : दिया गया समी. विकल्प (a) के अनुसार चिह्नों को प्रतिस्थापित करने पर-

$\Rightarrow 87 + 56 - 8 \times 6 = 95$

$\Rightarrow 143 - 48 = 95$

$\Rightarrow 95 = 95$

L.H.S. = R.H.S.

21. In the following equation, select correct combination of mathematical signs to replace A and balance the equation.

निम्नलिखित समीकरण में, A को प्रतिस्थापित करने और समीकरण को संतुलित करने के लिए गणितीय चिह्नों के सही संयोजन का चयन करें।

712 A 531 A 79 A 130 A 2

(a) +, –, ×, = (b) ÷, =, ×, +

(c) –, +, =, × (d) ÷, ×, =, –

MP Police Constable Exam- 29 August-2023 Shift-1

Ans. (c) : 712 A 531 A 79 A 130 A 2

विकल्प से–

A के स्थान पर गणितीय चिह्नों को प्रतिस्थापित करने पर–

$712 - 531 + 79 = 130 \times 2$

$181 + 79 = 260$

$260 = 260$

अतः विकल्प (c) में दिये गये गणितीय चिह्न समीकरण को संतुलित करता है।

22. In a certain code if 'M' denotes '÷', 'N' denotes '×', 'O' denotes '+' and 'P' denotes '-', then what will be the value of 24O3M1N5P32?

एक निश्चित कोड में यदि 'M' का अर्थ '÷' है, 'N' का अर्थ '×' है, 'O' का अर्थ '+' है और 'P' का अर्थ '-' है, तो 24O3M1N5P32 का मान क्या होगा?

(a) 6 (b) 7

(c) 8 (d) 10

MP Police Constable Exam- 19 August-2023 Shift-3

Ans. (b) : दिया गया समी. निम्नवत् है-

24O3M1N5P32

प्रश्नानुसार, गणितीय चिह्नों से प्रतिस्थापित करने पर,

$24 + 3 \div 1 \times 5 - 32$

$= 24 + 3 \times 5 - 32$

$= 24 + 15 - 32$

$= 39 - 32$

$= 7$

अतः विकल्प 'b' 7 सही उत्तर है।

23. In a certain code if 'M' denotes '÷', 'N' denotes '×', 'O' denotes '+' and 'P' denotes '-' then what will be the value of 45 M 9 M 5 N 6 P 3 O 4 N 2?

एक निश्चित कोड में यदि 'M' का अर्थ '÷' है, 'N' का अर्थ '×' है, 'O' का अर्थ '+' है और 'P' का अर्थ '–' है तो 45 M 9 M 5 N 6 P 3 O 4 N 2 का मान क्या होगा?

(a) 10 (b) 11

(c) 15 (d) 14

MP Police Constable Exam- 18 August-2023 Shift-3

GET IT ON Google Play Best Study PDF के लिए हमारी App को Download करें "GK Trick By Nitin Gupta"

Ans. (b) : [M → ÷, N → ×, O → +, P → –]

45 M 9 M 5 N 6 P 3 O 4 N 2

प्रश्नानुसार अक्षरों के स्थान पर गणितीय चिह्नों को रखने पर,

$45 \div 9 \div 5 \times 6 - 3 + 4 \times 2$

$= 45 \times \frac{1}{9} \times \frac{1}{5} \times 6 - 3 + 8$

$= 6 + 5$

$= 11$

24. If 'X' denotes '÷', P denotes '×', S denotes '□' and Q denotes '+' then

यदि 'X' का अर्थ '÷', P का अर्थ '×', S का अर्थ '□' और Q का अर्थ '+' है तो

48 Q 8 X 4 S 16 P 1.5 = ?

(a) 4 (b) 26

(c) 22 (d) 51

MP Police Constable Exam- 20 August-2023 Shift-3

Ans. (b) : प्रश्नानुसार,

48 Q 8 X 4 S 16 P 1.5 = ?

अक्षरों का परिवर्तन चिह्नों में-

$= 48 + 8 \div 4 - 16 \times 1.5$

$= 50 - 24$

अतः ? = 26

25. If 'M' means '×', 'K' means '÷', 'G' means '+', and 'P' means '–', then what is the value of

यदि 'M' का अर्थ '×', 'K' का अर्थ '÷', 'G' का अर्थ '+', और 'P' का अर्थ '–' है, तो निम्नलिखित व्यंजक का मान क्या है?

34 P 12 M 5 G 20 K 4 M 2 P 3

(a) 62 (b) –19

(c) 29 (d) 41

MP Police Constable Exam- 20 August-2023 Shift-1

Ans. (b) : दिया है-

M → ×

K → ÷

G → +

P → –

34 P 12 M 5 G 20 K 4 M 2 P 3

प्रश्नानुसार, अक्षरों को गणितीय चिह्नों में परिवर्तित करने पर-

$34 - 12 \times 5 + 20 \div 4 \times 2 - 3$

$34 - 12 \times 5 + 5 \times 2 - 3$

$34 - 60 + 10 - 3$

$34 - 60$

-19

26. In the following equation, select correct combination of mathematical signs to replace A and balance the equation

निम्नलिखित समीकरण में, A को प्रतिस्थापित करने और समीकरण को संतुलित करने के लिए गणितीय चिह्नों के सही संयोजन का चयन करें।

965 A 25 A 5 A 7 A 200

(a) +, –, =, × (b) ÷, +, =, –

(c) –, ÷, +, = (d) ÷, ×, +, =

MP Police Constable Exam- 20 August-2023 Shift-3

Ans. (d) : दिया है-

965 A 25 A 5 A 7 A 200

विकल्प (d) से A के चिह्नों को प्रतिस्थापित करने पर-

$965 \div 25 \times 5 + 7 = 200$

$\frac{965}{25} \times 5 + 7 = 200$

$193 + 7 = 200$

$200 = 200$

27. In the following equation, select correct combination of mathematical signs to replace A and balance the equation/निम्नलिखित समीकरण में, A को प्रतिस्थापित करने और समीकरण को संतुलित करने के लिए गणितीय चिह्नों के सही संयोजन का चयन करें।

65 A 85 A 17 A 14 A 5

(a) +, –, ×, = (b) ÷, =, ×, +

(c) –, +, =, × (d) +, ÷, =, ×

MP Police Constable Exam- 27 August-2023 Shift-2

Ans. (d) : दिया गया समी.– 65 A 85 A 17 A 14 A 5

दिए गए समी. में विकल्प (d) के अनुसार गणितीय चिह्न को प्रतिस्थापित करने पर–

$65 + 85 \div 17 = 14 \times 5$

$65 + 5 = 70$

$70 = 70$

L.H.S. = R.H.S.

28. If a means '+', b means '–', c means '×' and d means '÷', then the value of 16c10b14a24d4 is

यदि a का तात्पर्य '+', b का तात्पर्य '–', c का तात्पर्य '×' तथा d का तात्पर्य '÷' हो, तो 16c10b14a24d4 का मान है

(a) 242

(b) 168

(c) 152

(d) None of the above/उपर्युक्त में से कोई नहीं

MP Police Constable Recruitment(Second)Test- 2013

Ans. (c) : दिया गया समीकरण-

16c10b14a24d4

प्रतीकों को परिवर्तित करने पर-

$= 16 \times 10 - 14 + 24 \div 4$

$= 160 - 14 + 6$

$= 166 - 14$

$= 152$

29. If A = ×, E = –, O = ÷ and U = +, then taking the numerical value of the remaining letters as per English alphabet order, the correct option for SETUH is/यदि A = ×, E = –, O = ÷ तथा U = + हो, तो शेष अक्षरों का अंग्रेजी वर्णमालानुसार संख्यात्मक मान लेने पर SETUH का सही विकल्प है

(a) 5 (b) 6

(c) 7 (d) 8

MP Police Constable Recruitment Test - 2013

Ans. (c) : वर्णमालाक्रम निम्नवत् है-

S	E	T	U	H
↓	↓	↓	↓	↓
19	(–)	20	(+)	8

प्रश्नानुसार,

$? = 19 - 20 + 8$

$= 27 - 20$

$= 7$

नोट-E तथा U का मान प्रश्न में दिया गया है।

GET IT ON Google Play Best Study PDF के लिए हमारी App को Download करें "GK Trick By Nitin Gupta"

30. If P denotes ÷, Q denotes ×, R denotes + and S denotes -, then 100 P 5 Q 3 R 10 S 5 = ?
यदि P, ÷ को दर्शाता है, Q, × को दर्शाता है, R, + को दर्शाता है और S, – को दर्शाता है, तो 100 P 5 Q 3 R 10 S 5 = ?

(a) 55 (b) 65
(c) 87 (d) 98

MP Police Constable Exam- 21 August-2023 Shift-2

Ans. (b) : दिया है-

$P \rightarrow \div$
$Q \rightarrow \times$
$R \rightarrow +$
$S \rightarrow -$

समी.-

100 P 5 Q 3 R 10 S 5 = ?

समी. में अक्षरों का मान रखने पर-

$100 \div 5 \times 3 + 10 - 5 = ?$
$20 \times 3 + 10 - 5 = ?$
$60 + 10 - 5 = ?$
$70 - 5 = ?$
$\boxed{? = 65}$

31. In the following equation, select correct combination of mathematical signs to replace A and balance the equation.
निम्नलिखित समीकरण में, A को प्रतिस्थापित करने और समीकरण को संतुलित करने के लिए गणितीय चिह्नों के सही संयोजन का चयन करें।

25 A 730 A 146 A 63 A 33

(a) +, ÷, =, – (b) ÷, +, =, –
(c) –, ÷, +, = (d) ÷, ×, +, =

MP Police Constable Exam- 21 August-2023 Shift-3

Ans. (a) : समी.-

25 A 730 A 146 A 63 A 33

विकल्प (a) से-

$25 + 730 \div 146 = 63 - 33$
$25 + 5 = 30$
$30 = 30$
L.H.S. = R.H.S.

32. If 'L' stand for '+', 'M' stands for '-', 'N' stands for '×', P stands for '÷' then
यदि 'L' का अर्थ '+' है, 'M' का अर्थ '-' है, 'N' का अर्थ '×' है, P का अर्थ '÷' है तो

14 N 10 L 42 P 2 M 8 = ?

(a) 153 (b) 216
(c) 248 (d) 251

MP Police Constable Exam- 20 August-2023 Shift-2

Ans. (a) : दिया है-

14 N 10 L 42 P 2 M 8 = ?

$\{L \rightarrow +, M \rightarrow -, N \rightarrow \times, P \rightarrow \div\}$

प्रश्नानुसार, अक्षरों को बदलने पर-

$14 \times 10 + 42 \div 2 - 8 = ?$
$14 \times 10 + 21 - 8 = ?$
$140 + 21 - 8 = ?$
$161 - 8 = ?$
$\boxed{? = 153}$

33. In the following equation, select correct combination of mathematical signs to replace A and balance the equation.
निम्नलिखित समीकरण में, A को प्रतिस्थापित करने और समीकरण को संतुलित करने के लिए गणितीय चिह्नों के सही संयोजन का चयन करें।

65 A 1961 A 106 A 2 A 102

(a) +, –, =, × (b) ÷, +, =, –
(c) –, ÷, +, = (d) +, ÷, ×, =

MP Police Constable Exam- 21 August-2023 Shift-2

Ans. (d) : दिया गया समी.-

65 A 1961 A 106 A 2 A 102

विकल्प (d) के अनुसार A के स्थान पर गणितीय चिह्नों के सही संयोजन को समी. में रखने पर-

$65 + 1961 \div 106 \times 2 = 102$
$65 + 18.5 \times 2 = 102$
$65 + 37 = 102$
$102 = 102$
L.H.S. = R.H.S.

Type-2: गणितीय चिन्हों के गणितीय चिन्हों में परिवर्तन पर आधारित अंकगणितीय संक्रियाएँ

34. Select the correct equation from the given options after interchanging operations '–' and '×' and numbers '4' and '5'.
ऑपरेशन '–' और '×' तथा संख्या '4' और '5' को इंटरचेंज करने के बाद दिए गए विकल्पों में से सही समीकरण का चयन करें।

(a) $9 - 4 \times 5 = 21$ (b) $5 \times 4 - 9 = 7$
(c) $5 \times 9 - 4 = 4$ (d) $4 - 5 \times 9 = 11$

MP Police Constable Exam- 9 Sep-2023 Shift-3

Ans. (d) : दिया है

$- \leftrightarrow \times$
$4 \leftrightarrow 5$

प्रश्नानुसार,

विकल्प (d) से

$4 - 5 \times 9 = 11$

चिह्नों एवं संख्याओं परिवर्तित करने पर

$5 \times 4 - 9 = 11$
$11 = 11$
L.H.S. = R.H.S.

अतः विकल्प (d) सही उत्तर होगा।

35. Which two signs and numbers should be interchanged in the following equation to make it correct?
निम्नलिखित समीकरण को सही करने के लिए किन दो चिह्नों या संख्याओं को आपस में बदला जाना चाहिए?

$16 \times 2 - 6 \div 3 + 4 = -12$

(a) ÷ and ×, 2 and 4/÷ और ×, 2 और 4
(b) ÷ and –, 16 and 3/÷ और –, 16 और 3
(c) – and ×, 4 and 16/– और ×, 4 और 16
(d) + and –, 6 and 2/+ और –, 6 और 2

MP Police Constable Exam- 9 Sep-2023 Shift-3

GET IT ON Google Play Best Study PDF के लिए हमारी App को Download करें "GK Trick By Nitin Gupta"

Ans. (a) : दिया गया समी.

$16 \times 2 - 6 \div 3 + 4 = -12$

प्रश्नानुसार,

विकल्प (a) के अनुसार चिह्नों एवं संख्याओं को बदलने पर-

$16 \div 4 - 6 \times 3 + 2 = -12$

$4 - 18 + 2 = -12$

$-12 = -12$

L.H.S. = R.H.S.

अतः विकल्प (a) सही उत्तर होगा।

36. Which two signs should be interchanged to make the following equation correct ?
निम्नलिखित समीकरण को सही बनाने के लिए किन दो संकेतों को परस्पर बदला जाना चाहिए ?

$18 \times 20 \div 2 + 6 - 4 = 32$

(a) + and –/+ और –
(b) – and ×/– और ×
(c) ÷ and +/÷ और +
(d) × and ÷/× और ÷

MP Police Constable Exam- 31 August-2023 Shift-3

Ans. (b) : दिया गया है,

$18 \times 20 \div 2 + 6 - 4 = 32$

विकल्प (b) से–

– और × को आपस में बदलने पर–

$18 - 20 \div 2 + 6 \times 4 = 32$

$18 - 10 + 24 = 32$

$8 + 24 = 32$

$32 = 32$

L.H.S = R.H.S

37. Which two signs should be interchanged to make the given equation correct ?
दिए गए समीकरण को सही बनाने के लिए किन दो चिह्नों को आपस में बदला जाना चाहिए ?

$35 + 8 \times 4 - 18 \div 9 = 5$

(a) ÷ and ×/÷ और ×
(b) + and –/+ और –
(c) ÷ and –/÷ और –
(d) + and ×/+ और ×

MP Police Constable Exam- 24 August-2023 Shift-2

Ans. (b) : प्रश्नानुसार,

विकल्प (b) से–

$35 + 8 \times 4 - 18 \div 9 = 5$

चिह्न परिवर्तित करने पर-

$35 - 8 \times 4 + 18 \div 9 = 5$

$35 - 32 + 2 = 5$

$37 - 32 = 5$

$5 = 5$

L.H.S. = R.H.S.

38. Which two signs should be interchanged to make the given equation correct ?
दिए गए समीकरण को सही बनाने के लिए किन दो प्रतीकों को परस्पर बदला जाना चाहिए ?

$16 + 3 - 5 \times 2 \div 4 = 9$

(a) × and +/× और +
(b) ÷ and +/÷ और +
(c) ÷ and ×/÷ और ×
(d) × and –/× और –

MP Police Constable Exam- 29 August-2023 Shift-2

Ans. (c) : समीकरण–

$16 + 3 - 5 \times 2 \div 4 = 9$

विकल्प (c) अनुसार–

$16 + 3 - 5 \div 2 \times 4 = 9$

$16 + 3 - \frac{5}{2} \times 4 = 9$

$9 = 9$

L.H.S = R.H.S

39. Which two signs should be interchanged to make the given equation correct ?
दिए गए समीकरण को सही बनाने के लिए किन दो चिह्नों को आपस में बदला जाना चाहिए ?

$42 + 16 \times 4 - 6 \div 3 = 28$

(a) ÷ and ×/÷ और ×
(b) – and ×/– और ×
(c) ÷ and –/÷ और –
(d) + and –/+ और –

MP Police Constable Exam- 27 August-2023 Shift-1

Ans. (a) : दिया गया समीकरण निम्नवत् है–

$42 + 16 \times 4 - 6 \div 3 = 28$

विकल्प (a) से चिह्नों को आपस में बदलने पर,

$42 + 16 \div 4 - 6 \times 3 = 28$

$42 + 4 - 18 = 28$

$46 - 18 = 28$

$28 = 28$

L.H.S = R.H.S

40. Which two signs should be interchanged to make the given equation correct ?
दिए गए समीकरण को सही बनाने के लिए किन दो चिह्नों को आपस में बदला जाना चाहिए ?

$30 \div 5 \times 6 + 2 - 32 = 13$

(a) ÷ and ×/÷ और ×
(b) ÷ and +/÷ और +
(c) – and ×/– और ×
(d) ÷ and –/÷ और –

MP Police Constable Exam- 28 August-2023 Shift-2

Ans. (b) : दिया गया समी. → $30 \div 5 \times 6 + 2 - 32 = 13$

विकल्प (b) से, चिह्नों को परिवर्तित करने पर–

$30 + 5 \times 6 \div 2 - 32 = 13$

$30 + 5 \times 3 - 32 = 13$

$30 + 15 - 32 = 13$

$45 - 32 = 13$

$13 = 13$

L.H.S. = R.H.S.

अतः विकल्प (b) सही है।

41. Which two signs should be interchanged to make the given equation correct ?
दिए गए समीकरण को सही बनाने के लिए किन दो चिह्नों को आपस में बदला जाना चाहिए ?

$27 \div 3 \times 17 - 128 + 4 = 46$

(a) – and × /– और ×
(b) + and ÷ /+ और ÷
(c) ÷ and × /÷ और ×
(d) + and × /+ और ×

MP Police Constable Exam- 25 August-2023 Shift-3

Ans. (b) : दिया गया समीकरण निम्नवत् है–

$27 \div 3 \times 17 - 128 + 4 = 46$

विकल्प (b) से + और ÷ को आपस में बदलने पर–

$27 + 3 \times 17 - 128 \div 4 = 46$

$27 + 51 - 32 = 46$

$78 - 32 = 46$

$46 = 46$

L.H.S = R.H.S

GET IT ON Google Play Best Study PDF के लिए हमारी App को Download करें "GK Trick By Nitin Gupta"

42. In a certain code language, '–' represents '×', '+' represents '÷', '÷' represents '–' and '×' represents '+'. What is the answer to the following question?
एक खास कोड की भाषा में, '–' '×' दर्शाता है, '+' '÷' दर्शाता है, '÷' '–' दर्शाता है और '×' '+' दर्शाता है। निम्नलिखित सवाल का उत्तर दें।

8 + 25 – 10 ÷ 48 + 40 × 3 = ?

(a) 18 (b) 6
(c) 8 (d) 5

MP Police Constable Exam- 9 Sep-2023 Shift-3

Ans. (d) : दिया है-

– → ×
+ → ÷
÷ → –
× → +
8 + 25 – 10 ÷ 48 + 40 × 3 = ?

चिह्नों को परिवर्तित करने पर-

8 ÷ 25 × 10 – 48 ÷ 40 + 3 = ?

$\frac{16}{5} - \frac{6}{5} + 3 = ?$

2 + 3 = ?

? = 5

43. If '+' means '÷', '–' means '×', '×' means '–' and '÷' means '+', Which of the following will be the value of the given expression ?
यदि '+' का अर्थ '÷' है, '–' का अर्थ '×' है, '×' का अर्थ '–' है और '÷' का अर्थ '+' है, तो निम्नलिखित में से कौन-सा दिए गए अभिव्यक्ति का मान होगा ?

16 ÷ 24 + 2 × 4 = ?

(a) 16 (b) 24
(c) 32 (d) 44

MP Police Constable Exam- 5 Sep -2023 Shift-1

Ans. (b) :दिया है-

+ → ÷, – → ×, × → –, ÷ → +
16 ÷ 24 + 2 × 4 = ?

चिह्नों को परिवर्तित करने पर

? = 16 + 24 ÷ 2 – 4
? = 16 + 12 – 4
? = 24

44. Which two signs should be interchanged to make the given equation correct?
दिए गए समीकरण को सही बनाने के लिए किन दो चिह्नों को आपस में बदला जाना चाहिए?

15 ÷ 3 × 2 – 12 + 4 = 18

(a) + and ×/+ और × (b) + and ÷/+ और ÷
(c) × and ÷/× और ÷ (d) × and +/× और +

MP Police Constable Exam- 19 August-2023 Shift-2

Ans. (b) : दिया है-

समी. 15 ÷ 3 × 2 – 12 + 4 = 18

विकल्प (b) के अनुसार चिह्नों को बदलने पर-

15 + 3 × 2 – 12 ÷ 4 = 18
15 + 6 – 3 = 18
21 – 3 = 18
18 = 18
L.H.S = R.H.S

45. If + is replaced by × :
– is replaces by +
× is replaces by ÷
÷ is replaces by –
Then answer the following question based of this information.
यदि + को × से प्रतिस्थापित किया जाता है
– को + से प्रतिस्थापित किया जाता है
× को ÷ से प्रतिस्थापित किया जाता है
÷ को – से प्रतिस्थापित किया जाता है
तो इस जानकारी के आधार पर दिए गए प्रश्नों के उत्तर दें।

150 × 5 ÷ 3 + 10 – 1 = ?

(a) –1 (b) –2
(c) 3 (d) 1

MP Police Constable Exam- 2 Sep-2023 Shift-3

Ans. (d) : दिया है–

150 × 5 ÷ 3 + 10 – 1 = ?
+ → ×
– → +
× → ÷
÷ → –

चिह्नों को बदलने पर–

150 ÷ 5 – 3 × 10 + 1 = ?
30 – 3 × 10 + 1 = ?
30 – 30 + 1 = ?
1 = ?

46. To correct the equation given below, which two symbols should be mutated ?
नीचे दिए गए समीकरण को सही करने के लिए, कौन-से दो प्रतीकों को उत्परिवर्तित किया जाना चाहिए ?

12 × 3 + 8 ÷ 4 – 5 = 31

(a) × and –/× और – (b) + and –/+ और –
(c) ÷ and +/÷ और + (d) × and ÷/× और ÷

MP Police Constable Exam- 2 Sep-2023 Shift-3

Ans. (d) : दिया है–

12 × 3 + 8 ÷ 4 – 5 = 31

विकल्प (d) से चिह्नों को आपस में बदलने पर–

12 ÷ 3 + 8 × 4 – 5 = 31
4 + 8 × 4 – 5 = 31
4 + 32 – 5 = 31
36 – 5 = 31
31 = 31
(LHS) = (RHS)

47. Which two numbers should be interchanged to make the given equation correct ?
दिए गए समीकरण को सही बनाने के लिए किन दो संख्याओं को आपस में बदला जाना चाहिए ?

7 – 18 ÷ 6 × 16 + 4 = –1

(a) 6 and 4/6 और 4 (b) 18 and 6/18 और 6
(c) 7 and 16/7 और 16 (d) 4 and 7/4 और 7

MP Police Constable Exam- 2 Sep-2023 Shift-3

Ans. (c) : दिया है–

7 – 18 ÷ 6 × 16 + 4 = –1

विकल्प (c) से 7 और 16 को आपस में बदलने पर-

16 – 18 ÷ 6 × 7 + 4 = –1
16 – 3 × 7 + 4 = –1
16 – 21 + 4 = –1
–1 = –1
(LHS) = (RHS)

अतः विकल्प (c) सही है।

GET IT ON Google Play Best Study PDF के लिए हमारी App को Download करें "GK Trick By Nitin Gupta"

48. If '+' means '-', '×' means '÷', ÷ means '+' and '-' means '×' then
यदि '+' का अर्थ '–' है, '×' का अर्थ '÷' है, '÷' का अर्थ '+' है और '–' का अर्थ '×' है तो
126 × 14 + 9 – 5 ÷ 6 = ?

(a) –35 (b) –30
(c) –40 (d) –15

MP Police Constable Exam- 5 Sep-2023 Shift-2

Ans. (b) : दिया है–
$(+ \to -,\ \times \to \div,\ \div \to +,\ - \to \times)$
$126 \times 14 + 9 - 5 \div 6 = ?$
चिह्नों को परिवर्तित करने पर–
$126 \div 14 - 9 \times 5 + 6 = ?$
$9 - 45 + 6 = ?$
$\boxed{? = -30}$

49. Which two signs should be interchanged to make the given equation correct?
दिए गए समीकरण को सही बनाने के लिए किन दो चिह्नों को आपस में बदला जाना चाहिए ?
14 + 18 × 3 ÷ 9 – 12 = 56

(a) ÷ and ×/÷ और × (b) – and ×/– और ×
(c) + and –/+ और – (d) × and +/× और +

MP Police Constable Exam- 23 August-2023 Shift-2

Ans. (a) : दिया है,
$14 + 18 \times 3 \div 9 - 12 = 56$
दिये गये समीकरण में ÷ और × के चिह्नों को परस्पर बदलने पर,
$56 = 14 + 18 \div 3 \times 9 - 12$
$56 = 14 + 6 \times 9 - 12$
$56 = 2 + 54$
$56 = 56$
LHS = R.H.S

50. If '+' means '÷', '–' means '×', '÷' means '–', and '×' means '+' then 42 ÷ 24 + 6 × 4 – 3 = ?
यदि '+' का अर्थ '÷', '–' का अर्थ '×', '÷' का अर्थ '–', और '×' का अर्थ '+' है तो 42 ÷ 24 + 6 × 4 – 3 = ?

(a) 22 (b) 50
(c) 58 (d) 26

MP Police Constable Exam- 23 August-2023 Shift-2

Ans. (b) : दिया है,
$+ \to \div$
$- \to \times$
$\div \to -$
$\times \to +$
$? = 42 \div 24 + 6 \times 4 - 3$
चिह्नों को परिवर्तित करने पर,
$= 42 - 24 \div 6 + 4 \times 3$
$= 42 - 4 + 12$
$= 42 + 8$
$= 50$

51. If '+' means '–', '–' means '×', '×' means '÷' and '÷' means '+', then what will be the value of 300 + 28 – 5 × 32 ÷ 14 = ?
अगर '+' का मतलब '–', '–' का मतलब '×', '×' का मतलब '÷' और '÷' का मतलब '+' है, तो 300 + 28 – 5 × 32 ÷ 14 का मान क्या होगा।

(a) 315.625 (b) 309.625
(c) 300.725 (d) 302.5

MP Police Constable Exam- 10 Sep-2023 Shift-1

Ans. (b) : दिया गया समी0-
$300 + 28 - 5 \times 32 \div 14$
चिह्न बदलने पर-
$300 - 28 \times 5 \div 32 + 14$
$= 300 - 7 \times \frac{5}{8} + 14$
$= \frac{2400 - 35 + 112}{8}$
$= \frac{2477}{8} = 309.625$
अतः विकल्प (b) सही है।

52. By interchanging which two signs the equation will be correct ?
किन दो चिह्नों को परस्पर बदलने से समीकरण सही होगा ?
15 + 21 × 31 ÷ 18 – 9 = 664

(a) – and ×/– और × (b) – and ÷/– और ÷
(c) ÷ and ×/÷ और × (d) – and +/– और +

MP Police Constable Exam- 26 August-2023 Shift-3

Ans. (b) : समी.– $15 + 21 \times 31 \div 18 - 9 = 664$
विकल्प (b) से, चिह्नों को प्रतिस्थापित करने पर–
$\Rightarrow 15 + 21 \times 31 - 18 \div 9 = 664$
$\Rightarrow 15 + 651 - \frac{18}{9} = 664$
$\Rightarrow 15 + 651 - 2 = 664$
$\Rightarrow 664 = 664$
L.H.S = R.H.S
अतः विकल्प (b) सही है।

53. Which two signs should be interchanged to make the given equation correct ?
दिए गए समीकरण को सही बनाने के लिए किन दो चिह्नों को आपस में बदला जाना चाहिए ?
48 – 16 + 12 ÷ 3 × 6 = –3

(a) + and ×/+ और × (b) ÷ and ×/÷ और ×
(c) + and –/+ और – (d) ÷ and –/÷ और –

MP Police Constable Exam- 26 August-2023 Shift-3

Ans. (d) : समी.– $48 - 16 + 12 \div 3 \times 6 = -3$
विकल्प (d) से, चिह्नों को प्रतिस्थापित करने पर–
$\Rightarrow 48 \div 16 + 12 - 3 \times 6 = -3$
$\Rightarrow 3 + 12 - 18 = -3$
$\Rightarrow 15 - 18 = -3$
$\Rightarrow -3 = -3$
L.H.S = R.H.S
अतः विकल्प (d) सही है।

54. In a certain code language, '–' represents '÷', 'x' represents '+', '+' represents '–' and '÷' represents 'x'. What is the answer to the following question?
एक खास कोड की भाषा में, '–' का कोड है '÷', 'x' का कोड है '+', '+' का कोड है '–' और '÷' का कोड है 'x'। निम्नलिखित प्रश्न का उत्तर दें।

GET IT ON Google Play Best Study PDF के लिए हमारी App को Download करें "GK Trick By Nitin Gupta"

60 + 72 – 24 ÷ 18 × 35 = ?

(a) 36 (b) 41
(c) 27 (d) 45

MP Police Constable Exam- 12 Sep-2023 Shift-2

Ans. (b) : दिया गया समी. निम्नवत् है-

60 + 72 – 24 ÷ 18 × 35 = ?

प्रश्नानुसार गणितीय चिह्न परिवर्तित करने पर,

? = 60 – 72 ÷ 24 × 18 + 35
= 60 – 3 × 18 + 35
= 95 – 54
= 41

55. If '–' means '+', '+' means '×', '×' means '÷' and '÷' means '–', then 40 ÷ 30 – 20 × 8 + 2 = ?
यदि '–' का अर्थ '+', '+' का अर्थ '×', '×' का अर्थ '÷', और '÷' का अर्थ '–', है तब 40 ÷ 30 – 20 × 8 + 2 = ?

(a) 20 (b) 05
(c) 12 (d) 15

MP Police Constable Exam- 25 August-2023 Shift-1

Ans. (d) : 40 ÷ 30 – 20 × 8 + 2 = ?

'–' का अर्थ = '+'
'+' का अर्थ = '×'
'×' का अर्थ = '÷'
'÷' का अर्थ = '–'

प्रश्नानुसार,

40 – 30 + 20 ÷ 8 × 2

$= 10 + \frac{20}{8} \times 2$

= 10 + 5

अतः ? = 15

56. Which two signs should be interchanged to make the given equation correct ?
दिए गए समीकरण को सही बनाने के लिए किन दो चिह्नों को आपस में बदला जाना चाहिए ?

65 + 2 – 25 ÷ 5 × 12 = 137

(a) ÷ and ×/÷ और × (b) ÷ and +/÷ और +
(c) + and ×/+ और × (d) ÷ and –/÷ और –

MP Police Constable Exam- 25 August-2023 Shift-1

Ans. (c) : 65 + 2 – 25 ÷ 5 × 12 = 137

विकल्प (c) से समीकरण को आपस में बदलने पर–

65 × 2 – 25 ÷ 5 + 12 = 137
130 – 5 + 12 = 137
137 = 137

57. Which two signs should be interchanged to make the given equation correct ?
दिए गए समीकरण को सही बनाने के लिए किन दो चिह्नों को आपस में बदला जाना चाहिए ?

6 ÷ 3 + 9 – 12 × 3 = 23

(a) ÷ and ×/÷ और × (b) + and –/+ और –
(c) + and ×/+ और × (d) ÷ and –/÷ और –

MP Police Constable Exam- 23 August-2023 Shift-3

Ans. (a) : प्रश्नानुसार,

विकल्प (a) से,

समी. → 6 ÷ 3 + 9 – 12 × 3 = 23

चिह्न परिवर्तित करने पर,

6 × 3 + 9 – 12 ÷ 3 = 23
6 × 3 + 9 – 4 = 23
18 + 9 – 4 = 23
23 = 23
L.H.S = R.H.S

अतः विकल्प (a) सही होगा।

58. Which two signs and numbers should be interchanged in the following equation to make it correct?
निम्नलिखित समीकरण को सही करने के लिए किन दो चिह्नों या संख्याओं को आपस में बदला जाना चाहिए?

12 ÷ 6 + 2 – 3 × 4 = –42

(a) ÷ and ×, 6 and 4/÷ और ×, 6 और 4
(b) ÷ and +, 12 and 3/÷ और +, 12 और 3
(c) – and +, 3 and 4/– और +, 3 और 4
(d) + and ×, 6 and 2/+ और ×, 6 और 2

MP Police Constable Exam- 8 Sep-2023 Shift-1

Ans. (b) : दिया है,

12 ÷ 6 + 2 – 3 × 4 = –42

विकल्प b के अनुसार चिह्नों को आपस में बदलने पर,

3 + 6 ÷ 2 – 12 × 4 = –42
3 + 3 – 48 = –42
6 – 48 = –42
–42 = –42
L.H.S. = R.H.S.

59. If '+' means '–', '÷' means '+', '–' means '×', '×' means '÷', then which of the following equations is correct ?
यदि '+' का अर्थ '–', '÷' का अर्थ '+', '–' का अर्थ '×', '×' का अर्थ '÷' है, तो निम्नलिखित में से कौन-सा समीकरण सही है ?

(a) 265 + 11 – 2 × 14 = 22
(b) 2 – 14 × 4 ÷ 11 = 16
(c) 46 – 10 + 10 × 5 = 92
(d) 66 × 3 – 11 + 12 = 230

MP Police Constable Exam- 4 Sep-2023 Shift-3

Ans. (d) : विकल्प (d) से,

66 × 3 – 11 + 22 = 230

प्रश्नानुसार गणितीय चिह्न प्रतिस्थापित करने पर,

66 ÷ 3 × 11 – 22 = 230
⇒ 22 × 11 – 22 = 230
⇒ 242 – 22 = 230
⇒ 230 = 230
∴ L.H.S = R.H.S

अतः विकल्प (d) सही उत्तर है।

60. Which two signs should be interchanged to make the given equation correct ?
दिए गए समीकरण को सही बनाने के लिए किन दो चिह्नों को आपस में बदला जाना चाहिए ?

12 × 6 ÷ 18 – 9 + 13 = 83

(a) ÷ and ×/÷ और × (b) ÷ and –/÷ और –
(c) + and ×/+ और × (d) – and ×/– और ×

MP Police Constable Exam- 25 August-2023 Shift-2

GET IT ON Google Play Best Study PDF के लिए हमारी App को Download करें "GK Trick By Nitin Gupta"

Ans. (b) : दिया है,

$12 \times 6 \div 18 - 9 + 13 = 83$

विकल्प (b) से चिह्नों को परिवर्तित करने पर,

$12 \times 6 - 18 \div 9 + 13 = 83$

$\Rightarrow 72 - 2 + 13 = 83$

$\Rightarrow 72 + 11 = 83$

$\Rightarrow 83 = 83$

LHS = RHS

अतः विकल्प (b) सही है।

61. If '–' means '×', '+' means '÷', '×' means '–', '÷' means '+', then, $5 - 3 \div 4 + 2 - 4 \times 6 = ?$

यदि '–' का अर्थ '×', '+' का अर्थ '÷', '×' का अर्थ '–', और '÷' का अर्थ '+' है तो, $5 - 3 \div 4 + 2 - 4 \times 6 = ?$

(a) 17 (b) 27

(c) 20 (d) 13

MP Police Constable Exam- 18 August-2023 Shift-2

Ans. (a) : दिया है-

$5 - 3 \div 4 + 2 - 4 \times 6 = ?$

$- \rightarrow \times, \quad + \rightarrow \div$

$\times \rightarrow -, \quad \div \rightarrow +$

चिह्नों को बदलने पर-

$? = 5 \times 3 + 4 \div 2 \times 4 - 6$

$= 5 \times 3 + 2 \times 4 - 6$

$= 15 + 8 - 6$

$= 23 - 6$

$= 17$

62. If '+' stands for '÷' ,'×' stands '+', '-' stands for 'x' and '÷' stands for '-' then which of the following statements is correct?

यदि '+' का अर्थ '÷', '×' का अर्थ '+', '-' का अर्थ 'x' और '÷' का अर्थ '-' है, तो निम्नलिखित में से कौन-सा कथन सही है?

(a) 18+14-24×12÷16=12

(b) 16×14-24÷18+12= -24

(c) 24-12+12÷16×18= 26

(d) 18÷16+12×18÷12= 27

MP Police Constable Exam- 11 Sep-2023 Shift-2

Ans. (c) : दिया है-

$$\begin{pmatrix} + \rightarrow \div \\ \times \rightarrow + \\ - \rightarrow \times \\ \div \rightarrow - \end{pmatrix}$$

विकल्प (c) से-

$24 - 12 + 12 \div 16 \times 18 = 26$

चिह्नों को परिवर्तित करने पर-

$24 \times 12 \div 12 - 16 + 18 = 26$

$24 - 16 + 18 = 26$

$42 - 16 = 26$

$26 = 26$

L.H.S = R.H.S

अतः विकल्प (c) सही उत्तर होगा।

63. Which two signs should be interchanged to make the given equation correct ?

दिए गए समीकरण को सही बनाने के लिए किन दो चिह्नों को आपस में बदला जाना चाहिए ?

$72 + 8 \times 3 \div 12 - 5 = 34$

(a) ÷ and –/÷ और – (b) ÷ and ×/÷ और ×

(c) ÷ and +/÷ और + (d) – and ×/– और ×

MP Police Constable Exam- 24 August-2023 Shift-3

Ans. (c) : समी. $\rightarrow 72 + 8 \times 3 \div 12 - 5 = 34$

विकल्प (c) से ÷ और + चिह्नों को परस्पर बदलने पर–

$72 \div 8 \times 3 + 12 - 5 = 34$

$9 \times 3 + 12 - 5 = 34$

$27 + 7 = 34$

$34 = 34$

L.H.S = R.H.S

64. If '×' means subtraction, '+' means multiplication and '-' means addition, then find the value of following equation.

यदि '×' का अर्थ घटाना, '+' का अर्थ गुणा और '–' का अर्थ जोड़ हो तब निम्नलिखित समीकरण का मान बतायें ?

$12 + (3 \times 1) + 4 - 1$

(a) 105 (b) 75

(c) 80 (d) 97

MP Police Constable Exam- 24 August-2023 Shift-3

Ans. (d) :

दिया है–

'×' → '–'

'+' → '×'

'–' →'+'

समी. $\rightarrow 12 + (3 \times 1) + 4 - 1$

प्रश्नानुसार, चिह्नो को परिवर्तित करने पर–

$= 12 \times (3 - 1) \times 4 + 1$

$= 12 \times 2 \times 4 + 1$

$= 24 \times 4 + 1$

$= 97$

अतः विकल्प (d) सही उत्तर है।

65. By interchanging which two signs, the equation will be correct ?

किन दो चिह्नों को परस्पर बदलने से समीकरण सही होगा ?

$22 + 23 \times 253 \div 11 = 529$

(a) + and ×/+ और × (b) + and ÷/+ और ÷

(c) ÷ and ×/÷ और × (d) ÷ and =/÷ और =

MP Police Constable Exam- 26 August-2023 Shift-2

Ans. (a) : विकल्प (a) के अनुसार चिह्न '+ और ×' को आपस में बदलने पर–

$\Rightarrow \quad 22 \times 23 + 253 \div 11 = 529$

$\Rightarrow \quad 506 + 23 = 529$

$\Rightarrow \quad \boxed{529 = 529}$

L.H.S. = R.H.S.

66. Which two signs should be interchanged to make the given equation correct ?

दिए गए समीकरण को सही बनाने के लिए किन दो चिह्नों को आपस में बदला जाना चाहिए ?

$54 \div 18 \times 6 - 3 + 12 = 30$

(a) ÷ and ×/÷ और × (b) – and ×/– और ×

(c) + and –/+ और – (d) ÷ and –/÷ और –

MP Police Constable Exam- 26 August-2023 Shift-2

GET IT ON Google Play Best Study PDF के लिए हमारी App को Download करें "GK Trick By Nitin Gupta"

Ans. (d) : दिया है $54 \div 18 \times 6 - 3 + 12 = 30$
विकल्प (d) के अनुसार चिह्न '÷ और –' को आपस में बदलने पर–
$\Rightarrow$ $54 - 18 \times 6 \div 3 + 12 = 30$
$\Rightarrow$ $54 - 18 \times 2 + 12 = 30$
$\Rightarrow$ $54 - 36 + 12 = 30$
$\Rightarrow$ $66 - 36 = 30$
$\Rightarrow$ $\boxed{30 = 30}$
L.H.S. = R.H.S.

67. Which two signs need to be interchanged to make the following equation correct?
निम्नलिखित समीकरण को सही बनाने के लिए किन दो प्रतीकों को परस्पर बदलने की आवश्यकता है?
$44 - 6 \div 4 + 171 \times 19 = 29$
(a) ÷ and –/÷ और –
(b) × and ÷/× और ÷
(c) ÷ and +/÷ और +
(d) × and +/× और +

MP Police Constable Exam- 10 Sep-2023 Shift-2

Ans. (b) : दिया गया समीकरण-
$44 - 6 \div 4 + 171 \times 19 = 29$
विकल्प (b) से चिह्न × और ÷ को आपस में बदलने पर-
$44 - 6 \times 4 + 171 \div 19 = 29$
$44 - 24 + 9 = 29$
$20 + 9 = 29$
$\boxed{29 = 29}$

68. Which two signs and numbers should be interchanged in the following equation to make it correct?
निम्नलिखित समीकरण को सही करने के लिए किन दो चिह्नों या संख्याओं को आपस में बदला जाना चाहिए?
$16 - 2 \div 4 \times 6 + 12 = 32$
(a) + and –, 2 and 12/+ और –, 2 और 12
(b) ÷ and ×, 16 and 4/÷ और ×, 16 और 4
(c) – and +, 4 and 2/– और +, 4 और 2
(d) ÷ and ×, 16 and 2/÷ और ×, 16 और 2

MP Police Constable Exam- 10 Sep-2023 Shift-2

Ans. (a) :
दिया गया समीकरण $\Rightarrow 16 - 2 \div 4 \times 6 + 12 = 32$
विकल्प (a) से + और –, 2 और 12 को बदलने पर-
$16 + 12 \div 4 \times 6 - 2 = 32$
$16 + 3 \times 6 - 2 = 32$
$16 + 18 - 2 = 32$
$16 + 16 = 32$
$\boxed{32 = 32}$

69. Which two signs should be interchanged in the following equation to make it correct.
निम्नलिखित समीकरण को सही बनाने हेतु समीकरण में किन दो प्रतीकों को आपस में बदला जाना चाहिए?
$24 - 12 \div 4 + 8 \times 2 = 11$
(a) – and ÷/– और ÷
(b) + and ÷/+ और ÷
(c) + and –/+ और –
(d) + and ×/+ और ×

MP Police Constable Exam- 31 August-2023 Shift-2

Ans. (c) : विकल्प (c) से
चिह्नों को आपस में बदलने पर
$\Rightarrow$ $24 + 12 \div 4 - 8 \times 2 = 11$
$24 + 3 - 16 = 11$
$27 - 16 = 11$
$\boxed{11 = 11}$

70. Which two signs should be interchanged in the following equation to make it correct ?
निम्नलिखित समीकरण को सही बनाने के लिए किन दो प्रतीको को आपस में बदला जाना चाहिए ?
$24 \div 8 - 5 \times 5 + 3 = 13$
(a) × and +/× और +
(b) ÷ and +/÷ और +
(c) ÷ and ×/÷ और ×
(d) + and –/+ और –

MP Police Constable Exam- 29 August-2023 Shift-1

Ans. (a) : विकल्प (a) से,
चिह्नों को आपस में बदलने पर–
$24 \div 8 - 5 + 5 \times 3 = 13$
$3 - 5 + 15 = 13$
$\boxed{13 = 13}$

71. If '+' means '-', '×' means '÷', ÷ means '+' and '-' means '×' then
यदि '+' का अर्थ '-' है, '×' का अर्थ '÷' है, ÷ का अर्थ '+' है और '-' का अर्थ '×' है तो
$2025 \times 45 + 9 - 6 \div 6 = ?$
(a) –2
(b) –3
(c) –4
(d) –1

MP Police Constable Exam- 6 Sep-2023 Shift-2

Ans. (b) : दिया है-
$2025 \times 45 + 9 - 6 \div 6 = ?$
विकल्प (b) के अनुसार गणितीय चिह्नों को बदलने पर-
$? = 2025 \times 45 + 9 - 6 \div 6 = ?$
$= 45 - 54 + 6$
$= 51 - 54$
$= -3$

72. Identify the correct response from the given premises stated according to the following symbols. If
'+' stands for subtraction
'÷' stands for multiplication
'×' stands for division
'–' stands for addition
Which one of the equations is correct ?
निम्नलिखित चिह्नों के अनुसार, दी गई शर्तों से सही विकल्प की पहचान करें। यदि-
'+' का अर्थ घटाना है।
'÷' का अर्थ गुण है।
'×' का अर्थ भाग है।
'–' का अर्थ जोड़ है।
निम्न में से कौन-सा समीकरण सही है ?
(a) $6 \times 2 \div 10 + 2 - 5 = 33$
(b) $3 + 1 - 2 \div 5 \times 1 = 21$
(c) $45 \times 9 \div 2 + 3 - 5 = 14$
(d) $13 + 1 - 6 \times 3 = 16$

MP Police Constable Exam- 3 Sep-2023 Shift-2

Ans. (a) : दी गई शर्त
$+ \rightarrow -$
$\div \rightarrow \times$
$\times \rightarrow \div$
$- \rightarrow +$
प्रश्नानुसार,

GET IT ON Google Play Best Study PDF के लिए हमारी App को Download करें "GK Trick By Nitin Gupta"

विकल्प (a) से चिह्नों को बदलने पर–

$6 \div 2 \times 10 - 2 + 5 = 33$
$3 \times 10 - 2 + 5 = 33$
$30 - 2 + 5 = 33$
$35 - 2 = 33$
$\boxed{33 = 33}$

अतः विकल्प (a) में दिया गया समीकरण चिह्नों को बदलने पर सही है।

73. Which of the following interchange of signs or numbers will make the given equation correct?
निम्नलिखित में से किन चिह्नों का बदलाव करें ताकि समीकरण का सही उत्तर प्राप्त हो?

$5 \times (6 + 3) - 10 = 23$

(a) + and ×/+ और ×
(b) 5 and 10/5 और 10
(c) + and –/+ और –
(d) 5 and 3/5 और 3

MP Police Constable Exam- 11 Sep-2023 Shift-3

Ans. (d) : दिया गया है-

$5 \times (6 + 3) - 10 = 23$

विकल्प 'd' के अनुसार अंकों को बदलने पर,

$3 \times (6 + 5) - 10 = 23$
$\Rightarrow 3 \times 11 - 10 = 23$
$\Rightarrow 23 = 23$
$\therefore$ L.H.S = R.H.S

74. In the following question, correct the equation by interchanging two signs.
निम्नलिखित प्रश्न में से, किन्ही दो प्रतीकों का प्रतिस्थापन करके समीकरण को सही करें।

$152 + 19 \times 4 - 8 \div 2 = 26$

(a) + and ×/+ और ×
(b) ÷ and ×/÷ और ×
(c) ÷ and +/÷ और +
(d) × and –/× और –

MP Police Constable Exam- 19 August-2023 Shift-3

Ans. (c) : दिया गया समी. है-

$152 + 19 \times 4 - 8 \div 2 = 26$

विकल्प (c) के अनुसार गणितीय चिह्नों को प्रतिस्थापित करने पर,

$152 \div 19 \times 4 - 8 + 2 = 26$
$\Rightarrow 8 \times 4 - 6 = 26$
$\Rightarrow 32 - 6 = 26$
$\Rightarrow 26 = 26$
$\therefore$ L.H.S. = R.H.S.

75. Which two signs should be interchanged to make the given equation correct?
दिए गए समीकरण को सही बनाने के लिए किन दो चिह्नों को आपस में बदला जाना चाहिए?

$18 \div 3 - 36 \times 4 + 2 = 47$

(a) ÷ and ×/÷ और ×
(b) ÷ and +/÷ और +
(c) ÷ and –/÷ और –
(d) + and ×/+ और ×

MP Police Constable Exam- 19 August-2023 Shift-3

Ans. (a) : दिया गया समी. निम्नवत् है-

$18 \div 3 - 36 \times 4 + 2 = 47$

विकल्प 'a' के अनुसार गणितीय चिह्नों को परिवर्तित करने पर,

$18 \times 3 - 36 \div 4 + 2 = 47$
$\Rightarrow 54 - 9 + 2 = 47$
$\Rightarrow 56 - 9 = 47$
$\Rightarrow 47 = 47$
$\therefore$ L.H.S. = R.H.S.

76. Which two signs and numbers should be interchanged in the following equation to make it correct?
निम्नलिखित समीकरण को सही करने के लिए किन दो चिह्नों या संख्याओं को आपस में बदला जाना चाहिए?

$20 - 12 \div 8 + 3 \times 16 = -14$

(a) – and ×, 12 and 20/– और ×, 12 और 20
(b) ÷ and ×, 8 and 16/÷ और ×, 8 और 16
(c) ÷ and +, 3 and 20/÷ और +, 3 और 20
(d) + and –, 12 and 16/+ और –, 12 और 16

MP Police Constable Exam- 11 Sep-2023 Shift-3

Ans. (d) : दिया गया समीकरण-

$20 - 12 \div 8 + 3 \times 16 = -14$

प्रश्नानुसार गणितीय चिह्नों एवं संख्याओं को प्रतिस्थापित करने पर,

$20 + 16 \div 8 - 3 \times 12 = -14$
$\Rightarrow 20 + 2 - 36 = -14$
$\Rightarrow 22 - 36 = -14$
$\Rightarrow -14 = -14$
$\therefore$ L.H.S = R.H.S

अतः विकल्प 'd' सही उत्तर है।

77. Which two signs should be interchanged in the following equation to make it correct.
निम्नलिखित समीकरण को सही बनाने के लिए किन दो संकेतों को परस्पर बदला जाना चाहिए।

$10 + 5 \div 10 \times 8 - 10 = 16$

(a) + and ÷ / + और ÷
(b) − and + / − और +
(c) ÷ and × / ÷ और ×
(d) × and + / × और +

MP Police Constable Exam- 1 Sep-2023 Shift-1

Ans. (b) : दिए गए समी. से–

$10 + 5 \div 10 \times 8 - 10 = 16$

समी. में विकल्प (b) से, चिह्नों को परस्पर बदलने पर-

$10 - 5 \div 10 \times 8 + 10 = 16$
$\Rightarrow 10 - \frac{1}{2} \times 8 + 10 = 16$
$\Rightarrow 20 - 4 = 16$
$\Rightarrow \boxed{16 = 16}$
L.H.S. = R.H.S.

78. Which two signs should be interchanged to make the given equation correct?
दिए गए समीकरण को सही बनाने के लिए किन दो चिह्नों को आपस में बदला जाना चाहिए?

$1 + 6 - 4 \div 2 \times 3 = 10$

(a) – and +/– और +
(b) ÷ and ×/÷ और ×
(c) – and ×/– और ×
(d) ÷ and –/÷ और –

MP Police Constable Exam- 20 August-2023 Shift-3

Ans. (c) : प्रश्नानुसार,

दिए गए समीकरण- $1 + 6 - 4 \div 2 \times 3 = 10$

विकल्प (c) से – और × को बदलने पर-

$1 + 6 \times 4 \div 2 - 3 = 10$
$1 + 12 - 3 = 10$
$13 - 3 = 10$
$10 = 10$

GET IT ON Google Play Best Study PDF के लिए हमारी App को Download करें "GK Trick By Nitin Gupta"

79. In the following question, correct the equation by interchanging two signs.
निम्नलिखित प्रश्न में से, किन्ही दो प्रतीकों का प्रतिस्थापन करके समीकरण को सही करें।

1111 + 11 – 56 × 2 ÷ 11 = 0

(a) × and –/× और –
(b) ÷ and ×/÷ और ×
(c) ÷ and +/÷ और +
(d) × and =/× और =

MP Police Constable Exam- 20 August-2023 Shift-1

Ans. (c) : दिया गया समी.-
1111 + 11 – 56 × 2 ÷ 11 = 0
÷ तथा + को आपस में बदलने पर
1111 ÷ 11 – 56 × 2 + 11 = 0
101 – 56 × 2 + 11 = 0
101 – 112 + 11 = 0
112 – 112 = 0
0 = 0
L.H.S. + R.H.S.

80. Which two signs should be interchanged to make the given equation correct?
दिए गए समीकरण को सही बनाने के लिए किन दो चिह्नों को आपस में बदला जाना चाहिए?

3 – 4 × 3 + 27 ÷ 9 = 12

(a) ÷ and +/÷ और +
(b) ÷ and ×/÷ और ×
(c) – and +/– और +
(d) ÷ and –/÷ और –

MP Police Constable Exam- 20 August-2023 Shift-1

Ans. (c) : दिया गया समीकरण-
3 – 4 × 3 + 27 ÷ 9 = 12
विकल्प (c) से चिह्नों को परस्पर बदलने पर-
3 + 4 × 3 – 27 ÷ 9 = 12
3 + 12 – 3 = 12
15 – 3 = 12
12 = 12
LHS = RHS

81. If '×' stands for '–', '÷' stands for '+', '+' stands for '÷' and '–' stands for '×', which one of the following equations is correct ?
यदि '×' का अर्थ है '–', '÷' का अर्थ है '+', '+' का अर्थ है '÷' और '–' का अर्थ है '×', निम्नलिखित में से कौन-सा समीकरण सही है ?

(a) 15 – 5 ÷ 5 × 20 + 16 = 6
(b) 8 ÷ 10 – 3 + 5 × 6 = 8
(c) 6 × 2 + 3 ÷ 12 – 3 = 15
(d) 3 ÷ 7 – 5 × 10 + 3 = 10

MP Police Constable Exam- 27 August-2023 Shift-2

Ans. (b) : दिया है,
× → –
÷ → +
+ → ÷
– → ×
विकल्प (b) से–
8 ÷ 10 – 3 + 5 × 6 = 8
प्रश्नानुसार चिह्न परिवर्तित करने पर–
8 + 10 × 3 ÷ 5 – 6 = 8
8 + 6 – 6 = 8
14 – 6 = 8
8 = 8
L.H.S. = R.H.S.

82. Which two signs should be interchanged to make the given equation correct ?
दिए गए समीकरण को सही बनाने के लिए किन दो चिह्नों को आपस में बदला जाना चाहिए ?

12 ÷ 6 + 8 × 3 – 4 = 12

(a) ÷ and ×/÷ और ×
(b) ÷ and –/÷ और –
(c) + and ×/+ और ×
(d) + and –/+ और –

MP Police Constable Exam- 27 August-2023 Shift-2

Ans. (b) : समी.– 12 ÷ 6 + 8 × 3 – 4 = 12
विकल्प (b) से चिह्नों को आपस में बदलने पर–
12 – 6 + 8 × 3 ÷ 4 = 12
12 – 6 + 6 = 12
18 – 6 = 12
12 = 12
L.H.S. = R.H.S.

83. In a certain code language, '+' represents '÷', '÷' represents '+', '×' represents '–' and '–' represents '×'. What is the answer to the following question ?
एक निश्चित कूट भाषा में, '+', '÷' का प्रतिनिधित्व करता है, '÷', '+' का, '×', '–' का, '–', '×' का प्रतिनिधित्व करता है। निम्न में से कौन-सा प्रश्न का उत्तर होगा ?

108 + 27 ÷ 18 – 3 × 12 = ?

(a) 38
(b) 62
(c) 46
(d) 49

MP Police Constable Exam- 3 Sep-2023 Shift-1

Ans. (c) : दिया है-
108 + 27 ÷ 18 – 3 × 12 = ?
प्रश्नानुसार, चिह्नों को परिवर्तित करने पर-
? = 108 + 27 ÷ 18 – 3 × 12
= 4 + 54 – 12
= 58 – 12
= 46

84. Which two numbers should be interchanged to make the given equation correct ?
दिए गए समीकरण को सही बनाने के लिए किन दो संख्याओं को आपस में बदला जाना चाहिए ?

36 + 6 ÷ 2 – 16 × 3 = 26

(a) 2 and 3/2 और 3
(b) 6 and 16/6 और 16
(c) 36 and 16/36 और 16
(d) 3 and 16/3 और 16

MP Police Constable Exam- 3 Sep-2023 Shift-1

Ans. (b) : विकल्प (b) में दिये संख्याओं के अनुसार अंक स्थापित करने पर,
36 + 16 ÷ 2 – 6 × 3 = 26
36 + 8 – 18 = 26
44 – 18 = 26
26 = 26

85. If '÷' means '+', '–' means '÷', '×' means '–' and '+' means '×', then the value of
यदि '÷' का तात्पर्य '+', '–' का तात्पर्य '÷', '×' का तात्पर्य '–' तथा '+' का तात्पर्य '×' हो, तो

GET IT ON Google Play Best Study PDF के लिए हमारी App को Download करें "GK Trick By Nitin Gupta"

$$\frac{26\times5-5\times3}{6+5\times2+15\div2}$$

(a) –12 (b) 11
(c) 10 (d) 8

MP Police Constable Recruitment(Second)Test- 2013

Ans. (b) : दिया है-

$$\frac{26\times5-5\times3}{6+5\times2+15\div2}$$

प्रश्नानुसार, चिह्नों को परिवर्तित करने पर-

$$=\frac{26\times5\div5-3}{6\times5-2\times15+2}$$

$$=\frac{26-4}{30-3+2}$$

$$=\frac{22}{2}$$

$$=11$$

86. Which two signs should be interchanged to make the given equation correct?
दिए गए समीकरण को सही बनाने के लिए किन दो चिह्नों को आपस में बदला जाना चाहिए?

8 – 6 × 2 + 12 ÷ 3 = 16

(a) + and ×/+ और × (b) ÷ and ×/÷ और ×
(c) + and –/+ और – (d) ÷ and +/÷ और +

MP Police Constable Exam- 21 August-2023 Shift-3

Ans. (c) : दिया गया समी.-

8 – 6 × 2 + 12 ÷ 3 = 16

विकल्प (c) से चिह्नों को परिवर्तित करने पर-

8 + 6 × 2 – 12 ÷ 3 = 16
8 + 12 – 4 = 16
20 – 4 = 16
16 = 16
L.H.S. = R.H.S.

87. If '+' means '-', '×' means '÷', ÷ means '+' and '-' means '×' then
यदि '+' का अर्थ '-' है, '×' का अर्थ '÷' है, ÷ का अर्थ '+' है और '-' का अर्थ '×' है तो

104 × 13 + 9 – 5 ÷ 6 = ?

(a) –31 (b) –36
(c) –37 (d) –34

MP Police Constable Exam- 21 August-2023 Shift-3

Ans. (a) : दिया है-

104 × 13 + 9 – 5 ÷ 6 = ?
+ → –, × → ÷, ÷ → +, – → ×

समी. में चिह्नों को प्रतिस्थापित करने पर

104 ÷ 13 – 9 × 5 + 6 = ?
? = 8 – 45 + 6
? = 14 – 45
? = –31

88. Which two signs should be interchanged to make the given equation correct?
दिए गए समीकरण को सही बनाने के लिए किन दो चिह्नों को आपस में बदला जाना चाहिए?

13 + 7 – 5 × 4 ÷ 2 = 46

(a) ÷ and ×/÷ और × (b) – and ×/– और ×
(c) ÷ and +/÷ और + (d) + and –/+ और –

MP Police Constable Exam- 21 August-2023 Shift-2

Ans. (b) : दिया गया समी.-

13 + 7 – 5 × 4 ÷ 2 = 46

विकल्प (b) से चिह्नों को बदलने पर-

13 + 7 × 5 – 4 ÷ 2 = 46
13 + 7 × 5 – 2 = 46
13 + 35 – 2 = 46
48 – 2 = 46
46 = 46
L.H.S. = R.H.S.

89. In the following question, correct the equation by interchanging two signs.
निम्नलिखित प्रश्न में से, किन्ही दो प्रतीकों का प्रतिस्थापन करके समीकरण को सही करें।

512 ÷ 512 – 128 × 3 = 500

(a) × and –/× और – (b) ÷ and ×/÷ और ×
(c) ÷ and –/÷ और – (d) × and =/× और =

MP Police Constable Exam- 20 August-2023 Shift-2

Ans. (c) : दिया है-

512 ÷ 512 – 128 × 3 = 500

विकल्प (c) से चिह्नों को बदलने पर-

(÷ और –)

512 – 512 ÷ 128 × 3 = 500
512 – 4 × 3 = 500
512 – 12 = 500
500 = 500
L.H.S = R.H.S

अतः विकल्प (c) सही है।

90. Which two signs should be interchanged to make the given equation correct?
दिए गए समीकरण को सही बनाने के लिए किन दो चिह्नों को आपस में बदला जाना चाहिए?

12 + 3 ÷ 9 × 1 – 6 = 7

(a) ÷ and +/÷ और + (b) + and –/+ और –
(c) ÷ and ×/÷ और × (d) + and ×/+ और ×

MP Police Constable Exam- 20 August-2023 Shift-2

Ans. (a) : दिया है-

12 + 3 ÷ 9 × 1 – 6 = 7

विकल्प (a) से चिह्नों को बदलने पर-

(÷ और +)

12 ÷ 3 + 9 × 1 – 6 = 7
4 + 9 × 1 – 6 = 7
4 + 9 – 6 = 7
13 – 6 = 7
7 = 7
L.H.S = R.H.S

अतः विकल्प (a) सही है।

GET IT ON Google Play Best Study PDF के लिए हमारी App को Download करें "GK Trick By Nitin Gupta"

Type-3: प्रतीकों के गणितीय चिन्हों में परिवर्तन पर आधारित अंकगणितीय संक्रियाएँ

91. Study the following information carefully and answer the question that follows.
If '>' denotes '+', '<' denotes '-', '+' denotes '÷', '@' denotes '×', '-' denotes '=', '×' denotes '>' and '=' denotes '<', Choose the correct statement in each of the following questions.
दी गयी जानकारी को ध्यानपूर्वक अध्ययन करें और पूछे गये प्रश्न का उत्तर दें-
यदि '>' का अर्थ '+', '<' का अर्थ '-', '+' का अर्थ '÷', '@' का अर्थ '×', '-' का अर्थ '=', '×' का अर्थ '>' और '=' का अर्थ '<', हो तो, नीचे दिए गये प्रश्नों में से सही कथन चुनें-

(a) 14 > 18 + 9 = 16 + 4 < 1
(b) 4 > 3 @ 8 < 1 – 6 + 2 > 24
(c) 3 < 6 @ 4 > 25 = 8 + 4 < 1
(d) 28 + 4 @ 2 = 7 @ 4 + 2

MP Police Constable Exam- 2 Sep-2023 Shift-2

Ans. (b) : दिया है-
> → +
< → –
+ → ÷
@ → ×
– → =
× → >
= → <

विकल्प (b) में प्रश्नानुसार, चिह्न परिवर्तित करने पर-
4 > 3 @ 8 < 1 – 6 + 2 > 24
⇒ 4 + 3 × 8 – 1 = 6 ÷ 2 + 24
⇒ 4 + 24 – 1 = 3 + 24
⇒ 27 = 27
अतः विकल्प (b) सही उत्तर होगा।

92. If 5 $ 125 = 25, 12 $ 48 = 4 then what is the value of 4 $ 24?
यदि 5 $ 125 = 25, 12 $ 48 = 4 तो 4 $ 24 का मान ज्ञात कीजिए।

(a) 32 (b) 35
(c) 6 (d) 4

MP Police Constable Exam- 18 August-2023 Shift-1

Ans. (c) : जिस प्रकार,
5 $ 125 = 25
$\Rightarrow \frac{125}{5} = 25$
तथा
12 $ 48 = 4
$\Rightarrow \frac{48}{12} = 4$
उसी प्रकार,
4 $ 24 = ?
$\Rightarrow \frac{24}{4} = \boxed{6}$

93. Following equations are solved on the basis of a certain system. On the same basis, find out the correct answer for the unsolved equation.
कुछ समीकरणों को किसी निश्चित पद्धति से हल किया जाता है। उसी आधार पर दिए गए समीकरण का सही उत्तर बताएं?
4 * 3 = 91; 2 * 5 = 133; then 7 * 1 = ?

(a) 400 (b) 344
(c) 461 (d) 342

MP Police Constable Exam- 12 Sep-2023 Shift-2

Ans. (b) : जिस प्रकार,
4 * 3 = 91
$= 4^3 + 3^3$
= 64 + 27
= 91

तथा
2 * 5 = 133
$= 2^3 + 5^3$
= 8 + 125
= 133

उसी प्रकार,
7 * 1
$= 7^3 + 1^3$
= 343 + 1
= 344
अतः विकल्प 'b' सही उत्तर है।

94. Select the correct combination of mathematical signs to replace * signs and to balance the equation.
प्रतीक * को प्रतिस्थापित करने तथा समीकरण को संतुलित करने हेतु गणितीय प्रतीकों के सही संयोजन का चयन करें।
21 * 3 * 12 * 9 * 93

(a) ÷ × + = (b) × ÷ + =
(c) = ÷ × + (d) = x ÷ +

MP Police Constable Exam- 9 Sep-2023 Shift-2

Ans. (a) : दिया है-
21 * 3 * 12 * 9 * 93
विकल्प (a) से चिह्नों को प्रतिस्थापित करने पर
21 ÷ 3 × 12 + 9 = 93
7 × 12 + 9 = 93
84 + 9 = 93
93 = 93 (संतुष्ट)
अतः सही उत्तर विकल्प (a) होगा।

95. If 6 ÷ 2 # 3 = 9 and 24 ÷ 6 $ 4 = 8, then what will be the value of the given expression?
यदि 6 ÷ 2 # 3 = 9 और 24 ÷ 6 $ 4 = 8 है, तो दी गई अभिव्यक्ति का मान क्या होगा?
21 # 3 $ 7 = ?

(a) 49 (b) 70
(c) 14 (d) 9

MP Police Constable Exam- 8 Sep-2023 Shift-1

Ans. (b) : दिया है,
6 ÷ 2 # 3 = 9 तथा 24 ÷ 6 $ 4 = 8
के स्थान पर (×) का चिह्न तथा $ के स्थान पर (+) का चिह्न रखने पर-
6 ÷ 2 × 3 = 9 तथा 24 ÷ 6 + 4 = 8
3 × 3 = 9 तथा 4 + 4 = 8
9 = 9 तथा 8 = 8
L.H.S. तथा R.H.S.

GET IT ON Google Play Best Study PDF के लिए हमारी App को Download करें "GK Trick By Nitin Gupta"

अब दिया गया व्यंजक,

21 # 3 $ 7 = ?

प्रश्नानुसार चिह्नों को परिवर्तित करने पर,

? = 21 × 3 + 7

? = 63 + 7

? = 70

96. If '$' means 'plus', '#' means 'minus', '@' means 'multiplied by' and '*' means 'divided by', then what is the value of 16 $ 4 @ 5 # 72 * 8 ?

यदि '$' का अर्थ '+', '#' का अर्थ '–', '@' का अर्थ 'गुणा' और '*' का अर्थ 'विभाजित' है, तो 16 $ 4 @ 5 # 72 * 8 का मान क्या है ?

(a) 29 (b) 27

(c) 25 (d) 36

MP Police Constable Exam- 4 Sep-2023 Shift-2

Ans. (b) : दिए गए समी. से–

16 $ 4 @ 5 # 72 * 8

समी. में गणितीय चिह्नों को प्रतिस्थापित करने पर–

16 + 4 × 5 – 72 ÷ 8

= 16 + 20 – 9

= 27

97. Study the following information carefully and answer the question that follow.

दी गयी जानकारी को ध्यानपूर्वक अध्ययन करें और पूछे गये प्रश्न का उत्तर दें-

If '>' denotes '+', '<' denotes '-', '+' denotes '÷', '@' denotes '×', '-' denotes '=', '×' denotes '>' and '=' denotes '<', Choose the correct statement in each of the following questions.

यदि '>' का अर्थ '+', '<' का अर्थ '-', '+' का अर्थ '÷', '@' का अर्थ '×', '-' का अर्थ '=', '×' का '>' और '=' का अर्थ '<', हो तो, नीचे दिए गये प्रश्नों में से सही कथन चुनें-

(a) 6 + 3 > 8 = 4 + 2 < 1

(b) 4 > 6 + 2 × 32 + 4 < 1

(c) 8 < 4 + 2 = 6 > 3 /र

(d) 14 + 7 > 3 = 6 + 3 > 2

MP Police Constable Exam- 1 Sep-2023 Shift-2

Ans. (c) : दिया गया है,

> → +, < → –, + → ÷, @ → ×, – → =, × → 7, = → <

विकल्प (c) से,

8 < 4 + 2 = 6 > 3

प्रश्नानुसार चिह्नों को बदलने पर

= 8 – 4 ÷ 2 < 6 + 3

= 8 – 2 < 9

= 6 < 9

98. Select correct combination of mathematical sign to replace * sign to balance the equation.

समीकरण को संतुलित करने के लिए * प्रतीक को प्रतिस्थापित करने हेतु गणितीय प्रतीकों के सही संयोजन का चयन करें।

72 * 6 * 6 * 2

(a) =, ×, ÷ (b) ×, +, =

(c) ÷, =, × (d) +, =, –

MP Police Constable Exam- 18 August-2023 Shift-3

Ans. (c) : 72 * 6 * 6 * 2

विकल्प (c) के अनुसार चिह्नों को परिवर्तित करने पर,

72 ÷ 6 = 6 × 2

12 = 12

L.H.S = R.H.S

Type-4: अंको/संख्याओं तथा गणितीय चिन्हों के परस्पर परिवर्तन पर आधारित अंकगणितीय संक्रियाएँ

99. Which two numbers should be interchanged to make the given equation correct?

दिए गए समीकरण को सही बनाने के लिए किन दो संख्याओं को आपस में बदला जाना चाहिए?

25 + 4 × 2 – 52 ÷ 13 = 51

(a) 4 and 25 /4 और 25

(b) 13 and 2 /13 और 2

(c) 25 and 13 /25 और 13

(d) 4 and 13 /4 और 13

MP Police Constable Exam- 2 Sep-2023 Shift-2

Ans. (b) : दिया गया समीकरण–

25 + 4 × 2 – 52 ÷ 13 = 51

विकल्प (b) से संख्याऐं बदलने पर–

⇒ 25 + 4 × 13 – 52 ÷ 2 = 51

⇒ 25 + 52 – 26 = 51

⇒ 77 – 26 = 51

51 = 51

∴ सही उत्तर विकल्प (b) होगा।

100. Which two numbers should be interchanged to make the given equation correct ?

दिए गए समीकरण को सही बनाने के लिए किन दो संख्याओं को आपस में बदला जाना चाहिए ?

4 + 6 × 5 – 12 ÷ 2 = 40

(a) 4 and 12/4 और 12

(b) 6 and 12/6 और 12

(c) 2 and 6/2 और 6

(d) 6 and 5/6 और 5

MP Police Constable Exam- 31 August-2023 Shift-2

Ans. (a) : 4 + 6 × 5 – 12 ÷ 2 = 40

दिए गए समीकरण में विकल्प (a) से दो संख्या (4, 12) को आपस में बदलने पर,

12 + 6 × 5 – 4 ÷ 2 = 40

12 + 30 – 2 = 40

40 = 40

101. Which two numbers should be interchanged to make the given equation correct?

दिए गए समीकरण को सही बनाने के लिए किन दो संख्याओं को आपस में बदला जाना चाहिए?

9 – 3 × 4 + 15 ÷ 6 = –10

(a) 4 and 15/4 और 15

(b) 9 and 6/9 और 6

(c) 3 and 6/3 और 6

(d) 3 and 15/3 और 15

MP Police Constable Exam- 6 Sep-2023 Shift-2

GET IT ON Google Play Best Study PDF के लिए हमारी App को Download करें "GK Trick By Nitin Gupta"

Ans. (c) : दिया गया समीकरण निम्नवत् है-
$9 - 3 \times 4 + 15 \div 6 = -10$
विकल्प (c) से चिह्नों को परस्पर बदलने पर-
$9 - 3 \times 4 + 15 \div 6 = -10$
$9 - 24 + 5 = -10$
$14 - 24 = -10$
$-10 = -10$
LHS = RHS

102. How many different six letter words can be formed using the letters of the word 'LEADER' if repetition is not allowed?
यदि पुनरावृत्ति अनुमित नहीं है, तब 'LEADER' शब्द के अक्षरों का प्रयोग करके छह अक्षर के कितने विभिन्न शब्द बनाये जा सकते है?
(a) 360 (b) 480
(c) 720 (d) 600

MP Police Constable Exam 25 July 2016 - 9:am

Ans : (a) शब्द के बिना पुनरावृत्ति करके बनाये जाने वाले शब्दों की संख्या = $\frac{6!}{2!} = \frac{6\times5\times4\times3\times2\times1}{2\times1}$
$= 360$

103. If two is subtracted from each odd digit and if two is added to each even digit in the number '9275436', what will be the difference between the digits which are third from the right and second from the left of the new number thus formed?
यदि संख्या '9275436' में प्रत्येक विषम अंक में से दो घटा दिया जाता है और प्रत्येक सम अंक में दो जोड़ दिया जाता हैं, तो इस प्रकार बनी नई संख्या के दायें से तीसरे और बायें से दूसरे अंक के बीच का अंतर क्या होगा?
(a) 6 (b) 8
(c) 2 (d) 1

MP Police Constable Exam- 12 Sep-2023 Shift-1

Ans. (c) : प्रश्नानुसार,
संख्या = 9275436
प्रत्येक विषम अंक से दो घटाया तथा प्रत्येक सम अंक में दो जोड़ने पर प्राप्त नई संख्या = 7 4 5 3 6 1 8
अतः अभीष्ट अन्तर = 6 – 4 = 2

104. Which two numbers should be interchanged to make the given equation correct ?
दिए गए समीकरण को सही बनाने के लिए किन दो संख्याओं को आपस में बदला जाना चाहिए ?
$4 \times 6 - 8 \div 4 + 3 = 16$
(a) 4 and 8/4 और 8 (b) 8 and 3/8 और 3
(c) 6 and 3/6 और 3 (d) 6 and 4/6 और 4

MP Police Constable Exam- 31 August-2023 Shift-3

Ans. (c) : दिया है,
समी. $4 \times 6 - 8 \div 4 + 3 = 16$
विकल्प (c) से 6 और 3 को आपस में बदलने पर–
$4 \times 3 - 8 \div 4 + 6 = 16$
$12 - 2 + 6 = 16$
$10 + 6 = 16$
$16 = 16$
L.H.S = R.H.S

105. Which two numbers should be interchanged to make the given equation correct ?
दिए गए समीकरण को सही बनाने के लिए किन दो संख्याओं को आपस में बदला जाना चाहिए ?
$12 \div 6 + 9 \times 1 - 4 = 6$
(a) 9 and 1/9 और 1
(b) 12 and 4/12 और 4
(c) 6 and 4/6 और 4
(d) 12 and 9/12 और 9

MP Police Constable Exam- 29 August-2023 Shift-2

Ans. (c) : समीकरण–
$12 \div 6 + 9 \times 1 - 4 = 6$
विकल्प (c) अनुसार–
$12 \div 4 + 9 \times 1 - 6 = 6$
$\frac{12}{4} + 9 - 6 = 6$
$3 + 9 - 6 = 6$
$6 = 6$
L.H.S = R.H.S

106. Which two digits should be interchanged to mark the given equation correct ?
कौन-से दो अंकों को आपस में एक दूसरे से बदल दिया जाए जिससे दिया गया समीकरण सही सिद्ध हो।
$73 \div 13 \times 25 + 13 - 5 = 127$
(a) 7 and 3/7 और 3
(b) 7 and 15/7 और 5
(c) 3 and 15/3 और 5
(d) 1 and 3/1 और 3

MP Police Constable Exam- 27 August-2023 Shift-1

Ans. (c) : दिया गया समीकरण निम्नवत् है–
$73 \div 3 \times 25 + 13 - 15 = 127$
विकल्प (c) से 3 और 15 को बदलने पर–
$75 \div 15 \times 23 + 15 - 3 = 127$
$5 \times 23 + 15 - 3 = 127$
$115 + 15 - 3 = 127$
$130 - 3 = 127$
$127 = 127$
L.H.S = R.H.S

107. Which two numbers should be interchanged to make the given equation correct ?
दिए गए समीकरण को सही बनाने के लिए किन दो संख्याओं को आपस में बदला जाना चाहिए ?
$10 \times 15 \div 6 - 13 + 7 = 3$
(a) 15 and 7/15 और 7
(b) 6 and 13/6 और 13
(c) 10 and 6/10 और 6
(d) 13 and 15/13 और 15

MP Police Constable Exam- 5 Sep -2023 Shift-1

Ans. (c) : $10 \times 15 \div 6 - 13 + 7 = 3$
विकल्प (c) से,
$6 \times 15 \div 10 - 13 + 7 = 3$
$9 - 6 = 3$
$3 = 3$
LHS = RHS

GET IT ON Google Play Best Study PDF के लिए हमारी App को Download करें "GK Trick By Nitin Gupta"

108. Which two numbers should be interchanged to make the given equation correct ?
दिए गए समीकरण को सही बनाने के लिए किन दो संख्याओं को आपस में बदला जाना चाहिए ?

$33 \div 11 + 44 - 1 \times 22 = 13$

(a) 11 and 44/11 और 44
(b) 22 and 11/22 और 11
(c) 22 and 33/22 और 33
(d) 1 and 11/1 और 11

MP Police Constable Exam- 5 Sep-2023 Shift-2

Ans. (c) : दिया गया समी.

$33 \div 11 + 44 - 1 \times 22 = 13$

प्रश्नानुसार,

विकल्प (c) के अनुसार संख्या को बदलने पर-

$22 \div 11 + 44 - 1 \times 33 = 13$
$2 + 44 - 33 = 13$
$46 - 33 = 13$
$13 = 13$
L.H.S = R.H.S

109. Which two signs and numbers should be interchanged in the following equation to make it correct?
निम्नलिखित समीकरण को सही करने के लिए किन दो चिह्नों या संख्याओं को आपस में बदला जाना चाहिए?

$6 - 2 + 25 \times 9 \div 3 = 25$

(a) ÷ and ×, 25 and 3/÷ और ×, 25 और 3
(b) – and ×, 9 and 6/– और ×, 9 और 6
(c) ÷ and +, 6 and 25/÷ और +, 6 और 25
(d) – and +, 3 and 2/– और +, 3 और 2

MP Police Constable Exam- 10 Sep-2023 Shift-1

Ans. (c) : दिया है,

$6 - 2 + 25 \times 9 \div 3 = 25$

विकल्प (c) से

÷ और +, 6 और 25 को बदलने पर

$25 - 2 \div 6 \times 9 + 3 = 25$
$25 - 3 + 3 = 25$
$25 = 25$

अतः, विकल्प (c) सही है।

110. Which two signs and numbers should be interchanged in the following equation to make it correct?
निम्नलिखित समीकरण को सही करने के लिए किन दो चिह्नों या संख्याओं को आपस में बदला जाना चाहिए?

$9 - 2 \times 6 \div 3 + 18 = 26$

(a) + and –, 6 and 9/+ और –, 6 और 9
(b) ÷ and ×, 3 and 9/ ÷ और ×, 3 और 9
(c) + and ×, 6 and 18/+ और ×, 6 और 18
(d) ÷ and ×, 9 and 18/÷ और ×, 9 और 18

MP Police Constable Exam- 9 Sep-2023 Shift-2

Ans. (d) : दिया गया समीकरण-

$9 - 2 \times 6 \div 3 + 18 = 26$

विकल्प (d) से चिह्नों और संख्याओं को आपस में बदलने पर-

$18 - 2 \div 6 \times 3 + 9 = 26$
$18 - \frac{2}{6} \times 3 + 9 = 26$
$18 - 1 + 9 = 26$
$26 = 26$

अतः सही उत्तर विकल्प (d) होगा।

111. Which two signs and numbers should be interchanged in the following equation to make it correct?
निम्नलिखित समीकरण को सही करने के लिए किन दो चिह्नों या संख्याओं को आपस में बदला जाना चाहिए?

$8 + 6 \div 3 \times 12 - 2 = 12$

(a) – and ×, 6 and 12/– और ×, 6 और 12
(b) ÷ and ×, 6 and 12/÷ और ×, 6 और 12
(c) ÷ and +, 8 and 3/÷ और +, 8 और 3
(d) – and +, 3 and 2/– और +, 3 और 2

MP Police Constable Exam- 16 August-2023 Shift-3

Ans. (b) : $8 + 6 \div 3 \times 12 - 2 = 12$

चिह्नों तथा अंकों को परिवर्तित करने पर,

$8 + 12 \times 3 \div 6 - 2 = 12$
$8 + 6 - 2 = 12$
$(14 - 2) = 12$
$12 = 12$
LHS = RHS

112. Select the interchanges in numbers and signs that will make the given equation correct.
संख्याओं और प्रतीकों के आपस के परस्पर परिवर्तन का चयन करें जो दिए गए समीकरण को सही बनाएगा।

$5 \div 10 \times 12 + 14 - 7 = 88$

(a) 5 and 7, + and –/5 और 7, + और –
(b) 10 and 5, – and ×/10 और 5, – और ×
(c) 5 and 12, + and –/5 और 12, + और –
(d) 14 and 7, × and ÷/14 और 7, × और ÷

MP Police Constable Exam- 6 Sep-2023 Shift-3

Ans. (b) : दिया है-

$5 \div 10 \times 12 + 14 - 7 = 88$

विकल्प (b) से प्रतीकों तथा संख्याओं को परिवर्तित करने पर-

$10 \div 5 - 12 + 14 \times 7 = 88$
$2 - 12 + 98 = 88$
$100 - 12 = 88$
$88 = 88$
LHS = RHS

113. Which two numbers should be interchanged to make the given equation correct?
दिए गए समीकरण को सही बनाने के लिए किन दो संख्याओं को आपस में बदला जाना चाहिए?

$5 \times 15 \div 125 + 30 - 25 = 16$

(a) 25 and 30/25 और 30
(b) 125 and 5/125 और 5
(c) 5 and 30/5 और 30
(d) 15 and 25/15 और 25

MP Police Constable Exam- 6 Sep-2023 Shift-3

GET IT ON Google Play Best Study PDF के लिए हमारी App को Download करें "GK Trick By Nitin Gupta"

Ans. (d) : दिया गया समीकरण निम्नवत् है-
$5 \times 15 \div 125 + 30 - 25 = 16$
विकल्प (d) के अनुसार संख्याओं को बदलने पर-
$5 \times 25 \div 125 + 30 - 15 = 16$
$1 + 30 - 15 = 16$
$31 - 15 = 16$
$16 = 16$
LHS = RHS

114. Which two signs and numbers should be interchanged in the following equation to make it correct?
निम्नलिखित समीकरण को सही करने के लिए किन दो चिह्नों या संख्याओं को आपस में बदला जाना चाहिए?
$9 + 8 \times 6 \div 12 - 1 = 24$
(a) + and ×, 1 and 12 /+ और ×, 1 और 12
(b) + and –, 8 and 1 /+ और –, 8 और 1
(c) ÷ and ×, 8 and 12 /÷ और ×, 8 और 12
(d) ÷ and –, 9 and 1 /÷ और –, 9 और 1

MP Police Constable Exam- 17 August-2023 Shift-2

Ans. (c) : दिया है-
$9 + 8 \times 6 \div 12 - 1 = 24$
विकल्प (c) से- चिह्नों और अंको को बदलने पर-
$9 + 12 \div 6 \times 8 - 1 = 24$
$9 + 2 \times 8 - 1 = 24$
$9 + 16 - 1 = 24$
$25 - 1 = 24$
$24 = 24$

115. Which two numbers should be interchanged to make the given equation correct ?
दिए गए समीकरण को सही बनाने के लिए किन दो संख्याओं को आपस में बदला जाना चाहिए ?
$9 \div 6 \times 4 - 27 + 13 = 22$
(a) 6 and 13/6 और 13
(b) 27 and 9/27 और 9
(c) 9 and 6/9 और 6
(d) 6 and 4/6 और 4

MP Police Constable Exam- 4 Sep-2023 Shift-3

Ans. (b) : दिया गया समी. निम्नवत् है–
$9 \div 6 \times 4 - 27 + 13 = 22$
विकल्प (b) के अनुसार 27 और 9 को प्रतिस्थापित करने पर,
$27 \div 6 \times 4 - 9 + 13 = 22$
$\Rightarrow \frac{27}{6} \times 4 - 9 + 13 = 22$
$\Rightarrow 18 - 9 + 13 = 22$
$\Rightarrow 22 = 22$
$\therefore$ L.H.S = R.H.S
अतः विकल्प (b) सही उत्तर है।

116. Which two numbers should be interchanged to make the given equation correct ?
दिए गए समीकरण को सही बनाने के लिए किन दो संख्याओं को आपस में बदला जाना चाहिए ?
$6 + 3 \div 1 - 2 \times 4 = -4$
(a) 6 and 4/6 और 4 (b) 3 and 2/3 और 2
(c) 6 and 3/6 और 3 (d) 1 and 4/1 और 4

MP Police Constable Exam- 28 August-2023 Shift-3

Ans. (b) : विकल्प (b) से–
समी.– $6 + 3 \div 1 - 2 \times 4 = -4$
चिह्नों का परिवर्तित करने पर,
$6 + 2 \div 1 - 3 \times 4 = -4$
$8 - 12 = -4$
$-4 = -4$
L.H.S = R.H.S

117. Which two numbers should be interchanged to make the given equation correct ?
दिए गए समीकरण को सही बनाने के लिए किन दो संख्याओं को आपस में बदला जाना चाहिए ?
$22 + 18 \times 3 - 12 \div 2 = 49$
(a) 18 and 3/18 और 3
(b) 18 and 12/18 और 12
(c) 22 and 3/22 और 3
(d) 2 and 3/2 और 3

MP Police Constable Exam- 4 Sep-2023 Shift-2

Ans. (b) : दिए गए समी. से–
$22 + 18 \times 3 - 12 \div 2 = 49$
विकल्प (b) से, संख्याओं को आपस में बदलने पर–
$22 + 12 \times 3 - 18 \div 2 = 49$
$22 + 36 - 9 = 49$
$\boxed{49 = 49}$
L.H.S. = R.H.S.

118. The interchange of which of the given numbers/signs in the alternatives will make the given equation meaningful?
विकल्पों में दी गई किन संख्याओं/प्रतीकों में से आपस में बदलने से दिए गए समीकरण को अर्थपूर्ण बनाया जाएगा?
$(20 + 3) \times 6 + 8 - 32 = 76$
(a) 8 and 6/8 और 6
(b) + and –/+ और –
(c) 3 and 8 / 3 और 8
(d) × and +/× और +

MP Police Constable Exam- 11 Sep-2023 Shift-2

Ans. (d) : दिया गया समी.-
$(20 + 3) \times 6 + 8 - 32 = 76$
विकल्प (d) के अनुसार चिह्नों को बदलने पर
$(20 \times 3) + 6 \times 8 - 32 = 76$
$60 + 48 - 32 = 76$
$60 + 16 = 76$
$76 = 76$
L.H.S = R.H.S

119. Which two signs and numbers should be interchanged in the following equation to make it correct?
निम्नलिखित समीकरण को सही करने के लिए किन दो चिह्नों या संख्याओं को आपस में बदला जाना चाहिए?
$3 \div 26 + 13 \times 4 - 32 = 37$
(a) ÷ and ×, 4 and 13/÷ और ×, 4 और 13
(b) ÷ and +, 3 and 32/÷ और +, 3 और 32
(c) – and ×, 26 and 4/– और ×, 26 और 4
(d) + and –, 4 and 3/+ और –, 4 और 3

MP Police Constable Exam- 11 Sep-2023 Shift-2

GET IT ON Google Play Best Study PDF के लिए हमारी App को Download करें "GK Trick By Nitin Gupta"

Ans. (b) : दिया गया समी.

$3 \div 26 + 13 \times 4 - 32 = 37$

विकल्प (b) के अनुसार संख्याओं एवं चिह्नों को बदलने पर-

$32 + 26 \div 13 \times 4 - 3 = 37$

$32 + 8 - 3 = 37$

$37 = 37$

L.H.S = R.H.S

120. Which two numbers should be interchanged to make the given equation correct ?
दिए गए समीकरण को सही बनाने के लिए किन दो संख्याओं को आपस में बदला जाना चाहिए ?

$3 + 6 \times 9 - 27 \div 3 = 18$

(a) 9 and 3 /9 और 3
(b) 27 and 3 /27 और 3
(c) 6 and 9 /6 और 9
(d) 9 and 27 /9 और 27

MP Police Constable Exam- 29 August-2023 Shift-1

Ans. (a) : समीकरण

$3 + 6 \times 9 - 27 \div 3 = 18$

विकल्प (a) से,

$3 + 6 \times 9 - 27 \div 3 = 18$

$9 + 6 \times 3 - 27 \div 3 = 18$

$9 + 18 - 9 = 18$

$\boxed{18 = 18}$

121. Which two numbers should be interchanged to make the given equation correct ?
दिए गए समीकरण को सही बनाने के लिए किन दो संख्याओं को आपस में बदला जाना चाहिए ?

$18 - 12 \div 3 + 9 \times 2 = 39$

(a) 12 and 3/12 और 3
(b) 3 and 18/3 और 18
(c) 18 and 2/18 और 2
(d) 12 and 9/12 और 9

MP Police Constable Exam- 3 Sep-2023 Shift-2

Ans. (d) : प्रश्नानुसार,

$18 - 12 \div 3 + 9 \times 2 = 39$

विकल्प (d) से 12 और 9 को बदलने पर–

$18 - 9 \div 3 + 12 \times 2 = 39$

$18 - 3 + 12 \times 2 = 39$

$18 - 3 + 24 = 39$

$15 + 24 = 39$

$\boxed{39 = 39}$

122. Which two numbers should be interchanged to make the given equation correct?
Which two numbers should be interchanged to make the given equation correct?
दिए गए समीकरण को सही बनाने के लिए किन दो संख्याओं को आपस में बदला जाना चाहिए?

$2 \times 3 + 8 - 12 \div 6 = 20$

(a) 2 and 8/ 2 और 8
(b) 12 and 3/12 और 3
(c) 8 and 3/8 और 3
(d) 2 and 6 /2 और 6

MP Police Constable Exam- 1 Sep-2023 Shift-1

Ans. (d) : दिया गया समीकरण–

$2 \times 3 + 8 - 12 \div 6 = 20$

विकल्प (d) से, संख्याओं को परस्पर बदलने पर–

$6 \times 3 + 8 - 12 \div 2 = 20$

$18 + 8 - 6 = 20$

$26 - 6 = 20$

$\boxed{20 = 20}$

L.H.S. + R.H.S.

123. A number is greater than 3 but less than 8. Also it is greater than 6 but less than 10. The number is/एक संख्या 3 से अधिक है, लेकिन 8 से कम है। इसके अलावा यह 6 से अधिक है, लेकिन 10 से कम है। यह संख्या है-

(a) 5 (b) 6
(c) 7 (d) 8

MP Police Constable Exam- 20 July-2016 - 9: am

Ans : (c) 4, 5, 6, 7 .....(i)

6, 7, 8, 9 .....(ii)

समी. (i) और (ii) से पता चलता है। संख्या 7 दोनों में मौजूद है अतः अभीष्ट संख्या 7 है।

Type-5: गणितीय चिन्हों की विलुप्तता पर आधारित अंकगणितीय संक्रियाएँ

124. In the following question, by using which mathematical operators will the expression become correct?
निम्नलिखित प्रश्न में, कौन-से गणितीय संकारकों का प्रयोग करने से व्यंजक सही हो जाएगा ?

224 ? 8 ? 7 ? 9 ? 10

(a) ÷, +, = and ×/÷, +, = और ×
(b) ×, ÷, = and ×/×, ÷, = और ×
(c) ÷, ×, > and ×/÷, ×, > और ×
(d) ÷, ×, < and +/÷, ×, < और +

MP Police Constable Exam- 29 August-2023 Shift-2

Ans. (c) : 224 ? 8 ? 7 ? 9 ? 10

विकल्प (c) का प्रयोग करने पर–

$224 \div 8 \times 7 > 9 \times 10$

$28 \times 7 > 90$

$196 > 90$

अतः विकल्प (c) सही है।

125. Choose the correct option in order to balance the following equation./निम्नलिखित समीकरण को संतुलित करने के लिए सही विकल्प चुनें।

21_3_47_3_107

(a) – ÷ × = (b) × + – =
(c) + – × = (d) = + – ÷

MP Police Constable Exam- 25 August-2023 Shift-3

Ans. (b) : दिया गया समीकरण निम्नवत है–

21_3_47_3_107

विकल्प (b) से चिह्नों को समी. में रखने पर–

$21 \times 3 + 47 - 3 = 107$

$63 + 47 - 3 = 107$

$110 - 3 = 107$

$107 = 107$

L.H.S = R.H.S

GET IT ON Google Play Best Study PDF के लिए हमारी App को Download करें "GK Trick By Nitin Gupta"

भाग-9.

वेन आरेख (Venn Diagram)

1. Which of the following diagram indicates the best relation between Leaf, Root and Tree ?
निम्नलिखित में से कौन-सा आरेख पत्ती, जड़ और पेड़ के बीच सबसे अच्छे संबंध को दर्शाता है ?

(a)
(b) 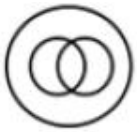
(c)
(d)

MP Police Constable Exam- 31 August-2023 Shift-3

Ans. (a) : प्रश्नानुसार, वेन आरेख निम्नवत् है–



अतः विकल्प (a) में दिया गया वेन आरेख दिए गए वर्गों के बीच के संबंध को सर्वोत्तम ढंग से दर्शाता करता है।

2. Identify the classes that best represents the relationship among the given diagram.
उन श्रेणियों की पहचान करें जो दिए गए आरेख के बीच संबंध का सबसे अच्छा प्रतिनिधित्व करते हैं।

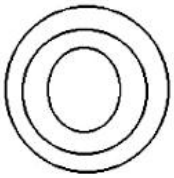

(a) Harappa Civilization, Mohenjo-Daro, Citadel/हड़प्पा सभ्यता, मोहनजो-दारो, नगरकोट
(b) Pigeons, Birds, Dogs/कबूतर, पक्षी, कुत्ते
(c) Horse, Human beings, Fathers/घोड़ा, मनुष्य, पिता
(d) Harappa civilization, Kalibangam, Mohenjo-Daro/हड़प्पा सभ्यता, कालीबंगम, मोहनजो-दारो

MP Police Constable Exam- 10 Sep-2023 Shift-2

Ans. (a) : समूहों के बीच संबंध इस प्रकार है–

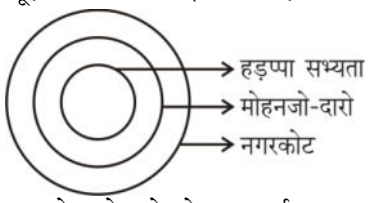

हड़प्पा सभ्यता, मोहनजो-दारो के अन्तगर्त तथा मोहनजो-दारो, नगरकोट के अंतरगर्त आता है।

3. Identify the classes that best represents the relationship among the given diagram.
उन वर्गों की पहचान करें जो दिए गए आरेख के बीच संबंध का सबसे अच्छा प्रतिनिधित्व करते हैं।

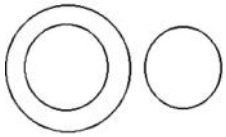

(a) Mammals, Engineer, Human/स्तनधारी, इंजीनियर, मानव
(b) Outdoor games, Ludo, Cricket/आउटडोर खेल, लूडो, क्रिकेट
(c) Red, Fruits, vegetables/लाल, फल, सब्जियां
(d) Reptiles, Lizard, Snakes/सरीसृप, छिपकली, सांप

MP Police Constable Exam- 31 August-2023 Shift-3

Ans. (b) : समूहो के बीच संबंध निम्नवत् है–

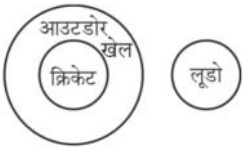

अतः क्रिकेट, आउटडोर खेल के अन्तर्गत आता है तथा लूडो इनडोर खेल जो दोनों से अलग है।

4. Identify the class that best represents the Venn-diagram./उस वर्ग की पहचान करें जो वेन-आरेख का सबसे अच्छा प्रतिनिधित्व करता है।



(a) Sportsperson, Footballer, Goalkeeper/खिलाड़ी, फुटबॉलर, गोलकीपर
(b) College, University, Students/कॉलेज, विश्वविद्यालय, छात्र
(c) Professionals, Students, IPS/पेशेवर, छात्र, आईपीएस
(d) Mountains, Plateaus, Plains/पर्वत, पठार, मैदान

MP Police Constable Exam- 24 August-2023 Shift-2

Ans. (a) : समूहों के बीच संबंध इस प्रकार है–

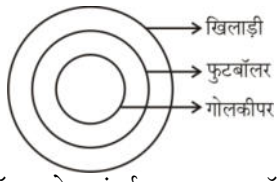

गोलकीपर, फुटबॉलर के अंतर्गत तथा फुटबॉलर, खिलाड़ी के अंतर्गत आता है।

GET IT ON Google Play Best Study PDF के लिए हमारी App को Download करें "GK Trick By Nitin Gupta"

5. Which of the following diagram indicates best relation between Delhi, India and Bangladesh?
निम्नलिखित में से कौन सा आरेख दिल्ली, भारत ओर बांग्लादेश के बीच सबसे अच्छे को दर्शाता है?

(a)

(b) 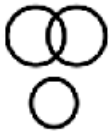

(c)

(d)

MP Police Constable Exam- 2 Sep-2023 Shift-2

Ans. (d) : दिया गया संबंध आरेख निम्नवत् है।

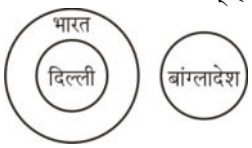

6. Identify the classes that best represents the relationship among the given diagram.
उन श्रेणियों की पहचान करें जो दिए गए आरेख के बीच संबंध का सबसे अच्छा प्रतिनिधित्व करते हैं।

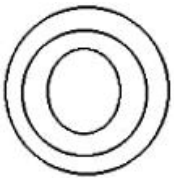

(a) Soil, rocks, sedimentary soil/मिट्टी, चट्टानें, तलछटी मिट्टी
(b) Karnataka, Bijapur, Gol-Gumbaz/कर्नाटक, बीजापुर, गोल-गुंबज़
(c) Mobile, cover, Android/मोबाइल, कवर, एंड्रॉइड
(d) Professor, doctor, lawyer/प्रोफेसर, डॉक्टर, वकील

MP Police Constable Exam- 29 August-2023 Shift-2

Ans. (b) : प्रश्नानुसार, आरेख निम्नवत् है-

कर्नाटक, बीजापुर, गोल-गुंबज़ दिये गये आरेख के बीच सबसे अच्छा संबंध प्रदर्शित करता है।

7. Identify the classes that best represents the relationship among the given diagram.
उन श्रेणियों की पहचान करें जो दिए गए आरेख के बीच संबंध का सबसे अच्छा प्रतिनिधित्व करते हैं।

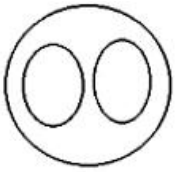

(a) Court, Criminals, Thieves/कोर्ट, अपराधी, चोर
(b) Continents, Ocean, sun/महाद्वीप, महासागर, सूर्य
(c) Earth, Hydrosphere, Lithosphere/पृथ्वी, जलमंडल, स्थलमंडल
(d) Tennis player, Cricket Players, Students/टेनिस खिलाड़ी, क्रिकेट खिलाड़ी, छात्र

MP Police Constable Exam- 29 August-2023 Shift-2

Ans. (c) : प्रश्नानुसार आरेख–

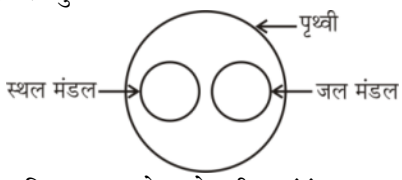

विकल्प 'c' दिए गए आरेख के बीच संबंध का सबसे अच्छा प्रतिनिधित्व करता है।

8. Identify the classes that best represents the relationship among the given diagram.
उन वर्गों की पहचान करें जो दिए गए आरेख के बीच संबंध का सबसे अच्छा प्रतिनिधित्व करते हैं।

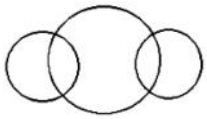

(a) Copper, Wire, Aluminum/तांबा, तार, एल्यूमीनियम
(b) Units, Watt, Volt/यूनिट, वाट, वोल्ट
(c) Criminals, Thieves, Judges/अपराधी, चोर, न्यायाधीश
(d) Satellite, Earth, Universe/उपग्रह, पृथ्वी, ब्रह्मांड

MP Police Constable Exam- 29 August-2023 Shift-2

Ans. (a) : प्रश्नानुसार आरेख–

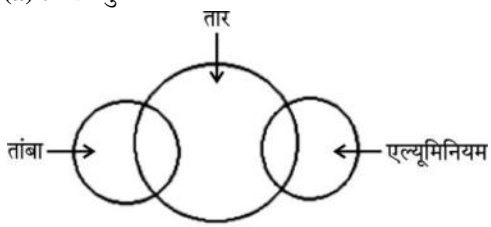

विकल्प (a) आरेख के बीच संबंध का सबसे अच्छा प्रतिनिधित्व करता है।

9. Identify the classes that best represents the relationship among the given diagram.
उन श्रेणियों की पहचान करें जो दिए गए आरेख के बीच संबंध का सबसे अच्छा प्रतिनिधित्व करते हैं।

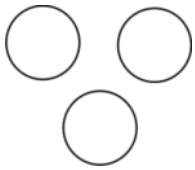

(a) Hospital, Court, Police station /अस्पताल, कोर्ट, पुलिस स्टेशन
(b) Liquid, Pizza, Milk /तरल, पिज्जा, दूध
(c) Computer Skilled, computer illiterate, Employees /कम्प्यूटर कुशल, कंप्यूटर अनपढ़, कर्मचारी
(d) Females, Doctors, Patients /महिलाएं, डॉक्टर, मरीज

MP Police Constable Exam- 2 Sep-2023 Shift-2

GET IT ON Google Play Best Study PDF के लिए हमारी App को Download करें "GK Trick By Nitin Gupta"

Ans. (a) : दिया गया संबंध आरेख निम्नवत् है।

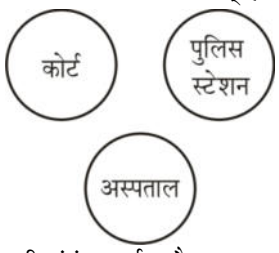

अतः विकल्प (a) सही संबंध दर्शाता है।

10. Identify the diagram that best represents the relationship among the given classes.
Biology, Botany, Zoology
उस आरेख की पहचान करें जो दिए गए श्रेणियों के बीच संबंध का सबसे अच्छा प्रतिनिधित्व करता है।
जीवविज्ञान, वनस्पति विज्ञान, प्राणि विज्ञान

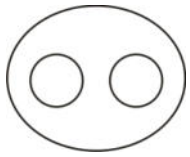
(a)

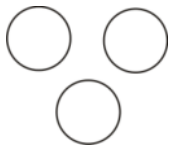
(b)

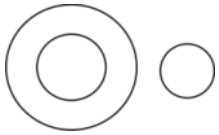
(c)

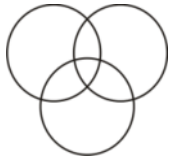
(d)

MP Police Constable Exam- 2 Sep-2023 Shift-2

Ans. (a) : दिया गया संबंध आरेख निम्नवत् है-



अतः विकल्प (a) सही संबंध दर्शाता है।

11. Which of the following diagram indicates best relation between Singer, Dancer, Actor ?
निम्नलिखित में से कौन-सा आरेख गायक, नर्तक, अभिनेता के बीच सबसे अच्छे संबंध को दर्शाता है ?


(a)

(b)

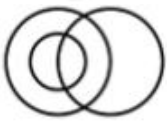
(c)

(d)

MP Police Constable Exam- 5 Sep -2023 Shift-1

Ans. (d) : प्रश्नानुसार वेन आरेख का सबसे अच्छा संबंध इस प्रकार है–

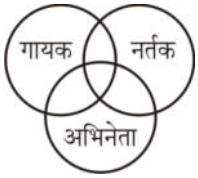

12. Identify the class that best represents the Venn-diagram.
उस वर्ग की पहचान करें जो वेन-आरेख का सबसे अच्छा प्रतिनिधित्व करता है।

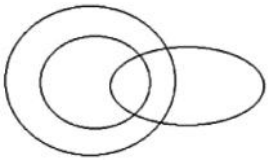

(a) Moon, Earth, Sun/चंद्रमा, पृथ्वी, सूर्य
(b) Plants, Humans, Respiration/पौधे, मनुष्य, श्वसन
(c) Universe, Stars, Sun/ब्रह्मांड, सितारे, सूर्य
(d) Superhero, Superpower, Men/सुपरहीरो, सुपरपावर, पुरुष

MP Police Constable Exam- 25 August-2023 Shift-3

Ans. (d) : विकल्प (d) वेन आरेख का सबसे अच्छा प्रतिनिधित्व करता है।

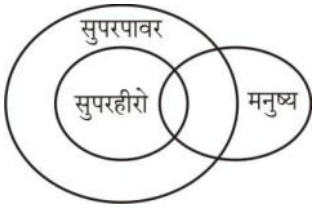

13. Identify the classes that best represents the relationship among the given diagram.
उन वर्गों की पहचान करें जो दिए गए आरेख के बीच संबंध का सबसे अच्छा प्रतिनिधित्व करते हैं।

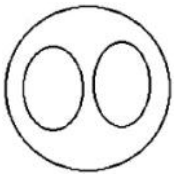

(a) Fish, snake, Birds/मछली, सांप, पक्षी
(b) Copper, paper, wire/तांबा, कागज, तार
(c) Biodegradable substances, wood, paper/ बायोडिग्रेडबल पदार्थ, लकड़ी, कागज
(d) Mother, female, Police officer/मां, महिला, पुलिस अधिकारी

MP Police Constable Exam- 28 August-2023 Shift-2

Ans. (c) : दिए गए आरेख के बीच सम्बन्ध का सबसे अच्छा निरुपण निम्नवत् है–

14. Identify the diagram that best illustrates the relationship between Hospital, Doctor and Nurse ?
उस आरेख की पहचान करें जो अस्पताल, डॉक्टर और नर्स के बीच के संबंध को सबसे अच्छी तरह से दर्शाता है?

GET IT ON Google Play Best Study PDF के लिए हमारी App को Download करें "GK Trick By Nitin Gupta"

(a) (b)

(c)  (d)

MP Police Constable Exam- 28 August-2023 Shift-2

Ans. (b) : अस्पताल, डॉक्टर और नर्स के बीच सम्बन्ध आरेख निम्नवत् है–

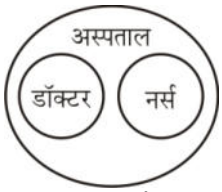

अतः विकल्प (b) दिए गए सम्बन्धों को अच्छी तरह से दर्शाता है।

15. Identify the class that best represents the Venn-diagram.
उस वर्ग की पहचान करें जो वेन-आरेख का सबसे अच्छा प्रतिनिधित्व करता है।

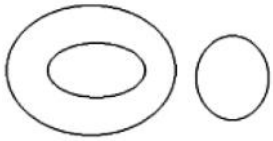

(a) Teacher, Student, Post-Graduate/शिक्षक, छात्र, स्नातकोत्तर
(b) Currency, Pesos, market/मुद्रा, पेसो, बाजार
(c) Ladies, pregnant Ladies, reporters/महिलाएं, गर्भवती महिलाएं, पत्रकार
(d) Judges, Men, culprit/न्यायाधीश, पुरुष, अपराधी

MP Police Constable Exam- 8 Sep-2023 Shift-2

Ans. (b) : प्रश्नानुसार,
वेन आरेख संबंध निम्नवत है।

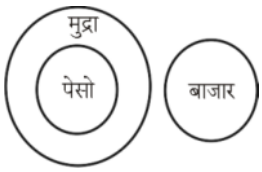

16. Identify the diagram that best represents the relationship among the given classes.
उस आरेख की पहचान करें जो दिए गए श्रेणियों के बीच संबंध का सबसे अच्छा प्रतिनिधित्व करता है।
Non-biodegradable substances, plastic, paper
गैर-बायोडिग्रेडेबल पदार्थ, प्लास्टिक, कागज

(a) 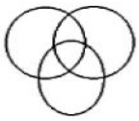 (b) 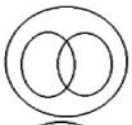

(c) 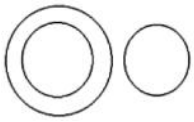 (d)

MP Police Constable Exam- 8 Sep-2023 Shift-2

Ans. (c) : दिये गये शब्दों के मध्य वेन आरेख निम्नवत है।

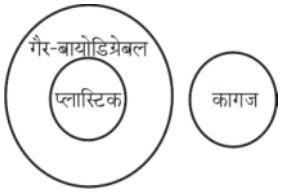

17. Which of the following diagram indicates best relation between Bedroom, Kitchen and House?
निम्नलिखित में से कौन-सा आरेख शयनकक्ष, रसोई और घर के बीच सबसे अच्छा संबंध दर्शाता है?

(a) 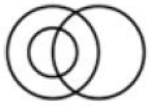 (b)

(c) (d) 

MP Police Constable Exam- 8 Sep-2023 Shift-2

Ans. (b) : प्रश्नानुसार,
शयनकक्ष, रसोई और घर के मध्य वेन आरेख निम्नवत है।

18. Identify the class that best represents the Venn-diagram.
उस वर्ग की पहचान करें जो वेन-आरेख का सबसे अच्छा प्रतिनिधित्व करता है।

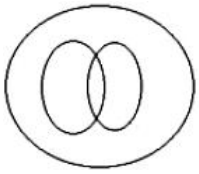

(a) Villagers, Poor persons, Males/ग्रामीण, गरीब व्यक्ति, पुरुष
(b) Players, Singers, Students/खिलाड़ी, गायक, छात्र
(c) Tortoise, Mammals, Amphibians/कछुआ, स्तनधारी, उभयचर
(d) Animal, Pet, Cow/पशु, पालतू जानवर, गाय

MP Police Constable Exam- 27 August-2023 Shift-1

Ans. (d) : विकल्प (d) पशु, पालतू जानवर, गाय वेन आरेख का सबसे अच्छा प्रतिनिधित्व करता है–

GET IT ON Google Play Best Study PDF के लिए हमारी App को Download करें "GK Trick By Nitin Gupta"

19. Which of the following diagram indicates best relation between Lion, Animal and Human ?
निम्नलिखित में से कौन-सा आरेख शेर, पशु और मानव के बीच सबसे अच्छे संबंध को दर्शाता है ?

(a)
(b) 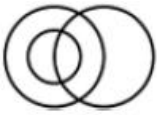
(c)
(d) 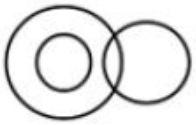

MP Police Constable Exam- 2 Sep-2023 Shift-3

Ans. (c) : प्रश्नानुसार, शेर, पशु और मानव को दर्शाने वाला वेन आरेख निम्नवत् है–

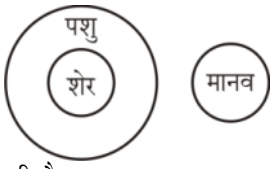

अतः विकल्प (c) सही है।

20. Identify the diagram that best represents the relationship among the given classes.
उस आरेख की पहचान करें जो दिए गए श्रेणियों के बीच संबंध का सबसे अच्छा प्रतिनिधित्व करता है।
Soil, alluvial soil, regur soil
मिट्टी, जलोढ़ मिट्टी, रेगुर मिट्टी

(a) 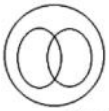
(b)
(c) 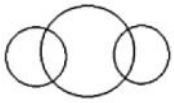
(d) 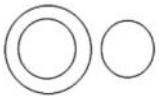

MP Police Constable Exam- 9 Sep-2023 Shift-3

Ans. (b) : प्रश्नानुसार,
मिट्टी, जलोढ़ मिट्टी, रेगुर मिट्टी का
वेन आरेख बनाने पर-



अतः विकल्प (b) का आरेख दिए गए वर्ग का सबसे अच्छा प्रतिनिधित्व करता है।

21. Identify the classes that best represents the relationship among the given diagram.
उन श्रेणियों की पहचान करें जो दिए गए आरेख के बीच संबंध का सबसे अच्छा प्रतिनिधित्व करते हैं।

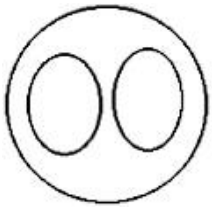

(a) Constitution, Amendments, the National Human Rights Commission/संविधान, संशोधन, राष्ट्रीय मानवाधिकार आयोग
(b) Plants, Humans, Respiration/पौधे, मनुष्य, श्वसन
(c) Universe, Stars, Sun/ब्रह्मांड, सितारे, सूर्य
(d) Stationary items, Pencils, Potatoes/स्टेशनरी आइटम, पेंसिल, आलू

MP Police Constable Exam- 5 Sep -2023 Shift-1

Ans. (b) : प्रश्नानुसार वेन आरेख इस प्रकार है–

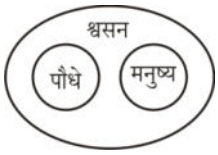

22. Identify the diagram that best represents the relationship among the given classes.
Iron, Lead, Nitrogen
उस आरेख की पहचान करें जो दिए गए श्रेणियों के बीच संबंध का सबसे अच्छा प्रतिनिधित्व करता है।
लोहा, सीसा, नाइट्रोजन

(a) 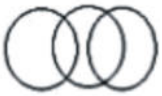
(b)
(c)
(d) 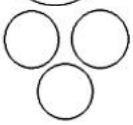

MP Police Constable Exam- 5 Sep -2023 Shift-1

Ans. (d) : प्रश्नानुसार लोहा, सीसा और नाइट्रोजन का वेन आरेख इस प्रकार है–

23. Which of the following diagram indicates best relation between Human, Children, Adults ?
निम्नलिखित में से कौन-सा आरेख मानव, बच्चों, वयस्कों के बीच सबसे अच्छे संबंध को दर्शाता है ?

(a)
(b) 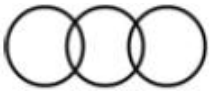
(c)
(d) 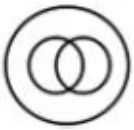

MP Police Constable Exam- 5 Sep-2023 Shift-2

Ans. (a) : प्रश्नानुसार, वेन आरेख निम्नवत् है-

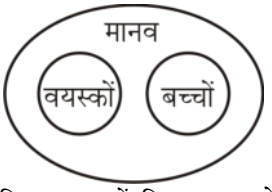

अतः स्पष्ट है कि विकल्प (a) में दिया गया आरेख, मानव, बच्चों और वयस्कों के बीच सबसे अच्छे संबंध को दर्शाता है।

GET IT ON Google Play Best Study PDF के लिए हमारी App को Download करें "GK Trick By Nitin Gupta"

24. Identify the classes that best represents the relationship among the given diagram.
उन श्रेणियों की पहचान करें जो दिए गए आरेख के बीच संबंध का सबसे अच्छा प्रतिनिधित्व करते हैं।

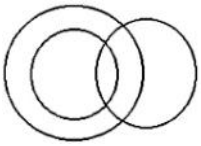

(a) College, University, Students/कॉलेज, विश्वविद्यालय, छात्र
(b) Animals, tiger, car/पशु, बाघ, कार
(c) Delhi, Sri Lanka, Asia/दिल्ली, श्रीलंका, एशिया
(d) Atmosphere, Hydrosphere, Biosphere/वायुमंडल, जलमंडल, जीवमंडल

MP Police Constable Exam- 2 Sep-2023 Shift-3

Ans. (a) : प्रश्नानुसार, विकल्प (a) से–

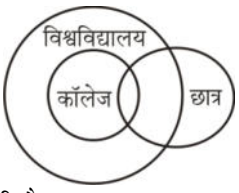

अतः विकल्प (a) सही है।

25. Identify the diagram that best represents the relationship among the given classes.
Honesty, Intelligence, Aptitude
उस आरेख की पहचान करें जो दिए गए श्रेणियों के बीच संबंध का सबसे अच्छा प्रतिनिधित्व करता है।
ईमानदारी, बुद्धिमत्ता, योग्यता

(a)
(b)
(c) 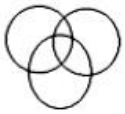
(d)

MP Police Constable Exam- 2 Sep-2023 Shift-3

Ans. (a) : प्रश्नानुसार, ईमानदारी, बुद्धिमत्ता और योग्यता का वेन आरेख निम्नवत् है–

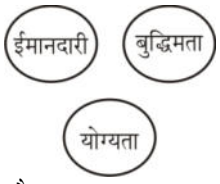

अतः विकल्प (a) सही है।

26. Identify the class that best represents the Venn-diagram./उस वर्ग की पहचान करें जो वेन-आरेख का सबसे अच्छा प्रतिनिधित्व करता है।

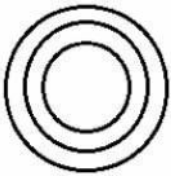

(a) School, Classroom, Blackboard/स्कूल, कक्षा, ब्लैकबोर्ड
(b) Primary, Secondary, Tertiary/प्राथमिक, माध्यमिक, तृतीयक
(c) Industry, Primary, secondary/उद्योग, प्राथमिक, माध्यमिक
(d) Tertiary, Industry, secondary/तृतीयक, उद्योग, माध्यमिक

MP Police Constable Exam- 5 Sep-2023 Shift-2

Ans. (a) : वेन-आरेख का सबसे अच्छा प्रतिनिधित्व करने वाला वर्ग निम्नवत् है–

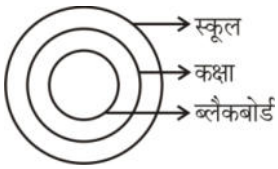

27. Identify the diagram that best represents the relationship among the given classes.
Languages, French, German
उस आरेख की पहचान करें जो दिए गए श्रेणियों के बीच संबंध का सबसे अच्छा प्रतिनिधित्व करता है।
भाषाएँ, फ्रेंच, जर्मन

(a) 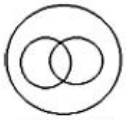
(b)
(c) 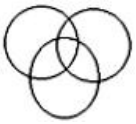
(d) 

MP Police Constable Exam- 5 Sep-2023 Shift-2

Ans. (b) : दी गयी श्रेणियों के बीच संबंध का सबसे अच्छा आरेख निम्नवत् है।

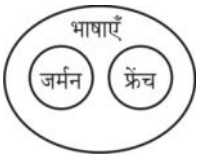

28. Choose the Venn diagram from the given options that best represents the relationship amongst the following classes:
दिए गए विकल्पों से उस वेन आरेख का चयन कीजिए जो निम्नलिखित श्रेणियों के बीच संबंध को अच्छे से दर्शाता है।
Graduate, Painter, Teacher
स्नातक, चित्रकार, अध्यापक

(a)
(b) 
(c) 
(d)

MP Police Constable Exam- 10 Sep-2023 Shift-1

GET IT ON Google Play Best Study PDF के लिए हमारी App को Download करें "GK Trick By Nitin Gupta"

Ans. (c) : दिये गये विकल्पों में विकल्प (c) दिये गये संबंध को अच्छे से दर्शाता है क्योंकि कुछ स्नातक चित्रकार होते हैं तथा कुछ स्नातक अध्यापक होते हैं परन्तु सभी नहीं।

29. Identify the class that best represents the Venn-diagram.
उस वर्ग की पहचान करें जो वेन-आरेख का सबसे अच्छा प्रतिनिधित्व करता है।

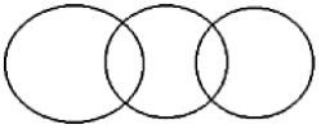

(a) Earth, Hydrosphere, Lithosphere/पृथ्वी, जलमंडल, स्थलमंडल
(b) Karnataka, Bijapur, Gol-Gumbaz/कर्नाटक, बीजापुर, गोल-गुंबज़
(c) Cotton, Blanket, Shirt/कपास, कंबल, शर्ट
(d) Pen, Pencil, Ink/पेन, पेंसिल, स्याही

MP Police Constable Exam- 10 Sep-2023 Shift-1

Ans. (c) : प्रश्नानुसार, आरेख निम्नवत् है-

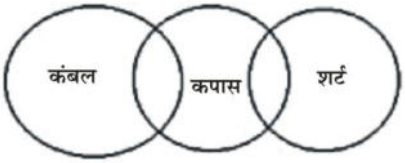

दिये गये वेन-आरेख के लिए विकल्प (c) कपास, कंबल, शर्ट सबसे उपयुक्त विकल्प है क्योंकि कुछ कंबल तथा कुछ शर्ट कपास के बने होते हैं परन्तु सभी नहीं।

30. Identify the diagram that best represents the relationship among the given classes.
उस आरेख की पहचान करें जो दिए गए श्रेणियों के बीच संबंध का सबसे अच्छा प्रतिनिधित्व करता है।
Newspaper, The Times of India, The Economic times
अखबार, द टाइम्स ऑफ इंडिया, द इकोनॉमिक टाइम्स

(a) 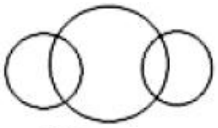
(b) 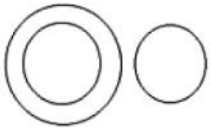
(c)
(d)

MP Police Constable Exam- 10 Sep-2023 Shift-1

Ans. (c) : प्रश्नानुसार, आरेख निम्नवत् है-

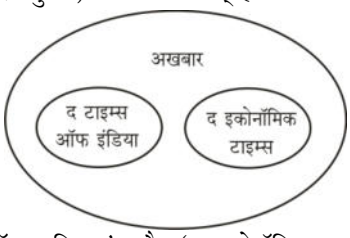

'द टाइम्स ऑफ इण्डिया' और 'द इकोनॉमिक टाइम्स' दोनों ही अलग-अलग अखबार हैं।
अतः, विकल्प (c) सबसे उपयुक्त विकल्प है।

31. Which of the following diagram indicates the best relation between Sun, Star and Earth?
निम्नलिखित में से कौन-सा आरेख सूर्य, तारे और पृथ्वी के बीच सबसे अच्छे संबंध को दर्शाता है?

(a) 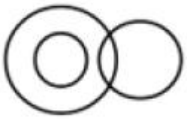
(b)
(c)
(d) 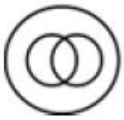

MP Police Constable Exam- 10 Sep-2023 Shift-1

Ans. (b) : प्रश्नानुसार,

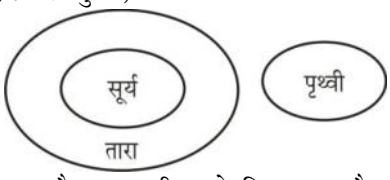

सूर्य एक तारा है तथा पृथ्वी इनसे भिन्न (ग्रह) है। अतः, विकल्प (b) सबसे अधिक उपयुक्त विकल्प होगा।

32. Identify the class that best represents the Venn-diagram.
उस वर्ग की पहचान करें जो वेन-आरेख का सबसे अच्छा प्रतिनिधित्व करता है।



(a) Liquid, Solid, Gas/तरल, ठोस, गैस
(b) Pen, Pencil, Stationery/पेन, पेंसिल, लेखन सामग्री
(c) Women, girl, student/महिला, लड़की, छात्र
(d) Battery, Mobile Battery, Computer Battery/बैटरी, मोबाइल बैटरी, कंप्यूटर बैटरी

MP Police Constable Exam- 23 August-2023 Shift-2

Ans. (a) : आरेख बनाने पर-

अतः स्पष्ट है कि विकल्प (a) दिए गए वेन-आरेख का सबसे अच्छा प्रतिनिधित्व करता है।

33. Identify the class that best represents the Venn-diagram.
उस वर्ग की पहचान करें जो वेन-आरेख का सबसे अच्छा प्रतिनिधित्व करता है।

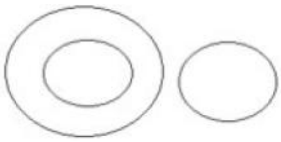

(a) Remote, button, T.V./रिमोट, बटन, टी.वी.
(b) Doctors, Professors, Man/डॉक्टर, प्रोफेसर, आदमी
(c) Professors, Post-graduates, Employed/प्रोफेसर, स्नातकोत्तर, कार्यरत
(d) Infant, living being, trees/शिशु, जीवित प्राणी, पेड़

MP Police Constable Exam- 25 August-2023 Shift-1

GET IT ON Google Play Best Study PDF के लिए हमारी App को Download करें "GK Trick By Nitin Gupta"

Ans. (a) : दिए गए वेन आरेख में संबंध निम्नवत् है–

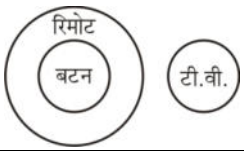

34. Identify the diagram that best represents the relation between Whole Number, Rational Number and Irrational Number ?
उस आरेख की पहचान करें जो पूर्ण संख्या, परिमेय संख्या और अपरिमेय संख्या के बीच संबंध को सर्वोत्तम रूप से दर्शाता है ?

(a)
(b)
(c) 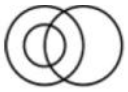
(d)

MP Police Constable Exam- 25 August-2023 Shift-1

Ans. (b) : पूर्ण संख्या, परिमेय संख्या और अपरिमेय संख्या के बीच संबंध आरेख निम्नवत् है–

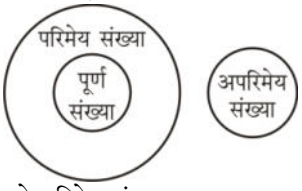

सभी पूर्ण संख्या को परिमेय संख्या पढ़ा जा सकता है लेकिन सभी अपरिमेय संख्या को पूर्ण संख्या नहीं पढ़ा जा सकता है।

अपरिमेय संख्या– ऐसी संख्याएं जिसे $\frac{p}{q}$ के रूप में प्रदर्शित न किया जा सके। $(q \neq 0)$

जैसे– $\pi, \sqrt{2}, \sqrt{3}$ .....

35. Which of the answer figures illustrate the relationship between?
कौन-सा उत्तर इन शब्दों के बीच संबंध को दर्शाता है?
Delhi, Sri Lanka, Asia/दिल्ली, श्रीलंका, एशिया

(a) 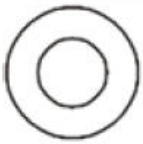
(b)
(c) 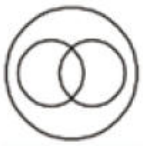
(d)

MP Police Constable Exam- 12 Sep-2023 Shift-2

Ans. (b) : दिये गये शब्दों के अनुसार आरेख निम्नवत् है-

अतः विकल्प 'b' का आरेख सही उत्तर है।

36. In a class of 46 students, 18 play footballs, 17 play cricket and 6 play football and cricket both. 16 students play hockey and 4 hockey and cricket, but not football. Five students play carom but no other games. Which of the following figures represents these facts?
एक कक्षा के 46 छात्रों में से, 18 फुटबॉल खेलते हैं, 17 क्रिकेट खेलते हैं, 6 क्रिकेट तथा फुटबॉल दोनों खेलते हैं। 16 छात्र हॉकी खेलते हैं, 4 हॉकी तथा क्रिकेट खेलते हैं, परंतु फुटबॉल नहीं। 5 छात्र कैरम खेलते हैं, परंतु कोई दूसरा खेल नहीं खेलते हैं। निम्न दिए गए विकल्पों में सही संबध दर्शाने वाली आकृति का चयन करें?

(a) 
(b) 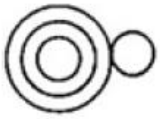
(c) 
(d) 

MP Police Constable Exam- 12 Sep-2023 Shift-2

Ans. (c) : प्रश्नानुसार आरेख निम्नवत् है-

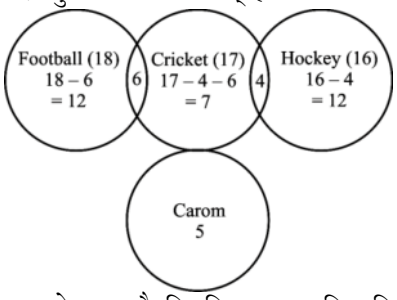

उपर्युक्त व्याख्या से स्पष्ट है कि विकल्प 'c' खिलाड़ियों के बीच संबंध का सही आरेख दर्शाता है।

37. Identify the diagram that best represents the relationship among the given classes.
उस आरेख की पहचान करें जो दिए गए श्रेणियों के बीच संबंध का सबसे अच्छा प्रतिनिधित्व करता है।
Female, Granddaughter, Wife
महिला, पोती, पत्नी

(a) 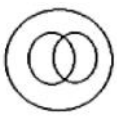
(b)
(c)
(d)

MP Police Constable Exam- 12 Sep-2023 Shift-2

Ans. (a) : प्रश्नानुसार आरेख निम्नवत् है-

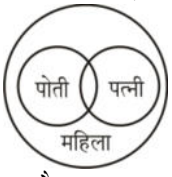

अतः विकल्प 'c' सही उत्तर है।

GET IT ON Google Play Best Study PDF के लिए हमारी App को Download करें "GK Trick By Nitin Gupta"

38. Which of the following diagram indicates best relation between Boy, Girl and Singer?
निम्नलिखित में से कौन-सा आरेख लड़का, लड़की और गायक के बीच सबसे अच्छे संबंध को दर्शाता है?

(a) 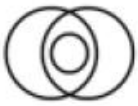
(b)
(c)
(d) 

MP Police Constable Exam- 12 Sep-2023 Shift-2

Ans. (d) : प्रश्नानुसार आरेख निम्नवत् है-

अतः विकल्प (d) सही उत्तर है।

39. Identify the class that best represents the Venn-diagram.
उस वर्ग की पहचान करें जो वेन-आरेख का सबसे अच्छा प्रतिनिधित्व करता है।

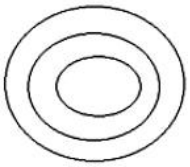

(a) Universe, Stars, Sun/ब्रह्मांड, सितारे, सूर्य
(b) Stationary items, Pencils, Potatoes/स्टेशनरी आइटम, पेंसिल, आलू
(c) Bank, Net banking, Spoon/बैंक, नेट बैंकिंग, चम्मच
(d) Chair, Table, Road/चेयर, टेबल, रोड

MP Police Constable Exam- 26 August-2023 Shift-3

Ans. (a) : कथनानुसार, वेन आरेख निम्नवत् है–

40. Identify the class that best represents the Venn-diagram.
उस वर्ग की पहचान करें जो वेन-आरेख का सबसे अच्छा प्रतिनिधित्व करता है।

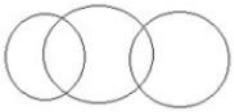

(a) Judges, Men, culprit/न्यायाधीश, पुरुष, अपराधी
(b) Mammals, Animals, Giraffe/स्तनधारी, पशु, जिराफ
(c) Sociology, Psychology, Humanities/समाजशास्त्र, मनोविज्ञान, मानविकी
(d) Teachers, Scholar, Students/शिक्षक, विद्वान, छात्र

MP Police Constable Exam- 6 Sep-2023 Shift-3

Ans. (a) : प्रश्नानुसार आरेख निम्नवत् है–

अतः विकल्प (a) सही उत्तर होगा।

41. Identify the diagram that best represents the relationship among the given classes.
उस आरेख की पहचान करें जो दिए गए श्रेणियों के बीच संबंध का सबसे अच्छा प्रतिनिधित्व करता है।
Birds, Rooster, Penguin
पक्षी, मुर्गा, पेंगुइन

(a) 
(b)
(c) 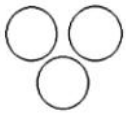
(d)

MP Police Constable Exam- 6 Sep-2023 Shift-3

Ans. (d) : प्रश्नानुसार,
मुर्गा, पेंगुइन और पक्षी के संबंध के बीच वेन आरेख बनाने पर-

अतः विकल्प (d) सही उत्तर होगा

42. Which of the following group best describe the following diagram?
निम्नलिखित में से कौन-सा समूह निम्नलिखित आरेख का सबसे अच्छा वर्णन करता है?

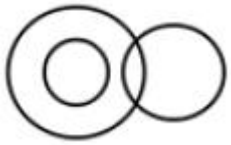

(a) Shark, Sea, Snake/शार्क, समुद्र, सांप
(b) Sea Snake, Sea, Reptile/समुद्री सांप, समुद्र, सरीसृप
(c) Tree, Branches, Fruit/पेड़, शाखाएं, फल
(d) Alphabet, Word, Sentence/अक्षर, शब्द, वाक्य

MP Police Constable Exam- 6 Sep-2023 Shift-3

Ans. (a) : प्रश्नानुसार,
शार्क, समुद्र और सांप के संबंध के बीच वेन आरेख बनाने पर-

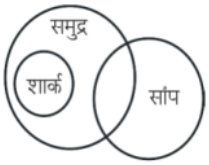

अतः विकल्प (a) सही उत्तर होगा।

43. Which of the following diagram indicates best relation between Refrigerator, Gas oven and Electrical appliances?
निम्नलिखित में से कौन-सा आरेख रेफ्रिजरेटर, गैस ओवन और विद्युत उपकरणों के बीच सबसे अच्छे संबंध को दर्शाता है?

GET IT ON Google Play Best Study PDF के लिए हमारी App को Download करें "GK Trick By Nitin Gupta"

(a)  (b) 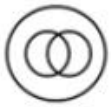

(c) (d)

MP Police Constable Exam- 6 Sep-2023 Shift-3

Ans. (d) : प्रश्नानुसार,
विद्युत उपकरण, रेफ्रिजरेटर और गैस ओवन के संबंध के बीच वेन आरेख बनाने पर-

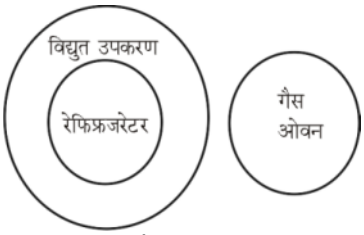

अतः विकल्प (d) सही उत्तर होगा।

44. Identify the class that best represents the Venn-diagram.
उस वर्ग की पहचान करें जो वेन-आरेख का सबसे अच्छा प्रतिनिधित्व करता है।

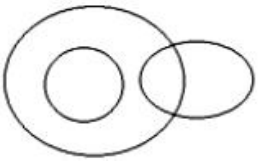

(a) Animals, tiger, car/पशु, बाघ, कार
(b) Delhi, Sri Lanka, Asia/दिल्ली, श्रीलंका, एशिया
(c) Atmosphere, Hydrosphere, Biosphere/ वायुमंडल, जलमंडल, जीवमंडल
(d) Males, fathers, children/पुरुष, पिता, बच्चे

MP Police Constable Exam- 23 August-2023 Shift-3

Ans. (d) : प्रश्नानुसार, वेन आरेख बनाने पर–

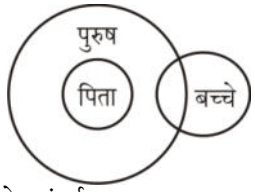

सभी पिता, पुरुष के अंतर्गत तथा कुछ पुरुष, बच्चे के अंतर्गत आते है।

45. Which of the following diagram indicates best relation between leopard, Elephant and herbivorous?
निम्नलिखित में से कौन-सा आरेख तेंदुए, हाथी और शाकाहारी के बीच सबसे अच्छे संबंध को दर्शाता है?

(a) 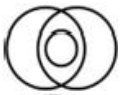 (b)

(c) (d)

MP Police Constable Exam- 8 Sep-2023 Shift-1

Ans. (b) : प्रश्नानुसार सबसे अच्छे संबंध को दर्शाने वाला आरेख निम्नवत् है-

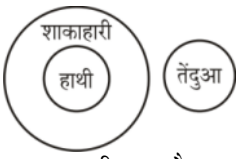

अतः विकल्प (b) सही उत्तर है।

46. Identify the classes that best represents the relationship among the given diagram.
उन श्रेणियों की पहचान करें जो दिए गए आरेख के बीच संबंध का सबसे अच्छा प्रतिनिधित्व करते हैं।

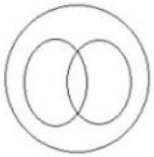

(a) Graduates, teachers, literates/स्नातक, शिक्षक, साक्षर
(b) Villagers, Poor persons, Males/ग्रामीण, गरीब व्यक्ति, पुरुष
(c) Players, Singers, Students/खिलाड़ी, गायक, छात्र
(d) Tortoise, Mammals, Amphibians/कछुआ, स्तनधारी, उभयचर

MP Police Constable Exam- 4 Sep-2023 Shift-3

Ans. (a) : प्रश्नानुसार आरेख निम्नवत् है–

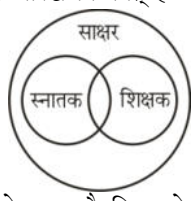

अतः उपर्युक्त आरेख से स्पष्ट है कि आरेख का सही प्रतिनिधित्व स्नातक, शिक्षक और साक्षर करता है।

47. Identify the diagram that best represents the relationship among the given classes.
Movies, Thrill movies, funny movies
उस आरेख की पहचान करें जो दिए गए श्रेणियों के बीच संबंध का सबसे अच्छा प्रतिनिधित्व करता है।
फिल्में, थ्रिलर फिल्में, मजेदार फिल्में

(a) (b)

(c) 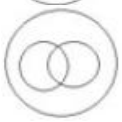 (d) 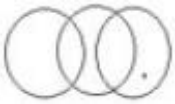

MP Police Constable Exam- 4 Sep-2023 Shift-3

Ans. (c) : प्रश्नानुसार फिल्में, थ्रिलर फिल्में और मजेदार फिल्में का आरेख निम्नवत् है–

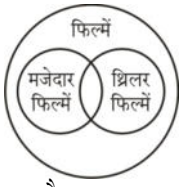

अतः विकल्प (c) सही उत्तर है।

GET IT ON Google Play Best Study PDF के लिए हमारी App को Download करें "GK Trick By Nitin Gupta"

48. Which of the following diagram indicates best relation between Teacher, Student and School ?
निम्नलिखित में से कौन-सा आरेख शिक्षक, छात्र और विद्यालय के बीच सबसे अच्छे संबंध को दर्शाता है?

(a)
(b) 
(c)
(d) 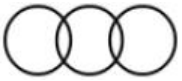

MP Police Constable Exam- 4 Sep-2023 Shift-3

Ans. (a) : प्रश्नानुसार, आरेख बनाने पर-

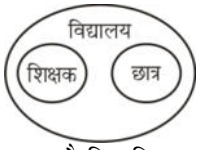

अतः उपर्युक्त आरेख से स्पष्ट है कि, विकल्प (a) शिक्षक, छात्र और विद्यालय के बीच सबसे अच्छे संबंध को दर्शाते हैं।

49. Identify the class that best represents the Venn-diagram./उस वर्ग की पहचान करें जो वेन-आरेख का सबसे अच्छा प्रतिनिधित्व करता है।

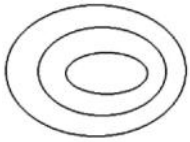

(a) Cat, Lion, Tiger/बिल्ली, शेर, बाघ
(b) Solid, Liquid, Gas/ठोस, तरल, गैस
(c) Food, Cook, house/भोजन, रसोइया, घर
(d) Fathers, Males, Human beings/पिता, पुरुष, मनुष्य

MP Police Constable Exam- 9 Sep-2023 Shift-2

Ans. (d) : दिया गया वेन-आरेख निम्नवत् है-

∴ सही उत्तर विकल्प (d) होगा।

50. Identify the diagram that best represents the relationship among the given classes.
उस आरेख की पहचान करें जो दिए गए श्रेणियों के बीच संबंध का सबसे अच्छा प्रतिनिधित्व करता है।
Male, Female, transgender
पुरुष, महिला, ट्रांसजेंडर

(a) 
(b)
(c)
(d) 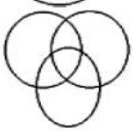

MP Police Constable Exam- 9 Sep-2023 Shift-2

Ans. (a) : वेन-आरेख संबंध निम्नवत् है-

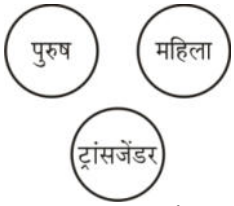

अतः सही उत्तर विकल्प (a) होगा।

51. Which of the following diagram indicates best relation between Pepsi, Cold drink and Liquid?
निम्नलिखित में से कौन-सा आरेख पेप्सी, कोल्ड ड्रिंक और तरल के बीच सबसे अच्छे संबंध को दर्शाता है?

(a)
(b) 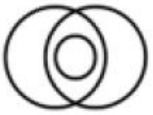
(c) 
(d)

MP Police Constable Exam- 9 Sep-2023 Shift-2

Ans. (d) : प्रश्नानुसार, आरेख निम्नवत है-

अतः विकल्प (d) सही उत्तर होगा।

52. In the question given below, some statements are given followed by few conclusions. You have to consider the statements to be true even they seem to be at variance from commonly known facts. You have to decide which of the given conclusions, if any follow from the given statements.
Statements:
All fashionable are addicts.
All addicts are noteworthy.
Conclusions:
I. No noteworthy is fashionable.
II. Some noteworthy are fashionable.
नीचे दिए गए प्रश्न में, कुछ कथन और उसके बाद कुछ निष्कर्ष दिए गए हैं। आपको कथनों को सत्य मानना है, भले ही वे सामान्यतः ज्ञात तथ्यों से भिन्न प्रतीत होते हों। आपको यह तय करना है कि दिए गए निष्कर्षों में से कौन-सा, यदि कोई हो, दिए गए कथनों का अनुसरण करता है।
कथनः
सभी फैशनेबल नशेड़ी हैं।
सभी नशेड़ी उल्लेखनीय हैं।
निष्कर्षः
I. कोई उल्लेखनीय फैशनेबल नहीं है।
II. कुछ उल्लेखनीय फैशनेबल हैं।

GET IT ON Google Play Best Study PDF के लिए हमारी App को Download करें "GK Trick By Nitin Gupta"

(a) only conclusion I follows/केवल निष्कर्ष I अनुसरण करता है
(b) only conclusions II follows/केवल निष्कर्ष II अनुसरण करता है
(c) either conclusion I or II follows/या तो निष्कर्ष I या II अनुसरण करता है
(d) both conclusion I and II follow/निष्कर्ष I और II दोनों अनुसरण करते हैं

MP Police Constable Exam- 16 August-2023 Shift-3

Ans. (b) : प्रश्नानुसार, वेन-आरेख खीचने पर–

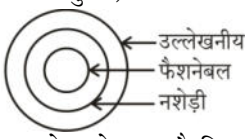

उपर्युक्त वेन आरेख से स्पष्ट है कि कुछ उल्लेखनीय फैशनेबल है। अतः केवल निष्कष (II) अनुसरण करता है।

53. Identify the class that best represents the Venn-diagram./उस वर्ग की पहचान करें जो वेन-आरेख का सबसे अच्छा प्रतिनिधित्व करता है।

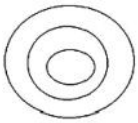

(a) Men, Fathers, Engineer/पुरुष, पिता, इंजीनियर
(b) Car drivers, Human beings, women/कार चालक, मनुष्य, महिलाएं
(c) T.V. channels, Cartoon channels, Nickelodeon/टीवी चैनल, कार्टून चैनल, निकलोडियन
(d) Police, army, inspector/पुलिस, सेना, निरीक्षक

MP Police Constable Exam- 8 Sep-2023 Shift-1

Ans. (c) : प्रश्नानुसार,

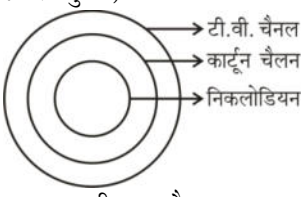

अतः विकल्प (c) सही उत्तर है।
नोटः- निकलोडियन (Nickelodeon) एक कार्टून चैनल है जिसमें कार्टून सीरीयल दिखाए जाते हैं।

54. Identify the diagram that best represents the relationship among the given classes.
उस आरेख की पहचान करें जो दिए गए श्रेणियों के बीच संबंध का सबसे अच्छा प्रतिनिधित्व करता है।
Concave mirror, convex mirror, mirror
अवतल दर्पण, उत्तल दर्पण, दर्पण

(a) 
(b) 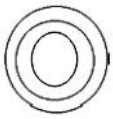
(c) 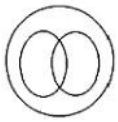
(d) 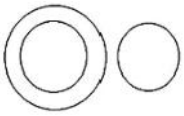

MP Police Constable Exam- 8 Sep-2023 Shift-1

Ans. (a) : प्रश्नानुसार, आरेख बनाने पर,

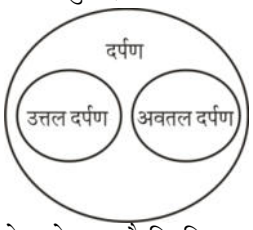

उपर्युक्त आरेख से स्पष्ट है कि विकल्प (a) सही उत्तर होगा।

55. Identify the classes that best represents the relationship among the given diagram.
उन वर्गों की पहचान करें जो दिए गए आरेख के बीच संबंध का सबसे अच्छा प्रतिनिधित्व करते हैं।

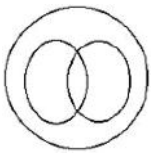

(a) Doctor, Animals, Earth/डॉक्टर, पशु, पृथ्वी
(b) Building Material, Brick, Cement/निर्माण सामग्री, ईंट, सीमेंट
(c) Sedimentary rocks, limestone, shale/तलछटी चट्टानें, चूना पत्थर, शेल
(d) Male, father, Police officer/पुरुष, पिता, पुलिस अधिकारी

MP Police Constable Exam- 28 August-2023 Shift-3

Ans. (b) : प्रश्नानुसार, वेन आरेख निम्नवत् है–

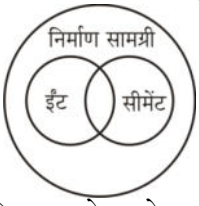

अतः विकल्प (b) में दिया गया वेन आरेख वर्गों के बीच के सम्बन्ध को सर्वोत्तम ढंग से दर्शाता है।

56. Which of the following diagram indicates best relation between Tiger, Bird and Snake ?
निम्नलिखित में से कौन-सा आरेख बाघ, पक्षी और सांप के बीच सबसे अच्छे संबंध को दर्शाता है ?

(a)
(b)
(c) 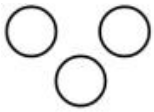
(d)

MP Police Constable Exam- 4 Sep-2023 Shift-2

Ans. (c) : बाघ, पक्षी और सांप का आरेख दर्शाने पर–

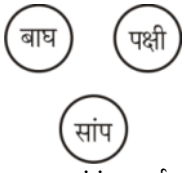

अतः विकल्प (c) सबसे अच्छा संबंध दर्शाता है।

GET IT ON Google Play Best Study PDF के लिए हमारी App को Download करें "GK Trick By Nitin Gupta"

57. Identify the class that best represents the Venn-diagram.
उस वर्ग की पहचान करें जो वेन-आरेख का सबसे अच्छा प्रतिनिधित्व करता है।

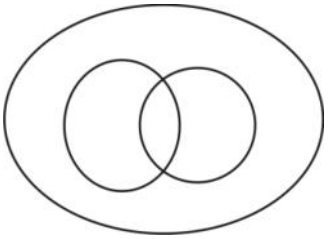

(a) Players, Singers, Students/खिलाड़ी, गायक, छात्र
(b) Tortoise, Mammals, Amphibians/कछुआ, स्तनधारी, उभयचर
(c) Women, Girlfriend, Widow/महिला, प्रेमिका, विधवा
(d) Pen, pencil, paper/पेन, पेंसिल, पेपर

MP Police Constable Exam- 25 August-2023 Shift-2

Ans. (c) : प्रश्नानुसार,

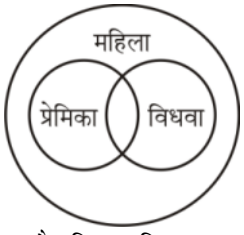

अतः महिला, प्रेमिका और विधवा दिए गए आरेख के बीच संबंध का सबसे अच्छा प्रतिनिधित्व करते है।

58. In the given diagram 'A' indicates the person who plays Football, 'B' indicates the person who plays Cricket and 'C' indicates the person who plays Hockey.
दिए गए आरेख में 'A' फुटबॉल खेलने वाले व्यक्ति को इंगित करता है, 'B' क्रिकेट खेलने वाले व्यक्ति को इंगित करता है और 'C' हॉकी खेलने वाले व्यक्ति को इंगित करता है।

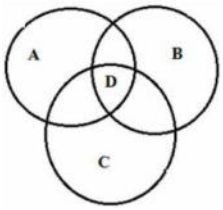

What does 'D' indicates in the figure ?
चित्र में 'D' क्या दर्शाता है ?

(a) Cricket and Football player/क्रिकेट और फुटबॉल खिलाड़ी
(b) Football and Hockey player/फुटबॉल और हॉकी खिलाड़ी
(c) Hockey and Cricket player/हॉकी और क्रिकेट खिलाड़ी
(d) Cricket, Football and Hockey player/क्रिकेट, फुटबॉल और हॉकी खिलाड़ी

MP Police Constable Exam- 25 August-2023 Shift-2

Ans. (d) : प्रश्नानुसार,

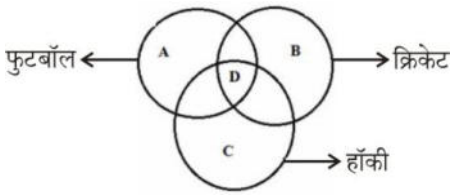

अतः आरेख से स्पष्ट है केवल D एक ऐसा व्यक्ति है जो तीनों खेल खेलता है।

59. Identify the classes that best represents the relationship among the given diagram.
उन श्रेणियों की पहचान करें जो दिए गए आरेख के बीच संबंध का सबसे अच्छा प्रतिनिधित्व करते हैं।

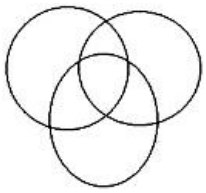

(a) Mathematics, Arithmetic, Algebra/गणित, अंकगणित, बीजगणित
(b) Doctors, Nurses, Hospital/डॉक्टर, नर्स, अस्पताल
(c) Earth, Metal, Core/पृथ्वी, धातु, कोर
(d) Professors, Post-graduates, Employed/प्रोफेसर, स्नातकोत्तर, कार्यरत

MP Police Constable Exam- 4 Sep-2023 Shift-2

Ans. (d) : दिए गए संबंध आरेख से–

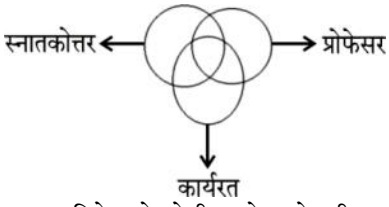

अतः विकल्प (d) दिये गये श्रेणी आरेख के बीच सबसे अच्छा प्रतिनिधित्व करता है।
∴ विकल्प (d) सही है।

60. Identify the diagram that best represents the relationship among the given classes.
Intangible, Synonyms, tactile
उस आरेख की पहचान करें जो दिए गए श्रेणियों के बीच संबंध का सबसे अच्छा प्रतिनिधित्व करता है।
अमूर्त, समानार्थी, स्पर्शनीय

(a)
(b)
(c) 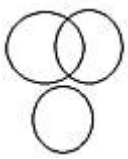
(d) 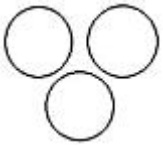

MP Police Constable Exam- 4 Sep-2023 Shift-2

GET IT ON Google Play Best Study PDF के लिए हमारी App को Download करें "GK Trick By Nitin Gupta"

Ans. (d) : प्रश्नानुसार, आरेख बनाने पर,

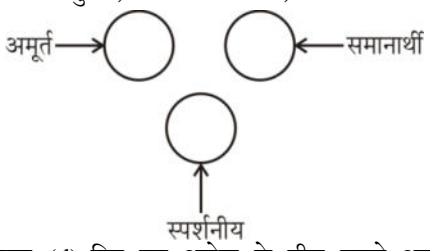

अतः विकल्प (d) दिए गए आरेख के बीच सबसे अच्छा संबंध दर्शाता है।

∴ विकल्प (d) सही है।

61. Choose the Venn diagram from the given options that best represents the relationship amongst the following classes:
दिए गए विकल्पों में से वेन आरेख चुनें जो निम्नलिखित वर्गों के बीच संबंधों का सबसे अच्छा प्रतिनिधित्व करता है:
Clerk, Male, Permanent Employee
क्लर्क, पुरुष, स्थायी कर्मचारी

(a) 

(b) 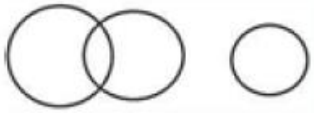

(c)

(d) 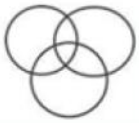

MP Police Constable Exam- 11 Sep-2023 Shift-2

Ans. (d) : प्रश्नानुसार,

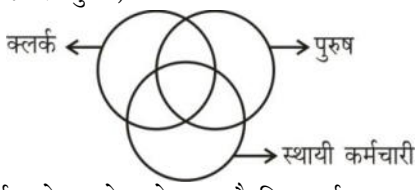

अतः उपर्युक्त वेन आरेख से स्पष्ट है कि क्लर्क, पुरुष एवं स्थायी कर्मचारी के बीच सबसे अच्छा आरेख विकल्प (d) का आरेख है।

अतः विकल्प (d) सही उत्तर होगा।

62. Identify the class that best represents the Venn-diagram.
उस वर्ग की पहचान करें जो वेन-आरेख का सबसे अच्छा प्रतिनिधित्व करता है।

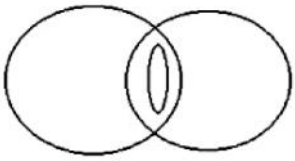

(a) Vedas, Rigveda, Kamadeva/वेद, ऋग्वेद, कामदेव
(b) Husband who work, Married person, Men/पति जो काम करता है, विवाहित व्यक्ति, पुरुष
(c) Harappa Civilization, Mohenjo-Daro, Citadel/हड़प्पा सभ्यता, मोहनजो-दारो, नगरकोट
(d) Mother, Women, Sister/मां, महिलाएं, बहन

MP Police Constable Exam- 11 Sep-2023 Shift-2

Ans. (b) : प्रश्नानुसार,
दिया गया वेन-आरेख–

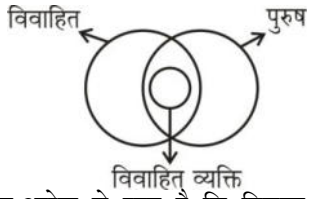

अतः उपर्युक्त वेन-आरेख से स्पष्ट है कि विकल्प (b), ''पति जो काम करता है, विवाहित व्यक्ति एवं पुरुष'' के बीच सबसे अच्छा संबंध दर्शाता है।

अतः विकल्प (b) सही उत्तर होगा।

63. Identify the diagram that best represents the relationship among the given classes.
उस आरेख की पहचान करें जो दिए गए श्रेणियों के बीच संबंध का सबसे अच्छा प्रतिनिधित्व करता है।
Panchayat, District panchayat, Mandal panchayat
पंचायत, जिला पंचायत, मंडल पंचायत

(a) 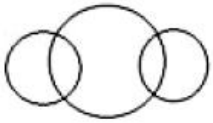

(b) 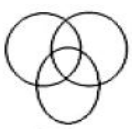

(c)

(d)

MP Police Constable Exam- 11 Sep-2023 Shift-2

Ans. (d) : प्रश्नानुसार, वेन आरेख बनाने पर-

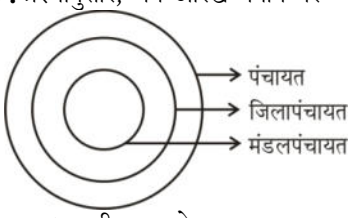

अतः विकल्प (d) सही उत्तर होगा।

64. Which of the following diagram indicates the best relation between Hyena, Wild animals and Carnivorous?
निम्नलिखित में से कौन-सा आरेख लकड़बग्घा, जंगली जानवरों ओर मांसाहारी के बीच सबसे अच्छे संबंध को दर्शाता है?

(a) 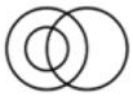

(b) 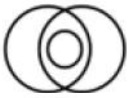

(c)

(d) 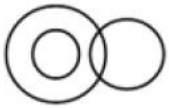

MP Police Constable Exam- 11 Sep-2023 Shift-2

GET IT ON Google Play Best Study PDF के लिए हमारी App को Download करें "GK Trick By Nitin Gupta"

Ans. (b) : प्रश्नानुसार, वेन आरेख बनाने पर-

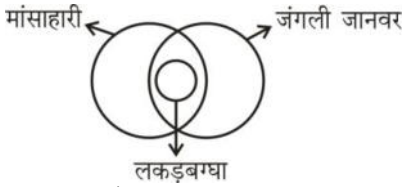

अतः उपर्युक्त से स्पष्ट है कि विकल्प (b) सही उत्तर होगा।

65. In the question given below, some statements are given followed by few conclusions. You have to consider the statements to be true even they seem to be at variance from commonly known facts. You have to decide which of the given conclusions, if any follow from the given statements.

Statements:

Some blue are black.

Some black are brown.

Some brown are red.

Conclusions:

I. Some blue are brown.

II. Some black are red.

नीचे दिए गए प्रश्न में, कुछ कथन और उसके बाद कुछ निष्कर्ष दिए गए हैं। आपको कथनों को सत्य मानना है, भले ही वे सामान्यतः ज्ञात तथ्यों से भिन्न प्रतीत होते हों। आपको यह तय करना है कि दिए गए निष्कर्षों में से कौन-सा, यदि कोई हो, दिए गए कथनों का अनुसरण करता है।

कथनः

कुछ नीले काले हैं।

कुछ काले भूरे हैं।

कुछ भूरे लाल हैं।

निष्कर्षः

I. कुछ नीले भूरे हैं।

II. कुछ काले लाल हैं।

(a) only conclusion I follows/केवल निष्कर्ष I अनुसरण करता है

(b) only conclusions II follows/केवल निष्कर्ष II अनुसरण करता है

(c) either conclusion I or II follows/या तो निष्कर्ष I या II अनुसरण करता है।

(d) neither conclusion I nor II follows/निष्कर्ष I और II दोनों अनुसरण नहीं करते हैं

MP Police Constable Exam- 18 August-2023 Shift-2

Ans. (d) : प्रश्नानुसार, वेन-आरेख बनाने पर-

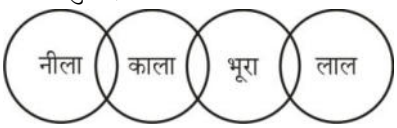

निष्कर्षः-

I. (×)

II. (×)

अतः निष्कर्ष I और II दोनों अनुसरण नहीं करते है।

66. Identify the class that best represents the Venn-diagram.

उस वर्ग की पहचान करें जो वेन-आरेख का सबसे अच्छा प्रतिनिधित्व करता है।



(a) Doctors, Professors, Hospital/डॉक्टर, प्रोफेसर, अस्पताल

(b) Professors, Post-graduates, Employed/प्रोफेसर, स्नातकोत्तर, कार्यरत

(c) Infant, Living being, Trees/शिशु, जीवित प्राणी, पेड़

(d) English, Hindi, Urdu/अंग्रेजी, हिंदी, उर्दू

MP Police Constable Exam- 24 August-2023 Shift-3

Ans. (c) : प्रश्नानुसार, वेन आरेख निम्नवत् है–

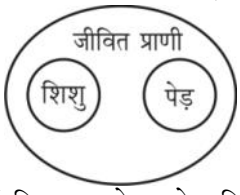

अतः विकल्प (c) में दिया गया वेन आरेख दिए गए वर्गों के बीच के सम्बन्ध को सर्वोत्तम ढंग से निरूपित करता है।

67. Identify the classes that best represents the relationship among the given diagram.

उन श्रेणियों की पहचान करें जो दिए गए आरेख के बीच संबंध का सबसे अच्छा प्रतिनिधित्व करते हैं।

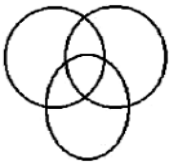

(a) Red, Blue, Magenta /लाल, नीला, मैजेंटा

(b) Rhombus, Quadrilateral, Polygons /समचतुर्भुज, चतुर्भुज, बहुभुज

(c) Reptiles, Lizard, Lion /सरीसृप, छिपकली, शेर

(d) Cricketer, Footballer, Indian /क्रिकेटर, फुटबॉलर, भारतीय

MP Police Constable Exam- 1 Sep-2023 Shift-2

Ans. (d) : वेन आरेख का उचित संबंध इस प्रकार है–

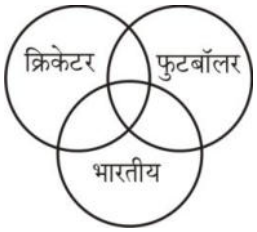

68. Identify the diagram that best represents the relationship among the given classes.

Water, Hydrogen, Oxygen

उस आरेख की पहचान करें जो दिए गए श्रेणियों के बीच संबंध का सबसे अच्छा प्रतिनिधित्व करता है।

पानी, हाइड्रोजन, ऑक्सीजन

GET IT ON Google Play Best Study PDF के लिए हमारी App को Download करें "GK Trick By Nitin Gupta"

(a) 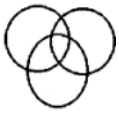
(b) 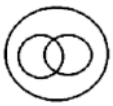
(c)
(d)

MP Police Constable Exam- 1 Sep-2023 Shift-2

Ans. (c) : वेन आरेख इस प्रकार है–

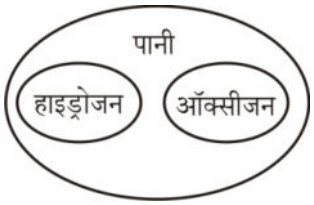

69. Which of the following diagram indicates best relation between Sun, Moon and Galaxy?
निम्नलिखित में से कौन-सा आरेख सूर्य, चंद्रमा और आकाशगंगा के बीच सबसे अच्छे संबंध को दर्शाता है?

(a) 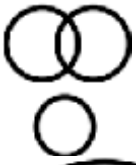
(b)
(c)
(d)

MP Police Constable Exam- 1 Sep-2023 Shift-2

Ans. (b) : सूर्य, चन्द्रमा और आकाशगंगा के बीच वेन आरेख इस प्रकार है–

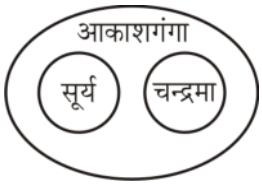

70. Identify the classes that best represents the relationship among the given diagram.
उन श्रेणियों की पहचान करें जो दिए गए आरेख के बीच संबंध का सबसे अच्छा प्रतिनिधित्व करते हैं।

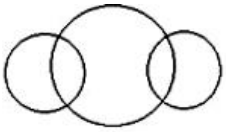

(a) Brother, Husband, Men/भाई, पति, पुरुष
(b) Abolition of sati, Lord William Bentick, Western education/सती प्रथा का उन्मूलन, लॉर्ड विलियम बेंटिक, पश्चिमी शिक्षा
(c) Truck, Ship, Goods/ट्रक, जहाज, माल
(d) America, Capitalist, Socialist/अमेरिका, पूंजीवादी, समाजवादी

MP Police Constable Exam- 31 August-2023 Shift-2

Ans. (b) : दिए गए वेन आरेख के बीच संबंध निम्नवत् है–

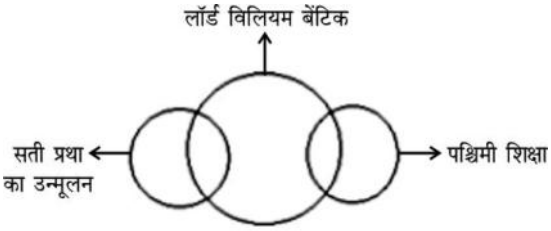

71. Identify the classes that best represents the relationship among the given diagram.
उन वर्गों की पहचान करें जो दिए गए आरेख के बीच संबंध का सबसे अच्छा प्रतिनिधित्व करते हैं।

(a) Wheat, Crops, Farmers/गेहूं, फसलें, किसान
(b) Politicians, Contractors, Candles/राजनेता, ठेकेदार, मोमबत्तियां
(c) Cell, Tissue, Skin/सेल, ऊतक, त्वचा
(d) Snakes, Reptiles, Poisonous/सांप, सरीसृप, जहरीला

MP Police Constable Exam- 31 August-2023 Shift-2

Ans. (c) : दिए गए वेन आरेख में संबंध निम्नवत् है–

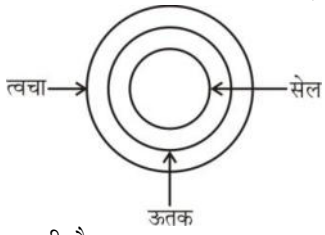

अतः विकल्प (c) सही है।

72. Which of the following group best describe the following diagram ?
निम्नलिखित में से कौन-सा समूह निम्नलिखित आरेख का सबसे अच्छा वर्णन करता है ?

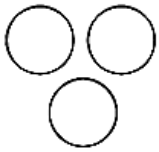

(a) Galaxy, Planet, Earth/आकाशगंगा, ग्रह, धरती
(b) Star, Sun, Moon/तारा, सूर्य, चांद
(c) Pluto, Neptune, Mars/प्लूटो, नेपच्यून, मंगल
(d) Earth, Planet, Jupiter/पृथ्वी, ग्रह, बृहस्पति

MP Police Constable Exam- 31 August-2023 Shift-2

Ans. (c) : वेन आरेख संबंध निम्नवत् है–

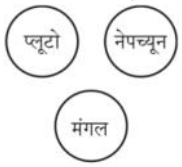

प्लूटो, नेपच्यून और मंगल सौरमंडल के अलग-अलग ग्रह है।

GET IT ON Google Play Best Study PDF के लिए हमारी App को Download करें "GK Trick By Nitin Gupta"

73. Which of the following diagram indicates the best relation between Man, Fathers and Doctors ?
निम्नलिखित में से कौन-सा आरेख मनुष्य, पिता और डॉक्टरों के बीच सबसे अच्छे संबंध को दर्शाता है ?

(a)
(b)
(c) 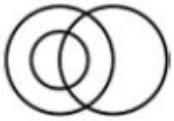
(d) 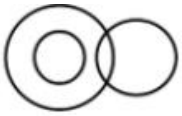

MP Police Constable Exam- 31 August-2023 Shift-2

Ans. (c) : दिए गए वेन आरेख में सभी पिता, मनुष्य है, कुछ मनुष्य डॉक्टर है और कुछ पिता डॉक्टर हैं।

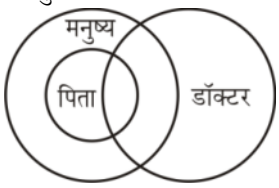

74. Choose the Venn diagram from the given options that best represents the relationship amongst the following classes:
दिए गए विकल्पों से उस वेन आरेख का चयन कीजिए जो निम्नलिखित श्रेणियों के बीच संबंध को अच्छे से दर्शाता है।
Indonesia, Asia, Bangladesh
इंडोनेशिया, एशिया, बांग्लादेश

(a)
(b)
(c) 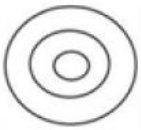
(d)

MP Police Constable Exam- 10 Sep-2023 Shift-2

Ans. (a) : प्रश्नानुसार,
∵ एशिया महाद्विप के अंतर्गत इंडोनेशिया तथा बांग्लादेश अलग-अलग दो देश है।
∴ विकल्प (a) में दिए गए वेन आरेख सही संबंध दर्शाता है।

75. Identify the class that best represents the Venn-diagram.
उस वर्ग की पहचान करें जो वेन-आरेख का सबसे अच्छा प्रतिनिधित्व करता है।

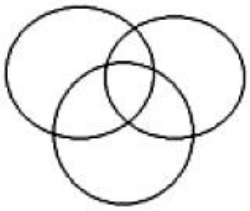

(a) Harappa Civilization, Mohenjo-Daro, Citadel/हड़प्पा सभ्यता, मोहनजो-दारो, नगरकोट
(b) Abolition of sati, Lord William Bentick, Western education/सती प्रथा का उन्मूलन, लॉर्ड विलियम बेंटिक, पश्चिमी शिक्षा
(c) Truck, Ship, Goods/ट्रक, जहाज, माल
(d) Marketing skills, Post-graduates, Manager/विपणन कौशल, स्नातकोत्तर, प्रबंधक

MP Police Constable Exam- 31 August-2023 Shift-3

Ans. (d) : प्रश्नानुसार,
विपणन कौशल, स्नातकोत्तर तथा प्रबंधक दिये गए वेन आरेख का सबसे अच्छा प्रतिनिधित्व करते है।

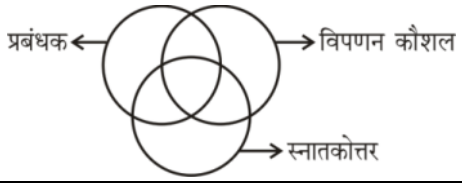

76. Identify the diagram that best represents the relationship among the given classes.
उस आरेख की पहचान करें जो दिए गए श्रेणियों के बीच संबंध का सबसे अच्छा प्रतिनिधित्व करता है।
Diseases, Leprosy, Scurvy
रोग, कुष्ठ रोग, स्कर्वी

(a)
(b) 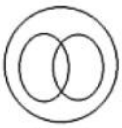
(c) 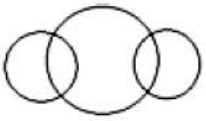
(d) 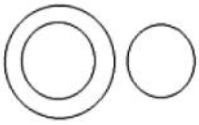

MP Police Constable Exam- 10 Sep-2023 Shift-2

Ans. (a) : प्रश्नानुसार,
रोग के अंतर्गत कुष्ठ रोग तथा स्कर्वी आते है लेकिन कुष्ठ रोग तथा स्कर्वी अलग-अलग है।
अतः विकल्प (a) में दिया गया श्रेणी वेन आरेख का सबसे अच्छा प्रतिनिधित्व करते है।

77. Which of the following diagram indicates the best relation between Pen, Pencil and Paper?
निम्नलिखित में से कौन-सा आरेख पेन, पेंसिल और कागज के बीच सबसे अच्छे संबंध को दर्शाता है?

GET IT ON Google Play Best Study PDF के लिए हमारी App को Download करें "GK Trick By Nitin Gupta"

(a)
(b) 
(c) 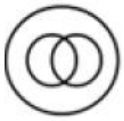
(d)

MP Police Constable Exam- 10 Sep-2023 Shift-2

Ans. (b) : विकल्प (b) में दिए गए वेन-आरेख पेन, पेंसिल और कागज के बीच सही संबंध दर्शाता है क्योंकि पेन, पेंसिल तथा कागज तीनों अलग-अलग वस्तुएँ है।

78. Which one of the following diagrams represents the correct relationship between DOCTORS, SURGEONS and NURSES.
निम्नलिखित में से कौन-सा आरेख डॉक्टर, सर्जनों तथा नर्सों के बीच सही संबंध को दर्शाता है?

(a) 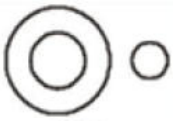
(b) 
(c) 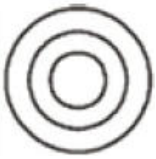
(d)

MP Police Constable Exam- 12 Sep-2023 Shift-1

Ans. (a) : डाक्टर, सर्जन तथा नर्स के बीच सही संबंध दर्शाने वाला वेन आरेख विकल्प (a) में दिया गया है।

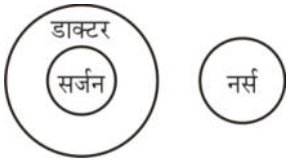

79. Choose the Venn diagram from the given options that best represents the relationship among the following classes.
दिए गए विकल्पों में से वेन आरेख चुनें जो निम्नलिखित वर्गों के बीच संबंधों का सबसे अच्छा प्रतिनिधित्व करता है।

Year, month, day
साल, महीना, दिन

(a)
(b)
(c)
(d)

MP Police Constable Exam- 12 Sep-2023 Shift-1

Ans. (c) : साल, महीना तथा दिन के बीच सही संबंध दर्शाने वाला वेन आरेख विकल्प (c) में दिया गया है।

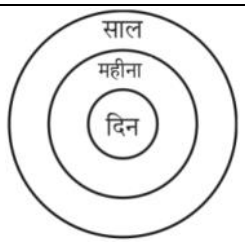

80. Identify the diagram that best represents the relationship among the given classes.
उस आरेख की पहचान करें जो दिए गए श्रेणियों के बीच संबंध का सबसे अच्छा प्रतिनिधित्व करता है।

Humans, Female, Professor
मानव, महिला, प्रोफेसर

(a) 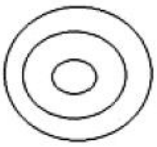
(b) 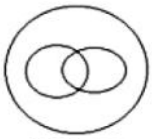
(c) 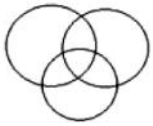
(d) 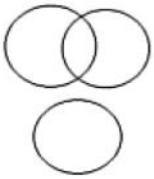

MP Police Constable Exam- 12 Sep-2023 Shift-1

Ans. (b) : मानव, महिला तथा प्रोफेसर के बीच सही वेन आरेख विकल्प (b) में दिया गया है-

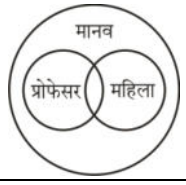

81. Which of the following diagram indicates best relation between City, State and Country?
निम्नलिखित में से कौन-सा आरेख शहर, राज्य और देश के बीच सबसे अच्छे संबंध को दर्शाता है?

(a) 
(b)
(c)
(d)

MP Police Constable Exam- 12 Sep-2023 Shift-1

Ans. (b) : शहर, राज्य और देश के बीच सबसे अच्छे संबंध दर्शाने वाला वेन आरेख विकल्प (b) में दिया गया है।

GET IT ON Google Play Best Study PDF के लिए हमारी App को Download करें "GK Trick By Nitin Gupta"

82. Identify the class that best represents the Venn-diagram.
उस वर्ग की पहचान करें जो वेन-आरेख का सबसे अच्छा प्रतिनिधित्व करता है।

(a) Road, Transport, Bus/सड़क, परिवहन, बस
(b) Gender, Female, Male/लिंग, महिला, पुरुष
(c) Universe, Stars, Sun/ब्रह्मांड, सितारे, सूर्य
(d) Stationary items, Pencils, Potatoes/स्टेशनरी आइटम, पेंसिल, आलू

MP Police Constable Exam- 26 August-2023 Shift-2

Ans. (b) : दिए गए वेन आरेख के बीच संबंध –

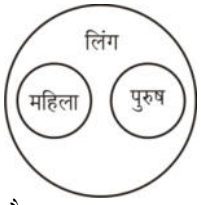

अतः विकल्प (b) सही है।

83. Which of the following diagram indicates best relation between Sister, Mother and Women ?
निम्नलिखित में से कौन-सा आरेख बहन, माँ और महिला के बीच सबसे अच्छे संबंध को दर्शाता है ?

(a)
(b)
(c) 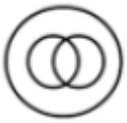
(d) 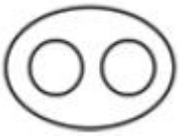

MP Police Constable Exam- 3 Sep-2023 Shift-2

Ans. (c) : प्रश्नानुसार,
विकल्प (c) में दिया गया वेन आरेख बहन, माँ और महिला के बीच सही संबंध दर्शाता है।

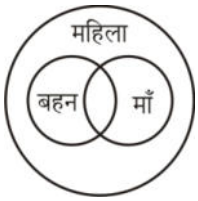

84. Identify the classes that best represents the relationship among the given diagram.
उन श्रेणियों की पहचान करें जो दिए गए आरेख के बीच संबंध का सबसे अच्छा प्रतिनिधित्व करते हैं।

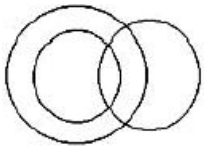

(a) Communism, Mixed economy, Capitalism/साम्यवाद, मिश्रित अर्थव्यवस्था, पूंजीवाद
(b) India, rupees, New Delhi/भारत, रुपये, नई दिल्ली
(c) Air, carbon dioxide, Nitrogen/वायु, कार्बन डाइऑक्साइड, नाइट्रोजन
(d) Gold, Jewellery, Ring/सोना, आभूषण, अंगूठी

MP Police Constable Exam- 29 August-2023 Shift-1

Ans. (d) : प्रश्नानुसार, वेन-आरेख निम्नवत् है-

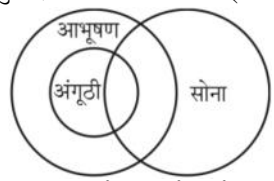

अतः विकल्प (d) में दी गई श्रेणी आरेख के बीच संबंध का सबसे अच्छा प्रतिनिधित्व करता है।

85. Identify the classes that best represents the relationship among the given diagram.
उन वर्गों की पहचान करें जो दिए गए आरेख के बीच संबंध का सबसे अच्छा प्रतिनिधित्व करते हैं।

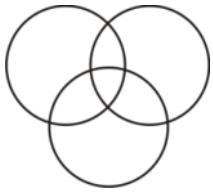

(a) Mother, Female, Police officer/मां, महिला, पुलिस अधिकारी
(b) Doctor, Animals, Earth/डॉक्टर, पशु, पृथ्वी
(c) Flowers, Yellow, Rose/फूल, पीला, गुलाब
(d) Boy, Sportsman, Student/लड़का, खिलाड़ी, छात्र

MP Police Constable Exam- 29 August-2023 Shift-1

Ans. (d) : दिया गया वेन आरेख, लड़का, खिलाड़ी और छात्र का सबसे अच्छा प्रतिनिधित्व करता है।

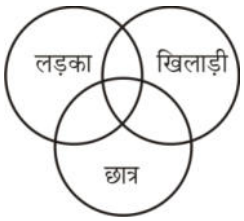

86. Which of the following group best represents the given diagram ?
निम्नलिखित में से कौन-सा समूह दिए गए आरेख का सबसे अच्छा प्रतिनिधित्व करता है ?

(a) Whale, Lion, Mammals/व्हेल, शेर, स्तनधारी
(b) Crocodile, Reptiles, Mammals/मगरमच्छ, सरीसृप, स्तनधारी
(c) Horse, Camel, Carnivorous/घोड़ा, ऊंट, मांसाहारी
(d) Star, Moon, Satellite/तारा, चंद्रमा, उपग्रह

MP Police Constable Exam- 29 August-2023 Shift-1

GET IT ON Google Play Best Study PDF के लिए हमारी App को Download करें "GK Trick By Nitin Gupta"

Ans. (a) : दिए गए आरेख में संबंध निम्नवत् है–

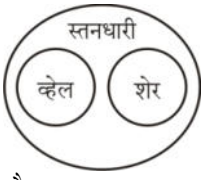

अतः विकल्प (a) सही है।

87. Which of the following diagram indicates best relation between Smartphone, Computer and Electronic devices?
निम्नलिखित में से कौन-सा आरेख स्मार्टफोन, कंप्यूटर और इलेक्ट्रॉनिक उपकरणों के बीच सबसे अच्छे संबंध को दर्शाता है?

(a) 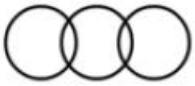
(b)
(c)
(d) 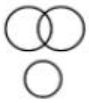

MP Police Constable Exam- 6 Sep-2023 Shift-2

Ans. (c) : दिया गया संबंध आरेख निम्नवत् है।

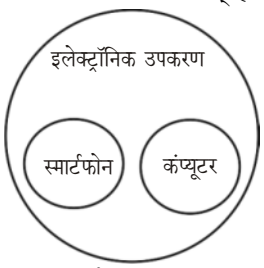

अतः विकल्प (C) सही उत्तर होगा।

88. Identify the classes that best represents the relationship among the given diagram.
उन श्रेणियों की पहचान करें जो दिए गए आरेख के बीच संबंध का सबसे अच्छा प्रतिनिधित्व करते हैं।

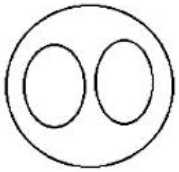

(a) Husband, wife, Son/पति, पत्नी, बेटा
(b) Urban people, Educated, Hard-working/शहरी लोग, शिक्षित, मेहनती
(c) Liquid, Water, Sand/तरल, पानी, रेत
(d) Living beings, Rodents, Men/जीवित प्राणी, कृंतक, पुरुष

MP Police Constable Exam- 3 Sep-2023 Shift-2

Ans. (d) : प्रश्नानुसार,
विकल्प (d) से–
जीवित प्राणी, कृंतक, पुरुष

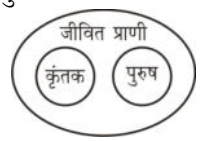

89. Identify the diagram that best represents the relationship among the given classes.
Parrots, Birds, Mice
उस आरेख की पहचान करें जो दिए गए श्रेणियों के बीच संबंध का सबसे अच्छा प्रतिनिधित्व करता है।
तोते, पक्षी, चूहे

(a)
(b) 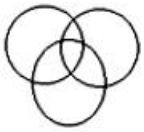
(c)
(d)

MP Police Constable Exam- 3 Sep-2023 Shift-2

Ans. (a) : विकल्प (a) में दिया गया वेन आरेख तोते, पक्षी तथा चूहे के बीच सही संबंध दर्शाता है।

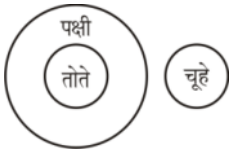

90. Identify the class that best represents the Venn-diagram.
उस वर्ग की पहचान करें जो वेन-आरेख का सबसे अच्छा प्रतिनिधित्व करता है।

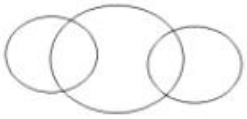

(a) Room, bathroom, wardrobe/कमरा, स्नानघर, अलमारी
(b) Indian economy, Industry, Primary/भारतीय अर्थव्यवस्था, अद्योग, प्राथमिक
(c) Biodegradable substances, wood, paper/ बायोडिग्रेडेबल पदार्थ, लकड़ी, कागज
(d) Mother, female, Police officer/मां, महिला, पुलिस अधिकारी

MP Police Constable Exam- 6 Sep-2023 Shift-2

Ans. (a) : दिया गया वेन ओरेख संबंध निम्नवत् है।

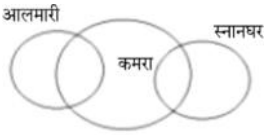

अतः विकल्प (a) सही उत्तर है।

91. Identify the classes that best represents the relationship among the given diagram.
उन श्रेणियों की पहचान करें जो दिए गए आरेख के बीच संबंध का सबसे अच्छा प्रतिनिधित्व करते हैं।

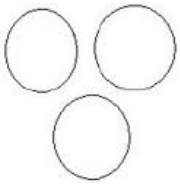

GET IT ON Google Play Best Study PDF के लिए हमारी App को Download करें "GK Trick By Nitin Gupta"

(a) Professor, Teacher, Player/प्रोफेसर, शिक्षक, खिलाड़ी
(b) Electrons, Protons, Atom/इलेक्ट्रॉन, प्रोटॉन, परमाणु
(c) Professionals, Students, IPS/पेशेवर, छात्र, आईपीएस
(d) Mountains, Plateaus, Plains/पर्वत, पठार, मैदान

MP Police Constable Exam- 3 Sep-2023 Shift-1

Ans. (d) : विकल्प (d) में दिया गया वेन आरेख आकृति पर्वत, पठार, मैदान के बीच सम्बन्ध का सबसे अच्छा प्रतिनिधित्व करता है।

92. Identify the diagram that best represents the relationship among the given classes.
Mammals, Giraffe, Animals
उस आरेख की पहचान करें जो दिए गए श्रेणियों के बीच संबंध का सबसे अच्छा प्रतिनिधित्व करता है।
स्तनधारी, जिराफ, पशु

(a) 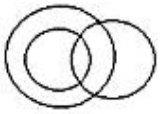
(b)
(c)
(d) 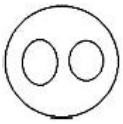

MP Police Constable Exam- 3 Sep-2023 Shift-1

Ans. (c) : विकल्प (c) में दिया गया वेन आरेख आकृति स्तन धारी, जिराफ, पशु के बीच सम्बन्ध का सबसे अच्छा प्रतिनिधित्व करता है।

93. Which of the following indicates the best relation between Trigonometry, Simple interest and Mathematics ?
निम्नलिखित में से कौन-सा त्रिकोणमिति, साधारण ब्याज और गणित के बीच सबसे अच्छे संबंध को दर्शाता है ?

(a)
(b)
(c) 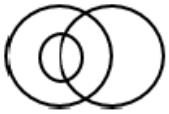
(d)

MP Police Constable Exam- 3 Sep-2023 Shift-1

Ans. (d) : त्रिकोणमिति, साधारण ब्याज और गणित के बीच सही सम्बन्ध को दर्शाने के लिए सही वेन आरेख निम्नवत् है

94. Identify the classes that best represents the relationship among the given diagram.
उन श्रेणियों की पहचान करें जो दिए गए आरेख के बीच संबंध का सबसे अच्छा प्रतिनिधित्व करते हैं।

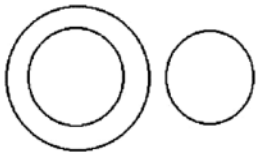

(a) Jain text, Vinaya pitaka, Mahayana Sutra/जैन पाठ, विनय पिटक, महायान सूत्र
(b) Magesthanes, Tripitaka, The Agamas /मेगस्थनीज, त्रिपिटक, आगमासो
(c) Buddhist, Indica, Tripitaka /बौद्ध, इंडिका, त्रिपिटक
(d) Vedas, Regveda, Kaamveda /वेद, ऋग्वेद, कामवेद

MP Police Constable Exam- 1 Sep-2023 Shift-1

Ans. (c) : प्रश्नानुसार,

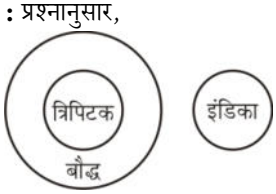

∵ विकल्प (c) का आरेख के बीच संबंध आरेख का सबसे अच्छा प्रतिनिधित्व करता है।
∴ विकल्प (c) सही है।

95. Identify the diagram that best represents the relationship among the given classes.
Sea, Island, Mountain
उस आरेख की पहचान करें जो दिए गए श्रेणियों के बीच संबंध का सबसे अच्छा प्रतिनिधित्व करता है।
समुद्र, द्वीप, पर्वत

(a)
(b)
(c)
(d) 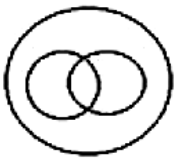

MP Police Constable Exam- 1 Sep-2023 Shift-1

Ans. (c) : संबंध आरेख से–
समुद्र, द्वीप, पर्वत

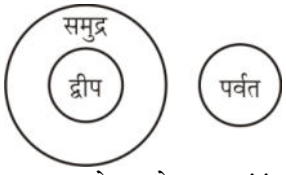

∴ विकल्प (c) का वेन आरेख का संबंध सबसे अच्छा प्रतिनिधित्व करता है।

96. Which of the following diagram indicates best relation between Doctor, Teacher and Postman?
निम्नलिखित में से कौन-सा आरेख डॉक्टर, शिक्षक और डाकिया के बीच सबसे अच्छे संबंध को दर्शाता है?

GET IT ON Google Play Best Study PDF के लिए हमारी App को Download करें "GK Trick By Nitin Gupta"

(a)
(b)
(c) 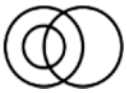
(d) 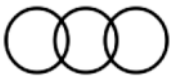

MP Police Constable Exam 1 Sep-2023 Shift-1

Ans. (b) : दिए गए संबंध आरेख से–
डॉक्टर, शिक्षक, डाकिया

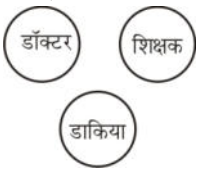

तीनों का अलग-अलग व्यवसाय है, इसलिए विकल्प (b) सबसे अच्छा संबंध दर्शाता है।

97. Choose the Venn diagram from the given options that best represents the relationship among the following classes.
दिए गए विकल्पों में से वेन आरेख चुनें जो निम्नलिखित वर्गों के बीच संबंधों का सबसे अच्छा प्रतिनिधित्व करता है।
Bird, Parrot, Snake
पक्षी, तोता, सांप

(a) 
(b)
(c) 
(d)

MP Police Constable Exam- 11 Sep-2023 Shift-3

Ans. (d) : प्रश्नानुसार, आरेख निम्नवत् है-

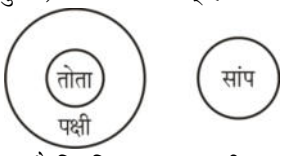

अतः आरेख से स्पष्ट है कि विकल्प (d) सही उत्तर है।

98. In the following question below are given , some statement followed by some conclusion taking the given statement to be true even if they seem to be at variance from commonly known facts, read all conclusion and then decide which of the following conclusion logically follow the given statement.
नीचे दिए गए प्रश्न में कुछ कथन और उनके बाद उन कथनो पर आधारित कुछ निष्कर्ष दिए गए है। हालाँकि उनमें सामान्य ज्ञात तथ्यों से भिन्नता हो सकती हैं।
सभी निष्कर्ष पढ़े फिर निर्धारित करें कि दिए गए कौन-से निष्कर्ष, दिए गए कथनों के आधार पर युक्तिसंगत है।
Statement/कथन:
All blue are white./सभी नीला सफेद है।
No white is black./कोई सफेद काला नहीं है।
Conclusion/निष्कर्ष:
I. Some blue are black./कुछ नीला काला है।
II. All white are blue./सभी सफेद नीला है।

(a) Only conclusion I follow/केवल निष्कर्ष I अनुसरण करता है
(b) Only conclusion II follow/केवल निष्कर्ष II अनुसरण करता है
(c) Both conclusion follows/दोनों निष्कर्ष अनुसरण करते हैं
(d) None follows/कोई अनुसरण नहीं करता है

MP Police Constable Exam- 11 Sep-2023 Shift-3

Ans. (d) : प्रश्नानुसार कथन का आरेख निम्नवत् है-

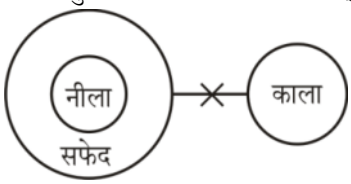

निष्कर्ष :-
I. (×)
II. (×)
अतः कोई भी निष्कर्ष अनुसरण नहीं करता है।

99. Identify the class that best represents the Venn-diagram.
उस वर्ग की पहचान करें जो वेन-आरेख का सबसे अच्छा प्रतिनिधित्व करता है।

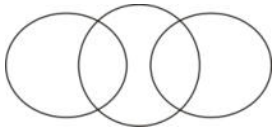

(a) Book, Chapter, Letter/पुस्तक, अध्याय, पत्र
(b) Reptiles, Lizard, Lion/सरीसृप, छिपकली, शेर
(c) Bus, Train, Passenger/बस, ट्रेन, यात्री
(d) Cricketer, Footballer, Bird/क्रिकेटर, फुटबॉलर, पक्षी

MP Police Constable Exam- 11 Sep-2023 Shift-3

Ans. (c) : दिया गया आरेख निम्नवत् है-

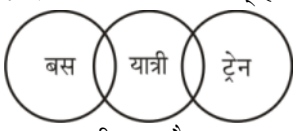

अतः विकल्प (c) सही उत्तर है।

100. Which of the following diagram indicates best relation between United Kingdom, Europe and World?
निम्नलिखित में से कौन-सा आरेख यूनाइटेड किंगडम, यूरोप और विश्व के बीच सबसे अच्छे संबंध को दर्शाता है?

(a)
(b)
(c) 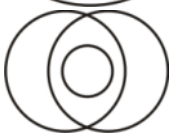
(d)

MP Police Constable Exam- 11 Sep-2023 Shift-3

GET IT ON Google Play Best Study PDF के लिए हमारी App को Download करें "GK Trick By Nitin Gupta"

Ans. (d) : प्रश्नानुसार आरेख निम्नवत् है-

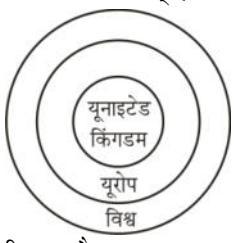

अतः विकल्प (d) सही उत्तर है।

101. Select the diagram that best illustrates the relationship between Butterfly, Arthropods and flying creatures?
उस आरेख का चयन करें जो तितली, सन्धिपाद और उड़ने वाले प्राणियों के बीच के संबंध को सबसे अच्छी तरह से दर्शाता है?

(a)
(b) 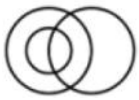
(c)
(d) 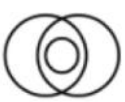

MP Police Constable Exam- 02 Feb-2022 Shift-1

Ans. (d) : दिए गए वर्गों, तितली, संधिपाद और उड़ने वाले प्राणियों के बीच सम्बन्ध आरेख होगा-

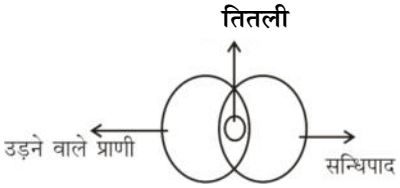

102. Identify the class that best represents the Venn-diagram.
उस वर्ग की पहचान करें जो वेन-आरेख को सबसे अच्छा प्रतिनिधित्व करता है।

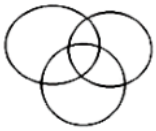

(a) Dog, Pet animals, animals/कुत्ता, पालतू जानवर, जानवर
(b) Mammal, cow, bat/स्तनपायी, गाय, बल्ला
(c) Couple, Married, women/युगल, विवाहित, महिलाएं
(d) Clock, time, second/घड़ी, समय, सेकंड

MP Police Constable Exam- 02 Feb-2022 Shift-1

Ans. (c) : प्रश्नगत वेन आरेख - युगल, विवाहित तथा महिलाओं के मध्य संबंध का सबसे अच्छा प्रतिनिधित्व करता है।

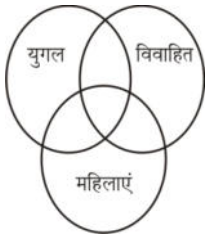

103. Which of the following diagram indicates the best relation between Human, Cow and Mammals?
निम्नलिखित में से कौन सा आरेख मानव, गाय और स्तनधारियों के बीच सबसे अच्छे संबंध को दर्शाता है?

(a)
(b)
(c)
(d) 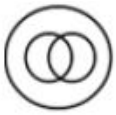

MP Police Constable Exam- 09 Feb-2022 Shift-1
MP Police Constable Exam- 4 Sep-2023 Shift-3

Ans. (a) : मानव तथा गाय एक दूसरे से भिन्न हैं लेकिन वे दोनों स्तनधारियों के अन्तर्गत आते हैं। अतः इनके मध्य सम्बन्ध दर्शाने वाला उपयुक्त वेन आरेख है -

104. Identify the diagram that best represents the relationship among the given classes.
Parents, Pilots, Poor People.
उस आरेख की पहचान करें जो दिए गए श्रेणियों के बीच संबंध सबसे अच्छा प्रतिनिधित्व करता है।
अभिभावक, पायलट, गरीब लोग।

(a)
(b) 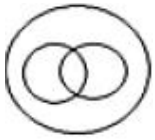
(c)
(d)

MP Police Constable Exam- 01 Feb-2022 Shift-1

Ans. (d) : अभिभावक, पायलट तथा गरीब लोग के बीच संबंध का सबसे अच्छा प्रतिनिधित्व करने वाला वेन आरेख है-

105. Which of the following diagram indicates best relation between Gun, knife and Firearms?
निम्नलिखित में से कौन-सा आरेख बंदूक, चाकू और आग्नेयास्त्रों के बीच अच्छे संबंध को दर्शाता है?

GET IT ON Google Play Best Study PDF के लिए हमारी App को Download करें "GK Trick By Nitin Gupta"

(a) (b)

(c)  (d) 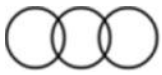

MP Police Constable Exam- 01 Feb-2022 Shift-1

Ans. (a) : बन्दूक आग्नेयास्त्रों के अन्तर्गत आती है जबकि चाकू इन दोनों से भिन्न है। अतः इनके मध्य सही सम्बन्ध दर्शाने वाला सर्वाधिक उपयुक्त वेन आरेख निम्नवत् है-

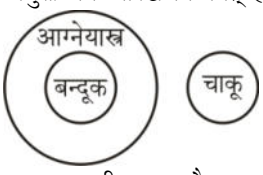

अतः विकल्प (a) अभीष्ट उत्तर है।

106. Identify the classes that best represents the relationship among the given diagram.
उन वर्गों की पहचान करें जो दिए गए आरेख के बीच संबंध का सबसे अच्छा प्रतिनिधित्व करते हैं।

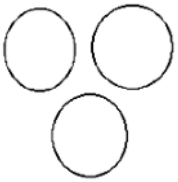

(a) Primary, Secondary, Tertiary/प्राथमिक, माध्यमिक, तृतीयक
(b) Industry, Primary, Secondary/उद्योग, प्राथमिक, माध्यमिक
(c) Tertiary, Industry, Secondary/तृतीयक, उद्योग, माध्यमिक
(d) Indian economy, Industry, Primary/भारतीय अर्थव्यवस्था, उद्योग, प्राथमिक

MP Police Constable Exam- 27 August-2023 Shift-2

Ans. (a) : प्रश्नानुसार,
सही संबंध दर्शाने वाला वेन आरेख निम्नवत् है।

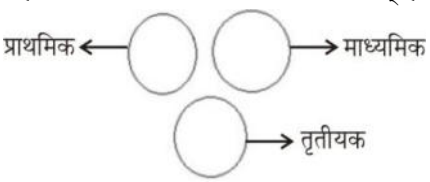

अतः प्राथमिक, माध्यमिक और तृतीयक दिए गए आरेख के बीच संबंध को सबसे अच्छा प्रतिनिधित्व करते हैं।

107. Identify the classes that best represents the relationship among the given diagram.
उन वर्गों की पहचान करें जो दिए गए आरेख के बीच का सबसे अच्छा प्रतिनिधित्व करते हैं।

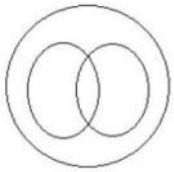

(a) Stationary, paper, Ink/स्टेशनरी, कागज, इंक
(b) Oil, wick, Lamp/तेल, बाती, दीपक
(c) Dog, Pet animals, animals/कुत्ता, पालतू जानवर, जानवर
(d) Mammal, cow, bat/स्तनपायी, गाय, बल्ला

MP Police Constable Exam- 09 Feb-2022 Shift-1

Ans. (c) : कुछ कुत्ते पालतू होते है और सभी कुत्ते तथा पालतू जानवर, जानवर के अन्तर्गत आते है। अतः विकल्प (c) के वर्ग दिए गए आरेख के बीच का संबंध सबसे अच्छा प्रतिनिधित्व करते है।

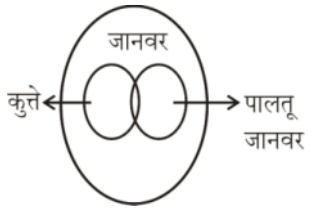

108. Which of the following groups best represents the given diagram ?
निम्नलिखित में से कौन-सा समूह दिए गए आरेख का सबसे अच्छा प्रतिनिधित्व करता है?

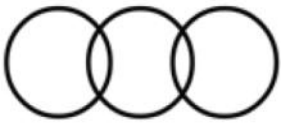

(a) Couple, Male, Female/युगल, पुरुष, महिला
(b) Water, Sugar, Salt/पानी, चीनी, नमक
(c) Mother, Father, Daughter/माँ, पिता, बेटी
(d) Police, Male, Thief/पुलिस, पुरूष, चोर

MP Police Constable Exam- 10 Jan -2022 Shift-2

Ans. (a) : दिया गया वेन आरेख, युगल, पुरुष, महिला के बीच संबंध का सबसे अच्छा प्रतिनिधित्व करता है।

109. Which of the following diagrams depicts the relationship among cats, pet animals and dogs?
निम्नलिखित में से कौन-सा चित्र बिल्लियों, पालतू जानवरों व कुत्तों के मध्य सम्बन्ध को दर्शाता है?

(a) 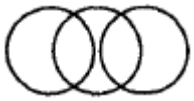 (b)

(c) (d) 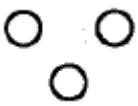

MP Police Constable Recruitment Test - 2013

Ans. (a) : कुत्ता, बिल्ली से, अलग है परंतु दोनों में कुछ पालतू पशु के अंतर्गत आते है जिनका वेन आरेख निम्नवत् है।

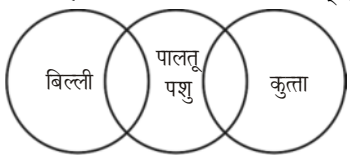

GET IT ON Google Play Best Study PDF के लिए हमारी App को Download करें "GK Trick By Nitin Gupta"

110. Which of the following represents 'stone, plant and fire'?
निम्नलिखित में से कौन-सा 'पत्थर, पादप तथा आग' को प्रदर्शित करता है?

(a) 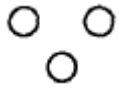

(b) 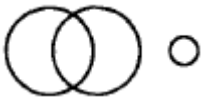

(c)

(d) 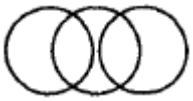

MP Police Constable Recruitment Test - 2013

Ans. (a) : पत्थर, पादप और आग के बीच सीधा संबंध नहीं होता। जिनका वेन आरेख निम्नवत् है।

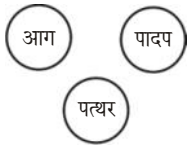

111. Select the option that is true about the Statements and Conclusions given:
वह विकल्प चुनिए जो दिए गए कथनों एवं निष्कर्षों के बारे में सही है।

Statements:/कथन:

All angels are rooks
सभी फरिश्ते ठग हैं।

All rooks are bishops.
सभी ठग बिशप हैं।

Conclusions:/निष्कर्ष:

I. No bishops are angels.
कोई भी बिशप फरिश्ते नहीं हैं।

II. All angels are bishops.
सभी फरिश्ते बिशप है।

(a) Only conclusion I follows
केवल निष्कर्ष I निकलता है

(b) Only conclusion II follows
केवल निष्कर्ष II निकलता है

(c) Both conclusion I and II follows
दोनों निष्कर्ष I और II निकालते हैं

(d) None of the conclusion I or II follows
निष्कर्ष I या II में से कोई नहीं निकलता है

MP Police Constable Exam- 18 July-2016 - 9: am

Ans : (b) कथनानुसार वेन आरेख बनाने पर-

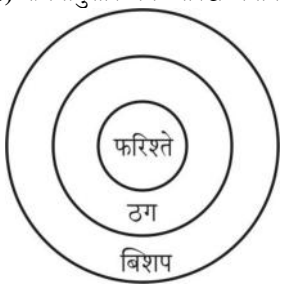

निष्कर्ष: (i) – ×
(ii) – ✓
केवल निष्कर्ष II सही है।

112. Select the option that is true about the Statements and Conclusions given:/वह विकल्प चुनिए जो दिए गए कथनों एवं निष्कर्षों के बारे में सही है।

Statements:/कथन:

Some eagles are oranges./कुछ चीलें नारंगी है।

Some enagles are not green./कुछ चीलें हरी नहीं है।

Conclusions:/निष्कर्ष:

I. All green are oranges./सभी हरे नारंगी हैं।

II. All oranges are eagles./सभी नारंगी चीलें है।

(a) Only conclusion I follows
केवल निष्कर्ष I निकलता है

(b) Only conclusion II follows
केवल निष्कर्ष II निकलता है

(c) Both conclusion I and II follows
दोनों निष्कर्ष I और II निकलते हैं

(d) None of the conclusion I or II follows
निष्कर्ष I या II में से कोई नहीं निकलता है

MP Police Constable Exam- 18 July-2016 - 9: am

Ans : (d) प्रश्नानुसार, वेन आरेख बनाने पर–

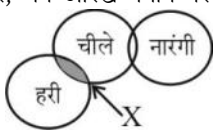

निष्कर्ष: (i) – ×
(ii) – ×
निष्कर्ष I या II में से कोई नहीं निकलता है।

113. Select the option that is true about the Statements and Conclusions given:
वह विकल्प चुनिए जो दिए गए कथनों एवं निष्कर्षों के बारे में सही है।

Statements:/कथन:

No plugs are trees.
कोई भी प्लग पेड़ नहीं है।

All threads are plugs.
सभी धागे प्लग है।

Conclusions :/निष्कर्ष :

I. No threads are trees.
कोई भी धागे पेड़ नहीं हैं।

II. Some plugs are trees.
कुछ प्लग पेड़ हैं।

(a) Only conclusion I follows
केवल निष्कर्ष I निकलता है

(b) Only conclusion II follows
केवल निष्कर्ष II निकलता है

(c) Both conclusion I and II follows
दोनों निष्कर्ष I और II निकलते हैं

(d) None of the conclusion I or II follows
निष्कर्ष I या II में से कोई नहीं निकलता है

MP Police Constable Exam- 18 July-2016 - 9: am

Ans : (a) कथनानुसार वेन आरेख बनाने पर-

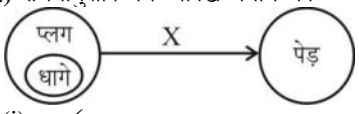

निष्कर्ष: (i) – ✓
(ii) – ×
केवल निष्कर्ष I सही है।

GET IT ON Google Play Best Study PDF के लिए हमारी App को Download करें "GK Trick By Nitin Gupta"

114. Select the option that is true about the Statements and Conclusions given:
वह विकल्प चुनिए जो दिए गए कथनों एवं निष्कर्षों के बारे में सही है।

Statements:/कथनः

All shampoos are soaps./सभी शैंपू साबुन हैं।

Some shampoos are not oils/कुछ शैंपू तेल नहीं है।

Conclusions:/निष्कर्षः

(I) All oils are soaps/ I. सभी तेल साबुन हैं।

(II) All soaps are oils/ II. सभी साबुन तेल हैं।

(a) Only conclusion I follows
केवल निष्कर्ष I निकलता है

(b) Only conclusion II follows
केवल निष्कर्ष II निकलता है

(c) Both conclusion I and II follows
दोनों निष्कर्ष I और II निकलते हैं

(d) None of the conclusion I or II forllows
निष्कर्ष I या II में से कोई नहीं निकलता है।

MP Police Constable Exam 17 July 2016 - 12:am

Ans. (d)

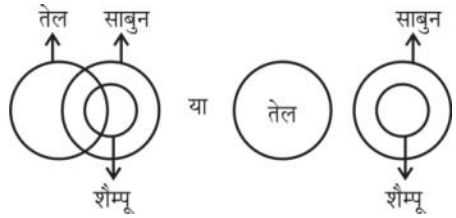

निष्कर्षः (i) – ×

(ii) – ×

आरेख द्वारा स्पष्ट है कि निष्कर्ष I या II में से कोई नहीं निकलता है।

115. Select the option that is true about the Statements and Conclusions given:
वह विकल्प चुनिए जो दिए गए कथनों एवं निष्कर्षों के बारे में सही है।

Statements:/कथनः

All games are movies/सभी खेल फिल्में हैं

All movies are bags/सभी फिल्में बैग हैं

Conclusions:/निष्कर्षः

(I) All games are bags/ I. सभी खेल बैग हैं

(II) All bags are games/ II. सभी बैग खेल हैं

(a) Only conclusion I follows
केवल निष्कर्ष I निकलता है

(b) Only conclusion II follows
केवल निष्कर्ष II निकलता है

(c) Both conclusion I and II follows
दोनों निष्कर्ष I और II निकलते हैं

(d) None of the conclusion I or II follows
निष्कर्ष I या II में से कोई नहीं निकलता है

MP Police Constable Exam 17 July 2016 - 12:am

Ans. (a) प्रश्नानुसार वेन आरेख बनाने पर-

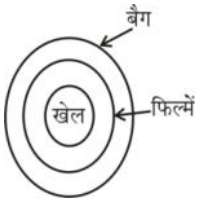

चित्रानुसार,

निष्कर्ष (i) (✓)

(ii) (×)

अतः स्पष्ट है कि केवल निष्कर्ष I निकलता है।

116. Select the option that is true about the statements and conclusions given
वह विकल्प चुनिए जो दिए गए कथनों एवं निष्कर्षों के बारे में सही है।

Sattements/कथन :

All teachers are students/सभी शिक्षक छात्र हैं

All students are professors/सभी छात्र प्रोफेसर हैं

Conclusions:/निष्कर्ष :

I. All teachers are professors/ सभी शिक्षक प्रोफेसर हैं

II. All professors are teachers/सभी प्रोफेसर शिक्षक हैं

(a) Only conclusion I follows
केवल निष्कर्ष I निकलता है

(b) Only conclusion II follows
केवल निष्कर्ष II निकलता है

(c) Both conclusion I and II follows
दोनों निष्कर्ष I और II निकलते हैं

(d) None of the conclusion I or II follows
निष्कर्ष I या II में से कोई नहीं निकलता है

MP Police Constable Exam 19 July 2016 - 9:am

Ans : (a)

अतः निष्कर्ष I सही है।

117. In the question given below, some statements are given followed by few conclusions. You have to consider the statements to be true even they seem to be at variance from commonly known facts. You have to decide which of the given conclusions, if any follow from the given statements.

Statements:

Some mocks are exams.

Some exams are banks.

No bank is a local.

Conclusions:

I. Some mocks are banks.

II. All exams are local.

GET IT ON Google Play Best Study PDF के लिए हमारी App को Download करें "GK Trick By Nitin Gupta"

नीचे दिए गए प्रश्न में, कुछ कथन और उसके बाद कुछ निष्कर्ष दिए गए हैं। आपको कथनों को सत्य मानना है, भले ही वे सामान्यतः ज्ञात तथ्यों से भिन्न प्रतीत होते हों। आपको यह तय करना है कि दिए गए निष्कर्षों में से कौन-सा, यदि कोई हो, दिए गए कथनों का अनुसरण करता है।

कथनः

कुछ मॉक परीक्षाएं हैं।

कुछ परीक्षाएं बैंक हैं।

कोई भी बैंक स्थानीय नहीं है।

निष्कर्षः

I. कुछ मॉक बैंक हैं।

II. सभी परीक्षाएं स्थानीय हैं।

(a) only conclusion I follows/केवल निष्कर्ष I अनुसरण करता है

(b) only conclusions II follows/केवल निष्कर्ष II अनुसरण करता है

(c) neither conclusion I nor II follows/न तो निष्कर्ष I और न ही II अनुसरण करता है

(d) both conclusion I and II follow/निष्कर्ष I और II दोनों अनुसरण करते हैं।

MP Police Constable Exam- 18 August-2023 Shift-1

Ans. (c) : प्रश्नानुसार,

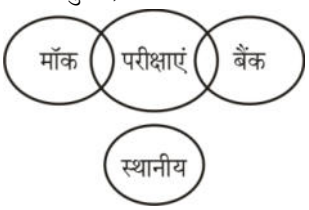

निष्कर्ष-

I. (×)

II. (×)

अतः न तो निष्कर्ष I और न ही II अनुसरण करता है।

118. In the question given below, some statements are given followed by few conclusions. You have to consider the statements to be true even they seem to be at variance from commonly known facts. You have to decide which of the given conclusions, if any follow from the given statements.

नीचे दिए गए प्रश्न में, कुछ कथन और उसके बाद कुछ निष्कर्ष दिए गए हैं। आपको कथनों को सत्य मानना है, भले ही वे सामान्यतः ज्ञात तथ्यों से भिन्न प्रतीत होते हों। आपको यह तय करना है कि दिए गए निष्कर्षों में से कौन-सा, यदि कोई हो, दिए गए कथनों का अनुसरण करता है।

Statements/कथन:

All banks are shops./सभी बैंक दुकानें हैं।

Some shops are houses./कुछ दुकानें, घर हैं।

Conclusions/निष्कर्ष:

I. All banks are houses./सभी बैंक घर हैं।

II. Some shops are banks./कुछ दुकानें बैंक हैं।

(a) only conclusion I follows/केवल निष्कर्ष I अनुसरण करता है

(b) only conclusions II follows/ केवल निष्कर्ष II अनुसरण करता है

(c) either conclusion I or II follows/या तो निष्कर्ष I या II अनुसरण करता है

(d) both conclusion I and II follow/निष्कर्ष I और II दोनों अनुसरण करते हैं

MP Police Constable Exam- 12 August-2023 Shift-2

Ans. (b) : कथनानुसार वेन आरेख निम्नवत् है।

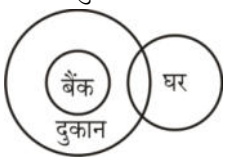

निष्कर्ष I – असत्य

निष्कर्ष II – सत्य

उपर्युक्त वेन-आरेख से स्पष्ट है कि, केवल निष्कर्ष II अनुसरण करता है।

119. In the question below, there are few statements followed by few conclusions. You have to take the given statements to be true even if they seem to be at variance with commonly known facts and then decide which of the given conclusion logically follow(s) from the given statements.

नीचे दिए गए प्रश्न में, कुछ कथनों के बाद कुछ निष्कर्ष दिए गए हैं। आपको दिए गए कथनों को सत्य मानना है, भले ही वे सामान्यतः ज्ञात तथ्यों से भिन्न प्रतीत होते हों और फिर निर्णय लें कि दिए गए निष्कर्षों में से कौन-सा दिए गए कथनों का तार्किक रूप से अनुसरण करता है।

Statements/कथन:

Some banks are private./कुछ बैंक, प्राइवेट हैं।

No private is public./कोई भी प्राइवेट, पब्लिक नहीं है।

All public are schools./सभी पब्लिक, स्कूल हैं।

Conclusions/निष्कर्ष:

I. Some banks are not public./कुछ बैंक, पब्लिक नहीं हैं।

II. No private is school./कोई भी प्राइवेट, स्कूल नहीं है।

(a) Only conclusion I follows/केवल निष्कर्ष I अनुसरण करता है

(b) Only conclusion II follows/केवल निष्कर्ष II अनुसरण करता है

(c) Either conclusion I or II follows/या तो निष्कर्ष I या II अनुसरण करता है

(d) Neither conclusion I nor II follows/न तो निष्कर्ष I न ही II अनुसरण करता है

MP Police Constable Exam- 12 August-2023 Shift-2

GET IT ON Google Play Best Study PDF के लिए हमारी App को Download करें "GK Trick By Nitin Gupta"

Ans. (a) : कथनानुसार वेन आरेख निम्नवत् है।

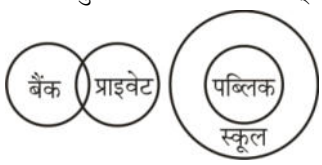

या,

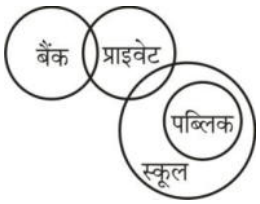

निष्कर्ष I – सत्य

निष्कर्ष II – असत्य

उपर्युक्त वेन-आरेख से स्पष्ट है कि, केवल निष्कर्ष I अनुसरण करता है।

120. In the question given below, some statements are given followed by few conclusions. You have to consider the statements to be true even they seem to be at variance from commonly known facts. You have to decide which of the given conclusions, if any follow from the given statements.

Statements:

All clocks are rocks.

No calendar is a mock.

Some clocks are calendars.

Conclusions:

I. No clock is a mock.

II. Some rocks are clock.

नीचे दिए गए प्रश्न में, कुछ कथन और उसके बाद कुछ निष्कर्ष दिए गए हैं। आपको कथनों को सत्य मानना है, भले ही वे सामान्यतः ज्ञात तथ्यों से भिन्न प्रतीत होते हों, आपको यह तय करना है कि दिए गए निष्कर्षों में से कौन सा, यदि कोई हो, दिए गए कथनों का अनुसरण करता है।

कथन:

सभी घड़ियां चट्टानें हैं।

कोई भी कैलेंडर नकली नहीं है।

कुछ घड़ियाँ कैलेंडर हैं।

निष्कर्ष:

I. कोई भी घड़ी नकली नहीं है।

II. कुछ चट्टानें घड़ियां हैं।

(a) only conclusion I follows/केवल निष्कर्ष I अनुसरण करता है

(b) only conclusions II follows/ केवल निष्कर्ष II अनुसरण करता है

(c) either conclusion I or II follows/या तो निष्कर्ष I या II अनुसरण करता है।

(d) both conclusion I and II follow/निष्कर्ष I और II दोनों अनुसरण करते हैं।

MP Police Constable Exam- 13 August-2023 Shift-1

Ans. (b) : प्रश्नानुसार,

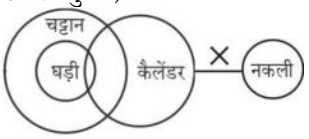

निष्कर्ष:-

I. (×)

II. (✓)

अतः केवल निष्कर्ष II अनुसरण करता है।

121. In the question below, there are few statements followed by few conclusions. You have to take the given statements to be true even if they seem to be at variance with commonly known facts and then decide which of the given conclusion logically follow(s) from the given statements.

Statements:

All drops are not decrease.

Some decrease are replace.

All replace are decline.

Conclusions:

I. Some drop are not replace.

II. All drop are replace.

नीचे दिए गए प्रश्न में, कुछ कथनों के बाद कुछ निष्कर्ष दिए गए हैं। आपको दिए गए कथनों को सत्य मानना है, भले ही वे सामान्यतः ज्ञात तथ्यों से भिन्न प्रतीत हों और फिर निर्णय लें कि दिए गए निष्कर्षों में से कौन-सा दिए गए कथनों का तार्किक रूप से अनुसरण करता है।

कथन:

सभी बूंद, न्यून नहीं हैं।

कुछ न्यून, प्रतिस्थापित हैं।

सभी प्रतिस्थापित, क्षय हैं।

निष्कर्ष:

I. कुछ बूंद, प्रतिस्थापित नहीं हैं।

II. सभी बूंद, प्रतिस्थापित हैं।

(a) only conclusion I follows/केवल निष्कर्ष I अनुसरण करता है

(b) only conclusions II follows/ केवल निष्कर्ष II अनुसरण करता है

(c) either conclusion I or II follows/या तो निष्कर्ष I या II अनुसरण करता है।

(d) Neither conclusion I nor II follows/न तो निष्कर्ष I न ही II अनुसरण करता है

MP Police Constable Exam- 13 August-2023 Shift-1

Ans. (d) : कथनानुसार वेन आरेख बनाने पर-

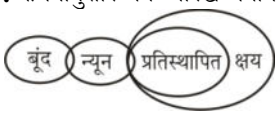

या

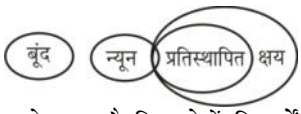

उपर्युक्त आरेख से स्पष्ट है कि, दोनों निष्कर्षों में सीधा-सीधा कोई भी संबंध स्थापित नहीं हो रहा है। अतः न तो निष्कर्ष I और न ही II अनुसरण करता है।

GET IT ON Google Play Best Study PDF के लिए हमारी App को Download करें "GK Trick By Nitin Gupta"

122. In the question given below, some statements are given followed by few conclusions. You have to consider the statements to be true even they seem to be at variance from commonly known facts. You have to decide which of the given conclusions, if any follow from the given statements.

Statements:

All Greeks are Romans.

Some Romans are Tandas.

Some Gangus are Tandas.

Conclusions:

I. Some Romans are Tandas.

II. All Greeks are Gangus.

नीचे दिए गए प्रश्न में, कुछ कथन और उसके बाद कुछ निष्कर्ष दिए गए हैं। आपको कथनों को सत्य मानना है, भले ही वे सामान्यतः ज्ञात तथ्यों से भिन्न प्रतीत होते हों, आपको यह तय करना है कि दिए गए निष्कर्षों में से कौन सा, यदि कोई हो, दिए गए कथनों का अनुसरण करता है।

कथनः

सभी यूनानी रोमन हैं।

कुछ रोमन टांडा हैं।

कुछ गंगुस टांडा हैं।

निष्कर्षः

I. कुछ रोमन टांडा हैं।

II. सभी यूनानी गंगुस हैं।

(a) only conclusion I follows/केवल निष्कर्ष I अनुसरण करता है

(b) only conclusions II follows/ केवल निष्कर्ष II अनुसरण करता है

(c) either conclusion I or II follows/या तो निष्कर्ष I या II अनुसरण करता है।

(d) both conclusion I and II follow/निष्कर्ष I और II दोनों अनुसरण करते हैं।

MP Police Constable Exam- 13 August-2023 Shift-2

Ans. (a) : प्रश्नानुसार, वेन-आरेख बनाने पर-

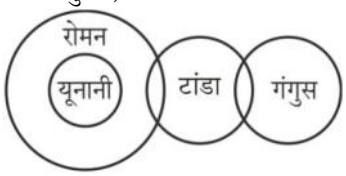

निष्कर्षः-

I. (✓)

II. (×)

अतः केवल निष्कर्ष I अनुसरण करता है।

123. In the question, assuming the given statements to be true, find which of the two conclusions I and II given below them is/are followed.

Statements:

I. All fans are A.C.

II. Some T.V. are A.C.

III. Some laptops are T.V.

Conclusions:

I. All fans are TV.

II. All laptops are fans.

प्रश्न में, दिए गए कथनों को सत्य मानते हुए, ज्ञात कीजिए कि उनके नीचे दिए गए दो निष्कर्ष I और II में से कौन-सा अनुसरण करता हैं।

कथनः

I. सभी पंखे ए.सी. हैं।

II. कुछ टी.वी. ए.सी. हैं।

III. कुछ लैपटॉप टी.वी. हैं।

निष्कर्षः

I. सभी पंखे टीवी हैं।

II. सभी लैपटॉप पंखे हैं।

(a) only conclusion I follows/केवल निष्कर्ष I अनुसरण करता है

(b) only conclusions II follows/ केवल निष्कर्ष II अनुसरण करता है

(c) either conclusion I or conclusion II follows/या तो निष्कर्ष I या II अनुसरण करता है।

(d) Neither conclusion I nor conclusion II follows/न तो निष्कर्ष I न ही II अनुसरण करता है

MP Police Constable Exam- 13 August-2023 Shift-2

Ans. (d) : प्रश्नानुसार, वेन-आरेख बनाने पर-

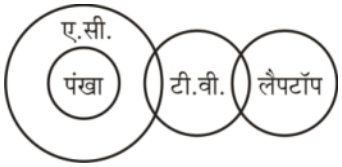

निष्कर्षः-

I. (×)

II. (×)

अतः न तो निष्कर्ष I न ही निष्कर्ष II अनुसरण करता है।

124. In the question given below, some statements are given followed by few conclusions. You have to consider the statements to be true even they seem to be at variance from common conclusions, if any follow from the given statements.

Statements:

Some medicines are tablets.

All tablets are effective.

Conclusions:

I. Some tablets are effective.

II. No medicine is effective.

नीचे दिए गए प्रश्न में, कुछ कथन और उसके बाद कुछ निष्कर्ष दिए गए हैं। आपको कथनों को सत्य मानना है, भले ही वे सामान्यतः ज्ञात तथ्यों से भिन्न प्रतीत होते हों। आपको यह तय करना है कि दिए गए निष्कर्षों में से कौन-सा, यदि कोई

कथनः

कुछ दवाइयाँ गोलियाँ हैं।

सभी गोलियाँ प्रभावी हैं।

निष्कर्षः

I. कुछ गोलियाँ प्रभावी हैं।

II. कोई दवा प्रभावी नहीं है।

GET IT ON Google Play Best Study PDF के लिए हमारी App को Download करें "GK Trick By Nitin Gupta"

(a) only conclusion I follows/केवल निष्कर्ष I अनुसरण करता है
(b) only conclusions II follows/केवल निष्कर्ष II अनुसरण करता है
(c) either conclusion I or II follows/या तो निष्कर्ष I या II अनुसरण करता है
(d) both conclusion I and II follow/निष्कर्ष I और II दोनों अनुसरण करते हैं

MP Police Constable Exam- 16 August-2023 Shift-1

Ans. (a) : कथनानुसार, वेन आरेख बनाने पर,

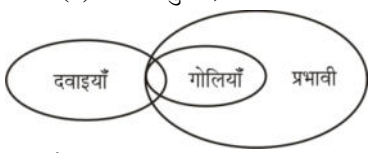

निष्कर्ष-

I - (✓)
II- (×)

उपर्युक्त आरेख से स्पष्ट है कि केवल निष्कर्ष I अनुसरण करता है।

125. In each question below, two statements are given followed by two conclusions numbered I and II. You have to take the given statements to be true even if they seem to be at variance then decide which of the given conclusions logically follow(s) from the given statements, disregarding the commonly known facts.

Statements:
All bullets are guns.
Some pens are guns.
Conclusions:
I. No pen is a gun.
II. All pens are bullets.

नीचे दिए गए प्रत्येक प्रश्न में दो कथन और उसके बाद I और II क्रमांकित दो निष्कर्ष दिए गए हैं। आपको दिए गए कथनों को सत्य मानना है, भले ही वे सामान्यतः ज्ञात तथ्यों से भिन्न प्रतीत होते हों। सभी निष्कर्षों को पढ़ें और फिर तय करें कि दिए गए कथनों का तार्किक रूप से अनुसरण करता है।

कथनः
सभी गोलियाँ बंदूकें हैं।
कुछ कलम बंदूकें हैं।
निष्कर्षः
I. कोई कलम बंदूक नहीं है।
II. सभी कलम गोलियां हैं।

(a) Either conclusion I or II follows/या तो निष्कर्ष I या II अनुसरण करता है
(b) Only conclusion I follows/केवल निष्कर्ष I अनुसरण करता है
(c) Neither conclusion I nor II follows/न ही निष्कर्ष I न ही II अनुसरण करता है
(d) Only conclusion II follows/केवल निष्कर्ष II अनुसरण करता है

MP Police Constable Exam- 16 August-2023 Shift-1

Ans. (c) : कथनानुसार, वेन आरेख बनाने पर-

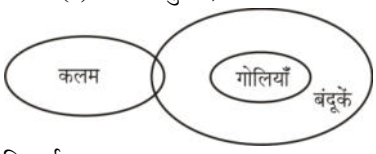

निष्कर्ष-

I - (×)
II- (×)

उपर्युक्त आरेख से स्पष्ट है कि, न ही निष्कर्ष (I) न ही (II) अनुसरण करता है।

126. In the question given below, some statements are given followed by few conclusions. You have to consider the statements to be true even they seem to be at variance from commonly known facts. You have to decide which of the given conclusions, if any follow from the given statements.

नीचे दिए गए प्रश्न में, कुछ कथन और उसके बाद कुछ निष्कर्ष दिए गए हैं। आपको कथनों को सत्य मानना है, भले ही वे सामान्यतः ज्ञात तथ्यों से भिन्न प्रतीत होते हों। आपको यह तय करना है कि दिए गए निष्कर्षों में से कौन-सा, यदि कोई हो, दिए गए कथनों का अनुसरण करता है।

Statements/कथन :
Some cups are bolts./कुछ कप बोल्ट हैं।
All bolts are balls./सभी बोल्ट गेंदें हैं।
Conclusions/निष्कर्ष :
I. Some balls are cups./कुछ गेंदें कप हैं।
II. Some balls are bolts./कुछ गेंदें बोल्ट हैं।

(a) only conclusion I follows/केवल निष्कर्ष I अनुसरण करता है
(b) only conclusions II follows/केवल निष्कर्ष II अनुसरण करता है
(c) either conclusion I or II follows/या तो निष्कर्ष I या II अनुसरण करता है
(d) both conclusion I and II follow/निष्कर्ष I और II दोनों अनुसरण करते हैं

MP Police Constable Exam- 12 August-2023 Shift-3

Ans. (d) : कथनानुसार आरेख खींचने पर-

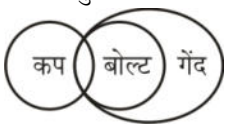

निष्कर्षः

I. (✓)
II. (✓)

अतः निष्कर्ष I और II दोनों अनुसरण करते हैं।

127. In the question below, there are few statements followed by few conclusions. You have to take the given statements to be true even if they seem to be at variance with commonly known facts and then decide which of the given conclusion logically follow(s) from the given statements.

GET IT ON Google Play Best Study PDF के लिए हमारी App को Download करें "GK Trick By Nitin Gupta"

नीचे दिए गए प्रश्न में, कुछ कथन और उसके बाद कुछ निष्कर्ष दिए गए हैं। आपको कथनों को सत्य मानना है, भले ही वे सामान्यतः ज्ञात तथ्यों से भिन्न प्रतीत होते हों। आपको यह तय करना है कि दिए गए निष्कर्षों में से कौन-सा, यदि कोई हो, दिए गए कथनों का अनुसरण करता है।

Statements/कथन :

Some short are tall./कुछ छोटे, लंबे हैं।

All tall are radius./सभी लंबे, त्रिज्या हैं।

All circles are tall./सभी वृत्त, लंबे हैं।

Conclusions/निष्कर्ष :

I. All circle are radius./सभी वृत्त, त्रिज्या हैं।

II. No radius is short./कोई भी त्रिज्या, छोटी नहीं है।

(a) only conclusion I follows/केवल निष्कर्ष I अनुसरण करता है

(b) only conclusions II follows/केवल निष्कर्ष II अनुसरण करता है

(c) either conclusion I or II follows/या तो निष्कर्ष I या II अनुसरण करता है

(d) Neither conclusion I nor II follows/न तो निष्कर्ष I न ही II अनुसरण करता है

MP Police Constable Exam- 12 August-2023 Shift-3

Ans. (a) : प्रश्नानुसार, वेन आरेख बनाने पर-

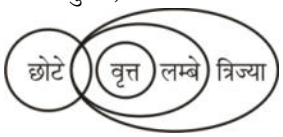

निष्कर्ष:

I. (✓)

II. (×)

अतः केवल निष्कर्ष (I) अनुसरण करता है।

128. In the question given below, some statements are given followed by few conclusions. You have to consider the statements to be true even they seem to be at variance from commonly known facts. You have to decide which of the given conclusions, if any follow from the given statements.

Statements:

All new are modern.

Some modern are old.

All old are gold.

Conclusions:

I. Some modern is gold.

II. Some modern is old.

नीचे दिए गए प्रश्न में, कुछ कथन और उसके बाद कुछ निष्कर्ष दिए गए हैं। आपको कथनों को सत्य मानना है, भले ही वे सामान्यतः ज्ञात तथ्यों से भिन्न प्रतीत होते हों। आपको यह तय करना है कि दिए गए निष्कर्षों में से कौन-सा, यदि कोई हो, दिए गए कथनों का अनुसरण करता है।

कथन:

सभी न्यू मॉडर्न हैं।

कुछ मॉडर्न ओल्ड हैं।

सभी ओल्ड गोल्ड हैं।

निष्कर्ष:

I. कुछ मॉडर्न गोल्ड हैं।

II. कुछ मॉडर्न ओल्ड है।

(a) only conclusion I follows/केवल निष्कर्ष I अनुसरण करता है

(b) only conclusions II follows/केवल निष्कर्ष II अनुसरण करता है

(c) either conclusion I or II follows/या तो निष्कर्ष I या II अनुसरण करता है

(d) both conclusion I and II follow/निष्कर्ष I और II दोनों अनुसरण करते हैं

MP Police Constable Exam- 17 August-2023 Shift-2

Ans. (d) : दिए गए कथनों का वेन आरेख निम्नवत् है-

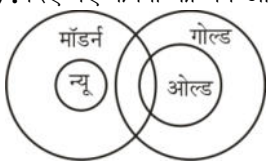

निष्कर्ष-

I कुछ मॉडर्न गोल्ड है ✓

II कुछ मॉडर्न ओल्ड है ✓

अतः निष्कर्ष I और II दोनों अनुसरण करते है।

129. In the question given below, some statements are given followed by few conclusions. You have to consider the statements to be true even they seem to be at variance from commonly known facts. You have to decide which of the given conclusions, if any follow from the given statements.

Statements:

Some herbs are plants.

All herbs are shrubs.

Conclusions:

I. All shrubs are plants.

II. All plants are shrubs.

नीचे दिए गए प्रश्न में, कुछ कथन और उसके बाद कुछ निष्कर्ष दिए गए हैं। आपको कथनों को सत्य मानना है, भले ही वे सामान्यतः ज्ञात तथ्यों से भिन्न प्रतीत होते हों। आपको यह तय करना है कि दिए गए निष्कर्षों में से कौन-सा, यदि कोई हो, दिए गए कथनों का अनुसरण करता है।

कथन:

कुछ जड़ी-बूटियाँ पौधे हैं।

सभी जड़ी बूटियाँ झाड़ियाँ हैं।

निष्कर्ष:

I. सभी झाड़ियाँ पौधे हैं।

II. सभी पौधे झाड़ियाँ हैं।

(a) only conclusion I follows/केवल निष्कर्ष I अनुसरण करता है

(b) only conclusions II follows/केवल निष्कर्ष II अनुसरण करता है

(c) neither conclusion I nor II follows/न तो निष्कर्ष I और न ही II अनुसरण करता है

(d) both conclusion I and II follow/निष्कर्ष I और II दोनों अनुसरण करते हैं

MP Police Constable Exam- 14 August-2023 Shift-3

GET IT ON Google Play Best Study PDF के लिए हमारी App को Download करें "GK Trick By Nitin Gupta"

Ans. (c) : प्रश्नानुसार, वेन आरेख निम्नवत् है-

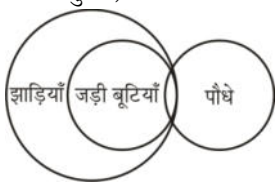

निष्कर्ष:-

I. (×)
II. (×)

अतः न तो निष्कर्ष I और न ही II अनुसरण करता है।

130. In the question, assuming the given statements to be true, find which of the two conclusions I and II given below them is/are followed.
Statements:
No gentleman is poor.
All gentlemen are rich.
Conclusions:
I. No poor man is rich.
II. No rich man is poor.
प्रश्न में, दिए गए कथनों को सत्य मानते हुए, ज्ञात कीजिए कि उनके नीचे दिए गए दो निष्कर्ष I और II में से कौन-सा अनुसरण करता हैं।
कथन:
कोई सज्जन गरीब नहीं है।
सभी सज्जन धनी हैं।
निष्कर्ष:
I. कोई भी गरीब धनी नहीं है।
II. कोई भी धनी गरीब नहीं है।

(a) only conclusion I follows/केवल निष्कर्ष I अनुसरण करता है
(b) only conclusions II follows/केवल निष्कर्ष II अनुसरण करता है
(c) Either conclusion I or conclusion II follows/या तो निष्कर्ष I या निष्कर्ष II अनुसरण करता है
(d) Neither conclusion I nor conclusion II follows/न तो निष्कर्ष I न ही निष्कर्ष II अनुसरण करता है

MP Police Constable Exam- 14 August-2023 Shift-3

Ans. (d) : प्रश्नानुसार, वेन आरेख निम्नवत् है-

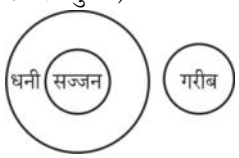

निष्कर्ष:-

I. (×)
II. (×)

अतः न तो निष्कर्ष I न ही निष्कर्ष II अनुसरण करता है।

131. In the question given below, some statements are given followed by few conclusions. You have to consider the statements to be true even they seem to be at variance from commonly known facts. You have to decide which of the given conclusions, if any follow from the given statements.
Statements:
All squares are circles.
All circles are units.
No circle is a meter.
Conclusions:
I. Some units are squares.
II. Some squares being meters is a possibility.
नीचे दिए गए प्रश्न में, कुछ कथन और उसके बाद कुछ निष्कर्ष दिए गए हैं। आपको कथनों को सत्य मानना है, भले ही वे सामान्यतः ज्ञात तथ्यों से भिन्न प्रतीत होते हों। आपको यह तय करना है कि दिए गए निष्कर्षों में से कौन-सा, यदि कोई हो, दिए गए कथनों का अनुसरण करता है।
कथन:
सभी वर्ग वृत्त हैं।
सभी वृत्त इकाइयाँ हैं।
कोई वृत्त मीटर नहीं है।
निष्कर्ष:
I. कुछ इकाइयाँ वर्ग हैं।
II. कुछ वर्ग के मीटर होने की संभावना है।

(a) only conclusion I follows/केवल निष्कर्ष I अनुसरण करता है
(b) only conclusions II follows/केवल निष्कर्ष II अनुसरण करता है
(c) either conclusion I or II follows/या तो निष्कर्ष I या II अनुसरण करता है
(d) both conclusion I and II follow/निष्कर्ष I और II दोनों अनुसरण करते हैं

MP Police Constable Exam- 13 August-2023 Shift-3

Ans. (a) : प्रश्नानुसार कथन आरेख निम्नवत् है-

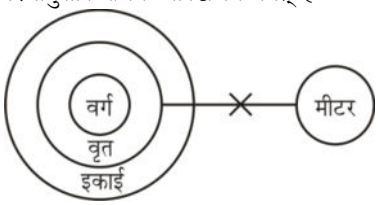

निष्कर्ष :-

I. (✓)
II. (×)

अतः केवल निष्कर्ष (I) कथन का अनुसरण करता है।

132. In the question, assuming the given statements to be true, find which of the two conclusions I and II given below them is/are followed.
Statements:
I. All tickets are trains.
II. Some trains are passengers.
Conclusions:
I. All tickets are passengers.
II. Some trains are tickets.
प्रश्न में, दिए गए कथनों को सत्य मानते हुए, ज्ञात कीजिए कि उनके नीचे दिए गए दो निष्कर्ष I और II में से कौन-सा अनुसरण करता है।
कथन:
I. सभी टिकट ट्रेन हैं।
II. कुछ ट्रेन यात्री हैं।

GET IT ON Google Play Best Study PDF के लिए हमारी App को Download करें "GK Trick By Nitin Gupta"

निष्कर्ष:

I. सभी टिकट यात्री हैं।

II. कुछ ट्रेन टिकट हैं।

(a) Only conclusion II is true/केवल निष्कर्ष II सत्य है

(b) Only conclusion I is true/केवल निष्कर्ष I सत्य है

(c) Both conclusions I and II are true/निष्कर्ष I और II दोनों सत्य हैं

(d) Neither conclusion I not II is true /न तो निष्कर्ष I और न ही II सत्य है

MP Police Constable Exam- 13 August-2023 Shift-3

Ans. (a) : प्रश्नानुसार आरेख निम्नवत् है-

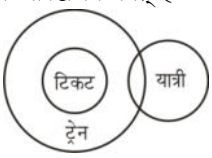

निष्कर्ष :-

I. (×)

II. (✓)

अतः केवल निष्कर्ष (II) कथनानुसार सत्य है।

133. Three statements are followed by three conclusions numbered I, II and III. You have to consider these statements to be true, even if they seem to be at variance with commonly known facts. Decide which of the given conclusions logically follow/s from the given statement.

निम्नलिखित प्रश्न में तीन कथन दिए गए है जिनके बाद तीन निष्कर्ष I, II व III दिए गए है आपको इन कथनों को सत्य मानना है, भले ही वे सर्वज्ञात तथ्यों से भिन्न प्रतीत होते हों। दिए गए निष्कर्षों में से कौन-सा निष्कर्ष दिए गए कथन का तार्किक रूप से अनुसरण करता है।

Statement/कथन :

All teachers are educated./सभी शिक्षक शिक्षित हैं।

Some educated are school./कुछ शिक्षित स्कूल हैं।

Some educated are room./कुछ शिक्षित कमरे हैं।

Conclusions/निष्कर्ष :

(I) Some teacher are room./कुछ शिक्षक कमरे हैं।

(II) No teacher is room./कोई शिक्षक कमरे नहीं है।

(III) Some school are not room./कुछ स्कूल कमरे नहीं हैं।

(a) If only I follow/केवल निष्कर्ष I अनुसरण करता है

(b) If only II follows/केवल निष्कर्ष II अनुसरण करता है

(c) If only III follows/केवल निष्कर्ष III अनुसरण करता है

(d) If either I or II follows/या तो निष्कर्ष I या निष्कर्ष II अनुसरण करता है

MP Police Constable Exam- 4 Sep-2023 Shift-3

Ans. (d) : कथनानुसार आरेख निम्नवत् है–

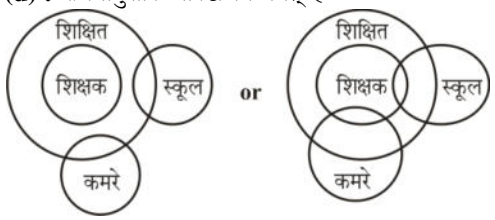

निष्कर्ष – (I) (×) या निष्कर्ष – (I) (✓)

(II) (✓) (II) (×)

(III) (×) (III) (×)

उपर्युक्त वेन आरेख से स्पष्ट है कि या तो निष्कर्ष (I) या फिर निष्कर्ष (II) कथन का अनुसरण करता है।

134. Three statements are followed by two conclusions numbered I and II. You have to consider these statements to be true, even if they seem to be at variance with commonly known facts. Decide which of the given conclusions logically follow/s from the given statement.

निम्नलिखित प्रश्न में तीन कथन दिए गए है जिनके बाद दो निष्कर्ष I व II दिए गए हैं आपको इन कथनों को सत्य मानना है, भले ही वे सर्वज्ञात तथ्यों से भिन्न प्रतीत होते हों।

Statement/कथन:

Atleast some ministers are doctor./कम से कम कुछ मंत्री डॉक्टर हैं।

Some doctors are policemen.
कुछ डॉक्टर पुलिसकर्मी हैं।

No policemen are driver./कोई पुलिसकर्मी ड्राइवर नहीं है।

Conclusions/निष्कर्ष :

(I) Some doctors are driver./कुछ डॉक्टर ड्राइवर हैं।

(II) Some doctors are ministers./कुछ डॉक्टर मंत्री हैं।

(a) Only I follow/केवल निष्कर्ष I अनुसरण करता है।

(b) Only II follow/केवल निष्कर्ष II अनुसरण करता है।

(c) Both I and II follows/दोनों निष्कर्ष I तथा II अनुसरण करते हैं।

(d) Neither I nor II follows/न तो निष्कर्ष I न ही निष्कर्ष II अनुसरण करता है।

MP Police Constable Exam- 4 Sep-2023 Shift-2

Ans. (b) : कथनानुसार, वेन आरेख से–

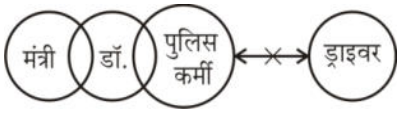

निष्कप्र :- (I) (×)

(II) (✓)

कथन से स्पष्ट है, कि केवल निष्कर्ष (II) अनुसरण करता है।

135. In the following question below are given, some statement followed by some conclusion taking the given statement to be true even if they seem to be at variance from commonly known facts, read all conclusion and then decide which of the following conclusion logically follow the given statement.

Statement:

Some cat are dog.

Some rat are dog.

Conclusion:

I. Some dog are rat.

II. All rat are cat.

GET IT ON Google Play Best Study PDF के लिए हमारी App को Download करें "GK Trick By Nitin Gupta"

नीचे दिए गए प्रश्न में कुछ कथन और उनके बाद उन कथनो पर आधारित कुछ निष्कर्ष दिए गए है। हालाँकि उनमें सामान्य ज्ञात तथ्यों से भिन्नता हो सकती हैं। सभी निष्कर्ष पढ़े फिर निर्धारित करें कि दिए गए कौन से निष्कर्ष, दिए गए कथनों के आधार पर युक्तिसंगत है।

कथन:

कुछ बिल्ली, कुत्ता है।

कुछ चूहा, कुत्ता है।

निष्कर्ष:

I. कुछ कुत्ता, चूहा है।

II. सभी चूहा, बिल्ली है।

(a) Only conclusion I follow/केवल निष्कर्ष I अनुसरण करता है

(b) Only conclusion II follow/केवल निष्कर्ष II अनुसरण करता है

(c) Both conclusion follows/दोनों निष्कर्ष अनुसरण करते हैं

(d) None follows/कोई अनुसरण नहीं करता हैं

MP Police Constable Exam- 11 Sep-2023 Shift-2

Ans. (a) : कथनानुसार,

वेन आरेख बनाने पर-

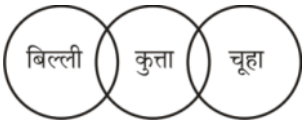

निष्कर्ष:-

i. (✓)

ii. (×)

अतः उपर्युक्त वेन-आरेख से स्पष्ट केवल निष्कर्ष (i) कथन का अनुसरण करता है।

136. In the question given below, some statements are given followed by few conclusions. You have to consider the statements to be true even they seem to be at variance from common given conclusions, if any follow from the given statements.

Statements:

Some belts are leathers.

All leathers are skins.

Some skins are white.

Conclusions:

I. Some belts are skins.

II. Some belts are white is a possibility.

नीचे दिए गए प्रश्न में, कुछ कथन और उसके बाद कुछ निष्कर्ष दिए गए हैं। आपको कथनों को सत्य मानना है, भले ही वे सामान्यतः ज्ञात तथ्यों से भिन्न प्रतीत होते हों। आपको यह तय करना है कि दिए गए निष्कर्षों में से कौन-सा, यदि कोई हो तो:

कथन:

कुछ बेल्ट्स चमड़े हैं।

सभी चमड़े खाल हैं।

कुछ खाल सफेद हैं।

निष्कर्ष:

I. कुछ बेल्ट खाल हैं।

II. कुछ बेल्ट सफेद हैं यह एक संभावना है।

(a) only conclusion I follows/केवल निष्कर्ष I अनुसरण करता है

(b) only conclusion II follows/केवल निष्कर्ष II अनुसरण करता है

(c) either conclusion I or II follows/या तो निष्कर्ष I या II अनुसरण करता है

(d) both conclusion I and II follow/निष्कर्ष I और II दोनों अनुसरण करते हैं

MP Police Constable Exam- 17 August-2023 Shift-3

Ans. (d) :

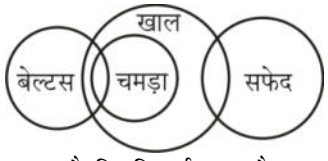

उपर्युक्त चित्र से स्पष्ट है कि निष्कर्ष (I) और (II) दोनों अनुसरण करते है।

137. In the question below some statements are given followed by some conclusions. Taking the given statements to be true even if they seem to be at variance from commonly known facts, read all the conclusions and then decide which of the given conclusion logically follows the given statements.

निम्नलिखित प्रश्न में कुछ कथन के बाद कुछ निष्कर्ष दिए गए हैं। आपको दिए गए कथन को सत्य मानना है भले ही वो ज्ञात तथ्यों से भिन्न भी हो और फिर यह ज्ञात करना है कि कौन-सा निष्कर्ष इन कथनों का तर्कसंगत अनुसरण करता है।

Statements/कथन :

I. Some qualities are good./कुछ क्वालिटी अच्छी हैं।

II. No good is poor./कोई भी अच्छा गरीब नहीं है।

III. All qualities are super./सभी क्वालिटी सुपर है।

Conclusions/निष्कर्ष :

I. Some qualities are poor./कुछ क्वालिटी गरीब है।

II. Some super are good./कुछ सुपर अच्छी है।

III. No poor is super is a possibility/किसी भी गरीब के सुपर नहीं होने की संभावना है।

IV. Some qualities are not poor./कुछ क्वालिटी गरीब नहीं है।

(a) Only conclusions (I), (III) and (IV) follow./केवल निष्कर्ष (I), (III) और (IV) अनुसरण करता है।

(b) Only conclusions (II) and (III) follow./केवल निष्कर्ष (II) और (III) अनुसरण करता है।

(c) Only conclusions (II), (III) and (IV) follow./केवल निष्कर्ष (II), (III) और (IV) अनुसरण करता है।

(d) Only conclusions (I) and (IV) follow./केवल निष्कर्ष (I) और (IV) अनुसरण करता है।

MP Police Constable Exam- 12 Sep-2023 Shift-1

GET IT ON Google Play Best Study PDF के लिए हमारी App को Download करें "GK Trick By Nitin Gupta"

Ans. (b) : प्रश्नानुसार, वेन आरेख निम्नवत् है-

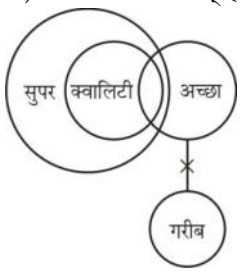

निष्कर्ष :

I (×)
II (✓)
III (✓)

अतः स्पष्ट है कि केवल निष्कर्ष II और III अनुसरण करते हैं।

138. In the following question below are given, some statement followed by some conclusion taking the given statement to be true even if they seem to be at variance from commonly known facts, read all conclusion and then decide which of the following conclusion logically follow the given statement.

नीचे दिए गए प्रश्न में कुछ कथन और उनके बाद उन कथनों पर आधारित कुछ निष्कर्ष दिए गए हैं। हालाँकि उनमें सामान्य ज्ञात तथ्यों से भिन्नता हो सकती है। सभी निष्कर्ष पढ़े फिर निर्धारित करें कि दिए गए कौन से निष्कर्ष, दिए गए कथनों के आधार पर युक्तिसंग हैं।

Statement:
Some Dogs are cats.
All cats are Pets.
No pet is wild.
Conclusion:
(I) Some pets are wild is a possibility.
(II) Some Dogs are wild.

कथन :
कुछ कुत्ते बिल्ली है।
सभी बिल्ली पालतू है।
कोई पालतू जंगली नहीं है।
निष्कर्ष:
(I) कुछ पालतू के जंगली होने की संभावना है।
(II) कुछ कुत्ते जंगली है।

(a) Only conclusion I follow /केवल निष्कर्ष I अनुसरण करता है।
(b) Only conclusion II follow /केवल निष्कर्ष II अनुसरण करता है।
(c) Both conclusions follow /दोनों निष्कर्ष अनुसरण करते हैं।
(d) None conclusion follow /कोई निष्कर्ष अनुसरण नहीं करता है।

MP Police Constable Exam- 1 Sep-2023 Shift-2

Ans. (d) : प्रश्नानुसार वेन आरेख बनाने पर

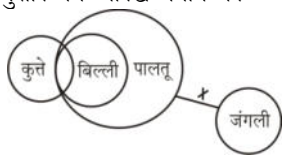

निष्कर्ष (I). (×)
(II). (×)

अतः कोई भी निष्कर्ष अनुसरण नहीं करता है।

139. Two statements are followed by two conclusions numbered I and II. You have to consider these statements to be true, even if they seem to be at variance with commonly known facts. Decide which of the given conclusions logically follow/s from the given statement.

निम्नलिखित प्रश्न में दो कथन दिए गए है जिनके बाद दो निष्कर्ष I व II दिए गए हैं आपको इन कथनों को सत्य मानना है, भले ही वे सर्वज्ञात तथ्यों से भिन्न प्रतीत होते हों। दिए गए निष्कर्षों में से कौन-सा निष्कर्ष दिए गए कथन का तार्किक रूप से अनुसरण करता है।

Statement/कथन :
Some desert is forest./कुछ रेगिस्तान जंगल हैं।
No forest is morning./कोई जंगल सुबह नहीं है।
Conclusions/निष्कर्ष :
(I) All forest is desert./सभी जंगल रेगिस्तान हैं।
(II) No forest is desert./कोई जंगल रेगिस्तान नहीं है।

(a) Only I follow/केवल निष्कर्ष I अनुसरण करता है
(b) Only II follows/केवल निष्कर्ष II अनुसरण करता है
(c) Either I or II follows/या तो निष्कर्ष I या निष्कर्ष II अनुसरण करता है
(d) Neither I nor II follows/न तो निष्कर्ष I न ही निष्कर्ष II अनुसरण करता है

MP Police Constable Exam- 3 Sep-2023 Shift-2

Ans. (d) **:** वेन आरेख निम्नवत् है–

निष्कर्ष–

(I) ×
(II) ×

अतः न तो निष्कर्ष I न ही निष्कर्ष II अनुसरण करता है।

140. In the question given below, some statements are given followed by few conclusions. You have to consider the statements to be true even they seem to be at variance from common to decide which of the given conclusions, if any follow from the given statements.

Statements:
All symbols are letters.
Some letters are numbers.
No numbers is a digit.
Conclusions:
I. All letters are digits is a possibility.
II. Some symbols are digits.

नीचे दिए गए प्रश्न में, कुछ कथन और उसके बाद कुछ निष्कर्ष दिए गए हैं। आपको कथनों को सत्य मानना है, भले ही वे सामान्यतः ज्ञात तथ्यों से भिन्न प्रतीत होते हों। आपको यह तय करना है कि दिए गए निष्कर्षों में से कौन-सा, यदि कोई करता है।

कथन:
सभी प्रतीक, अक्षर हैं।
कुछ अक्षर, संख्या हैं।
कोई संख्या, अंक नहीं है।

GET IT ON Google Play Best Study PDF के लिए हमारी App को Download करें "GK Trick By Nitin Gupta"

निष्कर्ष:

I. सभी अक्षर के अंक होने संभावना है।

II. कुछ प्रतीक अंक हैं।

(a) only conclusion I follows/केवल निष्कर्ष I अनुसरण करता है

(b) only conclusion II follows/केवल निष्कर्ष II अनुसरण करता है

(c) neither conclusion I nor II follows/न तो निष्कर्ष I और न ही II अनुसरण करता है

(d) both conclusion I and II follow/निष्कर्ष I और II दोनों अनुसरण करते हैं

MP Police Constable Exam- 18 August-2023 Shift-3

Ans. (c) : दिए गए कथनों का वेन आरेख बनाने पर,

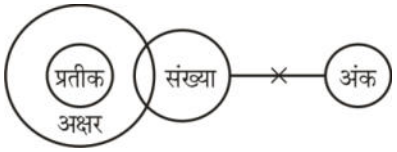

निष्कर्ष:

I. (×)

II. (×)

अतः दोनों निष्कर्ष असत्य हैं।

141. In the question given below, some statements are given followed by few conclusions. You have to consider the statements to be true even they seem to be at variance from commonly known facts. You have to decide which of the given conclusions, if any follow from the given statements.

Statements:

All orchids are flowers.

Some orchids are beautiful.

Conclusions:

I. Some flowers are beautiful.

II. All beautiful are flowers.

नीचे दिए गए प्रश्न में, कुछ कथन और उसके बाद कुछ निष्कर्ष दिए गए हैं। आपको कथनों को सत्य मानना है, भले ही वे सामान्यतः ज्ञात तथ्यों से भिन्न प्रतीत होते हों। आपको यह तय करना है कि दिए गए निष्कर्षों में से कौन-सा, यदि कोई हो, दिए गए कथनों का अनुसरण करता है।

कथन:

सभी ऑर्किड फूल हैं।

कुछ ऑर्किड सुंदर हैं।

निष्कर्ष:

I. कुछ फूल सुंदर हैं।

II. सभी सुंदर फूल हैं।

(a) only conclusion I follows/केवल निष्कर्ष I अनुसरण करता है

(b) only conclusions II follows/ केवल निष्कर्ष II अनुसरण करता है

(c) either conclusion I or II follows/या तो निष्कर्ष I या II अनुसरण करता है।

(d) both conclusion I and II follow/निष्कर्ष I और II दोनों अनुसरण करते हैं।

MP Police Constable Exam- 14 August-2023 Shift-2

Ans. (a) : कथनानुसार, वेन आरेख निम्नवत् है।

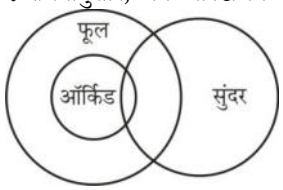

निष्कर्ष:-

I. (सत्य)

II. (असत्य)

अतः उपर्युक्त आरेख से स्पष्ट है कि 'केवल निष्कर्ष-I अनुसरण करता है'।

142. In the question, assuming the given statements to be true, find which of the two conclusions I and II given below them is/are followed.

Statements:

I. All platforms are cars.

II. Some cars are passes.

Conclusions:

I. All platforms are passes.

II. Some cars are platforms.

प्रश्न में, दिए गए कथनों को सत्य मानते हुए, ज्ञात कीजिए कि उनके नीचे दिए गए दो निष्कर्ष I और II में से कौन-सा अनुसरण करता हैं।

कथन:

I. सभी प्लेटफार्म कारें हैं।

II. कुछ कारें पास हैं।

निष्कर्ष:

I. सभी प्लेटफार्म पास हैं।

II. कुछ कारें प्लेटफार्म हैं।

(a) Only conclusion II is true/केवल निष्कर्ष II सत्य है

(b) Only conclusion I is true/केवल निष्कर्ष I सत्य है

(c) Both conclusions I and II are true /निष्कर्ष I और II दोनों सत्य हैं

(d) Neither conclusion I not II is true /न तो निष्कर्ष I और न ही II सत्य है

MP Police Constable Exam- 14 August-2023 Shift-2

Ans. (a) : कथनानुसार, वेन आरेख निम्नवत् है।

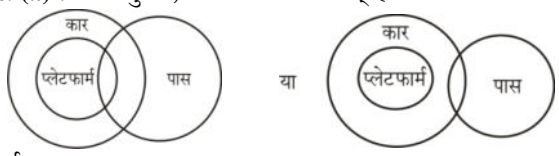

निष्कर्ष:-

I. (असत्य)

II. (सत्य)

अतः उपर्युक्त आरेख से स्पष्ट है कि 'केवल निष्कर्ष-II सत्य है'।

143. Select the option that is true about the Statements and Conclusions given:/वह विकल्प चुनिए जो दिए गए कथनों एवं निष्कर्षों के बारे में सही है।

Statements:/कथन:

All lions are tigers.

सभी शेर बाघ हैं।

Some tigers are birds.

कुछ बाघ पक्षी हैं।

GET IT ON Google Play Best Study PDF के लिए हमारी App को Download करें "GK Trick By Nitin Gupta"

Conclusions:/निष्कर्ष:

I. All lions are birds.
सभी शेर पक्षी है।

II. Some birds are lions.
कुछ पक्षी शेर हैं।

(a) Only conclusion I follows
केवल निष्कर्ष I निकलता है

(b) Only conclusion II follows
केवल निष्कर्ष II निकलता है

(c) Either conclusion I or conclusion II followss
या तो निष्कर्ष I या फिर निष्कर्ष II निकलता है

(d) Neither conclusion I nor conclusion II follows
न तो निष्कर्ष I निकलता है और न ही निष्कर्षे II

MP Police Constable Exam 23 July 2016 - 9:am

Ans : (d) प्रश्नानुसार, वेन आरेख बनाने पर,

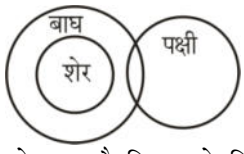

उपर्युक्त वेन आरेख से स्पष्ट है कि न तो निष्कर्ष I और न ही निष्कर्ष II निकलता है।

144. Select the option that is true about the Statements and Conclusions given:
वह विकल्प चुनिए जो दिए गए कथनों एंव निष्कर्षों के बारे में सही है।

Statements:/कथन:

No machine is a gun.
कोई मशीन बंदूक नहीं है।

No gun is a ball.
कोई बंदूक गेंद नहीं है।

Conclusions:/निष्कर्ष:

I. No ball is a machine.
कोई गेंद मशीन नहीं है।

II. No machine is a ball.
कोई मशीन गेंद नहीं है।

(a) Only conclusion I follows
केवल निष्कर्ष I निकलता है

(b) Only conclusion II follows
केवल निष्कर्ष II निकलता है

(c) Either conclusion I or conclusion II follows
या तो निष्कर्ष I या फिर निष्कर्ष II निकलता है

(d) Neither conclusion I nor conclusion II follows
न तो निष्कर्ष I निकलता है और न ही निष्कर्ष II

MP Police Constable Exam 23 July 2016 - 9:am

Ans : (d) प्रश्नानुसार, वेन आरेख बनाने पर,

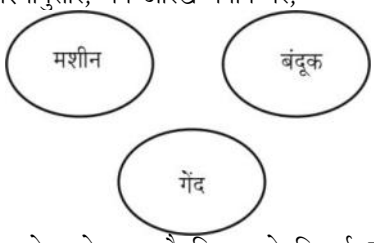

उपर्युक्त वेन आरेख से स्पष्ट है कि न तो निष्कर्ष I और न ही निष्कर्ष II निकलता है।

145. Select the option that is true about the Statements and Conclusions given:
वह विकल्प चुनिए जो दिए गए कथनों एवं निष्कर्षों के बारे में सही है।

Statements:/कथन:

Some coins are notes.
कुछ सिक्के नोट हैं।

All notes are papers.
सभी नोट कागज हैं।

Conclusions :/निष्कर्ष:

I. Some coins are papers
I. कुछ सिक्के कागज हैं

II. All notes are coins.
II. सभी नोट सिक्के हैं

(a) Only conclusion I follows
केवल निष्कर्ष I निकलता हैं

(b) Only conclusion II follows
केवल निष्कर्ष II निकलता हैं

(c) Both conclusion I and II follows
दोनों निष्कर्ष I और II निकलते है

(d) None of the conclusion I or II follows
निष्कर्ष I या II में से कोई नहीं निकलता है

MP Police Constable Exam 23 July 2016 - 9:am

Ans : (a) प्रश्नानुसार, वेन आरेख बनाने पर,

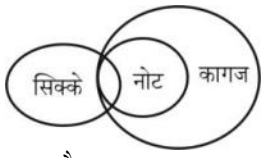

केवल निष्कर्ष I निकलता है।

146. Two statements are given, followed by four conclusions numbered I, II, III and IV. Assuming the statements to be true, even if they seem to be at variance with commonly known facts, decide which of the conclusions logically follow(s) from the statements.
दो कथन दिए गए हैं, इसके बाद चार निष्कर्ष I, II, III और IV दिए गए हैं। कथनों को सत्य मानते हुए, भले ही वे सामान्य ज्ञात तथ्यों से भिन्न प्रतीत होते हों, यह निर्णय लीजिए कि कौन-सा निष्कर्ष कथनों का तार्किक रूप से अनुसरण करता है।

Statements:
कथन :

1. **All cow are milk.**
सभी गाय दूध हैं।

2. **All milk are butter.**
सभी दूध मक्खन हैं।

Conclusions:
निष्कर्ष :

I. **Some butter are milk./कुछ मक्खन दूध हैं।**

II. **Some milk are cow. /कुछ दूध गाय हैं।**

III. **All butter are milk. /सभी मक्खन दूध है**

IV. **All milk are cow. /सभी दूध गाय हैं।**

GET IT ON Google Play Best Study PDF के लिए हमारी App को Download करें "GK Trick By Nitin Gupta"

(a) Only conclusion (II) follows/केवल निष्कर्ष (II) अनुसरण करता है
(b) Conclusion (I) and (III) follow/निष्कर्ष (I) और (III) अनुसरण करते हैं
(c) Conclusin (I) and (II) follow/निष्कर्ष (I) और (II) अनुसरण करते हैं
(d) Only conclusion (IV) follows/केवल निष्कर्ष (IV) अनुसरण करता है

MP Police Constable Exam- 01 Feb-2022 Shift-1

Ans. (c) : कथनानुसार वेन आरेख सम्बन्ध स्थापित करने पर-

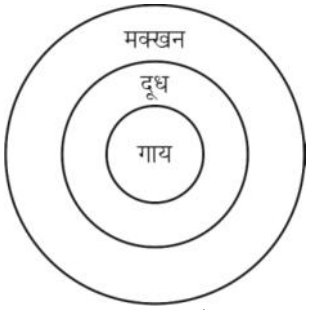

उपरोक्त वेन आरेख से स्पष्ट है कि केवल निष्कर्ष (I) और (II) कथनों का तार्किक रूप से अनुसरण करते हैं।

147. In question below are two statements followed by three conclusions numbered I, II and III. You have to take the given statements to be true even if they seem to be at variance commonly facts and then decide which of the given conclusions logically follows from the given statements.
नीचे दिए गए प्रश्न में दो कथन और उसके बाद तीन निष्कर्ष I, II और III दिए गए हैं। आपको दिए गए कथनों को सत्य मानना है, भले ही वे सामान्य तथ्यों से भिन्न प्रतीत होते हों और फिर तय करें कि कौन सा निष्कर्ष दिए गए कथन रूप से अनुसरण करता है।

Statements/कथन :
I. All bikes are cars./सभी बाइक कार हैं।
II. All cars are jeeps./सभी कार जीप हैं।

Conclusions/निष्कर्ष :
I. All jeeps are bikes./सभी जीप बाइक हैं।
II. All bikes are jeeps./ सभी बाइक जीप हैं।
III. Some jeeps are cars./कुछ जीप कार हैं।

(a) All the conclusions follow./सभी निष्कर्ष अनुसरण करते हैं।
(b) Only conclusions I and II follow./केवल निष्कर्ष I और II अनुसरण करते हैं।
(c) Only conclusions II and III follow./केवल निष्कर्ष II और III अनुसरण करते हैं।
(d) Only conclusions I follows./केवल निष्कर्ष I अनुसरण करता है।

MP Police Constable Exam- 09 Feb-2022 Shift-1

Ans. (c) : कथनानुसार वेन आरेख सम्बन्ध स्थापित करने पर-

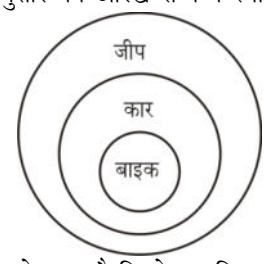

उपरोक्त वेन आरेख से स्पष्ट है कि केवल निष्कर्ष II और III कथनों का तार्किक रूप से अनुसरण करते हैं।

148. In question below are three statements followed by two conclusions numbered I and II. You have to take the given statements to be true even if they seem to be at variance for commonly facts and then decide which of the given conclusions logically follows from the given statements./नीचे दिए गए प्रश्न में तीन कथन दिए गए हैं जिसके बाद दो निष्कर्ष I और II दिए हैं। आपको दिए गए कथनों को सत्य मानना है, भले ही वे सामान्य तथ्यों से भिन्न प्रतीत होते हों और फिर तय करें कि कौन सा निष्कर्ष दिए गए कथन तार्किक रूप में अनुसरण करता है।

Statements:
कथन :
I. Some cycles are scooters.
कुछ साइकिल स्कूटर हैं।
II. All scooters are bikes.
सभी स्कूटर बाइक हैं।
III. All bikes are autos.
सभी बाइक ऑटो हैं।

Conclusions:
निष्कर्ष :
I. Some cycles are autos.
कुछ साइकिल ऑटो हैं।
II. Some bikes are cycles.
कुछ बाइक साइकिल हैं।

(a) Either conclusion I or II follows/या तो निष्कर्ष I या II अनुसरण करता है।
(b) Neither conclusion I nor II follows. /न तो निष्कर्ष I या II अनुसरण करता है।
(c) Only conclusion II follows. /केवल निष्कर्ष II अनुसरण करता है।
(d) Both conclusions I and II follows./दोनों निष्कर्ष I और II अनुसरण करते हैं।

MP Police Constable Exam- 02 Feb-2022 Shift-1

Ans. (d): कथनानुसार वेन आरेख बनाने पर,

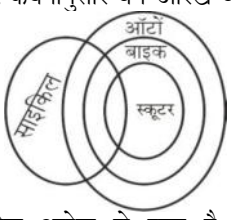

अतः उपरोक्त आरेख से स्पष्ट है कि दोनों निष्कर्ष I और II अनुसरण करते हैं।

GET IT ON Google Play Best Study PDF के लिए हमारी App को Download करें "GK Trick By Nitin Gupta"

149. In question below are two statements followed by two conclusions numbered I and II. You have to take the given statements to be true even if they seem to be at variance from commonly known facts and then decide which of the given conclusions logically follows from the given statements.

नीचे दिए गए प्रश्न में दो कथन I और II उसके बाद दो निष्कर्ष I और II दिए गए हैं। आपको दिए गए कथनों को सत्य मानना है, चाहे वे सामान्यतः ज्ञात तथ्यों से भिन्न प्रतीत होता है, आपको निर्णय करना है कि दिए गए कथनों में से कौन सा निष्कर्ष दिए गए कथनों का तार्किक रूप से अनुसरण करता है।

Statements/कथन :

I. Some apples are grapes./कुछ सेब अंगूर हैं।

II. Some grapes are onions./कुछ अंगूर प्याज हैं।

Conclusions/निष्कर्ष :

I. Some onions are apples./कुछ प्याज सेब हैं।

II. No onion are apples./कोई प्याज सेब नहीं हैं।

(a) Only conclusion I follows/केवल निष्कर्ष I अनुसरण करता है

(b) Only conclusion II follows/केवल निष्कर्ष II अनुसरण करता है

(c) Either I or II follows/या तो I या II अनुसरण करता है

(d) Neither I nor II follow/न तो I और न ही II अनुसरण करता है

MP Police Constable Exam- 8 Jan-2022 Shift-2

Ans. (d) : कथनानुसार, वेन आरेख बनाने पर,

उपर्युक्त वेन आरेख से न तो निष्कर्ष I और न ही निष्कर्ष II अनुसरण करता है।

150. Read the given statements and conclusions carefully. Assuming that the information given in the statements is true, even if it appears to be at variance with commonly known facts and then decide which of the given conclusions logically follow(s) from the given statements.

दिए गए कथनों एवं निष्कर्षों का ध्यानपूर्वक अध्ययन करें। यह मानते हुए कि कथनों में दी गई जानकारी सत्य है, भले ही यह सामान्य रूप से ज्ञात तथ्यों से भिन्न प्रतीत होते हैं, यह निर्णय लें कि कौन-सा निष्कर्ष दिए गए कथनों का तर्कसंगत रूप से अनुसरण करता है।

Statements/कथन :

I. All Maths are Physics./सभी गणित, भौतिक विज्ञान है।

II. All Physics are Chemistry./सभी भौतिक विज्ञान, रसायन विज्ञान है।

III. No Chemistry are History./कोई रसायन विज्ञान, इतिहास नहीं है।

Conclusions/निष्कर्ष :

I. No Maths are History./कोई गणित, इतिहास नहीं है।

II. No Physics are History./कोई भौतिक विज्ञान, इतिहास नहीं है।

III. All Chemistry are Maths./सभी रासायन विज्ञान, गणित है।

(a) None of the conclusion follows/कोई अनुसरण नहीं करता है।

(b) Only conclusion II follows./केवल निष्कर्ष II अनुसरण करता है।

(c) Only conclusion II and III follow./केवल निष्कर्ष II और III अनुसरण करता है

(d) Only conclusion I and II follows./केवल निष्कर्ष I और II अनुसरण करते हैं।

MP Police Constable Exam- 8 Jan-2022 Shift-2

Ans. (d): प्रश्नानुसार,

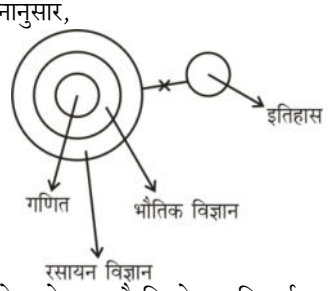

उपर्युक्त वेन आरेख से स्पष्ट है कि केवल निष्कर्ष I और II अनुसरण करता है।

151. In the question given below, two statements are given followed by two conclusions I and II. You have to consider the statements to be true even they seem to be at variance from commonly known facts. You have to decide which of the given conclusions, if any follow from the given statements.

नीचे दिए गए प्रश्न में दो कथन तथा उसके पश्चात् दो निष्कर्ष I तथा II दिए गए हैं। आपको दिए गए कथन को सत्य मानना है, भले ही वह सर्वज्ञात तथ्यों से भिन्न प्रतीत होते हों तथा कथनों के आधार पर आपको अपना उत्तर देना है।

Statements/कथन:

All cookers are crackers/सभी कुकर पटाखें हैं।

All snickers are crackers/सभी स्नीकर्स पटाखे हैं।

Conclusions/निष्कर्ष :

I. All snickers are cookers/सभी स्नीकर कुकर हैं।

II. Some crackers are snickers/कुछ पटाखे स्नीकर्स है।

(a) Neither conclusion I nor conclusion II follows/न तो निष्कर्ष I और न ही निष्कर्ष II अनुसरण करता है।

(b) Only conclusion II follows/केवल निष्कर्ष II अनुसरण करता है।

(c) Both conclusion I and conclusion II follow /निष्कर्ष I और निष्कर्ष II दोनों अनुसरण करते हैं।

(d) Only conclusion I follow/केवल निष्कर्ष I अनुसरण करता है।

MP Police Constable Exam- 10 Jan -2022 Shift-2

GET IT ON Google Play Best Study PDF के लिए हमारी App को Download करें "GK Trick By Nitin Gupta"

Ans. (b) : कथनानुसार वेन आरेख सम्बन्ध निम्नवत् है–

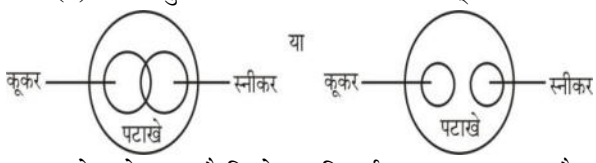

अतः उपरोक्त से स्पष्ट है कि केवल निष्कर्ष II अनुसरण करता है।

152. In question below are two statements followed by two conclusions numbered I and II. You have to take the given statements to be true even if they seem to be at variance from commonly known facts and then decide which of the given conclusions logically follows from the given statements.
नीचे दिए गए प्रश्न में दो कथन और उसके बाद दो निष्कर्ष I और II दिए गए हैं। आपको दिए गए कथनों को सत्य मानना है, चाहे वे सामान्यतः ज्ञात तथ्यों से भिन्न प्रतीत होता है, आपको निर्णय करना है कि दिए गए कथनों में से कौन निष्कर्ष तार्किक रूप से अनुसरण करता है।

Statements/कथन:

I. Some swift are I10/कुछ स्विफ्ट I10 है।

II. Some I10 are alto/कुछ I10 आल्टो है।

Conclusions/निष्कर्ष :

I. Some alto are I10/कुछ आल्टो I10 है।

II. Some alto are swift/कुछ आल्टो स्विफ्ट है।

(a) Either conclusion I or II follows./या तो निष्कर्ष I या II अनुसरण करता है।

(b) Neither conclusion I nor II follows./न तो निष्कर्ष I और न ही II अनुसरण करता है।

(c) Only conclusion I follows./केवल निष्कर्ष I अनुसरण करता है।

(d) Both conclusions I and II follows./दोनों निष्कर्ष I और II अनुसरण करते हैं।

MP Police Constable Exam- 10 Jan -2022 Shift-2

Ans. (c) : कथनानुसार,, वेन आरेख सम्बन्ध निम्न प्रकार है–

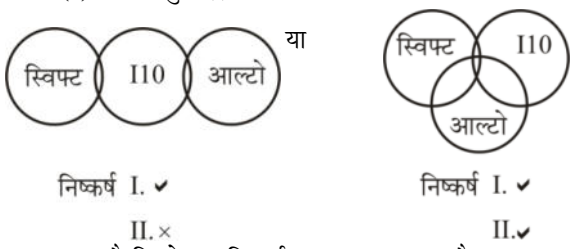

अतः स्पष्ट है कि केवल निष्कर्ष I अनुसरण करता है।

153. Select the option that is true bout the Statements and Conclusions given:
वह विकल्प चुनिए जो दिए गए कथनों एवं निष्कर्षों के बारे में सही है।

Statements:/कथनः

Some boats are ships/कुछ नावें जहाज़ हैं

No ship is a submarine
कोई जहाज़ पनडुब्बी नहीं है

Conclusions:/निष्कर्षः

I. Some boats are submarines
I. कुछ नावें पनडुब्बी हैं

II. All boats are submarines
II. सभी नावें पनडुब्बी हैं।

(a) Only conclusion I follows
केवल निष्कर्ष I निकलता है।

(b) Only conclusion II follows
केवल निष्कर्ष II निकलता है।

(c) Both conclusion I and II follows
दोनों निष्कर्ष I और II निकलते हैं

(d) None of the conclusion I or II follows
निष्कर्ष I या II में से कोई नहीं निकलता है।

MP Police Constable Exam- 26 July-2016 - 9: am

Ans : (d) वेन-आरेख बनाने पर,

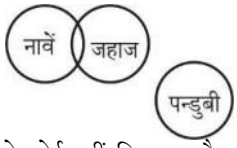

निष्कर्ष I और II में से कोई नहीं निकलता है।

154. Select the option that is true about the Statements and Conclusions given:
वह विकल्प चुनिए जो दिए गए कथनों एवं निष्कर्षों के बारे में सही है।

Statements:/कथनः

Mango is sweet/आम मीठा है

All fruits are sweet/सभी फल मीठे हैं

Conclusions:/निष्कर्षः

I. Mango is a fruit/I. आम एक फल है

II. All sweets are fruits/II.सभी मिठाइयां फल हैं

(a) Only conclusion I follows
केवल निष्कर्ष I निकलता है।

(b) Only conclusion II follows
केवल निष्कर्ष II निकलता है।

(c) Both conclusion I and II follows
दोनों निष्कर्ष I और II निकलते हैं

(d) None of the conclusion I or II follows
निष्कर्ष I या II में से कोई नहीं निकलता है।

MP Police Constable Exam- 26 July-2016 - 9: am

Ans : (d) कथनानुसार वेन आरेख बनाने पर,

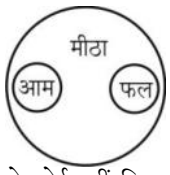

अतः निष्कर्ष I या II में से कोई नहीं निकलता है।

155. Select the option that is true about the Statements and Counclusions given :
वह विकल्प चुनिए जो दिए गए कथनों एवं निष्कर्षों के बारे में सही है।

Statements :/कथन :

All desks are tables/सभी डेस्क मेज़ हैं।

All tables are chairs/सभी मेज़ कुर्सियां हैं।

GET IT ON Google Play Best Study PDF के लिए हमारी App को Download करें "GK Trick By Nitin Gupta"

Conclusions:/निष्कर्ष:

I. All desks are chairs.
I. सभी डेस्क कुर्सियां हैं

II. Some chairs are desks.
II. कुछ कुर्सियां डेस्क हैं।

(a) Only conclusion I follows
केवल निष्कर्ष I निकलता है

(b) Only conclusion II follows
केवल निष्कर्ष II निकलता है

(c) Both conclusion I and II follows
दोनों निष्कर्ष I और II निकलता है

(d) None of the conclusion I or II follows
निष्कर्ष I या II निकलते हैं

MP Police Constable Exam- 26 July-2016 - 9: am

Ans : (c)

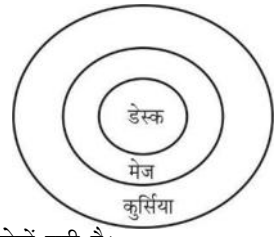

निष्कर्ष I और II दोनों सही है।

156. How many times 'E' exceeds 'S' in the word 'PEEVISHNESS'?
'PEEVISHNESS' शब्द में 'E' कितने से 'S' से अधिक है?

(a) 1 (b) 2
(c) 3 (d) 0

MP Police Constable Exam- 26 July-2016 - 9: am

Ans : (d) दिये गये शब्द में E की संख्या =3
और S की संख्या = 3
अतः दोनों का अंतर = 0

157. Two statements are given followed by three conclusions numbered I, II and III. Assuming the statements to be true, even if they seem to be at variance with commonly known facts and decide which of the conclusions logically follow(s) from the statements.
दो कथनों के बाद तीन निष्कर्ष संख्या I, II और III दिए गए हैं। दिए गए कथनों को सत्य मानते हुए, भले ही वे आमतौर पर ज्ञात तथ्यों के साथ विचरण करते हों, यह निर्णय लें कि निम्न में से कौन-सा निष्कर्ष दिए गए कथनों का तार्किक रूप से अनुसरण करता है।

Statements/कथन :

Some Radius are Diameter/कुछ रेडियस, डायमीटर है।

All Radius are Circles/सभी रेडियस, सर्कल हैं।

Conclusions/निष्कर्ष :

I. Some diameter are circles/कुछ डायमीटर, सर्कल हैं।

II. Some diameter are radius/कुछ डायमीटर, रेडियस हैं।

III. Some circles are radius/कुछ सर्कल, रेडियस हैं।

(a) Ether conclusion I or III follows./या तो निष्कर्ष I या III अनुसरण करता है।

(b) Only conclusion I and II follow/केवल निष्कर्ष I और II अनुसरण करते हैं।

(c) Only conclusion I and III follow/केवल निष्कर्ष I और III अनुसरण करते हैं।

(d) All the conclusions I, II and III follow/सभी निष्कर्ष I, II और III अनुसरण करते हैं।

MP Police Constable Exam- 10 Jan -2022 Shift-2

Ans. (d) : कथनानुसार, वेन आरेख सम्बन्ध निम्नवत् है–

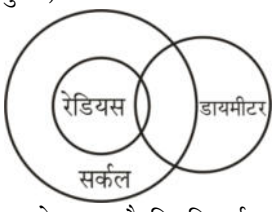

अतः उपरोक्त आरेख से स्पष्ट है कि निष्कर्ष (I), (II) तथा (III) सभी अनुसरण करते है।

158. Select the option that is true about the statements and conclusions given
वह विकल्प चुनिए जो दिए गए कथनों एवं निष्कर्षों के बारे में सही है।

Sattements/कथन :

Some men are kids/कुछ लोग बच्चे हैं।

Some men are not bald/कुछ लोग गंजे नहीं है।

Conclusions:/निष्कर्ष :

I. All bald are kids/ I. सभी गंजे बच्चे हैं।

II. All kids are men/ II. सभी बच्चे आदमी हैं

(a) Only conclusion I follows
केवल निष्कर्ष I निकलता है

(b) Only conclusion II follows
केवल निष्कर्ष II निकलता है

(c) Both conclusion I and II follows
दोनों निष्कर्ष I और II निकलते हैं

(d) None of the conclusion I or II follows
निष्कर्ष I या II में से कोई नहीं निकलता है

MP Police Constable Exam 19 July 2016 - 9:am

Ans : (d) कथनानुसार, वेन आरेख बनाने पर-

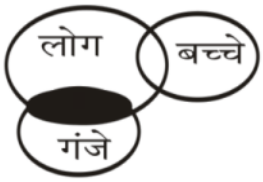

निष्कर्ष : (i) X
(ii) X

अतः निष्कर्ष I व II में से कोई नहीं निकलता है।

159. Select the option that is true about the statements and Conclusions given:
वह विकल्प चुनिए जो दिए गए कथनों एवं निष्कर्षों के बारे में सही है।

Statements/कथन :

All dots are lines/सभी बिंदु पंक्तियाँ हैं

All lines are triangles/सभी पंक्तियाँ त्रिकोण हैं

GET IT ON Google Play Best Study PDF के लिए हमारी App को Download करें "GK Trick By Nitin Gupta"

Conclusions:/निष्कर्ष :

I. All dots are triangles/ I. सभी बिंदु त्रिकोण हैं

II. All triangles are dots/ II. सभी त्रिकोण बिंदु हैं

(a) Only conclusion I follows
केवल निष्कर्ष I निकलता है

(b) Only conclusion II follows
केवल निष्कर्ष II निकलता है

(c) Both conclusion I and II follows
दोनों निष्कर्ष I और II निकलते हैं

(d) None of the conclusion I or II follows
निष्कर्ष I या II में से कोई नहीं निकलता है

MP Police Constable Exam 19 July 2016 - 9:am

Ans : (a) कथनानुसार, वेन आरेख बनाने पर-

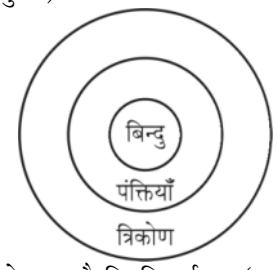

अतः वेन आरेख से स्पष्ट है कि निष्कर्ष (I) 'सभी बिन्दु त्रिकोण है' को स्पष्ट रूप से निकाला जा सकता है।

Direction (Q. Nos. 160 to 167) : In the questions below are given two statements followed by two conclusions. You have to take the two given statements to be true even if they seem to be absurd and decide which of the given conclusions logically follow(s).

निर्देश (प्रश्न सं. 160 से 167) : नीचे दिये गये प्रश्नों में दो कथन एवं दो निष्कर्ष दिये गये हैं। आपको दिये गये कथनों को सत्य मानना है चाहे वे असंगत लगते हों तथा यह निर्णय करना है कि दिये गये निष्कर्षों में से कौन-सा/से तार्किक रूप से ही है/हैं।

160. Statements/कथन :

I. All cats are animals./सभी बिल्लियाँ जानवर हैं।

II. No animal is a man./कोई जानवर आदमी नहीं है।

Conclusions/निष्कर्ष :

(1) Some cats are men./कुछ बिल्लियाँ आदमी हैं।

(2) Some men are animals./कुछ आदमी जानवर हैं।

(a) Only conclusion (1) follows/केवल निष्कर्ष (1) सही है

(b) Only conclusion (2) follows/केवल निष्कर्ष (2) सही है

(c) Neither (1) nor (2) follows/न तो (1) और न ही (2) सही है

(d) Both (1) and (2) follow/दोनों (1) व (2) सही हैं

MP Police Constable Recruitment (Second)Test - 2013

Ans. (c) : कथनानुसार, वेन आरेख खींचने पर-

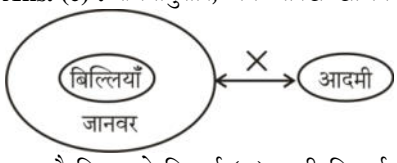

स्पष्ट है कि न तो निष्कर्ष (1) न ही निष्कर्ष (2) सही है।

161. Statements/कथन :

I. Same girls are birds/कुछ लड़कियाँ चिड़ियाँ हैं।

II. Some birds are animals./कुछ चिड़ियाँ जानवर हैं।

Conclusions/निष्कर्ष :

(1) Some girls are animals./कुछ लड़कियाँ जानवर हैं।

(2) Some animals are girls./कुछ जानवर लड़कियाँ हैं।

(a) Only conclusion (1) follows/केवल निष्कर्ष (1) सही है

(b) Only conclusion (2) follows/केवल निष्कर्ष (2) सही है

(c) Neither (1) nor (2) follows/न तो (1) और न ही (2) सही है

(d) Both (1) and (2) follow/दोनों (1) व (2) सही हैं

MP Police Constable Recruitment (Second)Test - 2013

Ans. (c) : कथनानुसार, वेन-आरेख निम्नांकित है-

उपर्युक्त वेन आरेख से स्पष्ट है कि न तो निष्कर्ष (1) न ही (2) सही है।

162. Statements/कथन :

I. Some copies are pens./कुछ कॉपियाँ पेन हैं।

II. Some pens are bags./कुछ पेन थैले हैं।

Conclusions/निष्कर्ष :

(1) Some copies are bags./कुछ कॉपियाँ थैले हैं।

(2) No bag is a pen./कोई थैला पेन नहीं है।

(a) Only conclusion (1) follows/केवल निष्कर्ष (1) सही है

(b) Only conclusion (2) follows/केवल निष्कर्ष (2) सही है

(c) Neither (1) nor (2) follows/न तो (1) और न ही (2) सही है

(d) Both (1) and (2) follow/दोनों (1) व (2) सही हैं

MP Police Constable Recruitment (Second)Test - 2013

Ans. (c) : प्रश्नानुसार, वेन-आरेख खीचने पर-

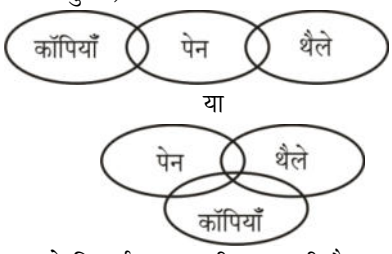

स्पष्ट है कि न तो निष्कर्ष (1) न ही (2) सही है।

163. Statements/कथन :

I. All papers are files./सभी कागज फाइल हैं।

II. Some pens are files./कुछ पेन फाइल हैं।

Conclusions/निष्कर्ष :

(1) No paper is a pen./कोई कागज पेन नहीं है।

(2) Some pens are papers./कुछ पेन कागज हैं।

GET IT ON Google Play Best Study PDF के लिए हमारी App को Download करें "GK Trick By Nitin Gupta"

(a) Only conclusion (1) follows/केवल निष्कर्ष (1) सही है
(b) Only conclusion (2) follows/केवल निष्कर्ष (2) सही है
(c) Neither (1) nor (2) follows/न तो (1) और न ही (2) सही है
(d) Both (1) and (2) follow/दोनों (1) व (2) सही हैं

MP Police Constable Recruitment (Second)Test - 2013

Ans. (c) : वेन-आरेख निम्नांकित है-

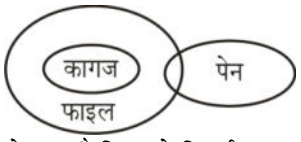

वेन-आरेख से स्पष्ट है कि न तो निष्कर्ष (1) न ही निष्कर्ष (2) सही है।

164. Statements/कथन :

I. Some buildings are rooms../कुछ इमारतें कमरे हैं।
II. All rooms are bricks./सभी कमरे ईंट हैं।
Conclusions/निष्कर्ष :
(1) Some buildings are bricks./कुछ इमारतें ईंट हैं।
(2) Some rooms are buildings./कुछ कमरे इमारतें हैं।

(a) Only conclusion (1) follows/केवल निष्कर्ष (1) सही है
(b) Only conclusion (2) follows/केवल निष्कर्ष (2) सही है
(c) Neither (1) nor (2) follows/न तो (1) और न ही (2) सही है
(d) Both (1) and (2) follow/दोनों (1) व (2) दोनों सही हैं

MP Police Constable Recruitment (Second)Test - 2013

Ans. (d) : प्रश्नानुसार, वेन आरेख खीचने पर-

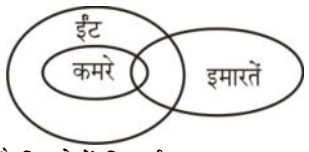

वेन-आरेख से स्पष्ट है कि दोनों निष्कर्ष (1) व (2) सही है।

165. Statements/कथन :

I. Some men are clocks./कुछ आदमी घड़ियाँ हैं।
II. All clocks are keys./सभी घड़ियाँ चाबियाँ हैं।
Conclusions/निष्कर्ष :
(1) Some keys are men./कुछ चाबियाँ आदमी हैं।
(2) Some men are keys./कुछ आदमी चाबियाँ हैं।

(a) Only conclusion (1) follows/केवल निष्कर्ष (1) सही है
(b) Only conclusion (2) follows/केवल निष्कर्ष (2) सही है
(c) Neither (1) nor (2) follows/न तो निष्कर्ष (1) और न ही (2) सही है
(d) Both (1) and (2) follow/दोनों निष्कर्ष (1) व (2) सही हैं

MP Police Constable Recruitment (Second)Test - 2013

Ans. (d) : वेन-आरेख निम्नांकित है-

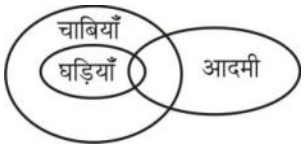

निष्कर्ष - (i) (✓)
(ii) (✓)

166. Statements/कथन :

I. Some boys are parrots./कुछ लड़के तोते हैं।
II. Some parrots are flowers./कुछ तोते फूल हैं।
Conclusions/निष्कर्ष :
(1) Some boys are flowers./कुछ लड़के फूल हैं।
(2) Some parrots are flowers./कुछ तोते फूल हैं।

(a) Only conclusion (1) follows/केवल निष्कर्ष (1) सही है
(b) Only conclusion (2) follows/केवल निष्कर्ष (2) सही है
(c) Neither (1) nor (2) follows/न तो (1) और न ही (2) सही है
(d) Both (1) and (2) follow/दोनों (1) व (2) सही हैं

MP Police Constable Recruitment (Second)Test - 2013

Ans. (b) : कथनानुसार, वेन-आरेख खीचने पर-

निष्कर्ष - (i) (×)
(ii) (✓)

167. Statements/कथन :

I. All men are heavy./सभी आदमी भारी हैं।
II. Some women are heavy./कुछ महिलायें भारी हैं।
Conclusions/निष्कर्ष :
(1) Some heavy are not men./कुछ भारी आदमी नहीं हैं।
(2) Some women are men./कुछ महिलायें आदमी हैं।

(a) Only conclusion (1) follows/केवल निष्कर्ष (1) सही है
(b) Only conclusion (2) follows/केवल निष्कर्ष (2) सही है
(c) Neither (1) nor (2) follows/न तो (1) और न ही (2) सही है
(d) Both (1) and (2) follow/दोनों (1) व (2) सही हैं

MP Police Constable Recruitment (Second)Test - 2013

Ans. (a) : कथनानुसार, वेन-आरेख खीचने पर-

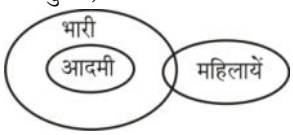

निष्कर्ष - (1) (✓)
(2) (✓)

GET IT ON Google Play Best Study PDF के लिए हमारी App को Download करें "GK Trick By Nitin Gupta"

168. Statements/कथन :

I. Science teachers do not use plastic bags./विज्ञान के अध्यापक प्लास्टिक के थैलों का प्रयोग नहीं करते।

II. Plastic bags are not used by some engineers./प्लास्टिक के थैलों का प्रयोग कुछ इन्जीनियरों द्वारा नहीं किया जाता।

Conclusions/निष्कर्ष :

(1) All science teachers are engineers./विज्ञान के सभी अध्यापक इन्जीनियर हैं।

(2) All engineers do not use plastic bags./सभी इन्जीनियर प्लास्टिक के थैलों का प्रयोग नहीं करते।

(a) Only conclusion (1) follows/केवल निष्कर्ष (1) सही है

(b) Only conclusion (2) follows/केवल निष्कर्ष (2) सही है

(c) Neither (1) nor (2) follows/न तो (1) और न ही (2) सही है

(d) Both (1) and (2) follow/दोनों (1) व (2) सही हैं

MP Police Constable Recruitment (Second)Test - 2013

Ans. (c) **:** कथनानुसार, विज्ञान के सभी अध्यापक एवं कुछ इंजीनियर द्वारा प्लास्टिक के थैलों का उपयोग नही किया जाता है। अतः न तो निष्कर्ष (1) न ही निष्कर्ष (2) सही है।

169. In the question given below, some statements are given followed by few conclusions. You have to consider the statements to be true even they seem to be at variance from commonly known facts. You have to decide which of the given conclusions, if any follow from the given statements.

Statements:

All chocolates are sweets.

Some sweets are harmful.

Conclusions:

I. Some chocolates are harmful is a possibility.

II. Some sweets are chocolates.

नीचे दिए गए प्रश्न में, कुछ कथन और उसके बाद कुछ निष्कर्ष दिए गए हैं। आपको कथनों को सत्य मानना है, भले ही वे सामान्यतः ज्ञात तथ्यों से भिन्न प्रतीत होते हों। आपको यह तय करना है कि दिए गए निष्कर्षों में से कौन-सा, यदि कोई हो, दिए गए कथनों का अनुसरण करता है।

कथनः

सभी चॉकलेट मिठाई हैं।

कुछ मिठाई हानि कारक हैं।

निष्कर्षः

I. कुछ चॉकलेट के हानि कारक होने की संभावना है।

II. कुछ मिठाइयाँ चोकलेट हैं।

(a) only conclusion I follows/केवल निष्कर्ष I अनुसरण करता है

(b) only conclusions II follows/केवल निष्कर्ष II अनुसरण करता है

(c) either conclusion I or II follows/या तो निष्कर्ष I या II अनुसरण करता है

(d) both conclusion I and II follow/निष्कर्ष I और II दोनों अनुसरण करते हैं

MP Police Constable Exam- 16 August-2023 Shift-2

Ans. (d) : कथनानुसार, वेन-आरेख खीचने पर-

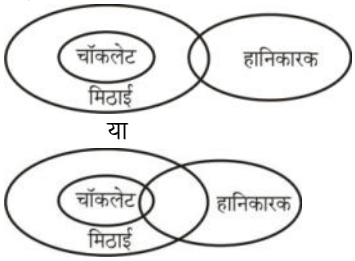

निष्कर्ष -

I - (✓)

II - (✓)

170. In each question below, three statements are given followed by two conclusions numbered I and II. You have to take the given statements to be true even if they seem to be at variance with commonly known facts. Read all the conclusions and then decide which of the given conclusions logically follow(s) from the given statements, disregarding the commonly known facts.

Statements:

Some alive are dead.

All dead are souls.

No soul is human.

Conclusions:

I. Some humans being alive is a possibility.

II, No dead is human.

नीचे दिए गए प्रत्येक प्रश्न में तीन कथन और उसके बाद I और II क्रमांकित दो निष्कर्ष दिए गए हैं। आपको दिए गए कथनों को सत्य मानना है, भले ही वे सामान्यतः ज्ञात तथ्यों से भिन्न प्रतीत होते हों। सभी निष्कर्षों को पढ़ें और फिर तय करें कि दिए गए निष्कर्षों में से कौन-सा सामान्य ज्ञात तथ्यों को नजरअंदाज करते हुए दिए गए कथनों का तार्किक रूप से अनुसरण करता है।

कथनः

कुछ जीवित मृत हैं।

सभी मृत आत्मा हैं।

कोई आत्मा मनुष्य नहीं है।

निष्कर्षः

I. कुछ मनुष्य के जीवित होने की सम्भावना है।

II. कोई भी मृत मनुष्य नहीं है

(a) Both conclusions I and II follows/निष्कर्ष I तथा II दोनों अनुसरण करते है

(b) Only conclusion I follows/केवल निष्कर्ष I अनुसरण करता है

(c) Only conclusion II follows/केवल निष्कर्ष II अनुसरण करता है

(d) Either conclusion I or II follows/या तो निष्कर्ष I या II का अनुसरण करता है

MP Police Constable Exam- 16 August-2023 Shift-2

GET IT ON Google Play Best Study PDF के लिए हमारी App को Download करें "GK Trick By Nitin Gupta"

Ans. (a) : प्रश्नानुसार, वेन-आरेख निम्नांकित है-

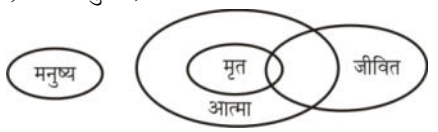

या

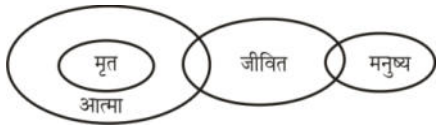

निष्कर्ष -

I - (✓)

II - (✓)

171. In the following question, a statement followed by two conclusions is given. You have to select a conclusion that follows from the statement.

Statement:

The garden outside my Grandmother's house is extremely beautiful and bigger than the usual ones.

Conclusions:

I. The garden has roses of yellow, pink and white colour.

II. The garden has a little kennel for Tintin.

निम्नलिखित प्रश्न में एक कथन और उसके नीचे दो निष्कर्ष दिए गए हैं। आपकों एक निष्कर्ष का चयन करना है जो कि कथन का अनुसरण करता है।

कथनः मेरी दादी के घर के बाहर का बगीचा बेहद खूबसूरत और सामान्य बगीचों से बड़ा है।

निष्कर्षः

I. बगीचे में पीले, गुलाबी और सफेद रंग के गुलाब हैं।

II. बगीचे में टिनटिन के लिए एक छोटा सा कुत्ताघर है।

(a) only conclusion (I) follows/केवल निष्कर्ष (I) अनुसरण करता है

(b) only conclusion (II) follows/केवल निष्कर्ष (II) अनुसरण करता है

(c) either conclusion (I) or (II) follows /या तो निष्कर्ष (I) या (II) अनुसरण करता है

(d) neither conclusion (I) nor (II) follows /न तो निष्कर्ष (I) न ही (II) अनुसरण करता है

MP Police Constable Exam- 16 August-2023 Shift-2

Ans. (d) : कथनानुसार, दादी के घर के बाहर का बगीचा बेहद खूबसूरत एवं सामान्य से बड़ा है कथन में बगीचे में फूलों के रंग एवं कुत्तेघर का वर्णन नहीं है।

अतः न तो निष्कर्ष (I) न ही (II) अनुसरण करता है।

172. Select the option that is true about the Statements and Conclusions given :

वह विकल्प चुनिए जो दिए गए कथनों एवं निष्कर्षों के बारे में सही है।

Statements / कथनः

All red are blues / सभी लाल नीले हैं

Some red are greens / कुछ लाल हरे हैं

Conclusions / निष्कर्षः

I. Some blues are greens / कुछ नीले हरे हैं

II Some greens are blues / कुछ हरे नीले हैं

(a) Only conclusion I follows
केवल निष्कर्ष I निकलता है

(b) Only conclusion II follows
केवल निष्कर्ष II निकलता है

(c) Both conclusion I and II follows
दोनों निष्कर्ष I और II निकलते हैं

(d) None of the conclusion I or II follows
निष्कर्ष I या II में से कोई नहीं निकलता है

MP Police Constable Exam- 20 July-2016 - 9: am

Ans : (c)

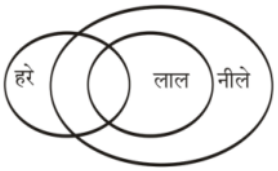

निष्कर्ष : I (✓)

II (✓)

उपरोक्त आरेख से स्पष्ट है कि निष्कर्ष I और II दोनों निकलता है।

173. Select the option that is true about the Statements and Conclusions given :

वह विकल्प चुनिए जो दिए गए कथनों एवं निष्कर्षों के बारे में सही है।

Statements: / कथनः

Some buds are flowers /कुछ कलियाँ फूल हैं

Some flowers are shrubs /कुछ फूल झाड़ियाँ हैं

Conclusions: / निष्कर्षः

I.Some flowers are not shrubs/कुछ फूल झाड़ियाँ नहीं हैं

II.Some buds are not flowers/कुछ कलियाँ फूल नहीं हैं

(a) Only conclusion I follows
केवल निष्कर्ष I निकलता है

(b) Only conclusion II follows
केवल निष्कर्ष II निकलता है

(c) Both conclusion I and II follows
दोनों निष्कर्ष I और II निकलते हैं

(d) None of the conclusion I or II follows
निष्कर्ष I या II में से कोई नहीं निकलता है

MP Police Constable Exam- 20 July-2016 - 9: am

Ans : (d)

उपरोक्त आरेख से स्पष्ट है –निष्कर्ष I या II में से कोई नहीं निकलता है।

174. In a certain code language, ako urep means life sentence, atem asil means lived long, anod asil urep means life lived well. Which is the word for well in that code language?

किसी खास कोड भाषा में, ako urep का मतलब है life sentence, atem asil का मतलब lived long, anod asil urep का मतलब है life lived well। उसी कोड भाषा में well के लिए क्या शब्द है?

(a) ako (b) urep

(c) anod (d) asil

MP Police Constable Exam 25 July 2016 - 9:am

GET IT ON Google Play Best Study PDF के लिए हमारी App को Download करें "GK Trick By Nitin Gupta"

Ans : (c) प्रश्नानुसार,

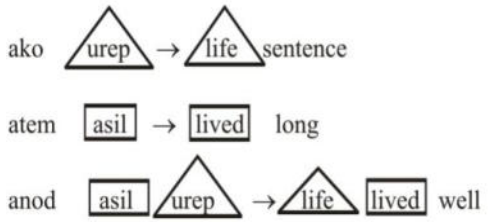

well = anod होगा।

175. Select the option that is true about the Statements and Conclusions given:
वह विकल्प चुनिए जो दिए गए कथनों एवं निष्कर्षो के बारे में सही है।

Statements :/कथनः

Some doctors are artists
कुछ डॉक्टर कलाकार है
All artists are engineers
सभी कलाकार इंजीनियर हैं

Conclusions :/निष्कर्षः

I. Some doctors are engineers
कुछ डॉक्टर इंजीनियर हैं
II. All doctors are engineers
सभी डॉक्टर इंजीनियर हैं

(a) Only conclusion I follows
केवल निष्कर्ष I निकलता है
(b) Only conclusion II follows
केवल निष्कर्ष II निकालता है
(c) Both conclusion I and II follows
दोनों निष्कर्ष I और II निकलते हैं
(d) None of the conclusion I or II follows
निष्कर्ष I या II में से कोई नहीं निकलता है

MP Police Constable Exam 25 July 2016 - 9:am

Ans : (a) कथनानुसार, वेन आरेख बनाने पर-

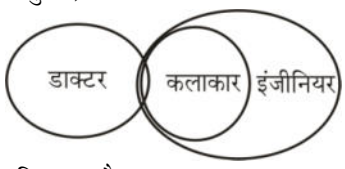

केवल निष्कर्ष I निकलता है।

176. Select the option that is true about the Statements and Conclusions given:
वह विकल्प चुनिए जो दिए गए कथनों एवं निष्कर्षो के बारे में सही है।

Statements:/कथनः

All trees are shrubs
सभी पेड़ झाड़ियां हैं
Some plants are trees
कुछ पौधे पेड़ हैं

Conclusions :/निष्कर्ष :

I. Some plants are shrubs
कुछ पौधे झाड़ियां हैं
II. Some plants are not shrubs
कुछ पौधे झाड़ियां नहीं है

(a) Only conclusion I follows
केवल निष्कर्ष I निकलता है
(b) Only conclusion II follows
केवल निष्कर्ष II निकलता है
(c) Both conculusion I and II follows
दोनों निष्कर्ष I और II निकलते हैं
(d) None of the conclusion I or II follows
निष्कर्ष I या II में से कोई नहीं निकलता है

MP Police Constable Exam 25 July 2016 - 9:am

Ans : (a) कथनानुसार, वेन आरेख बनाने पर-

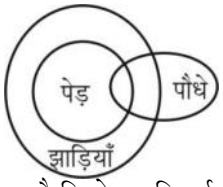

दिये गये आरेख से स्पष्ट है कि केवल निष्कर्ष I निकलता है।

177. Select the option that is true about the Statements and Conclusions given:
वह विकल्प चुनिए जो दिए गए कथनों एवं निष्कर्षो के बारे में सही है।

Statements:/कथनः

All bangles are round
सभी चूड़ियां गोल हैं
Some rings are bangles
कुछ अंगूठियां चूड़ियां है

Conclusions:/निष्कर्षः

I. All round bangles are rings
सभी गोल चूड़ियां अंगूठियां हैं
II. Some rings are round
कुछ अंगूठियां गोल हैं

(a) Only conclusion I follows
केवल निष्कर्ष I निकलता है
(b) Only conclusion II follows
केवल निष्कर्ष II निकलता है
(c) Both conclusion I and II follows
दोनों निष्कर्ष I और II निकलते हैं
(d) None of the conclusion I or II follows
निष्कर्ष I या II में से कोई नहीं निकलता है

MP Police Constable Exam 25 July 2016 - 9:am

Ans : (b) कथनानुसार, वेन आरेख बनाने पर-

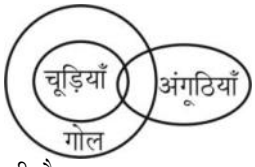

केवल निष्कर्ष (ii) सही है।

178. Select the option that is true about the Statements and Conclusions given:
वह विकल्प चुनिए जो दिए गए कथनों एवं निष्कर्षो के बारे में सही है।

Statements :/कथनः

All bats are balls/सभी बल्ले गेंदे हैं
All balls are balloons/सभी गेंदे गुबारे हैं

GET IT ON Google Play Best Study PDF के लिए हमारी App को Download करें "GK Trick By Nitin Gupta"

Conclusions :/निष्कर्ष :

I. Some balloons are bats/कुछ गुब्बारे बल्ले हैं

II. All balloons are bats/सभी गुब्बारे बल्ले है

(a) Only conclusion I follows
केवल निष्कर्ष I निकलता है

(b) Only conclusion II follows
केवल निष्कर्ष II निकलता है

(c) Both conclusion I and II follows
दोनों निष्कर्ष I और II निकलते है

(d) None of the conclusion I or II follows
निष्कर्ष I या II में से कोई नहीं निकलता है

MP Police Constable Exam 17 July 2016 - 9:am

Ans : (a) कथनानुसार, वेन आरेख बनाने पर-

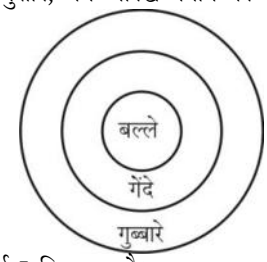

अतः केवल निष्कर्ष I निकलता है।

179. Select the option that is true about the Statements and Conclusions given:
वह विकल्प चुनिए जो दिए गए कथनों एवं निष्कर्षो के बारे में सही है।

Statements :/ कथनः

All readers are poets/सभी पाठक कवी हैं

All writers are readers/सभी लेखक पाठक हैं

Conclusions :/निष्कर्ष :

I. All readers are writers/सभी पाठक लेखक है

II. All writers are poetss/सभी लेखक कवि है

(a) Only conclusion I follows
केवल निष्कर्ष I निकलता है

(b) Only conclusion II follows
केवल निष्कर्ष II निकलता है

(c) Both conclusion I and II follows
दोनों निष्कर्ष I और II निकलते हैं

(d) None of the conclusion I or II follows
निष्कर्ष I या IeI में से कोई नहीं निकलता है

MP Police Constable Exam 17 July 2016 - 9:am

Ans : (b) कथनानुसार, वेन आरेख बनाने पर-

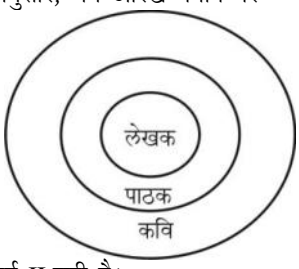

अतः केवल निष्कर्ष II सही है।

180. Select the option that is true about the Statements and Conclusiions given:
वह विकल्प चुनिए जो दिए गए कथनों एवं निष्कर्षो के बारे में सही है।

Statements:/कथनः

All teasers are puzzles./सभी मुश्किल सवाल पहेली हैं।

All puzzles are ticklers./सभी पहेली नाजुक परिस्थिति है।

Conclusions:/निष्कर्षः

I. All teasers are ticklers.
सभी मुश्किल सवाल नाजुक परिस्थिति हैं।

II. All ticklers are teasers.
सभी नाजुक परिस्थिति मुश्किल सवाल हैं।

(a) Only conclusion I follows
केवल निष्कर्ष I निकलता है

(b) Only conclusion II follows
केवल निष्कर्ष II निकलता है

(c) Either conclusion I or conclusion II follows
या तो निष्कर्ष I या फिर निष्कर्ष II निकलता है

(d) Neither conclusion I nor conclusion II follows
न तो निष्कर्ष I निकलता है और न ही निष्कर्ष II

MP Police Constable Exam 17 July 2016 - 9:am

Ans : (a) कथनानुसार, वेन आरेख बनाने पर-

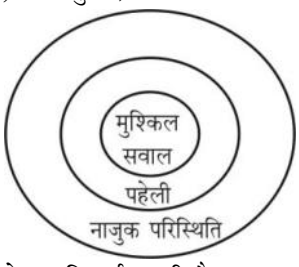

केवल निष्कर्ष I सही है।

181. Select the option that is true about the Statements and Conclusions given:
वह विकल्प चुनिए जो दिए कथनों एवं निष्कर्षों के बारे में सही है।

Statements/कथनः

(1) Some fish are not kids
कुछ मछलियाँ बच्चे नहीं हैं

(2) All fish are flies/सभी मछलियाँ मक्खियाँ हैं।

Conclusions/निष्कर्षः

I. Some flies are not kids.
कुछ मक्खियां बच्चे नहीं हैं।

II. All flies are fish
सभी मक्खियां मछली हैं।

(a) Only conclusion I follows
केवल निष्कर्ष I निकलता है

(b) Only conclusion II follows
केवल निष्कर्ष II निकलता है

(c) Both conclusion I and II follows
निष्कर्ष I और II दोनों निकलते हैं

(d) None of the conclusion I or II follows
निष्कर्ष I या II में से कोई नहीं निकलता है

MP Police Constable Exam- 1 August-2016, 3:pm

GET IT ON Google Play Best Study PDF के लिए हमारी App को Download करें "GK Trick By Nitin Gupta"

Ans : (a) कथनानुसार वेन-आरेख खीचने पर-

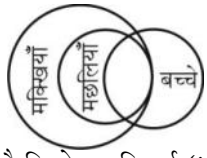

वेन-आरेख से स्पष्ट है कि केवल निष्कर्ष (i) सही है।

182. Select the option that is true about the Statements and Conclusions given:
वह विकल्प चुनिए जो दिए गए कथनों एवं निष्कर्षों के बारे में सही है।

Statements:/कथनः

All boys are hard workers/सभी लड़के मेहनती हैं

Ramu is a boy/रामू एक लड़का है

Conclusions:/निष्कर्षः

(I) Ramu is a hard worker/रामू मेहनती है

(II) Shyam is not a hard worer
श्याम मेहनती नहीं है

(a) Only conclusion I follows
केवल निष्कर्ष I निकलता है

(b) Only conclusion II follows
केवल निष्कर्ष II निकलता है

(c) Both conclusion I and II follows
निष्कर्ष I और II दोनों निकलते हैं

(d) None of the conclusion I or II follows
निष्कर्ष I या II में से कोई नहीं निकलता है

MP Police Constable Exam- 1 August-2016, 3:pm

Ans : (a) कथनानुसार वेन-आरेख खीचने पर-

अतः केवल निष्कर्ष I निकलता है
श्याम के विषय में निश्चित नहीं है।

183. Select the option that is true about the Statements and Conclusions given–
वह विकल्प चुनिए जो दिए गए कथनों एवं निष्कर्षों के बारे में सही है।

Statements/कथन

Some people are clever/कुछ लोग चालाक हैं

Some clever are fools/कुछ चालाक मूर्ख हैं

Conclusions/निष्कर्ष

I. Some people are fools/कुछ लोग मूर्ख हैं

II. All fools are clever/सभी मूर्ख चालाक हैं

(a) Only conclusion I follows
केवल निष्कर्ष I निकलता है

(b) Only conclusion II follows
केवल निष्कर्ष II निकलता है

(c) Both conclusion I and II follows
दोनों निष्कर्ष I और II निकलते हैं।

(d) None of the conclusion I or II follows
निष्कर्ष I या II में से कोई नहीं निकलता है

MP Police Constable Exam 24 July 2016 - 9:am

Ans : (d) कथनानुसार, वेन आरेख बनाने पर-

निष्कर्ष (I) X
(II) X

अतः निष्कर्ष I या II में से कोई नहीं निकलता है।

184. Select the option that is true about the Statements and Conclusions given–
वह विकल्प चुनिए जो दिए गए कथनों एवं निष्कर्षों के बारे में सही है।

Statements/कथन :

All shirts are not pants/सभी शर्ट पैन्ट नहीं हैं

All pants are shoes/सभी पैंट जूते हैं

Conclusions/निष्कर्ष :

I. Some shoes are shirts/कुछ जूते शर्ट नहीं हैं

II. Some pants are not shirts/कुछ पैंट शर्ट नहीं हैं

(a) Only conclusion I follows/
केवल निष्कर्ष I निकलता है

(b) Only conclusion II follows/
केवल निष्कर्ष II निकलता है

(c) Either conclusion I or conclusion II follows/
या तो निष्कर्ष I या फिर निष्कर्ष II निकलता है

(d) Neither conclusion I nor conclusion II follows
न तो निष्कर्ष I निकलता है और न ही निष्कर्ष II

MP Police Constable Exam 24 July 2016 - 9:am

Ans : (b) कथनानुसार, वेन आरेख बनाने पर-

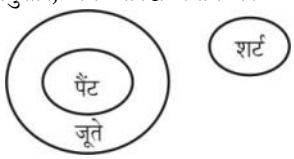

निष्कर्ष (I) X
(II) ✓

अतः केवल निष्कर्ष (II) निकलता है।

185. Select the option that is true about the Statements and Conclusions given:
वह विकल्प चुनिए, जो दिए गए कथनों एवं निष्कर्षों के बारे में सही है।

Statements:/कथनः

All lions are animals/सभी शेर जानवर हैं

All tigers are animals/सभी बाघ जानवर हैं

Conclusions:/निष्कर्षः

All tigers are lions/सभी बाघ शेर हैं

Some animals are not tigers/कुछ जानवर बाघ नहीं हैं

(a) Only conclusion I follows
केवल निष्कर्ष I निकलता है

(b) Only conclusion II follows
केवल निष्कर्ष II निकलता है

(c) Both conclusion I and II follows
दोनों निष्कर्ष I और II निकलते हैं

(d) None of the conclusion I or II follows
निष्कर्ष I या II में से कोई नहीं निकलता है

MP Police Constable Exam 17 July 2016 - 12:am

GET IT ON Google Play Best Study PDF के लिए हमारी App को Download करें "GK Trick By Nitin Gupta"

Ans. (b) कथनानुसार, वेन आरेख निम्नवत् है-

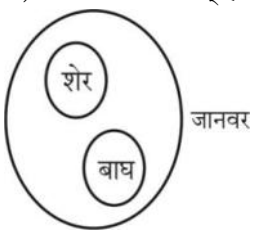

अतः स्पष्ट है कि निष्कर्ष II कुछ जानवर बाघ नहीं है, स्पष्ट रूप से निकलता है।

186. Identify the class that best represents the Venn-diagram.
उस वर्ग की पहचान करें जो वेन-आरेख का सबसे अच्छा प्रतिनिधित्व करता है।



(a) Asia, India, China/एशिया, भारत, चीन
(b) Gold, Jewellery, Ring/सोना, आभूषण, अंगूठी
(c) Tree, Carbon dioxide, Copper/पेड़, कार्बन डाइऑक्साइड, ताँबा
(d) India, Rupees, Wood/भारत, रुपये, लकड़ी

MP Police Constable Exam- 9 Sep-2023 Shift-3

Ans. (a) : प्रश्नानुसार,

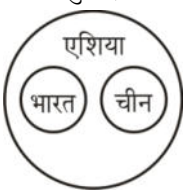

अतः विकल्प (a) का वर्ग (एशिया, भारत, चीन) दिए गए वेन आरेख का सबसे अच्छा प्रतिनिधित्व करता है।

187. Identify the class that best represents the Venn-diagram.
उस वर्ग की पहचान करें जो वेन-आरेख का सबसे अच्छा प्रतिनिधित्व करता है।



(a) Doctors, Professors, Hospital/डॉक्टर, प्रोफेसर, अस्पताल
(b) Professors, Post-graduates, Employed/प्रोफेसर, स्नातकोत्तर, कार्यरत
(c) Infant, Living being, Trees/शिशु, जीवित प्राणी, पेड़
(d) English, Hindi, Urdu/अंग्रेजी, हिंदी, उर्दू

Ans. (c) : प्रश्नानुसार, वेन आरेख निम्नवत् है–

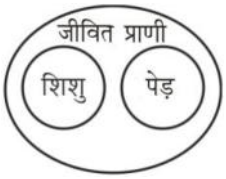

अतः विकल्प (c) में दिया गया वेन आरेख दिए गए वर्गों के बीच के सम्बन्ध को सर्वोत्तम ढंग से निरूपित करता है।

188. Which of the following diagram indicates best relation between Milk, Yogurt and Dairy products?
निम्नलिखित में से कौन-सा आरेख दूध, दही और डेयरी उत्पादों के बीच सबसे अच्छे संबंध को दर्शाता है?

(a) 
(b) 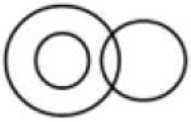
(c) 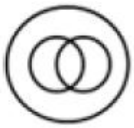
(d)

MP Police Constable Exam- 9 Sep -2023 Shift-3

Ans. (d) : प्रश्नानुसार,
वेन आरेख बनाने पर-

अतः विकल्प (d) सही उत्तर होगा।

189. Which of the following diagram indicates best relation between Chair, Glass and Knife ?
निम्नलिखित में से कौन-सा आरेख कुर्सी, कांच और चाकू के बीच सबसे अच्छे संबंध को दर्शाता है ?

(a) 
(b)
(c)
(d) 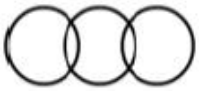

MP Police Constable Exam- 3 Sep-2023 Shift-1

Ans. (a) : कुर्सी, कांच और चाकू के बीच सही सम्बन्ध को दर्शाने के लिए सही वेन आरेख निम्नवत् है।

GET IT ON Google Play Best Study PDF के लिए हमारी App को Download करें "GK Trick By Nitin Gupta"

भाग-10.

आरेख-विश्लेषण (Diagram Analysis)

Type-1: अंग्रेजी वर्णमाला के अक्षरों एवं प्रतीकों पर आधारित आरेख संबंधी प्रश्न

1. In the given diagram, Rhombus represents the trees, Circle represents Flowers and Triangle represents Fruits.
दिए गए आरेख में समचतुर्भुज पेड़ों का प्रतिनिधित्व करता है, वृत्त फूलों का प्रतिनिधित्व करता है और त्रिभुज फलों का प्रतिनिधित्व करता है।

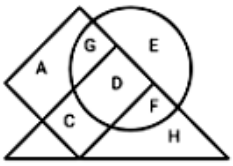

Which Alphabet represents the tree that grow only flowers not fruits ?
कौन-सा अक्षर उस पेड़ को दर्शाता है जिस पर केवल फूल उगते हैं फल नहीं ?

(a) G (b) D
(c) H (d) F

MP Police Constable Exam- 5 Sep-2023 Shift-2

Ans. (a) :

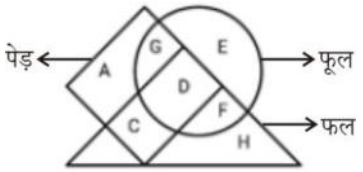

उपर्युक्त आरेख से स्पष्ट है कि अक्षर 'G' उस पेड़ को दर्शाता है जिस पर केवल फूल उगते है फल नहीं।

2. In the following figure, triangle represents air hostess, circle represents dancing, pentagon represents singing, rectangle represents painting and square represents cooking. What does letter 'M and I' represents?
निम्नलिखित आरेख में, त्रिभुज एयर होस्टेस का प्रतिनिधित्व करता है, वृत्त नृत्य का प्रतिनिधित्व करता है, पंचकोण गायन का प्रतिनिधित्व करता है, आयत चित्रकारी का प्रतिनिधित्व करता है और वर्ग कुकिंग का प्रतिनिधित्व करता है। अक्षर 'M और I' किसका प्रतिनिधित्व है?

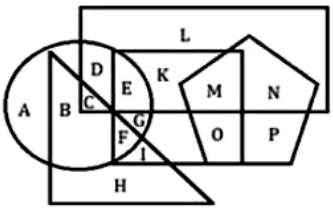

(a) Airhostess who are good in cooking, singing and dancing but not in painting/एयरहोस्टेस जो कुकिंग, गाने और नृत्य करने में अच्छी हैं लेकिन चित्रकारी में नहीं
(b) Airhostess who are good in cooking, painting and dancing not in singing/एयरहोस्टेस जो कुकिंग, चित्रकारी और नृत्य में अच्छी हैं, गाने में नहीं
(c) Airhostess who are good in cooking, singing and painting but not in dancing/एयरहोस्टेस जो कुकिंग, गाने और चित्रकारी में अच्छी हैं लेकिन नृत्य में नहीं
(d) Airhostess who are good in dancing, singing and painting but not in cooking/एयरहोस्टेस जो नृत्य, गाने और चित्रकारी में अच्छी हैं लेकिन कुकिंग में नहीं

MP Police Constable Exam- 6 Sep-2023 Shift-3

Ans. (c) : प्रश्नगत आरेख से स्पष्ट है कि, M और I एअरहोस्टेस जो कुकिंग, गाने और चित्रकारी में अच्छी है लेकिन नृत्य में नहीं का प्रतिनिधित्व करते हैं।

3. In the following figure, triangle represents boys, circle represents interior designer, hexagon represents girls, rectangle represents hotel management and square represents wedding planner. What does letter 'C' represent?
निम्नलिखित आरेख में, त्रिभुज लड़कों का प्रतिनिधित्व करता है, वृत्त इंटीरियर डिजाइनर का प्रतिनिधित्व करता है, षट्भुज लड़कियों का प्रतिनिधित्व करता है, आयत होटल मैनेजमेंट का प्रतिनिधित्व करता है और वर्ग वेडिंग प्लानर का प्रतिनिधित्व करता है। अक्षर 'C' किसका प्रतिनिधित्व है?

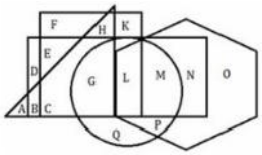

(a) Boys who are studying hotel management and also work as interior designer/लड़के जो होटल मैनेजमेंट की पढ़ाई कर रहे हैं और इंटीरियर डिजाइनर के रूप में भी काम करते हैं
(b) Boys who are studying hotel management and also work as wedding planner/लड़के जो होटल मैनेजमेंट की पढ़ाई कर रहे हैं और वेडिंग प्लानर के रूप में भी काम करते हैं
(c) Girls who are studying hotel management and also work as wedding planner/लड़कियां जो होटल मैनेजमेंट की पढ़ाई कर रही हैं और वेडिंग प्लानर के तौर पर भी काम करती हैं
(d) Girls who are studying hotel management and also work as interior designer/लड़कियां जो होटल मैनेजमेंट की पढ़ाई कर रही हैं और इंटीरियर डिजाइनर के रूप में भी काम करती हैं

MP Police Constable Exam- 8 Sep-2023 Shift-1

GET IT ON Google Play Best Study PDF के लिए हमारी App को Download करें "GK Trick By Nitin Gupta"

Ans. (b) : दिये गये चित्र के अनुसार 'c' एसे लड़कों का प्रतिनिधित्व करता है जो होटल मैनेजमेंट की पढ़ाई कर रहे हैं और वेडिंग प्लानर के रूप में भी काम कर रहे हैं।

4. In the given diagram, Triangle represents the people who like to travel in mountains, Square represents the people who like to travel in deserts and Rectangle represents the people beaches.
दिए गए आरेख में, त्रिभुज उन लोगों का प्रतिनिधित्व करता है जो पहाड़ों में यात्रा करना पसंद करते हैं, वर्ग उन लोगों का प्रतिनिधित्व करता है जो रेगिस्तान में यात्रा करना पसंद करते हैं और आयत उन लोगों का प्रतिनिधित्व करता है जो समुद्र तटों में यात्रा करना पसंद करते हैं।

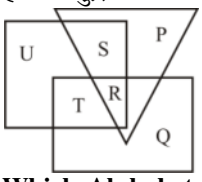

Which Alphabet shows the people who like to travel only in beaches ?
कौन-सी वर्णमाला उन लोगों को दिखाती है जो केवल समुद्र तटों में यात्रा करना पसंद करते हैं ?

(a) P (b) R
(c) Q (d) S

MP Police Constable Exam- 28 August-2023 Shift-3

Ans. (c) : प्रश्नानुसार, आरेख निम्नवत् है–

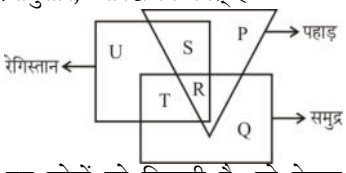

अतः क्षेत्र 'Q' उन लोगों को दिखाती है, जो केवल समुद्र तटों में यात्रा करना पसंद करते हैं।

5. In the given figure, Circle represents the pet animals, Square represents the domestic animals. Study the diagram and identify the animals which are both pet and domestic animals.
दी गई आकृति में, वृत्त पालतू जानवरों का प्रतिनिधित्व करता है, वर्ग घरेलू जानवरों का प्रतिनिधित्व करता है। आरेख का अध्ययन करें और उन जानवरों की पहचान करें जो पालतू और घरेलू जानवर दोनों हैं।

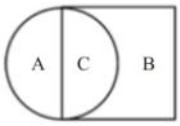

(a) A (b) B
(c) C (d) A and B/A और B

MP Police Constable Exam- 23 August-2023 Shift-1

Ans. (c) : प्रश्नानुसार,

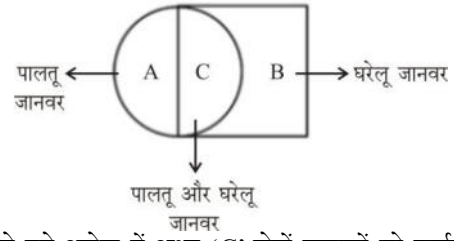

अतः दिये गये आरेख में अक्षर 'C' दोनों जानवरों को दर्शाता है।

6. In the given figure, which Alphabet indicates the Women who are neither Sister nor Grandmother ?
दी गई आकृति में, कौन-सी वर्णमाला उन महिलाओं को इंगित करती है जो न तो बहन हैं और न ही दादी हैं?

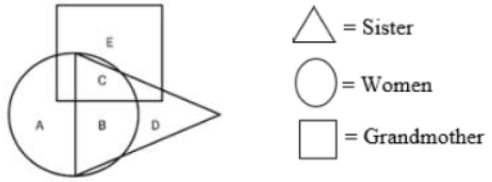

(a) B (b) A
(c) D (d) E

MP Police Constable Exam- 25 August-2023 Shift-3

Ans. (b) : दी गयी आकृति से–

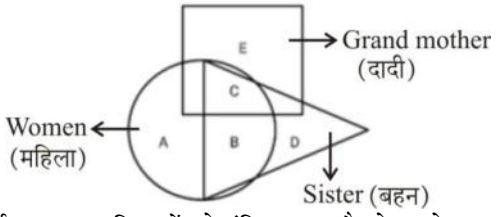

A वर्णमाला उन महिलाओं को इंगित करता है जो न तो बहन न तो दादी है।

7. Find the part which presents those actors who are also singers.
वह कौन-सा भाग है, जो दर्शाता है, कि जो अभिनेता है वह गायक भी है?

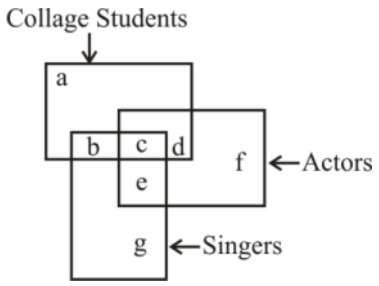

(a) a (b) b
(c) e (d) f

MP Police Constable Exam- 11 Sep-2023 Shift-3

Ans. (c) : प्रश्नानुसार,

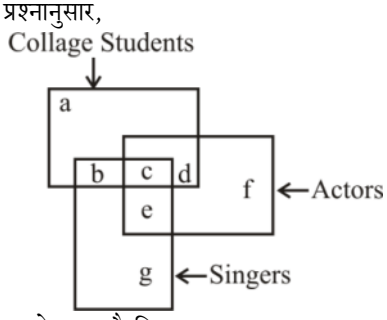

उपर्युक्त आरेख से स्पष्ट है कि अक्षर 'e' Actors & Singers दोनों को दर्शाता है।

8. In the following diagram, the cricle represents college professor, the triangle stands for surgical specialist and medical specialists are represented by the rectangle.

GET IT ON Google Play Best Study PDF के लिए हमारी App को Download करें "GK Trick By Nitin Gupta"

निम्न आकृति में, वृत्त कॉलेज के प्राध्यापक को प्रस्तुत करता है, त्रिकोण दर्शाता है शल्यचिकित्सक विशेषज्ञ और आयुर्विज्ञान चिकित्सक आयत द्वारा प्रस्तुत किये गये हैं।

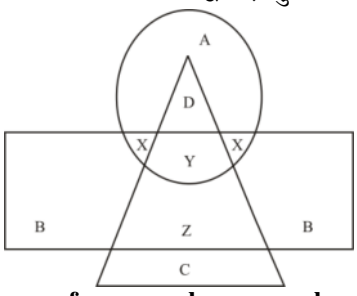

College professors who are also surgical specialists are represented by
कौन कॉलेज के प्राध्यापकों और शल्यचिकित्सक विशेषज्ञों को प्रस्तुत करता है

(a) A (b) B
(c) C (d) D

MP Police Constable Exam 17 July 2016 - 12:am

Ans. (d)

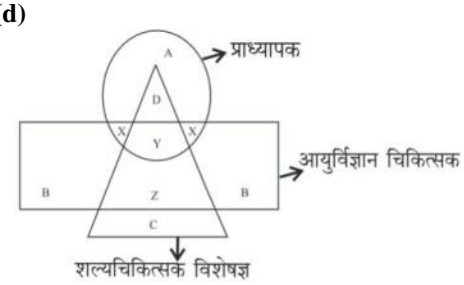

चित्र में D अक्षर 'D' त्रिभुज तथा वृत्त दोनों में है लेकिन आयत में नहीं है। अतः स्पष्ट है कि 'D' कॉलेज के प्राध्यापकों और शल्यचिकित्सक विशेषज्ञों को प्रस्तुत करता है।

9. Find the missing term in diagram shown below?
नीचे दिए गए आरेख में प्रश्नवाचक चिह्न के स्थान पर आने वाला लुप्त अक्षर ज्ञात कीजिए?

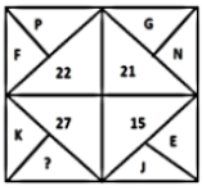

(a) M (b) P
(c) Q (d) S

MP Police Constable Exam- 6 Sep-2023 Shift-3

Ans. (b) : प्रश्नानुसार,
K = 11
K + ? = 27
? = 27-11 = 16
अतः ? = P

Type-2: अंकों पर आधारित आरेख संबंधी प्रश्न

10. In the given diagram, Rectangle represents the people whose favourite car is Audi, Triangle represents the people whose favourite car is BMW and Circle represents the people whose favourite car is Mercedes.

दिए गए आरेख में, आयत उन लोगों का प्रतिनिधित्व करता है जिनकी पसंदीदा कार ऑडी है, त्रिभुज उन लोगों का प्रतिनिधित्व करता है जिनकी पसंदीदा कार बीएमडब्लू है और वृत्त उन लोगों का प्रतिनिधित्व करता है जिनकी पसंदीदा कार मर्सिडीज है।

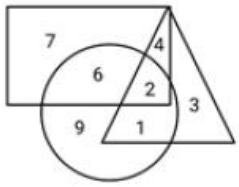

Which number indicates the people whose favourite car is Audi and BMW but not Mercedes?/कौन-सी संख्या उन लोगों को इंगित करती है जिनकी पसंदीदा कार ऑडी और बीएमडब्ल्यू है लेकिन मर्सिडीज नहीं है ?

(a) 2 (b) 1
(c) 6 (d) 4

MP Police Constable Exam- 31 August-2023 Shift-3

Ans. (d) : प्रश्नानुसार, आरेख निम्नवत् है–

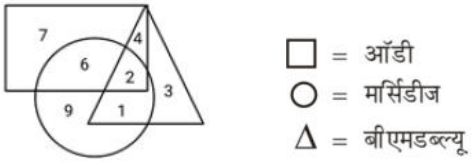

अतः क्षेत्र '4' ऑडी और बीएमडब्ल्यू को प्रदर्शित करता है। लेकिन मर्सिडीज नहीं।

11. In the given figure, Circle represents the Women, Triangle represents the persons who work in a showroom and square represents the persons who work in a School. Find out the number of Women who are unemployed.
दी गई आकृति में, वृत्त महिलाओं का प्रतिनिधित्व करता है, त्रिभुज शोरूम में काम करने वाले व्यक्तियों का प्रतिनिधित्व करता है और वर्ग एक स्कूल में काम करने वाले व्यक्तियों का प्रतिनिधित्व करता है। बेरोजगार महिलाओं की संख्या ज्ञात कीजिए।

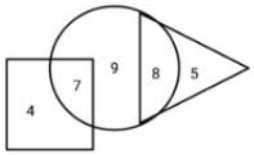

(a) 9 (b) 8
(c) 7 (d) 5

MP Police Constable Exam- 24 August-2023 Shift-2

Ans. (a) :

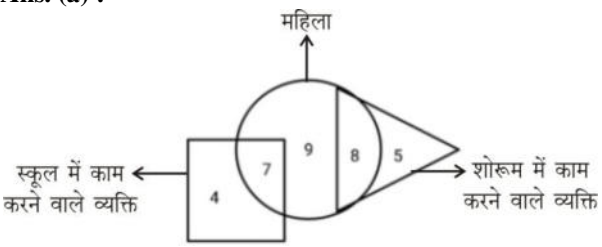

उपर्युक्त आकृति से स्पष्ट है कि बेरोजगार महिलाओं की संख्या '9' है।

GET IT ON Google Play Best Study PDF के लिए हमारी App को Download करें "GK Trick By Nitin Gupta"

12. In the given diagram, Circle represents the people who love red Roses, Triangle represents the people who love pink Roses and Rectangle represents the people who love white Roses.
दिए गए आरेख में, वृत्त उन लोगों का प्रतिनिधित्व करता है जो लाल गुलाब से प्यार करते हैं, त्रिभुज गुलाबी गुलाब से प्यार करने वाले लोगों का प्रतिनिधित्व करता है और आयत उन लोगों का प्रतिनिधित्व करता है जो सफेद गुलाब से प्यार करते हैं।

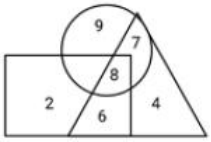

Which number indicates the people who love all the three coloured Roses ?
कौन-सी संख्या उन लोगों को इंगित करती है जो तीनों रंग के गुलाबों को पसंद करते हैं ?

(a) 7 (b) 6
(c) 8 (d) 9

MP Police Constable Exam- 29 August-2023 Shift-2

Ans. (c) : प्रश्नानुसार, आरेख निम्नवत् है–

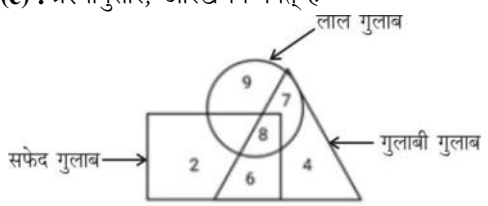

चित्र से स्पष्ट है कि तीनों रंगों के गुलाब को पसन्द करने वाले लोगों की संख्या '8' है।

13. In the diagram, Triangle represents the Bengali medium Students, Circle represents the Students work in Private sector, Square represents the unemployed Students and Rectangle represents the Students who work in Govt. Sector.
`How many Bengali medium Students work in Govt. Sector?
आरेख में, त्रिभुज बंगाली माध्यम के छात्रों का प्रतिनिधित्व करता है, वृत्त निजी क्षेत्र में छात्रों के काम का प्रतिनिधित्व करता है, वर्ग बेरोजगार छात्रों का प्रतिनिधित्व करता है और आयत सरकारी क्षेत्र में काम करने वाले छात्रों का प्रतिनिधित्व करता है।
कितने बंगाली माध्यम के छात्र सरकारी क्षेत्र में काम करते हैं?

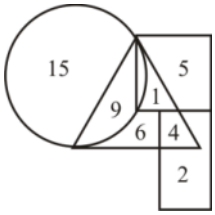

(a) 1 (b) 6
(c) 4 (d) 2

MP Police Constable Exam- 2 Sep-2023 Shift-2

Ans. (c) :

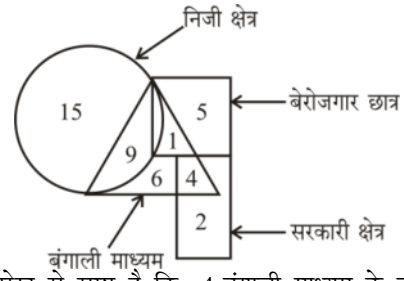

उपर्युक्त आरेख से स्पष्ट है कि, 4 बंगाली माध्यम के छात्र सरकारी क्षेत्र में काम करते हैं।

14. In the given diagram, Circle represents the number of people who like to travel by car, Triangle represents the number of people who like to travel by bus and Rectangle represents the people who like to travel by train.
दिए गए आरेख में, वृत्त उन लोगों की संख्या को दर्शाता है जो कार से यात्रा करना पसंद करते हैं, त्रिभुज उन लोगों की संख्या को दर्शाता है जो बस से यात्रा करना पसंद करते हैं और आयत उन लोगों की संख्या को दर्शाता है जो ट्रेन से यात्रा

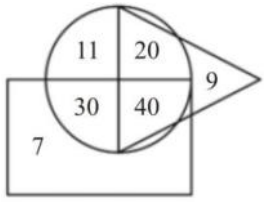

Which number indicates the number of people who like to travel by all the three vehicles ?
कौन-सी संख्या उन लोगों की संख्या दर्शाती है जो तीनों वाहनों से यात्रा करना पसंद करते हैं ?

(a) 20 (b) 30
(c) 40 (d) 11

MP Police Constable Exam- 27 August-2023 Shift-1

Ans. (c) : दिए गये आरेख से–

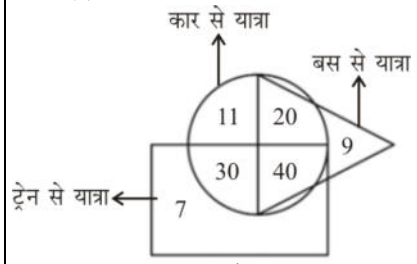

उपर्युक्त आरेख से स्पष्ट है कि संख्या 40 उन लोगों की संख्या को दर्शाती है जो तीनों वाहनों से यात्रा करना पसंद करते हैं।

15. In the given diagram, Triangle represents the person who can speak Hindi, Square represents the person who can speak Punjabi and Circle represents the person who can speak English.
The person who can speak all the languages indicate by the which number?
दिए गए आरेख में, त्रिभुज उस व्यक्ति का प्रतिनिधित्व करता है जो हिंदी बोल सकता है, वर्ग उस व्यक्ति का प्रतिनिधित्व करता है जो पंजाबी बोल सकता है और वृत्त उस व्यक्ति का प्रतिनिधित्व करता है जो अंग्रेजी बोल सकता है।

GET IT ON Google Play Best Study PDF के लिए हमारी App को Download करें "GK Trick By Nitin Gupta"

वह व्यक्ति जो सभी भाषाएँ बोल सकता है, को कौन-सी संख्या इंगित करती है ?

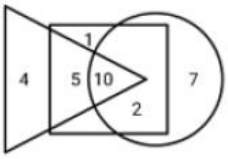

(a) 10 (b) 4
(c) 7 (d) 1

Ans. (a) : प्रश्नानुसार, आरेख निम्नवत् है–

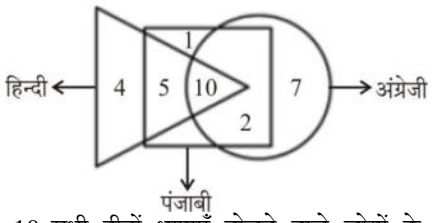

अतः क्षेत्र 10 सभी तीनों भाषाएँ बोलने वाले लोगों के समूह को दर्शाता है।

16. In the given diagram, Circle represents new, Triangle represents Article and Rectangle represents English literature.
दिए गए आरेख में, वृत्त नए का प्रतिनिधित्व करता है, त्रिभुज लेख का प्रतिनिधित्व करता है और आयत अंग्रेजी साहित्य का प्रतिनिधित्व करता है।

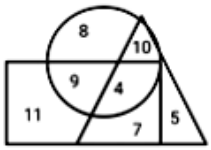

How many Articles are there which is also new but not English literature ?
ऐसे कितने लेख हैं जो नए भी हैं लेकिन अंग्रेजी साहित्य नहीं हैं ?

(a) 9 (b) 4
(c) 10 (d) 7

MP Police Constable Exam- 5 Sep -2023 Shift-1

Ans. (c) : प्रश्नानुसार, ऐसे 10 लेख हैं जो नए भी हैं लेकिन अंग्रेजी साहित्य नहीं हैं।

17. In the diagram, Triangle represents the Bengali medium Students, Circle represents the Students work in Private sector, Square represents the unemployed Students and Rectangle represents the Students who work in Govt. Sector.
आरेख में, त्रिभुज बंगाली माध्यम के छात्रों का प्रतिनिधित्व करता है, वृत्त निजी क्षेत्र में छात्रों का प्रतिनिधित्व करता है, वर्ग बेरोजगार छात्रों का प्रतिनिधित्व करता है और आयत सरकारी क्षेत्र में काम करने वाले छात्रों का प्रतिनिधित्व करता है।

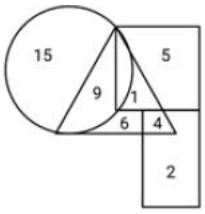

How many Bengali medium Students are there who work in private sector ?
कितने बंगाली माध्यम के छात्र हैं जो निजी क्षेत्र में काम करते हैं ?

(a) 1 (b) 6
(c) 9 (d) 4

MP Police Constable Exam- 2 Sep-2023 Shift-3

Ans. (c) : प्रश्नानुसार,

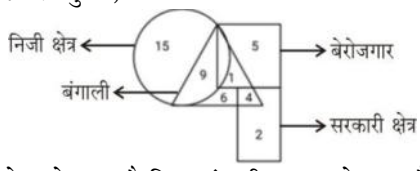

उपर्युक्त आरेख से स्पष्ट है कि 9 बंगाली माध्यम के छात्र हैं जो निजी क्षेत्र में काम करते हैं।

18. In the given figure, Triangle represents Boys, Circle represents Dancers, Rectangle represents Actors. Identify the number of person who are Boys and Dancers but not the Actors.
दी गई आकृति में, त्रिभुज लड़कों का प्रतिनिधित्व करता है, वृत्त नर्तकियों का प्रतिनिधित्व करता है, आयत अभिनेताओं का प्रतिनिधित्व करता है। उन व्यक्तियों की संख्या की पहचान करें जो लड़के और नर्तक हैं लेकिन अभिनेता नहीं हैं।

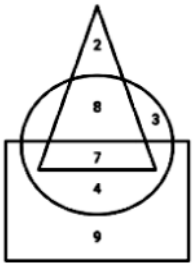

(a) 8 (b) 7
(c) 4 (d) 9

MP Police Constable Exam- 23 August-2023 Shift-2

Ans. (a) : प्रश्नगत चित्र से स्पष्ट है कि, संख्या '8' ऐसे व्यक्तियों को दर्शाता है जो लड़के और नर्तक है परंतु अभिनेता नही हैं।

19. In the given figure, rectangle represent Tennis players, triangle represent football players and circle represent Basketball players.
दिए गए चित्र में आयत, टेनिस खिलाड़ी को दर्शाता है, त्रिभुज फुटबॉल खिलाड़ी को दर्शाता है और वृत्त बास्केटबॉल खिलाड़ी को दर्शाता है।

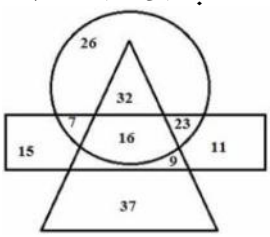

How many are only Basketball & Tennis players but not football players ?
कितने केवल बास्केटबॉल और टेनिस खिलाड़ी हैं लेकिन फुटबॉल खिलाड़ी नहीं हैं ?

(a) 16 (b) 48
(c) 30 (d) 26

MP Police Constable Exam- 5 Sep-2023 Shift-2

GET IT ON Google Play Best Study PDF के लिए हमारी App को Download करें "GK Trick By Nitin Gupta"

Ans. (c) : प्रश्नगत् चित्र से–
केवल बास्केटबॉल और टेनिस (फुटबॉल नहीं) खेलने वाले खिलाड़ियों की संख्या = 7 + 23 = 30

20. In the given diagram, Circle represents the person whose favourite food is Pizza, Triangle represents the person whose favourite food is Burger and Square represents the person which favourite food is Hotdog.
दिए गए आरेख में, वृत्त उस व्यक्ति का प्रतिनिधित्व करता है जिसका पसंदीदा भोजन पिज्जा है, त्रिभुज उस व्यक्ति का प्रतिनिधित्व करता है जिसका पसंदीदा भोजन बर्गर है और वर्ग उस व्यक्ति का प्रतिनिधित्व करता है जिसका पसंदीदा भोजन हॉट डॉग है–

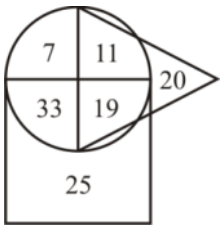

Which number indicates the number of persons whose favourite food is only Pizza and Burger?
कौन-सी संख्या उन व्यक्तियों की संख्या दर्शाती है जिनका पसंदीदा भोजन केवल पिज्जा और बर्गर है ?

(a) 7 (b) 11
(c) 33 (d) 19

MP Police Constable Exam- 26 August-2023 Shift-3

Ans. (b) : प्रश्नानुसार, आरेख से–

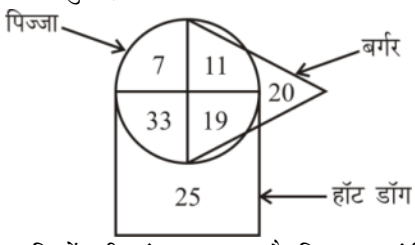

अतः उन व्यक्तियों की संख्या '11' है जिनका पसंदीदा भोजन केवल पिज्जा और बर्गर है।

21. In the given diagram, Circle represents Boys, Triangle represents math and Square represents English.
दिए गए आरेख में, वृत्त लड़कों का प्रतिनिधित्व करता है, त्रिभुज गणित का प्रतिनिधित्व करता है और वर्ग अंग्रेजी का प्रतिनिधित्व करता है।

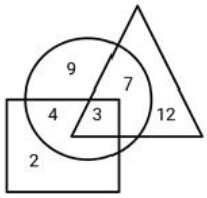

How many boys has either Math or English?
कितने लड़कों के पास या तो गणित है या अंग्रेजी?

(a) 3 (b) 11
(c) 4 (d) 7

MP Police Constable Exam- 8 Sep-2023 Shift-1

Ans. (b) : प्रश्नानुसार,

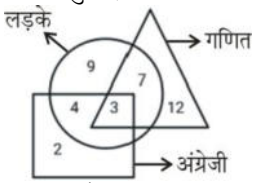

जिनके पास गणित है या अंग्रेजी ऐसे लड़कों की संख्या = 7 + 4
= 11

22. In the given diagram Square represents those Students who like to play Carrom, Triangle represents those Students who like to play Chess and Circle represents those Students who like to play ludo.
दिए गए आरेख में वर्ग उन छात्रों को दर्शाता है जो कैरम खेलना पसंद करते हैं, त्रिभुज उन छात्रों को दर्शाता है जो शतरंज खेलना पसंद करते हैं और वृत्त उन छात्रों को दर्शाता है जो लूडो खेलना पसंद करते हैं।

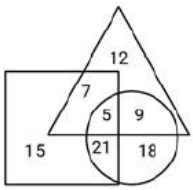

How many Students like to play Chess and Carrom both?/कितने विद्यार्थी शतरंज और कैरम दोनों खेलना पसंद करते हैं ?

(a) 39 (b) 7
(c) 5 (d) 12

MP Police Constable Exam- 28 August-2023 Shift-3

Ans. (d) : प्रश्नानुसार, आरेख निम्नवत् है–

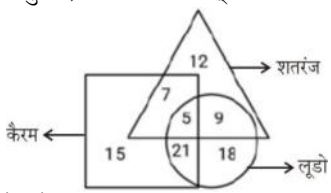

अतः शतरंज और कैरम दोनों खेलना पसंद करने वाले विद्यार्थी की संख्या = 7+ 5 = 12

23. In the given diagram, Rectangle represents Doctor, Rhombus represents Man and Circle represents married.
दिए गए आरेख में, आयत डॉक्टर का प्रतिनिधित्व करता है, समचतुर्भुज आदमी का प्रतिनिधित्व करता है और वृत्त विवाहित का प्रतिनिधित्व करता है।

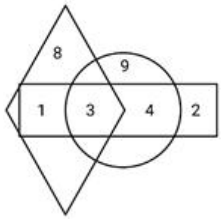

How many Doctors are married ?
कितने डॉक्टर शादीशुदा हैं ?

(a) 3 (b) 4
(c) 1 (d) 7

MP Police Constable Exam- 4 Sep-2023 Shift-2

GET IT ON Google Play Best Study PDF के लिए हमारी App को Download करें "GK Trick By Nitin Gupta"

Ans. (d) : दिए गए आरेख से–

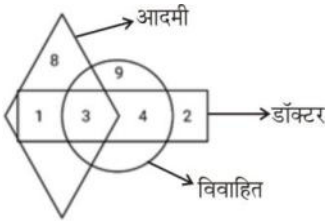

∵ आरेख से स्पष्ट है कि 3 + 4 = 7 डॉक्टर शादीशुदा है।

∴ विकल्प (d) सही है।

24. In the given diagram, Triangle represents the person who can speak Hindi, Square represents the person who can speak Punjabi and Circle represents the person who can speak English. The person who can speak all the languages indicate by the which number?

दिए गए आरेख में, त्रिभुज उस व्यक्ति का प्रतिनिधित्व करता है जो हिंदी बोल सकते हैं, वर्ग उस व्यक्ति का प्रतिनिधित्व करता है जो पंजाबी बोल सकते हैं और वृत्त उस व्यक्ति का प्रतिनिधित्व करता है जो अंग्रेजी बोल सकते हैं।

वह व्यक्ति जो सभी भाषाएँ बोल सकता है, को कौन-सी संख्या इंगित करती है ?

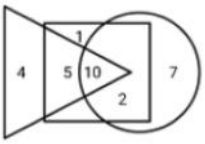

(a) 10 (b) 4
(c) 7 (d) 1

MP Police Constable Exam- 24 August-2023 Shift-3

Ans. (a) : प्रश्नानुसार, आरेख निम्नवत् है–

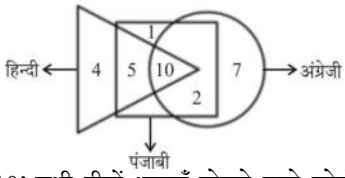

अतः संख्या '10' सभी तीनों भाषाएँ बोलने वाले लोगों के समूह को दर्शाती है।

25. In the given diagram, Circle represents the students studies Physics, Triangle represents the students studies Science, Square represents the students studies Chemistry and Rectangle represents the students studies Math.

दिए गए आरेख में, वृत्त भौतिकी का अध्ययन करने वाले छात्रों का प्रतिनिधित्व करता है, त्रिभुज विज्ञान का अध्ययन करने वाले छात्रों का प्रतिनिधित्व करता है, वर्ग रसायन विज्ञान का अध्ययन करने वाले छात्रों का प्रतिनिधित्व करता है और आयत गणित का अध्ययन करने वाले छात्रों का प्रतिनिधित्व करता है।

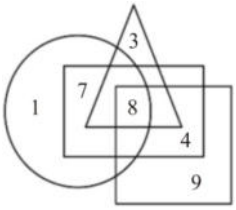

Which number indicates the students who studies all the subjects ?

सभी विषयों का अध्ययन करने वाले छात्रों को कौन-सी संख्या इंगित करती है ?

(a) 3 (b) 9
(c) 7 (d) 8

MP Police Constable Exam- 26 August-2023 Shift-2

Ans. (d) : प्रश्नानुसार,

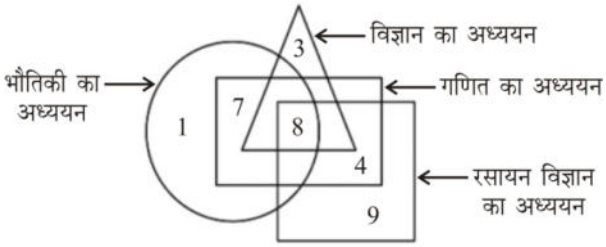

अतः सभी विषयों का अध्ययन करने वाले छात्रों की संख्या '8' इंगित करती है।

26. In the diagram, Triangle represents the women who love to wear saree, Circle represents the women who love to wear jeans and Square represents the women who love to wear shirts.

आरेख में, त्रिभुज उन महिलाओं का प्रतिनिधित्व करता है जो साड़ी पहनना पसंद करती हैं, वृत्त उन महिलाओं का प्रतिनिधित्व करता है जो जीन्स पहनना पसंद करती हैं और वर्ग उन महिलाओं का प्रतिनिधित्व करता है जो कमीज पहनना पसंद करती हैं।

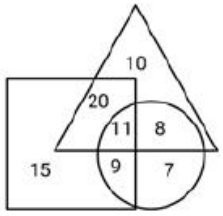

How many women love to wear jeans and shirt both ?

कितनी महिलाएं जींस और कमीज दोनों पहनना पसंद करती हैं ?

(a) 19 (b) 9
(c) 11 (d) 15

MP Police Constable Exam- 29 August-2023 Shift-1

Ans. (b) : प्रश्नानुसार,

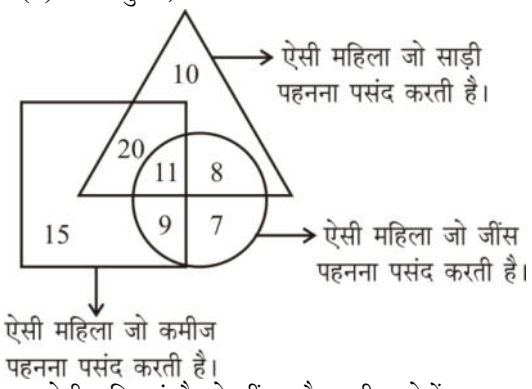

अतः '9' ऐसी महिलाएं है जो जींस और कमीज दोनों पहनना पसंद करती है।

GET IT ON Google Play Best Study PDF के लिए हमारी App को Download करें "GK Trick By Nitin Gupta"

27. In the diagram, Triangle represents Dogs, Circle represents Cats and Rectangle represents Parrots./आरेख में, त्रिभुज कुत्तों का प्रतिनिधित्व करता है, वृत्त बिल्लियों का प्रतिनिधित्व करता है और आयत तोते का प्रतिनिधित्व करता है।

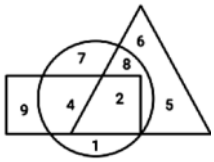

Which number shows the people who has either Dogs or Cats but not Parrots?
कौन सी संख्या उन लोगों को दर्शाती है जिनके पास कुत्ते या बिल्ली हैं लेकिन तोते नहीं है?

(a) 27 (b) 8
(c) 19 (d) 15

MP Police Constable Exam- 1 Sep-2023 Shift-2

Ans. (a) : प्रश्नानुसार,
वे लोग जिनके पास कुत्ते या बिल्ली हैं लेकिन तोते नहीं हैं = 5 + 8 + 6 + 1 + 7
= 27

28. In the given diagram, Circle represents Women, Square represents the old Women and Rectangle represents healthy Women.
दिए गए आरेख में, वृत्त महिलाओं का प्रतिनिधित्व करता है, वर्ग बूढ़ी महिलाओं का प्रतिनिधित्व करता है और आयत स्वस्थ महिलाओं का प्रतिनिधित्व करता है।

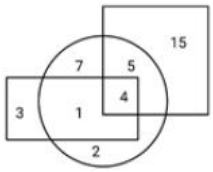

How many Women are healthy but not old ?
कितनी महिलाएं स्वस्थ हैं लेकिन बूढ़ी नहीं हैं ?

(a) 5 (b) 1
(c) 4 (d) 7

MP Police Constable Exam- 3 Sep-2023 Shift-2

Ans. (b) : प्रश्नानुसार,

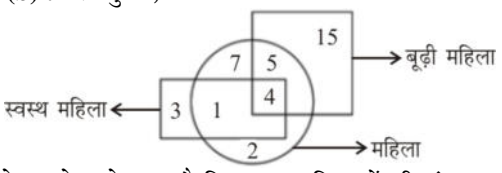

अतः वेन आरेख से स्पष्ट है कि स्वस्थ महिलाओं की संख्या 1 है।

29. In the given diagram, Find out the numbers that are both in Triangle and Circle but not in Rectangle.
दिए गए आरेख में, ऐसी संख्याएँ ज्ञात कीजिए जो त्रिभुज और वृत्त दोनों में हैं लेकिन आयत में नहीं हैं।

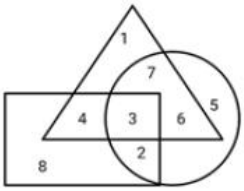

(a) 5, 6 (b) 1, 7
(c) 3, 6, 7 (d) 6, 7

MP Police Constable Exam- 6 Sep-2023 Shift-2

Ans. (d) : उपर्युक्त आरेख से स्पष्ट है कि, '6' और '7' ऐसी संख्याएँ हैं जो त्रिभुज और वृत्त दोनों में है लेकिन आयत में नहीं हैं।

30. In the given figure, rectangle represent Tennis players, triangle represent football players and circle represent Basketball players.
दिए गए चित्र में आयत, टेनिस खिलाड़ी को दर्शाता है, त्रिभुज फुटबॉल खिलाड़ी को दर्शाता है और वृत्त बास्केटबॉल खिलाड़ी को दर्शाता है।

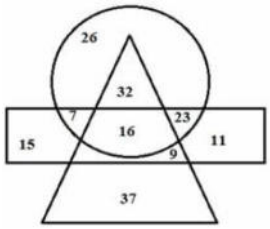

How many players are playing all game ?
कितने खिलाड़ी सभी खेल खेलते है?

(a) 46 (b) 16
(c) 48 (d) 32

MP Police Constable Exam- 6 Sep-2023 Shift-2

Ans. (b) : प्रश्नगत आरेख से स्पष्ट है कि, '16' खिलाड़ी ऐसे हैं जो कि, सभी खेल खेलते हैं।

31. In the given diagram, Triangle shows the number who has Xiaomi mobile, Circle shows the number of people who has Samsung mobile and Square shows the number of people who has Oppo mobile./दिए गए आरेख में, त्रिभुज उन लोगों की संख्या दिखाता है जिनके पास शाओमी मोबाइल है, वृत्त उन लोगों की संख्या दिखाता है जिनके पास सैमसंग मोबाइल है और वर्ग उन लोगों की संख्या दिखाता है जिनके पास ओप्पो मोबाइल है।

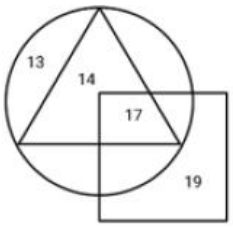

Which number shows the people who has only Samsung mobile ?
कौन-सा नंबर उन लोगों को दिखाता है जिनके पास केवल सैमसंग मोबाइल है ?

(a) 13 (b) 14
(c) 17 (d) 19

MP Police Constable Exam- 27 August-2023 Shift-2

Ans. (a) : प्रश्नानुसार,

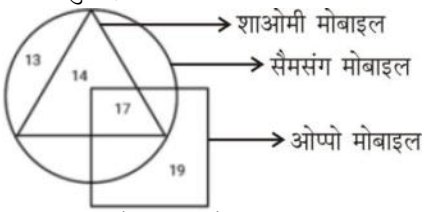

अतः आरेख से स्पष्ट है केवल सैमसंग मोबाइल चलाने वालों की संख्या 13 है।

GET IT ON Google Play Best Study PDF के लिए हमारी App को Download करें "GK Trick By Nitin Gupta"

32. In the given diagram, Circle represents Singer, Triangle represents Lyricist and Square represents Music Director.
दिए गए आरेख में, वृत्त गायक का प्रतिनिधित्व करता है, त्रिभुज गीतकार का प्रतिनिधित्व करता है और वर्ग संगीत निर्देशक का प्रतिनिधित्व करता है।

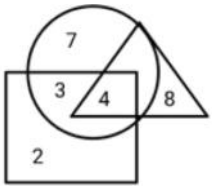

How many Singers are Music Director ?
कितने गायक संगीत निर्देशक है?

(a) 7 (b) 3
(c) 4 (d) 1

MP Police Constable Exam- 10 Jan -2022 Shift-2

Ans. (a) : प्रश्नानुसार,

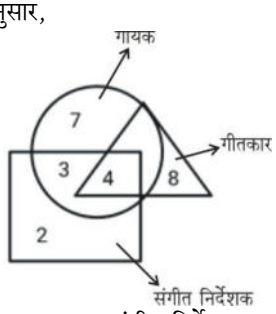

अतः स्पष्ट है कि (3+4 = 7) संगीत निर्देशक गायक हैं।

33. In the given diagram, Triangle represents upper class people, Circle represents backward people and Rectangle represents literate people./दिए गए आरेख में, त्रिभुज उच्च वर्ग के लोगों का प्रतिनिधित्व करता है, वृत्त पिछड़े लोगों का प्रतिनिधित्व करता है और आयत साक्षर लोगों का प्रतिनिधित्व करता है।

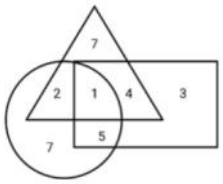

How many people are backward but literate?
कितने लोग पिछड़े लेकिन साक्षर हैं?

(a) 8 (b) 9
(c) 5 (d) 6

MP Police Constable Exam- 8 Jan-2022 Shift-2

Ans. (d) : प्रश्नानुसार,

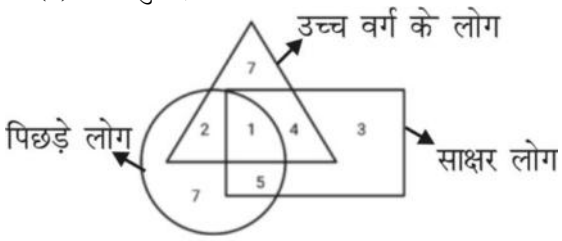

उपर्युक्त से स्पष्ट है कि 5 + 1 = 6 लोग पिछड़े लेकिन साक्षर है।

34. From the given diagram, Find out how many Players play Cricket and Football or both?
दिए गए आरेख से ज्ञात कीजिए कि कितने खिलाड़ी क्रिकेट और फुटबॉल या दोनों खेलते हैं?

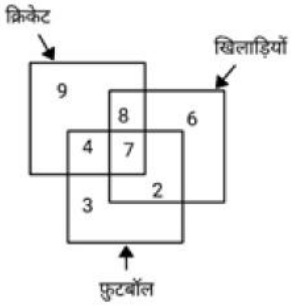

(a) 10 (b) 7
(c) 17 (d) 15

MP Police Constable Exam- 8 Jan-2022 Shift-2

Ans. (b) : प्रश्नानुसार, दिये गये आरेख से स्पष्ट है कि 7 खिलाड़ी, क्रिकेट और फुटबॉल दोनों खेलते हैं।

Direction (Q. Nos. 35 and 36) : In the given figure, the circle represents teachers, the triangle represents farmers and the rectangle represents doctors. Study the figure carefully and answer the questions given below.
निर्देश (प्रश्न सं. 35 और 36) : दिये गये चित्र में वृत्त अध्यापकों को, त्रिकोण किसानों को और आयत डॉक्टरों को प्रदर्शित करते हैं। दिये गये चित्र का ध्यान से अध्ययन कर निम्नलिखित प्रश्नों के उत्तर दीजिए।

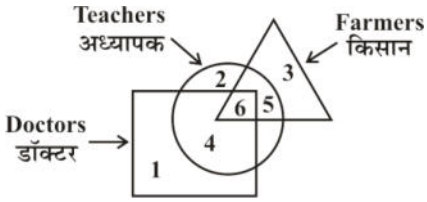

35. Which region represents the teachers and doctors but not farmers?
कौन-सा क्षेत्र अध्यापकों और डॉक्टरों को प्रदर्शित करता है, परन्तु किसानों को नहीं?

(a) 2 (b) 1
(c) 4 (d) 5

MP Police Constable Recruitment Test - 2013

Ans. (c) : प्रश्न में दिये गये आरेख से स्पष्ट है कि, अंक '4' अध्यापकों और डॉक्टरों को प्रदर्शित करता है, परंतु किसानों को नहीं।

36. Which region represents the farmers and teachers?/कौन-सा क्षेत्र किसानों एवं अध्यापकों को प्रदर्शित करता है?

(a) 3 (b) 4
(c) 6 (d) 5

MP Police Constable Recruitment Test - 2013

Ans. (d) : प्रश्न में दिये गये आरेख से स्पष्ट है कि, अंक '5' किसानों और अध्यापकों को प्रदर्शित करता है।

GET IT ON Google Play Best Study PDF के लिए हमारी App को Download करें "GK Trick By Nitin Gupta"

Direction (Q. Nos. 10 to 12) : Study the diagram carefully and answer the questions :

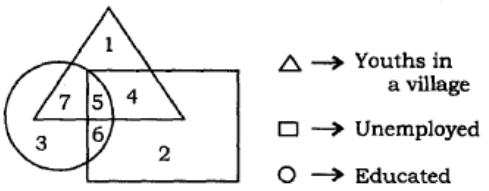

निर्देश (प्रश्न सं. 10 से 12) : चित्र को ध्यानपूर्वक अध्ययन कर प्रश्नों के उत्तर दीजिए:

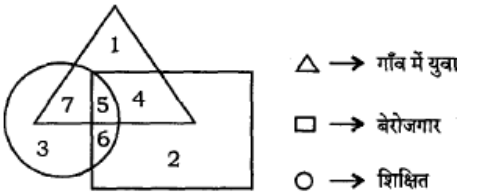

37. Which of the following numbers represents unemployed educated youths in the village?
निम्नलिखित में से कौन-सा अंक गाँव में शिक्षित बेरोजगार युवाओं को प्रदर्शित करता है?

(a) 4 (b) 5
(c) 6 (d) 7

MP Police Constable Recruitment Test - 2013

Ans. (b) : प्रश्नानुसार,

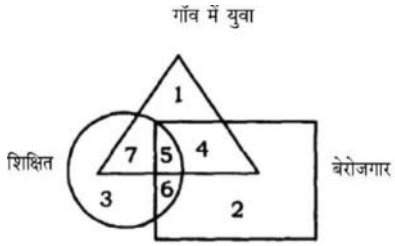

अतः आरेख से स्पस्ट है कि, अंक '5' गाँव में शिक्षित बेरोजगार युवा को प्रदर्शित करता है।

38. Uneducated unemployed youths in the village are represented by
गाँव में अशिक्षित बेरोजगार युवाओं को दर्शाने वाला अंक है

(a) 4 (b) 1
(c) 7 (d) 2

MP Police Constable Recruitment Test - 2013

Ans. (a) : उपर्युक्त आरेख से स्पष्ट है कि, अंक '4' गाँव में अशिक्षित बेरोजगार युवा को प्रदर्शित करता है।

39. Which of the following numbers represents the educated employed youths in the village?
निम्नलिखित में से कौन-सा अंक गाँव में शिक्षित नियोजित युवाओं को दर्शाता है?

(a) 3 (b) 4
(c) 1 (d) 7

MP Police Constable Recruitment Test - 2013

Ans. (d) : उपर्युक्त आरेख से स्पष्ट है कि, अंक '7' शिक्षित नियोजित युवाओं को प्रदर्शित करता है।

40. In the given figure, Circle represents the persons who are Unemployed, Triangle represents the persons who are Educated and Square represents Backward people.
दी गई आकृति में, वृत्त बेरोजगार व्यक्तियों का प्रतिनिधित्व करता है, त्रिभुज शिक्षित व्यक्तियों का प्रतिनिधित्व करता है और वर्ग पिछड़े लोगों का प्रतिनिधित्व करता है।

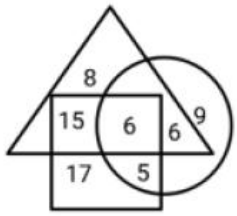

How many Educated people are Unemployed?
कितने शिक्षित बेरोजगार हैं?

(a) 12 (b) 15
(c) 18 (d) 9

MP Police Constable Exam- 21 August-2023 Shift-3

Ans. (a) : प्रश्नानुसार,

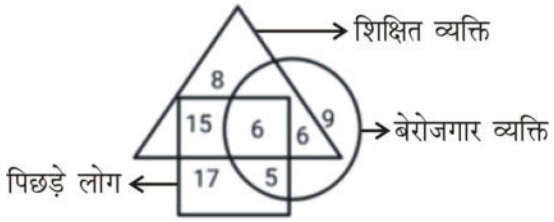

अतः आरेख से स्पष्ट है कि (6 + 6) = 12 व्यक्ति शिक्षित बेरोजगार है।

41. In the following figure, rectangle, square, circle, and triangle represent the regions of wheat, gram, maize and rice cultivation respectively.
निम्न आकृति में, आयत, वर्ग, वृत्त और त्रिकोण क्रमशः गेहूँ, चना, मक्का और चावल की खेती के क्षेत्र को दर्शाते हैं।

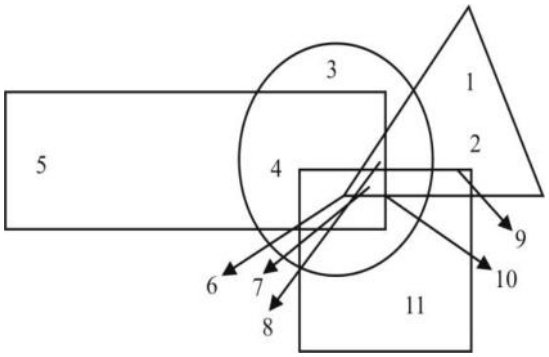

GET IT ON Google Play Best Study PDF के लिए हमारी App को Download करें "GK Trick By Nitin Gupta"

Which area is cultivated by maize only?
किस क्षेत्र में केवल मक्के की खेती होती है?

(a) 10 (b) 2
(c) 3 (d) 4

MP Police Constable Exam- 1 August-2016, 3:pm

Ans : (c) मक्के को वृत्त से दर्शाया गया है, अंक '3' ही ऐसा क्षेत्र है जहाँ केवल मक्के की खेती होती है।

42. In the given diagram, Circle represents Lawyer, Triangle represents married and Rectangle represents Women.
दिए गए आरेख में, वृत्त वकील का प्रतिनिधित्व करता है, त्रिभुज विवाहित का प्रतिनिधित्व करता है और आयत महिलाओं का प्रतिनिधित्व करता है।

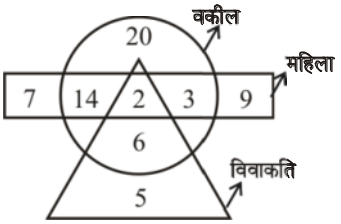

Find out how many Women are only Lawyer.
पता करें कि कितनी महिलाएं केवल वकील हैं।

(a) 17 (b) 19
(c) 25 (d) 2

MP Police Constable Exam- 9 Sep-2023 Shift-2

Ans. (a) :

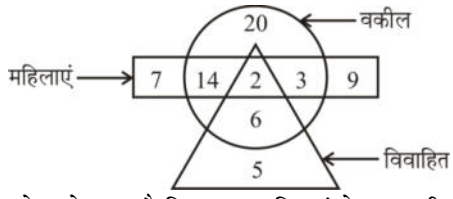

उपर्युक्त आरेख से स्पष्ट है कि, '17' महिलाएं केवल वकील हैं।

43. In the given diagram, Pentagon represents urban, Triangle represents educated and Circle represents employed.
दिए गए आरेख में, पंचकोण शहरी का प्रतिनिधित्व करता है, त्रिभुज का प्रतिनिधित्व करता है और वृत्त नियोजित का प्रतिनिधित्व करता है।

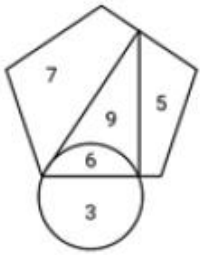

How many urban educated people are unemployed ?
कितने शहरी शिक्षित लोग बेरोजगार हैं ?

(a) 15 (b) 9
(c) 6 (d) 3

MP Police Constable Exam- 4 Sep-2023 Shift-3

Ans. (b) : दिया गया आरेख निम्नवत् है–

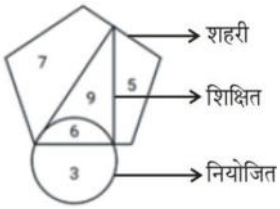

उपर्युक्त आरेख से स्पष्ट है कि '9' शहरी शिक्षित लोग बेरोजगार है।

44. In the given diagram, Circle represents Chairs, Triangle represents wooden and Rectangle represents Plastic.
दिए गए आरेख में, वृत्त कुर्सियों का प्रतिनिधित्व करता है, त्रिभुज लकड़ी का प्रतिनिधित्व करता है और आयत प्लास्टिक का प्रतिनिधित्व करता है।

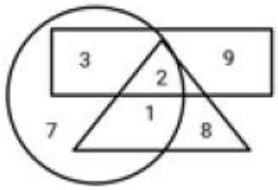

Find out the number of plastic Chairs?
प्लास्टिक की कुर्सियों की संख्या ज्ञात कीजिए?

(a) 2 (b) 3
(c) 5 (d) 1

MP Police Constable Exam- 8 Sep-2023 Shift-2

Ans. (c) : प्रश्नानुसार,

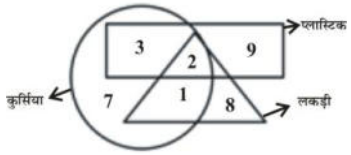

प्लास्टिक की कुर्सियों की संख्या = 3+2 = 5

45. In the following Venn diagram, Triangle shows Graduate students, Circle shows 12th pass students and Rectangle shows that students who are preparing for Govt. Jobs.
निम्नलिखित आरेख में, त्रिभुज स्नातक छात्रों को दिखाता है, वृत्त 12वीं पास छात्रों को दिखाता है और आयत उन छात्रों को दिखाता है जो सरकारी नौकरियों की तैयारी कर रहे हैं।

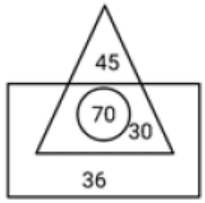

How many Graduate students preparing for Govt. Jobs ?
कितने स्नातक छात्र सरकारी नौकरी की तैयारी कर रहे हैं?

(a) 136 (b) 106
(c) 100 (d) 66

MP Police Constable Exam- 28 August-2023 Shift-2

GET IT ON Google Play Best Study PDF के लिए हमारी App को Download करें "GK Trick By Nitin Gupta"

Ans. (c) : दिये गये वेन-आरेख से-

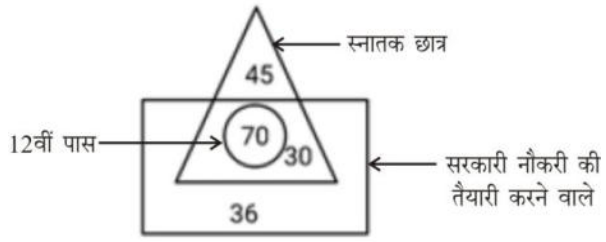

सरकारी नौकरी की तैयारी करने वाले स्नातक छात्र = 70 + 30
= 100

46. In the given diagram, Circle represents the Students who have Brothers and Triangle represents the Students who have Sisters.
दिए गए आरेख में, वृत्त उन छात्रों का प्रतिनिधित्व करता है जिनके भाई हैं और त्रिभुज उन छात्रों का प्रतिनिधित्व करता है जिनकी बहनें हैं।

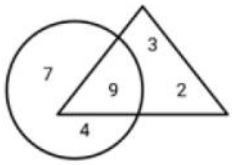

How many Students have only Brothers?
कितने छात्रों के केवल भाई हैं?

(a) 9 (b) 20
(c) 11 (d) 7

MP Police Constable Exam- 9 Sep -2023 Shift-3

Ans. (c) : प्रश्नानुसार,
दिया गया आरेख-

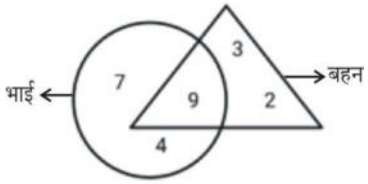

अतः उपर्युक्त आरेख से स्पष्ट है कि केवल भाई (7 + 4) '11' है।
∴ विकल्प (c) सही उत्तर होगा।

47. In the given diagram, Triangle represents the Actors worked in Hindi films, Circle represents the Actors worked in Bengali films and Rectangle represents the Actors worked in Tamil films.
In the given diagram, Triangle represents the Actors worked in Hindi films, Circle represents the Actors worked in Bengali films and Rectangle represents the Actors worked in Tamil films.
Which number shows the Actors who has worked only in Bengali films?
दिए गए आरेख में, त्रिभुज हिंदी फिल्मों में काम करने वाले अभिनेताओं का प्रतिनिधित्व करता है, वृत्त बंगाली फिल्मों में काम करने वाले अभिनेताओं का प्रतिनिधित्व करता है और आयत तमिल फिल्मों में काम करने वाले अभिनेताओं का प्रतिनिधित्व करता है। कौन-सा नंबर उन अभिनेताओं को दर्शाता है जिन्होंने केवल बंगाली फिल्मों में काम किया है?

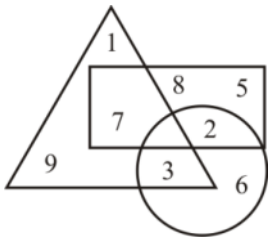

(a) 9 (b) 5
(c) 6 (d) 1

MP Police Constable Exam- 1 Sep-2023 Shift-1

Ans. (c) : दिए गए वेन आरेख से–

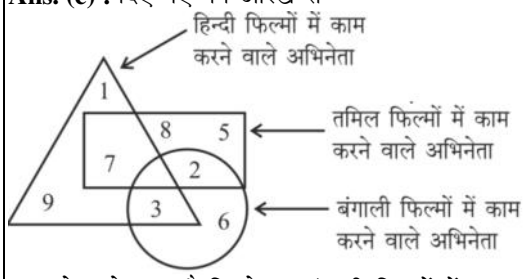

∴ आरेख से स्पष्ट है कि केवल बंगाली फिल्मों में काम करने वाले अभिनेता '6' है।

48. Study the following figure carefully and answer the question. The triangle represents doctors. The circle represents players and the rectangle represents artists./निम्नलिखित आरेख का ध्यान से अध्ययन करें और। प्रश्नों का जवाब दें। त्रिकोण डॉक्टरों को दर्शाता है। वृत्त खिलाड़ियों को दर्शाता है और आयत कलाकारों को दर्शाता है।

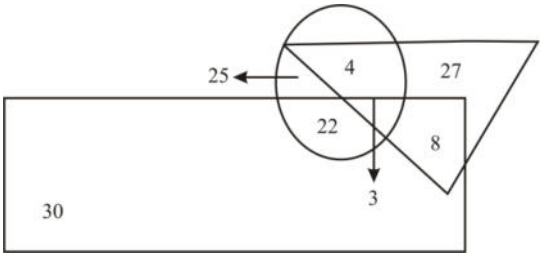

How many players are neither artists nor doctors?
कितने खिलाड़ी न कलाकार हैं और न ही डॉक्टर हैं?

(a) 4 (b) 3
(c) 22 (d) None of these/इनमें से कोई नहीं

MP Police Constable Exam 17 July 2016 - 12:am

Ans. (d)

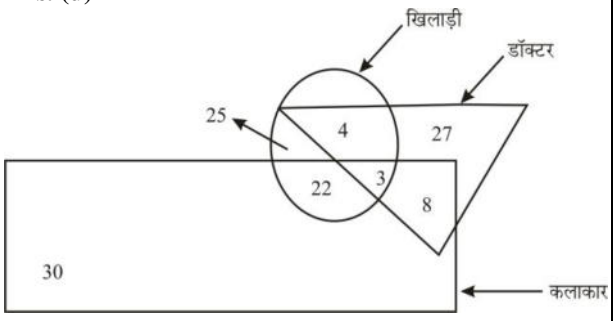

ऐसे 25 खिलाड़ी है जो न कलाकार हैं और न ही डॉक्टर हैं।

GET IT ON Google Play Best Study PDF के लिए हमारी App को Download करें "GK Trick By Nitin Gupta"

भाग-11.

विश्लेषणात्मक तर्क शक्ति
(Analytical Reasoning)

1. Which of the following is definitely false according to the given equation ?
दिए गए समीकरण के अनुसार निम्नलिखित में से कौन-सा निश्चित रूप से असत्य है ?

$B > O \geq T = Q < C \leq W > U$

(a) $B > T$ (b) $W > T$
(c) $Q \leq O$ (d) $Q < U$

MP Police Constable Exam- 27 August-2023 Shift-1

Ans. (d) : समीकरण– $B > O \geq T = Q < C \leq W > U$
विकल्पों से–

(a) $B > T$ $\left(\overrightarrow{> \geq}\right)$ सत्य

(b) $W > T$ $\left(\overrightarrow{> \geq =}\right)$ सत्य

(c) $Q \leq O$ $\left(\overrightarrow{\geq =}\right)$ सत्य

(d) $Q < U$ $\left(\overleftarrow{< \leq} \overrightarrow{>}\right)$ असत्य

अतः विकल्प (d) असत्य होगा।

2. Which of the following is definitely false according to the given equation ?
दिए गए समीकरण के अनुसार निम्नलिखित में से कौन-सा निश्चित रूप से असत्य है ?

$V < C \leq L > Y \geq R = I < W \geq M$

(a) $I < L$
(b) $L \geq R$
(c) $L > V$
(d) None of the given options/दिए गए विकल्पों में से कोई नहीं

MP Police Constable Exam- 27 August-2023 Shift-1

Ans. (b) : समीकरण– $V < C \leq L > Y \geq R = I < W \geq M$
विकल्पों से–

(a) $I < L$ $\left(\overrightarrow{> \geq =}\right)$ सत्य

(b) $L \geq R$ $\left(\overrightarrow{> \geq}\right)$ असत्य

(c) $L > V$ $\left(\overleftarrow{\geq =}\right)$ सत्य

अतः विकल्प (d) का समीकरण निश्चित रूप से असत्य होगा।

3. Given question has main statement followed by four statements. Choose the ordered pair of statements, where the first statement implies the second, and the two statements are logically consistent with the main statement.
If HR policy changes, employees will protest
A. HR policy changed
B. HR policy did not change
C. employees protested
D. employees did not protest

दिए गए प्रश्न में मुख्य कथन और उसके बाद चार कथन हैं। कथनों का क्रमित युग्म चुनें, जहाँ पहले कथन का तात्पर्य दूसरे कथन से है, और दो कथन तार्किक रूप से मुख्य कथन से संगत हैं।
एचआर नीति में बदलाव हुआ तो कर्मचारी करेंगे विरोध
A. एचआर नीति बदल गई
B. एचआर नीति नहीं बदली
C. कर्मचारियों ने किया विरोध
D. कर्मचारियों ने विरोध नहीं किया

(a) AB (b) BC
(c) DA (d) DB

MP Police Constable Exam- 19 August-2023 Shift-2

Ans. (d) : प्रश्नानुसार,
कथन – एचआर नीति में बदलाव हुआ तो कर्मचारी करेंगे विरोध।
कथनानुसार विकल्प (d) से
कर्मचारियों ने विरोध नहीं किया क्योंकि एच आर नीति में बदलाव नहीं किया गया जो कि एक संगत युग्म है जबकि अन्य विकल्प असंगत युग्म है।
अतः विकल्प (d) सही उत्तर होगा।

4. Given question has main statement followed by four statements. Choose the ordered pair of statements, where the first statement implies the second, and the two statements are logically consistent with the main statement.
The mother is either loving or affectionate
A. The mother is loving
B. The mother is not loving
C. The mother is affectionate
D. The mother is not affectionate

दिए गए प्रश्न में मुख्य कथन और उसके बाद चार कथन हैं। कथनों का क्रमित युग्म चुनें, जहाँ पहले कथन का तात्पर्य दूसरे कथन से है, और दो कथन तार्किक रूप से मुख्य कथन से संगत हैं।
माँ या तो प्यारी या स्नेही होती है

GET IT ON Google Play Best Study PDF के लिए हमारी App को Download करें "GK Trick By Nitin Gupta"

A. माँ प्यारी होती है
B. माँ प्यारी नहीं होती है
C. माँ स्नेही होती है
D. माँ स्नेही नहीं होती है

(a) AC (b) DA
(c) BD (d) AB

MP Police Constable Exam- 19 August-2023 Shift-2

Ans. (b) : प्रश्नानुसार,
कथन – माँ या तो प्यारी या स्नेही होती है।
कथनानुसार विकल्प (b) से
माँ स्नेही नहीं होती है क्योंकि माँ प्यारी होती है जो कि एक संगत युग्म है जबकि अन्य विकल्प असंगत युग्म है।
अतः विकल्प (b) सही उत्तर होगा।

5. Which of the following is definitely true according to the given equation?
दिए गए समीकरण के अनुसार निम्नलिखित में से कौन-सा निश्चित रूप से सत्य है?

$V \geq Q < P \leq S \geq L$

$V \geq Q < P \leq S \geq L$

(a) $P \leq L$ (b) $V > Q$
(c) $P = L$ (d) $S > Q$

MP Police Constable Exam- 8 Sep-2023 Shift-2

Ans. (d) : कथन से,
(a) $P \leq L \rightarrow P \leq S \geq L$ (×)
(b) $V > Q \rightarrow V \geq Q$ (×)
(c) $P = L \rightarrow P \leq S \geq L$ (×)
(d) $S > Q \rightarrow Q < P \leq S \geq L$ (✓)
अतः विकल्प (d) निश्चित रूप से सत्य है।

6. Given question has main statement followed by four statements. Choose the ordered pair of statements, where the first statement implies the second, and the two statements are logically consistent with the main statement.
दिए गए प्रश्न में मुख्य कथन और उसके बाद चार कथन हैं। कथनों का क्रमित युग्म चुनें, जहाँ पहले कथन का तात्पर्य दूसरे कथन से है, और दो कथन तार्किक रूप से मुख्य कथन से संगत हैं।

If you don't understand, please ask again
यदि आप नहीं समझे हैं, तो कृपया फिर से पूछें

A. you didn't understand/आप नहीं समझे
B. you understood/आप समझ गए
C. You asked again/आपने फिर पूछा
D. You did not ask again/आपने फिर नहीं पूछा

(a) AB (b) BC
(c) DB (d) CD

MP Police Constable Exam- 23 August-2023 Shift-2

Ans. (c) : विकल्प (c) का क्रमित युग्म D तथा B मुख्य कथन से तार्किक रूप से संबद्ध है अतः विकल्प (c) सही उत्तर होगा।

7. Which of the following is definitely false according to the given equation ?
दिए गए समीकरण के अनुसार निम्नलिखित में से कौन-सा निश्चित रूप से असत्य है ?

$D = B \geq Q \leq X < F \leq J > A$

(a) $D = B$ (b) $J > X$
(c) $D \geq Q$ (d) $J \geq X$

MP Police Constable Exam- 25 August-2023 Shift-1

Ans. (d) : $D = B \geq Q \leq X < F \leq J > A$
दिए गए विकल्पों से–
(a) $D = B$ (✓) $[\because D = B]$
(b) $J > X$ (✓) $[\because J \geq F > X]$
(c) $D \geq Q$ (✓) $[\because D = B \geq Q]$
(d) $J \geq X$ (×) $[\because J \geq F > X]$
अतः उपर्युक्त दिए गए कथन के अनुसार '$J \geq X$' निश्चित रूप से असत्य है।

8. Which of the following is definitely false according to the given equation ?
दिए गए समीकरण के अनुसार निम्नलिखित में से कौन-सा निश्चित रूप से असत्य है ?

$F < O = W \leq Q > R \geq M > B$

(a) $B < Q$
(b) $Q > F$
(c) $Q \geq M$
(d) None of the given options /दिए गए विकल्पों में से कोई नहीं

MP Police Constable Exam- 25 August-2023 Shift-1

Ans. (d) : $F < O = W \leq Q > R \geq M > B$
(a) $B < Q$ (✓) $[\because B < M \leq R < Q]$
(b) $Q > F$ (✓) $[\because Q \geq W = O > F]$
(c) $Q \geq M$ (✓) $[\because Q > R \geq M]$
अतः दिये गये समीकरण के अनुसार विकल्प (d) असत्य है।

9. Given question has main statement followed by four statements. Choose the ordered pair of statements, where the first statement implies the second, and the two statements are logically consistent with the main statement.
दिए गए प्रश्न में मुख्य कथन और उसके बाद चार कथन हैं। कथनों का क्रमित युग्म चुनें, जहाँ पहले कथन का तात्पर्य दूसरे कथन से है, और दो कथन तार्किक रूप से मुख्य कथन से संगत हैं।

If one has self-confidence one faces all challenges in life.
यदि किसी में आत्मविश्वास है तो जीवन में सभी चुनौतियों का सामना करना पड़ता है।

A. he is facing challenges in life/वह जीवन में चुनौतियों का सामना कर रहा है
B. he is not facing challenges in life/वह जीवन में चुनौतियों का सामना नहीं कर रहा है।
C. he has self-confidence/उसे आत्मविश्वास है
D. he does not have self-confidence/उसमें आत्मविश्वास नहीं है

(a) AB (b) BC
(c) DA (d) CA

MP Police Constable Exam- 23 August-2023 Shift-1

Ans. (d) : प्रश्नानुसार, कथन C तथा A तार्किक रूप से मुख्य कथन से संगत है।
अतः विकल्प (d) सही होगा।

10. Given question has main statement followed by four statements. Choose the ordered pair of statements, where the first statement implies the second, and the two statements are logically consistent with the main statement.

GET IT ON Google Play Best Study PDF के लिए हमारी App को Download करें "GK Trick By Nitin Gupta"

दिए गए प्रश्न में मुख्य कथन और उसके बाद चार कथन हैं। कथनों का क्रमित युग्म चुनें, जहाँ पहले कथन का तात्पर्य दूसरे कथन से है, और दो कथन तार्किक रूप से मुख्य कथन से संगत हैं।

If she submits all proof of her claim, the committee would consider her case.

यदि वह अपने दावे के सभी प्रमाण प्रस्तुत करती है, तो समिति उसके मामले पर विचार करेगी।

A. she submitted all proof of her claim/उसने अपने दावे के सभी सबूत प्रस्तुत किए

B. she did not submit all proof of her claim/ उसने अपने दावे के सभी सबूत प्रस्तुत नहीं किए

C. the committee considered her case/समिति ने उनके मामले पर विचार किया

D. the committee did not consider her case/समिति ने उनके मामले पर विचार नहीं किया

(a) AB (b) BC
(c) DA (d) DB

MP Police Constable Exam- 23 August-2023 Shift-1

Ans. (d) : कथनानुसार, दो कथन D, B तार्किक रूप से मुख्य कथन से संगत है। अतः विकल्प (d) सही होगा।

11. Given question has main statement followed by four statements. Choose the ordered pair of statements, where the first statement implies the second, and the two statements are logically consistent with the main statement.

She would be happy if she is invited for the party

A. She was invited
B. She was not invited
C. She felt happy
D. She did not feel happy

दिए गए प्रश्न में मुख्य कथन और उसके बाद चार कथन हैं। कथनों का क्रमित युग्म चुनें, जहाँ पहले कथन का तात्पर्य दूसरे कथन से है, और दो कथन तार्किक रूप से मुख्य कथन से संगत हैं।

अगर उन्हें पार्टी के लिए आमंत्रित किया जाता है तो उन्हें खुशी होगी

A. उसे आमंत्रित किया गया था
B. उसे आमंत्रित नहीं किया गया था
C. वह खुश महसूस कर रही थी
D. उसे खुशी नहीं हुई

(a) AB (b) BC
(c) DA (d) DB

MP Police Constable Exam- 19 August-2023 Shift-3

Ans. (d) : कथन है- अगर उन्हें पार्टी के लिए आमंत्रित किया जाता है, तो उन्हें खुशी होगी।
कथन से स्पष्ट है कि उसे खुशी नहीं हुई क्योंकि उसे आमंत्रित नहीं किया गया था। अतः विकल्प (d) 'BD' सही उत्तर है।

12. Given question has main statement followed by four statements. Choose the ordered pair of statements, where the first statement implies the second, and the two statements are logically consistent with the main statement.

You can do it if you focus

A. You focused
B. You did it
C. You did not focus
D. You did not do it

दिए गए प्रश्न में मुख्य कथन और उसके बाद चार कथन हैं। कथनों का क्रमित युग्म चुनें, जहाँ पहले कथन का तात्पर्य दूसरे कथन से है, और दो कथन तार्किक रूप से मुख्य कथन से संगत हैं।

यदि आप ध्यान केंद्रित करते हैं तो आप इसे कर सकते हैं

A. आपने ध्यान केंद्रित किया
B. आपने यह किया
C. आपने ध्यान केंद्रित नहीं किया
D. आपने यह नहीं किया

(a) AB (b) BC
(c) DB (d) DA

MP Police Constable Exam- 19 August-2023 Shift-3

Ans. (a) : कथन है- यदि आप ध्यान केंद्रित करते हैं, तो आप इसे कर सकते हैं। कहने का तात्पर्य है कि आपने यह किया क्योंकि आपने ध्यान केंद्रित किया।
अतः विकल्प 'a' 'AB' सही उत्तर है।

13. Which of the following is definitely true according to the given equation ?

दिए गए समीकरण के अनुसार निम्नलिखित में से कौन-सा निश्चित रूप से सत्य है ?

$\mathbf{W \geq B = R > S < V > U \geq L}$

(a) $S \leq W$ (b) $L \leq V$
(c) $S < W$ (d) $S > B$

MP Police Constable Exam- 27 August-2023 Shift-2

Ans. (c) : $\because W \geq B = R > S < V > U \geq L$
उपर्युक्त के आधार पर विकल्पों की जांच करने पर–
(a) $S \leq W$ (×) [$\because S < R = B \leq W$]
(b) $L \leq V$ (×) [$\because L \leq U < V$]
(c) $S < W$ (✓) [$\because S < R = B \leq W$]
(d) $S > B$ (×) [$\because S < R = B$]
अतः विकल्प (c) निश्चित रूप से सत्य है।

14. Given question has main statement followed by four statements. Choose the ordered pair of statements, where the first statement implies the second, and the two statements are logically consistent with the main statement.

The documents will be submitted by either the employee or the recruitment agent

A. The documents were submitted by the employee
B. The documents were not submitted by the employee
C. The documents were submitted by the recruitment agent
D. The documents were not submitted by the recruitment agent

दिए गए प्रश्न में मुख्य कथन और उसके बाद चार कथन हैं। कथनों का क्रमित युग्म चुनें, जहाँ पहले कथन का तात्पर्य दूसरे कथन से है, और दो कथन तार्किक रूप से मुख्य कथन से संगत हैं।

दस्तावेज़ कर्मचारी या भर्ती एजेंट द्वारा प्रस्तुत किए जाएंगे

A. कर्मचारी द्वारा दस्तावेज जमा किए गए थे
B. कर्मचारी द्वारा दस्तावेज जमा नहीं किए गए थे

GET IT ON Google Play Best Study PDF के लिए हमारी App को Download करें "GK Trick By Nitin Gupta"

C. भर्ती एजेंट द्वारा दस्तावेज जमा किए गए थे
D. भर्ती एजेंट द्वारा दस्तावेज जमा नहीं किए गए थे

(a) AB (b) DA
(c) CA (d) BD

MP Police Constable Exam- 14 August-2023 Shift-2

Ans. (b) : कथन-
दस्तावेज कर्मचारी या भर्ती एजेंट द्वारा प्रस्तुत किए जाएंगे।
कथनानुसार- विकल्प (b) से,
"भर्ती एजेंट द्वारा दस्तावेज जमा नही किए गए थे क्योंकि कर्मचारी द्वारा दस्तावेज जमा किए गए थे" संगत युग्म है। जबकि अन्य विकल्प युग्म असंगत हैं। अतः विकल्प (b) सही उत्तर है।

15. Given question has main statement followed by four statements. Choose the ordered pair of statements, where the first statement implies the second, and the two statements are logically consistent with the main statement.
The bank is either private or public
A. The bank is private
B. The bank is not private
C. The bank is public
D. The bank is not public
दिए गए प्रश्न में मुख्य कथन और उसके बाद चार कथन हैं। कथनों का क्रमित युग्म चुनें, जहाँ पहले कथन का तात्पर्य दूसरे कथन से है, और दो कथन तार्किक रूप से मुख्य कथन से संगत हैं।
बैंक या तो निजी है या सार्वजनिक
A. बैंक निजी है
B. बैंक निजी नहीं है
C. बैंक सार्वजनिक है
D. बैंक सार्वजनिक नहीं है

(a) AC (b) DA
(c) BD (d) AB

MP Police Constable Exam- 14 August-2023 Shift-2

Ans. (b) : कथन-
बैंक या तो निजी है या सार्वजनिक।
कथनानुसार- विकल्प (b) से,
'बैंक सार्वजनिक नहीं है क्योंकि बैंक निजी हैं" संगत युग्म हैं। जबकि अन्य विकल्प युग्म असंगत हैं। अतः विकल्प (b) सही उत्तर है।

16. Given question has main statement followed by four statements. Choose the ordered pair of statements, where the first statement implies the second, and the two statements are logically consistent with the main statement.
The card is printed by either the publisher or by the press
A. The card is printed by the publisher
B. The card is not printed by the publisher
C. The card is printed by the press
D. The card is not printed by the press
दिए गए प्रश्न में मुख्य कथन और उसके बाद चार कथन हैं। कथनों का क्रमित युग्म चुनें, जहाँ पहले कथन का तात्पर्य दूसरे कथन से है, और दो कथन तार्किक रूप से मुख्य कथन से संगत हैं।
कार्ड प्रकाशक या प्रेस द्वारा मुद्रित किया जाता है
A. कार्ड प्रकाशक द्वारा मुद्रित किया जाता है
B. कार्ड प्रकाशक द्वारा मुद्रित नहीं किया जाता है
C. कार्ड प्रेस द्वारा मुद्रित किया जाता है
D. कार्ड प्रेस द्वारा मुद्रित नहीं किया जाता है

(a) AC (b) DA
(c) BD (d) AB

MP Police Constable Exam- 14 August-2023 Shift-2

Ans. (b) : कथन-
कार्ड प्रकाशक या प्रेस द्वारा मुद्रित किया जाता हैं।
कथनानुसार- विकल्प (b) से,
"कार्ड प्रेस द्वारा मुद्रित नहीं किया जाता है क्योंकि कार्ड प्रकाशक द्वारा मुद्रित किया जाता है" संगत युग्म है। जबकि अन्य विकल्प युग्म असंगत हैं। अतः विकल्प (b) सही उत्तर होगा।

17. Given question has main statement followed by four statements. Choose the ordered pair of statements, where the first statement implies the second, and the two statements are logically consistent with the main statement.
You can deposit money in the bank, if you have pan card
A. You deposited the money in the bank
B. You did not deposit money in the bank
C. you have pan card
D. you don't have pan card.
दिए गए प्रश्न में मुख्य कथन और उसके बाद चार कथन हैं। कथनों का क्रमित युग्म चुनें, जहाँ पहले कथन का तात्पर्य दूसरे कथन से है, और दो कथन तार्किक रूप से मुख्य कथन से संगत हैं।
अगर आपके पास पैन कार्ड है तो आप बैंक में पैसा जमा कर सकते हैं
A. आपने बैंक में पैसा जमा किया
B. आपने बैंक में पैसा जमा नहीं किया
C. आपके पास पैन कार्ड है
D. आपके पास पैन कार्ड नहीं है

(a) AB (b) BD
(c) AD (d) CD

MP Police Constable Exam- 20 August-2023 Shift-1

Ans. (b) : प्रश्नगत युग्म B तथा D तार्किक रूप से मुख्य कथन से संगत है अतः विकल्प (b) सही उत्तर है।

18. Given question has main statement followed by four statements. Choose the ordered pair of statements, where the first statement implies the second, and the two statements are logically consistent with the main statement.
If you want to invest money wisely, you will get good return
A. you invested money wisely
B. you did not invested money wisely
C. you got good return
D. you did not get good return
दिए गए प्रश्न में मुख्य कथन और उसके बाद चार कथन हैं। कथनों का क्रमित युग्म चुनें, जहाँ पहले कथन का तात्पर्य दूसरे कथन से है, और दो कथन तार्किक रूप से मुख्य कथन से संगत हैं।
अगर आप सोच समझकर पैसा लगाना चाहते हैं तो आपको अच्छा रिटर्न मिलेगा
A. आपने समझदारी से पैसा लगाया
B. आपने समझदारी से पैसा नहीं लगाया

GET IT ON Google Play Best Study PDF के लिए हमारी App को Download करें "GK Trick By Nitin Gupta"

C. आपको अच्छा रिटर्न मिला है
D. आपको अच्छा रिटर्न नहीं मिला है
(a) AC (b) BC
(c) BD (d) CD

MP Police Constable Exam- 20 August-2023 Shift-1

Ans. (a) : कथन A तथा C मुख्य कथन से तार्किक रूप से तर्क संगत है अतः विकल्प (a) सही उत्तर है।

19. Given question has main statement followed by four statements. Choose the ordered pair of statements, where the first statement implies the second, and the two statements are logically consistent with the main statement.
If you consume all data of internet, you will have to pay extra money.
A. You consumed all data of internet
B. You did not consume all data of internet
C. You paid extra money
D. You did not pay extra money
दिए गए प्रश्न में मुख्य कथन और उसके बाद चार कथन हैं। कथनों का क्रमित युग्म चुनें, जहाँ पहले कथन का तात्पर्य दूसरे कथन से है, और दो कथन तार्किक रूप से मुख्य कथन से संगत हैं।
अगर आप इंटरनेट के पूरे डेटा का उपभोग करते हैं, तो आपको अतिरिक्त पैसे देने होंगे।
A. आपने इंटरनेट के पूरे डेटा का उपभोग किया
B. आपने इंटरनेट के पूरे डेटा का उपभोग नहीं किया
C. आपने अतिरिक्त पैसे का भुगतान किया
C. आपने अतिरिक्त पैसे का भुगतान नहीं किया
(a) AB (b) CD
(c) DA (d) DB

MP Police Constable Exam- 20 August-2023 Shift-3

Ans. (d) : दिए गए कथन से तात्पर्य यह निकलता है कि आपने इंटरनेट के पूरे डाटा का उपयोग नही किया तो आपने अतिरिक्त पैसे का भुगतान नही किया यह कथन संगत है।
अतः तात्पर्य BD संगत है।

20. Given question has main statement followed by four statements. Choose the ordered pair of statements, where the first statement implies the second, and the two statements are logically consistent with the main statement.
If you take vitamins, you won't have any health issues.
A. you took vitamins
B. you did not take vitamins
C. you did not have any health issues
D. you had health issues
दिए गए प्रश्न में मुख्य कथन और उसके बाद चार कथन हैं। कथनों का क्रमित युग्म चुनें, जहाँ पहले कथन का तात्पर्य दूसरे कथन से है, और दो कथन तार्किक रूप से मुख्य कथन से संगत हैं।
यदि आप विटामिन लेते हैं, तो आपको कोई स्वास्थ्य समस्या नहीं होगी।
A. आपने विटामिन लिया
B. आपने विटामिन नहीं लिया
C. आपको कोई स्वास्थ्य संबंधी समस्या नहीं थी
D. आपको स्वास्थ्य संबंधी समस्याएं थीं
(a) AC (b) BC
(c) DA (d) CD

MP Police Constable Exam- 20 August-2023 Shift-3

Ans. (a) : दिए गए कथन के अनुसार तात्पर्य A तथा C तार्किक रूप से तर्क संगत है।

21. Given question has main statement followed by four statements. Choose the ordered pair of statements, where the first statement implies the second, and the two statements are logically consistent with the main statement.
If I score well, I will get admission
दिए गए प्रश्न में मुख्य कथन और उसके बाद चार कथन दिए गए हैं। कथनों का क्रमित युग्म चुनें, जहाँ पहले कथन का तात्पर्य दूसरे कथन से है, और दोनों कथन तार्किक रूप से मुख्य कथन से संगत हैं।
अगर मैं अच्छा स्कोर करता हूँ, तो मुझे प्रवेश मिल जाएगा
A. I scored well/मैंने अच्छा स्कोर किया
B. I got admission/मुझे प्रवेश मिल गया
C. I did not score well/मैंने अच्छा स्कोर नहीं किया
D. I did not get admission/मुझे प्रवेश नहीं मिला
(a) AB (b) BA
(c) DA (d) CD

MP Police Constable Exam- 8 Jan-2022 Shift-2

Ans. (a) : दिए गए कथनानुसार कथन A और कथन B तार्किक रूप से मुख्य कथन से संगत हैं।

22. Given question has main statement followed by four statements. Choose the ordered pair of statements, where the first statement implies the second, and the two statements are logically consistent with the main statement.
दिए गए प्रश्न में मुख्य कथन और उसके बाद चार कथन दिए गए हैं। कथनों का क्रमित युग्म चुनें, जहाँ पहले कथन का तात्पर्य दूसरे कथन से है, और दोनों कथन तार्किक रूप से मुख्य कथन से संगत हैं।
If one gets punished, one feels ashamed
किसी को सजा मिले तो शर्म आती है
A. One got punished/एक को सजा मिली
B. One did not get punished/किसी को सजा नहीं मिली
C. one felt ashamed/एक को शर्मिंदगी महसूस हुई
D. one did not feel ashamed/किसी को शर्म नहीं आई
(a) AC (b) BC
(c) DA (d) CD

MP Police Constable Exam- 8 Jan-2022 Shift-2

Ans. (a) : दिये गये प्रश्न के कथनानुसार, कथन A और कथन C तार्किक रूप से मुख्य कथन से संगत हैं।

23. Given question has main statement followed by four statements. Choose the ordered pair of statements, where the first statement implies the second, and the two statements are logically consistent with the main statement.
दिए गए प्रश्न में मुख्य कथन और उसके बाद चार कथन दिए गए हैं। कथनों का क्रमित युग्म चुनें, जहाँ पहले कथन का तात्पर्य दूसरे कथन से है, और दोनों कथन तार्किक रूप से मुख्य कथन से संगत हैं।
If university becomes autonomous, it will have more freedom
विश्वविद्यालय स्वायत्त हो जाए तो उसे और अधिक स्वतंत्रता प्राप्त होगी

GET IT ON Google Play Best Study PDF के लिए हमारी App को Download करें "GK Trick By Nitin Gupta"

A. university became autonomous/विश्वविद्यालय स्वायत्त हो गया

B. university is not autonomous/विश्वविद्यालय स्वायत्त नहीं है

C. it has more freedom/इसमें अधिक स्वतंत्रता है

D. it does not have freedom/इसमें स्वतंत्रता नहीं है

(a) BD (b) BC (c) DA (d) DB

MP Police Constable Exam- 8 Jan-2022 Shift-2

Ans. (d) : कथनानुसार, कथन D और कथन B तार्किक रूप से मुख्य कथन से संगत है।

24. Given question has main statement followed by four statements. Choose the ordered pair of statements, where the first statement implies the second, and the two statements logically consistent with the main statement.

If you use smart phone, you will use internet.

दिए गए प्रश्न में मुख्य कथन और उसके बाद चार कथन हैं। कथनों को क्रमित युग्म चुनें, जहाँ पहले कथन का तात्पर्य दूसरे कथन से है, और दो कथन तार्किक रूप से मुख्य कथन से संगत है।

अगर आप स्मार्ट फोन का इस्तेमाल करते हैं तो आप इंटरनेट का इस्तेमाल करेंगें।

A. You used smart phone/आपने स्मार्ट फोन का इस्तेमाल किया।

B. You will use internet/आप इंटरनेट का उपयोग करेंगे

C. You did not use smart phone/आपने स्मार्ट फोन का उपयोग नहीं किया

D. You did not use internet/आपने इंटरनेट का उपयोग नहीं किया

(a) AB (b) BA (c) DA (d) CD

MP Police Constable Exam- 10 Jan -2022 Shift-2

Ans. (a) : कथनों का अभीष्ट क्रमित युग्म AB है जहाँ कथन A का तात्पर्य कथन B से है, और दोनों कथन तार्किक रूप से मुख्य कथन से संगत है।

25. Given question has main statement followed by four statements. Choose the ordered pair of statements, where the first statements implies the second, and the two statements logically consistent with the main statement.

If new tax system is implemented, there will be one tax for all.

दिए गए प्रश्न में मुख्य कथन और उसके बाद चार कथन हैं। कथनों का क्रमित युग्म चुनें, जहाँ पहले कथन का तात्पर्य दूसरे कथन से है, और दो कथन तार्किक रूप से मुख्य कथन से संगत है।

यदि नई कर प्रणाली लागू होती है, तो सभी के लिए एक कर होगा।

A. new tax sytem was implemented/नई कर प्रणाली लागू की गई।

B. new tax system was not implemented/नई कर प्रणाली लागू नहीं की गई।

C. there will be one tax for all./सभी के लिए एक टैक्स होगा।

D. There are different taxes for all/सभी के लिए अलग-अलग टैक्स है।

(a) AC (b) BC (c) DA (d) CD

MP Police Constable Exam- 10 Jan -2022 Shift-2

Ans. (a) : कथनों का अभीष्ट क्रमित युग्म AC है, जहाँ कथन A का तात्पर्य कथन C से है और दोनों कथन तार्किक रूप से मुख्य कथन से संगत है।

26. Given question has main statement followed by four statements. Choose the ordered pair of statements, where the first statement implies the second, and the two statements lpogically consistent with the main statements.

If medical colleges increases the tuition fee, there will be unrest among students

दिए गए प्रश्न में मुख्य कथन और उसके बाद चार कथन हैं। कथनों का क्रमित युग्म चुनें, जहाँ पहले कथन का तात्पर्य दूसरे कथन से है, और दो कथन तार्किक रूप से मुख्य कथन से संगत है।

मेडिकल कॉलेजों ने ट्यूशन फीस बढ़ाई तो छात्रों में अशांति होगी।

A. Medical colleges increased the tuition fee/मेडिकल कॉलेजों ने बढ़ाई ट्यूशन फीस

B. Medical colleges did not increase the tuition fee/मेडिकल कॉलेजों ने नहीं बढ़ाई ट्यूशन फीस

C. There was unrest among students/छात्रों में अशांति थी।

D. There was no unrest among students/ छात्रों में कोई अशांति नहीं थी।

(a) BD (b) BC (c) DA (d) DB

MP Police Constable Exam- 10 Jan -2022 Shift-2

Ans. (d) : कथनों का अभीष्ट क्रमित युग्म DB है, जहाँ कथन D का तात्पर्य कथन B से है और दोनों कथन तार्किक रूप से मुख्य कथन से संगत है।

27. A manufacturer has 3 products in his portfolio– A, B, C. They are manufactured in batches, as the cost of changing from one product to another is quite high. A can be produced at a rate of 1000 units per month, B at a rate of 800 per month and C at 700 per month. Once a product is taken up for manufacturing it will be continued for at least 2 months and a product is manufactured only once (one batch) in a year. At a time only one product can be manufactured. Products have to be manufactured before their respective demand season starts. Product A demand always happens between January and May, B between April and September and C between August and January.

एक निर्माता की निवेश सूचि में 3 उत्पाद है – A, B, C वे जत्थे में निर्मित होते हैं, क्योंकि एक उत्पाद को दूसरे में बदलने की लागत काफी अधिक है। A का प्रति माह 1000 इकाइयों की दर से उत्पादन किया जा सकता है, B का 800 की दर से और C का 700 इकाइयों की दर से उत्पादन किया जा सकता है। एक बार एक उत्पाद का निर्माण शुरू होने के बाद यह कम से कम 2 महीने के लिए जारी रखा जाएगा और एक उत्पाद को केवल एक बार (एक जत्थे) एक साल में निर्मित किया जायेगा। एक समय में केवल एक उत्पाद निर्मित किया जा सकता है। उत्पादों को उनकी संबंधित माँग से पहले निर्मित किया जाना होता है। उत्पाद A की माँग हमेशा जनवरी और मई के बीच होती है, B की माँग अप्रैल और सितंबर के बीच और C की माँग अगस्त और जनवरी के बीच होती है।

GET IT ON Google Play Best Study PDF के लिए हमारी App को Download करें "GK Trick By Nitin Gupta"

If a month of idle time is required between producing C and A, when should C be started manufacturing if demand for C in a year is 2000?
यदि C और A के उत्पादन के बीच एक महीने के निष्क्रिय समय की आवश्यकता है, C का विनिर्माण कब शुरू होना चाहिए यदि C की मांग वर्ष में 2000 है?

(a) April/अप्रैल (b) May/मई
(c) June/जून (d) July/जुलाई

MP Police Constable Exam- 26 July-2016 - 9: am

Ans : (b) c का निर्माण 700 ईकाईयों की दर से होता है। अतः 2000 इकाईयों के लिए 3 महीने का समय लगेगा।
C के माँग का समय = अगस्त से जनवरी अतः यदि C को मई में बनाना चालू करें तो वह जुलाई में तैयार हो जायेगा और A के लिए निष्क्रय समय भी मिल जायेगा।

28. Select the option, which is the logical equivalent of the statement given below:
वह विकल्प चुनिए, जो तर्क की दृष्टि से नीचे दिए गए कथन के समान हैं:
It is not true that both David and Shaman are Captains.
यह सत्य नहीं है कि डेविड और शामन दोनों ही कप्तान हैं।

(a) David is a captain and Shaman is a captain.
डेविड एक कप्तान और शामन एक कप्तान है।
(b) David is a captain or Shaman is captain.
डेविड एक कप्तान है या शामन एक कप्तान है।
(c) David is not a captain and shaman is captain.
डेविड एक कप्तान नहीं है और शामन एक कप्तान है।
(d) None of the above/उपरोक्त कोई नहीं

MP Police Constable Exam- 26 July-2016 - 9: am

Ans : (b) कथन 'यह सत्य नहीं है कि डेविड और शामन दोनों ही कप्तान हैं।' तर्क की दृष्टि से समान अर्थ वाला कथन 'डेविड एक कप्तान है या शामन एक कप्तान है' उपयुक्त है।

29. Raj wants to become a member of a club. The various membership options are as follow:
राज एक क्लब का एक सदस्य बनना चाहता है। विभिन्न सदस्यता के विकल्प इस प्रकार है:

A. Initial payments: ₹10000, annual fee: ₹ 1000
आरंभिक भुगतानः ₹10000 रुपये, वार्षिक शुल्कः ₹1000
B. Initial payment: ₹5000, Monthly fee: ₹ 100
आरंभिक भुगतानः ₹5000, मासिक शुल्कः ₹100
C. Life time memberships fee: ₹20000 (Includes membership for all family members)
जीवन भार सदस्यता शुल्कः ₹20000 (परिवार के सभी सदस्यों के लिए सदस्यता भी शामिल है)

If Raj wants to become a member for 5 years, which plan should he opt for?
यदि राज 5 साल के लिए एक सदस्य बनना चाहता है, तो उसे किस विकल्प को चुनना चाहिए?

(a) A (b) B
(c) C (d) Fither A or B

MP Police Constable Exam 25 July 2016 - 9:am

Ans : (b) यदि राज 5 साल के लिए सदस्य बनना चाहता है तो, विकल्प (a) में उसे कुल 10,000 + (1,000 × 5) =₹ 15, 000 देने होंगे। विकल्प (b) में 5000 + (100 × 60) = ₹11,000 एवं विकल्प (c) में ₹20,000 चुकाने पड़ेंगे। इसलिये राज के लिये विकल्प (b) सबसे उपयुक्त विकल्प होगा।

30. A call center company had to arrange transportation for its employees. They asked for quotes from different provider agencies and the following are the options they got:
एक कॉल सेंटर कंपनी को अपने कर्मचारियों के लिए परिवहन की व्यवस्था करनी थी। कंपनी ने अलग अलग प्रदाता एजेंसियों से बात की और उन्हें निम्न विकल्प मिलेः

A. This option allows having uniform rate for day and night trips. This would cost you Rs. 1000 per trip. / A.यह विकल्प दिन और रात की यात्रा के लिए समान दर होने की अनुमति देता है। इसमें प्रति यात्रा आपका 1000 का खर्च आएगा।
B. This option has differential fare for day and night trips. Day trips would cost 700 per trip and night trips would be charged 1200 per trip./इस विकल्प में दिन और रात की यात्रा के किराए में अंतर है। दिन की यात्रा में प्रति यात्रा 700 लागत आएगी और रात में प्रति यात्रा 1200 वसूला जाएगा।
C. This option charges depending on the total distance covered in a trip. It charges Rs. 800 per trip if trip distance is more than 50 KM and Rs. 1100 if trip distance is less than 50 KM./इस विकल्प में एक यात्रा की कुल दूरी के आधार पर शुल्क लिया जायेगा। इसमें प्रति यात्रा 800 रुपए किराया होगा यदि दूरी 50 कि.मी. से अधिक होगी और 1100 रुपए किराया होगा यदि दूरी 50 कि.मी. से कम होगी।

Option C would be preferable to option B if:
विकल्प C विकल्प B से बेहतर होगा यदिः

(a) If there are 3 day trips more than 50 KM
यदि 3 दिनों की यात्रा 50 किमी. से ज्यादा हो।
(b) If there are 3 day trips less than 50 KM
यदि 3 दिनों की यात्रा 50 किमी. से कम हो।
(c) If there are 4 day trips lss than 50 KM and 1 night trip less than 50 KM
यदि 4 दिनों की यात्रा हो जो 50 किलोमीटर से कम हो और 1 रात की यात्रा हो जो 50 किलोमीटर से कम हो
(d) If there are 4 night trips lss than 50 KM
यदि 4 रात की यात्राएं हो जो 50 किलोमीटर से कम है

MP Police Constable Exam- 20 July-2016 - 9: am

Ans : (d)

	विकल्प B अपनाने पर खर्च (रुपये में)	विकल्प C अपनाने पर खर्च (रुपये में)
3 दिनों की यात्रा 50 किमी. से ज्यादा हो	700×3=2100	800×3=2400
3 दिनों की यात्रा 50 किमी. से कम हो	700×3=2100	1100×3=3300
यदि 4 दिनों की यात्रा है, जो 50 किमी. से कम है और 1 रात की यात्रा है जो 50 किमी. से कम है	4×700+1×1200=4000	5×1100=5500

GET IT ON Google Play Best Study PDF के लिए हमारी App को Download करें "GK Trick By Nitin Gupta"

यदि 4 रात की यात्राएं है जो 50 किमी. से कम है।	4×1200 =48000	4×1100=4400
अतः विकल्प C विकल्प B से बेहतर होगा यदि 4 रात की यात्राएँ हो, जो 50 किमी. से कम हो।		

31. Select the option, which is the logical equivalent of the statement given below: / वह विकल्प चुनिए, जो तर्क की दृष्टि से नीचे दिए गए कथन के समान है:

If you are good in English, then you can write a poem./यदि आप अंग्रेजी में अच्छे हैं, तो आप एक कविता लिख सकते हैं।

(a) If you can write a poem, then you are good in English/अगर आप एक कविता लिख सकते हैं, तो आप अंग्रेजी में अच्छे हैं

(b) If you cannot write a poem, the you are not good in English/अगर आप एक कविता नहीं लिख सकते हैं, तो आप अंग्रेजी में अच्छे नहीं हैं

(c) If you are not good in English, then you cannot write a poem/अगर आप अंग्रेजी में अच्छे नहीं हैं तो आप एक कविता नहीं लिख सकते हैं

(d) If you cannot write a poem, then you are good in English/अगर आप एक कविता नहीं लिख सकते हैं, तो आप अंग्रेजी में अच्छे हैं

MP Police Constable Exam- 20 July-2016 - 9: am

Ans : (b) दिये गये कथन से 'अगर आप कविता लिख सकते हैं तो आप अंग्रेजी में अच्छे है।' का तर्क की दृष्टि से समान अर्थ वाला वाक्य विकल्प (b) में दिया गया है।

32. Select the option, which is the logical equivalent of the statement given below:
वह विकल्प चुनिए, जो तर्क की दृष्टि से नीचे दिए गए कथन के समान है:

If Satish attends the training programme, then he will get promotion/यदि सतीश प्रशिक्षण कार्यक्रम में शामिल होता है, तो उसकी पदोन्नति होगी

(a) If Satish doesn't attend the training programme, then he will not be promoted
यदि सतीश प्रशिक्षण कार्यक्रम में शामिल नहीं होता हैं, तो उसकी पदोन्नति नहीं होगी

(b) If Satish didn't get the promotion, then he didn't attend the training programme
यदि सतीश की पदोन्नति नहीं होती है, तो वह प्रशिक्षण कार्यक्रम में शामिल नहीं हुआ था

(c) Satish attends the training programme and didn't get promoted/सतीश प्रशिक्षण कार्यक्रम में शामिल हुआ और उसकी पदोन्नति नहीं हुई

(d) None of the above/उपरोक्त कोई नहीं

MP Police Constable Exam- 20 July-2016 - 9: am

Ans : (b) विकल्प (b) में दिया है यदि सतीश की पदोन्नति नहीं होती है तो वह प्रशिक्षण कार्यक्रम में शामिल नहीं हुआ था। अतः तर्क की दृष्टि से विकल्प (b) में दिया गया कथन समान है।

33. Select the option, which is the logical equivalent of the statement given below:/वह विकल्प चुनिए, जो तर्क की दृष्टि से नीचे दिए गए कथन के समान है:

It is not true that both Nimo and Nena went to movie./यह सत्य नहीं है कि निमो और नीना दोनों ही फिल्म गईं थीं।

(a) Nimo didn't go to movie or Nena didn't go to movie.
निमो फिल्म नहीं गयी थी या नीना फिल्म नहीं गयी थी।

(b) Nimo didn't go to movie and Nena didn't go to movie.
निमो फिल्म नहीं गयी थी और नीना फिल्म नहीं गयी थी।

(c) Nimo went to movie and Nena didn't go to movie.
निमो फिल्म गयी थी और नीना फिल्म नहीं गयी थी।

(d) Nimo didn't go to movie and Nena went to the movie.
निमो फिल्म नहीं गयी थी और नीना फिल्म गयी थी।

MP Police Constable Exam- 20 July-2016 - 9: am

Ans : (a) तर्क की दृष्टि से दिये गये कथन के समान अर्थ वाला कथन विकल्प (a) 'निमो फिल्म नहीं गई थी या नीना फिल्म नहीं गई थी' दिया गया है।

34. Given question has main statement followed by four statements. Choose the ordered pair of statements, where the first statement implies the second, and the two statements are logically consistent with the main statement.
If I use mobile phone in the class, Teacher will punish me.
A. I used mobile phone in the class
B. Teacher punished me
C. I did not use mobile phone in the class
D. Teacher did not punish me
दिए गए प्रश्न में मुख्य कथन और उसके बाद चार कथन हैं। कथनों का क्रमित युग्म चुनें, जहाँ पहले कथन का तात्पर्य दूसरे कथन से है, और दो कथन तार्किक रूप से मुख्य कथन से संगत हैं।
अगर मैं कक्षा में मोबाइल फोन का उपयोग करता हूं, तो शिक्षक मुझे दंडित करेगा।
A. मैंने कक्षा में मोबाइल फोन का इस्तेमाल किया
B. शिक्षक ने मुझे दंडित किया
C. मैंने कक्षा में मोबाइल फोन का प्रयोग नहीं किया
D. शिक्षक ने मुझे दंड नहीं दिया।

(a) AB (b) AC
(c) AD (d) BD

MP Police Constable Exam- 20 August-2023 Shift-2

Ans. (a) : दिया है-
कथन – अगर मैं कक्षा में मोबाइल फोन का उपयोग करता हूँ तो शिक्षक मुझे दंडित करेगा।
प्रश्नानुसार, विकल्प (a) का कथन एक-दूसरे से तात्पर्य है और तार्किक रूप से संगत है।
A → मैंने कक्षा में मोबाइल फोन का इस्तेमाल किया।
B → शिक्षक ने मुझे दंडित किया।

35. Given question has main statement followed by four statements. Choose the ordered pair of statements, where the first statement implies the second, and the two statements are logically consistent with the main statement.
If you solve all questions, your performance will be better

GET IT ON Google Play Best Study PDF के लिए हमारी App को Download करें "GK Trick By Nitin Gupta"

A. You solved all questions
B. You did not solve all questions
C. Your performance was better
D. Your performance was not better
दिए गए प्रश्न में मुख्य कथन और उसके बाद चार कथन हैं। कथनों का क्रमित युग्म चुनें, जहाँ पहले कथन का तात्पर्य दूसरे कथन से है, और दो कथन तार्किक रूप से मुख्य कथन से संगत हैं।
यदि आप सभी प्रश्नों को हल करते हैं, तो आपका प्रदर्शन बेहतर होगा
A. आपने सभी प्रश्नों को हल किया
B. आपने सभी प्रश्नों को हल नहीं किया
C. आपका प्रदर्शन बेहतर था
D. आपका प्रदर्शन बेहतर नहीं था
(a) AB (b) BC (c) DA (d) DB

MP Police Constable Exam- 20 August-2023 Shift-2

Ans. (d) : दिया है-
कथन – यदि आप सभी प्रश्नों को हल करते हैं, तो आपका प्रदर्शन बेहतर होगा।
प्रश्नानुसार, विकल्प (d) का कथन एक-दूसरे से सम्बद्ध है और तार्किक रूप से संगत है।
A → आपका प्रदर्शन बेहतर नहीं था।
B → आपने सभी प्रश्नों को हल नहीं किया।

36. Given question has main statement followed by four statements. Choose the ordered pair of statements, where the first statement implies the second, and the two statements are logically consistent with the main statement.
The movie should be either inspiring or entertaining
A. The movie is inspiring
B. The movie is not inspiring
C. The movie is entertaining
D. The movie is not entertaining
दिए गए प्रश्न में मुख्य कथन और उसके बाद चार कथन हैं। कथनों का क्रमित युग्म चुनें, जहाँ पहले कथन का तात्पर्य दूसरे कथन से है, और दो कथन तार्किक रूप से मुख्य कथन से संगत हैं।
फिल्म या तो प्रेरणादायक या मनोरंजक होनी चाहिए
A. फिल्म प्रेरणादायक है
B. फिल्म प्रेरणादायक नहीं है
C. फिल्म मनोरंजक है
D. फिल्म मनोरंजक नहीं है
(a) AB (b) DA (c) CA (d) BD

MP Police Constable Exam- 16 August-2023 Shift-2

Ans. (b) : दिये गये कथन के अनुसार विकल्प (b) का युग्म तार्किक रूप से मुख्य कथन से संगत है।

37. Given question has main statement followed by four statements. Choose the ordered pair of statements, where the first statement implies the second, and the two statements are logically consistent with the main statement.
They are either clean or filthy
A. They are clean
B. They are not clean
C. They are filthy
D. They are not filthy
दिए गए प्रश्न में मुख्य कथन और उसके बाद चार कथन हैं। कथनों का क्रमित युग्म चुनें, जहाँ पहले कथन का तात्पर्य दूसरे कथन से है, और दो कथन तार्किक रूप से मुख्य कथन से संगत हैं।
वे या तो साफ हैं या गंदे
A. वे साफ हैं **B. वे साफ नहीं हैं**
C. वे गंदे हैं **D. वे गंदे नहीं हैं**
(a) AC (b) DA (c) BD (d) AB

MP Police Constable Exam- 16 August-2023 Shift-2

Ans. (b) : दिये गये कथन के अनुसार विकल्प (b) मुख्य कथन से तार्किक रूप से संगत है। अतः 'DA' का युग्म उपयुक्त उत्तर होगा।

38. Given question has main statement followed by four statements. Choose the ordered pair of statements, where the first statement implies the second, and the two statements are logically consistent with the main statement.
If you pay attention to the concept, you will understand it thoroughly.
A. you pay attention to the concept
B. you did not pay attention to the concept
C. you understood it thoroughly
D. you did not understand it thoroughly
दिए गए प्रश्न में मुख्य कथन और उसके बाद चार कथन हैं। कथनों का क्रमित युग्म चुनें, जहाँ पहले कथन का तात्पर्य दूसरे कथन से है, और दो कथन तार्किक रूप से मुख्य कथन से संगत हैं।
यदि आप अवधारणा पर ध्यान देंगे, तो आप इसे अच्छी तरह से समझ पाएंगे।
A. आपने अवधारणा पर ध्यान दिया
B. आपने अवधारणा पर ध्यान नहीं दिया
C. आप इसे अच्छी तरह से समझ गए हैं
D. आपने इसे अच्छी तरह से नहीं समझा हैं
(a) AB (b) AC (c) DA (d) DB

MP Police Constable Exam- 21 August-2023 Shift-2

Ans. (d) : कथनानुसार विकल्प (d) का सम्बन्ध मुख्य कथन से है जो तार्किक रूप से संगत है अतः 'DB' सही युग्म होगा।

39. Given question has main statement followed by four statements. Choose the ordered pair of statements, where the first statement implies the second, and the two statements are logically consistent with the main statement.
The train will be late if there is fog in the capital.
A. The train was late
B. The train was not late
C. There is fog in the capital
D. There is no fog in the capital
दिए गए प्रश्न में मुख्य कथन और उसके बाद चार कथन हैं। कथनों का क्रमित युग्म चुनें, जहाँ पहले कथन का तात्पर्य दूसरे कथन से है, और दो कथन तार्किक रूप से मुख्य कथन से संगत हैं।
राजधानी में कोहरा रहेगा तो ट्रेन लेट होगी।
A. ट्रेन लेट थी
B. ट्रेन लेट नहीं थी
C. राजधानी में कोहरा है
D. राजधानी में कोहरा नहीं है
(a) AB (b) BD
(c) DA (d) CD

MP Police Constable Exam- 21 August-2023 Shift-2

GET IT ON Google Play Best Study PDF के लिए हमारी App को Download करें "GK Trick By Nitin Gupta"

Ans. (b) : 'BD' का युग्म उपयुक्त है क्योंकि दिए गए कथन के अनुसार विकल्प (b) मुख्य कथन से तार्किक रूप से संगत है।

40. Given question has main statement followed by four statements. Choose the ordered pair of statements, where the first statement implies the second, and the two statements are logically consistent with the main statement.
If he takes my money, I will prevent him from taking risk
A. he took my money
B. he did not take my money
C. I prevented him from taking risk
D. I let him take the risk
दिए गए प्रश्न में मुख्य कथन और उसके बाद चार कथन हैं। कथनों का क्रमित युग्म चुनें, जहाँ पहले कथन का तात्पर्य दूसरे कथन से है, और दो कथन तार्किक रूप से मुख्य कथन से संगत हैं।
अगर वह मेरा पैसा लेता है, तो मैं उसे जोखिम लेने से रोकूंगा
A. उसने मेरा पैसा लिया
B. उसने मेरा पैसा नहीं लिया
C. मैंने उसे जोखिम लेने से रोका
D. मैंने उसे जोखिम लेने दिया
(a) AB (b) B (c) DA (d) DB

MP Police Constable Exam- 21 August-2023 Shift-3

Ans. (d) : कथन- अगर वह मेरा पैसा लेता है तो उसे जोखिम लेने से रोकूंगा इसमें पहला कथन का तात्पर्य दूसरे से है अतः अगर क्रमवार कथनों से अगर मैने जोखिम लेने दिया तो उसने मेरा पैसा नही लिया। अतः विकल्प (d) DB सही क्रमयुग्म होगा।

41. Given question has main statement followed by four statements. Choose the ordered pair of statements, where the first statement implies the second, and the two statements are logically consistent with the main statement.
If she persist in her demand, the management will accept it.
A. She persisted in her demand
B. she did not persist in her demand.
C. The management accepted the demand
D. The management did not accept it.
दिए गए प्रश्न में मुख्य कथन और उसके बाद चार कथन हैं। कथनों का क्रमित युग्म चुनें, जहाँ पहले कथन का तात्पर्य दूसरे कथन से है, और दो कथन तार्किक रूप से मुख्य कथन से संगत हैं।
अगर वह अपनी मांग पर कायम रहती है, तो प्रबंधन उसे स्वीकार कर लेगा।
A. वह अपनी मांग पर कायम रही
B. वह अपनी मांग पर कायम नहीं रही
C. प्रबंधन ने मांग को स्वीकार कर लिया
D. प्रबंधन ने मांग को स्वीकार नहीं किया
(a) AC (b) BD
(c) DA (d) CD

MP Police Constable Exam- 21 August-2023 Shift-3

Ans. (a) : पहला कथन अगर वह अपनी मांग पर कायम रहती है तो इसका तात्पर्य प्रबंधन उसे स्वीकार कर लेगा। तो इसके अर्थ में यदि वह अपनी मांग पर कायम रही प्रबंधन द्वारा मांग को स्वीकार कर लिया जायेगा। अतः विकल्प (a) AC सही क्रमयुग्म होगा।

42. Study the given statement and select the alternative which best represents the statement:
"Ravi is illiterate, therefore he cannot write."
Thus we can say that
नीचे दिये गये कथन का अध्ययन कीजिए और उस विकल्प का चयन कीजिए जो कथन को सर्वोत्तम रूप से द्योतित करता है:
''रवि अनपढ़ है, अतः वह लिख नहीं सकता।''
अतः हम कह सकते हैं कि
(a) only some of the literate persons can write/कुछ साक्षर व्यक्ति ही लिख सकते हैं
(b) all illiterate persons cannot write/सभी अनपढ़ व्यक्ति नहीं लिख सकते हैं
(c) some literate persons also cannot write/कुछ साक्षर व्यक्ति भी नहीं लिख सकते हैं
(d) None of the above/उपर्युक्त में से कोई नहीं

MP Police Constable Recruitment Test - 2013

Ans. (b) : दिया है कि 'रवि अनपढ़ है अतः वह लिख नहीं सकता' अतः हम कह सकते हैं 'सभी अनपढ़ व्यक्ति नहीं लिख सकते हैं।'

43. A call center company had to arrange transportation for its employees. They asked for quotes from different provider agencies and the following are the options they got:
एक कॉल सेंटर कंपनी को अपने कर्मचारियों के लिए परिवहन की व्यवस्था करना था। कंपनी ने अलग-अलग प्रदाता एजेंसियों से बात की और उन्हें निम्न विकल्प मिले:
A. This option allows having uniform rate for day and night trips. This would cost you Rs. 1000 per trip.
यह विकल्प दिन और रात की यात्रा के लिए समान दर होने की अनुमति देता है। इसमें प्रति यात्रा आपका 1000 का खर्च आएगा।
B. This option has differential fare for day and night trips. Day trips would cost 700 per trip and night trips would be charged 1200 per trip.
इस विकल्प में दिन और रात की यात्रा के किराए में अंतर हैं। दिन की यात्रा में प्रति यात्रा 700 लागत आएगी और रात में प्रति यात्रा 1200 वसूला जाएगा।
C. This option charges depending on the total distance covered in a trip. It charges Rs. 800 per trip if trip distance is more than 50 KM and Rs. 1100 if trip distance is less than 50 KM.
इस विकल्प में एक यात्रा की कुल दूरी के आधार पर शुल्क लिया जायेगा। इसमें प्रति यात्रा 800 रुपए किराया होगा यदि दूरी 50 कि.मी. से अधिक होगी और 1100 रुपए किराया होगा यदि दूरी 50 कि. मी. से कम होगी।
If the company has 2 day trips exceeding 50KM and 3 night trips less than 50 KM, which option would be the best?
यदि कंपनी के पास 50 किलोमीटर से अधिक की 2 दिन की यात्रा और 50 किलोमीटर से कम की 3 रात की यात्राएं हैं, तो कौन सा विकल्प सबसे अच्छा हो सकता है?
(a) A (b) B
(c) C (d) Either A or C/A अथवा C

MP Police Constable Exam 17 July 2016 - 9:am

GET IT ON Google Play Best Study PDF के लिए हमारी App को Download करें "GK Trick By Nitin Gupta"

Ans : (c) विकल्प A के अनुसार 2 दिन तथा 3 रात की यात्रा का खर्च = 3 × 1000+2×1000 = ₹5000
विकल्प B के अनुसार 2 दिन तथा 3 रात का खर्च
3×1200 + 2 × 700 = ₹5000
विकल्प C के अनुसार 2 दिन तथा 3 रात का खर्च
3×800 + 2 × 1100 = ₹4600
अतः विकल्प (c) सबसे अच्छा होगा।

44. Raj wants to become a member of a club. The various membership options are as follows–
राज एक क्लब का सदस्य बनना चाहता है। विभिन्न सदस्यता के विकल्प इस प्रकार हैं–

A - Initial payments: Rs. 10000 annual feee: Rs. 1000/आरंभिक भुगतानः 10000 रुपये, वार्षिक शुल्कः 1000 रुपये

B - Initial payments: Rs. 5000 Monthly fee: Rs. 100/आरंभिक भुगतानः 5000 रुपये, मासिक शुल्कः 100 रुपये

C - Life time membership fee: Rs. 20000 (Includes membership for all family members)/जीवन भर सदस्यता शुल्कः 20000 रुपये (परिवार के सभी सदस्यों के लिए सदस्यता भी शामिल) है।

If Raj and his wife both want to become members of the club for next 5 years. Which plan should they opt for?/यदि राज और उसकी पत्नी दोनों अगले 5 साल के लिए क्लब के सदस्य बनना चाहते हैं। उन्हें किस योजना को चुनना चाहिए?

(a) A (b) B
(c) C (d) Either B or C/B या C

MP Police Constable Exam 24 July 2016 - 9:am

Ans : (c) क्लब A का कुल शुल्क = 10000+1000×5
= 15000 रु.
दो लोगों का कुल शुल्क = 15000×2 = ₹30000
क्लब B का कुल शुल्क = 5000+5×12×100 = 11000 रु.
दो लोगों का कुल शुल्क = 11000×2 = ₹22000
क्लब C का कुल शुल्क = 20000 रु.
अतः स्पष्ट है कि राज और उसकी पत्नी दोनों को योजना (c) चुनना चाहिए।

45. Select the option, which is the logical equivalent of the statement given below:
वह विकल्प चुनिए, जो तर्क की दृष्टि से नीचे दिए गए कथन के समान हैः

If you are riding a bike, then you need to wear helmet.
यदि आप बाइक चला रहे हैं, तो आपको हेलमेट पहनने की जरूरत है।

(a) If you are not riding a bike, then you need not wear the helmet./यदि आप बाइक नहीं चला रहे हैं, तो आपको हेलमेट पहनने की जरूरत नहीं है।
(b) If you are wearing a helmet, then you are riding a bike./यदि आप हेलमेट पहने हुए हैं, तो आप बाइक चला रहे हैं।
(c) If you are not wearing a helmet, then you are not riding a bike./यदि आप हेलमेट नहीं पहने हुए हैं, तो आप बाइक नहीं चला रहे हैं।
(d) None of the above/उपर्युक्त में से कोई नहीं

MP Police Constable Exam- 1 August-2016, 3:pm

Ans : (c) यदि आप हेलमेट नहीं पहने हैं तो बाइक नहीं चला रहे हैं। अतः विकल्प (c) तार्किक रूप से कथन के समान है।

46. Select the option, which is the logical equivalent of the statement given below:
वह विकल्प चुनिए, जो तर्क की दृष्टि से नीचे दिए गए कथन के समान है :

If it is 5:00 pm, then I will go home
यदि शाम के 5:00 बजे हैं, तो मैं घर जाऊँगा।

(a) If it is not 5:00 pm, then I will not go home
यदि शाम के 5:00 नहीं बजे हैं, तो मैं घर नहीं जाऊँगा
(b) If I go home, then it is 5:00 pm
यदि मैं घर जाऊँगा, तो शाम के 5:00 बजे हैं
(c) I will not go home, then it is not 5:00 pm
यदि मैं घर नहीं आऊँगा, तो शाम के 5:00 नहीं बजे हैं
(d) None of the above/उपर्युक्त में से कोई नहीं

MP Police Constable Exam- 1 August-2016, 3:pm

Ans : (c) प्रश्न में कहा गया है कि 'यदि शाम के 5:00 बजे है, तो मैं घर जाऊंगा' से स्पष्ट है कि व्यक्ति निश्चित रूप से शाम के 5:00 बजे ही घर जाता है। विकल्प (c) 'यदि मैं घर नहीं जाऊंगा, तो शाम के 5:00 नहीं बजे हैं।' तर्क की दृष्टि से दिये गये कथन के समान है।

47. Select the option, which is the logical equivalent of the statement given below:
वह विकल्प चुनिए, जो तर्क की दृष्टि से नीचे दिए गए कथन के समान हैः

If you are wearing a badge, then you are a captain
यदि आप बैज लगाये हुए हैं, तो आप एक कप्तान हैं

(a) If you are not wearing a badge, then you are not a captain/यदि आप बैज नहीं लगाये हुए हैं, तो आप कप्तान नहीं हैं
(b) If you are not a captain, then you are not wearing a badge
यदि आप कप्तान नहीं हैं, तो आप बैज नहीं लगाये हैं।
(c) If you are a captain, then you are wearing a badge
यदि आप एक कप्तान हैं, तो आप बैज लगाये हुए हैं
(d) None of the above/उपर्युक्त में से कोई नहीं

MP Police Constable Exam- 1 August-2016, 3:pm

Ans : (c) प्रश्न में कहा गया है कि 'यदि आप बैज लगाये हुए हैं, तो आप एक कप्तान है' से स्पष्ट है कि कप्तान को बैज लगाना अनिवार्य है लेकिन यह नहीं निश्चित हो सका कि प्रत्येक बैज लगाया हुआ व्यक्ति कप्तान ही होगा।
अतः विकल्प (c) से यदि आप एक कप्तान है, तो आप बैज लगाये हुए हैं' यह वाक्य पूर्णतः सत्य है क्योंकि प्रश्न में स्पष्ट रूप से 'कहा गया कि कप्तान को बैज लगाना अनिवार्य है।

48. Three friends want to hire a taxi for a trip. The taxi owner provides them with following three options :
तीन दोस्त एक यात्रा के लिए एक टैक्सी किराए पर करना चाहते हैं। टैक्सी मालिक उन्हें निम्नलिखित तीन विकल्प प्रदान करता हैः

GET IT ON Google Play Best Study PDF के लिए हमारी App को Download करें "GK Trick By Nitin Gupta"

(A) You can hire the taxi without an accompanying driver. This would cost you Rs. 2500 per day. Driver can be arranged from another agency for Rs. 500 per day.
आप बिना ड्राइवर के टैक्सी किराए पर ले सकते हैं। उसका किराया प्रतिदिन 2500 रूपये होगा। ड्राइवर दूसरा एजेंसी से आ सकता है उसका वेतन 500 रूपये प्रतिदिन होगा।

(B) You can hire the taxi with driver from the first agency. This would cost you Rs. 2800 per day. But driver will have to be provided relief fund of Rs. 250 travele exceed's 1500 km. per day if total distance
आप पहली एजेंसी से ड्राइवर के साथ टैक्सी ले सकते हो। उसका 2800 प्रति दिन रूपये का खर्च आएगा। लेकिन ड्राइवर को प्रतिदिन 250 रुपये से राहत कोष देना होगा, यदि कुल दूरी की यात्रा की 1500 किलोमीटर से अधिक होगी।

(C) You can hire the taxi without an accompanying driver. This would cost you Rs. 2500 per day. Driver can be arranged from another agency for 50 paise per KM.
आप बिना ड्राइवर के टैक्सी किराए पर ले सकते हैं। उसका किराया प्रतिदिन 2500 रूपये होगा। ड्राइवर दूसरी एजेंसी से आ सकता है उसका वेतन 50 पैसे प्रति किलोमीटर होगा।

(D) If they had planned to travel total of 6000 kms in 5 days. Which option would have been better?/यदि वे उनकी 5 दिनों में 6000 किलोमीटर की कुल यात्रा करने की योजना है, तो कौन सा विकल्प बेहतर होगा?

(a) A
(b) B
(c) C
(d) Either A or C /A या C कोई भी

MP Police Constable Exam 17 July 2016 - 12:am

Ans. (b) विकल्प (a) से,
टैक्सी का खर्च $= 5 \times 2500 =$ ₹ 12,500
ड्राइवर का खर्च $= 5 \times 500 =$ ₹ 2500
कुल खर्च = ₹ 12,500 + 2500 = ₹ 15,000
विकल्प (b) से, टैक्सी का खर्च = 5 × 2800 = ₹ 14,000
यदि प्रतिदिन 1500 किलोमीटर से कम की यात्रा की जाए तब भी 6000 किलोमीटर की दूरी 5 दिन में पूरी की जा सकती है अतः ड्राइवर के राहतकोष का कोई खर्च नहीं आएगा।
विकल्प (c) से, टैक्सी का खर्च = 5×2500 = ₹ 12500
ड्राइवर का खर्च = 0.5 × 6000 = ₹ 3000
कुल खर्च = 12,500 + 3,000 = ₹ 15,500
अतः यात्रा के लिए विकल्प (b) बेहतर होगा।

49. If steel is called wood, wood is called cobalt, cobalt is called gold, gold is called plastic. What do we get from trees?
यदि स्टील को लकड़ी कहा जाए, लकड़ी को कोबाल्ट कहा जाए, कोबाल्ट को सोना कहा जाए, सोना को प्लास्टिक कहा जाए। पेड़ों से हमें क्या मिलता है?

(a) Plastic /प्लास्टिक (b) Iron /लोहा
(c) Cobalt /कोबाल्ट (d) Gold /सोना

MP Police Constable Exam- 9 Sep-2023 Shift-2

Ans. (c) : दिया है-
स्टील → लकड़ी
लकड़ी → कोबाल्ट
कोबाल्ट → सोना
सोना → प्लास्टिक
चूँकि, पेड़ से हमे लकड़ी मिलता है। परंतु लकड़ी को प्रश्न में कोबाल्ट कहा गया है। इसलिए सही उत्तर विकल्प (c) होगा।

50. If wood is called pearl, pearl is called silver, silver is called gold, gold is called diamond, diamond is called iron and iron is called steel. Which one of the costliest jewel?
यदि लकड़ी को मोती कहा जाए, मोती को चांदी कहा जाए, चांदी को सोना कहा जाए, सोने को हीरा कहा जाए, हीरे को लोहा कहा जाए और लोहे को स्टील कहा जाए। सबसे महंगे गहनों में से कौन-सा है?

(a) Gold /सोना (b) Diamond /हीरा
(c) Iron /लोहा (d) Silver /चांदी

MP Police Constable Exam- 9 Sep-2023 Shift-2

Ans. (c) : दिया है-
लकड़ी → मोती
मोती → चाँदी
चाँदी → सोना
सोना → हीरा
हीरा → लोहा
लोहा → स्टील
चूँकि, सबसे मंहगा गहना हीरे का होता है और हीरे को प्रश्न में लोहा कहा जाता है, इसलिए सही उत्तर विकल्प (c) होगा।

51. If cave is called hole, hole is called nest, nest is called tunnel, tunnel is called burrow and burrow is called bill. Where a bird live?
यदि गुफा को छेद कहा जाता है, छेद को घोंसला कहा जाता है, घोंसले को सुरंग कहा जाता है, सुरंग को मांद कहा जाता है और मांद को बिल कहा जाता है। एक पक्षी कहाँ रहता है?

(a) Hole/छेद (b) Cave/गुफा
(c) Nest/घोंसला (d) Tunnel/सुरंग

MP Police Constable Exam- 02 Feb-2022 Shift-1

Ans. (d) : पक्षी घोंसले में रहता है परन्तु प्रश्न में घोसले को सुरंग कहा गया है। अतः सुरंग अभीष्ट उत्तर होगा।

52. If teacher is called doctor, doctor is called barber, barber is called postman, postman is called lawyer and lawyer is called cobbler. Which one of the following cuts our hair?
यदि शिक्षक को डॉक्टर कहा जाए, डॉक्टर को नाई कहा जाए, नाई को डाकिया कहा जाए, डाकिया को वकील कहा जाए और वकील को मोची कहा जाए। निम्नलिखित में से कौन हमारे बाल काटता है?

(a) Teacher/शिक्षक (b) Postman/डाकिया
(c) Barber/नाई (d) Lawyer/वकील

MP Police Constable Exam- 02 Feb-2022 Shift-1

Ans. (b) : हमारे बाल नाई काटता है किन्तु प्रश्न में नाई को डाकिया कहा गया है। अतः डाकिया अभीष्ट उत्तर होगा।

GET IT ON Google Play Best Study PDF के लिए हमारी App को Download करें "GK Trick By Nitin Gupta"

भाग-12.

न्याय निगमन (Syllogism)

Type-1: 'कुछ' तथा 'सभी' दोनों वाले कथन पर आधारित न्याय निगमन

1. In this question, two statements are followed by two conclusions. You have to consider the two given statements as true even if they seem to be absurd and select your answer.

इस प्रश्न के लिए दो कथन दो निष्कर्षों के साथ दिये गये हैं। आपको इन कथनों को सही मानते हुए, यदि वे आपको असंगत भी लगते हों, अपने उत्तर चयन करने हैं।

Statements/कथन :

I. All managers are clerks.
सभी मैनेजर, लिपिक हैं।

II. Some clerks are peon.
कुछ लिपिक, चपरासी हैं।

Conclusions/निष्कर्ष :

(1) No manager is peon.
कोई भी मैनेजर चपरासी नहीं है।

(2) Some peons are managers.
कुछ चपरासी, मैनेजर हैं।

(a) Only conclusion (1) follows/
केवल निष्कर्ष (1) सत्य है।

(b) Only conclusion (2) follows
केवल निष्कर्ष (2) सत्य है।

(c) Neither conclusion (1) nor conclusion (2) follows
न तो निष्कर्ष (1) और न ही निष्कर्ष (2) सत्य है।

(d) Both of the conclusions (1) and (2) follow
निष्कर्ष (1) और निष्कर्ष (2) दोनों सत्य हैं।

MP Police Constable Recruitment Test - 2013

Ans. (c) : प्रश्नानुसार,

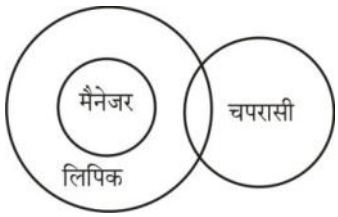

निष्कर्ष :
(i) ×
(ii) ×
अतः न तो निष्कर्ष I न II अनुसरण करता है।

2. Select the option that is true about the Statements and Conclusions given:

वह विकल्प चुनिए जो दिए गए कथनों एवं निष्कर्षों के बारे में सही है।

Statements:
कथन :

Some pens are rubber.
कुछ कलम रबर हैं।

Some pens are daughters
कुछ कलम बेटियां हैं।

Conclusions:
निष्कर्ष :

I. Some daughters are rubber.
I. कुछ बेटियां रबर हैं।

II. All pens are rubber.
II. सभी कलम रबर हैं।

(a) Only conclusion I follows
केवल निष्कर्ष I निकलता है

(b) Only conclusion II follows
केवल निष्कर्ष II निकलता है

(c) Both conclusion I and II follows
दोनों निष्कर्ष I और II निकलते हैं

(d) None of the conclusion I or II follows
निष्कर्ष I या II में से कोई नहीं निकलता है

MP Police Constable Exam- 20 July-2016 - 9: am

Ans : (d)

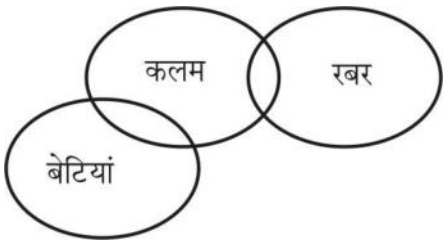

निष्कर्ष I या II में से कोई नहीं निकलता है।

GET IT ON Google Play Best Study PDF के लिए हमारी App को Download करें "GK Trick By Nitin Gupta"

Type-2: 'कुछ' तथा 'कोई नहीं' दोनों वाले कथन पर आधारित न्याय निगमन

3. In the following question below are given, some statement followed by some conclusion taking the given statement to be true even if they seem to be at variance from commonly known facts, read all conclusion and then decide which of the following conclusion logically follow the given statement.

Statement:

Some curd are white.

Some milk are white.

No white is sky.

Conclusion:

(I) Some milk which is white is also cured.

(II) No milk is sky.

नीचे दिए गए प्रश्न में कुछ कथन और उनके बाद उन कथनों पर आधारित कुछ निष्कर्ष दिए गए है। हालाँकि उनमें सामान्य ज्ञात तथ्यों से भिन्नता हो सकती है। सभी निष्कर्ष पढ़े फिर निर्धारित करें कि दिए गए कौन से निष्कर्ष, दिए गए कथनों के आधार पर युक्तिसंग हैं।

कथन :

कुछ दही सफेद है।

कुछ दूध सफेद है।

कोई सफेद आसमान नहीं है।

निष्कर्ष :

(I) कुछ दूध जो सफेद है दही भी है।

(II) कोई दूध आसमान नहीं है।

(a) Only conclusion I follow
केवल निष्कर्ष I अनुसरण करता है।

(b) Only conclusion II follow
केवल निष्कर्ष II अनुसरण करता है।

(c) Both conclusion follow
दोनों निष्कर्ष अनुसरण करते हैं।

(d) None conclusion follow
कोई निष्कर्ष अनुसरण नहीं करता है।

MP Police Constable Exam- 2 Sep-2023 Shift-2

Ans. (d) : प्रश्नानुसार, वेन आरेख निम्नवत् है-

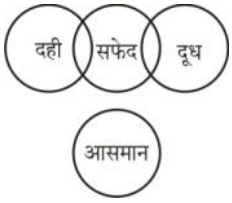

निष्कर्ष

I. असत्य

II. असत्य

उपर्युक्त वेन आरेख से स्पष्ट है कि, कोई भी निष्कर्ष अनुसरण नही करता है।

4. In the question below, there are two statements followed by four conclusions given in options. You have to take the given statements to be true even if they seem to be at Variance from commonly known facts and decide which of the given conclusion logically follow(s) from the given statements.

नीचे दिए गए प्रश्न में, दो कथन के बाद विकल्पों में चार निष्कर्ष दिए गए हैं। आपको दिए गए कथनों को सत्य मानना है, भले ही वे सर्वज्ञात तथ्यों से भिन्न प्रतीत होते हों। सभी विकल्पों को पढ़िए फिर तय कीजिए कि दिए गए विकल्पों में से कौन सा निष्कर्ष दिए गए कथनों का अनुसरण करता है।

Statements/कथन :

Some exams are not objective./कुछ परीक्षा उद्देश्य नहीं हैं।

II. No exam is descriptive./कोई परीक्षा वर्णनात्मक नहीं हैं।

(a) No objective is a descriptive
कोई उद्देश्य वर्णनात्मक नहीं है।

(b) All objective are descriptive
सभी उद्देश्य वर्णनात्मक हैं।

(c) Some objective is exam/कुछ उद्देश्य परीक्षा है।

(d) No descriptive is exam
कोई वर्णनात्मक परीक्षा नहीं है।

MP Police Constable Exam- 8 Jan-2022 Shift-2

Ans. (d):

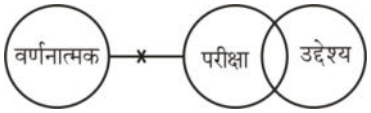

उपर्युक्त वेन आरेख से कोई वर्णनात्मक परीक्षा नहीं है। यह निष्कर्ष अनुसरण करता है।

GET IT ON Google Play Best Study PDF के लिए हमारी App को Download करें "GK Trick By Nitin Gupta"

भाग-13.

कथन और निष्कर्ष
(Statement and Conclusion)

Type-1: सामान्य कथन और निष्कर्ष

1. In the following questions, two statements are given followed by two conclusions (I) and (II). You have to consider the statements to be true even if they seem to be at variance from commonly known facts. You are to decide which of the given conclusions, if any, follow from the given statements. Indicate your answer.

निम्नलिखित प्रश्न में दो कथन और उसके बाद दो निष्कर्ष (I) और (II) दिए गए हैं। आपको कथनों को सत्य मानना है, भले ही वे सामान्यतः ज्ञात तथ्यों से भिन्न प्रतीत होते हों। आपको यह तय करना है कि दिए गए निष्कर्षों में से कौन-सा, यदि कोई हो, दिए गए कथनों का पालन करता है। अपने उत्तर का चयन करें :

Statement/कथन :

A neurotic is a good person who behaves stupidly./एक विक्षिप्त एक अच्छा व्यक्ति है जो मूर्खतापूर्ण व्यवहार करता है।

Conclusions/निष्कर्ष :

I. Stupidity go hand in hand./मूर्खता साथ-साथ चलती है।

II. Normal persons behave good./सामान्य व्यक्ति अच्छा व्यवहार करते हैं।

(a) Only conclusion I follows/केवल निष्कर्ष I अनुसरण करता है

(b) Only conclusion II follows/केवल निष्कर्ष II अनुसरण करता है

(c) Either conclusion I or II follows/या तो निष्कर्ष I या II अनुसरण करता है

(d) Neither conclusion I nor II follows/न तो निष्कर्ष I और न ही II अनुसरण करता है

MP Police Constable Exam- 29 August-2023 Shift-2

Ans. (a) : दिये गये कथन के अनुसार केवल निष्कर्ष (I) अनुसरण करता है।

2. In the following questions, two statements are given followed by two conclusions (I) and (II). You have to consider the statements to be true even if they seem to be at variance from commonly known facts. You are to decide which of the given conclusions, if any, follow from the given statements. Indicate your answer.

निम्नलिखित प्रश्न में दो कथन और उसके बाद दो निष्कर्ष (I) और (II) दिए गए हैं। आपको कथनों को सत्य मानना है, भले ही वे सामान्यतः ज्ञात तथ्यों से भिन्न प्रतीत होते हों। आपको यह तय करना है कि दिए गए निष्कर्षों में से कौन-सा, यदि कोई हो, दिए गए कथनों का अनुसरण करता है। अपने उत्तर का चयन करें :

Statement/कथन:

Water supply in A and B ward of the city will be affected by about 80% on Sunday because the repairing work of the main lines is to be carried out./रविवार को शहर के A और B वार्ड में पानी की आपूर्ति लगभग 80% प्रभावित होगी क्योंकि मुख्य लाइनों की मरम्मत का काम किया जाना है।

Conclusions/निष्कर्ष :

I. The residents in these wards should economize on water on Friday./इन वार्डों के निवासियों को शुक्रवार को पानी पर बचत करनी चाहिए।

II. The residents in these wards should store some water on the previous day./इन वार्डों के निवासियों को पिछले दिन कुछ पानी जमा करना चाहिए।

(a) Only conclusion I follows/केवल निष्कर्ष I अनुसरण करता है

(b) Only conclusion II follows/केवल निष्कर्ष II अनुसरण करता है

(c) Either conclusion I or II follows/या तो निष्कर्ष I या II अनुसरण करता है

(d) Both conclusion I and II follow/निष्कर्ष I और II दोनों अनुसरण करते हैं

MP Police Constable Exam- 31 August-2023 Shift-2

Ans. (d) : दिए गए प्रश्न में, कथन के अनुसार निष्कर्ष I और II दोनों अनुसरण करते हैं।

3. In the following questions, two statements are given followed by two conclusions (I) and (II). You have to consider the statements to be true even if they seem to be at variance from commonly known facts. You are to decide which of the given conclusions, if any, follow from the given statements. Indicate your answer.

निम्नलिखित प्रश्नों में, दो कथन तथा उनके दो निष्कर्ष I, II का दिया गया है आपको दोनों कथनों पर विचार करना होगा, भले ही वे आमतौर पर ज्ञात तथ्यों से भिन्न प्रतीत होने लगें। दिए गए कथनों पर विचार कीजिए।

GET IT ON Google Play Best Study PDF के लिए हमारी App को Download करें "GK Trick By Nitin Gupta"

Statements/कथन :

China faced growing international opposition for its decision to explode eight nuclear weapons in its test site.

चीन को अपने परीक्षण स्थल में आठ परमाणु हथियार विस्फोट करने के अपने निर्णय के लिए बढ़ते अंतर्राष्ट्रीय विरोध का सामना करना पड़ा।

Conclusions/निष्कर्ष :

I. The citizens of China favored the decision of our country/चीन के नागरिकों ने अपने देश के फैसले का समर्थन किया।

II. Some powerful countries do not want another country to become as powerful as they are/कुछ शक्तिशाली देश नहीं चाहते कि दूसरा देश उनके जैसा शक्तिशाली बने।

(a) Only conclusion I follows/केवल निष्कर्ष I अनुसरण करता है।
(b) Only conclusion II follows/केवल निष्कर्ष II अनुसरण करता है।
(c) Either I or II follows/यातो I या II अनुसरण करता है।
(d) Neither I nor II follow/न तो I और न ही II अनुसरण करता है।

MP Police Constable Exam- 10 Jan -2022 Shift-2

Ans. (d) : उपरोक्त कथन के अनुसार, न तो निष्कर्ष I और न ही II तार्किक रूप से अनुसरण करता है।

4. In the following question, two statements are given followed by two conclusions (I) and (II). You have to consider the statements to be true even if they seem to be at variance from commonly known facts. You are to decide which of the following conclusions, if any, follow from the given statements. Indicate your answer.

निम्नलिखित प्रश्नों में, दो कथन दिए गए है जिसका दो निष्कर्ष I, II का अनुसरण करते है आपको दोनों कथनों पर विचार करना होगा, भले ही वे आमतौर पर ज्ञात तथ्यों से भिन्न प्रतीत होते हों। आपको निम्न दिए गए कथनों के यदि निष्कर्ष हो तो उनका चयन करना है।

Statements/कथन:

Good talent is a natural gift but one has to keep practicing to be improved and increased well/अच्छी प्रतिभा एक प्राकृतिक उपहार है लेकिन बेहतर होने और अच्छी तरह से बढ़ने के लिए अभ्यास करते रहना चाहिए।

Conclusions/निष्कर्ष :

I. Natural gifts need care/प्राकृतिक उपहारों को देखभाल की जरूरत है।

II. Even though your talent is not good, one can keep practicing to improve it/भले ही आपकी प्रतिभा अच्छी नहीं है, फिर भी आप इसे सुधारने के लिए अभ्यास करते रह सकते हैं।

(a) Only conclusion I follows/केवल निष्कर्ष I अनुसरण करता है।
(b) Only conclusion II follows/केवल निष्कर्ष II अनुसरण करता है।
(c) Either I or II follows/यातो I या II अनुसरण करता है।
(d) Neither I nor II follow/न तो I और न ही II अनुसरण करता है।

MP Police Constable Exam- 10 Jan -2022 Shift-2

Ans. (a) : उपरोक्त कथन से स्पष्ट है कि केवल निष्कर्ष I कथनों का तार्किक रूप से अनुसरण करता है।

5. Which of the following is definitely false according to the given equation?

दिए गए समीकरण के अनुसार निम्नलिखित में से कौन-सा निश्चित रूप से असत्य है?

$M < H > G < L = D < A \leq Q \geq T$

(a) $Q > L$ (b) $D > G$
(c) $A \leq T$ (d) $Q > D$

MP Police Constable Exam- 10 Sep-2023 Shift-1

Ans. (c) : दिये गये समीकरण के अनुसार विकल्प (c) निश्चित रूप से असत्य है।

6. Given question has main statement followed by four statements. Choose the ordered pair of statements, where the first statement implies the second, and the two statements are logically consistent with the main statement.

The legislature is either elected or nominated

A. The legislature is elected
B. The legislature is not elected
C. The legislature nominated
D. The legislature is not nominated

दिए गए प्रश्न में मुख्य कथन और उसके बाद चार कथन हैं। कथनों का क्रमित युग्म चुनें, जहाँ पहले कथन का तात्पर्य दूसरे कथन से है, और दो कथन तार्किक रूप से मुख्य कथन से संगत हैं।

विधायिका या तो निर्वाचित या मनोनीत होती है

A. विधायिका निर्वाचित है
B. विधायिका निर्वाचित नहीं है
C. विधायिका मनोनीत है
D. विधायिका मनोनीत नहीं है

(a) AC (b) DA
(c) BD (d) AB

MP Police Constable Exam- 17 August-2023 Shift-2

Ans. (b) : कथन के अनुसार निष्कर्ष विधायिक निर्वाचित है, या विधायिका मनोनीत नही है, सही है। अतः निष्कर्ष A तथा D सही है।

7. Given question has main statement followed by four statements. Choose the ordered pair of statements, where the first statement implies the second, and the two statements are logically consistent with the main statement.

Life is either success or a failure

A. Life is a success
B. Life is a failure
C. Life is not a success
D. Life is not a failure

दिए गए प्रश्न में मुख्य कथन और उसके बाद चार कथन हैं। कथनों का क्रमित युग्म चुनें, जहाँ पहले कथन का तात्पर्य दूसरे कथन से है, और दो कथन तार्किक रूप से मुख्य कथन से संगत हैं।

जीवन या तो सफलता है या विफलता

GET IT ON Google Play Best Study PDF के लिए हमारी App को Download करें "GK Trick By Nitin Gupta"

A. जीवन एक सफलता है
B. जीवन एक विफलता है
C. जीवन एक सफलता नहीं है
D. जीवन एक विफलता नहीं है

(a) AB (b) DB
(c) CB (d) CD

MP Police Constable Exam- 12 August-2023 Shift-2

Ans. (c) : दिए गए कथन का तात्पर्य कथन (C) और कथन (B) से संबंधित है इसलिए विकल्प (c) सही उत्तर होगा।

8. Given question has main statement followed by four statements. Choose the ordered pair of statements, where the first statement implies the second, and the two statements are logically consistent with the main statement.
The girl is querulous or satisfied
A. The girl is querulous
B. The girl is not querulous
C. The girl is satisfied
D. The girl is not satisfied
दिए गए प्रश्न में मुख्य कथन और उसके बाद चार कथन हैं। कथनों का क्रमित युग्म चुनें, जहाँ पहले कथन का तात्पर्य दूसरे कथन से है, और दो कथन तार्किक रूप से मुख्य कथन से संगत हैं।
लड़की जिज्ञासु या संतुष्ट है
A. लड़की जिज्ञासु है
B. लड़की जिज्ञासु नहीं है
C. लड़की संतुष्ट है
D. लड़की संतुष्ट नहीं है

(a) AC (b) DA
(c) BD (d) AB

MP Police Constable Exam- 13 August-2023 Shift-2

Ans. (b) : प्रश्नानुसार कथन निम्नवत् है-
लड़की जिज्ञासु या संतुष्ट है। कहने का तात्पर्य है कि लड़की संतुष्ट नहीं है, क्योंकि लड़की जिज्ञासु है।

9. Given question has main statement followed by four statements. Choose the ordered pair of statements, where the first statement implies the second, and the two statements are logically consistent with the main statement.
The technology is either constructive or destructive
A. The technology is constructive
B. The technology is not constructive
C. The technology is destructive
D. The technology is not destructive
दिए गए प्रश्न में मुख्य कथन और उसके बाद चार कथन हैं। कथनों का क्रमित युग्म चुनें, जहाँ पहले कथन का तात्पर्य दूसरे कथन से है, और दो कथन तार्किक रूप से मुख्य कथन से संगत हैं।
प्रौद्योगिकी या तो रचनात्मक या विनाशकारी है
A. प्रौद्योगिकी रचनात्मक है
B. प्रौद्योगिकी रचनात्मक नहीं है
C. प्रौद्योगिकी विनाशकारी है
D. प्रौद्योगिकी विनाशकारी नहीं है

(a) AC (b) DA
(c) BD (d) AB

MP Police Constable Exam- 12 August-2023 Shift-3

Ans. (b) : दिये गये 4 कथनों में DA तथा BC दो ऐसे क्रमिक युग्म है जिसमें पहले कथन का तात्पर्य दूसरे से है तथा तार्किक रूप से मुख्य कथन से संगत भी है परन्तु कथन BC विकल्प में न होने से DA सही उत्तर है अतः विकल्प (b) सही उत्तर है।

10. Given question has main statement followed by four statements. Choose the ordered pair of statements, where the first statement implies the second, and the two statements are logically consistent with the main statement.
दिए गए प्रश्न में मुख्य कथन और उसके बाद चार कथन हैं। कथनों का क्रमित युग्म चुनें, जहाँ पहले कथन का तात्पर्य दूसरे कथन से है, और दो कथन तार्किक रूप से मुख्य कथन से संगत हैं।
Please shut the door, when you leave the room
जब आप कमरे से बाहर निकलें तो कृपया दरवाज़ा बंद कर दें
A. you left the room/आपने कमरा छोड़ा
B. you did not leave the room/आपने कमरा नहीं छोड़ा
C. you shut the door/आपने दरवाज़ा बंद किया
D. You did not shut the door/आपने दरवाज़ा बंद नहीं किया

(a) CB (b) BA
(c) DB (d) DC

MP Police Constable Exam- 17 August-2023 Shift-2

Ans. (c) : ∵ कथन के अनुसार यदि आप कमरे से बाहर जाते है तो दरवाजा बंद करना पड़ता है।
∵ जब B आप कमरा नहीं छोड़ते है तो D आप दरवाजा बंद नहीं करते है।
यदि जब A आप कमरा छोड़ते है तो C आप दरवाजा बंद करते है।
अतः विकल्प के अनुसार DB सही उत्तर होगा।

11. Given question has main statement followed by four statements. Choose the ordered pair of statements, where the first statement implies the second, and the two statements are logically consistent with the main statement.
दिए गए प्रश्न में मुख्य कथन और उसके बाद चार कथन हैं। कथनों का क्रमित युग्म चुनें, जहाँ पहले कथन का तात्पर्य दूसरे कथन से है, और दो कथन तार्किक रूप से मुख्य कथन से संगत हैं।
If you recharge phone for entire night, the battery will be affected
अगर आप पूरी रात फोन रिचार्ज करते हैं, तो बैटरी प्रभावित होगी
A. you charge phone for entire night/आप पूरी रात फोन चार्ज करते हैं
B. you did not charge phone for entire night/आपने पूरी रात फोन चार्ज नहीं किया
C. the battery got affected/बैटरी प्रभावित हुई
D. the battery did not get affected/बैटरी प्रभावित नहीं हुई

(a) AB (b) BC
(c) DA (d) DB

MP Police Constable Exam- 23 August-2023 Shift-3

GET IT ON Google Play Best Study PDF के लिए हमारी App को Download करें "GK Trick By Nitin Gupta"

Ans. (d) : मूल कथन ''यदि आप पूरी रात फोन रिचार्ज करते हैं, तो बैटरी प्रभावित होगी।'' ऐसी स्थिति उत्पन्न हो जाती है जब व्यक्ति फोन पूरी रात रिचार्ज करता है तो।
इस कथन से, यदि कथन D- ''बैटरी प्रभावित नहीं हुई'' सत्य है, तो इसका तात्पर्य यह है कि प्रारंभिक मुख्य कथन में दी गयी तार्किक स्थिति के अनुसार, परिणाम कथन B- ''आपने पूरी रात फोन चार्ज नहीं किया'' होगा। इसलिए युग्म (D, B) एक क्रमित युग्म है जहाँ चौथा कथन, दूसरे का तात्पर्य करता है और दोनों तार्किक रूप से मूल कथन के अनुरूप है।
अतः विकल्प (d) सही है।

12. Select the option, which is the logical equivalent of the statement given below:
वह विकल्प चुनिए, जो तर्क की दृष्टि से नीचे दिए गए कथन के समान है:

If the TV is on then Amit will switch off the radio.
यदि टीवी चालू है तो अमित रेडियो बंद कर देगा।

(a) If the TV is not on then Amit will not switch off the radio.
यदि टीवी चालू नहीं है तो अमित रेडियो बंद नहीं करेगा।
(b) If the TV is off then Amit will not switch off the radio.
यदि टीवी बंद है तो अमित रेडियो बंद नहीं करेगा।
(c) If Amit does not switch off the radio then TV must not be on.
यदि अमित रेडियों बंद नहीं करता तो टीवी चालू नहीं होना चाहिए।
(d) If Amit switches off the radio then the TV must be off.
यदि अमित रेडियो बंद करता है तो टीवी बंद होना चाहिए।

MP Police Constable Exam 23 July 2016 - 9:am

Ans : (c) 'यदि टीवी चालू है तो अमित रेडियो बंद कर देगा' इस वाक्य का समान अर्थ विकल्प (c) में 'यदि अमित रेडियो बंद नहीं करता है तो टीवी चालू नहीं होना चाहिए' के द्वारा प्रकट होता है।

13. Select the option, which is the logical equivalent of the statement given below:
वह विल्प चुनिए, जो तर्क की दृष्टि से नीचे दिए गए कथन के समान है?

If the train is late then I will come by taxi.
अगर ट्रेन लेट है तो मैं टैक्सी से आऊँगा।

(a) If the train is not late then I will not come by taxi.
अगर ट्रेन लेट नहीं है तो मैं टैक्सी से नहीं आऊँगा।
(b) If the train is not late then I will come by taxi.
अगर ट्रेन लेट नहीं है तो मैं टैक्सी से आऊँगा।
(c) If I come by taxi then the train must be late.
अगर मैं टैक्सी से आता हूँ तो ट्रेन जरूर लेट होगी।
(d) If I do not come by taxi then the train must not be late.
अगर मैं टैक्सी से नहीं आता हूँ तो ट्रेन लेट नहीं होगी।

MP Police Constable Exam 23 July 2016 - 9:am

Ans : (d) 'अगर ट्रेन लेट है तो मैं टैक्सी से जाऊँगा' इस वाक्य का समान अर्थ विकल्प (d) 'अगर मैं टैक्सी से नहीं आता हूँ तो ट्रेन लेट नहीं होगी' के द्वारा प्रकट होता है।

14. Select the option, which is the logical equivalent of the statement given below:
वह विकल्प चुनिए, जो तर्क की दृष्टि से नीचे दिए गए कथन के समान है:

It I like the music then I will give you a prize.
अगर मुझे संगीत पंसद आया तो मैं आपको ईनाम दूंगा।

(a) If I do not give you a prize then I have not liked the music.
अगर मैं आपको ईनाम नहीं देता हूँ तो मुझे संगीत पसंद नहीं आया।
(b) If I give you a prize then I have liked the music.
अगर मैं आपको ईनाम देता हूँ तो मुझे संगीत पंसद आया।
(c) If the music is sweet then I will like it.
अगर संगीत मधुर है तो मै उसे पंसद करूंगा।
(d) I always give prize after listening good music.
मैं हमेशा अच्छे संगीत को सुनने के बाद ही ईनाम देता हूँ।

MP Police Constable Exam 23 July 2016 - 9:am

Ans : (a) कथन 'अगर मुझे संगीत पसंद आया तो मैं आपको ईनाम दूंगा', से स्पष्ट है व्यक्ति संगीत पसंद आने पर ही ईनाम देता है अतः विकल्प (a) 'अगर मैं आपको ईनाम नहीं देता हूँ तो मुझें संगीत पसन्द नहीं आया' तार्किक दृष्टि से समान है।

15. In the following questions, two statements are given followed by two conclusions (I) and (II). You have to consider the statements to be true even if they seem to be at variance from commonly known facts. You have to decide which of the given conclusions, if any, follow from the given statements. Indicate your answer.
निम्नलिखित प्रश्न में दो कथन और उसके बाद दो निष्कर्ष (I) और (II) दिए गए हैं। आपको कथनों को सत्य मानना है, भले ही वे सामान्यतः ज्ञात तथ्यों से भिन्न प्रतीत होते हों। आपको यह तय करना है कि दिए गए निष्कर्षों में से कौन-सा, यदि कोई हो, दिए गए कथनों का पालन करता है। अपने उत्तर का चयन करें:

Statements/कथन : Many students who do not behave properly even though in the school bring bad names to themselves and also to the school./बहुत से छात्र जो स्कूल में होने के बावजूद भी ठीक से व्यवहार नहीं करते हैं, वे खुद को और स्कूल को भी बदनाम करते हैं।

Conclusions/निष्कर्ष :

I. Many students should be removed from the school./कई छात्रों को स्कूल से निकाल दिया जाना चाहिए।

II. Stricter discipline doesn't improve behavior of the students./कठोर अनुशासन छात्रों के व्यवहार में सुधार नहीं करता है।

(a) Only conclusion I follows/केवल निष्कर्ष I अनुसरण करता है
(b) Only conclusion II follows/केवल निष्कर्ष II अनुसरण करता है

GET IT ON Google Play Best Study PDF के लिए हमारी App को Download करें "GK Trick By Nitin Gupta"

(c) Either conclusion I or II follows/या तो निष्कर्ष I या II अनुसरण करता है

(d) Neither conclusion I nor II follow /न तो निष्कर्ष I और न ही II अनुसरण करता है

MP Police Constable Exam- 2 Sep-2023 Shift-2

Ans. (d) : बहुत से छात्र जो स्कूल में होने के बावजूद ठीक से व्यवहार नहीं करते है, जरूरी नहीं कि उन्हें स्कूल से निकाल दिया जाना चाहिए और वे खुद को स्कूल को बदनाम करते हैं इसके लिए जरूरी है कि उन्हें कठोर अनुशासन में रखा जाना चाहिए इससे छात्रों के व्यवहार में सुधार किया जा सकता है। इसलिए न तो निष्कर्ष I अनुसरण करता है और न ही निष्कर्ष II अनुसरण करता है।

16. Two statements are given below followed by two Conclusions I and II. You have to consider statements to be true even if they seem to be at variance from commonly known facts. You have to decide which of the given conclusions. If any, follow from the given statements Indicate your answer.

Statements:

No man is a donkey. Rahul is a man.

Conclusions:

I. Rahul is not a donkey

II. All men are not Rahul

नीचे दो कथन तथा उसके बाद दो निष्कर्ष I और II दिए गए हैं। आपको दिए गए कथनों को सत्य मानना है चाहे वह सर्वमान्य तथ्यों से भिन्न हों। आपको तय करना है कि दिए गए निष्कर्षों में से कौन-सा/कौन-से निष्कर्ष दिए गए कथनों का अनुसरण करता है/करते हैं। अपना उत्तर दर्शाइए।

कथन:

कोई आदमी गधा नहीं है। राहुल एक आदमी है।

निष्कर्ष:

I. राहुल गधा नहीं है।

II. सभी आदमी राहुल नहीं है।

(a) Only I follows/केवल I अनुसरण करता है

(b) Only II follows/केवल II अनुसरण करता है

(c) Both follow/दोनों अनुसरण करते हैं

(d) Neither I nor II follows/I या II में से कोई अनुसरण नहीं करता है।

MP Police Constable Exam- 8 Sep-2023 Shift-2

Ans. (a) : चूँकि कथन में कहा गया है कि, कोई आदमी गधा नहीं है और राहुल एक आदमी है इसलिए केवल निष्कर्ष I अनुसरण करता है।

17. In the following questions, two statements are given followed by two conclusions (I) and (II). You have to consider the statements to be true even if they seem to be at variance from commonly known facts. You have to decide which of the given conclusions, if any, follow from the given statements. Indicate your answer.

निम्नलिखित प्रश्न में दो कथन और उसके बाद दो निष्कर्ष (I) और (II) दिए गए हैं। आपको कथनों को सत्य मानना है, भले ही वे सामान्यतः ज्ञात तथ्यों से भिन्न प्रतीत होते हों। आपको यह तय करना है कि दिए गए निष्कर्षों में से कौन-सा, यदि कोई हो, दिए गए कथनों का पालन करता है। अपने उत्तर का चयन करें :

Statements/कथन :

Quality and Quantity have a price tag. India is allocating a lot of funds for education./गुणवत्ता और मात्रा का एक मूल्य टैग होता है। भारत शिक्षा के लिए बहुत अधिक धन आवंटित कर रहा है।

Conclusions/निष्कर्ष :

I. Quality and quantity of education in India will improve soon./भारत में शिक्षा की गुणवत्ता और मात्रा में जल्द ही सुधार होगा।

II. Funding alone can enhance the quality of the education system./अकेले वित्त पोषण शिक्षा प्रणाली की गुणवत्ता को बढ़ा सकता है।

(a) Only conclusion I follows/केवल निष्कर्ष I अनुसरण करता है

(b) Only conclusion II follows/केवल निष्कर्ष II अनुसरण करता है

(c) Either conclusion I or II follows/या तो निष्कर्ष I या II अनुसरण करता है

(d) Neither conclusion I nor II follows/न तो निष्कर्ष I और न ही II अनुसरण करता है

MP Police Constable Exam- 2 Sep-2023 Shift-3

Ans. (a) : कथनानुसार,

निष्कर्ष (I). भारत में शिक्षा की गुणवत्ता और मात्रा में जल्द सुधार होगा। यह निष्कर्ष सत्य है।

निष्कर्ष (II). अकेले वित्त पोषण शिक्षा प्रणाली की गुणवत्ता को बढ़ा सकता है। यह निष्कर्ष गलत है क्योंकि कथन में वित्त पोषण का उल्लेख नहीं है।

अतः केवल निष्कर्ष (I) अनुसरण करता है।

18. In the following question, two statements are given followed by two conclusions (I) and (II). You have to consider the statements to be true even if they seem to be at variance from commonly known facts. You have to decide which of the given conclusions, if any, follow from the given statements. Indicate your answer.

निम्नलिखित प्रश्न में दो कथन और उसके बाद दो निष्कर्ष (I) और (II) दिए गए हैं। आपको कथनों को सत्य मानना है, भले ही वे सामान्यतः ज्ञात तथ्यों से भिन्न प्रतीत होते हों। आपको यह तय करना है कि दिए गए निष्कर्षों में से कौन-सा, यदि कोई हो, दिए गए कथनों का पालन करता है। अपने उत्तर का चयन करें :

Statements/कथन :

The number of persons per house is 10 in urban areas whereas it is 14 in rural areas. The average is about 6./शहरी क्षेत्रों में प्रति घर व्यक्तियों की संख्या 10 है जबकि ग्रामीण क्षेत्रों में यह 14 है। औसत लगभग 6 है।

Conclusions/निष्कर्ष :

I. The population in the rural areas is higher than that of urban areas./ग्रामीण क्षेत्रों में जनसंख्या शहरी क्षेत्रों की तुलना में अधिक है।

II. Most people live in the same house in the rural areas as compared to those in the urban areas./शहरी क्षेत्रों की तुलना में अधिकांश लोग ग्रामीण क्षेत्रों में एक ही घर में रहते हैं।

GET IT ON Google Play Best Study PDF के लिए हमारी App को Download करें "GK Trick By Nitin Gupta"

(a) Only conclusion I follows/केवल निष्कर्ष I अनुसरण करता है
(b) Only conclusion II follows/केवल निष्कर्ष II अनुसरण करता है
(c) Either conclusion I or II follows/या तो निष्कर्ष I या II अनुसरण करता है
(d) Neither conclusion I nor II follows/न तो निष्कर्ष I और न ही II अनुसरण करता है

MP Police Constable Exam- 2 Sep-2023 Shift-3

Ans. (b) : कथनानुसार,
I. ग्रामीण क्षेत्रों में जनसंख्या शहरी क्षेत्रों की तुलना में अधिक है। यह सत्य नहीं है क्योंकि कथन में प्रति घर की बात कही गई है।
II. शहरी क्षेत्रों की तुलना में अधिकांश लोग ग्रामीण क्षेत्रों में एक ही घर में रहते हैं। यह निष्कर्ष कथनानुसार सत्य है।
अतः स्पष्ट है कि केवल निष्कर्ष (II) अनुसरण करता है।

19. In the following question, a statement followed by two conclusions is given. You have to select a conclusion that follows the statement.
निम्न प्रश्न में, एक कथन और उसके नीचे दो निष्कर्ष दिए गए है। आपको निष्कर्ष का चयन करना है जो कि कथन का अनुसरण करता हो।
Statement/कथन :
Death keeps no calendar./मृत्यु का कोई कैलेंडर नहीं होता है।
Conclusions/निष्कर्ष :
I. Everyone has to die one day./सभी को एक दिन मरना है।
II. Death is a remedy for all ills./मृत्यु सभी बीमारियों का इलाज है।
(a) only conclusion (I) follows/केवल निष्कर्ष I अनुसरण करता है
(b) only conclusion (II) follows/केवल निष्कर्ष II अनुसरण करता है
(c) either (I) or (II) follows/या तो I या II अनुसरण करता है
(d) neither (I) nor (II) follows/न तो I न ही II अनुसरण करता है

MP Police Constable Exam- 25 August-2023 Shift-1

Ans. (a) : दिए गए कथन के अनुसार केवल निष्कर्ष I अनुसरण करता है।

20. In each of the following questions, a statement followed by two conclusions is given. You have to select a conclusion that follows from the statement.
Statement:
The Government of India has recently announced several concessions and offered attractive package tours for foreign visitors.
Conclusions:
I. Now more number of foreign tourists will visit India.
II. The Government of India does not want to earn profit from foreign visitors.
निम्नलिखित में से प्रत्येक प्रश्न में, दो निष्कर्षों के बाद एक कथन दिया गया है। आपको कथन से अनुसरण करने वाले निष्कर्ष का चयन करना होगा।
कथनः
भारत सरकार ने हाल ही में कई रियायतें घोषित की हैं और विदेशी आगंतुकों के लिए आकर्षक पैकेज पर्यटन की पेशकश की है।
निष्कर्षः
I. अब विदेशी पर्यटकों की अधिकतर संख्या भारत आएगी।
II. भारत सरकार विदेशी आगंतुकों से लाभ कमाना नहीं चाहती है।
(a) only conclusion (I) follows/केवल निष्कर्ष (I) अनुसरण करता है
(b) only conclusion (II) follows/केवल निष्कर्ष (II) अनुसरण करता है
(c) either conclusion (I) or (II) follows/या तो निष्कर्ष (I) या (II) अनुसरण करता है
(d) neither conclusion (I) nor (II) follows/न तो निष्कर्ष (I) और न ही (II) अनुसरण करता है

MP Police Constable Exam- 17 August-2023 Shift-2

Ans. (a) : दिए गए कथन के अनुसार अब विदेशी पर्यटकों की अधिकतर संख्या भारत आयेगी सही है। अतः केवल निष्कर्ष I अनुसरण करता है।

21. In each of the following questions, a statement followed by two conclusions is given. You have to select a conclusion that follows from the statement.
Statement:
The best evidence of India's glorious past is the growing popularity of yoga in the west.
Conclusions:
I. Gym and aerobics are more popular in India.
II. Yoga is not popular in India.
निम्नलिखित में से प्रत्येक प्रश्न में, दो निष्कर्षों के बाद एक कथन दिया जाता है। आपको कथन से अनुसरण करने वाले निष्कर्ष का चयन करना होगा।
बयानः
भारत के गौरवशाली अतीत का सबसे अच्छा सबूत पश्चिम में योग की बढ़ती लोकप्रियता है।
निष्कर्षः
I. जिम और एरोबिक्स भारत में अधिक लोकप्रिय हैं।
II. योग भारत में लोकप्रिय नहीं है।
(a) only conclusion (I) follows /केवल निष्कर्ष (I) अनुसरण करता है
(b) only conclusion (II) follows/केवल निष्कर्ष (II) अनुसरण करता है
(c) either conclusion (I) or (II) follows /या तो निष्कर्ष (I) या (II) अनुसरण करता है
(d) neither conclusion (I) nor (II) follows /न तो निष्कर्ष (I) न ही (II) अनुसरण करता है

MP Police Constable Exam- 16 August-2023 Shift-3

Ans. (d) : दोनों निष्कर्षों का कथन से कोई सम्बन्ध नही है इसलिए न तो निष्कर्ष (I) न ही निष्कर्ष (II) अनुसरण करते है।

22. In the following questions, two statements are given followed by two conclusions (I) and (II). You have to consider the statements to be true even if they seem to be at variance from commonly known facts. You are to decide which of the given conclusions, if any, follow from the given statements. Indicate your answer.

GET IT ON Google Play Best Study PDF के लिए हमारी App को Download करें "GK Trick By Nitin Gupta"

निम्नलिखित प्रश्न में दो कथन और उसके बाद दो निष्कर्ष (I) और (II) दिए गए हैं। आपको कथनों को सत्य मानना है, भले ही वे सामान्यतः ज्ञात तथ्यों से भिन्न प्रतीत होते हों। आपको यह तय करना है कि दिए गए निष्कर्षों में से कौन-सा, यदि कोई हो, दिए गए कथनों का पालन करता है। अपने उत्तर का चयन करे :

Statements/कथन :

Women plays a vital role in politics./राजनीति में महिलाओं की अहम भूमिका होती है।

Conclusions/निष्कर्ष :

I. The good people can become politicians./अच्छे लोग राजनेता बन सकते है।

II. All the rich women take part in politics./सभी धनी महिलाएं राजनीति में भाग लेती हैं।

(a) Only conclusion I follows/केवल निष्कर्ष I अनुसरण करता है
(b) Only conclusion II follows/केवल निष्कर्ष II अनुसरण करता है
(c) Either conclusion I or II follows/या तो निष्कर्ष I या II अनुसरण करता है
(d) Neither conclusion I nor II follows/न तो निष्कर्ष I और न ही II अनुसरण करता है

MP Police Constable Exam- 4 Sep-2023 Shift-3

Ans. (a) : कथन है–
राजनीति में महिलाओं की अहम भूमिका होती है। इसका तात्पर्य यह नहीं है कि सभी धनी महिलाएँ राजनीति में भाग लेती है।
अतः केवल निष्कर्ष I अनुसरण करता है।

23. In a certain coded language, 'ilm pa nob' is written as 'look at stars', 'het jur pa' is written as 'stars glowing light' and 'kas ho jur' is written as 'light of sun'. How is 'glowing' written in this code language?

एक खास कोड की भाषा में, 'ilm pa nob' का कोड है 'look at stars' तथा 'het jur pa' का कोड है 'stars glowing light' और 'kas ho jur' का कोड है 'light of sun'। उसी भाषा में 'glowing' का कोड क्या होगा?

(a) pa (b) jur
(c) het (d) pa or jur

MP Police Constable Exam- 9 Sep-2023 Shift-2

Ans. (c) : दिया है-

ilm (pa) nob ⟶ look at (stars)
het [jur] (pa) ⟶ (stars) glowing [light]
kas ho [jur] ⟶ [light] of sun

उपर्युक्त से स्पष्ट है कि, glowing का कोड 'het' होगा।

24. In the following question, two statements are given followed by two conclusions (I) and (II). You have to consider the statements to be true even if they seem to be at variance from commonly known facts. You are to decide which of the given conclusions, if any, follow from the given statements. Indicate your answer.

निम्नलिखित प्रश्न में दो कथन और उसके बाद दो निष्कर्ष (I) और (II) दिए गए हैं। आपको कथनों को सत्य मानना है, भले ही वे सामान्यतः ज्ञात तथ्यों से भिन्न प्रतीत होते हों। आपको यह तय करना है कि दिए गए निष्कर्षों में से कौन-सा, यदि कोई हो, दिए गए कथनों का पालन करता है। अपने उत्तर का चयन करे :

Statements/कथन :

Style is a form of ugliness so intolerable, we have to alter it appropriate every six months./स्टाइल कुरूपता का एक रूप है जो इतना असहनीय है कि हमें हर छह महीने में इसमें बदलाव करना पड़ता है।

Conclusions/निष्कर्ष :

I. Style designers don't understand the public mind very well./स्टाइल डिजाइनर जनता के दिमाग को अच्छी तरह से नहीं समझते हैं।

II. The public is highly susceptible to novelty./जनता नवीनता के प्रति अत्यधिक संवेदनशील है।

(a) Only conclusion I follows/केवल निष्कर्ष I अनुसरण करता है
(b) Only conclusion II follows/केवल निष्कर्ष II अनुसरण करता है
(c) Either conclusion I or II follows/या तो निष्कर्ष I या II अनुसरण करता है
(d) Both conclusion I and II follow/निष्कर्ष I और II दोनों अनुसरण करते हैं

MP Police Constable Exam- 4 Sep-2023 Shift-3

Ans. (b) : दिया गया कथन है–
स्टाइल कुरुपता का एक रूप है, जो इतना असहनीय है कि हमें हर छः महीने में इसमें बदलाव करना पड़ता है, इसलिए जनता नवीनता के प्रति अति संवेदनशील है।
अतः केवल निष्कर्ष II कथन का अनुसरण करते हैं।

25. In the following question, two statements are given followed by two conclusions (I) and (II). You have to consider the statements to be true even if they seem to be at variance from commonly known facts. You are to decide which of the given conclusions, if any, follow from the given statements. Indicate your answer.

निम्नलिखित प्रश्न में दो कथन और उसके बाद दो निष्कर्ष (I) और (II) दिए गए हैं। आपको कथनों को सत्य मानना है, भले ही वे सामान्यतः ज्ञात तथ्यों से भिन्न प्रतीत होते हों। आपको यह तय करना है कि दिए गए निष्कर्षों में से कौन-सा, यदि कोई हो, दिए गए कथनों का पालन करता है। अपने उत्तर का चयन करे :

Statements/कथन :

From the next year, students will have the option of dropping Biology and Physics for their college leaving certificate examination./अगले वर्ष से, छात्रों के पास कॉलेज छोड़ने की प्रमाणपत्र परीक्षा के लिए जीव विज्ञान और भौतिकी छोड़ने का विकल्प होगा।

Conclusions/निष्कर्ष :

I. The Students who are weak in Biology and Physics will be admitted./जीव विज्ञान और भौतिकी में कमजोर छात्रों को प्रवेश दिया जाएगा।

II. Earlier students did not have the choice of continuing their education without taking Biology and Physics./पहले छात्रों के पास जीव विज्ञान और भौतिकी लिए बिना अपनी शिक्षा जारी रखने का विकल्प नहीं था।

GET IT ON Google Play Best Study PDF के लिए हमारी App को Download करें "GK Trick By Nitin Gupta"

(a) Only conclusion I follows/केवल निष्कर्ष I अनुसरण करता है
(b) Only conclusion II follows/केवल निष्कर्ष II अनुसरण करता है
(c) Either conclusion I or II follows/या तो निष्कर्ष I या II अनुसरण करता है
(d) Both conclusion I and II follow/I और निष्कर्ष II दोनों अनुसरण करते हैं

MP Police Constable Exam- 4 Sep-2023 Shift-2

Ans. (d) : कथन से स्पष्ट है, कि निष्कर्ष I और II दोनों अनुसरण करता है।
∴ निष्कर्ष I और निष्कर्ष II दोनों अनुसरण करते है।
विकल्प (d) सही है।

26. A statement is given followed by two conclusions I and II. You are to decide which of the given conclusions can be definitely drawn from the given statements.
एक कथन दिया गया है जो दो निष्कर्ष I और II का अनुसरण करता है। आपको यह तय करना है कि दिए गए कथनों में से कौन-सा निष्कर्ष निश्चित रूप से निकाला जा सकता है।
Statement/कथन:
Angola is the most expensive country./अंगोला सबसे महंगा देश है।
Conclusions/निष्कर्ष :
I. Singapore is less expensive than Angola./सिंगापुर, अंगोला से कम महंगा है।
II. Switzerland is the cheapest country./स्विटजरलैंड सबसे सस्ता देश है।
(a) only conclusion (I) follows/केवल निष्कर्ष I अनुसरण करता है।
(b) only conclusion (II) follows/केवल निष्कर्ष II अनुसरण करता है
(c) either (I) or (II) follows/या तो I या II अनुसरण करता है
(d) neither (I) nor (II) follows/न तो I न ही II अनुसरण करता है

MP Police Constable Exam- 25 August-2023 Shift-2

Ans. (a) : कथनानुसार, अंगोला सबसे महंगा देश है। विकल्प (a) उपर्युक्त कथन को संतुष्ट करता है।
अतः विकल्प (a) सही है।

27. In each of the following questions, a statement followed by two conclusions is given. You have to select a conclusion that follows from the statement.
Statement:
All that glitters is not silver.
Conclusions:
I. Only silver glitters.
II. Not all metals glitter.
निम्नलिखित में से प्रत्येक प्रश्न में, दो निष्कर्षों के बाद एक कथन दिया गया है। आपको कथन से अनुसरण करने वाले निष्कर्ष का चयन करना होगा।
कथन:
सभी चमकदार वस्तुएं, चांदी नहीं है।
निष्कर्ष:
I. केवल चांदी चमकदार हैं।
II. सभी धातुएं चमकदार नहीं है।
(a) only conclusion (I) follows/केवल निष्कर्ष (I) अनुसरण करता है
(b) only conclusion (II) follows/केवल निष्कर्ष (II) अनुसरण करता है
(c) either conclusion (I) or (II) follows/या तो निष्कर्ष (I) या (II) अनुसरण करता है
(d) neither conclusion (I) nor (II) follows/न तो निष्कर्ष (I) और न ही (II) अनुसरण करता है

MP Police Constable Exam- 17 August-2023 Shift-3

Ans. (d) : दिये गये कथन के अनुसार निष्कर्ष न तो (I) और न ही (II) अनुसरण करता है।

28. Statements:
1. Dogs do not bark on the arrival of friends of the family.
2. When A entered B's house, B's dog started barking.
Conclusion: A is B's enemy.
The conclusion drawn is:
कथन:
1. परिवार के दोस्तों के आने पर कुत्ते नहीं भौंकते।
2. जब A, B के घर में प्रवेश किया तो B का कुत्ता भौंकने लगा।
निष्कर्ष:
A, B का शत्रु है।
निकाला गया निष्कर्ष यह है:
(a) Follows from the given statements./दिए गए कथनों का अनुसरण करता है।
(b) Is probably true/शायद सच है
(c) Does not follow from the given statements. /दिए गए कथनों का अनुसरण नहीं करता है।
(d) Is probably false/संभवतः झूठ है

MP Police Constable Exam- 10 Sep-2023 Shift-2

Ans. (c) : दिए गए कथन में शत्रु होने की बात नही कही गई है इसलिए निष्कर्ष A, B का शत्रु है यह कहा नही जा सकता है।
अतः कथनों का निष्कर्ष अनुसरण नही करता है।

29. In the following questions, two statements are given followed by two conclusions (I) and (II). You have to consider the statements to be true even if they seem to be at variance from commonly known facts. You are to decide which of the given conclusions, if any, follow from the given statements. Indicate your answer.
Statements: The accident in which the person was run down by a bike yesterday had again focused attention on the most unsatisfactory state of roads.
Conclusions:
I. The accident that occurred was very dangerous.
II. Several accidents have taken place because of the unsatisfactory state of roads.

GET IT ON Google Play Best Study PDF के लिए हमारी App को Download करें "GK Trick By Nitin Gupta"

निम्नलिखित प्रश्न में दो कथन और उसके बाद दो निष्कर्ष (I) और (II) दिए गए है। आपको कथनों को सत्य मानना है, भले ही वे सामान्यतः ज्ञात तथ्यों से भिन्न प्रतीत होते हों। आपको यह तय करना है कि दिए गए निष्कर्षों में से कौन सा, यदि कोई हो, दिए गए कथनों का पालन करता है। अपने उत्तर का चयन करें:

कथन : एक दुर्घटना, जिसमें एक व्यक्ति को कल बाइक से कुचल दिया गया था, ने फिर से सड़कों की सबसे असंतोषजनक स्थिति पर ध्यान केंद्रित किया था।

निष्कर्ष :

I. जो दुर्घटना हुई वह बहुत खतरनाक थी।

II. सड़कों की खराब स्थिति के कारण कई बार दुर्घटनाएं हो चुकी हैं।

(a) Only conclusion I follows/केवल निष्कर्ष I अनुसरण करता है।
(b) Only conclusion II follows/केवल निष्कर्ष II अनुसरण करता है।
(c) Either conclusion I or II follows/या तो निष्कर्ष I या II अनुसरण करता है।
(d) Both conclusion I and II follow/निष्कर्ष I और II दोनों अनुसरण करते हैं।

MP Police Constable Exam- 1 Sep-2023 Shift-2

Ans. (d) : दिए गए कथन के अनुसार दोनों निष्कर्ष सत्य हैं।

30. In the following question, two statements are given followed by two conclusions (I) and (II). You have to consider the statements to be true even if they seem to be at variance from commonly known facts. You are to decide which of the given conclusions, if any, follow from the given statements. Indicate your answer.

निम्नलिखित प्रश्न में दो कथन और उसके बाद दो निष्कर्ष (I) और (II) दिए गए हैं। आपको कथनों को सत्य मानना है, भले ही वे सामान्यतः ज्ञात तथ्यों से भिन्न प्रतीत होते हों। आपको यह तय करना है कि दिए गए निष्कर्षों में से कौन सा, यदि कोई हो, दिए गए कथनों का पालन करता है। अपने उत्तर का चयन करें:

Statements: The best source of India's beautiful past is the growing popularity of Ayurvedic medicines in the West and South.

Conclusions:

I. Ayurvedic medicines are not popular in Asia.

II. Allopathic medicines are more popular in the world.

कथन : भारत के गौरवशाली अतीत का सबसे अच्छा स्रोत पश्चिम और दक्षिण में आयुर्वेदिक दवाओं की बढ़ती लोकप्रियता है।

निष्कर्ष :

I. आयुर्वेदिक दवाएं एशिया में लोकप्रिय नहीं हैं।

II. एलोपैथिक दवाएं दुनिया में अधिक लोकप्रिय हैं।

(a) Only conclusion I follows/केवल निष्कर्ष I अनुसरण करता है।
(b) Only conclusion II follows/केवल निष्कर्ष II अनुसरण करता है।
(c) Either conclusion I or II follows/या तो निष्कर्ष I या II अनुसरण करता है।
(d) Neither conclusion I nor II follows/न तो निष्कर्ष I और न ही II अनुसरण करता है।

MP Police Constable Exam- 1 Sep-2023 Shift-2

Ans. (d) : दिए गए कथन के अनुसार दोनों निष्कर्ष गलत हैं। अतः न तो निष्कर्ष I और न ही II अनुसरण करता है।

31. In the following question, two statements are given followed by two conclusions (I) and (II). You have to consider the statements to be true even if they seem to be at variance from commonly known facts. You are to decide which of the given conclusions, if any, follow from the given statements. Indicate your answer.

निम्नलिखित प्रश्न में दो कथन और उसके बाद दो निष्कर्ष (I) और (II) दिए गए हैं। आपको कथनों को सत्य मानना है, भले ही वे सामान्यतः ज्ञात तथ्यों से भिन्न प्रतीत होते हों। आपको यह तय करना है कि दिए गए निष्कर्षों में से कौन-सा, यदि कोई हो, दिए गए कथनों का पालन करता है। अपने उत्तर का चयन करें:

Statements/कथन :

The standard of education in government schools is much better than private schools./सरकारी स्कूलों में शिक्षा का स्तर निजी स्कूलों की तुलना में काफी बेहतर है।

Conclusions/निष्कर्ष :

I. The private school should make serious efforts to improve the standard of their schools./निजी स्कूल को अपने स्कूलों के स्तर में सुधार के लिए गंभीर प्रयास करने चाहिए।

II. All private schools should be closed immediately./सभी निजी स्कूलों को तत्काल बंद कर देना चाहिए।

(a) Only conclusion I follows/केवल निष्कर्ष I अनुसरण करता है
(b) Only conclusion II follows/केवल निष्कर्ष II अनुसरण करता है
(c) Either conclusion I or II follows/या तो निष्कर्ष I या II अनुसरण करता है
(d) Neither conclusion I nor II follows/न तो निष्कर्ष I और न ही II अनुसरण करता है

MP Police Constable Exam- 3 Sep-2023 Shift-2

Ans. (d) : दिये गए कथन के अनुसार न तो निष्कर्ष I और न ही II अनुसरण करता है। क्योंकि कथन में निजी स्कूलों के स्तर में सुधार तथा निजी स्कूलों को तत्काल बंद करने से संबंधित कोई चर्चा नहीं की गई है।

32. In the following question, two statements are given followed by two conclusions (I) and (II). You have to consider the statements to be true even if they seem to be at variance from commonly known facts. You are to decide which of the given conclusions, if any, follow from the given statements. Indicate your answer.

निम्नलिखित प्रश्न में दो कथन और उसके बाद दो निष्कर्ष (I) और (II) दिए गए हैं। आपको कथनों को सत्य मानना है, भले ही वे सामान्यतः ज्ञात तथ्यों से भिन्न प्रतीत होते हों। आपको यह तय करना है कि दिए गए निष्कर्षों में से कौन-सा, यदि कोई हो, दिए गए कथनों का पालन करता है। अपने उत्तर का चयन करे :

GET IT ON Google Play Best Study PDF के लिए हमारी App को Download करें "GK Trick By Nitin Gupta"

Statements/कथन :

Many Parents are prepared to pay any cost for a good education for their children./कई माता-पिता अपने बच्चों की अच्छी शिक्षा के लिए कोई भी कीमत चुकाने के लिए तैयार हैं।

Conclusions/निष्कर्ष :

I. Parents these days are very well off and promoted their children./माता-पिता इन दिनों बहुत अच्छे हैं और अपने बच्चों को बढ़ावा देते हैं।

II. Parents have an obsessive passion for the perfect development of their children through good schooling because their children become good people.
माता-पिता में अच्छी स्कूली शिक्षा के माध्यम से अपने बच्चों के संपूर्ण विकास के लिए जुनूनी होता है क्योंकि उनके बच्चे अच्छे इंसान बनते हैं।

(a) Only conclusion I follows/केवल निष्कर्ष I अनुसरण करता है
(b) Only conclusion II follows/केवल निष्कर्ष II अनुसरण करता है
(c) Either conclusion I or II follows/या तो निष्कर्ष I या II अनुसरण करता है
(d) Neither conclusion I nor II follows/न तो निष्कर्ष I और न ही II अनुसरण करता है

MP Police Constable Exam- 3 Sep-2023 Shift-2

Ans. (b) : दिये गए कथन के अनुसार केवल निष्कर्ष II अनुसरण करता है।

33. In the following question, two statements are given followed by two conclusions (I) and (II). You have to consider the statements to be true even if they seem to be at variance from commonly known facts. You are to decide which of the given conclusions, if any, follow from the given statements. Indicate your answer.
निम्नलिखित प्रश्न में दो कथन और उसके बाद दो निष्कर्ष (I) और (II) दिए गए हैं। आपको कथनों को सत्य मानना है, भले ही वे सामान्यतः ज्ञात तथ्यों से भिन्न प्रतीत होते हों। आपको यह तय करना है कि दिए गए निष्कर्षों में से कौन-सा, यदि कोई हो, दिए गए कथनों का पालन करता है। अपने उत्तर का चयन करें :

Statements/कथन :

The best way to finish a problems is to solve them./किसी समस्या को समाप्त करने का सबसे अच्छा तरीका उसे हल करना है।

Conclusions/निष्कर्ष :

I. Your life will be poor if you do face a big problem./यदि आप किसी बड़ी समस्या का सामना करते हैं तो आपका जीवन खराब होगा।

II. To finish the problems, you always have some solutions with you./समस्याओं को खत्म करने के लिए, आपके पास हमेशा कुछ समाधान होते हैं।

(a) Only conclusion I follows/केवल निर्ष्कर्ष I अनुसरण करता है
(b) Only conclusion II follows/केवल निष्कर्ष II अनुसरण करता है
(c) Either conclusion I or II follows/या तो निष्कर्ष I या II अनुसरण करता है
(d) Neither conclusion I nor II follows/न तो निष्कर्ष I और न ही II अनुसरण करता है

MP Police Constable Exam- 3 Sep-2023 Shift-1

Ans. (d) : एक बड़ी समस्या का सामना करने के परिणाम (खराब जीवन) को सामने लाता है, जो समस्याओं के समाधान के बारे में दिए गए कथन द्वारा प्रत्यक्ष रूप से समर्थित या निहित नहीं है यह कथन केवल समस्या का समाधान कैसे करें, इस बारे में बात करता है। न कि, समस्या का सामना करने के जीवन पर पड़ने वाले प्रभाव के बारे में जबकि, समस्याओं को समाप्त करने का सबसे अच्छा तरीका उन्हें हल करना है, न कि यह कि समाधान हमेशा आसानी से उपलब्ध होते हैं। इसलिए न तो निष्कर्ष I और न ही II अनुसरण करता है।

34. In the following questions, two statements are given followed by two conclusions (I) and (II). You have to consider the statements to be true even if they seem to be at variance from commonly known facts. You are to decide which of the given conclusions, if any, follow from the given statements. Indicate your answer.
निम्नलिखित प्रश्न में दो कथन और उसके बाद दो निष्कर्ष (I) और (II) दिए गए हैं। आपको कथनों को सत्य मानना है, भले ही वे सामान्यतः ज्ञात तथ्यों से भिन्न प्रतीत होते हों। आपको यह तय करना है कि दिए गए निष्कर्षों में से कौन-सा, यदि कोई हो, दिए गए कथनों का पालन करता है। अपने उत्तर का चयन करें :

Statements/कथन :

Although we have rating agencies like NASA WADA, there is demand to have a separate rating agency for IT and nuclear companies to protect investors./हालांकि हमारे पास नासा वाडा जैसी रेटिंग एजेंसियां हैं, लेकिन निवेशकों की सुरक्षा के लिए आईटी और परमाणु कंपनियों के लिए एक अलग रेटिंग एजेंसी की मांग है।

Conclusions/निष्कर्ष :

I. Assessment of financial worth of IT and nuclear companies calls for a separate set of skills, insight and competencies./आईटी और परमाणु कंपनियों के वित्तीय मूल्य का आकलन कौशल, अंतर्दृष्टि और दक्षताओं के एक अलग सेट की मांग करता है।

II. Now, the investors investing in IT and nuclear companies will get protection of their investment./अब आईटी और परमाणु कंपनियों में निवेश करने वाले निवेशकों को अपने निवेश की सुरक्षा मिलेगी।

(a) Only conclusion I follows/केवल निष्कर्ष I अनुसरण करता है
(b) Only conclusion II follows/केवल निष्कर्ष II अनुसरण करता है
(c) Either conclusion I or II follows/या तो निष्कर्ष I या II अनुसरण करता है
(d) Neither conclusion I nor II follows/न तो निष्कर्ष I और न ही II अनुसरण करता है

MP Police Constable Exam- 3 Sep-2023 Shift-1

GET IT ON Google Play Best Study PDF के लिए हमारी App को Download करें "GK Trick By Nitin Gupta"

Ans. (a) : हालांकि हमारे पास नासा वाडा जैसी रेटिंग एजेंसियां हैं लेकिन निवेशकों की सुरक्षा के लिए आईटी और परमाणु कंपनियों के लिए एक अलग रेटिंग एजेंसी की मांग है क्योंकि आई टी और परमाणु कंपनियों के वित्तीय मूल्य का आकलन कौशल, अंतर्दृष्टि और दक्षताओं के अलग सेट की मांग करता है।
अतः दिये गये कथन के अनुसार केवल निष्कर्ष (I) पालन करता है।

Type-2: गणितीय संक्रियाओं पर आधारित कथन और निष्कर्ष

35. In these question, relationships between different element are shown in these statement. These statement are followed by two conclusion.
प्रश्न में, कथनों में विभिन्न तत्वों के बीच सम्बन्ध दर्शाया गया है। प्रत्येक कथन के बाद दो निष्कर्ष दिए गए है।

Statement/कथन :

$K \geq L = R > J, M = P > J$

Conclusion/निष्कर्ष :

(I) $K > P$

(II) $K > M$

(a) Only conclusion I is true/केवल निष्कर्ष I सही है
(b) Only conclusion II is true/केवल निष्कर्ष II सही है
(c) Both conclusions are true/दोनों निष्कर्ष सही है
(d) None of the conclusions is true/कोई भी निष्कर्ष सही नहीं है

MP Police Constable Exam- 31 August-2023 Shift-3

Ans. (d) : कथन–
$K \geq L = R > J, M = P > J$
$K \geq L = R > J$
$K = R > J$
$K > J (P > J)$
निष्कर्ष I. $K > P$ (×)
$K \geq L = R > J, M = P > J$
$K \geq L = R > J$
$K = R > J$
$K > J (M = P > J)$
निष्कर्ष II. $K > M$ (×)
अतः विकल्प (d) कोई भी निष्कर्ष सही नहीं है।

36. In the following question, the statements are followed by conclusions. Study the conclusions based on the given statements and select the appropriate option as your answer.
निम्नलिखित प्रश्न में, कथनों के बाद निष्कर्ष दिए गए हैं। दिए गए कथनों के आधार पर निष्कर्ष का अध्ययन करें और अपने उत्तर के रूप में उपयुक्त विकल्प का चयन करें।

Statements/कथन :

$P > Q > R; Q = L$

Conclusions/निष्कर्ष :

I. $P > L$

II. $R > L$

(a) Only I follows/केवल निष्कर्ष I सत्य है
(b) Only II follows/केवल निष्कर्ष II सत्य है
(c) Neither I nor II follows/या तो निष्कर्ष I या II सत्य है
(d) Either I or II follows/न तो निष्कर्ष I और न ही II सत्य है

MP Police Constable Exam- 5 Sep -2023 Shift-1

Ans. (a) : दोनों कथनों से बना कथन निम्नवत् है-
$P > L = Q > R$
निष्कर्ष :
I. $P > L$ (✓)
II. $R > L$ (×)
अतः केवल निष्कर्ष (I) सत्य है।

37. In the following question, the statements are followed by conclusions. Study the conclusions based on the given statements and select the appropriate option as your answer.
निम्नलिखित प्रश्न में, कथनों के बाद निष्कर्ष दिए गए हैं। दिए गए कथनों के आधार पर निष्कर्ष का अध्ययन करें और अपने उत्तर के रूप में उपयुक्त विकल्प का चयन करें।

Statements/कथन :

$P > M > Q > Z > N$

Conclusions/निष्कर्ष :

I. $M \geq Z$

II. $N < P$

(a) Only Conclusion I follows/केवल निष्कर्ष I सत्य है
(b) Only Conclusion II follows/केवल निष्कर्ष II सत्य है
(c) Either Conclusion I or II follows/या तो निष्कर्ष I या II सत्य है
(d) Neither Conclusion I nor II follows/न तो निष्कर्ष I और न ही II सत्य है

MP Police Constable Exam- 5 Sep -2023 Shift-1

Ans. (b) : कथन : $P > M > Q > Z > N$
निष्कर्ष :
I. $M \geq Z$ (×)
II. $N < P$ (✓)
अतः केवल निष्कर्ष (II) सत्य है।

38. In the following question, the statements are followed by conclusions. Study the conclusions based on the given statements and select the appropriate option as your answer.
निम्नलिखित प्रश्न में, कथनों के बाद निष्कर्ष दिए गए हैं। दिए गए कथनों के आधार पर निष्कर्ष का अध्ययन करें और अपने उत्तर के रूप में उपयुक्त विकल्प का चयन करें।

Statements/कथन :

$C > D \geq A \leq B$

Conclusions/निष्कर्ष :

I. $A > C$

II. $A < C$

(a) Either I or II follows/या तो निष्कर्ष I या II सत्य है
(b) Neither I nor II follows/न तो निष्कर्ष I और न ही II सत्य है
(c) Only I follows/केवल निष्कर्ष I सत्य है
(d) Only II follows/केवल निष्कर्ष II सत्य है

MP Police Constable Exam- 5 Sep-2023 Shift-2

Ans. (d) : दिए गए कथन से–
$C > D \geq A \leq B$
निष्कर्ष :-
(i) $A > C$ – (असत्य)
(ii) $A < C$ – (सत्य)
अतः विकल्प (d) सही उत्तर होगा।

GET IT ON Google Play Best Study PDF के लिए हमारी App को Download करें "GK Trick By Nitin Gupta"

39. In the following question, the statements are followed by conclusions. Study the conclusions based on the given statements and select the appropriate option as your answer.
निम्नलिखित प्रश्न में, कथनों के बाद निष्कर्ष दिए गए हैं। दिए गए कथनों के आधार पर निष्कर्ष का अध्ययन करें और अपने उत्तर के रूप में उपयुक्त विकल्प का चयन करें।

Statements/कथन :

$X > Y \geq Z = V < W$

Conclusions/निष्कर्ष :

I. $Y = V$

II. $Y > V$

(a) Only conclusion I follows/केवल निष्कर्ष I सत्य है
(b) Only conclusion II follows/केवल निष्कर्ष II सत्य है
(c) Either conclusion I or II follows/या तो निष्कर्ष I या II सत्य है
(d) Neither conclusion I nor II follows/न तो निष्कर्ष I और न ही II सत्य है

MP Police Constable Exam- 5 Sep-2023 Shift-2

Ans. (c) : दिए गए कथन से–
$X > Y \geq Z = V < W$
निष्कर्ष :-
(i) $Y = V$ or $Y > V$
(ii) $Y > V$ or $Y = V$
उपर्युक्त से स्पष्ट है कि या तो निष्कर्ष (i) या (ii) सत्य होगा।
अतः विकल्प (c) सही उत्तर होगा।

40. The given statements are followed by two conclusions. Mark the appropriate answer.
कथनों के बाद दो निष्कर्ष दिए गए हैं। उपयुक्त उत्तर को चिह्नित करें।

Statement/कथन :

$B \leq A, B > C, D > C, E < D$

Conclusions/निष्कर्ष :

I. $A > C$

II. $B < D$

(a) Only conclusion I follows/केवल निष्कर्ष I अनुसरण करता है
(b) Only conclusion II follows/केवल निष्कर्ष II अनुसरण करता है
(c) Both conclusions I and II follow/दोनों निष्कर्ष I और II अनुसरण करते हैं
(d) Neither conclusion I nor II follows/ना तो निष्कर्ष I न II अनुसरण करता है

MP Police Constable Exam- 5 Sep-2023 Shift-2

Ans. (a) : दिया गया कथन–
$B \leq A, B > C, D > C, E < D$
निष्कर्ष (i) $A > C$ ..... (सत्य)
(ii) $B < D$ ..... (असत्य)
अतः उपर्युक्त से स्पष्ट है कि केवल निष्कर्ष (i) कथन का अनुसरण करता है।

41. In the following question, the statements are followed by conclusions. Study the conclusions based on the given statements and select the appropriate option as your answer.
निम्नलिखित प्रश्न में, कथनों के बाद निष्कर्ष दिए गए हैं। दिए गए कथनों के आधार पर निष्कर्ष का अध्ययन करें और अपने उत्तर के रूप में उपयुक्त विकल्प का चयन करें।

Statements/कथन:

$B < D < K < C$

Conclusions/निष्कर्ष:

I. $C < K$

II. $B > K$

(a) only conclusion I follows/केवल निष्कर्ष I सत्य है
(b) only conclusion II follows/ केवल निष्कर्ष II सत्य है
(c) either conclusion I or II follows/या तो निष्कर्ष I या II सत्य है
(d) neither conclusion I nor II follows/न तो निष्कर्ष I और न ही II सत्य है

MP Police Constable Exam- 6 Sep-2023 Shift-3

Ans. (d) : निष्कर्ष (I) = $C < K$
$\because K < C$
$\therefore C < K$ (असत्य)
निष्कर्ष (II) = $B > K$
$\because B < D < K$
$\therefore B > K$ (असत्य)
अतः स्पष्ट है कि न तो निष्कर्ष (I) और न ही (II) सत्य है।

42. In the following question, the statements are followed by conclusions. Study the conclusions based on the given statements and select the appropriate option as your answer.
निम्नलिखित प्रश्न में, कथनों के बाद निष्कर्ष दिए गए हैं। दिए गए कथनों के आधार पर निष्कर्ष का अध्ययन करें और अपने उत्तर के रूप में उपयुक्त विकल्प का चयन करें।

Statements/कथन:

$A = B \geq C > D = E$

Conclusions/निष्कर्ष:

I. $A \geq C$

II. $B \geq D$

(a) only conclusion I follows/केवल निष्कर्ष I सत्य है
(b) only conclusion II follows/ केवल निष्कर्ष II सत्य है
(c) either conclusion I or II follows/या तो निष्कर्ष I या II सत्य है
(d) neither conclusion I nor II follows/न तो निष्कर्ष I और न ही II सत्य है

MP Police Constable Exam- 6 Sep-2023 Shift-3

Ans. (a) : निष्कर्ष (I) = $A \geq C$
$\Rightarrow A = B$
$\because \Rightarrow B \geq C$
$\therefore A \geq C$ (सत्य)
निष्कर्ष (II) = $B \geq D$
$\because \Rightarrow B \geq D > C$
$\Rightarrow B \geq D$ (असत्य)
अतः स्पष्ट है कि केवल निष्कर्ष (I) सत्य है।

GET IT ON Google Play Best Study PDF के लिए हमारी App को Download करें "GK Trick By Nitin Gupta"

43. In these question, relationships between different element are shown in these statement. These statement are followed by two conclusion.
प्रश्न में, कथनों में विभिन्न तत्वों के बीच सम्बन्ध दर्शाया गया है। प्रत्येक कथन के बाद दो निष्कर्ष दिए गए है।

Statement/कथन :

$M > N \geq R = V, Q < V \geq O = P$

Conclusion/निष्कर्ष :

(I) $M > P$

(II) $N > O$

(a) Only conclusion I is true/केवल निष्कर्ष I सही है
(b) Only conclusion II is true/केवल निष्कर्ष II सही है
(c) Both conclusions are true/दोनों निष्कर्ष सही है
(d) None of the conclusions is true/कोई भी निष्कर्ष सही नहीं है

MP Police Constable Exam- 31 August-2023 Shift-2

Ans. (a) : कथन–

$M > N \geq R = V, Q < V \geq O = P$

निष्कर्ष :-

(I) $M > P$ (✓) [$\because M > N \geq R = V \geq O = P$]

(II) $N > O$ (×) [$\because N \geq R = V \geq O$]

अतः केवल निष्कर्ष I सही है।

44. In these question, relationships between different element are shown in these statement. These statement are followed by two conclusion.

Statement:

$R > M = N \geq K, N = P \geq L > T$

Conclusion:

(I) $R > L$

(II) $M > L$

प्रश्न में, कथनों में विभिन्न तत्वों के बीच संबंध दर्शाया गया है। प्रत्येक कथन के बाद दो निष्कर्ष दिए गए है।

कथन :

$R > M = N \geq K, N = P \geq L > T$

निष्कर्ष :

(I) $R > L$

(II) $M > L$

(a) Only conclusion I is true /केवल निष्कर्ष I सही है
(b) Only conclusion II is true /केवल निष्कर्ष II सही है
(c) Both conclusions are true /दोनों निष्कर्ष सही है
(d) None of the conclusions is true /कोई भी निष्कर्ष सही नहीं है।

MP Police Constable Exam- 1 Sep-2023 Shift-1

Ans. (a) : प्रश्नानुसार,

$R > M = N \geq K$

$= P \geq L > T$

निष्कर्ष :

(I) $R > L$ (✓)

(II) $M > L$ (×)

$\therefore$ केवल निष्कर्ष (I) सही है।

45. In the following question, the statements are followed by conclusion. Study the conclusions based on the given statements and select the appropriate option as your answer.
निम्नलिखित प्रश्न में, कथनों के बाद निष्कर्ष दिए गए हैं। दिए गए कथनों के आधार पर निष्कर्षों का अध्ययन करें और अपने उत्तर के रूप में उपयुक्त विकल्प का चयन करें।

Statements/कथन :

$Y = P, P \leq F, F \geq L, L = K$

Conclusions/निष्कर्ष :

I. $F = K$

II. $F > K$

(a) If only Conclusion I follows/केवल निष्कर्ष I सत्य है।
(b) If only Conclusion II follows/केवल निष्कर्ष II सत्य है।
(c) If either Conclusion I or II follows/या तो निष्कर्ष I या II सत्य है।
(d) If neither Conclusion I nor II follows/न तो निष्कर्ष I और न ही II सत्य है।

MP Police Constable Exam- 10 Jan -2022 Shift-2

Ans. (c) : कथनानुसार,

$L = K$

तथा $L \leq F$

$\Rightarrow F \geq L = K$

$\Rightarrow \boxed{F \geq K}$

अतः स्पष्ट है कि या तो निष्कर्ष I या II सत्य है।

46. In the following question, the statements are followed by conclusions. Study the conclusions based on the given statements and select the appropriate option as your answer.
निम्नलिखित प्रश्न में, कथनों के बाद निष्कर्ष दिए गए हैं। दिए गए कथनों के आधार पर निष्कर्षों का अध्ययन करें और अपने उत्तर के रूप में उपयुक्त विकल्प का चयन करें।

Statements/कथन :

$R = S \geq T > V$

Conclusions/निष्कर्ष :

I. $S > V$

II. $T < R$

(a) If only Conclusion I is true/केवल निष्कर्ष I सत्य है।
(b) If only Conclusion II is true/केवल निष्कर्ष II सत्य है।
(c) If either Conclusion I or II is true/या तो निष्कर्ष I या II सत्य है।
(d) If neither Conclusion I nor II is true/न तो निष्कर्ष I और न ही II सत्य है।

MP Police Constable Exam- 10 Jan -2022 Shift-2

Ans. (a) : दिया गया कथन – $R = S \geq T > V$

(I) $S > V$ (सत्य है)

(II) $T < R$ (असत्य है)

GET IT ON Google Play Best Study PDF के लिए हमारी App को Download करें "GK Trick By Nitin Gupta"

47. In the following question, the statements are followed by conclusions. Study the conclusions based on the given statements and select the appropriate option as your answer.
निम्नलिखित प्रश्न में, कथनों के बाद निष्कर्ष दिए गए हैं। दिए गए कथनों के आधार पर निष्कर्ष का अध्ययन करें और अपने उत्तर के रूप में उपयुक्त विकल्प का चयन करें।

Statements/कथन :

$I = H > C \geq S$

Conclusions/निष्कर्ष :

(a) $I > H$

(b) $C \geq S$

(a) Neither conclusion I nor conclusion II is true/न तो निष्कर्ष I और न ही निष्कर्ष II सत्य है

(b) Either conclusion I or II is true/या तो निष्कर्ष I या II सत्य है

(c) Only conclusion II is true/केवल निष्कर्ष II सत्य है

(d) Only conclusion I is true/केवल निष्कर्ष I सत्य है

MP Police Constable Exam- 26 August-2023 Shift-2

Ans. (c) : कथन : $I = H > C \geq S$

निष्कर्ष : I. $I > H$ (×) [$\because I = H$]

II. $C \geq S$ (✓) [$\because C \geq S$]

अतः केवल निष्कर्ष II सत्य है।

Type-3: विविध

48. In the following question, the statements are followed by conclusions. Study the conclusions based on the given statements and select the appropriate option as your answer.
निम्नलिखित प्रश्न में, कथनों के बाद निष्कर्ष दिए गए हैं। दिए गए कथनों के आधार पर निष्कर्ष का अध्ययन करें और अपने उत्तर के रूप में उपयुक्त विकल्प का चयन करें।

Statements/कथन :

$A > B \geq E = C; D \leq E < A$

Conclusions/निष्कर्ष :

I. $C > D$

II. $B \geq D$

(a) Only I follows/केवल निष्कर्ष I सत्य है

(b) Only II follows/केवल निष्कर्ष II सत्य है

(c) Either I or II follows/या तो निष्कर्ष I या II सत्य है

(d) Neither I nor II follows/न तो निष्कर्ष I और न ही II सत्य है

MP Police Constable Exam- 27 August-2023 Shift-1

Ans. (b) : कथन– $A > B \geq E = C; D \leq E < A$ से–

$A > B \geq E = C \geq D$

निष्कर्ष I. $C > D$ (×)

II. $B \geq D$ (✓)

अतः निष्कर्ष II सत्य है।

49. In the following question, the statements are followed by conclusions. Study the conclusions based on the given statements and select the appropriate option as your answer.
निम्नलिखित प्रश्न में, कथनों के बाद निष्कर्ष दिए गए हैं। दिए गए कथनों के आधार पर निष्कर्ष का अध्ययन करें और अपने उत्तर के रूप में उपयुक्त विकल्प का चयन करें।

Statements/कथन :

$P < I > V \geq O$

Conclusions/निष्कर्ष :

I. $I > O$

II. $O < V$

(a) Neither conclusion I nor conclusion II is true/न तो निष्कर्ष I और न ही निष्कर्ष II सत्य है

(b) Either conclusion I or II is true/या तो निष्कर्ष I या II सत्य है

(c) Only conclusion II is true/केवल निष्कर्ष II सत्य है

(d) Only conclusion I is true/केवल निष्कर्ष I सत्य है

MP Police Constable Exam- 27 August-2023 Shift-1

Ans. (d) : कथन– $P < I > V \geq O$

निष्कर्ष I. $I > O$ (✓)

II. $O < V$ (×)

अतः केवल निष्कर्ष I सत्य है।

50. In the following question, the statements are followed by conclusions. Study the conclusions based on the given statements and select the appropriate option as your answer.
निम्नलिखित प्रश्न में, कथनों के बाद निष्कर्ष दिए गए हैं। दिए गए कथनों के आधार पर निष्कर्ष का अध्ययन करें और अपने उत्तर के रूप में उपयुक्त विकल्प का चयन करें।

Statements/कथन :

$J < K \geq O = Z, K \leq Q < S$

Conclusions/निष्कर्ष :

I. $K \geq Z$

II. $K \leq O$

(a) Neither conclusion I nor conclusion II is true/न तो निष्कर्ष I और न ही निष्कर्ष II सत्य है

(b) Either conclusion I or II is true/या तो निष्कर्ष I या II सत्य है

(c) Only conclusion II is true/केवल निष्कर्ष II सत्य है

(d) Only conclusion I is true/केवल निष्कर्ष I सत्य है

MP Police Constable Exam- 26 August-2023 Shift-3

Ans. (d) : दिये गये कथन से–

$J < K \geq O = Z$

$K \leq Q < S$

निष्कर्ष :

I. $K \geq Z$ (✓)

II. $K \leq O$ (×)

अतः विकल्प (d) सही है।

51. In the following question, the statements are followed by conclusions. Study the conclusions based on the given statements and select the appropriate option as your answer.
निम्नलिखित प्रश्न में, कथनों के बाद निष्कर्ष दिए गए हैं। दिए गए कथनों के आधार पर निष्कर्ष का अध्ययन करें और अपने उत्तर के रूप में उपयुक्त विकल्प का चयन करें।

GET IT ON Google Play Best Study PDF के लिए हमारी App को Download करें "GK Trick By Nitin Gupta"

Statements/कथन :

$G < R \geq Q > S \leq I = N$

Conclusions/निष्कर्ष :

I. $R > Q$

II. $R = Q$

(a) Neither conclusion I nor conclusion II is true/न तो निष्कर्ष I और न ही निष्कर्ष II सत्य है

(b) Only conclusion II is true/केवल निष्कर्ष II सत्य है

(c) Only conclusion I is true/केवल निष्कर्ष I सत्य है

(d) Either conclusion I or II is true/या तो निष्कर्ष I या II सत्य है

MP Police Constable Exam- 27 August-2023 Shift-2

Ans. (d) : प्रश्नानुसार,

$G < R \geq Q > S \leq I = N$

निष्कर्ष:

I. $R > Q$ [$R > Q$ या $R = Q$]

II. $R = Q$ [$R > Q$ या $R = Q$]

अतः या तो निष्कर्ष I या II सत्य है।

52. Which of the following is definitely true according to the given equation ?

दिए गए समीकरण के अनुसार निम्नलिखित में से कौन-सा निश्चित रूप से सत्य है ?

$A > U \geq B > C > E \leq Q < M$

(a) $C \leq U$ (b) $E = U$

(c) $E < U$ (d) $E > Q$

MP Police Constable Exam- 27 August-2023 Shift-2

Ans. (c) : $\because A > U \geq B > C > E \leq Q < M$

उपर्युक्त के आधार पर विकल्पों की जांच करने पर–

(a) $C \leq U$ (×) [$\because C < B \leq U$]

(b) $E = U$ (×) [$\because E < C < B \leq U$]

(c) $E < U$ (✓) [$\because E < C < B \leq U$]

(d) $E > Q$ (×) [$\because E \leq Q$]

अतः विकल्प (c) निश्चित रूप से सत्य है।

53. In the following question, the statements are followed by conclusion. Study the conclusions based on the given statements and select the appropriate option as your answer.

निम्नलिखित प्रश्न में, कथनों के बाद निष्कर्ष दिए गए हैं। दिए गए कथनों के आधार पर निष्कर्ष का अध्ययन करें और अपने उत्तर के रूप में उपयुक्त विकल्प का चयन करें।

Statements/कथन :

$P \geq Q < R = M, R \geq F$

Conclusions/निष्कर्ष :

I. $M \geq P$

II. $R < P$

(a) Only conclusion I is true/केवल निष्कर्ष I सत्य है

(b) Only conclusion II is true /केवल निष्कर्ष II सत्य है

(c) Either I or II is true /या तो I या II सत्य है

(d) Neither I nor II is true /न तो I और न ही II सत्य है

MP Police Constable Exam- 8 Jan-2022 Shift-2

Ans. (d) : $M \geq P$ गलत है क्योंकि कथन में P, M से बड़ा है।

$P > R$ गलत है क्योंकि P और R के मध्य संबंध नहीं दर्शाया गया है।

अतः न तो निष्कर्ष I और न ही निष्कर्ष II सत्य है

54. In the following question, the statements are followed by conclusion. Study the conclusions based on the given statements and select the appropriate option as your answer.

निम्नलिखित प्रश्न में, कथनों के बाद निष्कर्ष दिए गए हैं। दिए गए कथनों के आधार पर निष्कर्ष का अध्ययन करें और अपने उत्तर के रूप में उपयुक्त विकल्प का चयन करें।

Statement/कथन :

$V \geq K < M = N$

Conclusions/निष्कर्ष :

I. $V \geq M$

II. $V = N$

(a) Only conclusion I is true/केवल निष्कर्ष I सत्य है

(b) Only conclusion II is true /केवल निष्कर्ष II सत्य है

(c) Either I or II is true /या तो I या II सत्य है

(d) Neither I nor II is true /न तो I और न ही II सत्य है

MP Police Constable Exam- 8 Jan-2022 Shift-2

Ans. (d) : $V \geq M$ (असत्य है)

$V = N$ (असत्य है)

निष्कर्ष I और II दोनों असत्य है।

55. In the following question, the statements are followed by conclusion. Study the conclusions based on the given statements and select the appropriate option as your answer.

निम्नलिखित प्रश्न में, कथनों के बाद निष्कर्ष दिए गए हैं। दिए गए कथनों के आधार पर निष्कर्ष का अध्ययन करें और अपने उत्तर के रूप में उपयुक्त विकल्प का चयन करें।

Statements/कथन :

$L > M > N > P$

Conclusions/निष्कर्ष :

I. $L > P$

II. $M > P$

(a) Only conclusion I is true/केवल निष्कर्ष I सत्य है

(b) Only conclusion II is true /केवल निष्कर्ष II सत्य है

(c) Either I or II is true /या तो I या II सत्य है

(d) Both I and II are true/I और II दोनों सत्य है।

MP Police Constable Exam- 8 Jan-2022 Shift-2

Ans. (d) : $L > P$ (सत्य है)

$M > P$ (सत्य है)

कथनानुसार, निष्कर्ष I और II दोनों सत्य है।

56. Which of the following is definitely false according to the given equation?

दिए गए समीकरण के अनुसार निम्नलिखित में से कौन-सा निश्चित रूप से असत्य है?

GET IT ON Google Play Best Study PDF के लिए हमारी App को Download करें "GK Trick By Nitin Gupta"

$U \geq Q > Y < P \leq A \geq S \geq L$

(a) $U > Y$ (b) $A \leq L$

(c) $Y < Q$ (d) $A > Y$

MP Police Constable Exam- 9 Sep-2023 Shift-3

Ans. (b) : प्रश्नानुसार,

$U \geq Q > Y < P \leq A \geq S \geq L$

अतः विकल्प (b) से-

$A \geq L$ (सत्य)

$A \leq L$ (असत्य)

अतः विकल्प (b) सही उत्तर होगा।

57. DIRECTIONS: The question given below have a statement followed by two conclusions I and II. Consider the statement and the following conclusions. Decide which of the conclusion follows from the statement.

निर्देश : नीचे दिए गए प्रश्न में दो निष्कर्षों का अनुसरण करते हुए एक कथन दिया गया है कथन और निष्कर्षों को सही मानते हुए निश्चत कीजिए की कौन-सा निष्कर्ष कथन का अनुसरण करता है।

Statement/कथन :

"The Government will review the present policy of the diesel price in view of further spurt in the international oil prices." - A spokesman of the Government./''सरकार अंतर्राष्ट्रीय बाजार में तेल की कीमतों में उछाल को देखते हुए डीजल की कीमतों में वर्तमान नीति के समीक्षा करेगी।''- सरकार के एक प्रवक्ता।

Conclusions/निष्कर्ष :

I. The Government will increase the price of the diesel after the imminent spurt in the international oil prices./अंतर्राष्ट्रीय बाजार में तेल की कीमतों में उछाल के तुरंत बाद सरकार डीजल की कीमत में वृद्धि करेगी।

II. The Government will not increase the price of the diesel even after the imminent spurt in the international oil prices./अंतर्राष्ट्रीय बाजार में तेल की कीमतों में उछाल के तुरंत बाद सरकार डीजल की कीमत में वृद्धि नहीं करेगी।

(a) only conclusion I follows /केवल निष्कर्ष I अनुसरण करता है

(b) only conclusion II follows /केवल निष्कर्ष II अनुसरण करता है

(c) either conclusion I or II follows /या निष्कर्ष I या II अनुसरण करता है

(d) neither conclusion I nor II follows /न तो निष्कर्ष I न ही II अनुसरण करता है

MP Police Constable Exam- 31 August-2023 Shift-3

Ans. (c) : कथनानुसार 'सरकार अंतर्राष्ट्रीय बाजार में तेल की कीमतों में उछाल को देखते हुए डीजल की कीमतों में वर्तमान नीति के समीक्षा करेगी'- सरकार के एक प्रवक्ता ने कहा सरकार डीजल की कीमत में वृद्धि करेगी या नहीं अतः या निष्कर्ष I या II अनुसरण करता है।

58. In the following question, two statements are given followed by two conclusions (I) and (II). You have to consider the statements to be true even if they seem to be at variance from commonly known facts. You have to decide which of the given conclusions, if any, follow from the given statements. Indicate your answer.

निम्नलिखित प्रश्न में दो कथन और उसके बाद दो निष्कर्ष (I) और (II) दिए गए हैं। आपको कथनों को सत्य मानना है, भले ही वे सामान्यतः ज्ञात तथ्यों से भिन्न प्रतीत होते हों। आपको यह तय करना है कि दिए गए निष्कर्षों में से कौन-सा, यदि कोई हो, दिए गए कथनों का पालन करता है। अपने उत्तर का चयन करें:

Statements/कथन : Coal is an inexhaustible source of energy and can convert it into electricity. It has been done in this field the survey shows that there is a vast potential for developing coal as an alternative source of energy./कोयला ऊर्जा का एक अटूट स्रोत है और इसे बिजली में परिवर्तित कर सकता है। इस क्षेत्र में किए गए सर्वेक्षण से पता चलता है कि कोयले को ऊर्जा के वैकल्पिक स्रोत के रूप में विकसित करने की व्यापक संभावनाएं हैं।

Conclusions/निष्कर्ष :

I. Energy by coal is a comparatively new emerging field on earth./कोयले द्वारा ऊर्जा पृथ्वी पर एक अपेक्षाकृत नया उभरता हुआ क्षेत्र है।

II. The energy crisis can be dealt with by exploring more and more in the field of aerogeneration./एरोजेनरेशन के क्षेत्र में अधिक से अधिक खोज कर ऊर्जा संकट से निपटा जा सकता है।

(a) Only conclusion I follows/केवल निष्कर्ष I अनुसरण करता है

(b) Only conclusion II follows/केवल निष्कर्ष II अनुसरण करता है

(c) Either conclusion I or II follows/या तो निष्कर्ष I या II अनुसरण करता है

(d) Both conclusion I and II follow /निष्कर्ष I और II दोनों अनुसरण करते हैं

MP Police Constable Exam- 2 Sep-2023 Shift-2

Ans. (d) : कथनानुसार निष्कर्ष I और निष्कर्ष II दोनों अनुसरण करते हैं।

59. In the following question, the statements are followed by conclusions. Study the conclusions based on the given statements and select the appropriate option as your answer.

निम्नलिखित प्रश्न में, कथनों के बाद निष्कर्ष दिए गए हैं। दिए गए कथनों के आधार पर निष्कर्ष का अध्ययन करें और अपने उत्तर के रूप में उपयुक्त विकल्प का चयन करें।

GET IT ON Google Play Best Study PDF के लिए हमारी App को Download करें "GK Trick By Nitin Gupta"

Statements/कथन :

Pasta > Mango > Sandwich > Paties > Non-Veg

Conclusions/निष्कर्ष :

I. Mango ≥ Paties

II. Non-Veg < Pasta

(a) Only Conclusion I follows
केवल निष्कर्ष I सत्य है

(b) Only Conclusion II follows
केवल निष्कर्ष II सत्य है

(c) Either Conclusion I or II follows/या तो निष्कर्ष I या II सत्य है

(d) Neither Conclusion I nor II follows/न तो निष्कर्ष I और न ही II सत्य है

MP Police Constable Exam- 26 August-2023 Shift-3

Ans. (b) : कथन :
Pasta > Mango > Sandwich > Paties > Non-Veg
निष्कर्ष :
I. Mango ≥ Paties (×) (कथन में बराबर नहीं दिया है)
II. Non-Veg < Pasta (✓) (कथन से)
अतः विकल्प (b) सही है।

60. In the following question, one statement is given followed by two conclusions I and II. You have to consider the statement to be true even if they seem to be at variance from commonly known facts. You have to decide which of the given conclusions, if any follow from the given statements.
निम्नलिखित प्रश्न में एक कथन दिए गए है, जिनके आगे दो निष्कर्ष I और II और दिए गए है। आपको विचार करना है कि कथन सत्य है चाहें वे सामान्यतः ज्ञात तथ्यों से भिन्न प्रतीत होता हो। आपको निर्णय करना है कि दिए गए निष्कर्षों में से कौन-सा निष्कर्ष, यदि कोई हो, दिए गए कथनों से निकलता है।

Statement/कथन :

Songs always have singers to sing them./गानों को गाने के लिए सदैव गायक होते हैं।

Conclusions/निष्कर्ष :

I. Singers make a song./गायक गाना बनाते हैं।

II. There is no un-sung song./ऐसा कोई गीत नहीं है जिसे गाया न गया हो।

(a) Only conclusion II follows/केवल निष्कर्ष II अनुसरण करता है

(b) Both conclusions I and II follow/निष्कर्ष I और II दोनों अनुसरण करते हैं

(c) Neither conclusion I nor II follows/न तो निष्कर्ष I और न ही II अनुसरण करता है

(d) Only conclusion I follows/केवल निष्कर्ष I अनुसरण है

MP Police Constable Exam- 24 August-2023 Shift-3

Ans. (a) : कथन "गानों को गाने के लिए सदैव गायक होते हैं।" का निष्कर्ष "ऐसा कोई गीत नहीं है जिसे गाया न गया हो।" सत्य है। अतः केवल निष्कर्ष II अनुसरण करता है।

61. In the following question, the statements are followed by conclusions. Study the conclusions based on the given statements and select the appropriate option as your answer.
निम्नलिखित प्रश्न में, कथनों के बाद निष्कर्ष दिए गए हैं। दिए गए कथनों के आधार पर निष्कर्ष का अध्ययन करें और अपने उत्तर के रूप में उपयुक्त विकल्प का चयन करें।

Statements/कथन :

Bread < Butter < Cake ≤ Emli

Conclusions/निष्कर्ष :

(a) Butter ≤ Emli

(b) Butter < Emli

(a) Only Conclusion I follows/केवल निष्कर्ष I सत्य है

(b) Only Conclusion II follows/केवल निष्कर्ष II सत्य है

(c) Either Conclusion I or II follows/या तो निष्कर्ष I या II सत्य है

(d) Neither Conclusion I nor II follows/न तो निष्कर्ष I और न ही II सत्य है

MP Police Constable Exam- 26 August-2023 Shift-2

Ans. (b) : कथन : Bread < Butter < Cake ≤ Emli
निष्कर्ष :
I. Butter ≤ Emli (×) [∵ Butter < Cake ≤ Emli]
II. Butter < Emli (✓) [∵ Butter < Cake ≤ Emli]
अतः कथन के अनुसार केवल निष्कर्ष II सत्य है।

62. In the following question, the statements are followed by conclusions. Study the conclusions based on the given statements and select the appropriate option as your answer.
निम्नलिखित प्रश्न में, कथनों के बाद निष्कर्ष दिए गए हैं। दिए गए कथनों के आधार पर निष्कर्षों का अध्ययन करें और अपने उत्तर के रूप में उपयुक्त विकल्प का चयन करें।

Statements/कथन :

Yashwant = Priya ≤ Ferry ≥ Lakhan = Karan

Conclusions/निष्कर्ष :

I. Ferry = Karan

II. Ferry > Karan

(a) If only Conclusion I follows/केवल निष्कर्ष I सत्य है।

(b) If only Conclusion II follows/केवल निष्कर्ष II सत्य है।

(c) If either Conclusion I or II follows/या तो निष्कर्ष I या II सत्य है।

(d) If neither Conclusion I nor II follows/न तो निष्कर्ष I और न ही II सत्य है।

MP Police Constable Exam- 10 Jan -2022 Shift-2

Ans. (c) : दिया गया कथन –
Yashwant = Priya ≤ Ferry ≥ Lakhan = Karan
∵ Ferry ≥ Lakhan = Karan
Ferry ≥ Karan
अतः स्पष्ट है कि या तो कथन I या II सत्य है।

GET IT ON Google Play Best Study PDF के लिए हमारी App को Download करें "GK Trick By Nitin Gupta"

भाग-14.

कथन/तर्क/वक्तव्य एवं पूर्वधारणा/ अवधारणा/ पूर्वानुमान/मान्यता/कार्यवाही (Statement and Assumption/Operations)

Type-1: कथन/तर्क/वक्तव्य तथा धारणा/ पूर्वधारणा पर आधारित प्रश्न

1. In making decisions about important questions, it is desirable to be able to distinguish between 'strong' arguments and 'weak' arguments. 'Strong' arguments are those, which are both important and directly related to the question. 'Weak' arguments are those, which are of minor importance and also may not be directly related to the question or may be related to a trivial aspect of the question. The question below is followed by two arguments numbered I and II. You have to decide which of the arguments a strong' argument is and which a 'weak' argument is

Statement:

Is the government justified in spending so much on defence?

Arguments:

I. Yes, safety of a nation is of prime importance.

II. No, during peace this money could be used for the development of the country.

महत्वपूर्ण प्रश्नों के बारे में निर्णय करने के लिए, 'सबल' और 'दुर्बल' तर्कों में फर्क करना जरूरी है। 'सबल' तर्क आवश्यक और प्रश्न से संबंधित है। 'दुर्बल' तर्क कम आवश्यक और प्रश्न से प्रत्यक्ष रूप से संबंधित हो सकते हैं या नहीं हो सकते । निम्न प्रश्न में एक कथन और उसके बाद दो तर्क I और II दिए गये हैं। आपको तय करना है कि, निम्नलिखित तर्कों में से कौन-से तर्क सबल हैं और कौन-से तर्क दुर्बल हैं।

कथन :

क्या सरकार द्वारा रक्षा पर इतना खर्च करना उचित है?

तर्क :

I. हां, राष्ट्र की सुरक्षा प्रमुख आवश्यकता है।

II. नहीं, शांति के दौरान इन पैसों को देश के विकास में उपयोग किया जा सकता है।

(a) Only argument I is strong /केवल तर्क I सबल है।

(b) Only argument II is strong /केवल तर्क II सबल है।

(c) Either argument I or II is strong /या तो तर्क I या II सबल है।

(d) Neither argument I nor II is strong /ना तो तर्क I और ना ही II सबल है।

MP Police Constable Exam- 2 Sep-2023 Shift-2

Ans. (a) : हाँ क्योंकि राष्ट्र की सुरक्षा प्रमुख आवश्यकता है और किसी भी राष्ट्र की सुरक्षा व्यवस्था उस राष्ट्र की शांति व्यवस्था को बनाए रखने और बाहरी आक्रमणकारियों को रोकने में मदद करता है। इसलिए सरकार द्वारा रक्षा पर खर्च किया जाना आवश्यक है। जबकि किसी भी देश का विकास उसकी सुरक्षा और शांति व्यवस्था पर निर्भर होता है। इसलिए केवल तर्क I प्रबल है।

2. In question below given a statement followed by two assumptions numbered I and II. An assumption is something supposed or taken for granted. You have to consider the statement and the following assumption and decide which of the assumption is implicit in the statement.

Statement:

Many people were caught by the railway police while they were trying to cross the railway tracks and imposed heavy penalty before releasing them.

Assumptions:

I. People may refrain from crossing railway tracks in future.

II. People may continue crossing railway tracks and pay hefty penalty.

नीचे दिए गए प्रश्न में पहले एक कथन है फिर उसके नीचे दो पूर्वधारणाएँ है जिनके क्रमांक I और II दिए गए है। कोई पूर्वधारणा वह बात है जिसे या तो मान लिया गया हो या वह गृहीत हो। आपको दिए गए कथन और उसके नीचे दिए गए पूर्वधारणाओं पर विचार करने के बाद तय करना हैं कि कौन-सी पूर्वधारणा कथन में अन्तर्निहीत है?

कथन:

रेल की पटरियों को पार करते हुए बहुत से लोग रेलवे पुलिस द्वारा पकड़े गए और उन्हें छोड़ने से पहले उन पर भारी जुर्माना लगाया गया।

पूर्वधारणाएँ:

I. भविष्य में लोग रेल की पटिरियों को पार करने से बचेंगे।

II. लोग रेल की पटरियों को पार करना जारी रखेंगे और भारी जुर्माना भरेंगे।

GET IT ON Google Play Best Study PDF के लिए हमारी App को Download करें "GK Trick By Nitin Gupta"

(a) only assumption I is implicit/केवल पूर्वधारणा I अंतर्निहित है

(b) only assumption II is implicit/केवल पूर्वधारणा II अंतर्निहित है

(c) either assumption I or II is implicit/या पूर्वधारणा I या II अंतर्निहित है

(d) neither assumption I nor II is implicit/न पूर्वधारणा I न II अंतर्निहित है

MP Police Constable Exam- 19 August-2023 Shift-2

Ans. (a) : कथनानुसार – रेल की पटरियों को बहुत से लोग पार करते है जो कि नियमानुसार अपराध है ऐसा कृत्य करते हुए जिन लोगों को रेलवे पुलिस पकड़ती है उन पर भारी जुर्माना लगाकर छोड़ती है जो कि यह सजा का एक नियम है जुर्माना लगने से लोग आगे से ऐसा गलत कृत्य करने से बचेंगे। उपर्युक्त से स्पष्ट है कि केवल पूर्वधारणा (I) अंतनिर्हित है। अतः विकल्प (a) सही उत्तर होगा।

3. In the given question a statement followed by two assumptions numbered I and II have been given. Consider the given statements to be true even if it seems to be at variance with commonly known facts and then decide which of the assumptions is/are implicit in the statement disregarding commonly known facts:
दिये गये प्रश्न में, एक कथन के साथ दो पूर्वधारणाऐं I तथा II दी गयी है। इन कथनों को सत्य मानकर भले ही वह सामान्यता ज्ञात तथ्यों से भिन्न क्यों ना हों। आपको यह निर्धारित करना है कि कौन-सा/सी पूर्वधारणा अन्तर्निहित है ?

Statement/कथन :

Recently, the state government compulsory the biometric attendance in all government offices.
हाल ही में, राज्य सरकार ने सभी सरकारी कार्यालयों में बायोमेट्रिक उपस्थिति अनिवार्य कर दी है।

Assumptions/पूर्वधारणा :

(I) It may be possible that some employees do not came to office on time. From this the problem be create./हो सकता है, कि कुछ कर्मचारी समय पर कार्यालय न आते हों जिससे कार्य में बाधा उत्पन्न होती हो।

(II) It may be possible that mostly employees send other persons in place of their own for work and do other work./हो सकता है, अधिकांश कर्मचारी अपने स्थान पर दूसरे को भेजकर काम करवाते हो और खुद दूसरा काम करते हों।

(a) Only assumption I is implicit/केवल पूर्वधारणा I अन्तर्निहित है

(b) Only assumption II is implicit/केवल पूर्वधारणा II अन्तर्निहित है

(c) Either assumption I or II is implicit/या तो पूर्वधारणा I या II अन्तर्निहित है

(d) Both assumptions I and II are implicit/दोनों पूर्वधारणाऐं I तथा II अन्तर्निहित है

MP Police Constable Exam- 3 Sep-2023 Shift-2

Ans. (d) : दिय गये प्रश्न में कथन के अनुसार दोनों पूर्वधारणा (I) और (II) अन्तर्निहित हैं।

4. In the question below is given a statement followed by three assumptions numbered I,II and III. An Assumption is something supposed or taken for granted. You have to consider statement and the following assumption and decide which of the assumptions is implicit in the statement.
Statement: Ankush wrote a second letters to his mother after a month as he did not receive any reply to the first letter.
Assumptions:
I. Ankush's mother did not receive the letter.
II. The letter generally reaches within a fortnight.
III. His mother promptly sends reply to his letters.
नीचे दिए गए प्रश्न में पहले एक कथन है फिर उसके नीचे तीन पूर्वधारणाएँ है जिनके क्रमांक I, II और III दिए गए है। कोई पूर्वधारणा वह बात है जिसे या तो मान लिया गया हो या वह गृहीत हो। आपको दिए गए कथन और उसके नीचे दिए गए पूर्वधारणाओं पर विचार करने के बाद तय करना है कि कौन-सी पूर्वधारणा कथन में अन्तर्निहित है?
कथनः
अंकुश ने एक महीने बाद अपनी माँ को दूसरा पत्र लिखा क्योंकि पहले पत्र का कोई उत्तर नहीं मिला।
पूर्वधारणाएँ:
I. अंकुश की माँ को पत्र नही मिला।
II. पत्र आम तौर पर दो सप्ताह के भीतर पहुँच जाता है
III. उसकी माँ तुरन्त उसके पत्र का जबाव भेजती है।

(a) only assumption I is implicit /केवल पूर्वधारणा I अन्तर्निहित है

(b) only assumption II is implicit / केवल पूर्वधारणा II अन्तर्निहित है

(c) either assumption I or II is implicit /या तो पूर्वधारणा I या II अन्तर्निहित है

(d) neither assumption I, II nor III is implicit /न तो पूर्वधारणा I, II और न ही III अन्तर्निहीत है

MP Police Constable Exam- 18 August-2023 Shift-1

Ans. (d) : कथन में न तो पूर्वाधारणा I, II या एवं न ही III अन्तर्निहित है।

5. In each question below is given a statement followed by two assumptions numbered I and II. An assumption is something supposed or taken for granted. You have to consider the statement following assumptions and decide which of the assumptions is implicit in the statement.
Statement:
The airport authority has decided to introduce two additional flights between Cities 'A' and 'B' during the vacation time.

GET IT ON Google Play Best Study PDF के लिए हमारी App को Download करें "GK Trick By Nitin Gupta"

Assumptions:

I. All the passengers who desire to travel during vacation time will get a flight ticket.

II. All other modes of transport between cities 'A' and 'B' are already overstretched.

नीचे दिए गए प्रश्न में एक कथन के नीचे दो पूर्वधारणाएँ I और II दी गई हैं। पूर्वधारणा वह है जिसे सही मान लिया जाता है। कथन और पूर्वधारणाओं पर विचार करें और तय कीजिए की कौन-सी पूर्वधारणा अंतनिर्हित है।

कथन:

हवाई अड्डा प्राधिकारी ने अवकाश के समय शहर 'A' और 'B' के बीच दो अतिरिक्त विमान आरंभ करने का निर्णय लिया है।

पूर्वधारणाएं:

I. सभी यात्री जो अवकाश के समय यात्रा करना चाहते हैं, उन्हें विमान का टिकट मिलेगा।

II. शहर 'A' और 'B' के परिवहन के बाकी सभी साधन पूरे भरे हुए हैं।

(a) only Assumption I is implicit/केवल पूर्वधारणा I अंतनिर्हित है

(b) only Assumption II is implicit/केवल पूर्वधारणा II अंतनिर्हित है

(c) either Assumption I or II is implicit /या पूर्वधारणा I या II अंतनिर्हित है

(d) neither Assumption I nor II is implicit /न पूर्वधारणा I और न ही II अंतनिर्हित है

MP Police Constable Exam- 18 August-2023 Shift-3

Ans. (d) : दिए गए कथन से पूर्वधारणाएँ I एवं II दोनों अंतर्निहित नहीं है।

6. Consider the given statement to be true and decide which of the given conclusions/ assumptions can definitely be drawn from the given statement.

दिए गए कथन को सत्य मानें और निर्णय लें कि दिए गए कथन से कौन-सा निष्कर्ष/धारणा निश्चित रूप से निकाली जा सकती है।

Statement/कथन:

To achieve economic development, people should work hard./आर्थिक विकास प्राप्त करने के लिए लोगों को कठिन परिश्रम करना चाहिए।

conclusions/निष्कर्ष:

I. Economic development is directly related to people's hard work./आर्थिक विकास लोगों के कठिन परिश्रम से सीधे संबंधित है।

II. working hard by all the people is impossible./सभी लोगों द्वारा कठिन परिश्रम करना असंभव है।

(a) Only I follows/केवल निष्कर्ष I सही है।

(b) Only II follows/केवल निष्कर्ष II सही है।

(c) Both I and II follow/दोनों निष्कर्ष I और II सही है।

(d) Neither 1 nor II follows/न तो निष्कर्ष I सही है और न ही निष्कर्ष II सही है।

MP Police Constable Exam- 24 August-2023 Shift-2

Ans. (a) : निष्कर्ष II सभी लोगों द्वारा परिश्रम करना असंभव है। यह कथन का पालन नहीं करता है क्योंकि यह कथन में नहीं कहा गया है। जबकि निष्कर्ष I आर्थिक विकास लोगों के कठिन परिश्रम से सीधे संबंधित है। यह निष्कर्ष कथन का पालन करता है।

7. Given question has main statement followed by four statements. Choose the ordered pair of statements, where the first statement implies the second, and the two statements are logically consistent with the main statement.

If the citizens group in the locality start night vigil in the area, the instances of theft will come down

A. the citizens group in the locality started night vigil in the area

B. the citizens group in the locality did not start night vigil in the area

C. the instances of theft came down

D. the instances of theft have not come down

दिए गए प्रश्न में मुख्य कथन और उसके बाद चार कथन हैं। कथनों का क्रमित युग्म चुनें, जहाँ पहले कथन का तात्पर्य दूसरे कथन से है, और दो कथन तार्किक रूप से मुख्य कथन से संगत हैं।

यदि मोहल्ले के नागरिक समूह रात में चौकसी शुरू कर दें तो चोरी की घटनाओं में कमी आएगी

A. मोहल्ले में नागरिक समूह ने क्षेत्र में रात्रि जागरण शुरू किया

B. मोहल्ले में नागरिक समूह ने क्षेत्र में रात्रि जागरण शुरू नहीं किया

C. चोरी की घटनाओं में कमी आई

D. चोरी की घटनाओं में कमी नहीं आई है

(a) AB

(b) BC

(c) DA

(d) DB

MP Police Constable Exam- 18 August-2023 Shift-2

Ans. (d) : दिया है-

कथन $\rightarrow$ यदि मोहल्ले के नागरिक समूह रात में चौकसी शुरू कर दें तो चोरी की घटनाओं में कमी आयेगी।

प्रश्नानुसार, दिए गए कथन का तार्किक रूप से विकल्प (d) का कथन संगत है।

D $\rightarrow$ चोरी की घटनाओं में कमी नही आई है।

B $\rightarrow$ मोहल्ले में नागरिक समूह ने क्षेत्र में रात्रि जागरण शुरू नही किया।

अतः विकल्प (d) सही है।

8. Given question has main statement followed by four statements. Choose the ordered pair of statements, where the first statement implies the second, and the two statements are logically consistent with the main statement.

The salary is either taxed or exempted

A. The salary is taxed

B. The salary is not taxed

C. The salary is exempted

D. The salary is not exempted

GET IT ON Google Play Best Study PDF के लिए हमारी App को Download करें "GK Trick By Nitin Gupta"

दिए गए प्रश्न में मुख्य कथन और उसके बाद चार कथन हैं। कथनों का क्रमित युग्म चुनें, जहाँ पहले कथन का तात्पर्य दूसरे कथन से है, और दो कथन तार्किक रूप से मुख्य कथन से संगत हैं।

वेतन पर या तो कर लगाया जाता है या छूट दी जाती है

A. वेतन पर कर लगता है

B. वेतन पर कर नहीं लगता है

C. वेतन में छूट दी गयी है

D. वेतन में छूट नहीं दी गयी है

(a) AC (b) DA (c) BD (d) AB

MP Police Constable Exam- 18 August-2023 Shift-2

Ans. (b) : दिया है-

कथन → वेतन पर या तो कर लगाया जाता है या छूट दी जाती है।

प्रश्नानुसार, दिए गए कथन का तार्किक रूप से विकल्प (b) का कथन संगत है।

D → वेतन में छूट नहीं दी गयी है।

B → वेतन पर कर लगता है।

अतः विकल्प (b) सही है।

9. In the question below is given a statement followed by two assumptions numbered I and II. An assumption is something supposed or taken for granted. You have to consider the statement and the following assumption and decide which of the assumption is implicit in the statement.

Statement:

Use our medicine to fight the problem of obesity.

Assumptions:

I. Other slimming medicines available in the market do not reduce weight.

II. Obesity cannot be controlled without medicines.

नीचे दिए गए प्रत्येक प्रश्न में पहले एक कथन है फिर उसके नीचे दो पूर्वधारणाएँ है जिनके क्रमांक I और II दिए गए है। कोई पूर्वधारणा वह बात है जिसे या तो मान लिया गया हो या वह गृहीत हो। आपको दिए गए कथन और उसके नीचे दिए गए पूर्वधारणाओं पर विचार करने के बाद तय करना है कि कौन-सी पूर्वधारणा कथन में अंतर्निहित है?

कथन:

मोटापे की समस्या से लड़ने के लिए हमारी दवाई का प्रयोग करें।

पूर्वधारणाएँ:

I. बाजार में उपलब्ध, पतला होने की दवाएँ वजन कम नहीं करती हैं।

II. बिना दवाओं के मोटापे पर नियंत्रण नहीं किया जा सकता।

(a) only assumption I is implicit/केवल पूर्वधारणा I अंतर्निहित है

(b) only assumption II is implicit/केवल पूर्वधारणा II अंतर्निहित है

(c) either assumption I or II is implicit/या पूर्वधारणा I या II अंतर्निहित है

(d) neither assumption I nor II is implicit/न पूर्वधारणा I न II अंतर्निहित है

MP Police Constable Exam- 18 August-2023 Shift-2

Ans. (d) : दिए गये कथन के अनुसार न पूर्वधारणा I न II अंतर्निहित है।

10. Directions: In the question below is given a statement followed by two assumptions numbered I and II. An assumption is something supposed or taken for granted. You have to consider the statement and the following assumptions and decide which of the assumptions is implicit in the statement.

Statement:

The agency is conducting random raids and drives in order to check for counterfeit items.

Assumptions:

I. There has been a sharp rise in the sale of counterfeit items.

II. The authority wants to grab counterfeiters before they even manage to start selling fake products.

निर्देश : निम्न प्रश्न में, एक कथन और उसके बाद I और II से अंकित दो धारणाएँ दी गई हैं। धारणा एक मानी गई बात होती है। आपको दिए गए कथन के आधार पर तय करना है कि .दी, गई धारणाओं में से कौन सी धारणा कथन में निहित है।

कथन :

एजेंसी नकली वस्तुओं की जाँच के लिए एकाएक छापे और ड्राइव आयोजित कर रही है।

धारणाएँ :

I. नकली वस्तुओं की बिक्री में तेज वृद्धि हुई है।

II. प्राधिकरण नकल उत्पादों की बिक्री से पहले ऐसे जालसाजों को पकड़ना चाहता है।

(a) Only assumption I is implicit /केवल धारणा I निहित है।

(b) Only assumption II is implicit /केवल धारणा II निहित है।

(c) Either assumption I or II is implicit /या तो धारणा I या फिर धारणा II निहित है।

(d) Neither assumption I nor II is implicit /न तो धारणा I और न ही धारणा II निहित है

MP Police Constable Exam- 1 Sep-2023 Shift-1

Ans. (c) : कथनानुसार, एजेंसी नकली वस्तुओं की जांच के लिए एकाएक छापे और ड्राइव आयोजित कर रही है। इसलिए नकली वस्तुओं की बिक्री में तेज वृद्धि हुई है धारणाएँ (I) सही है, एजेंसी नकल उत्पादों की बिक्री से पहले ऐसे जालसाजों को पकड़ना चाहता है। धारणाएँ कथन के अनुसार सही है।

∴ या तो धारणा (I) या फिर धारणा (II) निहित है।

11. In the given question a statement followed by two assumptions numbered I and II have been given. Consider the given statements to be true even if it seems to be at variance with commonly known facts and then decide which of the assumptions is/are implicit in the statement disregarding commonly known facts:

Statement:

In the recent state assembly elections, the one party which was also big party of the state in previous elections got lost in the recent elections.

Assumptions:

(I) It may be possible that public of the state not happy with the work of previous government.

(II) It may be possible that previous government done too scams in their tenure.

GET IT ON Google Play Best Study PDF के लिए हमारी App को Download करें "GK Trick By Nitin Gupta"

दिये गये प्रश्न में, एक कथन के साथ दो पूर्वधारणाएँ I तथा II दी गयी हैं। इन कथनों को सत्य मानकर भले ही वह सामान्यतः ज्ञात तथ्यों से भिन्न क्यों ना हों। आपको यह निर्धारित करना है कि कौन सा/सी पूर्वधारणा अन्तर्निहित है?

कथन :

हाल के राज्य सभा चुनाव में, एक पार्टी जो पिछले चुनाव में सबसे बड़ी पार्टी थी वो हाल ही के चुनाव में हार गई।

पूर्वधारणा :

(I) हो सकता है, राज्य की जनता पिछली सरकार के काम से खुश ना हो।

(II) हो सकता है, पिछली सरकार ने अपने कार्यकाल में बहुत घोटाले किये हो।

(a) Only assumption I is implicit /केवल पूर्वधारणा I अन्तर्निहित है।

(b) Only assumption II is implicit /केवल पूर्वधारणा II अन्तर्निहित है

(c) Either assumption I or II is implicit /या तो पूर्वधारणा I या II अन्तर्निहित है

(d) Both assumptions I and II are implicit /दोनों पूर्वधारणाएँ I तथा II अन्तर्निहित है।

MP Police Constable Exam- 1 Sep-2023 Shift-1

Ans. (d) : कथन से स्पष्ट है कि राज्य सभा चुनाव के एक पार्टी जो पिछले चुनाव में सबसे बड़ी पार्टी थी वो हाल के चुनाव में हार गई, क्योंकि हो सकता है, राज्य की जनता सरकार के कार्यों से खुश ना हो पूर्णधारणा (I) सही है, हो सकता है पिछली सरकार के कार्यकाल में बहुत घोटाले किये है यह पूर्वधारणा (II) हो सकता है। ∴ पूर्वधारणा (I) और (II) दोनों अन्तर्निहित है।

Type-2: कथन/तर्क/वक्तव्य तथा पूर्वानुमान/अनुमान पर आधारित प्रश्न

12. Consider the following statements and arguments numbered I and II. You have to decide which of the arguments is/are strong argument.

निम्नलिखित कथनों और तर्कों I और II पर विचार करें। आपको यह तय करना है कि कौन-सा तर्क मजबूत तर्क है/हैं।

Statement/कथन :

Should the person who incites people on the name of religion, strict action must taken on them ?/क्या जो व्यक्ति धर्म के नाम पर लोगों को भड़काते हैं उन पर सख्त कार्यवाही होनी चाहिए ?

Arguments/तर्क :

(I) Yes, because of afraid of strict action they stop to incites the people./हाँ, क्योंकि कार्यवाही के डर से ही वह लोगों को भड़काना बन्द करेंगे।

(II) No, everyone has the right to talk for their religion./नहीं, हर व्यक्ति को अपने धर्म के लिए बोलने का अधिकार है।

(a) Only argument I is strong/केवल तर्क I मजबूत है

(b) Only argument II is strong/केवल तर्क II मजबूत है

(c) Both arguments I and II are strong/दोनों तर्क I तथा II मजबूत हैं

(d) Either argument I or II is strong/या तो तर्क I या II मजबूत है

MP Police Constable Exam- 25 August-2023 Shift-3

Ans. (a) : जो व्यक्ति धर्म के नाम पर लोगों को भड़काते हैं उन पर सख्त कार्यवाही होनी चाहिए क्योंकि कार्यवाही के डर से ही वह लोगों को भड़काना बन्द करेंगें। इसलिए तर्क I मजबूत है जबकि तर्क II मजबूत नहीं है।

13. Question given below consist of a statement followed by two arguments numbered I and II. you have to decide which of the arguments is /are 'strong' .

Statement:

Should Zoo be closed down?

Argument :

I. No, Animals are kept in captivity for the sake of our entertainment.

II. Yes, imprisoning animals is a crime.

नीचे दिए गए प्रश्न में एक कथन और उसके बाद दो तर्क I और II दिए गए हैं। आपको तय करना है कि कौन-सा तर्क 'मजबूत' है/हैं।

कथनः

चिड़ियाघर बन्द हो जाना चाहिए

तर्क :

I. नही, अपने मनोरंजन के लिए जानवरों को कैद में रखा जाता है।

II. हाँ, जानवरों को कैद करना एक अपराध है।

(a) Only argument I is strong/केवल तर्क I मजबूत है

(b) Only argument II is strong/केवल तर्क II मजबूत है

(c) Neither argument I nor II is strong/न तो तर्क I न ही तर्क II मजबूत है

(d) Both argument I and II are strong/I और II दोनों तर्क मजबूत है

MP Police Constable Exam- 10 Sep-2023 Shift-1

Ans. (b) : प्रश्न में दिये कथन के लिए तर्क (II) मजबूत तर्क है। अतः, विकल्प (b) सही है।

14. Directions: In the question below are given a statement followed by two courses of action numbered I and II. A course of action is a step or administrative decision to be taken for further action in regard to the problem, policy, etc. On the basis of the information given in the statement to be true, then decide which of the suggested courses of action logically to

निर्देश : नीचे दिए गए प्रश्न में एक कथन और उसके बाद दो कार्रवाई क्रमांक I और II दी गई हैं। कार्रवाई का एक तरीका समस्या, नीति आदि के संबंध में सुधार, अनुवर्ती या आगे की कार्रवाई के लिए उठाया जाने वाला एक कदम या प्रयास, जानकारी के सत्य होने के आधार पर, यह तय करें कि इनमें से कौन-सी कार्रवाई सुझाए गए पाठ्यक्रम के लिए तार्किक रूप से अनुसरण करती हैं।

Statement/कथन:

Many students have fallen sick after consumption of the food provided by the college authorities./कॉलेज प्रशासन द्वारा उपलब्ध कराए गए भोजन को खाने से कई छात्र बीमार पड़ गए हैं।

Course of Action/कार्रवाई के दौरान:

I. The food facility of the college should be discontinued with immediate effect./ महाविद्यालय की भोजन सुविधा तत्काल प्रभाव से बंद की जाये।

GET IT ON Google Play Best Study PDF के लिए हमारी App को Download करें "GK Trick By Nitin Gupta"

II. The college authority should strictly check the quality of food provided in the canteens./कॉलेज प्राधिकरण को कैंटीन में उपलब्ध कराए जाने वाले भोजन की गुणवत्ता की सख्ती से जांच करनी चाहिए।

(a) only course of action I follows/केवल कार्यवाही I अनुसरण करती है

(b) only course of action II follows/केवल कार्यवाही II अनुसरण करती है

(c) either course of action I or II follows/या तो कार्यवाही I या II अनुसरण करती है

(d) neither course of action I nor II follows/न तो कार्यवाही I और न ही II अनुसरण करती है

MP Police Constable Exam- 28 August-2023 Shift-3

Ans. (b) : कथनानुसार कॉलेज प्रशासन द्वारा उपलब्ध कराए गए भोजन को खाने से कई छात्र बीमार पड़ गए हैं।
कार्यवाही से कॉलेज प्राधिकरण को कैंटीन में उपलब्ध कराए जाने वाले भोजन की गुणवत्ता की सख्ती से जाँच करनी चाहिए ना कि भोजन सुविधा को तत्काल प्रभाव से बंद करनी चाहिए। अतः केवल कार्यवाही II अनुसरण करती है।

15. Directions: In the question below is given a statement followed by two conclusions numbered I and II. You have to assume everything in the statement to be true, then consider the two conclusions together and decide which of them logically follow beyond a reasonable doubt from the information given in the statement.
Statement:
I: A huge crowd gathered at the JP stadium to watch the singer perform live.
II: JP stadium has a capacity of 1 lakh people.
Conclusion:
I : Not more than 1 lakh people attended the concert.
II : The singer is very popular.
निर्देश : नीचे प्रश्न में दो कथन और उसके बाद I और II से अंकित दो निष्कर्ष दिये गये हैं। आपको दिये गये कथनों को सत्य मानना है, भले ही वे ज्ञात तथ्यों से अलग प्रतीत होते हैं। निर्णय कीजिये कि दिये गये निष्कर्षों में से कौन सा/कौन से निष्कर्ष ज्ञात तथ्यों को नजरअंदाज करने पर कथनों का तार्किक रूप से अनुसरण करता है/करते हैं।
कथन :
I. जेपी स्टेडियम में गायक का लाइव प्रदर्शन देखने के लिए बड़ी संख्या में भीड़ इकट्ठी हुई।
II. जेपी स्टेडियम की क्षमता 1 लाख व्यक्तियों को समाने की है।
निष्कर्ष :
I. 1 लाख व्यक्तियों से अधिक लोग कंसर्ट में उपस्थित नहीं हुए।
II. गायक बहुत लोकप्रिय है।

(a) Only conclusion I follows/केवल निष्कर्ष I अनुसरण करता है।

(b) Only conclusion II follows/केवल निष्कर्ष II अनुसरण करता है।

(c) Both conclusion I and II follow/निष्कर्ष I और II दोनों अनुसरण करते हैं।

(d) None of the conclusions follow/कोई भी निष्कर्ष अनुसरण नहीं करता है।

MP Police Constable Exam- 1 Sep-2023 Shift-2

Ans. (b) : कथनानुसार निष्कर्ष II सत्य है।

16. In the question given below consists of a statement, followed by two arguments number I and II. You have to decide which of the arguments is a 'strong' argument.
Statement:
Should India create a huge oil reserve like some western countries to face difficult situation in future?
Argument:
(I) No, there is no need to block huge amount of foreign exchange and keep money idle.
(II) Yes, this will help India withstand shocks of sudden rise in oil prices due to unforseen circumstances.
नीचे दिए गए प्रश्न में एक कथन दिया गया है, जिसके बाद दो तर्क I और II दिए गए हैं। आपको तय करना है कि कौन-सा तर्क 'मजबूत' तर्क है।
कथन:
क्या भारत को कुछ पश्चिमी देशों की तरह विकट परिस्थितयों के लिए तेल का बहुत अधिक भण्डारण करके रखना चाहिए?
तर्क:
(I) नहीं, बड़ी मात्रा में विदेशी मुद्रा को अवरुद्ध करने और धन को निष्क्रिय रखने की कोई आवश्यकता नहीं है।
(II) हाँ, यह भारत की अचानक बढ़नें वाली तेल की कीमतों जैसी समस्याओं को कम करने में मदद करेगा।

(a) Only argument I is strong/केवल I तर्क मजबूत है

(b) Only argument II is strong/केवल II तर्क मजबूत है

(c) Neither argument I nor argument II is strong/न तो तर्क I और न ही तर्क II मजबूत है

(d) Both arguments are strong/दोनों तर्क मजबूत हैं

MP Police Constable Exam- 10 Sep-2023 Shift-2

Ans. (b) : दिए गए कथन के अनुसार केवल तर्क (II) अनुसरण करता है।

17. Question given below consist of a statement followed by two arguments numbered I and II. you have to decide which of the arguments is / are 'strong'.
Statement :
Should school education be made free in India?
Argument :
I. Yes, this is the only way to improve level of literacy.
II. No, it would add to the already heavy burden on the exchequer.
नीचे दिए गए प्रश्न में एक कथन और उसके बाद दो तर्क I और II दिए गए हैं। आपको तय करना है कि कौन-सा तर्क 'मजबूत' है/हैं।
कथन:
क्या भारत में स्कूल शिक्षा को मुफ्त कर देना चाहिए?
तर्क:
I. हाँ, यह साक्षरता बढ़ाने का एकमात्र रास्ता है।
II. नहीं, इससे राजकोष पर पहले से ही भारी बोझ और बढ़ जाएगा।

GET IT ON Google Play Best Study PDF के लिए हमारी App को Download करें "GK Trick By Nitin Gupta"

(a) Only argument I is strong/केवल तर्क I मजबूत हैं
(b) Only argument II is strong/केवल तर्क II मजबूत हैं
(c) Neither argument I nor II is strong/न तो तर्क I न ही तर्क II मजबूत है
(d) Both argument I and II are strong/I और II दोनों तर्क मजबूत है

MP Police Constable Exam- 10 Sep-2023 Shift-2

Ans. (b) : दिए गए कथन के अनुसार केवल तर्क (II) अनुसरण करता है।

18. Directions: In making decisions about important questions, it is desirable to be able to distinguish between Strong arguments and weak arguments. Strong arguments are those, which are both important and directly related to the question. Weak arguments are those, which are of minor importance and also may not be directly related to the question or may be related to a trivial aspect of the question. The question below followed by two arguments numbered I and II. You have to decide which of the arguments a strong argument is and which a Weak argument is.
निर्देश : महत्वपूर्ण प्रश्नों के बारे में निर्णय करने के लिए, 'सबल' और 'दुर्बल' तर्कों में फर्क करना जरूरी है। 'सबल' तर्क आवश्यक और प्रश्न से संबंधित है। 'दुर्बल' तर्क कम आवश्यक और प्रश्न से प्रत्यक्ष रूप से संबंधित हो सकते हैं या नहीं हो सकते। निम्न प्रश्न में एक कथन और उसके बाद दो तर्क I और II दिये गये हैं। आपको तय करना है कि, निम्नलिखित तर्कों में से कौन-से तर्क सबल हैं और कौन-से तर्क दुर्बल है।

Statement/कथन :
Should the toys made in china be banned to sell in India ?/क्या चीन में बने खिलौनों को भारत में बेचने पर प्रतिबंध लगना चाहिए ?

Arguments/तर्क :
I. Yes, the Indian toy manufacturer will be out of business./हां, भारतीय खिलौना निर्माताओं को नुकसान होगा।
II. No, Indian toys are of better quality and hence sale will not be affected./नहीं, भारतीय खिलौने बेहतर गुणवत्ता के हैं और इसलिए उनकी बिक्री प्रभावित नहीं होगी।

(a) only argument I is strong/केवल तर्क I सबल है
(b) only argument I is strong/केवल तर्क II सबल है
(c) either argument I or II is strong/या तो तर्क I या फिर तर्क II सबल है
(d) neither argument I nor II is strong/ना तो तर्क I और न ही तर्क II सबल है

MP Police Constable Exam- 29 August-2023 Shift-1

Ans. (b) : दिये गये कथन के अनुसार, तर्क II सबल होगा।

19. Select the option, which is the logical equivalent of the statement given below:
वह विकल्प चुनिए, जो तर्क की दृष्टि से नीचे दिए गए कथन के समान है:
"It is not true that both roses are red and violets are blue."
''यह सत्य नहीं है कि दोनों गुलाब लाल हैं और बनफशा नीले हैं।''

(a) Rose aren't red or violets aren't blue.
गुलाब लाल नहीं है या बनफशा नीले नहीं हैं।
(b) Roses are red and violets aren't blue.
गुलाब लाल हैं और बनफशा नीले नहीं हैं।
(c) Roses are red or voilets aren't blue
गुलाब लाल हैं या बनफशा नीले नहीं हैं।
(d) Roses aren't red and voilets aren't blue.
गुलाब लाल नहीं हैं और बनफशा नीले नहीं हैं।

MP Police Constable Exam- 26 July-2016 - 9: am

Ans : (d) प्रश्नानुसार, 'दोनों गुलाब लाल है और बनफशा नीले है' का समान अर्थ गुलाब लाल नहीं है। या बनफशा नीले नही है।

20. Given question has main statement followed by four statements. Choose the ordered pair of statements, where the first statement implies the second, and the two statements logically consistent with the main statement.
दिए गए प्रश्न में मुख्य कथन और उसके बाद चार कथन हैं। कथनों का क्रमित युग्म चुनें, जहाँ पहले कथन का तात्पर्य दूसरे कथन से है, और दो कथन तार्किक रूप से मुख्य कथन से संगत है।
If writing is good, the teacher gives good grades.
यदि लेखन अच्छा है, तो शिक्षक अच्छे ग्रेड देता है।

A. The Writing was good
लेखन अच्छा था
B. The Writing was not good
लेखन अच्छा नहीं था
C. The teacher gave good grades
शिक्षक ने अच्छे ग्रेड दिए
D. The teacher did not give good grades
शिक्षक ने अच्छे ग्रेड नहीं दिए

(a) AC (b) BC
(c) DA (d) CD

MP Police Constable Exam- 02 Feb-2022 Shift-1

Ans. (a) : उपरोक्त प्रश्न से स्पष्ट है कि कथन A का तात्पर्य कथन C से है, तथा कथन AC तार्किक रूप से मुख्य कथन से संगत है।

21. Given question has main statement followed by four statements. Choose the ordered pair of statements, where the first statement implies the second, and the two statements logically consistent with the main statement.
दिए गए प्रश्न में मुख्य कथन और उसके बाद चार कथन हैं। कथनों का क्रमित युग्म चुनें, जहाँ पहले कथन का तात्पर्य दूसरे कथन से है, और दो कथन तार्किक रूप से मुख्य कथन से संगत है।
If she gets the job, her family will come out of deprivation.
अगर उसे नौकरी मिल जाती है, तो उसका परिवार अभाव से बाहर आ जाएगा।

A. she got the job
उसे काम मिल गया
B. she did not get the job
उसे काम नहीं मिला
C. her family came out of deprivation.
उसका परिवार अभाव से बाहर आया

GET IT ON Google Play Best Study PDF के लिए हमारी App को Download करें "GK Trick By Nitin Gupta"

D. her family did come out of deprivation
उसका परिवार अभाव से बाहर निकला था

(a) BD (b) BC
(c) DA (d) DB

MP Police Constable Exam- 02 Feb-2022 Shift-1

Ans. (d) : उपरोक्त प्रश्न से स्पष्ट है कि कथन D का तात्पर्य कथन B से है, तथा कथन DB तार्किक रूप से मुख्य कथन से संगत है।

22. Given question has main statement followed by four statements. Choose the ordered pair of statements, where the first statement implies the second, and the two statements logically consistent with the main statement.
दिए गए प्रश्न में मुख्य कथन और उसके बाद चार कथन हैं। कथनों का क्रमित युग्म चुनें, जहाँ पहले कथन का तात्पर्य दूसरे कथन से है, और दो कथन तार्किक रूप से मुख्य कथन से संगत है।

You can paint the wall if you have all colors
यदि आपके पास सभी रंग हैं तो आप दीवार को पेंट कर सकते हैं

A. You can paint the wall
आप दीवार को पेंट कर सकते हैं

B. You can't paint the wall
आप दीवार को पेंट नहीं कर सकते

C. you have all colors
आपके पास सभी रंग हैं

D. you don't have all colors
आपके पास सभी रंग नहीं हैं।

(a) CA (b) BA
(c) AD (d) CD

MP Police Constable Exam- 02 Feb-2022 Shift-1

Ans. (a) : उपरोक्त प्रश्न से स्पष्ट है कि कथन C का तात्पर्य कथन A से है, तथा कथन CA तार्किक रूप से मुख्य कथन से संगत है।

23. Select the option, which is the logical equivalent of the statement given below
वह विकल्प चुनिए, जो तर्क की दृष्टि से नीचे दिए गए कथन के समान है

"It is not true that both George and Andrew are rich"
यह सत्य नहीं है कि जॉर्ज और एंड्रू दोनों ही अमीर हैं।

(a) George is not rich or Andrew is not rich
जॉर्ज अमीर नहीं है या एंड्रू अमीर नहीं है
(b) If George is not rich, Andrew is not rich
अगर जॉर्ज अमीर नहीं है, तो एंड्रू अमीर नहीं है
(c) If Andrew is not rich, George is not rich
अगर एंड्रू अमीर नहीं है, जॉर्ज अमीर नहीं है
(d) Andrew is not rich and George is not rich
एंड्रू अमीर नहीं है और जॉर्ज अमीर नहीं है।

MP Police Constable Exam 19 July 2016 - 9:am

Ans : (a) चूंकि दिए गए कथन के अनुसार– यह सत्य नहीं है कि जॉर्ज और एंड्रू दोनों ही अमीर हैं। अर्थात् जॉर्ज अमीर नहीं है या एंड्रू अमीर नहीं है।

24. Select the option, which is the logical equivalent of the statement given below:
वह विकल्प चुनिए, जो तर्क की दृष्टि से नीचे दिए गए कथन के समान है :

If you pass in English, then you will pass in maths.
अगर आप अंग्रेजी में उत्तीर्ण होते हैं, तो आप गणित में उत्तीर्ण होंगे।

(a) If you don't pass in English, then you will not pas in Maths/अगर आप अंग्रेजी में उत्तीर्ण नहीं होते हैं, तो आप गणित में उत्तीर्ण नहीं होंगे।
(b) If you pass in Maths, then you will pass in English/अगर आप गणित में उत्तीर्ण होते हैं तो आप अंग्रेजी में उत्तीर्ण होंगे।
(c) If you haven't passed in Maths, then you haven't passed in English./अगर आप गणित में उत्तीर्ण नहीं हुए, तो आप अंग्रेजी में उत्तीर्ण नहीं हुए।
(d) If you haven't passed in Maths, then you have passed in Egnlish/अगर आप गणित में उत्तीर्ण नहीं हुए, तो आप अंग्रेजी में उत्तीर्ण हुए हैं।

MP Police Constable Exam 19 July 2016 - 9:am

Ans : (c) कथन के समान तर्क विकल्प c है।
अगर आप गणित में उत्तीर्ण नहीं हुए, तो आप अंग्रेजी में उत्तीर्ण नहीं हुए।

25. Select the option, which is the logical eqivalent of the statement given below
वह विकल्प चुनिए जो तर्क की दृष्टि से नीचे दिए गए कथन के समान है

If the statement is not true, then it is false
यदि कथन सही नहीं है, तो यह गलत है।

(a) If the statement is true, then it is not false
यदि कथन सही है, तो यह गलत नहीं है
(b) If the statement is false, then it is not true
यदि कथन गलत है, तो यह सही नहीं है
(c) If the statement is not false, then it is true
यदि कथन गलत नहीं है, तो यह सही है
(d) If the statement is not true, then it is not false
यदि कथन सही नहीं है, तो यह गलत नहीं है

MP Police Constable Exam 19 July 2016 - 9:am

Ans : (c) तर्क की दृष्टि से विकल्प (c) यदि कथन गलत नहीं है, तो यह सही है – यह विकल्प दिए गए कथन के समान है।

26. Select the option, which is the logical equivalent of the statement given below:
वह विकल्प चुनिए, जो तर्क की दृष्टि से नीचे दिए गए कथन के समान है:

If you are in beach, then you can see snails.
अगर आप समुद्र के किनारे पर हैं, तो आप घोंघे देख सकते हैं।

(a) If you are not in beach, then you cannot see snails.
अगर आप समुद्र के किनारे पर नहीं हैं, तो आप घोंघे नहीं देख सकते हैं।
(b) If you cannot see snails, then you are not in a beach.
अगर आप घोंघे नही देख सकते हैं, तो आप समुद्र के किनारे पर नहीं हैं।
(c) If you can see snails, then you are in a beach.
अगर आप घोंघे देख सकते है, तो आप समुद्र के किनारे पर हैं।
(d) None of the above
उपरोक्त कोई नहीं

MP Police Constable Exam 25 July 2016 - 9:am

Ans : (b) तर्क की दृष्टि से दिये गये कथन के समान अर्थ विकल्प (c) में दिया गया कथन है।

GET IT ON Google Play Best Study PDF के लिए हमारी App को Download करें "GK Trick By Nitin Gupta"

27. Select the option, which is the logical equivalent of the statement given below:
वह विकल्प चुनिए, जो तर्क की दृष्टि से नीचे दिए गए कथन के समान है:

It is not True that both Ram and Shyam are singers.
यह सच नहीं है कि राम और श्याम दोनों ही गायक हैं।

(a) Ram is a singer and Shyam is not a singer
राम गायक है और श्याम गायक नहीं है।
(b) Ram is not a singer and Shyam is a singer
राम गायक नहीं है और श्याम गायक है।
(c) Ram is not a singer and Shyam is not singer
राम गायक नहीं है और श्याम गायक नहीं है
(d) Ram is not a singer or Shyam is not a singer
राम गायक नहीं है या श्याम गायक नहीं है।

MP Police Constable Exam 25 July 2016 - 9:am

Ans : (d) प्रश्नानुसार, दिये गये कथन से पूर्णतः यह स्पष्ट होता है, कि राम और श्याम दोनों गायक नहीं है, या तो राम गायक है या तो श्याम, कोई एक गायक है। इसलिये विकल्प d सही होगा क्योंकि विकल्प d में भी स्पष्ट है कि दोनों में से कोई एक ही गायक है।

28. Select the option, which is the logical equivalent of the statement given below:
वह विकल्प चुनिए, जो तर्क की दृष्टि से नीचे दिए गए कथन के समान है:

If you are strong, then you can win the boxing match.
यदि आप ताकतवर हैं, तो आप बॉक्सिंग मैच को जीत सकते हैं।

(a) If you are not strong, then you cannot win the boxing match.
यदि आप ताकतवर नहीं है, तो आप बॉक्सिंग मैच को नहीं जीत सकते।
(b) If you are strong, then you can win the boxing match.
यदि आप ताकतवर हैं, तो आप बॉक्सिंग मैच को जीत सकते हैं।
(c) If you cannot win the boxing match, then you are not strong.
यदि आप बॉक्सिंग मैच को नहीं जीत सकते हैं, तो आप ताकतवर नहीं हैं।
(d) If you can win the boxing match, then you are strong.
यदि आप बॉक्सिंग मैच जीत सकते हैं, तो आप ताकतवर हैं।

MP Police Constable Exam 25 July 2016 - 9:am

Ans : (c) तर्क की दृष्टि से विकल्प (c) दिये गये कथन के समान है।

29. Select the option, which is the logical equivalent of the statement given below–
वह विकल्प चुनिए, जो तर्क की दृष्टि से नीचे दिए गए कथन के समान है–

"If you work hard, then you will get a good job. If you get a good job, then you will be happy."
"अगर आप मेहनत करते हैं, तो आपको एक अच्छी नौकरी मिलेगी। अगर आपको अच्छी नौकरी मिलती है, तो आप खुश रहेंगे।"

(a) If you are work hard, then you will be happy/ अगर आप मेहनत करते हैं, तो आप खुश रहेंगे।
(b) If you are happy, then you worked hard/अगर आप खुश हैं, तो आपने मेहनत की है।
(c) If you are not happy, then you did not get a good job/अगर आप खुश नहीं हैं, तो आपको नौकरी नहीं मिली है।
(d) If you do not work hard, then you will not be happy/अगर आप मेहनत नहीं करते हैं, तो आप खुश नहीं रहेंगे।

MP Police Constable Exam 24 July 2016 - 9:am

Ans : (c) दिये गये कथन से यह भाव निकलता है कि अगर आप खुश नहीं है, तो आपको नौकरी नहीं मिली है।

30. A farmer grows 3 crops in rotation–Rice, wheat and Jowar. Rice is grown between the months June-Nov, wheat between Feb-July and Jowar between Oct-March. Each crop takes 3 months from sowing to harvesting. At a time only one crop can be grown.
एक किसान नियमित आवर्तन में 3 फसलें उगाता है– चावल, गेहूँ ज्वार। चावल जून-नवंबर महीने के बीच, फरवरी और जुलाई के बीच गेहूँ और अक्टूबर-मार्च के बीच ज्वार उगाई जाती है। प्रत्येक फसल में बुवाई से कटाई के लिए 3 महीने लगते हैं। एक समय में केवल एक फसल उगाई जा सकती है।

If the farmer wants to harvest Jowar in the month of December when is the latest he can sow Rice?
यदि किसान दिसंबर के महीने में ज्वार की फसल उगाना चाहता है, तो वह नवीनतम किस महीने में चावल बो सकता है?

(a) April/अप्रैल (b) May/मई
(c) June/जून (d) July/जुलाई

MP Police Constable Exam 24 July 2016 - 9:am

Ans : (d) चूँकि चावल को बोने का समय जून–नवम्बर है। अतः किसान नवीनतम जुलाई महीने में चावल बो सकता है।

31. Select the option, which is the logical equivalent of the statement given below:
वह विकल्प चुनिए, जो तर्क की दृष्टि से नीचे दिए गये कथन के समान है:

It is not true that both Ooty and Shimla are hill stations/ यह सत्य नहीं है कि ऊटी और शिमला दोनों ही हिल स्टेशन हैं।

(a) Ooty is a hill station and Shimla is a hill station
ऊटी हिल स्टेशन है और शिमला हिल स्टेशन है
(b) Ooty is a hill station or Shimla is a hill station
ऊटी हिल स्टेशन है या शिमला हिल स्टेशन है
(c) Ooty is not a hill station and Shimla is a hill station
ऊटी हिल स्टेशन नहीं है और शिमला हिल स्टेशन है
(d) Ooty is a hill station and Shimla is not a hill station
ऊटी हिल स्टेशन है या शिमला हिल स्टेशन नहीं है

MP Police Constable Exam 17 July 2016 - 9:am

Ans : (b) तर्क की दृष्टि से विकल्प (b) में दिया गया कथन 'ऊटी हिल स्टेशन है या शिमला हिल स्टेशन है।' प्रश्न में दिये गये कथन के समान है।

GET IT ON Google Play Best Study PDF के लिए हमारी App को Download करें "GK Trick By Nitin Gupta"

32. Select the option, which is the logical equlvalent of the statement given below:
वह विकल्प चुनिए, जो तर्क की दृष्टि से नीचे दिए गए कथन के समान है:

If today is Saturay, then tomorrow is Sunday.
अगर आज शनिवार है, तो कल रविवार है।

(a) If today is not Saturday then tomorrow is not Sunday
अगर आज शनिवार नहीं है, तो कल रविवार नहीं है
(b) If today is Saturday, then tomorrow is not Sunday
अगर आज शनिवार है, तो कल रविवार नही है
(c) If tomorrow is Sunday, then today is Saturday
अगर कल रविवार है, तो आज शनिवार है
(d) If tomorrow is not Sunday, then today is not Saturday
अगर कल रविवार नहीं है, तो आज शनिवार नहीं है

MP Police Constable Exam 17 July 2016 - 9:am

Ans : (d) तर्क की दृष्टि से विकल्प (d) का कथन 'अगर कल रविवार नहीं है, तो आज शनिवार नहीं है।' प्रश्न में दिये गये कथन के समान है।

33. Select the option, which is the logical equivalent of the statement given below:
वह विकल्प चुनिए, जो तर्क की दृष्टि से नीचे दिए गए कथन के समान है:

It is not true that both horses and zebras have stripes.
यह सत्य नहीं है कि दोनों घोड़े और जेबरा के धारियां होती हैं।

(a) Horses have stripes and Zebras have stripes.
घोड़ों के धारियां होती हैं और जेबरा के धारियां होती हैं
(b) Horses have stripes or zebras have stripes.
घोड़ों के धारियां होती हैं या जेबरा के धारियां होती हैं।
(c) Horses and Zebras do not have stripes.
घोंड़ों और जेबरा दोनों के धारियां नहीं होती हैं।
(d) None of the above/उपरोक्त कोई नहीं

MP Police Constable Exam 17 July 2016 - 12:am

Ans. (b) 'यह सत्य नहीं है कि दोनों घोड़े और जेबरा के धारियाँ होती है' का समान अर्थ विकल्प (b) 'घोड़ों के धारियाँ होती है या जेबरा के धारियाँ होती है' के द्वारा प्रकट होता है।

34. Select the option, which is the logical equivalent of the statement given below:
वह विकल्प चुनिए, जो तर्क की दृष्टि से नीचे दिए गए कथन के समान है:

It is not true that both Ram and Shyam are champions.
यह सत्य नहीं है कि दोनों राम और श्याम विजेता हैं।

(a) Ram is a champion or Shyam is a champion.
राम एक विजेता है या श्याम एक विजेता है।
(b) Ram is not a champion or Shyam is a champion.
राम एक विजेता नहीं है या श्याम एक विजेता है।
(c) Ram is a champion and Shyam is a champion.
राम एक विजेता है और श्याम एक विजेता है
(d) None of the above/उपरोक्त कोई नहीं

MP Police Constable Exam 17 July 2016 - 12:am

Ans. (a) 'यह सत्य नहीं है कि दोनों राम और श्याम विजेता है।' इस वाक्य का समान अर्थ विकल्प (a) राम एक विजेता है या श्याम एक विजेता है, के द्वारा प्रकट होता है।

35. Select the option, which is the logical equivalent of the statement given below–
वह विकल्प चुनिए, जो तर्क की दृष्टि से नीचे दिए गए कथन के समान है–

It is not True that both Kamal and Vimal are athletes.
यह सच नहीं है कि कमल और विमल दोनों ही कसरती हैं।

(a) Kamal is an athlete or Vimal is an athlete
कमल कसरती है या विमल कसरती है
(b) Kamal is an athlete and Vimal is an athlete
कमल कसरती है और विमल कसरती है
(c) Kamal is an athlete and Vimal is not an athlete/कमल कसरती है और विमल कसरती नहीं है
(d) None of the above/उपरोक्त कोई नहीं

MP Police Constable Exam 24 July 2016 - 9:am

Ans : (a) यह सच नहीं है कि कमल और विमल दोनों ही कसरती हैं। इस वाक्य का समान अर्थ विकल्प (a) कमल कसरती है या विमल कसरती है, के द्वारा प्रकट होता है।

36. Below a question is given with two statements (I) and (II). These statements may be either independent causes or may be effects of independent causes or a common cause. One of these statements may be the effect of the other statement. Read both the statements and decide which of the following answer choice correctly depicts the relationship between these two statements.
नीचे दिए गए प्रत्येक प्रश्न में दो कथन (I) और (II) दिये गये हैं। ये कथन या तो स्वतंत्र कारण या स्वतंत्र का प्रभाव या समान्य कारण हो सकते हैं। इनमें से एक कथन दूसरे कथन का प्रभाव हो सकता है। दोनों कथनों को पढ़िए और निर्णय कीजिए कि निम्नलिखित में से कौन-सा विकल्प सही तरीके से कथनों के बीच संबंध को दर्शाता है।

I. The police has started deploying some officers to patrol the streets in the evening./शाम में सड़कों पर गश्त लाने के लिए पुलिस ने कुछ अधिकारियों की तैनाती शुरू कर दी है।
II. There has been reduction in the number of petty thefts in the area./इलाके में छोटी चोरी की संख्या में कमी आई है।

(a) Statement (I) is the cause and statement (II) is the effect/कथन (I) कारण है और कथन (II) प्रभाव है
(b) Statement (II) is the cause and statement (I) is the effect/कथन (II) कारण है और कथन (I) प्रभाव है
(c) Both the statements (I) and (II) are independent causes/कथन (I) और कथन (II) दोनों स्वतंत्र कारण है
(d) Both the statements (I) and (II) are effects of independent causes/कथन (I) और कथन (II) दोनों स्वतंत्र कारणों के प्रभाव हैं

MP Police Constable Exam- 29 August-2023 Shift-2

Ans. (a) : दिये गये कथन अनुसार कथन (I) कारण है और कथन (II) प्रभाव है।

GET IT ON Google Play Best Study PDF के लिए हमारी App को Download करें "GK Trick By Nitin Gupta"

37. The given question has a main statement followed by four statements. Choose the ordered pair of statements, where the first statement implies the second, and the two statements are logically consistent with the main statement.

The fish is either in the aquarium or in the pond

A. The fish is in the aquarium

B. The fish is not in the aquarium

C. The fish is in the pond

D. The fish is not in the pond

दिए गए प्रश्न में मुख्य कथन और उसके बाद चार कथन हैं। कथनों का क्रमित युग्म चुनें, जहाँ पहले कथन का तात्पर्य दूसरे कथन से है, और दो कथन तार्किक रूप से मुख्य कथन से संगत हैं।

मछली या तो एक्वेरियम में है या तालाब में

A. मछली एक्वेरियम में है

B. मछली एक्वेरियम में नहीं है

C. मछली तालाब में है

D. मछली तालाब में नहीं है

(a) AC (b) DA
(c) BD (d) AB

MP Police Constable Exam- 13 August-2023 Shift-1

Ans. (b) : प्रश्नानुसार, दिए गये कथन – मछली या तो एक्वेरियम में या तालाब में है।
विकल्प (b) DA तार्किक रूप से संगत है।
(D) – मछली तालाब में नही है, क्योंकि
(A) – मछली एक्वेरियम में है।

38. Given question has main statement followed by four statements. Choose the ordered pair of statements, where the first statement implies the second, and the two statements are logically consistent with the main statement.

The expenses will be reimbursed by either the government or the agency

A. The expenses were reimbursed by the government

B. The expenses were not reimbursed by the government

C. The expenses were reimbursed by the agency

D. The expenses were not reimbursed by the agency

दिए गए प्रश्न में मुख्य कथन और उसके बाद चार कथन हैं। कथनों का क्रमित युग्म चुनें, जहाँ पहले कथन का तात्पर्य दूसरे कथन से है, और दो कथन तार्किक रूप से मुख्य कथन से संगत हैं।

खर्चों की प्रतिपूर्ति सरकार या एजेंसी द्वारा की जाएगी

A. सरकार द्वारा खर्च की प्रतिपूर्ति की गई

B. सरकार द्वारा खर्च की प्रतिपूर्ति नहीं की गई थी

C. खर्च की प्रतिपूर्ति एजेंसी द्वारा की गई थी

D. एजेंसी द्वारा खर्च की प्रतिपूर्ति नहीं की गई

(a) AB (b) DA
(c) CA (d) BD

MP Police Constable Exam- 13 August-2023 Shift-1

Ans. (b) : प्रश्नानुसार, दिए गये कथन – खर्चों की प्रतिपूर्ति सरकार या एजेंसी द्वारा की जाएगी।
विकल्प (b) से :- DA (कथन) एक दूसरे के तात्पर्य है और तार्किक रूप से संगत है-
(D) – एंजेसी द्वारा खर्च की प्रतिपूर्ति नहीं की गई इसलिए
(A) – सरकार द्वारा खर्च की प्रतिपूर्ति की गई।

39. Given question has main statement followed by four statements. Choose the ordered pair of statements, where the first statement implies the second, and the two statements are logically consistent with the main statement.

The animals must be either in cage or in zoo

A. The animals are in cage

B. The animals are not in cage

C. The animals are in zoo

D. The animals are not in zoo

दिए गए प्रश्न में मुख्य कथन और उसके बाद चार कथन हैं। कथनों का क्रमित युग्म चुनें, जहाँ पहले कथन का तात्पर्य दूसरे कथन से है, और दो कथन तार्किक रूप से मुख्य कथन से संगत हैं।

जानवरों को या तो पिंजरे में या चिड़ियाघर में होना चाहिए

A. जानवर पिंजरे में हैं

B. जानवर पिंजरे में नहीं हैं

C. जानवर चिड़ियाघर में हैं

D. जानवर चिड़ियाघर में नहीं हैं

(a) AB (b) DA
(c) CA (d) BD

MP Police Constable Exam- 13 August-2023 Shift-1

Ans. (b) : प्रश्नानुसार, कथन – जानवरों को या तो पिंजरे में या चिड़ियाघर में होना चाहिए।
विकल्प (b) से :- DA (कथन) एक-दूसरे से तार्किक रूप से संगत है-
(D) – जानवर चिड़ियाघर में नहीं है इसलिए
(A) – जानवर पिंजरे में हैं।

40. In the following questions, two statements are given followed by two conclusions (I) and (II). You have to consider the statements to be true even if they seem to be at variance from commonly known facts and then decide which of the given conclusions, if any, follow from the given statements. Indicate your answer.

निम्नलिखित प्रश्नों में, दो कथन दो निष्कर्ष I, II का अनुसरण करते हैं आपको दोनों कथनों पर विचार करना होगा, भले ही वे आमतौर पर ज्ञात तथ्यों से प्रतीत होते हों, यह तय करें कि दिए गए कथनों से कौन सा निष्कर्ष यदि कोई हो, निकलेगा।

Statement : Small age school going children in urban India have now become avid as well as more regular viewers of TV, even in households without a TV. As a result, there newspapers.

कथन : शहरी भारत में छोटे उम्र के स्कूल जाने वाले बच्चे अब टीवी के शौकीन होने के साथ-साथ टीवी के अधिक नियमित दर्शन बन गए हैं, यहाँ तक कि टीवी वाले घरों में भी। नतीजतन, समाचार पत्रों के पाठकों की संख्या में

GET IT ON Google Play Best Study PDF के लिए हमारी App को Download करें "GK Trick By Nitin Gupta"

Conclusions/निष्कर्ष :

I. Method of increasing the readership of newspapers should be impacted./समाचार पत्रों की पाठक संख्या बढ़ाने के तरीके को प्रभावित किया जाना चाहिए।

II. The team of experts should be sent to another country to study the impact of TV on the readership of newspapers./समाचार पत्रों के पाठकों पर टीवी के प्रभाव का अध्ययन करने के लिए विशेषज्ञों की टीम को दूसरे देश में भेजा जाना चाहिए।

(a) Only conclusion I follows/केवल निष्कर्ष I अनुसरण करता है
(b) Only conclusion II follows/केवल निष्कर्ष II अनुसरण करता है
(c) Either I or II follows/या तो I या II अनुसरण करता है
(d) Neither I nor II follow/न तो I और न ही II अनुसरण करता है

MP Police Constable Exam- 8 Jan-2022 Shift-2

Ans. (d) : कथनानुसार न तो निष्कर्ष I और न ही निष्कर्ष II अनुसरण करता है।

41. In the following questions, two statements are given followed by two conclusions (I) and (II). You have to consider the statements to be true even if they seem to be at Variance from commonly known facts and then decide which of the given conclusions, if any, follow from the given statements. Indicate your answer.

निम्नलिखित प्रश्नों में, दो कथन दो निष्कर्ष I, II का अनुसरण करते हैं आपको दोनों कथनों पर विचार करना होगा, भले ही वे आमतौर पर ज्ञात तथ्यों से भिन्न प्रतीत होते हो। आपको निम्न दिए गए कथनों के यदि निष्कर्ष हो तो उनका चयन करना है -

Statements : We know nothing except the facts of our rumors./कथन : हम अपनी अफवाहों के तथ्यों के अलावा कुछ नहीं जानते हैं।

Conclusions/निष्कर्ष :

I. The knowledge of writer's is too poor./लेखक का ज्ञान बहुत कम है।

II. The knowledge is too vast to be explored by a single person./एक व्यक्ति द्वारा खोजे जाने के लिए ज्ञान बहुत विशाल है।

(a) Only conclusion I follows/केवल निष्कर्ष I अनुसरण करता है।
(b) Only conclusion II follows/केवल निष्कर्ष II अनुसरण करता है
(c) Either I or II follows/या तो I या II अनुसरण करता है
(d) Neither I nor II follow/न तो I और न ही II अनुसरण करता है

MP Police Constable Exam- 8 Jan-2022 Shift-2

Ans. (b) : कथनानुसार, केवल निष्कर्ष II अनुसरण करता है।

42. If laptop implies a cheerful day, but it's lousy today, then it's not laptop.

यदि लैपटॉप का मतलब खुशहाल दिन है, लेकिन आज बहुत खराब दिन है, तो यह एक लैपटॉप नहीं है।

(a) True/सही (b) False/गलत
(c) It is possible/हो सकता है (d) Irrelevant/अप्रासंगिक

MP Police Constable Exam 24 July 2016 - 9:am
MP Police Constable Exam 25 July 2016 - 9:am

Ans : (a) दिये हुये कथन का तर्क सही दिया हुआ है।

43. Given question has main statement followed by four statements. Choose the ordered pair of statements, where the first statement implies the second, and the two statements logically consistent with the main statement.

If he takes my advice, I will prevent him from taking risk.

दिए गए प्रश्न में मुख्य कथन और उसके बाद चार कथन हैं। कथनों का क्रमित युग्म चुनें, जहाँ पहले कथन का तात्पर्य दूसरे कथन से है, और दो कथन तार्किक रूप से मुख्य कथन से संगत हैं।

अगर वह मेरी सलाह लेता है, तो मैं उसे जोखिम लेने से रोकूंगा।

A. he took my advice/उन्होंने मेरी सलाह ली

B. he did not take my advice/उसने मेरी सलाह नहीं मानी

C. I prevented him from taking risk./मैनें उसे जोखिम लेने से रोका।

D. I let him take the risk./मैनें उसे जोखिम लेने दिया।

(a) BD (b) BC
(c) DA (d) DB

MP Police Constable Exam- 09 Feb-2022 Shift-1

Ans. (d) : प्रश्नगत कथनों में कथन D और B क्रमित युग्म हैं जिनमें पहले कथन का तात्पर्य दूसरे कथन से है और ये दोनों कथन तार्किक रूप से मुख्य कथन से संगत है।

Type-3: कथन/तर्क/वक्तव्य तथा मान्यता पर आधारित प्रश्न

44. The question below is followed by two arguments numbered I and II. You have to decide which of the arguments is a 'strong' argument and which is a 'weak' argument.

निम्न प्रश्न में एक कथन और उसके बाद दो तर्क I और II दिये गये हैं। आपको तय करना हैं निम्नलिखित तर्कों में से कौन-से तर्क सबल हैं और कौन-से तर्क दुर्बल हैं।

Statement/कथन :-

The biggest challenge for introverts is to not feel like outsiders in their own culture./इंट्रोवर्ट्स (अंतर्मुखियों) के लिए सबसे बड़ी चुनौती अपनी संस्कृति में परायों की तरह महसूस करना है।

Arguments/तर्क :

I. It is a very hard task for them to fit in./उनके लिए मिल-जुलकर रहना बहुत ही कठिन काम है।

II. With the support of their family and friends, they can break the barriers./अपने परिवार और दोस्तों के समर्थन से, वे यह कर सकते हैं।

GET IT ON Google Play Best Study PDF के लिए हमारी App को Download करें "GK Trick By Nitin Gupta"

(a) Only argument I is strong/सिर्फ तर्क I सबल है
(b) Only argument II is strong/सिर्फ तर्क II सबल है
(c) Either argument I or II is strong/या तो तर्क I या फिर तर्क II सबल है
(d) Both the arguments I and II are strong/तर्क I और तर्क II दोनों सबल हैं

MP Police Constable Exam- 31 August-2023 Shift-2

Ans. (d) : दिए गए कथन के अनुसार–
तर्क I और तर्क II दोनों सबल है।

45. Consider the following statements and arguments numbered I and II. You have to decide which of the arguments is/are strong argument.
निम्नलिखित कथनों और तर्कों I और II पर विचार करें। आपको यह तय करना है कि कौन-सा तर्क मजबूत तर्क है/हैं।

Statements/कथन :

Should eating non-vegetarian food allowed in office or public place./क्या कार्यालय या सार्वजनिक स्थानों पर माँसाहारी खाना खाने की अनुमति देनी चाहिए।

Arguments/तर्क :

(I) Yes, eating anything is right of any person. No one has the right to stop this./हाँ, कुछ भी खाना व्यक्ति का मौलिक अधिकार है। कोई इसको रोक नहीं सकता है।

(II) No, it is not permitted to eat non-veg inside office and public places because it will create problem to those who don't eat non-vegetarian food./नहीं, ऑफिस या सार्वजनिक स्थानों पर इसे खाने की अनुमति नहीं देनी चाहिए क्योंकि इससे उन लोगों को परेशानी हो सकती है जो माँसाहार भोजन ना खाते हों।

(a) Only argument I is strong/केवल तर्क I मजबूत है
(b) Only argument II is strong/केवल तर्क II मजबूत है
(c) Both arguments I and II are strong/दोनों तर्क I तथा II मजबूत हैं
(d) Either argument I or II is strong/या तो तर्क I या II मजबूत है

MP Police Constable Exam- 25 August-2023 Shift-3

Ans. (b) : कार्यालय या सार्वजनिक स्थानों पर माँसाहारी खाना खाने की अनुमति नहीं देनी चाहिए क्योंकि इससे उन लोगों को परेशानी हो सकती है जो माँसाहार भोजन ना खाते हों।
अतः केवल तर्क II मजबूत है।

46. Consider the following statements and arguments numbered I and II. You have to decide which of the arguments is/are strong argument.
निम्नलिखित कथनों और तर्कों I और II पर विचार करें। आपको यह तय करना है कि कौन-सा तर्क मजबूत तर्क है/हैं।

Statement/कथन :

Should teaching of at least one foreign language be compulsory in the universities./क्या विश्वविद्यालय में किसी एक विदेशी भाषा की पढ़ाई करवाना आवश्यक है।

Arguments/तर्क :

(I) Yes, from that students got job easily in the foreign companies./हाँ, इससे छात्रों को विदेशी कम्पनियों में नौकरी आसानी से मिल जायेगी।

(II) No, the study load will increase on students from this./नहीं, इससे छात्रों पर पढ़ाई का बोझ बढ़ेगा।

(a) Only argument I is strong/केवल तर्क I मजबूत है
(b) Only argument II is strong/केवल तर्क II मजबूत है
(c) Both arguments I and II are strong/दोनों तर्क I तथा II मजबूत हैं
(d) Neither argument I nor II is strong/ना तो तर्क I ना तर्क II मजबूत हैं

MP Police Constable Exam- 31 August-2023 Shift-3

Ans. (a) : कथनानुसार, विश्वविद्यालयों में किसी एक विदेशी भाषा की पढ़ाई करवाना आवश्यक है जिससे छात्रों को विदेशी कम्पनियों में नौकरी आसानी से मिल जायेगी ना कि इससे छात्रों पर पढ़ाई का बोझ बढ़ेगा।
अतः पहला तर्क कथन का समर्थन कर रहा है।

47. In the question given below consists of a statement, followed by two arguments number I and II. You have to decide which of the arguments is a 'strong' argument.

Statement:

Should there be only one rate of interest for term deposits of varying duration in banks?

Argument:

(I) No, people will refrain from keeping money for longer duration resulting into reduction of liquidity level of Banks.

(II) Yes, this will be much simple for the common people and they may be encouraged to keep more money in banks.

नीचे दिए गए प्रश्न में एक कथन दिया गया है, जिसके बाद दो तर्क I और II दिए गए हैं। आपको तय करना है कि कौन-सा तर्क 'मजबूत' तर्क है।

कथनः

क्या बैंकों में अलग-अलग अवधि के लिए जमा किए जाने वाले धन पर एक ही ब्याज दर होनी चाहिए?

तर्कः

(I) नहीं, इससे लोग लम्बें समय के लिए बैंक में धन रखने पर उसकी तरलता न बढ़ने के कारण उसमें रूचि नहीं लेंगे।

(II) हाँ, यह सामान्य लोगों को बैंक में अधिक धन रखने के लिए प्रोत्साहित करने का अच्छा तरीका है।

(a) Only argument I is strong/केवल I तर्क मजबूत है
(b) Only argument II is strong/केवल II तर्क मजबूत है
(c) Neither argument I nor II is strong/न तो तर्क I न ही तर्क II मजबूत है
(d) Both arguments are strong/दोनों तर्क मजबूत हैं

MP Police Constable Exam- 11 Sep-2023 Shift-2

GET IT ON Google Play Best Study PDF के लिए हमारी App को Download करें "GK Trick By Nitin Gupta"

Ans. (a) : दिए गए कथन के अनुसार तर्क-I मजबूत है। यह एक व्यावहारिक चिंता को उजागर करता है कि एक समान ब्याज दर लंबी अवधि की जमा राशियों के लिए प्रोत्साहन को कम कर सकती है क्योंकि लंबी अवधि के लिए कोई अतिरिक्त लाभ नहीं है। यह बैंक की लंबी अवधि के निवेश के लिए अपने फंड का प्रबंधन करने की क्षमता को प्रभावित कर सकता है।
अतः विकल्प (a) सही उत्तर होगा।

48. Consider the following statements and arguments numbered I and II. You have to decide which of the arguments is/are strong argument.
Statement:
Cell phones and smartphones are they safe for us?
Arguments:
(I) Yes, this gives us all online information.
(II) No, this is not fully protected because the complete solution of cyber hacking not get till now.
निम्नलिखित में कथनों और तर्कों I और II पर विचार करें। आपको यह तय करना है कि कौन-सा तर्क मजबूत तर्क है/हैं।
कथन :
सेलफोन तथा स्मार्टफोन-क्या यह हमारे लिए सुरक्षित है?
तर्क :
(I) हाँ, यह हमें सभी तरह की जानकारी ऑनलाइन उपलबध कराते हैं।
(II) नहीं, यह पूरी तरह सुरक्षित नहीं है क्योंकि साइबर हैकिंग का पूरी तरह से समाधान अभी तक नहीं मिल पाया है।

(a) Only argument I is strong /केवल तर्क I मजबूत है।
(b) Only argument II is strong /केवल तर्क II मजबूत है
(c) Both arguments I and II are strong /दोनों तर्क I तथा II मजबूत हैं।
(d) Neither argument I nor II is strong /ना तो तर्क I ना तर्क II मजबूत है।

MP Police Constable Exam- 1 Sep-2023 Shift-1

Ans. (b) : कथन से स्पष्ट है, कि सेलफोन तथा स्मार्टफोन हमारे लिए सुरक्षित नहीं है, क्योंकि साइबर हैकिंग का पूरी तरह से समाधान अभी तक नहीं मिल पाया है, इसलिए तर्क (II) मजबूत है, जबकि तर्क (I) पूरी तरह से सही नहीं है।
∴ केवल (II) तर्क मजबूत है।

49. At an Electronic data processing unit, five out of the eight program sets P,Q,R,S,T,U,V and W are to be operated daily. On any one day, except for the first day of a month, only three of the program sets must be the ones that were operated on the previous day. The program operating must also satisfy the following conditions
एक इलेक्ट्रॉनिक डेटा संसाधन इकाई पर P, Q, R, S, T, U, V और W आठ में से पाँच कार्यक्रमों को हर दिन चलाने का निर्धारन किया। महिने के पहले दिन छोड़कर किसी भी एक दिन, केवल तीन कार्यक्रम ऐसे होने चाहिए जो पिछले दिन चलाए गए। प्रचालन प्रोग्राम निम्न शर्तों के अनुसार होना चाहिए।

1. If program P is to be operated on a day, V can't be operated on that day
अगर P कार्यक्रम को किसी दिन चलाना है, तो उस दिन V को चलाया नहीं जा सकता
2. If Q is to be operated on a day, T must be one of the programs to be operated after Q
अगर Q कार्यक्रम को किसी दिन चलाना है, तो T कार्यक्रमों में से एक होना चाहिए, जो Q के बाद चलाया जाना चाहिए
3. If R is to be operated on a dya, V must be one of the programs to be operated after R
अगर R कार्यक्रम को किसी दिन चलाना है, तो V कार्यक्रमों में से एक होना चाहिए, जो R के बाद चलाया जाना चाहिए
4. The last program to be operated on any day must be either S or U
अंतिम कार्यक्रम जो किसी दिन चलाया जाएगा, वह S या U में से एक होना चाहिए

If the program sets R and W are to be operated on the first day, which of the following could be the other program on that day?
अगर R और W को पहले दिन चलाना तय हो गया तो, निम्न में से कौन सा कार्यक्रम उस दिन अन्य हो सकता है?

(a) P,T,V (b) Q,S,V
(c) Q,T,V (d) T,S,V

MP Police Constable Exam 19 July 2016 - 9:am

Ans : (d) प्रश्नानुसार, PQRSUVW कार्यक्रमों में से कोई भी पाँच कार्यक्रम प्रत्येक दिन चलाया जा सकता है तथा पहले दिन R और W को चलाना तय है।
शर्त 3 के अनुसार R के बाद V कार्यक्रम चलेगा।
शर्त –4 और विकल्पों को देखने से यह निष्कर्ष निकलता है कि अन्तिम कार्यक्रम S ही होगा। क्योंकि किसी भी विकल्प में U कार्यक्रम नहीं दिया गया ।
चूंकि V को लिया जा चुका है इसलिए कार्यक्रम P को शर्त 1 के कारण नहीं चलाया जा सकता।
शर्त 2 के अनुसार यदि Q को लेते है तो हमें T को अनिवार्य रूप लेना होगा। लेकिन हमें अब किसी एक ही कार्यक्रम की आवश्यकता है इसलिए हम T कार्यक्रम को लेंगे।
अतः सभी शर्तो का पालन करते हुए महीने के पहले दिन निम्न कार्यक्रम चलाये जायेंगे।
RVTWS
अतः अभीष्ट उत्तर = TS

50. Select the option, which is the logical equivalent of the statement given below:
वह विकल्प चुनिए, जो तर्क की दृष्टि से नीचे दिए गए कथन के समान है:
It is not true that both Australia and Srilanka won the World cup.
यह सत्य नहीं है कि ऑस्ट्रेलिया और श्रीलंका दोनों ने वर्ल्ड कप जीता।

(a) Australia won the World Cup and Srilanka won the World cup.
ऑस्ट्रेलिया ने वर्ल्ड कप जीता और श्रीलंका ने वर्ल्ड कप जीता।
(b) Austrlia did not won the World cup and Srilanka did not won the World Cup.
ऑस्ट्रेलिया ने वर्ल्ड कप नहीं जीता और श्रीलंका ने वर्ल्ड कप नहीं जीता।

GET IT ON Google Play Best Study PDF के लिए हमारी App को Download करें "GK Trick By Nitin Gupta"

(c) Austrlia did not won the World cup or Sirlanka did not won the World Cup
ऑस्ट्रेलिया ने वर्ल्ड कप नहीं जीता या श्रीलंका ने वर्ल्ड कप नहीं जीता।

(d) Australia and Srilanka did not won the World Cup.
ऑस्ट्रलिया और श्रीलंका ने वर्ल्ड कप नहीं जीता।

MP Police Constable Exam 17 July 2016 - 9:am

Ans : (c) तर्क की दृष्टि से विकल्प (c) में दिया गया कथन 'आस्ट्रेलिया ने वर्ल्ड कप नहीं जीता या श्रीलंका ने वर्ल्ड कप नहीं जीता।' प्रश्न में दिये गये कथन के समान है।

51. Select the option, which is the logical equivalent of the statement given below–
वह विकल्प चुनिए, जो तर्क की दृष्टि से नीचे दिए गए कथन के समान है–
It is not True that both Vani and Kalyani like sweets/यह सच नहीं है कि वाणी और कल्याणी दोनों को ही मिठाइयां पसंद हैं।

(a) Vani likes sweets and Kalyani likes sweets
वाणी को मिठाइयां पसन्द हैं और कल्याणी को मिठाइयां पसन्द हैं।

(b) Vani likes sweets or Kalyani likes sweets
वाणी को मिठाइयां पसन्द हैं या कल्याणी को मिठाइयां पसन्द हैं।

(c) Vani doesn't like sweets and Kalyani likes sweets/वाणी को मिठाइयां पसन्द नहीं हैं और कल्याणी को मिठाइयां पसन्द हैं।

(d) Vani like sweets and Kalyani doesn't likes sweets/वाणी को मिठाइयां पसन्द हैं और कल्याणी को मिठाइयां पसन्द नहीं है।

MP Police Constable Exam 24 July 2016 - 9:am

Ans : (b) यह सच नहीं है कि वाणी और कल्याणी दोनों को ही मिठाइयाँ पसन्द है। इस वाक्य का समान अर्थ विकल्प **(b)** वाणी को मिठाइयाँ पसन्द है या कल्याणी को मिठाइयाँ पसन्द है, के द्वारा प्रकट होता है।

52. Two statements are given following by two conclusions I and II. You have to consider the two statements to be true even if they seem to be at variance from commonly known facts. You have to decide which one of the given conclusions definitely follows from the given statements.
दो वक्तव्यों के आगे दो निष्कर्ष दिए गए हैं। आप सामान्य ज्ञात तथ्यों में अंतर होने पर भी दोनों वक्तव्यों की पड़ताल, सत्य समझकर करें। आप तय करें कि दिए गए निष्कर्षों में से कौन-सा निश्चित रूप से दिए गए वक्तव्यों में से निकलता है।

Statements/वक्तव्य:

(I) Conflicts in mind create tension./मन में द्वन्द्वों से तनाव पैदा होता है।

(II) Resolution of conflict leads to good mental health./द्वन्द्व के समाधान से मानसिक स्वास्थ्य अच्छा रहता है।

Conclusions/निष्कर्ष :

(I) One becomes very hefty and strong by resolving one's conflicts./अपने द्वन्द्वों का समाधान करके व्यक्ति बहुत शक्तिशाली और मजबूत हो जाता है।

(II) Freedom from conflicts leads to good mental health./द्वन्द्वों से मुक्ति मानसिक स्वास्थ्य अच्छा बनाती है।

(a) Only conclusion I follows/केवल I निष्कर्ष निकलता है

(b) Only conclusion II follows/केवल II निष्कर्ष निकलता है

(c) Neither conclusion I nor II follows/न तो निष्कर्ष I और न ही II निकलता है

(d) Both conclusions I and II follow/I और II दोनों निष्कर्ष निकलते हैं

MP Police Constable Exam- 25 August-2023 Shift-3

Ans. (b) : निष्कर्ष I अपने द्वन्द्वों का समाधान करके व्यक्ति बहुत शक्तिशाली और मजबूत हो जाता है। किसी भी कथन से नहीं निकलता है जबकि निष्कर्ष II द्वन्दों से मुक्ति मानसिक स्वास्थ्य अच्छा बनाती है। कथन II से निकलता है।
अतः केवल II निष्कर्ष निकलता है।

53. If water is called milk, milk is called blood, blood is called tea, tea is called ink and ink is called cold drink. We fill pen with
अगर पानी को दूध कहा जाए, दूध को रक्त कहा जाए, रक्त को चाय कहा जाए, चाय को स्याही कहा जाए और स्याही को शीतल पेय कहा जाए। हम कलम में भरते हैं-

(a) Cold-drink/शीतल पेय (b) Ink/स्याही
(c) Tea/चाय (d) Blood/रक्त

MP Police Constable Exam- 01 Feb-2022 Shift-1

Ans. (a) : कलम को स्याही से भरा जाता है लेकिन प्रश्न में स्याही का कोड "शीतल पेय" है। अतः शीतल पेय अभीष्ट उत्तर होगा।

54. Given question has main statement followed by four statements. Choose the ordered pair of statements, where the first statement implies the second, and the two statements logically consistent with the main statement.
If she irons her clothes, she ruin them.
दिए गए प्रश्न में मुख्य कथन और उसके बाद चार कथन हैं। कथनों का क्रमित युग्म चुनें, जहाँ पहले कथन का तात्पर्य दूसरे कथन से है, और दो कथन तार्किक रूप से मुख्य कथन से संगत हैं।
यदि वह अपने कपड़े इस्त्री करती है, तो वह उन्हें बर्बाद कर देती है।

A she ironed her clothes/उसने अपने कपड़े इस्त्री किए

B she did not iron her clothes/उसने अपने कपड़े इस्त्री नहीं किए

C she ruined them/उसने उन्हें बर्बाद कर दिया

D she did not ruin them/उसने उन्हें बर्बाद नहीं किया

(a) AC (b) BC (c) DA (d) CD

MP Police Constable Exam- 09 Feb-2022 Shift-1

GET IT ON Google Play Best Study PDF के लिए हमारी App को Download करें "GK Trick By Nitin Gupta"

Ans. (a) : प्रश्नगत कथनों का क्रमित युग्म AC होगा जिसमें पहले कथन का तात्पर्य दूसरे कथन से है और ये दोनों कथन तार्किक रूप से मुख्य कथन से संगत है।

Type-4: कथन/तर्क/वक्तव्य तथा कार्यवाही पर आधारित प्रश्न

55. Statements/कथन :

I. The prices of vegetables have fallen during the last few days./विगत कुछ दिनों में सब्जियों के भाव में गिरावट आयी है।

II. There has been considerable improvement in quality of vegetables produced./उत्पादित सब्जियों की गुणवत्ता में काफी सुधार हुआ है।

Choose the correct answer.
सही उत्तर छाँटिये।

(a) Statement I is the cause and statement II is the effect/कथन I कारण है और कथन II प्रभाव है
(b) Statement II is the cause and statement I is the effect/कथन II कारण है और कथन I प्रभाव है
(c) Both the statements I and II are independent causes/कथन I और कथन II दोनों स्वतंत्र कारण हैं
(d) Both the statements I and II are effects of independent causes/कथन I और कथन II दोनों स्वतंत्र कारणों के प्रभाव हैं

MP Police Constable Recruitment Test - 2013

Ans. (a) : सब्जियों के भाव में गिरावट आना कारण है तथा सब्जियों की गुणवत्ता में सुधार होना इसका प्रभाव है अतः विकल्प (a) सही उत्तर है।

56. Given question has main statement followed by four statements. Choose the ordered pair of statements, where the first statement implies the second, and the two statements logically consistent with the main statement.
Piracy is either unlawful or punishable
दिए गए प्रश्न में मुख्य कथन और उसके बाद चार कथन हैं। कथनों का क्रमित युग्म चुनें, जहाँ पहले कथन का तात्पर्य दूसरे कथन से है, और दो कथन तार्किक रूप से मुख्य कथन से संगत हैं।
पायरेसी या तो गैर कानूनी है या दंडनीय है

A. Piracy is unlawful/पायरेसी गैरकानूनी है
B. Piracy is not unlawful/पायरेसी गैरकानूनी नहीं है
C. Piracy is punishable/पायरेसी दंडनीय है
D. Piracy is not punishable/पायरेसी दंडनीय नहीं है

(a) AB (b) DA
(c) CA (d) BD

MP Police Constable Exam- 09 Feb-2022 Shift-1

Ans. (b) : प्रश्नगत कथनों में कथन D और A क्रमित युग्म हैं जिनमें पहले कथन का तात्पर्य दूसरे कथन से है और वे दोनों कथन तार्किक रूप से मुख्य कथन से संगत हैं।

57. Direction (Q. NOB. 57 and 58) : In each question given below, a statement is followed by two arguments numbered I and II. You have to decide which of the arguments is a 'strong' argument and which is a 'weak' argument and then select the correct alternative.
निर्देश (प्रश्न सं. 37 और 38) : नीचे दिए गए प्रश्नों में एक कथन दिया गया है जिसके पश्चात् दो तर्क I तथा II दिये गये हैं। आपको निर्णय करना है कि कौन-सा तर्क 'मजबूत' है तथा कौन-सा तर्क 'कमजोर' है और फिर सही विकल्प का चयन कीजिए।

Statement/कथन :

Should political parties be banned?
क्या राजनीतिक दलों पर प्रतिबन्ध लगा देना चाहिए?

Arguments/तर्क :

I. Yes, it is necessary to teach a lesson to the politicians./हाँ, राजनीतिज्ञों को सबक सिखाना आवश्यक है।

II. No, it will lead to an end of the democracy./नहीं, इससे लोकतंत्र समाप्त हो जाएगा।

(a) Only argument I is strong/केवल तर्क I मजबूत है
(b) Only argument II is strong/केवल तर्क II मजबूत है
(c) Either argument I or argument II is strong /तर्क I अथवा तर्क II मजबूत है
(d) Neither argument I nor argument II is strong /न तो तर्क I और न ही तर्क II मजबूत है

MP Police Constable Recruitment Test - 2013

Ans. (b) : लोकतंत्र में राजनैतिक दलों का होना आवश्यक है अतः सिर्फ तर्क II दिये गये कथन का समर्थन करता है।

58. Statement/कथन :

Should India have no military force at all?
क्या भारत को कोई सैनिक बल नहीं रखना चाहिए?

Arguments/तर्क :

I. No, other countries in the world do not believe in non-violence./नहीं, दुनिया के दूसरे देश अहिंसा में विश्वास नहीं रखते हैं।

II. Yes, many Indians believe in non-violence./हाँ, बहुत-से भारतीय अहिंसा में विश्वास रखते हैं।

(a) Only argument I is strong/केवल तर्क I मजबूत है
(b) Only argument II is strong/केवल तर्क II मजबूत है
(c) Either argument I or argument II is strong /तर्क I अथवा तर्क II मजबूत है
(d) Neither argument I nor argument II is strong /न तो तर्क I और न ही तर्क II मजबूत है

MP Police Constable Recruitment Test - 2013

Ans. (d) : कथनानुसार, न तो तर्क (I) न ही तर्क (II) प्रबल है। अतः विकल्प (d) सही होगा।

GET IT ON Google Play Best Study PDF के लिए हमारी App को Download करें "GK Trick By Nitin Gupta"

भाग-15.

क्रम एवं बैठने की व्यवस्था
(Sequence and Sitting Arrangement)

Type-1: पंक्ति तथा वर्णमाला पर आधारित क्रम व्यवस्था

1. Study the following information carefully to answer the question given below-
Six students A, B, C, D, E and F are the top six rankers of the class. No two persons got the same rank. The student who got the highest marks is given rank 1 and the student who got the least marks is given rank 6. B got less marks than both C and F. A got more marks than E but less than D. B got the second least rank and F got the second highest rank, C got less marks than A.
Who got the highest marks?
निम्नलिखित जानकारी का ध्यानपूर्वक अध्ययन कर नीचे दिये गये प्रश्न का उत्तर दीजिए।
छह छात्र A, B, C, D, E और F कक्षा के शीर्ष छह रैंक वाले हैं। किन्हीं दो व्यक्तियों को समान रैंक प्राप्त नहीं हुआ। सबसे अधिक अंक प्राप्त करने वाले छात्र को रैंक 1 दी जाती है और सबसे कम अंक प्राप्त करने वाले छात्र को रैंक 6 दी जाती है। B को C और F दोनों से कम अंक मिले हैं। A को E से अधिक लेकिन D से कम अंक मिले हैं। B को दूसरी सबसे कम रैंक मिली और F को दूसरी सबसे उच्चतम रैंक मिली, C को A से कम अंक मिले।
सबसे जयादा अंक किसको मिले हैं ?

(a) E (b) B
(c) A (d) D

MP Police Constable Exam- 2 Sep-2023 Shift-3

Ans. (d) : प्रश्नानुसार, छः छात्रों की रैंक निम्नवत् है–
1 → D
2 → F
3 → A
4 → C
5 → B
6 → E
अतः उपर्युक्त से स्पष्ट है कि D को सबसे ज्यादा अंक प्राप्त हुआ है।

2. Study the following information carefully to answer the question given below-
Six students A, B, C, D, E and F are the top six rankers of the class. No two persons got the same rank. The student who got the highest marks is given rank 1 and the student who got the least marks is given rank 6. B got less marks than both C and F. A got more marks than E but less than D. B got the second least rank and F got the second highest rank, C got less marks than A.
How many marks does E got?
निम्नलिखित जानकारी का ध्यानपूर्वक अध्ययन कर नीचे दिये गये प्रश्न का उत्तर दीजिए।
छह छात्र A, B, C, D, E और F कक्षा के शीर्ष छह रैंक वाले हैं। किन्हीं दो व्यक्तियों को समान रैंक प्राप्त नहीं हुआ। सबसे अधिक अंक प्राप्त करने वाले छात्र को रैंक 1 दी जाती है और सबसे कम अंक प्राप्त करने वाले छात्र को रैंक 6 दी जाती है। B को C और F दोनों से कम अंक मिले हैं। A को E से अधिक लेकिन D से कम अंक मिले हैं। B को दूसरी सबसे कम रैंक मिली और F को दूसरी सबसे उच्चतम रैंक मिली, C को A से कम अंक मिले।
E को कितने अंक मिले हैं ?

(a) 40
(b) 38
(c) 18
(d) Data inadequate/डेटा अपर्याप्त

MP Police Constable Exam- 2 Sep-2023 Shift-3

Ans. (d) : प्रश्नानुसार, छः छात्रों की रैंक निम्नवत् है–
1 → D
2 → F
3 → A
4 → C
5 → B
6 → E
∵ प्रश्न में अंकों को नहीं बताया गया है इसीलिए E के अंक को ज्ञात करने के लिए डाटा अपर्याप्त है।

Direction (Q. Nos. 1 and 2) : Each question given below is based on the following data :
निर्देश (प्रश्न सं. 1 और 2) : नीचे दिए गए प्रत्येक प्रश्न निम्नलिखित आँकड़ों पर आधारित है:

(1) A studies Physics, Chemistry and English./A भौतिकी, रसायन-शास्त्र तथा अंग्रेजी पढ़ता है।
(2) Band C study Chemistry and Mathematics./B और C रसायन-शास्त्र तथा गणित पढ़ते हैं।
(3) D and A study Biology and Home Science./D और A जीव-विज्ञान तथा गृह-विज्ञान पढ़ते हैं।

3. Which student studies the maximum number of subjects?/कौन-सा विद्यार्थी अधिकतम विषय पढ़ता है?

(a) D (b) A
(c) C (d) B

MP Police Constable Recruitment Test - 2013

Ans. (b) :

विषय	विद्यार्थी
भौतिक, रसायन, अंग्रेजी, जीवविज्ञान, गृह विज्ञान	A
रसायन विज्ञान, गणित	B
रसायन विज्ञान, गणित	C
जीव विज्ञान, गणित	D

अतः विद्यार्थी A अधिकतम (5) विषय पढ़ता है।

GET IT ON Google Play Best Study PDF के लिए हमारी App को Download करें "GK Trick By Nitin Gupta"

4. How many students are studying Chemistry?
कितने विद्यार्थी रसायन-शास्त्र पढ़ते हैं?

(a) 1 (b) 2
(c) 3 (d) 0

MP Police Constable Recruitment Test - 2013

Ans. (b) : उपरोक्त आरेख से स्पष्ट है कि विद्यार्थी A, B तथा C (3) विद्यार्थी रसायन विज्ञान पढ़ते हैं।

5. At an Electronic Data processing unit, five out of the eight program sets P, Q, R, S, T, U, V and W are to be operated daily. On any one day, except for the first day of a month, only three of the program sets must be the ones that were operated on the previous day. The program operating must also satisfy the following conditions:
एक इलेक्ट्रॉनिक डेटा संसाधन इकाई पर, P, Q, R, S, T, U, V और W आठ में से कार्यक्रमों को हर दिन चलाने का निर्धारन किया। महीने के पहले दिन छोड़कर किसी भी एक दिन, केवल तीन कार्यक्रम ऐसे होने चाहिए जो पिछले दिन चलाए गए। प्रचालन प्रोग्राम निम्न शर्तों के अनुसार होना चाहिए।

1. If program P is to be operated on a day, V can't be operated on that day.
   अगर P कार्यक्रम किसी दिन चलाया जाएगा, तो उस दिन V को चलाया नहीं जा सकता।
2. If Q is to be operated on a day, T must be one of the programs to be operated after Q.
   अगर Q कार्यक्रम किसी दिन चलाया जाएगा, T कार्यक्रमों में से एक होना चाहिए जो Q के बाद चलाया जाना चाहिए।
3. If R is to be operated on a day, V must be one of the programs to be operated after R.
   अगर R कार्यक्रम किसी दिन चलाया जाएगा, V कार्यक्रमों से एक होना चाहिए, जो R के बाद चलाया जाना चाहिए।
4. The last program to be operated on any day must be either S or U.
   अंतिम कार्यक्रम जो किसी दिन चलाया जाएगा, वह S या U में से एक होना चाहिए।

Which of the following is true of any day's valid program set operations?
निम्न में से किसी भी दिन के विधिमान्य कार्यक्रम सेट ऑपरेशन के बारे में कौन सा सत्य है?

(a) P can't be operated at 3rd place
P को तीसरे स्थान पर चलाया नहीं जा सकता
(b) Q can't be operated at 3rd place
Q को तीसरे स्थान पर चलाया नहीं जा सकता
(c) R can't be operated at 4th place
R को चौथे स्थान पर चलाया नहीं जा सकता
(d) T can't be operated at 3rd place
T को तीसरे स्थान पर चलाया नहीं जा सकता

MP Police Constable Exam 17 July 2016 - 9:am

Ans : (c) प्रश्नानुसार,
(i) T,Q,P,W,S
अतः P को तीसरे स्थान पर चलाया जा सकता है।
(ii) PTQWS अथवा WTQPU
अतः Q को तीसरे स्थान पर चलाया जा सकता है।
(iii) TQRVS क्योंकि अन्त में S अथवा U रखना अनिवार्य है। और R के तुरन्त बाद V आना अनिवार्य है।
अतः R को चौथे स्थान पर नहीं चलाया जा सकता है।

6. How many times the vowels precede the consonants in the word 'RETROGRESSION'?
'RETROGRESSION' शब्द में कितनी बार स्वर व्यंजनों के पूर्व में हैं?

(a) 1 (b) 2
(c) 3 (d) 4

MP Police Constable Exam 17 July 2016 - 12:am

Ans. (d) R[ET]R[OG]R[ES]SI[ON]
अतः शब्द में 4 ऐसे जोड़े हैं जिसमें स्वर व्यंजनों के पूर्व में हैं।

7. Study the following information carefully to answer the question given below-
A building has seven floors numbered one to seven, in such a way that the ground floor is numbered one, the floor above it is numbered two and so on such that the topmost floor numbered seven. One out of seven people viz. K, N, D, S, P, Ar and A lives on each floor(not necessary in the same order). K lives on fourth floor. P lives on the floor immediately below Ar's floor. Ar does not live on the second or seventh floor. D does not live on an odd numbered floor. N does not live on floor immediately above or below D's floor. S does not live on the topmost floor. A does not live on any floor below P's floor.
Who lives on the top floor?
निम्नलिखित जानकारी का ध्यानपूर्वक अध्ययन कर नीचे दिये गये प्रश्न का उत्तर दीजिए ?
एक बिल्डिंग में एक से लेकर सात तल हैं, यह इस प्रकार से हैं कि ग्राउंड फ्लोर, प्रथम तल और उसके बाद दूसरा तल और इसी प्रकार आखिरी तल होगा। सात तलों पर सात व्यक्ति K, N, D, S, P, Ar तथा A, प्रत्येक फ्लोर पर रहते हैं। (जरूरी नहीं इसी क्रम में)। K चौथे तल पर रहता है। P, Ar के तुरन्त नीचे तल पर रहता है। Ar, दूसरे या सातवें फ्लोर पर नहीं हैं। D किसी विषम तल पर नहीं हैं। N, D के तुरन्त ऊपर के तल या तुरन्त नीचे के तल पर नहीं हैं। S सबसे ऊपर के तल पर नहीं है। A, P से नीचे के किसी तल पर नहीं हैं।
सबसे ऊपर के तल पर कौन रहता है ?

(a) P (b) K
(c) A (d) S

MP Police Constable Exam- 5 Sep -2023 Shift-1

Ans. (c) : सार्थक क्रम निम्नवत् है-

बिल्डिंग के तल	रहने वाले व्यक्ति
7	A
6	D
5	S
4	K
3	Ar
2	P
1	N

अतः सबसे ऊपर के तल में A रहता है।

GET IT ON Google Play Best Study PDF के लिए हमारी App को Download करें "GK Trick By Nitin Gupta"

8. Study the following information carefully to answer the question given below-

A building has seven floors numbered one to seven, in such a way that the ground floor is numbered one, the floor above it is numbered two and so on such that the topmost floor numbered seven. One out of seven people viz. K, N, D, S, P, Ar and A lives on each floor(not necessary in the same order). K lives on fourth floor. P lives on the floor immediately below Ar's floor. Ar does not live on the second or seventh floor. D does not live on an odd numbered floor. N does not live on floor immediately above or below D's floor. S does not live on the topmost floor. A does not live on any floor below P's floor.

Who lives between K and P?

निम्नलिखित जानकारी का ध्यानपूर्वक अध्ययन कर नीचे दिये गये प्रश्न का उत्तर दीजिए ?

एक बिल्डिंग में एक से लेकर सात तल हैं, यह इस प्रकार से हैं कि ग्राउंड फ्लोर, प्रथम तल और उसके बाद दूसरा तल और इसी प्रकार आखिरी तल होगा। सात तलों पर सात व्यक्ति K, N, D, S, P, Ar तथा A, प्रत्येक फ्लोर पर रहते हैं। (जरूरी नहीं इसी क्रम में)। K चौथे तल पर रहता है। P, Ar के तुरन्त नीचे तल पर रहता है। Ar, दूसरे या सातवें फ्लोर पर नहीं हैं। D किसी विषम तल पर नहीं हैं। N, D के तुरन्त ऊपर के तल या तुरन्त नीचे के तल पर नहीं हैं। S सबसे ऊपर के तल पर नहीं है। A, P से नीचे के किसी तल पर नहीं हैं।

K तथा P के बीच में कौन रहता है ?

(a) Ar (b) A
(c) K (d) D

MP Police Constable Exam- 5 Sep -2023 Shift-1

Ans. (a) : उपर्युक्त आरेख के क्रमानुसार K तथा P के बीच में Ar रहता है।

9. Five files labelled F1, F2, F3, F4 and F5 are placed one over the other, not necessarily in the same order. F2 and F1 are neither at the top not at the bottom. F3 is placed between F1 and F4. If F4 is placed below F5, which file is exactly in the middle of the stack?

F1, F2, F3, F4 और F5 लेबल वाली पांच फाइलें एक के ऊपर एक रखी गई हैं, जरूरी नहीं कि इसी क्रम में हों। F2 और F1 न तो शीर्ष पर हैं और न ही सबसे नीचे। F3 को F1 और F4 के बीच रखा गया है। यदि F4 को F5 के नीचे रखा गया है, तो कौन-सी फ़ाइल स्टैक के ठीक बीच में है?

(a) F2 (b) F4
(c) F3 (d) F1

MP Police Constable Exam- 18 August-2023 Shift-1

Ans. (d) : फाइलों का ऊपर से नीचे का सही क्रम निम्नवत् है-
$\rightarrow F_5$
$\rightarrow F_2$
$\rightarrow F_1$
$\rightarrow F_3$
$\rightarrow F_4$
उपरोक्त से स्पष्ट है कि फाइल स्टैक के ठीक बीच में F_1 है।

10. In a row of 42 persons. Richa is 26th from the left side of the row and Rajan is 19th from the right side of the row. How many persons are sitting between them?

42 व्यक्तियों की एक पंक्ति में, ऋचा पंक्ति की बाईं ओर से 26वें स्थान पर है तथा राजन पंक्ति की दाईं ओर से 19वें स्थान पर है। उनके बीच कितने व्यक्ति बैठे हैं?

(a) 4 (b) 3
(c) 2 (d) 1

MP Police Constable Exam- 12 August-2023 Shift-2

Ans. (d) : जब व्यक्तियों की संख्या दिया हो तो एक बढ़ा कर घटाते हैं-
व्यक्तियों की संख्या = 42
ऋचा बाऐ से = 26
राजन दांयी से = 19
43 - 19 = 24
अतः राजन का बाएं से 24वाँ स्थान है तो ऋचा और राजन के बीच 1 व्यक्ति होंगे।

11. In a row of 25 students, A is 13th from right end. Then find the rank of A from left end.

25 छात्रों की एक पंक्ति में A दायें छोर से 13वें स्थान पर है। तो बाएं छोर से A की रैंक ज्ञात कीजिए?

(a) 12th/12वीं (b) 10th/10वीं
(c) 13th/13वीं (d) 16th/16वीं

MP Police Constable Exam- 13 August-2023 Shift-1

Ans. (c) : प्रश्नानुसार,
∵ कुल छात्रों की संख्या = (A का दाएँ + A का बाएँ ओर से स्थान) – 1
25 = (13 + बाएँ) – 1
बाएँ ओर से स्थान = 13वाँ स्थान

12. In a row, Gaurav is 22nd from left end and Vineet is 26th from right end. When they interchange their position respectively, then Vineet becomes 31 from right end. Then what will be Gaurav position from left after interchanging?

एक पंक्ति में, गौरव बायें छोर से 22वें और विनीत दायें छोर से 26वें स्थान पर है, जब वे क्रमशः अपना स्थान बदलते हैं तो विनीत दायें छोर से 31वां हो जाता है। तो बायें से गौरव का स्थान क्या होगा?

(a) 29th/29वां (b) 28th/28वां
(c) 27th/27वां (d) 30th/30वां

MP Police Constable Exam- 12 August-2023 Shift-2

Ans. (c) : प्रश्नानुसार,
बायें से → गौरव 22 $\xrightarrow{+5}$ 27
दायें से → विनीत 26 +5 31
अतः बायें से गौरव का स्थान '27वाँ' होगा।

13. In a row of 60 students, A is 37th from right end. Then find the rank of A from left end.

60 छात्रों की एक पंक्ति में A दायें छोर से 37वें स्थान पर है। तो बाएं छोर से A की रैंक ज्ञात कीजिए?

(a) 21st/21वीं (b) 24th/24वीं
(c) 26th/26वीं (d) 27th/27वीं

MP Police Constable Exam- 12 August-2023 Shift-2

GET IT ON Google Play Best Study PDF के लिए हमारी App को Download करें "GK Trick By Nitin Gupta"

Ans. (b) : दिया है-

कुल छात्र = 60

बाएं छोर से A की रैंक = (60 – 37) + 1

= 23 + 1

= 24वीं

अतः बाएं छोर से A की रैंक 24वीं होगी।

14. M ranks 5th from right. N ranks 8th from left. If T is 9th After M and just in the middle of M and N, then how many students are there in the class?

M दाईं ओर से 5वें स्थान पर है। N बाईं ओर से 8वें स्थान पर है। यदि T, M के बाद नौवें स्थान पर है तथा M और N के ठीक मध्य में है, तो कक्षा में कितने छात्र हैं?

(a) 29 (b) 31

(c) 30 (d) 32

MP Police Constable Exam- 13 August-2023 Shift-1

Ans. (c) : प्रश्नानुसार,

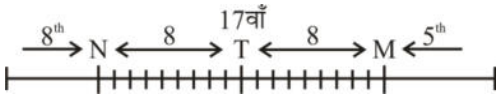

कुल छात्रों की संख्या = 8 + 8 + 1 + 8 + 5

= 30 छात्र

15. In a row of 31 men, X is 19th from left end and Y is 17th from right end. Then find how many mens are between X and Y?

31 पुरुषों की एक पंक्ति में X बाएं छोर से 19वां है और Y दाएं छोर से 17वां है। तो ज्ञात कीजिए कि X और Y के बीच कितने पुरुष हैं?

(a) 3 (b) 7

(c) 9 (d) 5

MP Police Constable Exam- 13 August-2023 Shift-1

Ans. (a) : प्रश्नानुसार,

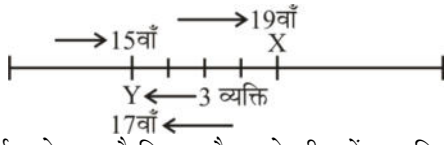

अतः उपर्युक्त से स्पष्ट है कि X और Y के बीच में 3 व्यक्ति है।

16. Mamta is 8 ranks ahead of Mayank in class of 41 students. If Mayank's rank is eighteenth from the last, what is Mamta's rank from the start ?

41 छात्रों की कक्षा में ममता, मयंक से 8 स्थान आगे है। यदि मयंक आख़िरी से अठ्ठारहवें स्थान पर है तो क्रम के शुरुआत से ममता का स्थान कितना होगा ?

(a) 15th/15वां (b) 16th/16वां

(c) 17th/17वां (d) 18th/18वां

MP Police Constable Exam- 5 Sep-2023 Shift-2

Ans. (b) : प्रश्नानुसार,

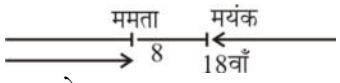

अतः ममता का शुरू से स्थान = 41 – (8 + 18)

= 16वाँ

17. Study the following information carefully to answer the question given below-

A building has seven floors numbered one to seven, in such a way that the ground floor is numbered one, the floor above it is numbered two and so on such that the topmost floor numbered seven. One out of seven people viz. K, N, D, S, P, Ar and A lives on each floor(not necessary in the same order). K lives on fourth floor. P lives on the floor immediately below Ar's floor. Ar does not live on the second or seventh floor. D does not live on an odd numbered floor. N does not live on floor immediately above or below D's floor. S does not live on the topmost floor. A does not live on any floor below P's floor.

Which of the following option is true?

निम्नलिखित जानकारी का ध्यानपूर्वक अध्ययन कर नीचे दिये गये प्रश्न का उत्तर दीजिए ?

एक बिल्डिंग में एक से लेकर सात तल हैं, यह इस प्रकार से हैं कि ग्राउंड फ्लोर, प्रथम तल और उसके बाद दूसरा तल और इसी प्रकार अखिरी तल सातवाँ तल होगा। सात तलों पर सात व्यक्ति K, N, D, S, P, Ar तथा A, प्रत्येक फ्लोर पर रहते हैं। (जरूरी नहीं इसी क्रम में)। K चौथे तल पर रहता है। P, Ar के तुरन्त नीचे तल पर रहता है। Ar, दूसरे या सातवें फ्लोर पर नहीं है। D किसी विषम तल पर नहीं है। N, D के तुरन्त ऊपर के तल या तुरन्त नीचे के तल पर नहीं हैं। S सबसे ऊपर के तल पर नहीं है। A, P के नीचे के किसी तल पर नहीं हैं।

निम्नलिखित में से कौन-सा विकल्प सत्य है ?

(a) S lives on an even number floor/S सम संख्या वाले तल पर हैं

(b) D lives on fifth floor/D पाँचवे तल पर हैं

(c) P lives immediate below of D/P, D के तुरन्त नीचे है

(d) Ar lives on odd number floor/Ar विषम संख्या वाले तल पर है

MP Police Constable Exam- 5 Sep-2023 Shift-2

Ans. (d) : सात व्यक्तियों के बैठने का क्रम निम्नलिखित है।

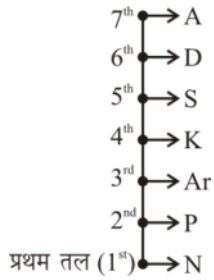

अतः उपर्युक्त से स्पष्ट है कि Ar, विषम संख्या (3rd) वाले तल पर बैठा है।

GET IT ON Google Play Best Study PDF के लिए हमारी App को Download करें "GK Trick By Nitin Gupta"

18. Study the following information carefully to answer the question given below-

A building has seven floors numbered one to seven, in such a way that the ground floor is numbered one, the floor above it is numbered two and so on such that the topmost floor numbered seven. One out of seven people viz. K, N, D, S, P, Ar and A lives on each floor(not necessary in the same order). K lives on fourth floor. P lives on the floor immediately below Ar's floor. Ar does not live on the second or seventh floor. D does not live on an odd numbered floor. N does not live on floor immediately above or below D's floor. S does not live on the topmost floor. A does not live on any floor below P's floor.

Which of the following option is false?

निम्नलिखित जानकारी का ध्यानपूर्वक अध्ययन कर नीचे दिये गये प्रश्न का उत्तर दीजिए ?

एक बिल्डिंग में एक से लेकर सात तल हैं, यह इस प्रकार से हैं कि ग्राउंड फ्लोर, प्रथम तल और उसके बाद दूसरा तल और इसी प्रकार अखिरी तल सातवाँ तल होगा। सात तलों पर सात व्यक्ति K, N, D, S, P, Ar तथा A, प्रत्येक फ्लोर पर रहते हैं। (जरूरी नहीं इसी क्रम में)। K चौथे तल पर रहता है। P, Ar के तुरन्त नीचे तल पर रहता है। Ar, दूसरे या सातवें फ्लोर पर नहीं है। D किसी विषम तल पर नहीं है। N, D के तुरन्त ऊपर के तल या तुरन्त नीचे के तल पर नहीं हैं। S सबसे ऊपर के तल पर नहीं है। A, P के नीचे के किसी तल पर नहीं हैं।

निम्नलिखित में से कौन-सा विकल्प असत्य है ?

(a) S-5th floor/S-5वीं मंजिल
(b) Ar-3rd floor/Ar-तीसरी मंजिल
(c) N-2nd floor/N-दूसरी मंजिल
(d) K-4th floor/K-चौथी मंजिल

MP Police Constable Exam- 5 Sep-2023 Shift-2

Ans. (c) : सात व्यक्तियों के बैठने का क्रम निम्नलिखित है।

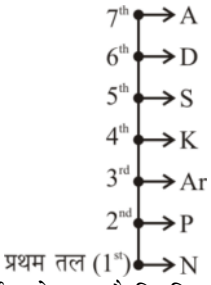

अतः उपर्युक्त से स्पष्ट है कि विकल्प (c) "N-दूसरी मंजिल'' असत्य है क्योंकि N-प्रथम मंजिल पर रहता है।

19. In a row of 50 students, A is 27 from right end. Then find rank of A from left end.

50 छात्रों की एक पंक्ति में A दायें छोर से 27वें स्थान पर है। तो बाएं छोर से A की रैंक ज्ञात कीजिए?

(a) 22 (b) 24
(c) 23 (d) 21

MP Police Constable Exam- 13 August-2023 Shift-2

Ans. (b) : दिया है-
A का दायें छोर से स्थान = 27
∵ कुल छात्रों की संख्या + 1 = [A का दायें छोर से स्थान + A का बायें छोर से स्थान]
∴ 50 + 1 = 27 + बायें छोर से स्थान
बायें छोर से स्थान = 51 – 24 = 24वाँ

20. In a row X is 17th from left end & 19th from right end. Then find the total number of students in the given row?

एक पंक्ति में, X बाएं छोर से 17वां और दाएं छोर से 19वां है। तो दी गई पंक्ति में विद्यार्थियों की कुल संख्या ज्ञात कीजिए?

(a) 35 (b) 30
(c) 33 (d) 31

MP Police Constable Exam- 13 August-2023 Shift-2

Ans. (a) : दिया है:-
X का बाएं छोर से स्थान = 17
X का दाएं छोर से स्थान = 19
∵ कुल विद्यार्थियों की संख्या = X का (दाएं + बाएं) का स्थान – 1
= (19 + 17) – 1
= 35

21. During prayer students are standing in line. Salman's position is 22nd from both the girls who are standing at both the extreme end of line. How many students are there in the line?

प्रार्थना के दौरान छात्र एक कतार में खड़े होते हैं। सलमान की स्थिति उन दोनों लड़कियों से 22वीं है जो पंक्ति के दोनों छोरों पर खड़ी हैं। पंक्ति में कितने छात्र हैं?

(a) 43 (b) 46
(c) 48 (d) 52

MP Police Constable Exam- 13 August-2023 Shift-2

Ans. (a) : प्रश्नानुसार,
सलमान का बाएँ छोर से स्थान = 22
सलमान का दाएँ छोर से स्थान = 22
∴ कुल छात्रों की संख्या = (दाएँ + बाएँ) छोर से स्थान – 1
= 22 + 22 – 1
= 43

22. Seven kids V, I, B, G, Y, O and R– are standing in a row during a sports meets. Y is to the immediate left of I. V is to the left of B but not between B and I. Exactly four kids are stand them, how many kids do O and R have between them?

सात बच्चे V, I, B, G, Y, O और R– एक खेल के दौरान एक पंक्ति में खड़े हैं। Y, I के निकटतम बायें है। V, B के बाए है परन्तु B तथा I के बीच नहीं है। ठीक चार बच्चे B तथा I के बीच खड़े हैं। यदि V तथा G के बीच दो बच्चे हैं। O तथा R के बीच कितने बच्चे हैं?

(a) 0 (b) 1
(c) 2 (d) 3

MP Police Constable Exam- 16 August-2023 Shift-1

Ans. (b) : पंक्ति में खड़े बच्चों का व्यवस्थित क्रम-
V — B — O — G — R — Y — I
उपरोक्त क्रम से स्पष्ट है कि O तथा R के बीच केवल एक बच्चा बैठा है।

GET IT ON Google Play Best Study PDF के लिए हमारी App को Download करें "GK Trick By Nitin Gupta"

23. In a class of students, Raju occupies 5th position from the top and 25th from the bottom in the test. How many students are there in class?
विद्यार्थियों की एक कक्षा में, राजू एक टेस्ट में शीर्ष से 5वां स्थान प्राप्त करता है और नीचे से 25वां स्थान प्राप्त करता है। कक्षा में कितने विद्यार्थी है?

(a) 28 (b) 29
(c) 30 (d) 25

MP Police Constable Exam- 12 Sep-2023 Shift-2

Ans. (b) : प्रश्नानुसार,
कक्षा में कुल विद्यार्थी = (शीर्ष से स्थान) + (नीचे से स्थान) – 1
= (5 + 25) – 1
= 30 – 1
= 29

24. On the seven members panel sitting in a row 'A' is to immediate left of 'B', but on the immediate right of 'D'. 'Q' is on the right of 'A' but is on the left of 'S', and 'T' is on the left of 'Y' who is to the left of 'D'. Find the member sitting in the middle.
एक पंक्ति में बैठे सात सदस्यों के पैनल में 'A' 'B' के ठीक बायीं ओर है, लेकिन 'D' के ठीक दायीं ओर है। 'Q', 'A' के दाईं ओर है, लेकिन 'S' के बाईं ओर है। 'T', 'Y' के बाईं ओर है, जो 'D' के बाईं ओर है। मध्य में कौन-सा सदस्य बैठा है?

(a) V (b) A
(c) Q (d) D

MP Police Constable Exam- 16 August-2023 Shift-3

Ans. (b) : प्रश्नानुसार रक्त सम्बन्ध आरेख बनाने पर

उपर्युक्त आरेख से स्पष्ट है कि पंक्ति के बीच में A बैठा है।

25. In a row, Anu is 28th from the left end and Siya is 15th from the right end, when they interchange their positions respectively, Anu becomes 30th from the left end. Then what will be the position of Siya from the right end?
एक पंक्ति में, अनु बायें छोर से 28वें और सिया दायें छोर से 15वें स्थान पर है, जब वे क्रमशः अपना स्थान बदलते हैं तो अनु बायें छोर से 30वीं हो जाती है। तो दायें छोर से सिया का स्थान क्या होगा?

(a) 26th/26वीं (b) 29th/29वीं
(c) 27th/27वीं (d) 17th/17वीं

MP Police Constable Exam- 14 August-2023 Shift-3

Ans. (d) : प्रश्नानुसार,

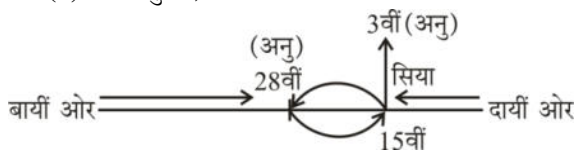

∵ स्थान परिवर्तन के पश्चात् अनु का स्थान बायीं ओर से 30वाँ हो जाता है।
∴ सिया का दायीं ओर से परिवर्तित स्थान (15 + 2) = 17वाँ होगा।

26. Nikhil ranks 6th in a class. Shivam is 9th from the last. If Tarun is 7th after Nikhil and just in the middle of Nikhil and Shivam. Then how many student are there in the class?
एक कक्षा में निखिल का रैंक छठा है। शिवम अंत से 9वें स्थान पर है। यदि तरुण, निखिल के बाद 7वें स्थान पर है तथा निखिल और शिवम के ठीक मध्य में है। तो कक्षा में कितने छात्र हैं?

(a) 26 (b) 25
(c) 28 (d) 30

MP Police Constable Exam- 14 August-2023 Shift-3

Ans. (c) : प्रश्नानुसार,
प्रारम्भ से तरूण तक कुल छात्रों की संख्या = 6+7 =13
तरूण के बाद से शिवम तक कुल छात्र = 7
शिवम के बाद छात्रों की संख्या = (9–1) = 8
अतः कक्षा में कुल छात्रों की संख्या = 13+7+8 = 28

27. Six friends sit in a line . Some are facing north and some facing south.
• Two people sit between Ankit and Abhi and none of them sit at any corner and Ajay and Abhi are immediate neighbour .
• Only Anuj and Arun who sit third to the right of Anuj face South
• Amit and Arun are neighbour and both dose not sit at any corner and Ajay sit at extreme left end.
Who sit at extreme corners ?
छह दोस्त एक पंक्ति में बैठे हैं कुछ उत्तर की ओर देख रहे हैं और कुछ दक्षिण की ओर देख रहे हैं।
• दो व्यक्ति अंकित और अभि के मध्य बैठे हैं और दोनों किसी भी छोर पर नहीं बैठें हैं। अजय, अभि पड़ोसी है।
• सिर्फ अनुज और अरून जो कि अनुज के दाएँ से तीसरे स्थान पर है, दक्षिण की ओर मुँह किए हैं।
• अमित, अरून का पड़ोसी है और दोनों किसी भी छोर पर नहीं बैठे है अजय पंक्ति के ठीक बाएँ छोर पर हैं।
दोनों छोर पर कौन बैठे है ?

(a) Abhi, Ankit/अभि, अंकित
(b) Arun, Amit/अरून, अमित
(c) Ajay, Anuj/अजय, अनुज
(d) Abhi, Arun/अभि, अरून

MP Police Constable Exam- 3 Sep-2023 Shift-2

Ans. (c) : दोस्तों का बैठने का क्रम निम्नवत् है–

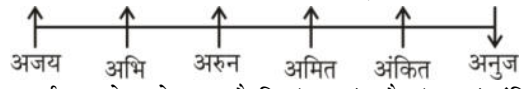

अतः उपर्युक्त आरेख से स्पष्ट है कि 'अजय' और 'अनुज' पंक्ति के दोनों छोरों पर बैठे है।

28. Five people namely, Vishal, Neha, Vikas, Sakshi and Vivek, are sitting in a row facing north. Vikas is sitting to the right of Neha. Neha and Vivek are adjacent to each other. Vishal is on extreme left end. Sakshi is not sitting on any extreme end. Neither Vivek nor Sakshi is sitting adjacent to Vishal. Who is sitting second to the left of Vikas?

GET IT ON Google Play Best Study PDF के लिए हमारी App को Download करें "GK Trick By Nitin Gupta"

पांच व्यक्ति, विशाल, नेहा, विकास, साक्षी और विवेक, एक पंक्ति में उत्तर दिशा की ओर मुख कर बैठे हैं। विकास नेहा के दाएँ ओर बैठा है। नेहा और विवेक एक दूसरे के बगल में बैठे हैं। विशाल बाएं छोर पर बैठा है। साक्षी किसी भी छोर पर नहीं बैठी है। ना ही विवेक ना ही साक्षी विशाल के बगल में बैठे हैं। विकास के बाएं से दूसरे स्थान पर कौन बैठा है?

(a) Vivek /विवेक (b) Vishal /विशाल
(c) Sakshi /साक्षी (d) Neha /नेहा

MP Police Constable Exam- 13 August-2023 Shift-3

Ans. (a) : प्रश्नानुसार बैठने का क्रम निम्नवत् है-

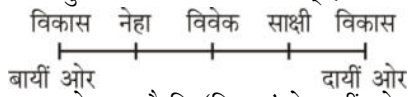

अतः उपर्युक्त हल से स्पष्ट है कि 'विकास' के बायीं ओर दूसरे स्थान पर 'विवेक' बैठा है।

29. In a row, A is 17th from left and B is 20th from right. When the interchange their position respectively. Then A becomes 27th from left. Then what will be B's position from right after interchanging?

एक पंक्ति में A बाएं छोर से 17वां है और B दाएं से 20वां है। जब वे क्रमशः अपना स्थान बदलते हैं तब A बाएं से 27वां हो जाता है। तो आपस में स्थान बदलने के बाद दायें से B की स्थिति क्या होगी?

(a) 23 (b) 30
(c) 35 (d) 27

MP Police Constable Exam- 13 August-2023 Shift-3

Ans. (b) : प्रश्नानुसार,

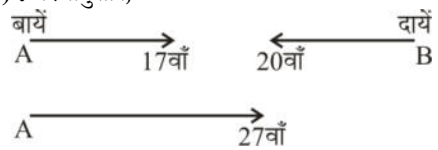

पंक्ति में कुल विद्यार्थी = (27 + 20) – 1 = 46
दायें से 'B' का नया स्थान = 46 – (17 – 1)
= 46 – 16
= 30 वाँ

30. In a row of the fifty students, A is the fourteenth from the left end the B is the 10th from the right end. How many students are there between A and C if C is fourth to the left of B?

पचास छात्रों की एक पंक्ति में, A बाएं छोर से चौदहवां है और B दाएं छोर से 10वां है। यदि C, B की बाईं ओर से चौथे स्थान पर है, तो A और C के बीच कितने छात्र हैं?

(a) 35 (b) 22
(c) 32 (d) 30

MP Police Constable Exam- 13 August-2023 Shift-3

Ans. (b) : प्रश्नानुसार,

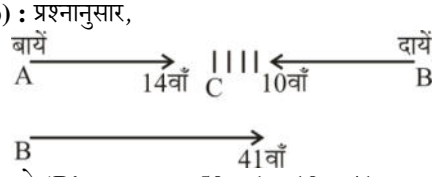

बायीं ओर से 'B' का स्थान = 50 + 1 – 10 = 41
'A' और 'C' के मध्य छात्रों की सं. = 41 – (14 + 4 + 1)
= 41 – 19 = 22

31. Six friends sit in a line . Some are facing north and some facing south.

• Two people sit between Ankit and Abhi and none of them sit at any corner and Ajay and Abhi are immediate neighbour .

• Only Anuj and Arun who sit third to the right of Anuj face South

• Amit and Arun are neighbour and both dose not sit at any corner and Ajay sit at extreme left end.

Who sit third to the right of Abhi ?

छः दोस्त एक पंक्ति में बैठे हैं कुछ उत्तर की ओर देख रहे हैं और कुछ दक्षिण की ओर देख रहे है।

• दो व्यक्ति अंकित और अभि के मध्य बैठे हैं और दोनों किसी भी छोर पर नहीं बैठा हैं। अजय, अभि पड़ोसी है।

• सिर्फ अनुज और अरून जो कि अनुज के दाएँ से तीसरे स्थान पर है, दक्षिण की ओर मुँह किए हैं।

• अमित, अरून का पड़ोसी है और दोनों किसी भी छोर पर नहीं बैठे है अजय पंक्ति के ठीक बाएँ छोर पर हैं।

अभि के दाएँ से तीसरे स्थान पर कौन बैठा है ?

(a) Amit/अमित (b) Ankit/अंकित
(c) Anuj/अनुज (d) Arun/अरून

MP Police Constable Exam- 4 Sep-2023 Shift-3

Ans. (b) : छः दोस्त एक पंक्ति में इस प्रकार बैठे है–

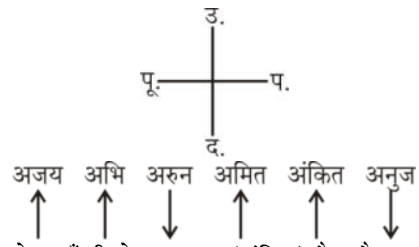

अतः अभि के दाएँ तीसरे स्थान पर 'अंकित' बैठा है।

32. There are five boys - A, B, C, D and E sitting in a row facing south. C is sitting third to the left of A. B is sitting second to the right of E. If D is not sitting adjacent to C, who is sitting second to the left of D?

पांच लड़के – A, B, C, D और E दक्षिण की तरफ मुख करके एक पंक्ति में बैठे हैं। C, A के बाएं से तीसरे स्थान पर बैठा है। B, E के दाएँ से दूसरे स्थान पर बैठा है। यदि D, C के बगल में नहीं बैठा है तो D के बाएं से दूसरे स्थान पर कौन बैठा है?

(a) A (b) B
(c) C (d) E

MP Police Constable Exam- 8 Sep-2023 Shift-1

Ans. (c) : बैठने का सही क्रम निम्नवत् है-

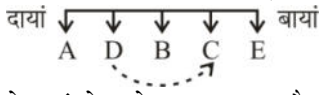

अतः 'D' के बाएं से दूसरे स्थान पर 'C' बैठा है।

33. 3375 students were stand at 25 rows in school, with the same number in each row. how many people were stand at per row.

GET IT ON Google Play Best Study PDF के लिए हमारी App को Download करें "GK Trick By Nitin Gupta"

3375 विद्यार्थी स्कूल में 25 पंक्तियों में खड़े थे, प्रत्येक पंक्ति में समान संख्या के साथ प्रति पंक्ति में कितने लोग खड़े थे।

(a) 135 (b) 145
(c) 125 (d) 115

MP Police Constable Exam- 18 August-2023 Shift-2

Ans. (a) : प्रश्नानुसार,

प्रत्येक पंक्ति में विद्यार्थियों की संख्या $= \frac{3375}{25} = 135$

34. In a horizontal row of students, Preksha is 14th from the left end of the row while her friend Suruchi is 10th from the right end of the row. If there are eighteen students in the row, how many students are standing between Preksha and Suruchi?

एक छात्रों के क्षैतिज पंक्ति में, प्रेक्षा का स्थान पंक्ति के बाएं छोर से 14वीं है जबकि उसकी मित्र सुरुचि का स्थान दाएँ छोर से 10वीं है। यदि पंक्ति में अठारह छात्र है तो प्रेक्षा और सुरुचि के बीच कितने छात्र हैं?

(a) Three/तीन (b) Four/चार
(c) Five/पाँच (d) Six/छः

MP Police Constable Exam- 11 Sep-2023 Shift-2

Ans. (b) : प्रश्नानुसार,

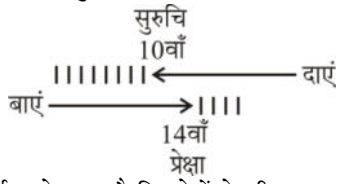

अतः उपर्युक्त से स्पष्ट है कि दोनों के बीच '4' छात्र बैठे है।

35. Five girls are sitting in a row. Rashi is not adjacent to Grace or Adhya. Anu is not adjacent to Grace. Rashi is adjacent to Venus. Venus is at the middle in the row. Then Anu is adjacent to whom?

पाँच लड़कियाँ एक पंक्ति में बैठी हैं। राशि, ग्रेस या आध्या के बगल में नहीं है। अनु, ग्रेस के बगल में नहीं है। राशि वीनस के बगल में है। वीनस पंक्ति में मध्य में है। तो फिर अनु किसके बगल में है?

(a) Rashi/राशि (b) Grace/ग्रेस
(c) Aadhya/आध्या (d) Venus/वीनस

MP Police Constable Exam- 11 Sep-2023 Shift-2

Ans. (a) : प्रश्नानुसार,

लड़कियों के बैठने का क्रम निम्नवत् है-

अनु → राशि → वीनस → ग्रेस/आध्या → आध्या/ग्रेस

उपर्युक्त से स्पष्ट है कि अनु, राशि के बगल में बैठी है।

अतः विकल्प (a) सही उत्तर होगा।

36. Read the following information carefully and answer the question given below:

(i) A, B, C, D, E, F and G are sitting around a circle and facing the centre.

(ii) G is second to the left of C, who is to the immediate left of F.

(iii) A is third to the left of E.

(iv) B is between D and E.

Who is sitting third to the right of B?

निम्नलिखित जानकारी को ध्यानपूर्वक पढ़ें और नीचे दिए गए प्रश्न का उत्तर दें:

(i) A, B, C, D, E, F और G एक वृत्त के चारों ओर बैठे हैं और केंद्र की ओर मुख किए हुए हैं।

(ii) G, C के बायीं ओर दूसरे स्थान पर है, जो F के ठीक बायीं ओर है।

(iii) A, E के बाईं ओर से तीसरा है।

(iv) B, D और E के बीच है।

B के दायें से तीसरे स्थान पर कौन बैठा है?

(a) G (b) F
(c) A (d) C

MP Police Constable Exam- 17 August-2023 Shift-3

Ans. (c) : प्रश्नानुसार,

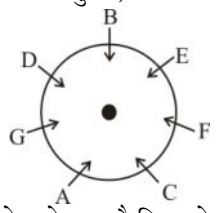

उपर्युक्त आरेख से स्पष्ट है कि B के दायें तीसरे स्थान पर A बैठा है।

37. In a row, Kamlesh is 9th from the left and Vipin is 16th from the right. If they interchange their position Kamlesh becomes 25th from the left. How many people are there in a row?

एक पंक्ति में, कमलेश, बाएँ से 9वें स्थान पर है। तथा विपिन दाएँ से 16वें स्थान पर है। यदि वह अपनी जगह आपस में बदल लेते है, तो कमलेश अब बाएँ से 25वां स्थान पर हो जाता है। तो बताएँ पंक्ति में कुल कितने व्यक्ति हैं।

(a) 34 (b) 40
(c) 43 (d) 35

MP Police Constable Exam- 12 Sep-2023 Shift-1

Ans. (b) : प्रश्नानुसार,

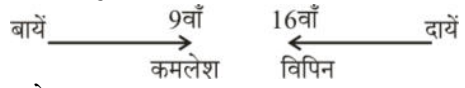

स्थान बदलने पर-

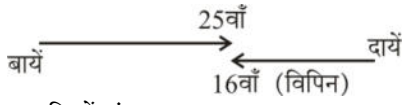

पंक्ति में कुल व्यक्तियों संख्या $= (25 + 16) - 1$
$= 41 - 1$
$= 40$

38. Study the following information carefully to answer the question given below-

निम्नलिखित जानकारी का ध्यानपूर्वक अध्ययन कर नीचे दिये गये प्रश्न का उत्तर दीजिए।

In an Exhibition seven cars of different companies - C, A, F, M, Me, B and Fa are standing facing to north in the following order - C is next to right of Fa. Fa is fourth to the right of F. M car is between A and B. F, which is third to the left of A, is at one of the end.

GET IT ON Google Play Best Study PDF के लिए हमारी App को Download करें "GK Trick By Nitin Gupta"

Three of the following four are alike in a certain way based on their position, which of the following does not belongs to that group?
एक प्रदर्शनी में विभिन्न कंपनियों की सात कारें–C, A, F, M, Me, B और Fa निम्नलिखित क्रम में उत्तर की ओर मुख करके खड़ी हैं- C, Fa के दायें बगल में है। Fa, F के दायें से चौथे स्थान पर है। M कार, A और B के बीच में है। F, जो कि A के बायें तीसरा है, किसी एक छोर पर है।
निम्नलिखित चार में से तीन किसी प्रकार से एक समान हैं और अपना समूह बनाते हैं। वह कौन है जो इस समूह में शामिल नहीं होता है?

(a) F (b) M
(c) Fa (d) C

MP Police Constable Exam- 1 Sep-2023 Shift-2

Ans. (a) : कारों का प्रदर्शनी में खड़ी होने का क्रम इस प्रकार है–

F B M A Fa C Me

F को छोड़कर अन्य विकल्प की कारें मध्य में खड़ी है।

39. Six friends sit in a line . Some are facing north and some facing south.
• Two people sit between Ankit and Abhi and none of them sit at any corner and Ajay and Abhi are immediate neighbour .
• Only Anuj and Arun who sit third to the right of Anuj face South.
• Amit and Arun are neighbour and both dose not sit at any corner and Ajay sit at extreme left end.
Who sit second to the right of Arun?
छह दोस्त एक पंक्ति में बैठे हैं कुछ उत्तर की ओर देख रहे हैं और कुछ दक्षिण की ओर देख रहे है।
• दो व्यक्ति अंकित और अभि के मध्य बैठे हैं और दोनों किसी भी छोर पर नहीं बैठा हैं। अजय, अभि पड़ोसी है।
• सिर्फ अनुज और अरून जो कि अनुज के दाएँ से तीसरे स्थान पर है, दक्षिण की ओर मुँह किए हैं।
• अमित, अरून का पड़ोसी है और दोनों किसी भी छोर पर नहीं बैठे है अजय पंक्ति के ठीक बाएँ छोर पर हैं।
अरून के दाएँ से दूसरे स्थान पर कौन बैठा है।

(a) Ankit/अंकित (b) Amit/अमित
(c) Ajay/अजय (d) Abhi/अभि

MP Police Constable Exam- 4 Sep-2023 Shift-2

Ans. (c) : प्रश्नानुसार, पंक्ति में बैठने का क्रम निम्न है–

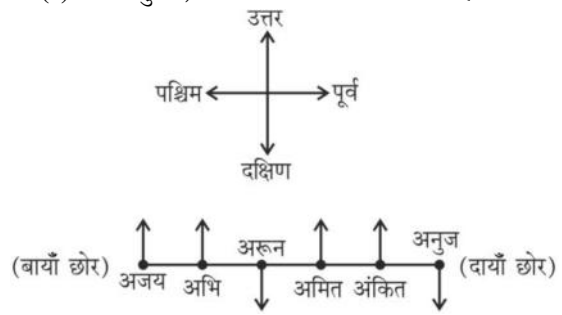

अतः स्पष्ट है कि अरून के दाईं ओर दूसरे स्थान पर अजय बैठा है।

40. X is the 8th from the left end and Y is the 12th from the right end in a row of boys. If there are the 10 boys between X and Y. How many boys are there in the rows?
लड़कों की एक पंक्ति में X बाएं छोर से 8वां है तथा Y दाएं छोर से 12वां है। यदि X और Y के बीच 10 लड़के हैं। तो पंक्ति में कितने लड़के हैं?

(a) 22 (b) 20
(c) 15 (d) 30

MP Police Constable Exam- 14 August-2023 Shift-2

Ans. (d) :



अतः पंक्ति में लड़कों की कुल संख्या = (8 + 10 + 12) = 30

41. In a row, Marigold is 12th from the left end and Lotus is 27th from the right end, when they interchange their positions respectively, Marigold becomes 35th from the left end. So what will be the position of Lotus from the right end?
एक पंक्ति में, मैरीगोल्ड बायें छोर से 12वें और लोटस दायें छोर से 27वें स्थान पर है, जब वे क्रमशः अपना स्थान बदलते हैं तो मैरीगोल्ड बायें छोर से 35वां हो जाता है। तो दायें छोर से लोटस का स्थान क्या होगा

(a) 31st/31वीं (b) 45th/45वीं
(c) 50th/50वीं (d) 20th/20वीं

MP Police Constable Exam- 14 August-2023 Shift-2

Ans. (c) :

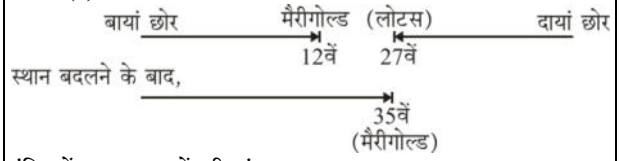

पंक्ति में कुल सदस्यों की संख्या = 35 + (27 – 1) = 61
स्थान बदलने के बाद लोटस का दाएं छोर से स्थान
= 61 – (12 – 1) = 50वीं

42. In a row of 28 boys, A is 19th from left end and B is 13th from right end. Then find how many boys are in between a and B?
28 लड़कों की एक पंक्ति में, A बाएं छोर से 19वें स्थान पर है और B दाएं छोर से 13वें स्थान पर है तो ज्ञात कीजिए कि A और B के मध्य कितने लड़के हैं?

(a) 1 (b) 3
(c) 5 (d) 2

MP Police Constable Exam- 01 Feb-2022 Shift-1

Ans. (d): प्रश्नानुसार,

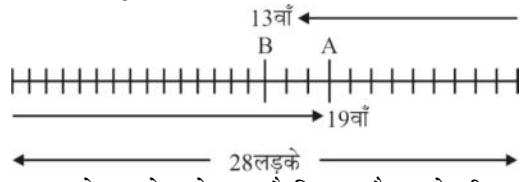

उपरोक्त आरेख से स्पष्ट है कि A और B के बीच लड़कों की संख्या = 2

GET IT ON Google Play Best Study PDF के लिए हमारी App को Download करें "GK Trick By Nitin Gupta"

43. In a row of 22 girls, X is 19th from right end the Y is 21st from left end. Find how many girls are in between X and Y./22 लड़कियों की एक पंक्ति में, X दायें छोर से 19वें स्थान पर है और Y बाएं छोर से 21वां है। X और Y के बीच में कितनी लड़कियाँ हैं?

(a) 22 (b) 21
(c) 16 (d) 23

MP Police Constable Exam- 01 Feb-2022 Shift-1

Ans. (c) : प्रश्नानुसार,

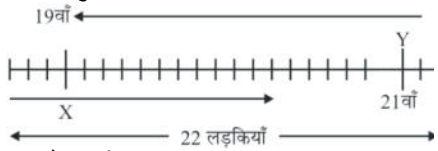

X और Y के बीच लड़कियों की संख्या = 16

44. There are five houses ABCDO in a row. A is right side of B and left side of C. O is the right side of A, B is right of D. Which house is in the middle?
एक पंक्ति में पांच घर ABCDO है। A, B के दायीं ओर और C के बायीं ओर है। O, A के दायीं ओर है, B, D के दायीं ओर है कौन-सा घर मध्य में है?

(a) O (b) A
(c) B (d) D

MP Police Constable Exam- 01 Feb-2022 Shift-1

Ans. (b) : प्रश्नानुसार,

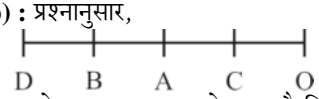

उपरोक्त क्रम-व्यवस्था से स्पष्ट है कि घर 'A' मध्य में है।

45. Some student of a school are stand in row, if Anvesha who is 15th from the left and Kush who is 6th from the right intechange their positions, Anvesha becomes 24th from the left many students are ther is the row?
एक स्कूल के कुछ छात्र एक पंक्ति में खड़े होते हैं, अगर अनवेशा जो बाईं ओर से 15वीं और कुश जो दायें से 6वें स्थान पर हैं, अपना स्थान आपस में बदल लेते हैं, तो अनवेशा बाएं से 24वें स्थान पर हैं। पंक्ति में कितने छात्र हैं?

(a) 29 (b) 27
(c) 28 (d) 30

MP Police Constable Exam- 09 Feb-2022 Shift-1

Ans. (a) : अनवेशा का बाईं ओर से स्थान = 15वाँ
कुश का दाईं ओर से स्थान = 6वाँ
आपस में स्थान बदलने पर -
बाईं ओर से अनवेशा का स्थान = 24वाँ
पंक्ति में कुल छात्र = (24 + 6) - 1 = 29

46. Vikram is 13th from left side and Kamal is 20th from the right side in a row. They decided to interchange their positions, now Vikram becomes 17th from the left side. What will position from the right side.
एक पंक्ति में विक्रम बाएं छोर से 13 वें स्थान पर और कमल दांए छोर से 20 वें स्थान पर हैं। उन्होंने अपने स्थानों को आपस में बदलने को फैसला किया, अब विक्रम बाएं छोर से 17 वें स्थान पर आ गया। दाएं छोर से कमल को स्थान क्या होगा?

(a) 20 (b) 24
(c) 25 (d) 27

MP Police Constable Exam- 09 Feb-2022 Shift-1

Ans. (b) : पंक्तियों में बाएँ छोर से विक्रम का स्थान 13वाँ
दाएं छोर से कमल का स्थान = 20वाँ
आपस में स्थान बदलने के बाद
दाएँ छोर से कमल का स्थान = पंक्ति में कुल व्यक्ति – बाएँ छोर से विक्रम का स्थान
= (20 + 17) – 13
= 37 – 13
= 24 वाँ

47. In a row of 20 students, Mona is 7th from right end. Then find the rank of mona from left end?
20 विद्यार्थियों की एक पंक्ति में राहुल दायें छोर से 7वें स्थान पर है। तो बाएं छोर से राहुल का स्थान ज्ञात कीजिये?

(a) 12 (b) 15
(c) 14 (d) 13

MP Police Constable Exam- 09 Feb-2022 Shift-1

Ans. (c) : पंक्ति में विद्यार्थियों की कुल संख्या = 20
राहुल का दाएँ छोर से स्थान = 7वाँ
∴ बाएं छोर से राहुल का स्थान = (20 - 7) + 1
= 13 + 1
= 14 वाँ

48. In the line of individuals A is 13 to the left and 19 by the right. How many people are there in the line?/व्यक्तियों के पंक्ति में A बाएँ से 13वें तथा दाएँ से 19वें स्थान पर है। उस पंक्ति में कुल कितने व्यक्ति है।

(a) 32 (b) 31 (c) 30 (d) 33

MP Police Constable Exam- 02 Feb-2022 Shift-1

Ans : (b) पंक्ति में व्यक्तियों की अभीष्ट संख्या = 19 + 13 – 1
= 32 – 1 = 31

49. In a row of students P was standing 17th from the left end and 23rd from the right end. If Q was standing exactly in the middle of the row, what was his position from the left end? (Assume students were facing the north.)/छात्रों की एक पंक्ति में P बायें छोर से 17वें और दायें छोर से 23वें स्थान पर खड़ा था। यदि Q पंक्ति के ठीक बीच में खड़ा था, तो बाईं छोर से उसकी स्थिति क्या थी? (मान लें कि छात्र उत्तर दिशा की ओर मुख किए हुये थे।)

(a) 20th (b) 18th (c) 22nd (d) 19th

MP Police Constable Exam- 02 Feb-2022 Shift-1

Ans. (a) प्रश्नानुसार –

∴ पंक्ति में कुल छात्र = (17 + 23) – 1 = 39 छात्र
यदि Q मध्य में स्थित होगा, तो Q बायें से 20वें तथा दायें से भी 20वें स्थान पर होगा।

50. Total 42 students are standing in a line facing east. Neha's position is 16th from the right end. Vinita is standing at 26th position from the left. If Mangala is standing at the 7th place to the right of Neha, what is Mangala's positon from the left end of the row?

GET IT ON Google Play Best Study PDF के लिए हमारी App को Download करें "GK Trick By Nitin Gupta"

कुल 42 छात्र पूर्व की ओर मुंह किए एक पंक्ति में खड़े हैं, दाहिने छोर से नेहा की स्थिति 16वीं है। विनीता बाईं ओर से 26वें स्थान पर खड़ी है। यदि मंगला 7वें स्थान पर नेहा के दाहिने खड़ी है, तो पंक्ति में अंत से बायें मंगला का स्थान कौन-सा है?

(a) 34th (b) 33rd
(c) 35th (d) 32nd

MP Police Constable Exam- 8 Jan-2022 Shift-2

Ans. (a) : छात्रों के पूर्व की ओर खड़े होने का क्रम–

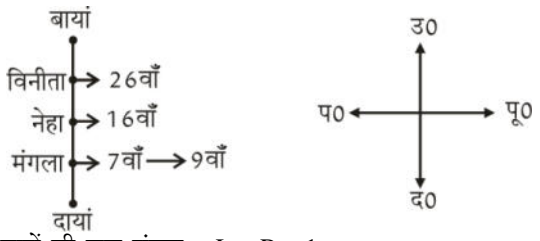

छात्रों की कुल संख्या = L + R – 1
42 = L + 9 – 1
42 = L + 8
L = 42 – 8
L = 34
अत: पंक्ति में मंगला का स्थान बायें से 34वाँ है।

51. If y ou are 9th person in a queue starting from one end and 11th from another end, what is the number of persons in the queue?
यदि आप कतार में एक छोर से नौवें व्यक्ति हैं तथा दूसरे छोर से 11वें स्थान पर हैं, कतार में व्यक्तियों की संख्या कितनी है?

(a) 20 (b) 19
(c) 21 (d) 18

MP Police Constable Exam- 02 Feb-2022 Shift-1

Ans. (b): कतार में एक छोर से स्थान = 9 वां
तथा दूसरे छोर से स्थान = 11वां
अतः कतार में व्यक्तियों की संख्या = (11 + 9) – 1
= 20 – 1 = 19

52. In a row of 51 girls, X is 15th from right end the Y is 20th from left end. Find how many girls are in between X and Y.
51 लड़कियों की एक पंक्ति में, X दायें छोर से 15वें स्थान पर है और Y बाएँ छोर से 20वाँ है। X और Y के बीच में कितनी लड़कियाँ हैं?

(a) 16 (b) 17
(c) 19 (d) 15

MP Police Constable Exam- 10 Jan -2022 Shift-2

Ans. (a) : पंक्ति में कुल लड़कियों की संख्या = 51
x का दाएँ छोर से स्थान = 15 वाँ
x का बाएँ छोर से स्थान = (51 – 15) + 1 = 37
y का बाएँ छोर से स्थान = 20 वाँ
अतः x और y के बीच लड़कियों की संख्या = (37 – 20) – 1
= 17 – 1 = 16

53. If in a row, Rahul is standing on 16th position from the front and on 29th position from behind, then the total number of persons in that row is
यदि एक पंक्ति में राहुल आगे से 16वें स्थान पर तथा पीछे से 29वें स्थान पर खड़ा है, तो उस पंक्ति में व्यक्तियों की कुल संख्या है

(a) 43
(b) 44
(c) 45
(d) None of the above/उपर्युक्त में से कोई नहीं

MP Police Constable Recruitment (Second)Test - 2013

Ans. (b) : पंक्ति में व्यक्तियों की कुल संख्या
= (आगे से स्थान + पीछे से स्थान)–1
= (16+29)–1
= 45–1
= 44

54. Four friends were playing a game of cards sitting in a circle. Shankar was right of Ram and Gopal was left to Arvind. Which one of the following pairs were the partners?
चार मित्र एक घेरे में बैठे ताश का खेल खेल रहे थे। शंकर राम के दाएँ था और गोपाल अरविन्द के बाएं था। निम्नलिखित में से कौन-सा युग्म भागीदार था?

(a) Ram and Arvind/राम तथा अरविंद
(b) Gopal and Shankar /गोपाल तथा शंकर
(c) Ram and Shankar /राम तथा शंकर
(d) Ram and Gopal /राम तथा गोपाल

MP Police Constable Exam- 16 August-2023 Shift-2

Ans. (d) : प्रश्नानुसार,

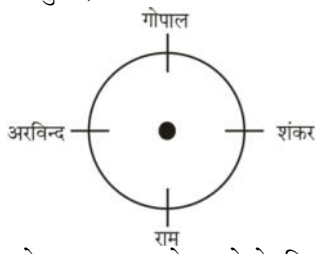

खेल के नियम के अनुसार आमने-सामने के खिलाड़ी युग्म भागीदार होते हैं अतः राम तथा गोपाल पार्टनर (भागीदार) होंगे।

55. The positions of the second and the eighth digits of the number 39128564 are interchanged. Similarly, the positions of the fourth and the fifth digits are interchanged. The positions of the first and the sixth digits are interchanged and the positions of the third and the seventh digits are interchanged. Which of the following will be the third digit to the left of 3 after the arrangement?
संख्या 39128564 के दूसरे और आठवें स्थान के अंक आपस में बदल दिए गए हैं। इसी तरह, चौथे और पांचवे के स्थानों के अंक आपस में बदल दिए गए है। पहले और छठे अंक के स्थान आपस में बदल दिए गए है और तीसरे और सातवें अंक के स्थान आपस में बदल दिए गए हैं। निम्न में से व्यवस्था के बाद 3 के बाईं ओर तीसरा अंक कौन-सा होगा?

(a) 2 (b) 4
(c) 6 (d) 8

MP Police Constable Exam 17 July 2016 - 9:am

GET IT ON Google Play Best Study PDF के लिए हमारी App को Download करें "GK Trick By Nitin Gupta"

Ans : (c) संख्या 3 9 1 2 8 5 6 4
स्थान बदलने पर 5 4 6 8 2 3 1 9
अतः 3 के बायीं ओर तीसरा अंक 6 है।

56. Driections : 5 persons are sitting in row. One of the two persons at the extreme ends is intelligent and other one is fat. A fat person is sitting to the right of a weak person.A tall person is to the left of the fat person. And the weak person is sitting between the intelligent and fat person
निर्देश : 5 व्यक्ति एक पंक्ति में बैठे हुए हैं। छोर के दो व्यक्तियों में से एक बुद्धिमान है तथा दूसरा मोटा है। एक मोटा व्यक्ति एक कमजोर व्यक्ति के दाहिने ओर बैठा है। एक लंबा व्यक्ति मोटे व्यक्ति के बायें ओर बैठा है। और कमजोर व्यक्ति बुद्धिमान और मोटे व्यक्ति के बीच में बैठा है।
If the fair person and fat person exchange their position, so also tall and weak, then who will be sitting to the left of the weak person
यदि गोरा व्यक्ति और मोटा व्यक्ति, अपने स्थानों को बदल लें, लंबा और कमजोर भी अपने स्थान बदल लें, तो कमजोर व्यक्ति के बायीं ओर कौन बैठेगा?

(a) Intelligent/बुद्धिमान (b) Fat/मोटा
(c) Fair/गोरा (d) Tall/लंबा

MP Police Constable Exam 17 July 2016 - 9:am

Ans : (d)
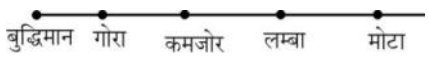

स्थान बदलने पर
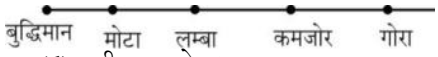

अतः विकल्प (d) सही उत्तर होगा।

57. Ravi is 7 ranks ahead of Sumit in a class of 39. If Sumit's rank is seventeenth from the last, what is Ravi's rank from the start?
39 छात्रों की कक्षा में रवि सुमित से 7 स्थान आगे है। यदि सुमित का स्थान कक्षा में नीचे से 17 है, तो ऊपर से रवि का स्थान क्या है?

(a) 14th/14वां (b) 15th/15वां
(c) 16th/16वां (d) 17th/17वां

MP Police Constable Exam- 1 August-2016, 3:pm

Ans : (c) नीचे से रवि का स्थान
= 17 + 7 = 24
ऊपर से रवि का स्थान = 39 – 24 + 1
= 16 वाँ

58. In a row of 31 cadets, when Joginder was shifted by four places to the right, he became the 12th from the left end. What was his earlier position from the right end?
31 कैडेटों की एक पंक्ति में, जोगिंदर को जब दाईं ओर चार स्थानों से स्थानांतरित किया गया, वह बाईं छोर से 12वाँ बन गया। दाईं ओर से उसकी पहले वाली स्थिति क्या थी?

(a) 20 (b) 19
(c) 24 (d) 23

MP Police Constable Exam 24 July 2016 - 9:am

Ans : (c) ∵ जोगिदंर को दाई ओर चार स्थानों से स्थानांतरित करने पर बाएँ ओर से 12वीं बन गया अर्थात् दाएँ ओर से (31–12) = 19 वाँ स्थान है।
अतः दाईं ओर से पहले की स्थिति = (19+4) + 1 = 24

59. In the following question arrange the given words in a meaningful sequence and then choose the most appropriate sequence from among the alternatives provided below–
निम्नलिखित प्रश्न में एक सार्थक क्रम में शब्दों की व्यवस्था करें और उसके बाद नीचे दिए गए विकल्पों में से सबसे उपयुक्त अनुक्रम का चयन करे–
1. Book 2. Pulp 3. Timber 4. Jungle 5. Paper
1. पुस्तक 2. लुगदी 3. लकड़ी 4. जंगल 5. कागज

(a) 2, 5, 1, 4 3 (b) 3, 2, 5, 1, 4
(c) 4, 3, 2, 5, 1 (d) 5, 4, 3, 1, 2

MP Police Constable Exam 24 July 2016 - 9:am

Ans : (c) दिये गये शब्दों का सार्थक क्रम निम्नवत् है-
4. जंगल 3. लकड़ी 2. लुगदी 5. कागज 1. पुस्तक
सही अनुक्रम = 4, 3, 2, 5, 1

60. A is sitting at right to B and B is sitting at right to D. If C is sitting right to A, where is B sitting?
A B के दाहिने तरफ बैठा है और B D के दाहिने तरफ बैठा है। यदि C A के दाहिने तरफ बैठा है, तो B कहाँ बैठा है?

(a) Right to C/C के दाहिने
(b) Left to A/A के बाएं
(c) Left to D/D के बाएं
(d) Right to A/A के दाहिने

MP Police Constable Exam 24 July 2016 - 9:am

Ans : (b) अक्षर श्रृंखला के बैठने का क्रम निम्नवत् है।
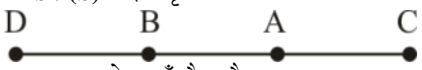

अतः B, A के बाएँ बैठा है।

61. In a class, Alan's rank was 20 from the top and 58 from the bottom. How many total students are there in class, if each student got a different rank ?
एक कक्षा में, एलन का रैंक शीर्ष से 20वां और नीचे से 58वां है। यदि प्रत्येक विद्यार्थी को अलग-अलग रैंक मिला हो, तो कक्षा में कुल कितने विद्यार्थी है ?

(a) 85 (b) 77
(c) 38 (d) 65

MP Police Constable Exam- 3 Sep-2023 Shift-1

Ans. (b) : कक्षा में कुल विद्यार्थियों की संख्या = 20 + 58 – 1
= 77

Type-2: वृत्ताकार, वर्गाकार आदि आकृतियों पर आधारित क्रम एवं बैठक व्यवस्था

62. Read the following information carefully and answer the question given below:
(i) A, B, C, D, E, F and G are sitting around a circle and facing the centre.
(ii) G is second to the left of C, who is to the immediate left of F.

GET IT ON Google Play Best Study PDF के लिए हमारी App को Download करें "GK Trick By Nitin Gupta"

(iii) A is third to the left of E.
(iv) B is between D and E.
Who is sitting third to the left of B?
निम्नलिखित जानकारी को ध्यानपूर्वक पढ़ें और नीचे दिए गए प्रश्न का उत्तर दें:
(i) A, B, C, D, E, F और G एक वृत्त के चारों ओर बैठे हैं और केंद्र की ओर मुख किए हुए हैं।
(ii) G, C के बायीं ओर दूसरे स्थान पर है, जो F के ठीक बायीं ओर है।
(iii) A, E के बाईं ओर से तीसरा है।
(iv) B, D और E के बीच है।
B के बायीं ओर तीसरे स्थान पर कौन बैठा है?

(a) C (b) D
(c) B (d) F

MP Police Constable Exam- 17 August-2023 Shift-2

Ans. (a) : A, B, C, D, E, F और G के वृत्त के चारों ओर बैठने का क्रम निम्न है-

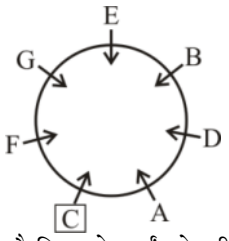

अतः स्पष्ट है कि B के बाईं ओर तीसरे स्थान पर 'C' बैठा है।

63. Five students are standing in a circle and they are facing centre of the circle. Ajay is between Amar and Aman. Alok is immediate left of the Amit. Amar is immediate left of the Alok. Who is sitting immediate right of Ajay?
पांच छात्र एक वृत्त पर खड़े हैं और उनका मुख वृत्त के केंद्र की ओर है। अजय, अमर और अमन के बीच में है। आलोक, अमित के निकटतम बायें है। अमर, आलोक के निकटतम बाएं है। अजय के निकटतम दाएं कौन बैठा है?

(a) Amar/अमर (b) Aman/अमन
(c) Alok/आलोक (d) Amit/अमित

MP Police Constable Exam- 9 Sep-2023 Shift-2

Ans. (a) : प्रश्नानुसार बैठने का क्रम निम्नवत् है-

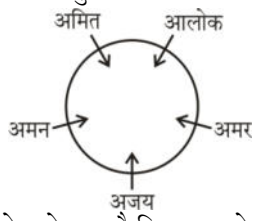

उपर्युक्त आरेख से स्पष्ट है कि, अजय के निकटतम दाएं अमर बैठा है।

64. Read the following information carefully and answer the question given below:
(i) A, B, C, D, E, F and G are sitting around a circle and facing the centre.
(ii) G is second to the left of C, who is to the immediate left of F.
(iii) A is third to the left of E.
(iv) B is between D and E.
Who is sitting between B and G?
निम्नलिखित जानकारी को ध्यानपूर्वक पढ़ें और नीचे दिए गए प्रश्न का उत्तर दें:
(i) A, B, C, D, E, F और G एक वृत्त के चारों ओर बैठे हैं और केंद्र की ओर मुख किए हुए हैं।
(ii) G, C के बायीं ओर दूसरे स्थान पर है, जो F के ठीक बायीं ओर है।
(iii) A, E के बाईं ओर से तीसरा है।
(iv) B, D और E के बीच है।
B और G के बीच कौन बैठा है?

(a) E (b) A
(c) D (d) F

MP Police Constable Exam- 14 August-2023 Shift-2

Ans. (c) : A, B, C, D, E, F और G के बैठने का क्रम निम्नलिखित हैं।

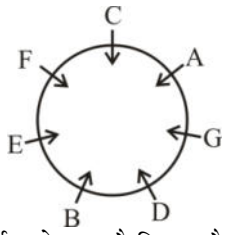

अतः उपर्युक्त से स्पष्ट है कि B और G के बीच 'D' बैठा है।

65. Six people A, B, C, D, E and F are sitting on the ground in a hexagonal shape. All the sides of the hexagon so formed are of same length. A is not adjacent to B or C; D is not adjacent to C or E; B and C are adjacent; F is in the middle of D and C.
छः लोग A, B, C, D, E और F जमीन पर षट्कोणीय आकार में बैठे है। षट्कोण के सभी भुजाओं की लंबाई एक समान है। B या C के बगल में A नहीं है; C या E के बगल में D नहीं है; B और C बगल में हैं; D और C के बीच F है।
Who is placed opposite to E ?
E के विपरीत स्थान पर कौन है ?

(a) B (b) C
(c) D (d) F

MP Police Constable Exam 23 July 2016 - 9:am

Ans : (d) बैठने का क्रम निम्नवत है -

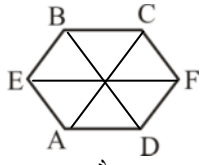

अतः E के विपरीत स्थान पर F है।

66. Seven students Aman, Bhanu, Charu, Divya, Viplav, Madan and Govind are sitting in a circle facing the centre and discusing their upcoming project.
(i) Vipin is the neighbour of Aman and Divya.
(ii) Govind is not sitting between Madan and Charu.
(iii) Madan is to the immediate right of Aman.
Who are the neighbours of Bhanu?

GET IT ON Google Play Best Study PDF के लिए हमारी App को Download करें "GK Trick By Nitin Gupta"

सात छात्र, अमन, भानु, चारू, दिव्या, विप्लव, मदन और गोविंद एक गोल मेज के परितः केंद्र की ओर अभिमुख होकर बैठे हैं और अपनी अगली परियोजना के बारे में चर्चा कर रहे हैं।

(i) विप्लव ठीक अमन और दिव्या के पड़ोस में बैठा है।

(ii) मदन और चारु के बीच में गोविंद नहीं बैठा है।

(iii) मदन ठीक अमन के दाहिनी बैठा है।

भानु के दोनों ओर पड़ोस में कौन-कौन बैठे हैं?

(a) Charu and Divya/चारु और दिव्या
(b) Aman and Divya/अमन और दिव्या
(c) Aman and Viplav/अमन और विप्लव
(d) Madan and Charu/मदन और चारू

MP Police Constable Exam- 02 Feb-2022 Shift-1

Ans. (d) : छात्रों की बैठक-व्यवस्था निम्न प्रकार है-

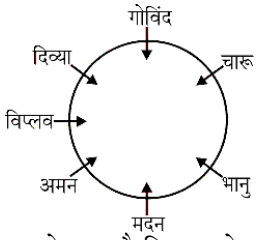

उपरोक्त बैठक व्यवस्था से स्पष्ट है कि भानु के दोनों ओर पड़ोस में मदन तथा चारू बैठे हैं।

67. Six friends A,B,C,D,E and F are sitting in a closed circle facing the centre. E is to the left of D. C is between A and B. F is between E and A. छह मित्र A,B,C,D,E और F केंद्र की ओर मुख किए हुए बंद वृत्त में बैठे हैं। E, D के बायीं ओर है। C, A और B के बीच में है। F, E और A के बीच में है। Who is to the right of C?/C के दाहिने ओर कौन है?

(a) E (b) F
(c) B (d) A

MP Police Constable Exam 19 July 2016 - 9:am

Ans : (d) बैठने का क्रम निम्न होगा,

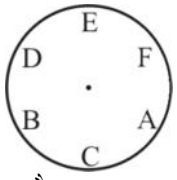

अतः C के दाहिने ओर A है।

68. Some boys are standing in a circle facing to the centre. Bhim is to the immediate left of Vijay. Rajesh is in between Bhim and Mahesh. Jivan is in between Vijay and Naren. Who is to the left of Mahesh?

कुछ लड़के एक वृत्त में केन्द्राभिमुख खड़े हैं। भीम, विजय के तुरंत बायीं ओर है। राजेश, भीम एवं महेश के मध्य में है। जीवन, विजय एवं नरेन के मध्य में है। महेश के बायीं ओर कौन है?

(a) Rajesh/राजेश (b) Naren/नरेन
(c) Vijay/विजय (d) Bhim/भीम

MP Police Constable Recruitment Test - 2013

Ans. (b) : वृत्ताकार केन्द्राभिमुख बैठने का क्रम निम्नवत् है-

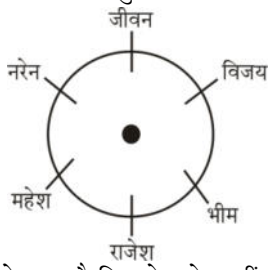

उपरोक्त आरेख से स्पष्ट है कि महेश के बायीं ओर नरेश है।

Direction (Q. Nos. 3 to 5) : Read the following informations and answer the questions:
निर्देश (प्रश्न सं. 3 से 5) : निम्नलिखित सूचनाओं को पढ़कर दिए गए प्रश्नों के उत्तर दीजिए :

(1) Six friends A, B, C, D, E and F are sitting in a closed circle facing the centre./छः दोस्त A, B, C, D, E तथा F एक बंद वृत्त में केन्द्राभिमुख बैठे हैं।
(2) E is to the left of D./E, D के बायीं तरफ है।
(3) C is between A and B./C, A व B के मध्य है।
(4) F is between E and A./F, E व A के मध्य है।

69. Who is to the left of C?
C के बायीं ओर कौन बैठा है?

(a) A (b) E
(c) D (d) B

MP Police Constable Recruitment Test - 2013

Ans. (d) : निर्देश के अनुसार केन्द्राभिमुख लड़कों का क्रम-

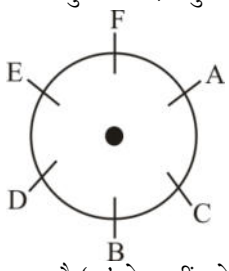

उपरोक्त आरेख से स्पष्ट है 'C' के बायीं ओर B बैठा है।

70. E is sitting between
E किनके मध्य बैठा है?

(a) D and F/ D तथा F
(b) F and C/ F तथा C
(c) C and D/ C तथा D
(d) A and B/ A तथा B

MP Police Constable Recruitment Test - 2013

Ans. (a) : उपरोक्त आरेख से स्पष्ट है कि E, D और F के मध्य बैठा है।

71. Who is sitting right to A?
A के दायीं ओर कौन बैठा है?

(a) D (b) F
(c) E (d) C

MP Police Constable Recruitment Test - 2013

Ans. (b) : उपरोक्त निर्देशानुसार वेन आरेख से स्पष्ट है कि A के दायीं ओर F है।

72. Six friends A, B, C, D, E and F are sitting in a closed circle facing the centre. E is to the left of D.C is between A and B. F is between E and A.

GET IT ON Google Play Best Study PDF के लिए हमारी App को Download करें "GK Trick By Nitin Gupta"

छह मित्र A, B, C, D, E और F केन्द्र की ओर मुख किए हुए बंद वृत्त में बैठे हैं। E, D के बायीं ओर है। C, A और B के बीच में है। F, E और A के बीच में है। Who is in the either side of A?/ A के दोनों ओर कौन है?

(a) D and E/ D और E (b) B and D/ B और D
(c) E and F/ E और F (d) C and F/ C और F

MP Police Constable Exam- 20 July-2016 - 9: am

Ans : (d) प्रश्नानुसार बैठने का क्रम निम्नवत् है–

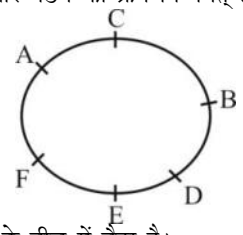

अतः A, C और F के बीच में बैठा है।

73. Four students Arvind, Bhasker, Chander and Dravid are sitting in row. Arvind is next to Chander, Dravid is not next to Bhasker, Chander is next to Bhasker. Which of the following is an acceptable arrangement? The first of the names are quoted below.
चार छात्र अरविन्द, भास्कर, चन्दर एवं द्रविड पंक्ति में बैठे है। अरविन्द, चन्दर के बगल में है, द्रविड, भास्कर के बगल में नहीं है, चन्दर, भास्कर के बगल में है। निम्नलिखित में कौन-सी व्यवस्था स्वीकार्य है? नाम के पहले अक्षर नीचे उद्धरित हैं

(a) ABCD (b) ACBD
(c) DACB (d) ACDB

MP Police Constable Exam- 18 July-2016 - 9: am

Ans : (c) प्रश्नानुसार,–
बैठने का क्रम निम्न है–
द्रविड, अरविन्द, चन्दर, भास्कर
अतः D, A, C, B इनका क्रम होगा।

Type-3: श्रृंखला पर आधारित क्रम व्यवस्था

74. A student writes five different positive number a1, a2, a3, a4 and a5 in a notebook.
(1) a4 is greater than a3 and smaller than a5.
(2) If the numbers are written in ascending order, a2 will be at first position and a1 will be at fourth position.
Which number will be in the middle, when the numbers are written in descending order?
एक विद्यार्थी एक कॉपी में पाँच भिन्न धनात्मक संख्याएँ a1, a2, a3, a4 और a5 लिखता है।
(1) a4, a3 से बड़ी और a5 से छोटी है।
(2) यदि संख्याओं को आरोही क्रम में लिखा जाता है, तो a2 पहले स्थान पर होगी और a1 चौथे स्थान पर होगी।
संख्याओं को अवरोही क्रम में लिखने पर बीच में कौन-सी संख्या होगी?

(a) a4 (b) a1
(c) a5 (d) a2

MP Police Constable Exam- 17 August-2023 Shift-2

Ans. (a) : प्रश्नानुसार,
(1) से- a3 < a4 < a5
(2) से- a2 < a3 < a4 < a1 < a5
अब संख्याओं को अवरोही क्रम में लिखने पर-
a5 > a1 > $\boxed{a4}$ > a3 > a2
अतः स्पष्ट है कि संख्याओं को अवरोही क्रम में लिखने पर बीच में संख्या 'a4' होगी।

75. The series given below contains a sequence of alphabets, numbers and symbols. Identify the incorrect combination :
नीचे दी गई श्रृंखला अक्षरों एवं संख्याओं का अनुक्रम प्रयोग करती है। गलत संयोजन पहचानिये।

(a) pjpd6jd5%d3w (b) pjpd6jd5%d3w
(c) pjpd6jd5%d3w (d) pjpd6id5%d3w

MP Police Constable Exam 17 July 2016 - 9:am

Ans : (d) अन्य सभी विकल्प में 6 के बाद J मौजूद है जबकि विकल्प (d) में 6 के बाद i दिया गया है अतः विकल्प (d) अन्य सभी से भिन्न है।

76. (I) There is a group of five persons A, B, C, D & E.
पाँच व्यक्तियों A, B, C, D और E का एक समूह है।
(II) One of them a horticulturist, one is a physicist, one is a journalist, one is an industrialist and one is an advocate.
उनमें से एक उद्यान विशेषज्ञ है, एक भौतिक शास्त्री है, एक पत्रकार है, एक उद्योगपति है और एक वकील है।
(III) Three of them A, C and Advocate prefer tea to coffee and two of them B and the journalist prefer coffee to tea.
इनमें से तीन A, C और वकील कॉफी के बजाय चाय पसंद करते हैं और दो, B और पत्रकार चाय के बजाय कॉफी पसंद करते हैं।
(IV) The industrialist, D and A are friends of one another but two of these prefer coffee to tea.
उद्योगपति, D और A एक दूसरे के मित्र हैं परंतु इनमें से दो चाय के बजाय कॉफी पसंद करते हैं।
(V) The horticulturist is C's brother.
उद्यान विशेषज्ञ C का भाई है।
Which of the following groups includes a person who likes tea but not an advocate?
निम्न में से कौन-से समूह में वह एक व्यक्ति है जिसे चाय पसंद है पर वह वकील नहीं है?

(a) DE (b) BD
(c) CE (d) AD

MP Police Constable Exam 17 July 2016 - 12:am

Ans. (d) उद्यान विशेषज्ञ A → चाय
भौतिक शास्त्री C → चाय
E वकील → चाय
उद्योगपति B → कॉफी
D पत्रकार → कॉफी
वह समूह AD है जिसमें एक व्यक्ति A जिसे चाय पसंद है और वह वकील नहीं है, बल्कि उद्यान विशेषज्ञ है।

77. Which of the following is definitely true according to the given equation?
दिए गए समीकरण के अनुसार निम्नलिखित में से कौन-सा निश्चित रूप से सत्य है?

GET IT ON Google Play Best Study PDF के लिए हमारी App को Download करें "GK Trick By Nitin Gupta"

$M \le L < D \ge E > Q$

(a) $D > Q$ (b) $M > D$
(c) $P = L$ (d) $D = E$

MP Police Constable Exam- 9 Sep-2023 Shift-2

Ans. (a) : दिया है-

$M \le L < D \ge E > Q$

विकल्प (a) से- $D > Q$ (सत्य)
विकल्प (b) से- $M > D$ (असत्य)
विकल्प (c) से- $P = L$ (असत्य)
विकल्प (d) से- $D = E$ (असत्य)
∴ विकल्प (a) सही उत्तर होगा।

Type-4: ऊंचाई/लम्बाई/वजन आदि पर आधारित क्रम व्यवस्था

78. There are 5 kids J, K, L, M and N standing in a line in a play-ground and each one of them has a different height.
(1) M is taller than L and shorter than N.
(2) When the kids stand in ascending order of heights:
K stands first and J stands fourth.
Who stands in the middle, when the kids stand in descending order?
खेल के मैदान में 5 बच्चे J, K, L, M और N एक पंक्ति में खड़े हैं और उनमें से प्रत्येक की ऊंचाई अलग-अलग है।
(1) M, L से लंबा है और N से छोटा है।
(2) जब बच्चे ऊंचाई के आरोही क्रम में खड़े हों:
जब बच्चे अवरोही क्रम में खड़े होते हैं तो बीच में कौन खड़ा होता है?

(a) M (b) N
(c) L (d) J

MP Police Constable Exam- 18 August-2023 Shift-3

Ans. (a) : बच्चों का अवरोही क्रम निम्नवत् है-

$N > J > M > L > K$

प्रश्नानुसार आरोही या अवरोही क्रम में व्यवस्थित करने पर मध्य में M बैठा है।

79. Srini is taller than Anu. Raghu is taller than Chandra but shorter than Brinda. Srini is shorter than Chandra. Who is the tallest?
श्रीनि, अनु से लंबा है। रधु चंद्रा से लंबा है लेकिन बृंदा से छोटा है। श्रीनि, चंद्रा से छोटा है। सबसे लम्बा कौन है?

(a) Srini /श्रीनि (b) Chandra /चंद्रा
(c) Raghu /रघु (d) Brinda /बृंदा

MP Police Constable Exam- 18 August-2023 Shift-3

Ans. (d) : लम्बाई का क्रम इस प्रकार है।

वृन्दा > रघु > चंद्रा > श्रीनि > अनु

अतः लम्बाई क्रम में व्यवस्थित करने पर स्पष्ट होता है कि सबसे लम्बी वृन्दा है।

80. Pankaj is taller than Vinod, who is shorter than Pramod. Usha is taller than Priyanka but shorter than Vinod. Pramod is shorter than Pankaj. Who is the tallest ?
पंकज, विनोद से लंबा है, जो प्रमोद से छोटा है। उषा प्रियंका से लम्बी है लेकिन विनोद से छोटी है। प्रमोद, पंकज से छोटा है। सबसे बड़ा कौन है ?

(a) Priyanka/प्रियंका (b) Pramod/प्रमोद
(c) Vinod/विनोद (d) Pankaj/पंकज

MP Police Constable Exam- 5 Sep -2023 Shift-1

Ans. (d) : सभी व्यक्तियों का लम्बाई के आधार पर क्रम इस प्रकार है–

पंकज > प्रमोद > विनोद > उषा > प्रियंका

अतः स्पष्ट है कि सबसे लम्बा पंकज है।

81. Arun runs faster than Elias, but slower than Dinesh. Dinesh runs faster than Chander, but slower than Bikram. Who runs fastest?
अरुण, एलियास की तुलना में तेज़ दौड़ता है, परन्तु दिनेश से तेज़ नहीं दौड़ता है। दिनेश, चन्दर कि तुलना में तेज़ दौड़ता है, परन्तु बिक्रम से तेज़ नहीं दौड़ता है। कौन सबसे तेज़ दौड़ता है?

(a) Arun /अरुण (b) Bikram /बिक्रम
(c) Chander /चन्दर (d) Dinesh /दिनेश

MP Police Constable Exam- 18 August-2023 Shift-1

Ans. (b) : तेज से धीरे दौड़ने का क्रम निम्नवत् है-

बिक्रम > दिनेश > चन्दर > अरुण > एलियास

अतः सबसे तेज विक्रम दौड़ता है।

82. Kathir is senior of Ganesh. Ganesh is senior than Apparu. Apparu is junior of Raju. Raju is junior of Ganesh. Who is the most senior?
काथिर, गणेश से वरिष्ठ है। गणेश, अप्पारु से वरिष्ठ है। अप्पारु राजू से कनिष्ठ है। राजू, गणेश से कनिष्ठ है। सबसे वरिष्ठ कौन है?

(a) Ganesh/गणेश (b) Kathir/काथिर
(c) Raju/राजू (d) Apparu/अप्पारु

MP Police Constable Exam- 19 August-2023 Shift-2

Ans. (b) : प्रश्नानुसार,

काथिर > गणेश > अप्पारु ————(i)
अप्पारु < राजू < गणेश ————(ii)
समी. (i) एवं (ii) से
काथिर > गणेश > राजू > अप्पारु
अतः उपर्युक्त से स्पष्ट है कि 'काथिर' सबसे वरिष्ठ है।

83. Five dresses A, B, C, D and E are kept in a boutique having different price tags. Dress A is the second most expensive dress. Dress E is costlier than only one dress. Neither dress B nor dress D is the cheapest. Dress B is costlier than dress D.Which dress is the cheapest ?
एक बुटीक में अलग-अलग मूल्य की पांच पोशाक A, B, C, D और E रखी गयीं हैं। पोशाक A दूसरी सबसे महंगी पोशाक है। पोशाक E केवल एक पोशाक की तुलना में महंगी है। ना तो पोशाक B और ना हैं पोशाक D सबसे सस्ती है। पोशाक D की तुलना में पोशाक B महंगी है। कौन-सी पोशाक सबसे सस्ती है?

(a) A (b) C
(c) E (d) D

MP Police Constable Exam- 2 Sep-2023 Shift-3

GET IT ON Google Play Best Study PDF के लिए हमारी App को Download करें "GK Trick By Nitin Gupta"

Ans. (b) : प्रश्नानुसार, पांच पोशाकों के मूल्य का बढ़ता क्रम निम्नवत् है–

B	A	D	E	C
1	2	3	4	5

सबसे मँहगी सबसे सस्ती

अतः उपर्युक्त से स्पष्ट है कि सबसे सस्ती पोशाक C है।

84. Faiza collected more mugs than Suraiya but less than Saifina. Roohi collected more mugs than Razia but less than Heena. Saifina collected less mugs than Razia. Who obtained the most mugs?

फ़ैज़ा ने सुरैया से अधिक लेकिन सैफीना से कम मग एकत्र किए। रूही रजिया से अधिक लेकिन हीना से कम मग एकत्र किए। सैफीना ने रजिया से कम मग एकत्र किए। सबसे अधिक मग किसने एकत्र किए?

(a) Roohi/रूही (b) Heena/हीना
(c) Saifina/सैफीना (d) Razia/रजिया

MP Police Constable Exam- 12 August-2023 Shift-2

Ans. (b) : प्रश्नानुसार मग एकगित करने का क्रम निम्नवत् है।
हीना > रूही > रजिया > सैफीना > फैजा > सुरैया
अतः स्पष्ट है कि, हीना ने सबसे अधिक मग एकत्र किये।

85. Karan is senior of Golu. Golu is senior of Ajay. Ajay is junior of Ravi. Ravi is junior of Golu. Who is the most senior?

करण गोलू का सीनियर है। गोलू, अजय का सीनियर है। अजय, रवि का कनिष्ठ है। रवि गोलू का जूनियर है। सबसे वरिष्ठ कौन है?

(a) Golu/गोलू (b) Ravi/रवि
(c) Karan/करण (d) Ajay/अजय

MP Police Constable Exam- 8 Sep-2023 Shift-2

Ans. (c) : कर्मचारियों की रैंक का क्रम निम्नवत् है-
करण > गोलू > रवि > अजय
अतः सबसे सीनियर 'करन' है।

86. Janvi rank is 18th from the top and 23 from the bottom in a class. How many students are there in the class?

एक कक्षा में जानवी की रैंक शीर्ष से 18वीं और नीचे से 23वीं है। कक्षा में कितने छात्र हैं?

(a) 42 (b) 38
(c) 40 (d) 35

MP Police Constable Exam- 13 August-2023 Shift-1

Ans. (c) : प्रश्नानुसार,
कक्षा में कुल छात्र = (शीर्ष से स्थान + नीचे से स्थान) – 1
= (18 + 23) – 1
= 40

87. R, G, S and T are friend. R is taller than S. S is taller than G who is smallest in the group. T is taller than S. Who is the tallest among all of them?

R, G, S और T मित्र हैं। R, S से लंबा है। S, G से लंबा है जो समूह में सबसे छोटा है। T, S से लंबा है। उन सभी में सबसे लंबा कौन है?

(a) R (b) G
(c) S (d) T

MP Police Constable Exam- 13 August-2023 Shift-2

Ans. (a) : प्रश्नानुसार, लम्बाई का क्रम निम्नवत् है-
R (सबसे लम्बा)
T
S
G (सबसे छोटा)
अतः समूह में R सबसे लम्बा है।

88. Nisha is taller than Suja. Nina is taller than Nisha. Nila is taller than Nina. Misha is the tallest of all. If they stand according to their height, who will be in the middle?

निशा, सुजा से लंबी है। नीना, निशा से लंबी है। नीला, नीना से लंबी है। मिशा सबसे लंबी है। यदि वे अपनी ऊँचाई के अनुसार खड़े होते हैं, तो बीच में कौन होगा?

(a) Nisha/निशा (b) Nina/नीना
(c) Suja/सुजा (d) Nila/नीला

MP Police Constable Exam- 16 August-2023 Shift-1

Ans. (b) : पाँचों सदस्यों की ऊँचाई का अवरोही क्रम-
मीशा → नीला → नीना → निशा → सुजा
अतः ऊँचाई के क्रम में बीज में नीना होगी।

89. M eats faster than N but eats slower than K. A eats slower than N. B eats faster than K. Who among them eats the fastest?

M, N से अधिक तेजी से खाता है, लेकिन K की तुलना में धीमा खाता है। A, N की तुलना में धीमा खाता है। B, K की तुलना में अधिक तेजी से खाता है। उनमें से कौन सबसे तेज खाता है?

(a) K (b) A
(c) B (d) Data inadequate/डाटा अपर्याप्त

MP Police Constable Exam- 16 August-2023 Shift-1

Ans. (c) : खाने का अवरोही क्रम निम्नवत् है-
B > K > M > N > A
उपरोक्त से स्पष्ट है कि 'B' सबसे तेज खाता है।

90. Six movies are telecast on six consecutive days of the week, starting from Monday. Rambo is telecast after Diago. Noorie is telecast between Diago and Akira. Blade is telecast immediately after Hungaama but before Akira. Which movie is telecast on the Friday?

सोमवार से शुरू होकर सप्ताह के लगातार छह दिनों में छह फिल्मों का प्रसारण किया जाता है। डियागो के बाद रेम्बो का प्रसारण होता है। नूरी का प्रसारण डियागो और अकीरा के बीच होता है। हंगामा के तुरंत बाद लेकिन अकीरा से पहले ब्लेड का प्रसारण किया जाता है। शुक्रवार को कौन-सी फिल्म का प्रसारण होता है?

(a) Diago /डियागो (b) Noorie /नूरी
(c) Blade /ब्लेड (d) Akira /अकीरा

MP Police Constable Exam- 16 August-2023 Shift-3

Ans. (a) : प्रश्नानुसार सम्बन्ध आरेख बनाने पर-
सोमवार – हंगामा
मंगलवार – ब्लेड
बुद्धवार – अकीरा
गुरुवार – नूरी
शुक्रवार – डियागो
शनिवार – रेम्बो

GET IT ON Google Play Best Study PDF के लिए हमारी App को Download करें "GK Trick By Nitin Gupta"

91. Sonu is taller than Yatendra, Amit is taller than Sonu. Subhash is taller than Amit. Sattu is tallest of all. If they stand according to their height who will be exactly in the middle?
सोनू, यतेंद्र के लम्बा है, अमित, सोनू से लम्बा है। सुभाष, अमित से लम्बा है। सत्तू सभी से लम्बा है। यदि वे अपनी लम्बाई के अनुसार खड़े होते है, तो ठीक मध्य में कौन होगा?

(a) Sonu/सोनू
(b) Subhash/सुभाष
(c) Yatendra/यतेंद्र (d) Amit/अमित

MP Police Constable Exam- 17 August-2023 Shift-2

Ans. (d) : सभी के लम्बाई के अनुसार खड़े होने का क्रम निम्न है-
सत्तू > सुभाष > अमित > सोनू > यतेंद्र
अतः स्पष्ट है कि ठीक मध्य में अमित खड़ा है।

92. Barman is taller than Sanjay. Aadarsh is taller than Barman. Krishna is not as tall as Aadarsh. Who is the tallest?
बर्मन, संजय से लंबा है। आदर्श, बर्मन से लंबा है। कृष्णा, आदर्श से लंबा नहीं है। सबसे लंबा कौन है?

(a) Barman/बर्मन (b) Aadarsh/आदर्श
(c) Krishna/कृष्णा (d) Sanjay/संजय

MP Police Constable Exam- 17 August-2023 Shift-2

Ans. (b) : सभी के लम्बाई का क्रम निम्न है-
आदर्श > कृष्णा > वर्मन > संजय
अतः स्पष्ट है कि आदर्श, सबसे लम्बा है।

93. Daksh is taller than Manik but not as tall as Rohan. Somesh is shorter than Daksh but taller than Farhan. Who among them is the shortest?
दक्ष, मानिक से लंबा है, लेकिन रोहन से लंबा नहीं है। सोमेश, दक्ष से छोटा है लेकिन फरहान से लंबा है। इनमें से कौन सबसे छोटा है?

(a) Daksh /दक्ष
(b) Manik /मानिक
(c) Farhan /फरहान
(d) Cannot be determined /ज्ञात नहीं किया जा सकता

MP Police Constable Exam- 16 August-2023 Shift-3

Ans. (d) : रोहन > दक्ष > मानिक
फरहान > दक्ष > सोमेश
उपर्युक्त सम्बन्ध से स्पष्ट है कि कोई सम्बन्ध ज्ञात नहीं किया जा सकता है।

94. Simi is older than Renu. Geeta is younger than Renu. Priya is older than Simi. Who is the eldest of them?
सिमी, रेनू से बड़ी है। गीता, रेनू से छोटी है, प्रिया, सिमी से बड़ी है। इनमें से सबसे बड़ा कौन है?

(a) Priya /प्रिया (b) Simi /सिमी
(c) Renu /रेनू (d) Geeta /गीता

MP Police Constable Exam- 16 August-2023 Shift-3

Ans. (a) : प्रश्नानुसार,
प्रिया > सिमी > रेनू > गीता
उपर्युक्त सम्बन्ध से स्पष्ट है कि प्रिया सबसे बड़ी है।

95. Circle is bigger than Square in size. Triangle is bigger than Circle in size. Rectangle is bigger than Triangle in size. Rhombus is biggest in size. If they draw according to their size in a row, who will be exactly in the middle?
वृत्त आकार में वर्ग से बड़ा है। त्रिभुज आकार में वृत्त से बड़ा है। आयत आकार में त्रिभुज से बड़ा है। समचतुर्भुज आकार में सबसे बड़ा है। यदि उन्हें एक पंक्ति में उनके आकार के अनुसार ड्रा किया जाता है, तो बीच में कौन होगा?

(a) Circle/वृत्त (b) Rectangle/आयत
(c) Square/वर्ग (d) Triangle/त्रिभुज

MP Police Constable Exam- 14 August-2023 Shift-3

Ans. (d) : प्रश्नानुसार, आकृतियों के आकार का क्रम निम्नवत् है-
समचतुर्भुज > आयत > त्रिभुज > वृत्त > वर्ग
अतः स्पष्ट है कि मध्य में 'त्रिभुज' है।

96. Gopal is older than Mohan but younger than Ram. Mohan is older than Sohan but younger than Ram. Who is the oldest?
गोपाल, मोहन से बड़ा किन्तु राम से छोटा है। मोहन, सोहन से बड़ा किन्तु राम से छोटा है। उम्र में सबसे बड़ा कौन है?

(a) Gopal/गोपाल (b) Mohan/मोहन
(c) Ram/राम (d) Sohan/सोहन

MP Police Constable Exam- 8 Sep-2023 Shift-1

Ans. (c) : बड़े से छोटे के क्रम में व्यवस्थित करने पर-
राम > गोपाल > मोहन > सोहन
अतः राम उम्र में सबसे बड़ा है।

97. There are six friends-Santu, Kaantu, Mintu, Akku, Rinku and Chintu. Santu is younger than Kaantu but elder than Rinku. Mintu is the eldest. Akku is a younger than Kaantu and elder than Santu. Rinku is elder than Chintu. Who is the youngest persons?
छह दोस्त हैं- संतू, कंटू, मिंटू, अक्कू, रिंकू और चिंटू। संतू, कंटू से छोटा है लेकिन रिंकू से बड़ा है। मिंटू सबसे बड़ा है। अक्कू कांटू से छोटा और संतू से बड़ा है। रिंकू चिंटू से बड़ा है। सबसे कम उम्र का व्यक्ति कौन है?

(a) Chintu/चिंटू (b) Rinku /रिंकू
(c) Kaantu /कांतू (d) Akku /अक्कू

MP Police Constable Exam- 13 August-2023 Shift-3

Ans. (a) : प्रश्नानुसार छः दोस्तों का बैठने का क्रम निम्नवत् है-
मिंटू > कंटू > अक्कू > संतू > रिंकू > चिंटू
उपर्युक्त हल से स्पष्ट है कि सबसे छोटा चिंटू हैं।

98. Umesh is taller than Satish, Suresh is shorter than Neeraj but taller than Umesh. Who is the tallest among them?
उमेश, सतीश की तुलना में लम्बा है, सुरेश, नीरज की तुलना में छोटा है परन्तु उमेश से लम्बा है। उनमें सबसे लम्बा कौन है?

(a) Umesh /उमेश (b) Suresh /सुरेश
(c) Satish /सतीश (d) Neeraj /नीरज

MP Police Constable Exam- 18 August-2023 Shift-2

GET IT ON Google Play Best Study PDF के लिए हमारी App को Download करें "GK Trick By Nitin Gupta"

Ans. (d) : प्रश्नानुसार, लम्बाई का क्रम निम्नवत् है-

→ नीरज (सबसे लम्बा)
→ सुरेश
→ उमेश
→ सतीश (सबसे छोटा)

अतः उपर्युक्त से स्पष्ट है कि नीरज सबसे लम्बा है।

99. Five friends A, B, C, D and E had following features:
None of them had the same height. D was the tallest amongst all and he was younger than E only. A was younger as well as shorter than exactly two of them. C was taller than exactly 3 of them. B was the shortest and also the youngest of all.
Who amongst them obtains the same position when we arrange them in ascending order of their heights and descending order of their weights?
पांच मित्रों A, B, C, D और E में निम्नलिखित विशेषताएं थीं:
उनमें से कोई भी एक ही लंबाई का नहीं था। D सबमें सबसे लंबा था और वह केवल E से छोटा था। A उनमें से दो की तुलना में छोटा था। C उनमें से 3 की तुलना में लंबा था। B सबसे यंग था और सबसे छोटा था।
जब हम उनको उनके लंबाईयों के बढ़ते क्रम और उनके वजन को अवरोही क्रम में व्यवस्थित करते हैं, तो उनमें से किसने एक ही स्थान प्राप्त किया?

(a) Only A/केवल A
(b) A and B/A और B
(c) Only B/केवल B
(d) A and C/A और C

MP Police Constable Exam- 18 August-2023 Shift-2

Ans. (b) : लम्बाई तथा वजन का अवरोही क्रम निम्नवत् है-

लम्बाई		वजन
1. D		1. E
2. C		2. D
3. A	⟷	3. A
4. E		4. C
5. B	⟷	5. B

उपरोक्त से स्पष्ट है कि A तथा B ने एक ही स्थान प्राप्त किया है।

100. Anil is taller than Sunny who is shorter than Baby. Anil is taller than Bose who is shorter than Sunny. Baby is shorter than Anil. Who is the shortest?
अनिल, सनी से लंबा है, जो बेबी से छोटा है। अनिल, बोस से लंबा है, जो सनी से छोटा है। बेबी, अनिल से छोटा है। सबसे छोटा कौन है?

(a) Anil/अनिल (b) Baby/बेबी
(c) Sunny/सनी (d) Bose/बोस

MP Police Constable Exam- 17 August-2023 Shift-3

Ans. (d) : प्रश्नानुसार, सभी को क्रम में रखने पर
अनिल > बेबी > सनी > बोस
उपर्युक्त क्रम से स्पष्ट है कि बोस सबसे छोटा है।
अतः विकल्प (d) सही उत्तर होगा।

101. Study the following information carefully to answer the question given below-
निम्नलिखित जानकारी का ध्यानपूर्वक अध्ययन कर नीचे दिये गये प्रश्न का उत्तर दीजिए।
Six students A, B, C, D, E and F are the top six rankers of the class. No two persons got the same rank. The student who got the highest marks is given rank 1 and the student who got the least marks is given rank 6. B got less marks than both C and F. A got more marks than E but less than D. B got the second least rank and F got the second highest rank, C got less marks than A.
Who got third lowest marks?
छः छात्र A, B, C, D, E, और F कक्षा के शीर्ष छः रैंक वाले हैं। किन्हीं दो व्यक्तियों को समान रैंक प्राप्त नहीं हुआ। सबसे अधिक अंक प्राप्त करने वाले छात्र को रैंक 1 दी जाती है और सबसे कम अंक प्राप्त करने वाले छात्र को रैंक 6 दी जाती है। B को C और F दोनों से कम अंक मिले हैं। A को E से अधिक लेकिन D से कम अंक मिले हैं। B को दूसरी सबसे कम रैंक मिली और F को दूसरी सबसे उच्चतम रैंक मिली, C को A से कम अंक मिले। तीसरे सबसे कम अंक किसको मिलते हैं?

(a) C (b) A
(c) E (d) B

MP Police Constable Exam- 1 Sep-2023 Shift-2

Ans. (a) : छः छात्रों का रैंक इस प्रकार है–
1. D
2. F
3. A
4. C
5. B
6. E

अतः उपर्युक्त रैंक से स्पष्ट है कि तीसरा सबसे कम अंक C को मिले हैं।

102. If Seshan is taller than Ammu but shorter than Raju and Ammu is just as tall as Nitin but taller than Kishore, then who is the tallest?
यदि सेशान अम्मू से लंबा है लेकिन राजू से छोटा है और अम्मू नितिन जितना लंबा है लेकिन किशोर से लंबा है, तो सबसे लंबा कौन है?

(a) Seshan/सेशान (b) Kishore/किशोर
(c) Ammu/अम्मू (d) Raju/राजू

MP Police Constable Exam- 20 August-2023 Shift-1

Ans. (d) : प्रश्नानुसार,
राजू > सेशान > अम्मू = नितिन > किशोर
अतः स्पष्ट है कि 'राजू' सबसे लम्बा है।

103. Usha is taller than Nisha, Nisha is taller than Asha, Alka is taller than Usha. Harsha is shorter than Asha, then who among them is the tallest?
उषा, निशा से लम्बी है, निशा आशा से लम्बी है, अलका उषा से लम्बी है। हर्ष, आशा से छोटी है, तो उनमें से कौन सबसे लंबा है?

(a) Usha /ऊषा (b) Alka /अल्का
(c) Nisha /निषा (d) Asha /आशा

GET IT ON Google Play Best Study PDF के लिए हमारी App को Download करें "GK Trick By Nitin Gupta"

Ans. (b) : प्रश्नानुसार,

अलका > उषा > निशा > आशा > हर्ष

∴ सबसे लंबी 'अलका' है।

विकल्प (b) सही है।

104. Q types faster than R but slower than V. T types faster than R. S types faster than V. Who amongst the five of them types the fastest?

Q, R से तीव्र गति से टाइप करता है लेकिन V से तीव्र नहीं। T, R से तीव्र गति से टाइप करता है। S, V से तीव्र गति से टाइप करता है। इन पांचों में से सबसे तीव्र गति से कौन टाइप करता है?

(a) V
(b) R
(c) Q
(d) Data inadequate /डाटा अपर्याप्त

MP Police Constable Exam- 19 August-2023 Shift-3

Ans. (d) : प्रश्नानुसार,

S > V ≥ Q > R

T > R

उपर्युक्त हल से स्पष्ट है कि प्रश्न का उत्तर देने के लिए डाटा अपर्याप्त है।

105. Six friends Abhay, Biru, Chandu, Dinu, Emran and Farhan, have different heights. Abhay is taller than only Chandu and Emran. Emran is shortest among all. Biru is shorter than Dinu but Dinu is not the tallest among them. Who is the tallest among them all?

छह दोस्त अभय, बीरू, चंदू, दीनू, इमरान और फरहान की ऊंचाई अलग-अलग है। अभय केवल चंदू और इमरान से लंबा है। इमरान उनमें सबसे छोटा है। बीरू दीनू से छोटा है लेकिन दीनू उनमें सबसे लंबा नहीं है। उन सभी में सबसे लंबा कौन है?

(a) Biru /बीरू
(b) Farhan /फरहान
(c) Chandu /चंदू
(d) Aabhay /अभय

MP Police Constable Exam- 19 August-2023 Shift-3

Ans. (b) : प्रश्नानुसार छः दोस्तों का ऊँचाई का क्रम निम्नवत् है-

अतः उपर्युक्त व्याख्या से स्पष्ट है कि 'फरहान' सबसे लंबा है।

106. Study the following information carefully to answer the question given below-

A building has seven floors numbered one to seven, in such a way that the ground floor is numbered one, the floor above it is numbered two and so on such that the topmost floor numbered seven. One out of seven people viz. K, N, D, S, P, Ar and A lives on each floor(not necessary in the same order). K lives on fourth floor. P lives on the floor immediately below Ar's floor. Ar does not live on the second or seventh floor. D does not live on an odd numbered floor. N does not live on floor immediately above or below D's floor. S does not live on the topmost floor. A does not live on any floor below P's floor.

S lives on which floor?

निम्नलिखित जानकारी का ध्यानपूर्वक अध्ययन कर नीचे दिए गये प्रश्न का उत्तर दीजिए?

एक बिल्डिंग में एक से लेकर सात तल हैं, यह इस प्रकार से हैं कि ग्राउंड फ्लोर, प्रथम तल और उसके बाद दूसरा तल और इसी प्रकार आखिरी तल सातवाँ तल होगा। सात तलों पर सात व्यक्ति K, N, D, S, P, Ar तथा A, प्रत्येक फ्लोर पर रहते हैं। (जरूरी नहीं इसी क्रम में)। K चौथे तल पर रहता है। P, Ar के तुरन्त नीचे तल पर रहता है। Ar, दूसरे या सातवें फ्लोर पर नहीं है। D किसी विषम तल पर नहीं हैं। N, D के तुरन्त ऊपर के तल या तुरन्त नीचे के तल पर नहीं हैं। S सबसे ऊपर के तल पर नहीं है। A, P से नीचे के किसी तल पर नहीं हैं।

S किस तल पर रहता है?

(a) 4th floor/चौथी मंजिल
(b) 5th floor/पांचवी मंजिल
(c) 6th floor/छठी मंजिल
(d) 3rd floor/तीसरी मंजिल

MP Police Constable Exam- 6 Sep-2023 Shift-2

Ans. (b) : सातों व्यक्तियों का प्रत्येक तल में रखने का क्रम-

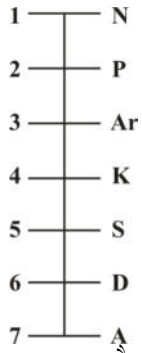

अतः 'S' 5वीं मंजिल पर रहता है।

107. Direction: Study the following information carefully and answer the questions given below. There are six-persons Ajeet, Bhanu, Chetan, Daya, Eknath, and Fareed with different weights. Ajeet is lighter than only one person. Chetan is heavier than Fareed but lighter than Daya. Eknath is heavier than Daya. Person Fareed is not the lightest one. The person who is the third lightest weighs 67 kgs. Who is heaviest among all?

निर्देशः निम्नलिखित जानकारी का ध्यानपूर्वक अध्ययन करें और नीचे दिए गए प्रश्नों के उत्तर दें।

अलग-अलग वजन वाले छह व्यक्ति अजीत, भानु, चेतन, दया, एकनाथ और फरीद हैं। अजीत केवल एक व्यक्ति से हल्का है। चेतन फरीद से भारी है लेकिन दया से हल्का है। एकनाथ दया से भारी हैं। फरीद सबसे हल्का नहीं है। जो व्यक्ति तीसरा सबसे हल्का है उसका वजन 67 किलोग्राम है। उनमें सबसे भारी कौन है?

GET IT ON Google Play Best Study PDF के लिए हमारी App को Download करें "GK Trick By Nitin Gupta"

(a) Daya/दया (b) Ajeet/अजीत
(c) Fareed/फरीद (d) Eknath/एकनाथ

MP Police Constable Exam- 20 August-2023 Shift-1

Ans. (d) : प्रश्नानुसार, छः व्यक्तियों के वजन का क्रम निम्नवत् है-
एकनाथ > अजीत > दया > चेतन > फरीद > भानु
अतः विकल्प के अनुसार सबसे भारी 'एकनाथ' है।

108. P, Q, R, S, T, V and W are seven members of the family. There are three female members. Each of them has a difference profession- Lawyer. Chartered Accountant (CA), Engineer, Teacher, Doctor, Architect and Pharmacist. No Lady is either a pharmacist or a chartered Accountant. Each of them has a different monthly income. The Chartered accountant earns the most. S, the engineer, earns less then V, the doctor. R, the teacher, earns more than P and less than S. W's wife earns the least. T is an unmarried lady Lawyer and she earns less than P and more than only Q. The pharmacist's income is not the lowest/
P, Q, R, S, T, V और W एक परिवार के सात सदस्य है, उनमें से तीन औरतें हैं। प्रत्येक का पेशा अलग है- वकील, सनदी लेखाकार (C.A), अभियंता, शिक्षक, डॉक्टर, शिल्पकार और औषध विक्रेता। एक भी औरत औषध विक्रेता या सनदी लेखाकार नहीं है। उनमें से हर एक की मासिक आय एक दूसरे से अलग है। सनदी लेखाकार की आय सबसे ज्यादा है। S अभियंता की आय V डाक्टर से कम है। R शिक्षक की आय P से ज्यादा और S से कम है। W की पत्नी की आय कम थी। T अविवाहित महिला वकील है और उसकी आय P से कम और केवल Q से ज्यादा है। औषध विक्रेता की आय सबसे निम्न नहीं है।
Who earns the least?
सबसे कम आय किसकी है?

(a) P (b) Q
(c) P or Q (d) R

MP Police Constable Exam 23 July 2016 - 9:am

Ans : (b) प्रश्न से, ऊपर से नीचे की ओर आयों का घटता क्रम-
W → सनदी लेखाकार
V → डाक्टर
S → अभियन्ता
R → शिक्षक
P → औषध विक्रेता
T → वकील
Q → शिल्पकार (W की पत्नी)
अतः सबसे कम आय Q की है।

109. M, N, R and T run in a race. M finished the race immediately after N but no one finished the race after M. R finished the race before of N but could not finished before of T. Who is the second winner?
M, N, R और T एक दौड़ में दौड़ते हैं। M ने N के तुरंत बाद दौड़ पूरी की लेकिन M के बाद किसी ने दौड़ पूरी नहीं की। R ने N से पहले दौड़ पूरी की लेकिन T से पहले दौड़ पूरी नहीं कर सका। दूसरा विजेता कौन है?

(a) R (b) M
(c) N (d) T

MP Police Constable Exam- 14 August-2023 Shift-2

Ans. (a) : दौड़ पूरी करने का क्रम निम्नलिखित हैं।

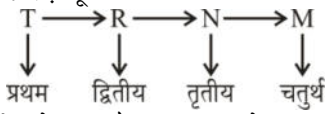

अतः उपर्युक्त से स्पष्ट है कि दूसरा विजेता 'R' है।

110. N runs faster than P, R is slower than L and N is faster than G. Who is the slowest?
P से तेज N दौड़ता है, L से धीमा R एवं G से तेज N दौड़ता है। सबसे धीमा कौन है?

(a) P
(b) R
(c) G
(d) Cannot be determined
निर्धारित नहीं किया जा सकता।

MP Police Constable Exam 23 July 2016 - 9:am

Ans. (d) N > P, L > R, N > G
सबसे धीमा कौन है, इसका निर्धारण नहीं किया जा सकता।

111. There are five children – A, B, C, D and E. A is heavier than B and C. D is heavier than C but lighter than E. E is lighter than B. Which of the following is the correct arrangement children in increasing order of their weights?
A, B, C, D और E पांच बच्चे हैं। A, B और C से भारी है। D, C से भारी है लेकिन E से हल्का है। बच्चों के वजन के बढ़ते क्रम में निम्नलिखित में से कौन-सी सही व्यवस्था है, E, B से हल्का है।

(a) C, D, E, A, B (b) A, B, E, D, C
(c) A, E, B, C, D (d) C, D, E, B, A

MP Police Constable Exam- 09 Feb-2022 Shift-1

Ans. (d) :
A > B/C
E > D > C
B > E
प्रश्नानुसार बच्चों के वजन के क्रम में बढ़ने की सही व्यवस्था निम्न प्रकार है -
⇒ C < D < E < B < A

112. Vikas is taller than Sham but shorter than Umesh. Umesh is taller than Rajat but shorter than Ganesh. If Shyam is taller than Rajat who is the shortest among all?
विकास श्याम से लंबा है पर उमेश से नाटा है। उमेश रजत से लंबा है पर गणेश से नाटा है। अगर श्याम रजत से लंबा है तो इनमें से सबसे नाटा कौन है?

(a) Ganesh/गणेश (b) Umesh/उमेश
(c) Rajat/रजत (d) Vikas/विकास

MP Police Constable Exam- 8 Jan-2022 Shift-2

Ans : (c) बाएं से दाएं लम्बाई का घटता क्रम निम्नवत् है–
गणेश > उमेश > विकास > श्याम > रजत
अतः सबसे नाटा रजत है।

113. Five wrestlers A, B, C, D and E are weighed. E is between D and A who is the 3rd. Neither C nor D is the heaviest. Who is the second heaviest?

GET IT ON Google Play Best Study PDF के लिए हमारी App को Download करें "GK Trick By Nitin Gupta"

5 पहलवानों A, B, C, D एवं E का वजन किया जाता है। E, D एवं A के बीच है जो कि तीसरे स्थान पर है। ना ही C अथवा D सबसे वजनी है। दूसरा सबसे वजनी कौन है?

(a) E (b) C
(c) B (d) D

MP Police Constable Exam- 26 July-2016 - 9: am

Ans : (b) प्रश्नानुसार,
B > C > A > E > D
अतः दूसरे सबसे वजनी C है।

114. A, B, C, D, E and F are cousins, No two cousins are of the same age, but all have birthdays on the same date. The youngest is 17 years old the oldest E is 22. F is somewhere between B and D in age. A is older than B. C is older than D.
A, B, C, D, E और F चचेरे भाई हैं, कोई भी दो चचेरे भाइयों की आयु एक समान नहीं है, किंतु सभी के जन्म दिन की तारीख एक ही है। छोटे की आयु 17 वर्ष है और बड़े E की आयु 22। F की आयु B और D के मध्य है। A, B से बड़ा है। C, D से बड़ा है।
Which of the following could be the ages of D and C respectively, if B is 17 years old?
निम्न में D और C की आयु क्या हो सकती है, अगर B 17 साल का है?

(a) 18 and 19/18 और 19
(b) 19 and 21/19 और 21
(c) 18 and 20/18 और 20
(d) 18 and 21/18 और 21

MP Police Constable Exam- 26 July-2016 - 9: am

Ans : (b) प्रश्नानुसार,
आयु का घटता क्रम

व्यक्ति	उर्म
E –	22 वर्ष
C–	21 वर्ष
A–	20 वर्ष
D–	19 वर्ष
F–	18 वर्ष
B–	17 वर्ष

अतः D और C का उम्र = 19, 21 वर्ष

115. From amongst six boys A, B, C, D, E and F and five girls P, Q, R, S and T, a team of six is to be selected under the following conditions
छः लड़कों A, B, C, D, E और F में से और P, Q, R, S और T पाँच लड़कियों में से, छः जनों की टीम का निम्न शर्तों पर चयन किया जाना है:

- A and D have to be together
- A और D साथ में रहने चाहिए
- B can't be teamed with E
- B टीम में E के साथ नहीं हो सकता
- C and Q have to be together
- C और Q साथ में होने चाहिए
- D can't go with P
- P के साथ D नहीं जा सकता
- C can't go with S
- S के साथ C नहीं जा सकता
- B and R have to be together
- B और R साथ में होने चाहिए
- S and T have to be together
- S और T साथ में होने चाहिए

If four members including E have to be boys, the members other than E are:
अगर E को मिलाकर चार सदस्य लड़के हैं, तो E के अतिरिक्त अन्य सदस्य होंगे:

(a) ABCQR (b) ACDFQ
(c) ADFST (d) BCFQR

MP Police Constable Exam- 26 July-2016 - 9: am

Ans : (c) प्रश्नानुसार,
दो ग्रुप बनेगा।
ग्रुप I– E A D S T F
ग्रुप II– B C Q P R
अतः E के अलावा उसके ग्रुप में ADFST है।

116. A gets more marks than B but less than C. D gets less marks than E but more than A. If C gets less than D then who amongst A, B, C, D, E gets the highest marks?
A, B से अधिक किन्तु C से कम अंक प्राप्त करता हैं। D, E से कम किन्तु A से अधिक अंक प्राप्त करता है। यदि C, D से कम अंक प्राप्त करता है, तो यह बताइए कि A, B, C, D, E में सबसे अधिक अंक कौन प्राप्त करता है?

(a) C (b) D
(c) E (d) B

MP Police Constable Exam- 10 Jan -2022 Shift-2

Ans. (c) : प्रश्नानुसार, प्राप्तांकों का घटता क्रम निम्नवत् है–
E > D > C > A > B
अतः स्पष्ट है कि सबसे अधिक अंक E प्राप्त करता है।

117. Direction: On the shelf are placed six volumes side by side lebeled A, B, C, D, E and F. Three volumes C, B and E have blue covers while the rest have red covers. D and F are new volumes while the rest are old volumes. A, C and D are law reports while the rest are gazetteers.
निर्देशः किसी शेल्फ पर छह ग्रंथों को A, B, C, D, E और F में अंकित कर एक दूसरे के पास रखा गया है। इनमें से तीन ग्रंथ C, B और E पर नीला आवरण है जबकि शेष पर लाल आवरण है। D और F नए ग्रंथ है, जबकि शेष पुराने हैं। A, C और D कानून के विवरण हैं, जब कि शेष विवरणिका हैं।
Which volume is new, red covered and a gazetteer ?
इनमें कौन-सा ग्रंथ नया, लाल आवरण वाला और एक विवरणिका है?

(a) D (b) F
(c) B (d) E

MP Police Constable Exam- 26 July-2016 - 9: am

GET IT ON Google Play Best Study PDF के लिए हमारी App को Download करें "GK Trick By Nitin Gupta"

Ans : (b)		
A–लाल	पुराने	कानून का विवरण
B–नीला	पुराने	विवरणिका
C–नीला	पुराने	कानून का विवरण
D–लाल	नये	कानून का विवरण
E–नीला	पुराने	विवरणिका
F–लाल	नये	विवरणिका
अतः F नया लाल आवरण वाला और एक विवरणिका है। या		
A–लाल		
D–लाल नया		
F–लाल नया विवरणिका		

118. There are five friends, S, K, M, A and R. S is shorter than K but taller than R. M is the tallest. A is a little shorter than K and little taller than S. Who has two persons taller and two persons shorter than him?
पाँच मित्र S, K, M, A और R हैं। S, K से छोटा है लेकिन R से लंबा है। M सबसे लंबा है। A, K से थोड़ा छोटा है और S से थोड़ा लंबा है। किस व्यक्ति से दो व्यक्ति लम्बे और दो व्यक्ति छोटे हैं?

(a) R (b) S
(c) K (d) A

MP Police Constable Exam- 16 August-2023 Shift-2

Ans. (d) : लम्बाई का अवरोही क्रम निम्नवत् है-
M > K > A > S > R
उपरोक्त से स्पष्ट है कि 'A' से दो व्यक्ति लम्बे (M तथा K) तथा दो व्यक्ति छोटे (S तथा R) हैं।

119. Five students participated in the scholarship examination. Sudha scored higher than Pooja. Kavita scored lower than Suma but higher than Sudha. Mamta scored between Pooja and Sudha. Who scored lowest in the examination?
छात्रवृत्ति परीक्षा में पांच विद्यार्थियों ने भाग लिया। सुधा ने पूजा से अधिक अंक प्राप्त किये। कविता ने सुमा से कम लेकिन सुधा से अधिक अंक प्राप्त किये। ममता ने पूजा और सुधा के बीच अंक प्राप्त किये। परीक्षा में सबसे कम अंक किसने प्राप्त किये?

(a) Kavita /कविता (b) Pooja /पूजा
(c) Mamta /ममता (d) Sudha /सुधा

MP Police Constable Exam- 16 August-2023 Shift-2

Ans. (b) : विद्यार्थियों के अंकों का अवरोही क्रम-
सुमा > कविता > सुधा > ममता > पूजा
अतः परीक्षा में सबसे कम अंक पूजा में अर्जित किया।

120. Gopal is elder to Mohan, but younger to Ram. Mohan is elder to Sohan, but younger to Ram. Who is the eldest?
गोपाल, मोहन से बड़ा है, परन्तु राम से छोटा है। मोहन, सोहन से बड़ा है, परन्तु राम से छोटा है। कौन सबसे बड़ा है?

(a) Gopal /गोपाल (b) Mohan /मोहन
(c) Ram /राम (d) Sohan /सोहन

MP Police Constable Exam- 20 August-2023 Shift-2

Ans. (c) : प्रश्नानुसार लम्बाई का क्रम निम्नवत् है-
सबसे बड़ा → राम
→ गोपाल
→ मोहन
सबसे छोटा → सोहन
अतः उपर्युक्त से स्पष्ट है कि राम सबसे बड़ा है।

121. Ansari is richer than Bindu. Clavin is richer than Ansari. Daya is richer than Clavin. Elan is poorest of all. Who is in the middle position in the order of richness?/अंसारी, बिंदु से ज्यादा अमीर है। क्लेविन, अंसारी से ज्यादा अमीर है। दया, क्लेविन से ज्यादा अमीर है। इलान इन सबसे गरीब है। अमीरी के इस क्रम में किसकी स्थिति बीच की है?

(a) Ansari /अंसारी (b) Bindu /बिंदु
(c) Elan /इलान (d) Daya /दया

MP Police Constable Exam- 20 August-2023 Shift-2

Ans. (a) : प्रश्नानुसार, अमीरी का क्रम निम्नवत् है-
→ दया (सबसे अमीर)
→ क्लेविन
→ अंसारी
→ बिंदु
→ इलान (सबसे गरीब)
अतः उपर्युक्त से स्पष्ट है कि अंसारी की स्थिति बीच में है।

122. In column I are listed certain groups of individuals while in column II are listed some of the characteristics against each group of individuals which are common to each member of that group./स्तम्भ I विशिष्ट व्यक्तिगत समूहों को सूचित करता है, जब कि स्तम्भ II हर व्यक्तियों के समूह कुछ विशेषताओं को सूचित करता है जो उस समूह के हर एक सदस्य के लिए सामान्य है।

Column I	Column II
FHIJ	TW
IJK	PT
IJLM	SUW
GHIKM	RY
GHI	QRV
FGI	PR
HIJ	QTW
IJL	QSUM
GIJ	PQS

Which characteristics are found either in J or in K or in both but not in M?/कौन सी विशेषताएँ पायी जाती हैं J या K में या दोनों में, परन्तु M में नहीं?

(a) P,Q,T (b) P,Q,R,S
(c) Q,R,S,T (d) U,V,T

MP Police Constable Exam- 20 July-2016 - 9: am

Ans : (a)	
	विशेषता
J	T, W,P,S,U,Q,M
K	P,T,R,Y
M	S, U, W, R, Y
अतः वे विशेषताएँ जो J या K में या दोनों में पायी जाती हैं परन्तु M में नहीं = P, Q, T, M अतः P,Q,T सही है।	

GET IT ON Google Play Best Study PDF के लिए हमारी App को Download करें "GK Trick By Nitin Gupta"

123. Five members A, B, C, D, and E of a family read a religious book in a definite order;
एक परिवार के पाँच सदस्य A, B, C, D एवं E एक निश्चित क्रम में एक धार्मिक पुस्तक पढ़ते हैं:

- First C gave to D after reading the religious Book
  पहले C ने वो धार्मिक पुस्तक पढ़ने के बाद D को दी
- After D, A read who was just previous reader to E
  D के बाद, A ने पढ़ा जो कि E से ठीक पिछला पाठक था
- B is the last member to read
  B सबसे अंतिम सदस्य जिसने पढ़ा

Who were two continuous readers between C and E?
C एवं E के मध्य कौन-से दो निरंतर पाठक थे?

(a) D and A/D एवं A (b) C and B/C एवं B
(c) A and E/A एवं E (d) B and D/B एवं D

MP Police Constable Exam- 18 July-2016 - 9: am

Ans : (a) प्रश्नानुसार,
धार्मिक पुस्तक पढ़ने का क्रम निम्न है–
C, D, A, E, B
अतः C एवं E के मध्य A एवं D ने पढ़ा है।

124. Six persons A, B, C, D, E and F were playing a card game. A's father, mother and uncle were in the group. There were two females. B, the mother of A got more points than her husband. D got more points in the game than E but less than F. Niece of E got the lowest points. Father of A got more points than F but still could not win the game.
छह व्यक्ति A, B, C, D, E और F एक ताश का खेल खेल रहे थे। समूह में A के पिता, माता और चाचा थे। दो महिलाएँ थीं। B, जो A की माता है को अपने पति से दो अंक अधिक प्राप्त हुए। खेल में D को E से अधिक पर F से कम अंक प्राप्त हुए। E की भांजी को सबसे कम अंक प्राप्त हुए। A के पिता को F से अधिक अंक प्राप्त हुए पर फिर भी वह खेल नहीं जीत पाये।
Who won the game?/ खेल में कौन जीता?

(a) A (b) B
(c) C (d) D

MP Police Constable Exam- 20 July-2016 - 9: am

Ans : (b) तास के खेल में अंक प्राप्ति का घटता क्रम =
B > C > F > D > E > A
अतः खेल में A की माता B विजेता हुई।

125. At an Electronic Data processing unit, five out of the eight program sets P, Q, R, S, T, U, V and W are to be operated daily. On any one day, except for the first day of a month, only three of the program sets must be the ones that were operated on the previous day. The program operating must also satisfy the following conditions:
एक इलेक्ट्रानिक डेटा संसाधन इकाई पर, P, Q, R, S, T, U,V और W आठ में से पाँच कार्यक्रमों को हर दिन चलाने का निर्धारण किया। महीने के पहले दिन छोड़कर किसी भी एक दिन, केवल तीन कार्यक्रम ऐसे होने चाहिए जो पिछले दिन चलाए गए। प्रचालन प्रोग्राम निम्न शर्तों के अनुसार होना चाहिए।

1. If program P is to be operated on a day, V can't be operated on that day.
   अगर P कार्यक्रम किसी दिन चलाया जाएगा, तो उस दिन V को चलाया नहीं जा सकता।
2. If Q is to be operated on a day, T must be one of the programs to be operated after Q.
   अगर Q कार्यक्रम किसी दिन चलाया जाएगा, T कार्यक्रमों में से एक होना चाहिए, जो Q के बाद चलाया जाना चाहिए।
3. If R is to be operated on a day, T must be one of the programs to be operated after Q.
   अगर R कार्यक्रम किसी दिन चलाया जाएगा, V कार्यक्रमों से एक होना चाहिए, जो R के बाद चलाया जाना चाहिए।
4. The last program to be operated on any day must be either S or U.
   अंतिम कार्यक्रम जो किसी दिन चलाया जाएगा, वह S या U में से एक होना चाहिए।

If the sequence of program sets operated on a day is P, Q, W, T, U, each of the following could be the next day's program sets except.
अगर दिन में कार्यक्रमों को चलाने का क्रम P, Q, W, T, U तय हो गया तो, निम्न में हर एक कार्यक्रम दूसरे दिन का कार्यक्रम हो सकता है इसके अतिरिक्त।

(a) W, T, U, V, S (b) W, T, S, P, U
(c) W, R, V, T, U (d) Q. T, V, W, S

MP Police Constable Exam- 20 July-2016 - 9: am

Ans : (b) चूँकि महीने के प्रथम दिन को छोड़कर किसी भी एक दिन केवल तीन कार्यक्रम ऐसे होने चाहिए जो कि पिछले दिन चलाए गए। जबकि विकल्प (b) में W,T,P,U चार कार्यक्रम है।
अतः W,T,S,P,U दूसरे दिन का कार्यक्रम नहीं हो सकता।

126. A farmer grows 3 crops in rotation-Rice, wheat and Jowar, Rice is grown between the months June-Nov, wheat between Feb-July and Jowar between Oct-March. Each crop takes 3 months from sowing to harvesting. At a time only one corp can be grown.
एक किसान नियमित आवतर्न में 3 फसलें लगाता है- चावल, गेहूं और ज्वार। चावल जून-नवंबर महीने के बीच, फरवरी और जुलाई के बीच गेहूं, अक्टूबर-मार्च के बीच ज्वार उगाई जाती है। प्रत्येक फसल में बुवाई से कटाई के लिए 3 महीने लगते हैं। एक समय में केवल एक फसल उगाई जा सकती है।
If Rice is sown in September, when can be sown next?
यदि चावल सिंतबर में बोया जाता है, तो अगली बार कब बोया जा सकता है?

(a) January next year/ अगले साल जनवरी में
(b) June next year/ अगले साल जून में
(c) March next year/ अगले साल मार्च में
(d) April next years/ अगले साल अप्रैल में

MP Police Constable Exam 25 July 2016 - 9:am

GET IT ON Google Play Best Study PDF के लिए हमारी App को Download करें "GK Trick By Nitin Gupta"

Ans : (b) चूंकि एक फसल की बुवाई से कटाई तक 3 महीने का समय लगता है।

फसल	समय
चावल	सितम्बर–नवम्बर
गेहूँ	दिसम्बर–फरवरी
ज्वार	मार्च– मई
चावल	जून–अगस्त

अतः अगली बार चावल अगले साल जून में बोया जायेगा।

127. Sushil's room is at left from my room and Puneet's room is at my right. If Pankaj lives in front of me, then Puneet is at……..of Pankaj.
सुशील का कमरा मेरे कमरे से बाएं तरफ है और पुनीत का कमरा मेरी दाहिने तरफ है। यदि पंकज मेरे सामने रहता है तो पुनीत पंकज.....के तरफ है।

(a) Left/ बाएं (b) Front/ सामने
(c) Right/ दाहिने (d) Back/ पीछे

MP Police Constable Exam 25 July 2016 - 9:am

Ans : (a)

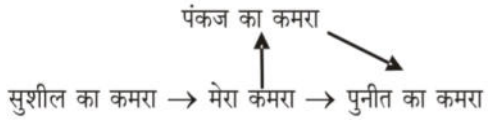

सुशील का कमरा → मेरा कमरा → पुनीत का कमरा
अतः पुनीत का कमरा पंकज के कमरे के बायें तरफ है।

128. A pediatrician is monitoring the growth of 7 children- A, B, C, D, E, F and G who were all born on the same day at approximately the same time. He has made the following observations :
एक बालरोग विशेषज्ञ 7 बच्चों के विकास का अनुवीक्षण कर रहा है- A, B, C, D, E, F और G जो लगभग एक समय पर एक ही दिन पैदा हुए थे। उसने निम्न प्रेक्षण किया :

- **No two children have the same height.**
  कोई दो बच्चों की समान ऊंचाई नहीं है।
- **E is taller than G while is G is taller than C.**
  E, G से लम्बा है जबकि G, C से लम्बा है।
- **C is taller than B while F is taller than G.**
  C, B से लम्बा है जबकि F, G से लम्बा है।
- **D is taller than F. D, F से लम्बा है।**

Which of the following must be true if F is taller than G?
निम्न में से कौन-से सत्य होने चाहिये यदि F, G से लम्बा है?

(a) G is taller than D./G, D से लम्बा है
(b) E is taller than A./E, A से लम्बा है
(c) D is taller than C./D, C से लम्बा है
(d) D is taller than A./D, A से लम्बा है

MP Police Constable Exam 17 July 2016 - 9:am

Ans : (c) प्रश्नानुसार, बच्चों को क्रमानुसार रखने पर
E > D > F > G > C > B
अतः D, C से लम्बा है।

129. A, B, C, D and E are five rivers. A is shorter than B but longer than E. C is the longest and D is a little shorter than B and a little longer than A, which is the largest river?
A, B, C, D और E पाँच नदियां हैं। A, B से छोटी है पर E से लंबी है। C सबसे लंबी है और D, B से थोड़ी छोटी है और A से थोड़ी लंबी है। सबसे बड़ी नदी कौन सी है?

(a) B (b) C
(c) D (d) E

MP Police Constable Exam 25 July 2016 - 9:am

Ans : (b) C > B > D > A > E
अतः सबसे बड़ी नदी C है।

130. Branches of five banks A,B,C,D and E are as follows:
A,B,C,D और E पाँच बैंकों की शाखाएं निम्न हैं-

(1) A, B and C are in Indore and Bhopal.
A, B और C इंदौर एवं भोपाल में हैं।
(2) A, B and E are in Indore and Gwalior
A, B और E इंदौर एवं ग्वालियर में हैं।
(3) B, C and D are in Raipur and Bhopal.
B, C और D रायपुर एवं भोपाल में हैं।
(4) A, E and D are in Gwalior and Jabalpur
A, E और D ग्वालियर एवं जबलपुर में हैं।
(5) C, E and D are in Raipur and Jabalpur
C, E और D रायपुर एवं जबलपुर में हैं।

Branch of which bank is in Raipur and Indore but NOT in Bhopal?/किस बैंक की शाखा रायपुर और इंदौर में है पर भोपाल में नहीं?

(a) D (b) A
(c) E (d) C

MP Police Constable Exam- 1 August-2016, 3:pm

Ans : (c)

बैंक की शाखा	इंदौर	भोपाल	ग्वालियर	रायपुर	जबलपुर
A	✓	✓	✓	×	✓
B	✓	✓	✓	✓	×
C	✓	✓	×	✓	✓
D	×	✓	✓	✓	✓
E	✓	×	✓	✓	✓

से स्पष्ट है कि, बैंक E की शाखा इंदौर में तो है लेकिन भोपाल में नहीं है।

131. Anitha, Mahima, Rajan, Latha and Deepti are five cousins. Anitha is twice as old as Mahima. Rajan is half the age of Mahima. Anitha is half the age of Deepti and Rajan is twice the age of Latha.
अनिथा, महिमा, राजन, लथा और दीप्ती पाँच चचेरी बहनें हैं। अनिथा, महिमा से उम्र में दुगुनी बड़ी है। राजन की उम्र महिमा से आधी है। अनिथा की उम्र दीप्ती से आधी है और राजन की उम्र लता से दुगुनी है।
Anitha is younger than/अनिथा किससे छोटी है?

(a) Rajan/राजन
(b) Mahima/महिमा
(c) Deepti/दीप्ती
(d) None of these/इनमें से कोई नहीं

MP Police Constable Exam 24 July 2016 - 9:am

GET IT ON Google Play Best Study PDF के लिए हमारी App को Download करें "GK Trick By Nitin Gupta"

Ans : (c) उम्र के आधार पर क्रम (छोटे से बड़े के क्रम में) निम्नवत् है।
दीप्ती > अनिथा > महिमा > राजन > लता
अतः अनिथा, दीप्ती से छोटी है।

132. Among five friends, Mohan is older than Raju but not as old as Lalit. Lalit is older than Neelesh and Kabir. Neelesh is younger than Raju but not the youngest. Who is the youth in the descending order of age?
पाँच मित्रों में, मोहन राजू से बड़ा है पर ललित जितना बड़ा नहीं। ललित, नीलेश और कबीर से बड़ा है। नीलेश, राजू से छोटा है पर सबसे छोटा नहीं। उम्र के अवरोही क्रम में कौन युवा है?

(a) Mohan/मोहन
(b) Raju/राजू
(c) None of these/इनमें से कोई नहीं
(d) Can't be determined/निर्धारित नहीं किया जा सकता

MP Police Constable Exam 24 July 2016 - 9:am

Ans : (c) उम्र का अवरोही क्रम निम्नवत् है–
ललित > मोहन > राजू > नीलेश > कबीर
अतः इन सब में सबसे युवा कबीर है।

133. A sales representative plans to visit each of six companies M, N, P, Q, R and S exactly once during the course of one day. She is setting up her schedule for the day according to the following conditions:
एक विक्रेता प्रतिनिधि ने योजना बनाई की वह M, N, P, Q, R और छः कंपनियों में हर एक कंपनी में दिन के क्रियाविधि में एक बार जायेगा। उसने उसका दिन का कार्यक्रम तय किया। निम्न शर्तों के अनुसारः

(i) She must visit M before N.
उसे N से पहले M से मिलना चाहिए।
(ii) She must visit N before Q.
उसे Q से पहले N से मिलना चाहिए।
(iii) The third company she visits must be P.
तीसरी कंपनी जिसमें वह जाती है P होनी चाहिए।

If the sale representative visits S first, which company must she visit second?
अगर विक्रेता प्रतिनिधि पहले में S जाता है, तो कौन सी कंपनी में वह दूसरी बार जायेगा?

(a) M (b) N
(c) P (d) Q

MP Police Constable Exam 17 July 2016 - 12:am

Ans. (a) यदि विक्रेता प्रतिनिधि पहले S में जाता है, तब विक्रेता प्रतिनिधि का कम्पनियों में जाने का क्रम – S, M, P, N, Q, R अतः M कंपनी में वह दूसरी बार जायेगा।

134. Hari is two months younger to sita while Babu is three months younger to Anita. When Seela was born Babu was two months old. Anita belongs to the age group of five, while Hari belongs to the age group of six. Who among the following is the oldest?
हरी सीता से दो महीने छोटा है जबकि बाबू अनीता से तीन महीने छोटा है। जब शीला का जन्म हुआ था तब बाबू दो महीने का था। अनीता पाँच वर्ष के उम्र समूह के अतंर्गत आती है, जबकि हरी छह वर्ष के उम्र समूह के अंतर्गत आता है। निम्न में से सबसे बड़ा कौन है?

(a) Babu/बाबू (b) Sita/सीता
(c) Anita/अनिता (d) Sheela/शीला

MP Police Constable Exam- 26 July-2016 - 9: am

Ans : (b) प्रश्नानुसार,
हरी < सीता ..... (i)
शीला < बाबू ..... (ii)
बाबू < अनिता ..... (iii)
समी. (i), (ii) और तीन को एक साथ रखने पर
∵ अनीता 5 वर्ष के अन्तर्गत तथा हरि 6 वर्ष के अन्तर्गत आता है।
शीला < बाबू < अनिता < हरि < सीता
अतः सबसे बड़ी सीता है।

Type-5: अक्षरों/शब्दों पर आधारित क्रम व्यवस्था

135. The jumbled letters of words are given below. Each letter has been numbered. Choose the option which gives the correct order of the letters as indicated by the numbers to form meaningful word
शब्दों के व्यवस्थित अक्षर नीचे दिये गये हैं। प्रत्येक अक्षर को संख्याकित किया गया है। वह विकल्प चुनिये जो सार्थक शब्द की रचना के लिए संख्याओं के रूप में अक्षरों का सही क्रम देता है।

V A R S T E
1 2 3 4 5 6

(a) 2,3,1,6,4,5 (b) 3,2,4,5,6,1
(c) 4,5,2,3,1,6 (d) 6,3,4,5,2,1

MP Police Constable Exam 19 July 2016 - 9:am

Ans : (c) प्रश्नानुसार,
सार्थक शब्द S T A R V E — भूखों मरना
4 5 2 3 1 6

136. The jumbled letters of words are given below. Each letter has been numbered. Choose the option which gives the correct order of the letters as indicated by the numbers to form meaningful word. /शब्दों के अव्यवस्थित अक्षर नीचे दिये गये हैं। प्रत्येक अक्षर को संख्याकित किया गया है। वह विकल्प चुनिये जो सार्थक शब्द की रचना के लिए संख्याओं के रूप में अक्षरों का सही क्रम देता है।

T R I F U
1 2 3 4 5

(a) 3, 1, 2, 4, 5 (b) 4, 2, 5, 3, 1
(c) 4, 3, 2, 1, 5 (d) 5, 3, 2, 1, 4

MP Police Constable Exam- 20 July-2016 - 9: am

Ans : (b) दिये गये अक्षरों को सार्थक क्रम में व्यवस्थित करने पर–
F R U I T
| | | | | – (फल)
4 2 5 3 1
अतः विकल्प (b) सही उत्तर होगा।

137. Which is the vowel which follows 'Q' when the word, 'TRANQULITY' is reversed?

GET IT ON Google Play Best Study PDF के लिए हमारी App को Download करें "GK Trick By Nitin Gupta"

'TRANQULITY' शब्द को उत्क्रमित करने पर, कौन सा स्वर 'Q' के पीछे आता है।

(a) A (b) E
(c) I (d) O

MP Police Constable Exam 17 July 2016 - 9:am

Ans : (c) शब्द T R A N Q U L I T Y को उत्क्रमित (विपरीत) क्रम में लिखने पर Y T I L U Q N A R T, Q के पीछे स्वर अक्षर I है।

138. Study the following information carefully to answer the questions given below
निम्नलिखित जानकारी का ध्यानपूर्वक अध्ययन कर नीचे दिये गये प्रश्नों के उत्तर दीजिए ?

W 1 Y @ U P 7 B * H ! L O & V M % 8 A K ^ Q 9 E 0 # J C < 2 T 3 $ S D

If all the numbers and symbols are dropped from the above arrangement then which of the following is eight to the right of second from the left ?
यदि उपरोक्त व्यवस्था से सभी संख्याओं और प्रतीकों को हटा दिया जाए तो निम्नलिखित में से कौन-सा बायें से दूसरे के दायें से आठवां है ?

(a) H (b) M
(c) V (d) E

MP Police Constable Exam- 4 Sep-2023 Shift-3

Ans. (b) : दिया गया अक्षर, संख्या तथा प्रतीकों का श्रृंखला निम्नवत् है–
W 1 Y @ U P 7 B * H ! L O & V M % 8 A K ^ Q 9 E 0 # J C < 2 T 3 $ S D
प्रश्नानुसार श्रृंखला से सभी संख्याओं और प्रतीकों को घटाने पर,
बायें W Y U P B H L O V M A K Q E J C T S D दायें
दूसरे आठवें
अतः उपर्युक्त व्याख्या से स्पष्ट है कि श्रृंखला को पुर्नव्यवस्थित करने पर बायें से दूसरे के दायें 8वें अक्षर M होगा।

139. Which of the following letter will be 7th from the right if the first and last, second and second last and so on are interchanged from the word "CENTRALIZE" ?
यदि शब्द "CENTRALIZE" के पहले और आखिरी अक्षर को आपस में बदला जाता है, दूसरे और दूसरे अंतिम अक्षर को आपस में बदल दिया जाता है और इसी तरह तो दाएँ से सातवाँ अक्षर कौन-सा होगा ?

(a) A (b) R
(c) L (d) E

MP Police Constable Exam- 4 Sep-2023 Shift-3

Ans. (c) : दिया गया शब्द निम्नवत् है–
CENTRALIZE
प्रश्नानुसार अक्षरों को पुर्नव्यवस्थित करने पर,
बायें→E Z I L A R T N E C←दायें
7वाँ
अतः उपर्युक्त व्याख्या से स्पष्ट है कि दायें से सातवाँ अक्षर 'L' होगा।

140. Read all information carefully and answer following question ?
दिए गए निर्देशों को पढ़ें और पूछे गए प्रश्न का उत्तर दें।

Digits/Symbols/अंक/प्रतीक-
*** $ % + # Δ © 3 5 4 7 2 1 6 8 9**
Codes/कोड - A B C D E F G H I J K L M N O P

(I) If first place is even number and last place is odd number then both places are to be coded by first digit / symbol./यदि पहला पद सम संख्या है और अंतिम पद विषम संख्या है तो पहले और अंतिम पद के कोड में पहले पद का कोड लिखा जाएगा।

(II) If first place is odd number and last place is even number then both place codes will be interchanged./यदि पहला पद विषम संख्या है और अंतिम पद सम संख्या है, तो पहले और अंतिम पद के कोडों का आपस में स्थान परिवर्तन किया जाएगा।

14#3$

(a) GJMKB (b) MJEHB
(c) GBEHP (d) GJEHA

MP Police Constable Exam- 4 Sep-2023 Shift-3

Ans. (b) : दिया गया है–
अंक/प्रतीक – * $ % + # Δ © 3 5 4 7 2 1 6 8 9
कोड – A B C D E F G H I J K L M N O P

1	4	#	3	$
↓	↓	↓	↓	↓
M	J	E	H	B

अतः विकल्प (b) सही उत्तर है।

141. Study the following information carefully to answer the questions given below
निम्नलिखित जानकारी का ध्यानपूर्वक अध्ययनकर नीचे दिये गये प्रश्नों के उत्तर दीजिए ?

W 1 Y @ U P 7 B * H ! L O & V M % 8 A K ^ Q 9 E 0 # J C < 2 T 3 $ S D

Which of the following is sixteen to the left of fourth from the right ?
निम्नलिखित में से कौन-सा दायें से चौथे के बायें से सोलहवां है ?

(a) E (b) L
(c) M (d) K

MP Police Constable Exam- 4 Sep-2023 Shift-2

Ans. (c) : दिए गए प्रश्न से–
W 1 Y @ U P 7 B * H ! L O & V M % 8 A K ^ Q 9 E 0 # J C < 2 T 3 $ S D
बायें से 16th दायें से 4th
अतः दिए गए अक्षर श्रृंखला में दांये से चौथे के बांये 16वाँ अक्षर 'M' है।
∴ विकल्प (c) सही है।

142. Study the following information carefully to answer the questions given below
निम्नलिखित जानकारी का ध्यानपूर्वक अध्ययन कर नीचे दिये गये प्रश्नों के उत्तर दीजिए ?

W 1 Y @ U P 7 B * H ! L O & V M % 8 A K ^ Q 9 E 0 # J C < 2 T 3 $ S D

How many such symbols are there in the above arrangement which is immediately preceded by a number and followed by a consonant ?
दी गई व्यवस्था में ऐसे कितने प्रतीक हैं जिनके ठीक पहले संख्या तथा तुरन्त बाद व्यंजन हैं

(a) None/कोई नहीं (b) One/एक
(c) Three/तीन (d) Two/दो

MP Police Constable Exam- 4 Sep-2023 Shift-2

GET IT ON Google Play Best Study PDF के लिए हमारी App को Download करें "GK Trick By Nitin Gupta"

Ans. (d) : दी गई श्रृंखला से स्पष्ट है–
W 1 Y @ U P 7 B * H ! L O & V M % 8 A K ^ Q 9 E 0 # J C < 2 T 3 $ S D
अतः दी गई व्यवस्था में ऐसे '2' प्रतीक है जिनके ठीक पहले संख्या तथा तुरन्त बाद व्यंजन है।
∴ विकल्प (d) सही है।

143. Which one of the given responses would be a meaningful order of the following words?
1. Branches 2. Root
3. Stem 4. Leaf
5. Flower
निम्नलिखित विकल्पों में से कौन-सा विकल्प नीचे दिए हुए शब्दों के सार्थक क्रम को दर्शाता है?
1. शाखाएं 2. जड़
3. तना 4. पत्ती
5. फूल
(a) 4, 1, 3, 2, 5 (b) 2, 3, 1, 4, 5
(c) 1, 2, 3, 4, 5 (d) 4, 3, 1, 2, 5

MP Police Constable Exam- 17 August-2023 Shift-3

Ans. (b) : वृक्षों की वृद्धि का सार्थक क्रम निम्नवत् है।
जड़ → तना → शाखाएं → पत्ती → फूल

144. Select the correct alternative to indicate the arrangement of the following words in a logical and meaningful order.
1. Sleep 2. Cold
3. Blanket 4. Winter
5. Warm 6. Shop
निम्न में से कौन-सा विकल्प नीचे दिए गए शब्दों के तर्कसंगत और अर्थपूर्ण क्रम को दर्शाता है।
1. नींद 2. ठंडा
3. कंबल 4. सर्दी
5. गर्म 6. दुकान
(a) 4,2,6,3,5,1 (b) 6,3,2,1,4,5
(c) 4,3,6,2,1,5 (d) 4,3,2,6,1,5

MP Police Constable Exam- 20 August-2023 Shift-1

Ans. (a) : प्रश्नानुसार, दिये गये शब्दों का अर्थपूर्ण क्रम निम्नवत् है

सर्दी,	ठंडा,	दुकान,	कंबल,	गर्म,	नींद
(4)	(2)	(6)	(3)	(5)	(1)

अतः विकल्प (a) सही उत्तर है।

145. Amongst the given responses choose the meaningful logical series.
1. College 2. Infant
3. Child 4. School
5. Youth
निम्नलिखित विकल्पों में से कौन-सा विकल्प नीचे दिए हुए शब्दों का सार्थक क्रम दर्शाता है?
1. कॉलेज 2. शिशु
3. बच्चा 4. स्कूल
5. युवा
(a) 2,4,3,1,5 (b) 2,3,4,1,5
(c) 2,4,3,5,1 (d) 2,3,4,5,1

MP Police Constable Exam- 20 August-2023 Shift-1

Ans. (d) : प्रश्नानुसार, दिये गये शब्दों का सार्थक क्रम निम्नवत् है-

शिशु →	बच्चा →	स्कूल →	युवा →	कॉलेज
(2)	(3)	(4)	(5)	(1)

अतः विकल्प (a) सही उत्तर है।

146. In the following question arrange the given words in a meaningful sequence and then choose the most appropriate sequence from among the alternatives provided below:
निम्नलिखित प्रश्न में एक सार्थक क्रम में शब्दों की व्यवस्था करें और उसके बाद नीचे दिए गए विकल्पों में से सबसे उपयुक्त अनुक्रम का चयन करें:
1. Police 2. Punishment
3. Crime 4. Justice
5. Judgment
1. पुलिस 2. सजा
3. अपराध 4. न्यायमूर्ति
5. न्याय
(a) 1, 2, 3, 4, 5 (b) 3, 1, 2, 4, 5
(c) 3, 1, 4, 5, 2 (d) 5, 4, 3, 2, 1

MP Police Constable Exam 23 July 2016 - 9:am

Ans : (c) सार्थक क्रम निम्नवत् है–
3. अपराध→ 1. पुलिस→ 4. न्यायमूर्ति→ 5. न्याय→ 2. सजा
अतः उपयुक्त अनुक्रम है– 3, 1, 4, 5, 2

147. Arrange the following words as per their order in the dictionary./निम्नलिखित शब्दों को शब्दकोश के दिए गए क्रम के अनुसार लिखिए।
1. Diffident 2. Difficult
3. Different 4. Diffidence
(a) 1, 2, 3, 4 (b) 3, 2, 4, 1
(c) 2, 1, 3, 4 (d) 3, 2, 1, 4

MP Police Constable Exam- 01 Feb-2022 Shift-1

Ans.(b): प्रश्नगत शब्दों को शब्दकोश के अनुसार क्रम में व्यवस्थित करने पर-
Different → Difficult → Diffidence → Diffident
3 2 4 1
अतः विकल्प (b) अभीष्ट उत्तर है।

148. In the following question arrange the given words in a meaningful sequence and then choose the most appropriate sequence from among the alternatives provided below:
निम्नलिखित प्रश्न में एक सार्थक क्रम में शब्दों की व्यवस्था करें और उसके बाद नीचे दिए गए विकल्पों में से सबसे उपयुक्त अनुक्रम का चयन करें।
1. Post box/डाक-बॉक्स 2. Letter/पत्र
3. Envelope/लिफाफा 4. Delivery/वितरण
5. Clearance/निकासी
(a) 2, 3, 1, 4, 5 (b) 3, 2, 1, 4, 5
(c) 3, 2, 1, 5, 4 (d) 3, 2, 4, 5, 1

MP Police Constable Exam- 26 July-2016 - 9: am

Ans : (c) दिये गये शब्दों का सार्थक क्रम निम्नलिखित है।
(3) लिफाफा → (2) पत्र → (1) डाक–बाक्स → (5) निकासी → (4) वितरण
अतः इनका क्रम 3, 2, 1, 5, 4 होगा।

149. Arrange the following words as per order in the dictionary./निम्नलिखित शब्दों को शब्दकोश में दिए गए क्रम के अनुसार लिखिए ?
1. Pick 2. Pith
3. Pile 4. Perk
5. Pour
(a) 4, 1, 2, 3, 5 (b) 4, 1, 3, 2, 5
(c) 4, 3, 2, 1, 5 (d) 5, 4, 3, 2, 1

MP Police Constable Exam- 24 August-2023 Shift-3

GET IT ON Google Play Best Study PDF के लिए हमारी App को Download करें "GK Trick By Nitin Gupta"

Ans. (b) : प्रश्नानुसार, तार्किक क्रम निम्नवत् है–
4. Perk, 1. Pick, 3. Pile, 2. Pith, 5. Pour
अतः विकल्प (b) सही उत्तर है।

150. Arrange the following words as per order in the dictionary.
निम्नलिखित शब्दों को शब्दकोश के दिए गए क्रम के अनुसार लिखिए।
1. Fraudulent **2. Fraught**
3. Fraternity **4. Franchise**
5. Frantic
(a) 5, 4, 1, 2, 3 (b) 4, 5, 3, 1, 2
(c) 4, 3, 5, 1, 2 (d) 3, 4, 5, 2, 1

MP Police Constable Exam- 27 August-2023 Shift-1

Ans. (b) : दिए गए शब्दों का शब्दकोश के अनुसार क्रम–
(4) Franchise, (5) Frantic, (3) Fraternity, (1) Fraudulant, (2) Fraught
अतः अभीष्ट क्रम = 4, 5, 3, 1, 2

151. Study the following information carefully to answer the question given below-
निम्नलिखित जानकारी का ध्यानपूर्वक अध्ययन कर नीचे दिये गये प्रश्न का उत्तर दीजिए।
B S 5 % T P 2 @ K L 0 Y 8 N G H * 9 X D 3 & J @ C M ! 1 A ^ E V Z < U $ O Q W N
How many such numbers are there in the above arrangement which is immediately preceded by a consonant and followed by a symbol?
दी गयी व्यवस्था में ऐसी कितनी संख्यायें हैं जिनके ठीक पहले व्यंजन तथा ठीक बाद एक प्रतीक है ?
(a) One/एक (b) Two/दो
(c) None/कोई नहीं (d) Three/तीन

MP Police Constable Exam- 26 August-2023 Shift-3

Ans. (d) : दी गई श्रृंखला निम्नवत् है–
(बाएं) B S 5 % T P 2 @ K L 0 Y 8 N G H * 9 X D 3 & J @ C M ! 1 A ^ E V Z < U $ O Q W N (दाएं)
अतः श्रृंखला में ऐसी 'तीन' संख्याएं हैं जिनके ठीक पहले व्यंजन तथा ठीक बाद एक प्रतीक है।

152. Study the following information carefully to answer the question given below-
निम्नलिखित जानकारी का ध्यानपूर्वक अध्ययन कर नीचे दिये गये प्रश्न का उत्तर दीजिए।
B S 5 % T P 2 @ K L 0 Y 8 N G H * 9 X D 3 & J @ C M ! 1 A ^ E V Z < U $ O Q W N
Three of the following four are alike in a certain way based on their position, which of the following does not belongs to that group ?
निम्नलिखित चार में से तीन किसी प्रकार से एक समान हैं और अपना समूह बनाते हैं। वह कौन है जो इस समूह में शामिल नहीं है ?
(a) BS% (b) 9X3
(c) OQN (d) P2L

MP Police Constable Exam- 26 August-2023 Shift-3

Ans. (d) : दी गई श्रृंखला से विकल्पों की जाँच करने पर–
(a) B S 5 % (+1) (b) 9 X D 3 (+1)
(c) O Q W N (+1) (d) P 2 @ K L (+2 का गैप) (विषम)
अतः विकल्प (d) समूह में शामिल नहीं है।

153. Study the following information carefully to answer the question given below-
निम्नलिखित जानकारी का ध्यानपूर्वक अध्ययन कर नीचे दिये गये प्रश्न का उत्तर दीजिए।
B S 5 % T P 2 @ K L 0 Y 8 N G H * 9 X D 3 & J @ C M ! 1 A ^ E V Z < U $ O Q W N
Which of the following is seventeen to the left of nine from the right?
निम्नलिखित में से कौन दायें से नौवें के बायें से सत्रहवाँ होगा ?
(a) @ (b) Z
(c) M (d) G

MP Police Constable Exam- 26 August-2023 Shift-2

Ans. (d) : दी गई श्रृंखला निम्नवत् है–
(बायाँ) B S 5 % T P 2 @ K L 0 Y 8 N G H * 9 X D 3 & J @ C M ! 1 A ^ E V Z < U $ O Q W N (दायाँ)
दाएं से नवाँ
के बाएं सत्रहवाँ
अतः श्रृंखला में दाएँ से नौवें के बाएँ सत्रहवाँ अक्षर = G

154. Study the following information carefully to answer the question given below-
निम्नलिखित जानकारी का ध्यानपूर्वक अध्ययनकर नीचे दिये गये प्रश्न का उत्तर दीजिए।
B S 5 % T P 2 @ K L 0 Y 8 N G H * 9 X D 3 & J @ C M ! 1 A ^ E V Z < U $ O Q W N
How many such symbols are there in the above arrangement which is immediately preceded and followed by a vowel ?
दी गयी व्यवस्था में ऐसे कितने प्रतीक हैं, जिनके तुरन्त पहले तथा बाद में स्वर हैं ?
(a) None/कोई नहीं (b) One/एक
(c) Three/तीन (d) Two/दो

MP Police Constable Exam- 26 August-2023 Shift-2

Ans. (d) : दी गई श्रृंखला निम्नवत् है–
B S 5 % T P 2 @ K L 0 Y 8 N G H * 9 X D 3 & J @ C M ! 1 A ^ E V Z < U $ O Q W N
अतः श्रृंखला में ऐसे दो प्रतीक (A^E, U$O) हैं जिनके पहले तथा बाद में स्वर हैं।

155. How many letters are immediately preceded by a number and but not followed by a symbol in the following sequence?
निम्न अनुक्रम में, कितने ऐसे अक्षर है जिनके ठीक पहले एक संख्या आता है, लेकिन ठीक बाद एक प्रतीक नहीं आता है?
SR7WB8<+?Q34Y7^T1N@EZL>2de*H4&KP9?#Y#YSR7W5G6$P9?G6h4$P9?#Y
(a) 6 (b) 8
(c) 5 (d) 4

MP Police Constable Exam 25 July 2016 - 9:am

Ans : (a) अनुक्रम में 6 ऐसे अक्षर हैं जिनके ठीक पहले एक संख्या आता है, लेकिन ठीक बाद एक प्रतीक नहीं आता है।
7WB, 4Y7, 2de, 7W5, 5G6 तथा 6h4
∴ अक्षरों की संख्या = 6

GET IT ON Google Play Best Study PDF के लिए हमारी App को Download करें "GK Trick By Nitin Gupta"

भाग-16.

कैलेण्डर-घड़ी (Calendar/Clock)

Type-1: तिथि तथा दिवस पर आधारित प्रश्न

1. If the day before yesterday was Thursday, when will monday be?
यदि कल से पहले वाला दिन गुरुवार था, तो सोमवार कब होगा?
(a) Today /आज
(b) Two days after today /आज के दो दिन बाद
(c) Tomorrow /कल
(d) Day after Tomorrow /परसों

MP Police Constable Exam- 12 Sep-2023 Shift-2

Ans. (d) : प्रश्नानुसार,

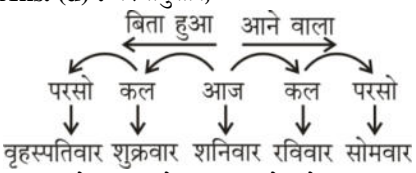

अतः आने वाला सोमवार 'परसो' होगा।

2. If the day before yesterday was Sunday, what day will it be three days after the day after tomorrow?
यदि परसों का दिन रविवार था, तो परसों के तीन दिन बाद कौन-सा दिन होगा?
(a) Sunday /रविवार
(b) Monday /सोमवार
(c) Wednesday /बुधवार
(d) Saturday /शनिवार

MP Police Constable Exam- 12 Sep-2023 Shift-2

Ans. (a) : प्रश्नानुसार,

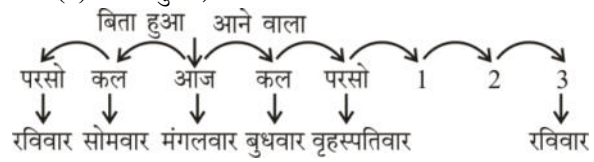

अतः अभीष्ट दिन = रविवार

3. The day before yesterday was Sunday. What will be the day after tomorrow ?
यदि बीते हुए कल से एक दिन पहले रविवार था तो ज्ञात करें कि आने वाले कल के एक दिन बाद क्या दिन होगा?
(a) Tuesday/मंगलवार (b) Thursday/गुरूवार
(c) Friday/शुक्रवार (d) Saturday/शनिवार

MP Police Constable Exam- 6 Sep-2023 Shift-3

Ans. (b) : प्रश्नानुसार,

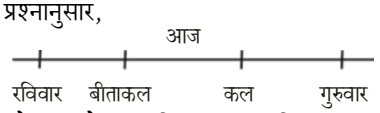

अतः आने वाले कल के एक दिन बाद का दिन गुरुवार होगा।

4. If two days before yesterday was Sunday. What day will be 3 days after tomorrow ?
यदि कल से दो दिन पहले रविवार था। कल के 3 दिन बाद कौन-सा दिन होगा ?
(a) Saturday/शनिवार (b) Monday/सोमवार
(c) Sunday/रविवार (d) Tuesday/मंगलवार

MP Police Constable Exam- 31 August-2023 Shift-3

Ans. (c) : प्रश्नानुसार,

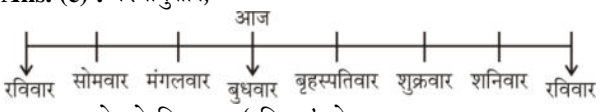

अतः कल के दो दिन बाद 'रविवार' होगा।

5. If the day that will come two days after tomorrow is Thursday, day of the week was three days before yesterday?
यदि कल के दो दिन बाद आने वाला दिन गुरुवार है, तो सप्ताह का दिन कल से तीन दिन पहले था?
(a) Monday/सोमवार (b) Tuesday/मंगलवार
(c) Wednesday/बुधवार (d) Thursday/गुरुवार

MP Police Constable Exam- 8 Sep-2023 Shift-2

Ans. (d) : प्रश्नानुसार,

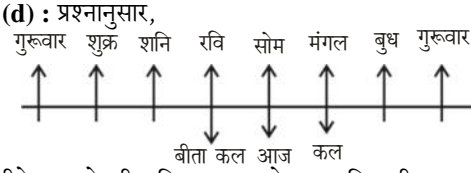

अतः बीते कल के तीन दिन बाद आने वाला दिन भी गरूवार ही था।

6. The bus for Chennai leaves every 30 minutes from a bus depot. The enquiry clerk told a passenger that the bus for Chennai left 10 minutes ago, and the next bus will leave at 10 : 30 a.m. What was the time when enquiry clerk told this ?
चेन्नई के लिए बस हर 30 मिनट में एक बस डिपो से निकलती है। पूछताछ क्लर्क ने एक यात्री को बताया कि चेन्नई के लिए बस 10 मिनट पहले निकली और अगली बस सुबह 10 : 30 बचे चलेगी। पूछताछ क्लर्क ने यह कब बताया ?
(a) 10 : 20 a.m./10 : 20 बजे
(b) 10 : 10 a.m./10 : 10 बजे
(c) 10 : 00 a.m./10 : 00 बजे
(d) 9 : 50 a.m./9 : 50 बजे

MP Police Constable Exam- 24 August-2023 Shift-2

Ans. (b) : प्रश्नानुसार,
चेन्नई के लिए रवाना हुयी बस का समय = 10 : 30 – 30 (मिनट)
= 10 : 00
अतः यात्री को पूछताछ कलर्क ने बताया = 10 : 00 + 10 (मिनट)
= 10 बजकर 10 मिनट पर

GET IT ON Google Play Best Study PDF के लिए हमारी App को Download करें "GK Trick By Nitin Gupta"

7. If day before yesterday was Wednesday, when will Sunday be ?
यदि कल से पहले का दिन बुधवार था, तो रविवार कब होगा ?

(a) 3 days after today/आज के 3 दिन बाद
(b) Tomorrow/कल
(c) Today/आज
(d) Day after tomorrow/परसों

MP Police Constable Exam- 24 August-2023 Shift-3

Ans. (d) : प्रश्नानुसार,

अतः परसों 'रविवार' होगा।

8. If the 27th day of a month is Friday, which of the following will be the 4 day of that month ?
यदि किसी महीने का 27वां दिन शुक्रवार है, तो निम्न में से कौन-सा उस महीने का चौथा दिन होगा ?

(a) Sunday/रविवार (b) Saturday/शनिवार
(c) Wednesday/बुधवार (d) Friday/शुक्रवार

MP Police Constable Exam- 27 August-2023 Shift-1

Ans. (c) : ∵ 1 सप्ताह = 7 दिन

$$\frac{24-4}{7} = \frac{23}{7} = 2 \text{ विषम दिन}$$

अतः महिने का चौथा दिन = शुक्रवार – 2
= बुधवार

9. In the year 1996, the Republic day was celebrated on Friday. On which day was the Republic day celebrated in the year 2000 ?
वर्ष 1996 में गणतंत्र दिवस शुक्रवार को मनाया गया था। वर्ष 2000 में गणतंत्र दिवस किस दिन मनाया गया था ?

(a) Wednesday/बुधवार (b) Monday/सोमवार
(c) Friday/शुक्रवार (d) Saturday/शनिवार

MP Police Constable Exam- 27 August-2023 Shift-1

Ans. (a) : ∵ गणतंत्र दिवस 26 जनवरी को मनाया जाता है
∴ 26 जनवरी 1996 = शुक्रवार
+2↓(लीप वर्ष)
26 जनवरी 1997 = रविवार
+1↓
26 जनवरी 1998 = सोमवार
+1↓
26 जनवरी 1999 = मंगलवार
+1↓
26 जनवरी 2000 = बुधवार
अतः वर्ष 2000 में गणतंत्र दिवस बुधवार को मनाया जायेगा।

10. If the 6th day of Month is three days earlier then Saturday, what day will it be on 21 day of the month ?
यदि महीने का छठा दिन शनिवार से तीन दिन पहले हो तो महीने की 21 तारीख को कौन-सा दिन होगा ?

(a) Tuesday/मंगलवार (b) Wednesday/बुधवार
(c) Monday/सोमवार (d) Thursday/गुरुवार

MP Police Constable Exam- 28 August-2023 Shift-2

Ans. (d) : 6 तारीख का दिन = शनिवार – 3 = बुधवार
∴ 13, 20 तारीख का दिन = बुधवार
21 तारीख का दिन = बुधवार + 1 = गुरुवार

11. 5th of a month falls two days after Monday. What day of the month will precede 19th of it ?
महीने की 5 तारीख सोमवार के दो दिन बाद पड़ती है। इसकी 19 तारीख से पहले महीने का कौन-सा दिन होगा ?

(a) Wednesday/बुधवार (b) Thursday/गुरुवार
(c) Tuesday/मंगलवार (d) Monday/सोमवार

MP Police Constable Exam- 28 August-2023 Shift-2

Ans. (c) : 5 ता. का दिन = सोमवार + 2 = बुधवार
12, 19 ता. का दिन = बुधवार
∴ 18 ता. का दिन = बुधवार – 1 = मंगलवार

12. If 1 March is Saturday, then 1st April will be ?
यदि 1 मार्च शनिवार है, तो 1 अप्रैल होगा ?

(a) Sunday/रविवार (b) Monday/सोमवार
(c) Tuesday/मंगलवार (d) Thursday/गुरुवार

MP Police Constable Exam- 25 August-2023 Shift-3

Ans. (c) : 1 मार्च से 1 अप्रैल तक विषम दिनों की संख्या

$$= \frac{30+1}{7} = \frac{31}{7}$$

= 3 विषम दिन
अतः 1 अप्रैल का दिन = शनिवार + 3
= मंगलवार

13. The day before yesterday was Sunday. What will be the day after tomorrow ?
कल से एक दिन पहले रविवार था। परसों क्या होगा?

(a) Monday/सोमवार (b) Thursday/गुरुवार
(c) Friday/शुक्रवार (d) Saturday/शनिवार

MP Police Constable Exam- 5 Sep -2023 Shift-1

Ans. (b) :

अतः अभीष्ट दिन गुरुवार होगा।

14. I shall go Mumbai after 129 days of my brother's birthday. If my brother birth day falls 3 days earlier to Sunday. When shall I go to Mumbai?
मैं अपने भाई के जन्मदिन के 129 दिन बाद मुंबई जाऊंगा। यदि मेरे भाई का जन्म दिन रविवार से 3 दिन पहले पड़ता है। मैं मुंबई कब जाऊंगा?

GET IT ON Google Play Best Study PDF के लिए हमारी App को Download करें "GK Trick By Nitin Gupta"

(a) Saturday /शनिवार (b) Sunday /रविवार
(c) Tuesday /मंगलवार (d) Wednesday /बुधवार

MP Police Constable Exam- 9 Sep-2023 Shift-3

Ans. (b) : प्रश्नानुसार,
∵ जन्मदिन
↓ | | रविवार
वृहस्पतिवार
∴ 129 दिन में विषम दिन
$\Rightarrow \frac{129}{7} = 3$ विषम दिन
अतः मुम्बई जाने का दिन = वृहस्पतिवार + 3 दिन
= रविवार
अतः विकल्प (b) सही उत्तर होगा।

15. If Friday is the first day of a non-leap year, what day would the last day of the year?
यदि शुक्रवार गैर-लीप वर्ष का पहला दिन है, तो वर्ष का अंतिम दिन कौन-सा दिन होगा?
(a) Friday/शुक्रवार (b) Sunday/रविवार
(c) Monday/सोमवार (d) Tuesday/मंगलवार

MP Police Constable Exam- 9 Sep-2023 Shift-3

Ans. (a) : प्रश्नानुसार,
गैर लीप वर्ष का पहला दिन शुक्रवार है।
अतः शुक्रवार + 36 दिन
364 दिन में विषम दिन
$\frac{364}{7}$ (0 विषम दिन)
अतः वर्ष का अंतिम दिन = शुक्रवार + 0 दिन
= शुक्रवार

16. Sunday falls on 4 May, 1886 what will be the day on 4 May, 1887 ?
4 मई, 1886 को रविवार पढ़ रहा है, 4 मई, 1887 को कौन-सा दिन होगा ?
(a) Monday/सोमवार (b) Tuesday/मंगलवार
(c) Thursday/गुरुवार (d) Saturday/शनिवार

MP Police Constable Exam- 2 Sep-2023 Shift-3

Ans. (a) : दिया है–
4 मई 1886 = रविवार
∴ 4 मई 1887 = रविवार + 1
= सोमवार

17. Reaching a place of appointment on Friday, I found that I was two days earlier than the scheduled day. If I had reached on the following Wednesday, how many days late would I have been ?
शुक्रवार को नियुक्ति के स्थान पर पहुँचकर मैंने पाया कि मैं निर्धारित दिन से दो दिन पहले था। यदि मैं अगले बुधवार को पहुँचता, तो मैं कितने दिन लेटा होता ?
(a) One day/एक दिन (b) Two days/दो दिन
(c) Three days/तीन दिन (d) Four days/चार दिन

MP Police Constable Exam- 2 Sep-2023 Shift-3

Ans. (c) : प्रश्नानुसार,
शुक्रवार को नियुक्ति स्थान पर पहुँचने पर = 2 दिन पहले
∴ नियुक्ति वाला दिन = शुक्रवार + 2
= रविवार
बुधवार को पहुँचने पर = बुधवार – रविवार
= 3 दिन लेट

18. If two days after day after tomorrow is Sunday, what day was the day before yesterday ?
यदि परसों के दो दिन बाद रविवार है, तो कल से पहले का दिन का दिन कौन-सा था ?
(a) Wednesday/बुधवार
(b) Tuesday/मंगलवार
(c) Monday/सोमवार (d) Sunday/रविवार

MP Police Constable Exam- 5 Sep-2023 Shift-2

Ans. (c) : प्रश्नानुसार–
| कल आज | परसों | |
↓ ↓ ↓
सोमवार शुक्रवार रविवार
अतः विकल्प (c) सही उत्तर होगा।

19. If day after tomorrow is Saturday what day was three days before yesterday?
यदि परसों का दिन शनिवार है तो कल से तीन दिन पहले कौन-सा दिन था?
(a) Thursday /गुरुवार
(b) Monday /सोमवार
(c) Saturday /शनिवार
(d) Sunday /रविवार

MP Police Constable Exam- 10 Sep-2023 Shift-1

Ans. (d) : प्रश्नानुसार यदि परसों का दिन शनिवार है तो आज का दिन गुरुवार है तथा बीता हुआ कल बुधवार था। बुधवार से 3 दिन पहले का दिन रविवार था।

20. If the 3 day of a month is Tuesday, which of the following will be the 6th day from 23 of that month ?
यदि किसी महीने का तीसरा दिन मंगलवार है, तो निम्नलिखित में से कौन-सा उस महीने की 23 तारीख से छठा दिन होगा ?
(a) Sunday/रविवार (b) Saturday/शनिवार
(c) Thursday/गुरुवार (d) Friday/शुक्रवार

MP Police Constable Exam- 26 August-2023 Shift-3

Ans. (a) : यदि महीने का तीसरा दिन मंगलवार है।
तब, दिनांक 3, 10, 17, 24 को मंगलवार होगा।
प्रश्नानुसार,
23 + 6 = 29वाँ दिन
24 → मंगलवार
25 → बुधवार
26 → बृहस्पतिवार
27 → शुक्रवार
28 → शनिवार
29 → रविवार
अतः 29वां दिन 'रविवार' होगा।

GET IT ON Google Play Best Study PDF के लिए हमारी App को Download करें "GK Trick By Nitin Gupta"

21. What was the day of week on 2 October 1869 ?
2 अक्टूबर 1869 को सप्ताह का कौन-सा दिन था ?

(a) Friday/शुक्रवार
(b) Saturday/शनिवार
(c) Sunday/रविवार
(d) Monday/सोमवार

MP Police Constable Exam- 25 August-2023 Shift-1

Ans. (b) : 2 अक्टूबर 1869
1 जनवरी से 2 अक्टूबर तक विषम दिनों की संख्या

$$= \frac{3+0+3+2+3+2+3+3+2+2}{7} = \frac{23}{7}$$

= 2 दिन
शताब्दी वर्ष 1800 में विषम दिनों की संख्या = 3
प्रश्नानुसार,

$$\text{शेष दिन} = \frac{2+3+68+\frac{68}{4}}{7}$$

$$= \frac{90}{7}$$

= 6
अतः 2 अक्टूबर 1869 को सप्ताह का दिन 'शनिवार' था।

22. If the day before yesterday was Friday, what day will two days after the day after tomorrow be ?
यदि परसों का दिन शुक्रवार था, तो परसों के दो दिन बाद कौन-सा दिन होगा ?

(a) Saturday/शनिवार (b) Thursday/गुरुवार
(c) Friday/शुक्रवार (d) Sunday/रविवार

MP Police Constable Exam- 25 August-2023 Shift-1

Ans. (b) : प्रश्नानुसार,
बीते परसों का दिन = शुक्रवार
आज का दिन = रविवार
तो आने वाले परसों का दिन = मंगलवार
परसों के दो दिन बाद का दिन = मंगलवार + 2 दिन
= गुरुवार

23. If three days after today will be Tuesday, what day was four days before yesterday?
यदि आज के तीन दिन बाद मंगलवार होगा, तो कल से चार दिन पहले कौन-सा दिन था?

(a) Tuesday/मंगलवार (b) Sunday/रविवार
(c) Monday/सोमवार (d) Wednesday/बुधवार

MP Police Constable Exam- 6 Sep-2023 Shift-3

Ans. (c) : यदि आज के तीन दिन बाद मंगलवार है
तो आज = मंगलवार -3 दिन = शनिवार
कल से चार दिन पहले का दिन = शनिवार – (1+4) दिन
= शनिवार – 5 दिन
= शनिवार –(5+7) दिन
= शनिवार + 2 दिन
= सोमवार
अतः अभीष्ट दिन सोमवार होगा।

24. If two days before yesterday was Friday, what day will be day after tomorrow ?
यदि कल से दो दिन पहले शुक्रवार था, तो परसों कौन-सा दिन होगा ?

(a) Monday/सोमवार (b) Sunday/रविवार
(c) Saturday/शनिवार (d) Wednesday/बुधवार

MP Police Constable Exam- 4 Sep-2023 Shift-3

Ans. (d) : प्रश्नानुसार,

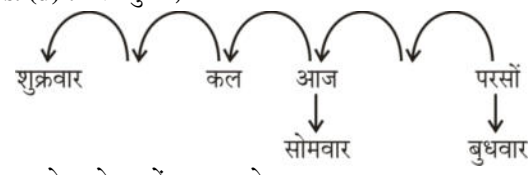

अतः आने वाले परसों बुधवार होगा।

25. Sonu's brother Monu is 536 days older to him, while his sister Tonu 75 weeks older to Monu. If Tonu was born on Wednesday on which day was Sonu born?/सोनू का भाई मोनू उससे 536 दिन बड़ा है जबकि उसकी बहन टोनू मोनू से 75 सप्ताह बड़ी है। यदि टोनू का जन्म बुधवार को हुआ था तो सोनू का जन्म किस दिन हुआ था?

(a) Saturday/शनिवार (b) Sunday/रविवार
(c) Friday/शुक्रवार (d) Monday/सोमवार

MP Police Constable Exam- 9 Sep-2023 Shift-2

Ans. (b) : प्रश्नानुसार,
टोनू मोनू से 75 सप्ताह बड़ी है
∴ 75 सप्ताह = 75 × 7 = 525 दिन
मोनू सोनू से 536 दिन बड़ा है।
टोनू सोनू से = (536 + 525) = 1061 दिन बड़ा है।
∵ टोनू का जन्म बुधवार को हुआ था।

$$\therefore \text{ सोनू का जन्म} = \frac{1061}{7} = 4 \text{ दिन शेष}$$

अर्थात = बुधवार + 4 = रविवार
अतः सोनू का जन्म रविवार को हुआ था।

26. If three days before yesterday was Wednesday, what will be two days after tomorrow?
यदि कल से तीन दिन पहले बुधवार था, तो कल के दो दिन बाद क्या होगा?

(a) Wednesday/बुधवार (b) Monday/सोमवार
(c) Friday/शुक्रवार (d) Tuesday/मंगलवार

MP Police Constable Exam- 9 Sep-2023 Shift-2

Ans. (a) : दिया है-
कल से तीन दिन पहले = बुधवार
अर्थात आज का दिन = बुधवार + 4 दिन = रविवार
∴ कल के दो दिन बाद = सोमवार + 2 = बुधवार
अतः सही उत्तर विकल्प (a) होगा।

27. If day before yesterday was Thursday, what day will be four days after tomorrow?
यदि कल से पहले का दिन गुरुवार था, तो आने वाले कल के चार दिन बाद कौन-सा दिन होगा?

(a) Monday/सोमवार (b) Thursday/गुरुवार
(c) Sunday/रविवार (d) Wednesday/बुधवार

MP Police Constable Exam- 8 Sep-2023 Shift-1

GET IT ON Google Play Best Study PDF के लिए हमारी App को Download करें "GK Trick By Nitin Gupta"

Ans. (b) : प्रश्नानुसार,

	कल		कल				
↓	↓	↓	↓	↓	↓	↓	↓
गुरुवार		आज	1	2	3	4	गुरुवार

अतः स्पष्ट है कि आने वाले कल के चार दिन बाद गुरुवार होगा।

28. If Friday fall on 15 Sep 1992, what will be the day of 26 Dec 1992 ?
यदि शुक्रवार 15 सितम्बर 1992 को पड़ता है, तो 26 दिसम्बर 1992 को कौन-सा दिन होगा ?

(a) Tuesday/मंगलवार (b) Monday/सोमवार
(c) Thursday/गुरुवार (d) Wednesday/बुधवार

MP Police Constable Exam- 28 August-2023 Shift-3

Ans. (a) : 15 सितम्बर 1992 से 26 दिसम्बर 1992 तक विषम दिन–

$$\text{शेष दिन} = \frac{\text{सितम्बर} + \text{अक्टूबर} + \text{नवम्बर} + \text{दिसम्बर}}{7}$$

$$= \frac{15+31+30+26}{7} = \frac{102}{7} \Rightarrow 4 \text{ दिन शेष}$$

अतः 26 दिसम्बर 1992 का दिन शुक्रवार + 4 दिन शेष = मंगलवार होगा।

29. The Independence day in 1988 was celebrated on a Wednesday. On what day was it celebrated in the year 1989 ?
1988 में स्वतंत्रता दिवस बुधवार को मनाया गया। वर्ष 1989 में यह किस दिन मनाया गया था ?

(a) Monday/सोमवार (b) Tuesday/मंगलवार
(c) Friday/शुक्रवार (d) Thursday/गुरुवार

MP Police Constable Exam- 28 August-2023 Shift-3

Ans. (d) : स्वतंत्रता दिवस (15 अगस्त) 1988 को बुधवार था।

15 अगस्त 1988 → बुधवार
15 अगस्त 1989 → बुधवार + 1
∴ 15 अगस्त 1989 का दिन = बुधवार + 1
= गुरुवार

30. It was Wednesday on 6 March 1949. What was the day of week on 7 March 1952 ?
6 मार्च 1949 को बुधवार था। 7 मार्च 1952 को सप्ताह का कौन-सा दिन था ?

(a) Sunday/रविवार (b) Monday/सोमवार
(c) Tuesday/मंगलवार (d) Wednesday/बुधवार

MP Police Constable Exam- 4 Sep-2023 Shift-2

Ans. (b) : प्रश्नानुसार,

6 मार्च 1949 → बुधवार + 4
6 मार्च 1952 → रविवार होगा।

अर्थात् 7 मार्च 1952 को रविवार + 1 = सोमवार का दिन होगा।

31. If the day after tomorrow is Tuesday what day will two days after the day after tomorrow be ?
यदि परसों का दिन मंगलवार है तो परसों के दो दिन बाद कौन-सा दिन होगा ?

(a) Monday/सोमवार (b) Wednesday/बुधवार
(c) Saturday/शनिवार (d) Thursday/गुरुवार

MP Police Constable Exam- 4 Sep-2023 Shift-2

Ans. (d) : प्रश्नानुसार,

आज कल परसों
↓
मंगलवार | | गुरुवार

अतः परसों के दो दिन बाद गुरुवार होगा।

32. What was the day of week on 26 November 2008 ?
26 नवंबर 2008 को सप्ताह का कौन-सा दिन था ?

(a) Tuesday/मंगलवार (b) Monday/सोमवार
(c) Thursday/गुरुवार (d) Wednesday/बुधवार

MP Police Constable Exam- 25 August-2023 Shift-2

Ans. (d) :
26 नवम्बर 2008 = वर्ष 2000 + 7 वर्ष + 1 जनवरी से 26 नवंबर
वर्ष 2000 में विषम दिन = 0

7 वर्ष में विषम दिन = $\frac{7+1}{7}$ = 1 दिन

1 जनवरी से 26 नवंबर तक विषम दिन = 3 + 1 + 3 + 2+ 3 + 2 + 3 + 3 + 2 + 3 + 26 = $\frac{51}{7}$ = 2 दिन

कुल विषम दिन = 0 + 1 + 2 = 3 दिन = बुधवार

33. Anu is 300 days older than Varun and Sandeep is 50 weeks older than Anu. If Sandeep was born on Tuesday, on which day was Varun born ?
अनु, वरुण से 300 दिन बड़ी है और संदीप, अनु से 50 सप्ताह बड़ा है। यदि संदीप का जन्म मंगलवार को हुआ था, तो वरुण का जन्म किस दिन हुआ था ?

(a) Monday/सोमवार (b) Thursday/गुरुवार
(c) Tuesday/मंगलवार (d) Friday/शुक्रवार

MP Police Constable Exam- 25 August-2023 Shift-2

Ans. (*) : 50 सप्ताह = 350 दिन
प्रश्नानुसार,
संदीप = 350 + 300
= 650 दिन बड़ा वरुण से

कुल अतिरिक्त दिन = $\frac{650}{7}$ = 6 दिन

वरुण का जन्म दिन = मंगलवार – 6
= बुधवार

34. If the day before yesterday was Thursday, when will Sunday be?
यदि कल से पहले वाला दिन गुरुवार था, तो रविवार कब होगा?

(a) Day after tomorrow/परसों
(b) Today/आज
(c) Tomorrow/कल
(d) Two days after today/आज के दो दिन बाद

MP Police Constable Exam- 11 Sep-2023 Shift-2

Ans. (c) : प्रश्नानुसार,

शुक्रवार शुक्रवार कल आज शनिवार रविवार
कल

अतः विकल्प (c) सही उत्तर होगा।

GET IT ON Google Play Best Study PDF के लिए हमारी App को Download करें "GK Trick By Nitin Gupta"

35. What was the day of week on 19 June 1440 ?
19 जून 1440 को सप्ताह का कौन-सा दिन था ?

(a) Thursday/गुरुवार (b) Wednesday/बुधवार
(c) Friday/शुक्रवार (d) Saturday/शनिवार

MP Police Constable Exam- 24 August-2023 Shift-3

Ans. (c) :
प्रश्नानुसार,
19 जून 1440 को दिन = ?
1200 वर्ष + 200 वर्ष + 39 वर्ष + जनवरी + फरवरी + मार्च + अप्रैल + मई + 19 जून
1200 वर्षों में विषम दिन = 0
200 वर्षों में विषम दिन = 3
39 वर्षों में विषम दिन = 9 लीप वर्ष + 30 साधारण वर्ष
$= 9 \times 2 + 30 \times 1$
$= 18 + 30$
$= 48 = 6$ विषम दिन
1 जनवरी से 19 जून तक विषम दिन $= 3 + 1 + 3 + 2 + 3 + 5$
$= 17 = 3$ विषम दिन
कुल विषम दिन $= 0 + 3 + 6 + 3 = \frac{12}{7} = 5$ विषम दिन
$\therefore$ शुक्रवार का कोड = 5
अतः 19 जून 1440 को शुक्रवार था।

36. If day before yesterday was Wednesday, when will Sunday be ?
यदि कल से पहले का दिन बुधवार था, तो रविवार कब होगा ?

(a) 3 days after today/आज के 3 दिन बाद
(b) Tomorrow/कल
(c) Today/आज
(d) Day after tomorrow/परसों

MP Police Constable Exam- 24 August-2023 Shift-3

Ans. (d) : प्रश्नानुसार,

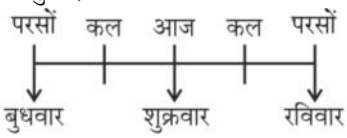

अतः आने वाले परसों को 'रविवार' होगा।

37. On what dates of March 2013 did Wednesday fall ?
मार्च 2013 की किस-किस तारीख को बुधवार पड़ा ?

(a) 6, 13, 20, 27 (b) 5, 12, 19, 26
(c) 4, 11, 18, 25 (d) 7, 14, 21, 28

MP Police Constable Exam- 26 August-2023 Shift-2

Ans. (a) : 1 मार्च 2013 का दिन = ?
कुल विषम दिन = 2012 + 1 जनवरी से 1 मार्च तक
$= (2000 + 12) + 3 + 0 + 1$
$= (0 + 12 + 3) + 3 + 0 + 1$
$= \frac{19}{7} = 5$ दिन = शुक्रवार
$\therefore$ 1 मार्च 2013 $\rightarrow$ शुक्रवार
6 मार्च 2013 $\rightarrow$ शुक्रवार + 5 = बुधवार
अतः मार्च 2013 में बुधवार आने की तारीख
= 6, 13, 20, 27

38. If the third Friday of a month is 16th what date is the fourth Tuesday of that month ?
यदि किसी महीने का तीसरा शुक्रवार 16 तारीख को है तो उस महीने का चौथा मंगलवार किस तारीख को है?

(a) 20th/20वीं (b) 22nd/22वीं
(c) 27th/27वीं (d) 29th/29वीं

MP Police Constable Exam- 31 August-2023 Shift-2

Ans. (c) : प्रश्नानुसार,
7 दिनों के बाद फिर से समान दिन आता है।
महीने का तीसरा शुक्रवार = 16 तारीख
दूसरा शुक्रवार = (16 – 7) तारीख
= 9 तारीख
पहला शुक्रवार = (9 – 7)
= 2 तारीख
पहला मंगलवार = 6 तारीख
चौथा मंगलवार = (6 + 21) तारीख
= 27 तारीख
$\therefore$ चौथा मंगलवार महीने की 27 तारीख को है।

39. If 9 of the month falls on the day preceding Sunday, on what day will 1st of the month fall?
यदि महीने की 9 तारीख रविवार से पहले वाले दिन को पड़ती है, तो महीने की पहली तारीख किस दिन पड़ेगी?

(a) Friday /शुक्रवार (b) Saturday /शनिवार
(c) Sunday /रविवार (d) Monday /सोमवार

MP Police Constable Exam- 10 Sep-2023 Shift-2

Ans. (a) : प्रश्नानुसार,
महिने की 9 तारीख का दिन = रविवार – 1 = शनिवार
9 – 7 = 2 तारीख का दिन = शनिवार
1 तारीख का दिन = शनिवार – 1 = शुक्रवार

40. Day after tomorrow is Kirans birthday. On the same day next week falls 'Shivratri. Today is Monday. What will be the day after Shivratri?
परसों किरण का जन्मदिन है। उसी दिन अगले सप्ताह 'शिवरात्रि' आती है। आज सोमवार है। शिवरात्रि के बाद कौन-सा दिन होगा?

(a) Wednesday /बुधवार (b) Thursday /गुरुवार
(c) Friday /शुक्रवार (d) Saturday /शनिवार

MP Police Constable Exam- 10 Sep-2023 Shift-2

Ans. (b) : प्रश्नानुसार,
आज कल परसों (जन्मदिन)
| | |
सोमवार बुधवार
शिवरात्रि का दिन = बुधवार
शिवरात्रि के एक दिन बाद का दिन = गुरुवार
अतः शिवरात्रि के बाद का दिन गुरुवार होगा।

41. What was the day of the week on 25th July 2011?
25 जुलाई, 2011 को सप्ताह का कौन-सा दिन था?

(a) Sunday /रविवार
(b) Monday /सोमवार
(c) Tuesday /मंगलवार
(d) None of the given options /दिए गए विकल्पों में से कोई नहीं

MP Police Constable Exam- 10 Sep-2023 Shift-2

GET IT ON Google Play Best Study PDF के लिए हमारी App को Download करें "GK Trick By Nitin Gupta"

Ans. (b) : वर्ष 2000 तक विषम दिनों की संख्या = 0
वर्ष 2000 से 2010 तक विषम दिनों की संख्या = 8 + 2 × 2 = 12
25 जुलाई 2011 तक विषम दिनों की संख्या = 3 + 0 + 3 + 2 + 3 + 2 + 25
कुल विषम दिनों की संख्या = 12 + 13 + 25

$= \frac{50}{7} = 1$ विषम दिन

अतः 25 जुलाई, 2011 को सप्ताह का दिन = 1 (सोमवार)

42. If the day before yesterday was Thursday, when will Sunday be?/यदि कल से पहले का दिन गुरुवार था, तो रविवार कब होगा?

(a) Tomorrow/कल
(b) Day after tomorrow/परसों
(c) Today/आज
(d) Two days after today/आज के दो दिन बाद

MP Police Constable Exam- 12 Sep-2023 Shift-1

Ans. (a) : प्रश्नानुसार,
कल से पहले का दिन = गुरुवार
कल का दिन = शुक्रवार
आज का दिन = शनिवार
आने वाले कल का दिन = रविवार
अतः आने वाले कल के दिन रविवार होगा।

43. Mohini went to movies nine days ago. She goes to the movies only on Thursday. What day of the week is today?
मोहिनी नौ दिन पहले फिल्म देखने गई थी। वह गुरुवार को फिल्म देखने जाती है। आज सप्ताह का कौन-सा दिन है?

(a) Saturday/शनिवार (b) Thursday/गुरुवार
(c) Sunday/रविवार (d) Tuesday/मंगलवार

MP Police Constable Exam- 12 Sep-2023 Shift-1

Ans. (a) : प्रश्नानुसार,
∵ नौ दिन पहले गुरुवार था।
∴ आज तक दिनों की कुल संख्या = 9

9 दिनों में शेष दिन $= \frac{9}{7} = 1\frac{2}{7} = 2$ दिन

आज सप्ताह का दिन = गुरुवार + 2 (शेष दिन)
= शनिवार

44. If 26 March falls on Tuesday, on what day will the 8 of the month fall?
यदि 26 मार्च मंगलवार को पड़ता है, तो महीने की 8 तारीख किस दिन पड़ेगी?

(a) Sunday/रविवार (b) Friday/शुक्रवार
(c) Tuesday/मंगलवार (d) Wednesday/बुधवार

MP Police Constable Exam- 1 Sep-2023 Shift-2

Ans. (b) : प्रश्नानुसार,

5	6	7	8	12	19	26
मंगलवार	शुक्रवार	मंगलवार	मंगलवार	मंगलवार		

अतः स्पष्ट है कि उस महीने की 8 तारीख को शुक्रवार पड़ता है।

45. If the day after tomorrow is Sunday, then what day is today?
यदि परसों रविवार है तो आज कौन सा दिन है?

(a) Friday/शुक्रवार (b) Thursday/गुरुवार
(c) Monday/सोमवार (d) Tuesday/मंगलवार

MP Police Constable Exam- 1 Sep-2023 Shift-2

Ans. (a) : प्रश्नानुसार,

आज	कल	परसों
शुक्रवार	शनिवार	रविवार

46. It was Saturday on 12 December, 1342. What was the day of week on 24 August 1342 ?
12 दिसंबर, 1342 को शनिवार था। 24 अगस्त 1342 को सप्ताह का कौन-सा दिन था ?

(a) Tuesday/मंगलवार (b) Monday/सोमवार
(c) Sunday/रविवार (d) Friday/शुक्रवार

MP Police Constable Exam- 31 August-2023 Shift-2

Ans. (c) : प्रश्नानुसार,
∵ 12 दिसंबर 1342 को शनिवार था।
24 अगस्त 1342 = ?
24 अगस्त से 12 दिसंबर तक दिनों की संख्या
= 8 दिन (अगस्त) + सितम्बर + अक्टूबर + नवंबर + दिसंबर (12 दिन)
= 8 + 30 + 31 + 30 + 12
= 111

दिन $= \frac{111}{7}$

$= 15\frac{6}{7}$ — दिन (शेष)

अतः 24 अगस्त 1342 को सप्ताह का दिन = शनिवार – 6
= रविवार।

47. Saturday falls on 9 Sep, 2011. What was the day 9 Sep. 2007 ?
शनिवार 9 सितंबर, 2011 को पड़ता है। 9 सितंबर, 2007 को कौन-सा दिन था ?

(a) Sunday/रविवार (b) Saturday/शनिवार
(c) Monday/सोमवार (d) Tuesday/मंगलवार

MP Police Constable Exam- 3 Sep-2023 Shift-2

Ans. (c) : प्रश्नानुसार,
9 सितम्बर, 2011 को = शनिवार
9 सितम्बर, 2007 को, 3 3 साधारण तथा एक लीप वर्ष
अर्थात कुल विषम दिन = 3 + 2
= 5 दिन
9 सितम्बर, 2007 को पड़ने वाला दिन = (शनिवार – 5) या (शनिवार + 2) = सोमवार

48. If 15th June falls 3 days after tomorrow, that is Friday, on what day will the last of the month fall ?
यदि 15 जून कल के 3 दिन बाद अर्थात शुक्रवार को पड़ता है, तो महीने का अंतिम दिन किस दिन पड़ेगा?

(a) Monday/सोमवार (b) Tuesday/मंगलवार
(c) Wednesday/बुधवार (d) Thursday/गुरुवार

MP Police Constable Exam- 3 Sep-2023 Shift-2

GET IT ON Google Play Best Study PDF के लिए हमारी App को Download करें "GK Trick By Nitin Gupta"

Ans. (b) : प्रश्नानुसार,

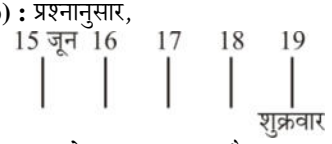

अर्थात 19 जून को शुक्रवार पड़ता है।
तो 19 + 7 = 26 जून को भी शुक्रवार पड़ेगा।
(26 + 4) = 30 जून को = शुक्रवार + 4
= मंगलवार

49. If Friday fall on 26 January, 1904, What will be the day of 9 June 1904 ?
यदि शुक्रवार 26 जनवरी, 1904 को पड़ता है, तो 9 जून 1904 को कौन-सा दिन होगा ?

(a) Friday/शुक्रवार (b) Saturday/शनिवार
(c) Sunday/रविवार (d) Monday/सोमवार

MP Police Constable Exam- 29 August-2023 Shift-1

Ans. (c) : 26 जनवरी 1904 से 9 जून 1904 तक दिनों की कुल संख्या $= \frac{5+29+31+30+31+9}{7}$
(सन् 1904 लीप वर्ष है इसलिए फरवरी माह में 29 दिन होगा)
$= \frac{135}{7}$
$= 2$
अतः 9 जून, 1904 को दिन = शुक्रवार + 2
= रविवार

50. If day before yesterday was Friday, what will be the third day after the day-after-tomorrow?
यदि कल से पहले का दिन शुक्रवार था, तो परसों के बाद तीसरा दिन क्या होगा?

(a) Thursday/गुरुवार (b) Friday/शुक्रवार
(c) Saturday/शनिवार (d) Sunday/रविवार

MP Police Constable Exam- 11 Sep-2023 Shift-3

Ans. (b) : प्रश्नानुसार,

51. If the day after tomorrow is Friday, what day will third day after the tomorrow be?
यदि परसों का दिन शुक्रवार है, तो कल के बाद तीसरा दिन कौन-सा होगा?

(a) Saturday/शनिवार (b) Monday/सोमवार
(c) Sunday/रविवार (d) Friday/शुक्रवार

MP Police Constable Exam- 11 Sep-2023 Shift-3

Ans. (c) : प्रश्नानुसार,

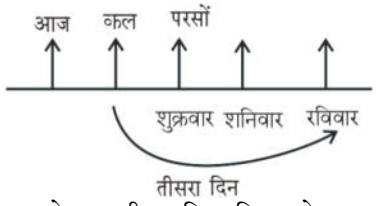

अतः अभीष्ट कल के बाद तीसरा दिन रविवार होगा।

52. If the 23 of a month is a Sunday, what day it would have been two weeks and four more days earlier ?
यदि किसी महीने की 23 तारीख को रविवार है, तो दो सप्ताह और चार दिन पहले कौन-सा दिन होगा ?

(a) Monday/सोमवार (b) Tuesday/मंगलवार
(c) Wednesday/बुधवार (d) Thursday/गुरुवार

MP Police Constable Exam- 3 Sep-2023 Shift-1

Ans. (c) : प्रश्नानुसार,
∵ **महीने के 23 तारीख को रविवार है**
∴ दो सप्ताह पहले की तारीख भी रविवार ही रही होगी।
और चार दिन पहले = रविवार − 4 दिन या रविवार + 3 दिन = बुधवार
अतः महीने के 23 तारीख के दो सप्ताह और 4 दिन पहले का दिन बुधवार रहा होगा।

53. Thursday falls on 16 April 1671, what will be the day on 16 April 1675 ?
16 अप्रैल 1671 को गुरुवार पड़ रहा है, 16 अप्रैल 1675 को कौन-सा दिन होगा ?

(a) Monday/सोमवार (b) Tuesday/मंगलवार
(c) Wednesday/बुधवार (d) Friday/शुक्रवार

MP Police Constable Exam- 3 Sep-2023 Shift-1

Ans. (b) : दिया है,-
16 अप्रैल 1671 का दिन = गुरुवार
16 अप्रैल 1671 से 16 अप्रैल 1675 तक
कुल साधारण वर्ष = 3
कुल लीप वर्ष = 1
कुल अतिरिक्त दिन = $3 \times 1 + 1 \times 2$
$= 3 + 2 = 5$ दिन
16 अप्रैल 1675 का दिन = गुरुवार + 5 = मंगलवार
अतः 16 अप्रैल 1675 को मंगलवार का दिन होगा।

54. In a month of 31 days, third Thursday falls on 16th. What will be the last day of the month?
यदि एक 31-दिवसीय महीने में 16 तारीख को तीसरा बृहस्पतिवार है, तो महीने का अन्तिम दिन होगा

(a) 5th Friday/पाँचवाँ शुक्रवार
(b) 5th Saturday/पाँचवाँ शनिवार
(c) 5th Wednesday/पाँचवाँ बुधवार
(d) 5th Thursday/पाँचवाँ बृहस्पतिवार

MP Police Constable Recruitment (Second)Test - 2013

Ans. (a) : ∵ दिया है महीने के 16 तारीख का दिन = बृहस्पतिवार
∴ 16 − 14 = 2 तारीख को बृहस्पतिवार होगा तथा 3 तारीख
को पहला शुक्रवार होगा 3, 10, 17, 24, 31 को शुक्रवार होगा।
अतः महीने की अंतिम तारीख (31) को पाँचवाँ शुक्रवार होगा।

GET IT ON Google Play Best Study PDF के लिए हमारी App को Download करें "GK Trick By Nitin Gupta"

Type-2: वर्ष पर आधारित प्रश्न

55. If Friday falls on 15 of September 2000, what will be the day of 15 of September 2001 ?
यदि शुक्रवार 15 सितंबर 2000 को पड़ता है, तो 15 सितंबर 2001 को कौन-सा दिन होगा ?

(a) Friday/शुक्रवार (b) Saturday/शनिवार
(c) Thursday/गुरुवार (d) Sunday/रविवार

MP Police Constable Exam- 31 August-2023 Shift-3

Ans. (b) : दिया है–
15 सितम्बर 2000 = शुक्रवार
15 सितम्बर 2001 = ?
15 सितम्बर 2000 से 15 सितम्बर 2001 तक अतिरिक्त दिनों की संख्या = 1
अतः 15 सितम्बर 2001 = शुक्रवार + 1 दिन
= शनिवार

56. If Tuesday fall on 19 July 2019, what will be the day of 16 Feb, 2019 ?
यदि मंगलवार 19 जुलाई 2019 को पड़ता है, तो 16 फरवरी 2019 को कौन-सा दिन होगा ?

(a) Tuesday/मंगलवार (b) Wednesday/बुधवार
(c) Thursday/गुरुवार (d) Monday/सोमवार

MP Police Constable Exam- 29 August-2023 Shift-2

Ans. (b) : 19 जुलाई 2019 मंगलवार

वास्तविक दिन $= \frac{19+0+6+3+5}{7}$

$= \frac{33}{7} = 5$ (बृहस्पतिवार)

$= [5 - 2]$

16 फरवरी 2019 को दिन

$= \frac{16+0+4+6+3+5}{7}$

$= 6 - 2$

$= 4$ (बुधवार)

अतः 16 फरवरी 2019 को बुधवार होगा।

57. Today is Friday. On the last Monday the date was 29 December, 1975. The date today is ?
आज शुक्रवार है। पिछले सोमवार को दिनांक 29 दिसम्बर 1975 थी। आज की तिथि है।

(a) 28 December, 1975/28 दिसंबर, 1975
(b) 3rd January, 1977/3 जनवरी, 1977
(c) 2 January, 1976/2 जनवरी, 1976
(d) 2 January, 1975/2 जनवरी, 1975

MP Police Constable Exam- 29 August-2023 Shift-2

Ans. (c) :
29 दिसम्बर 1975
↓
सोमवार मंगल बुध बृहस्पति शुक्र
↓
2 जनवरी 1976
अतः आज शुक्रवार को तिथि 2 जनवरी 1976 है।

58. What was the day of week on 19 June 1440 ?
19 जून 1440 को सप्ताह का कौन-सा दिन था ?

(a) Thursday/गुरुवार (b) Wednesday/बुधवार
(c) Friday/शुक्रवार (d) Saturday/शनिवार

MP Police Constable Exam- 24 August-2023 Shift-3

Ans. (c) : 19 जून 1440 को दिन = ?
1200 वर्ष + 200 वर्ष + 39 वर्ष + जनवरी + फरवरी + मार्च + अप्रैल + मई + 19 जून
1200 वर्षों में विषम दिन = 0
200 वर्षों में विषम दिन = 3
39 वर्षों में विषम दिन = 9 लीप वर्ष + 30 साधारण वर्ष
$= 9 \times 2 + 30 \times 1$
$= 18 + 30$
$= 48 = 6$ विषम दिन
1 जनवरी से 19 जून तक विषम दिन $= 3 + 1 + 3 + 2 + 3 + 5$
$= 17 = 3$ विषम दिन
कुल विषम दिन $= 0 + 3 + 6 + 3 = \frac{12}{7} = 5$ विषम दिन
$\because$ शुक्रवार का कोड = 5
अतः 19 जून 1440 को शुक्रवार था।

59. Suresh was born on 4 October 1999. Shashikant was born 6 days before Suresh. The Independence Day of the year fell on Sunday. Which day was Shashikant born?
सुरेश का जन्म 4 अक्टूबर, 1999 को हुआ था। शशिकांत का जन्म सुरेश से 6 दिन पहले हुआ था। साल का स्वतंत्रता दिन रविवार को पड़ा। शशिकांत का जन्म किस दिन हुआ था?

(a) Tuesday/मंगलवार (b) Wednesday /बुधवार
(c) Monday /सोमवार (d) Sunday /रविवार

MP Police Constable Exam- 2 Sep-2023 Shift-2

Ans. (a) : दिया है-
सुरेश का जन्म– 4 अक्टूबर 1999
शशिकांत का जन्म– 28 सितंबर 1999 (6 दिन पहले)
$\because$ 15 अगस्त 1999 को रविवार था।
$\therefore$ 15 अगस्त से 28 अक्टूबर के बीच रविवार
(I) 22 अगस्त
(II) 29 अगस्त
(III) 5 सितंबर
(IV) 12 सितंबर
(V) 19 सितंबर
(VI) 26 सितंबर
26 सितंबर + 2 $\Rightarrow$ रविवार + 2 $\Rightarrow$ मंगलवार
अतः शशिकांत का जन्म मंगलवार को हुआ था।

60. On what dates of May 1993 did Sunday fall ?
मई 1993 की किन तारीखों को रविवार पड़ा ?

(a) 1, 8, 15, 22, 29 (b) 2, 9, 16, 23, 30
(c) 3, 10, 17, 24, 31 (d) 4, 11, 18, 25

MP Police Constable Exam- 25 August-2023 Shift-3

GET IT ON Google Play Best Study PDF के लिए हमारी App को Download करें "GK Trick By Nitin Gupta"

Ans. (b) : विकल्प (b) के मान का जाँचने पर–
2 मई 1993 को दिन

दिन	माह कोड	शताब्दी कोड	लीप वर्ष कोड	$\frac{93}{7}$ का शेष
2	2	0	23	2

$$= \frac{2 + 2 + 0 + 23 + 2}{7}$$

$$= \frac{29}{7} = 1 \text{ शेष}$$

$\because$ 1 कोड रविवार का है।
अतः विकल्प (b) सही है।

61. In which year the calendar of 2011 will be used again ?
किस वर्ष 2011 के कैलेंडर का पुनः उपयोग किया जाएगा ?

(a) 2017 (b) 2018
(c) 2020 (d) 2022

MP Police Constable Exam- 5 Sep -2023 Shift-1

Ans. (d) :

$\boxed{\frac{\text{वर्ष}}{4}} \Rightarrow$ शेषफल → 0, तो +28; 1, तो +6; 2/3, तो +11

प्रश्नानुसार,

$$\frac{2011}{4} \text{ शेषफल} = 3$$

अतः शेषफल 3 प्राप्त होता है, तो वर्ष 2011 में 11 जोड़कर प्राप्त होने वाला कैलेंडर पुनः उपयोग किया जाएगा

$2011 + 11 = 2022$

62. Mr. Ravi and Priyanka celebrated their anniversary on Friday, 4 February 2005. When would they celebrate their next anniversary on the same day ?
श्री रवि और प्रियंका ने शुक्रवार, 4 फरवरी 2005 को अपनी वर्षगांठ मनाई। वे उसी दिन अपनी अगली वर्षगांठ कब मनाएंगे ?

(a) 2009 (b) 2011
(c) 2015 (d) 2010

MP Police Constable Exam- 5 Sep-2023 Shift-2

Ans. (b) : दिया है–

4 फरवरी 2005 → शुक्रवार
+1
4 फरवरी 2006 → शनिवार
+1
4 फरवरी 2007 → रविवार
+1
4 फरवरी 2008 → सोमवार (लीप वर्ष)
+2
4 फरवरी 2009 → बुधवार
+1
4 फरवरी 2010 → गुरुवार
+1
4 फरवरी 2011 → शुक्रवार

अतः रवि और प्रियंका अपनी अगली वर्षगांठ 2011 में मनायेंगे।

63. If John celebrated his victory day on Tuesday, 5th January 1965, when will he celebrate his next victory day on the same day ?
यदि जॉन ने अपना विजय दिवस मंगलवार, 5 जनवरी 1965 को मनाया, तो वह अपना अगला विजय दिवस उसी दिन कब मनाएगा ?

(a) 5 January 1970/5 जनवरी 1970
(b) 5 January 1971/5 जनवरी 1971
(c) 5 January 1973/5 जनवरी 1973
(d) 5 January 1974/5 जनवरी 1974

MP Police Constable Exam- 26 August-2023 Shift-3

Ans. (b) : 5 जनवरी 1965 को दिन

जनवरी कोड	शताब्दी कोड	लीप वर्ष कोड	$\frac{65}{7}$ का शेषफल
5	1	0	16	2

$$= \frac{5 + 1 + 0 + 16 + 2}{7}$$

$$\Rightarrow \frac{24}{7} = 3 \text{ (शेष)}$$

विकल्प (b) से–

5 जनवरी 1971 को दिन

$$\Rightarrow \frac{5+1+0+17+1}{7}$$

$$\Rightarrow \frac{24}{7} = 3 \text{ (शेष)}$$

अतः विकल्प (b) सही है।

64. Dates of birth of some person are given below. Find out the date of the youngest person:
किसी व्यक्ति के जन्म की तिथि नीचे दी गई है सबसे कम उम्र के व्यक्ति की तारीख का पता लगाएं:

a. 12.08. 1968 **b. 13.09.1968**
c. 19.06.1968 **d. 20.02.1968**
e. 22.03.1968 **f. 20.01.1968**

(a) g (b) b
(c) e (d) c

MP Police Constable Exam- 14 August-2023 Shift-3

Ans. (b) : प्रश्नानुसार, दी गयी जन्म तिथियों में 13.09.1968 सबसे कम उम्र के व्यक्ति को दर्शाता है अतः विकल्प (b) सही है।

65. In the year 1966, the republic day was celebrated on Sunday, when will it celebrated again on Sunday?
वर्ष 1966 में गणतंत्र दिवस रविवार को मनाया गया था, रविवार को फिर कब मनाया जाएगा?

(a) 1972 (b) 1982
(c) 1977 (d) 1971

MP Police Constable Exam- 6 Sep-2023 Shift-3

GET IT ON Google Play Best Study PDF के लिए हमारी App को Download करें "GK Trick By Nitin Gupta"

Ans. (a) : ∵ गणतंत्र दिवस 26 जनवरी को मनाया जाता है।

∴ 26 जनवरी 1966 से
1967 + 1
1968 + 1
1969 + 2 (लीप वर्ष की गणना की गई है)
1970 + 1
1971 + 1
26 जनवरी 1972 + 1

अतः शेष दिनों की संख्या 1966-1972 तक 7 है इसलिए 1966 और 1972 में गणतंत्र दिवस रविवार को ही मनाया जाएगा।

66. The calendar of 1971 used just after in the year?
वर्ष 1971 का कैलेंडर के ठीक बाद किस वर्ष उपयोग किया गया?

(a) 1977 (b) 1980
(c) 1976 (d) 1982

MP Police Constable Exam- 4 Sep-2023 Shift-3

Ans. (d) : प्रश्नानुसार,
दोबारा प्रयोग होने वाले Calendar –

वर्ष ÷ 4 → शेष = 0 ⇒ वर्ष + 28
→ शेष = 1 ⇒ वर्ष + 6
→ शेष = 2 या 3 ⇒ वर्ष +11

$\frac{1971}{4}$ ⇒ शेष = 3

1971 + 11 = 1982

अतः 1971 का Calendar 1982 में दोबारा प्रयोग होगा।

67. In the year 1979 X-mas day was celebrated on Tuesday. When will it be celebrated on same day?
वर्ष 1979 में मंगलवार को क्रिसमस दिवस मनाया गया। यह उसी दिन कब मनाया जाएगा?

(a) 1987 (b) 1984
(c) 1990 (d) 1975

MP Police Constable Exam- 8 Sep-2023 Shift-1

Ans. (b) : प्रश्नानुसार,

वर्ष 1979 मंगलवार
+2 (लीप वर्ष की गणना)
वर्ष 1980 गुरुवार
+1
वर्ष 1981 शुक्रवार
+1
वर्ष 1982 शनिवार
+1
वर्ष 1983 रविवार
+2 (लीप वर्ष की गणना)
वर्ष 1984 मंगलवार

अतः वर्ष 1984 में क्रिसमस दिवस पुनः मंगलवार को मनाया जायेगा।

68. Manoj celebrated his birthday on Saturday, 7 March, 2004. When will he celebrate his next birthday on same day?
मनोज ने अपना जन्मदिन शनिवार, 7 मार्च, 2004 को मनाया। वह अपना अगला जन्मदिन उसी दिन कब मनाएगा?

(a) 2009 (b) 2010
(c) 2011 (d) 2012

MP Police Constable Exam- 6 Sep-2023 Shift-2

Ans. (b) : 7 मार्च 2004 का दिन = शनिवार
7 मार्च 2005 का दिन = शनिवार + 1दिन = रविवार
7 मार्च 2006 का दिन = रविवार + 1दिन = सोमवार
7 मार्च 2007 का दिन = सोमवार + 1 दिन = मंगलवार
7 मार्च 2008 का दिन = मंगलवार + 2 दिन = गुरुवार
7 मार्च 2009 का दिन = गुरुवार + 1 दिन = शुक्रवार
7 मार्च 2010 का दिन = शुक्रवार + 1 दिन = शनिवार

अतः मनोज अपना अगला जन्मदिन 7 मार्च 2010 को उसी दिन (शनिवार) को मनायेगा।

Note :- वर्ष 2008 लीपवर्ष इसलिए इसमें 2 अतिरिक्त दिन जोड़ा गया है जबकि साधारण वर्ष में एक अतिरिक्त दिन जोड़ा जाता है।

69. 1.11.93 is First Monday. Which is the 4th Friday of November 1993 ?
1.11.93 पहला सोमवार है। नवंबर 1993 का चौथा शुक्रवार कौन-सा है ?

(a) 26-11-93 (b) 24-11-93
(c) 25-11-93 (d) 27-11-93

MP Police Constable Exam- 27 August-2023 Shift-2

Ans. (a) : 1 नवम्बर 1993 → सोमवार
1 नवम्बर के बाद आने वाला पहला शुक्रवार = 5

5 → 12 (+7) → 19 (+7) → 26 (+7)

अतः 26 नवम्बर 1993 को नवम्बर का 'चौथा शुक्रवार' होगा।

70. What is the day on 15th August 2050?
15 अगस्त 2050 को कौन-सा दिन है?

(a) Monday/सोमवार (b) Tuesday/मंगलवार
(c) Wednesday/बुधवार (d) Thursday/गुरुवार

MP Police Constable Exam 19 July 2016 - 9:am

Ans : (a) 15 अगस्त 2050 को दिन होगा–

शर्त $\frac{x+y+z+r}{7}$

जहाँ x = वर्ष का अंतिम दो अंक
z = शताब्दी वर्ष का कोड
r = महीने का शेष दिन

$x = \frac{50-1}{7} = \frac{49}{7} = 0$ (शेषफल)

$y = \frac{49}{5} = 12$ (भागफल)

$= \frac{12}{7} = 5$ (शेषफल)

$z = \frac{2000}{400} = 0$ (शेषफल)

r = जनवरी 3, फरवरी 0, मार्च = 3, अप्रैल = 2, मई = 3, जून = 2, जुलाई = 3

∴ 15 अगस्त 1950 को दिन होगा–

$= \frac{0+5+0+3+0+3+2+3+2+3+1}{7}$

$= \frac{22}{7} = 1$ (शेषफल)

= 1 अर्थात सोमवार होगा।

GET IT ON Google Play Best Study PDF के लिए हमारी App को Download करें "GK Trick By Nitin Gupta"

दिन का कोड–

रविवार = 0
सोमवार = 1
मंगलवार= 2
बुधवार = 3
बृहस्पतिवार= 4
शुक्रवार= 5
शनिवार = 6

71. What is the day on 25th May 1999?
25 मई 1999 को कौन सा दिन है?

(a) Monday/सोमवार (b) Tuesday/मंगलवार
(c) Wednesday/बुधवार (d) Thursday/गुरूवार

MP Police Constable Exam- 1 August-2016, 3:pm

Ans : (b) 25 मई, 1999.....?

$$\frac{x+y+z+r}{7}$$

$$x=\frac{99-1}{7}=\frac{98}{7}=0 \text{ शेषफल}$$

$$y=\frac{98}{4}=24 \text{ भागफल}, \ \frac{24}{7}=3 \text{ शेषफल}$$

z = शताब्दी का शेष दिन या कोड = 1
R = महीने का शेष दिन

$$z=\frac{3+0+3+2+25}{7}=\frac{33}{7}=5 \text{ दिन}$$

$$\frac{0+3+1+5}{7}=\frac{9}{7}=2 \text{ शेष दिन}$$

2 = मंगलवार

शताब्दी	–	कोड/शेष दिन
2000	–	0
1900	–	1
1800	–	3
1700	–	5
1600	–	0
1500	–	1
1400	–	3
1300	–	5
1200	–	0
दिन	**–**	**कोड**
रविवार	–	0
सोमवार	–	1
मंगलवार	–	2
बुधवार	–	3
बृहस्पतिवार	–	4
शुक्रवार	–	5
शनिवार	–	6

72. What is the day on 8th December, 2016?/8 दिसम्बर, 2016 को कौन-सा दिन है?

(a) Monday/सोमवार (b) Tuesday/मंगलवार
(c) Wednesday/बुधवार (d) Thursday/गुरुवार

MP Police Constable Exam- 20 July-2016 - 9: am

Ans : (d) 8 दिसम्बर 2016 = (2015 +1.1.2016 से 8.12.2016 के बीच का समय)

2000 = 0 विषम दिन
15 = (3 लीप वर्ष + 12 सामान्य वर्ष)
= (3×2+12×1) = 6+12 = 18

$$=\frac{343}{7}=0 \text{ विषम दिन}$$

$$\text{दिन } =0+18+0=\frac{18}{7}=4 \text{ विषम दिन अर्थात् गुरुवार}$$

∵ गुरुवार का कोड है।
अतः 8 दिसम्बर, 2016 को गुरुवार था।

Type-3: घड़ी की सुईयों के बीच के कोण पर आधारित प्रश्न

73. What angle is made by minute hand in 20 sec ?
मिनट की सुई 20 सेकंड में कितना कोण बनाती है ?

(a) 2° (b) 2.2°
(c) 20° (d) 40°

MP Police Constable Exam- 31 August-2023 Shift-3

Ans. (a) : प्रश्नानुसार,
60 सेकेंड में मिनट की सुई द्वारा बनाया गया कोण = 6°

$$\because \text{20 सेकेंड में मिनट की सुई द्वारा बनाया गया कोण } =\frac{6}{60}\times 20 = 2^\circ$$

अतः विकल्प (a) सही उत्तर है।

74. What angle is made by second hand in 45 seconds ?
सेकंड की सुई 45 सेकंड में कितना कोण बनाती है ?

(a) 15° (b) 45°
(c) $\left(\frac{1}{8}\right)^\circ$ (d) 90°

MP Police Constable Exam- 27 August-2023 Shift-1

Ans. (*) : सेकेंड वाली सुई के द्वारा 60 सेकंड में 1 चक्कर अर्थात 360° को कोण बनता है
60 सेकंड में बना कोण = 360°

$$1 \text{ सेकंड में बना कोण } =\frac{360^\circ}{60}=6^\circ$$

45 सेकंड में बना कोण = 45 × 6
= 270°

75. What is the angle between minute and hour hand at 12 : 20 ?
12 : 20 पर मिनट और घंटे की सूई के बीच का कोण कितना होता है ?

(a) 260° (b) 110°
(c) 120° (d) 20°

MP Police Constable Exam- 27 August-2023 Shift-1

Ans. (b) : 12 : 20 के बीच मिनट की सूई द्वारा बनाया गया कोण
= 4 × 30°
= 120°

$$20 \text{ मिनट में घंटे के सूई द्वारा बनाया गया कोण } = 20\times\frac{1}{2}^\circ = 10^\circ$$

अतः 12 : 20 पर मिनट और घंटे की सूई के बीच का कोण
= 120° – 10°
= 110°

GET IT ON Google Play Best Study PDF के लिए हमारी App को Download करें "GK Trick By Nitin Gupta"

76. What angle is made by minute hand in 55 seconds ?
मिनट की सुई 55 सेकंड में कितना कोण बनाती है ?

(a) 17º (b) 5.5º
(c) 29º (d) 26º

MP Police Constable Exam- 25 August-2023 Shift-3

Ans. (b) : ∵ 1 मिनट में घड़ी की सूई कोण बनाती है = 6º

∴ 55 सेकेण्ड में $= 6 \times \frac{55}{60}$

$= 5.5^\circ$

77. What angle is made by second hand in 15 seconds?
सेकंड की सुई 15 सेकंड में कितना कोण बनाता है?

(a) 15º (b) 1.5º
(c) $\left(\frac{1}{8}\right)^\circ$ (d) 90º

MP Police Constable Exam- 19 August-2023 Shift-2

Ans. (d) : प्रश्नानुसार,

∵ 60 सेकण्ड में सेकण्ड की सुई द्वारा बना कोण = 360º

∴ 15 सेकण्ड में सुई द्वारा बना कोण $= \frac{360}{60} \times 15$

$= 6 \times 15$

$= 90^\circ$

78. An accurate clock shows 6 O' clock in the morning. Through how many degrees will the hours hand rotate when the clock shows 4 O' clock in the afternoon?
एक सटीक घड़ी सुबह के 6 बजे को दर्शाती है। जब घड़ी दोपहर में 4 बजे दिखाती है, तो घंटे की सुई कितनी डिग्री घूमेगी?

(a) 200º (b) 300º
(c) 320º (d) 180º

MP Police Constable Exam- 19 August-2023 Shift-2

Ans. (b) : प्रश्नानुसार,

सुबह 6 बजे से शाम 4 बजे के बीच कुल घंटों की संख्या = 6 + 4
= 10 घंटा

∵ 12 घंटे में, घंटे की सुई द्वारा बना कोण = 360º

∴ 10 घंटे में, घंटे की सुई द्वारा बना कोण $= \frac{360}{12} \times 10$

$= 30 \times 10$

$= 300^\circ$

79. What angle is made by minute hand in 29 sec.?
मिनट की सुई 29 सेकंड में कितना कोण बनाती है?

(a) 17º (b) 2.9º
(c) 29º (d) 26º

MP Police Constable Exam- 18 August-2023 Shift-1

Ans. (b) : मिनट की सुई द्वारा 1 घण्टे में बनाया कोण = 360º

प्रश्नानुसार,

मिनट की सुई द्वारा 1 से. में बनाया गया कोण $= \frac{360}{60 \times 60} = 0.1^\circ$

तब, 29 से. में बनाया गया कोण $= 29 \times 0.1 = 2.9^\circ$

80. An accurate clock shows 8 O' clock in the morning. Through how many degrees will the hours hand rotate when the clock shows 2 O' clock in the afternoon?
एक सटीक घड़ी सुबह के 8 बजे को दर्शाती है। जब घड़ी दोपहर में 2 बजे दिखाती है, तो घंटे की सुई कितनी डिग्री घूमेगी?

(a) 144º (b) 150º
(c) 168º (d) 180º

MP Police Constable Exam- 18 August-2023 Shift-1

Ans. (d) : 8 से 2 बजे के बीच का समयांतराल = 6 घण्टे

∴ घण्टे की सुई द्वारा 12 घंटे में बनाया गया कोण = 360º

∵ घण्टे की सुई द्वारा 1 घण्टे में बनाया गया कोण $= \frac{360}{12} = 30^\circ$

∵ 6 घण्टे में बनाया गया कोण $= 6 \times 30 = 180^\circ$

81. What is the angle between minute and hour hand at 7 : 09 ?
7 : 09 पर मिनट और घंटे की सूई के बीच का कोण कितना होता है ?

(a) 120.5º (b) 160.5º
(c) 49.5º (d) 19.5º

MP Police Constable Exam- 23 August-2023 Shift-2

Ans. (b) : प्रश्नानुसार,

$\theta = ?$ $\underline{7:09}$

कोण $(\theta) = 6M - \left[30H + \frac{M}{2}\right]$

↓

दिये गये समय के अनुसार-

$= 6 \times 9 - \left[30 \times 7 + \frac{9}{2}\right]$

$= 54 - \left[210 + \frac{9}{2}\right]$

$= 54 - \left[\frac{420 + 9}{2}\right]$

$= 54 - \frac{429}{2}$

$= 54 - 214.5$

$\theta = 160.5^\circ$

82. What angle is made by minute hand in 49 sec ?
मिनट की सुई 49 सेकंड में कितना कोण बनाती है ?

(a) 6º (b) 5º
(c) 5.9º (d) 4.9º

MP Police Constable Exam- 26 August-2023 Shift-3

Ans. (d) : 60 मिनट में बना कोण = 360º

1 मिनट में बना कोण = 6º

49 सेकेण्ड में बना कोण $= \frac{6 \times 49}{60}$

$= 4.9^\circ$

83. At what time between 3 to 4 O' clock minute and hour hand are opposite to each other ?
3 से 4 बजे के बीच किस समय मिनट और घंटे की सुई एक-दूसरे के विपरीत होती है ?

GET IT ON Google Play Best Study PDF के लिए हमारी App को Download करें "GK Trick By Nitin Gupta"

(a) $3:43\frac{7}{11}$ (b) $3:38\frac{2}{11}$

(c) $3:49\frac{1}{11}$ (d) $3:54\frac{6}{11}$

MP Police Constable Exam- 26 August-2023 Shift-3

Ans. (c) : घड़ी के मिनट और घण्टे की सुई द्वारा बना कोण

सूत्र– $\theta = \frac{11}{2}M - 30H$ से–

प्रश्नानुसार,

$\theta = 180^o$, $H = 3$ बजे

$180 = \frac{11}{2}M - 30 \times 3$

$180 + 90 = \frac{11}{2}M$

$M = 49\frac{1}{11}$

अतः 3 बजकर $49\frac{1}{11}$ मिनट पर दोनों सुई विपरीत होगी।

84. What is the angle between minute and hour hand at 11 : 10 ?
11 : 10 पर मिनट और घंटे की सूई के बीच का कोण कितना होता है ?

(a) 265° (b) 175°

(c) 85° (d) 95°

MP Police Constable Exam- 23 August-2023 Shift-3

Ans. (c) : 11 : 10 के बीच मिनट की सूई द्वारा बनाया गया कोण

$\Rightarrow$ $3 \times 30^o = 90^o$

10 मिनट में घंटे के सुई द्वारा बनाया गया कोण $= 10 \times \frac{1}{2}^o$

$= 5^o$

अतः 11 : 10 पर मिनट और घंटे की सूई के बीच का कोण

$= 90^o - 5^o$

$= 85^o$

85. At what time between 6 to 7 O' clock minute and hour hand will coincide ?
6 से 7 बजे के बीच किस समय मिनट और घंटे की सुई एक साथ होगी ?

(a) $6:38\frac{2}{11}$ (b) $6:43\frac{7}{11}$

(c) $6:32\frac{8}{11}$ (d) $6:5\frac{5}{11}$

MP Police Constable Exam- 25 August-2023 Shift-1

Ans. (c) :

$\theta = 0^o$

$T_1 = 6$

$T_2 = 7$

$m = ?$

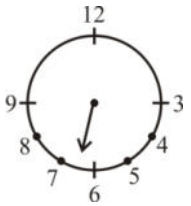

$M = \frac{2}{11}(T_1 \times 30 \pm \theta)$

$= \frac{2}{11}(6 \times 30 \pm \theta)$

$= \frac{360}{11}$

$= 32\frac{8}{11}$ मिनट

अतः 6 : $32\frac{8}{11}$ मिनट पर मिनट और घण्टे की सूई एक साथ होंगी।

86. What angle will the two hands of a clock make at 6 : 20 a.m. ?
एक घड़ी में 6:20 बजे दोनों सुइयों के बीच कितना कोण बनेगा ?

(a) 60° (b) 70°

(c) 75° (d) 45°

MP Police Constable Exam- 23 August-2023 Shift-3

Ans. (b) : 6 : 20 बजे दोनों सुइयों के बीच कोण–

सूत्र $\rightarrow$ $M = \frac{2}{11}[H \times 30 \pm \theta]$ [जहाँ $\rightarrow$ M – मिनट, H – घण्टा, θ – कोण]

$20 = \frac{2}{11}[6 \times 30 \pm \theta]$

$220 = 180 \times 2 \pm 2\theta$

$2\theta = 360 - 220$

$\theta = 70^o$

87. What angle is made by second hand in 30 seconds ?
सेकंड की सुई 30 सेकंड में कितना कोण बनाता है ?

(a) 15° (b) 45°

(c) 30° (d) 90°

MP Police Constable Exam- 28 August-2023 Shift-3

Ans. (*) : सेकण्ड वाली सुई द्वारा–

60 सेकण्ड में बना कोण $= 360^o$

30 सेकण्ड में बना कोण $= \frac{360^o}{60^o} \times 30$

$= 180^o$

88. What is the angle traced by hour hand in 2 hours 30 minutes ?
घंटे की सुई द्वारा 2 घंटे 30 मिनट में बनाया गया कोण कितना है ?

(a) 75° (b) 60°

(c) 30° (d) 45°

MP Police Constable Exam- 23 August-2023 Shift-1

Ans. (a) : प्रश्नानुसार,

घंटे की सुई द्वारा 1 घंटे में बनाया गया कोण $= \frac{360^o}{12}$

$= 30^o$

2 घंटे में बनाया गया कोण $= 30^o \times 2$

$= 60^o$

GET IT ON Google Play Best Study PDF के लिए हमारी App को Download करें "GK Trick By Nitin Gupta"

तथा,

घंटे की सुई द्वारा 1 मिनट में बनाया गया कोण $= \frac{1}{2}^\circ$

30 मिनट में बनाया गया कोण $= 30 \times \frac{1}{2}^\circ$

$= 15^\circ$

अतः घंटे की सुई द्वारा 2 घंटे 30 मिनट में बनाया गया कोण

$= 60^\circ + 15^\circ$

$= 75^\circ$

89. What is the angle between minute and hour hand at 12 : 46?
12 : 46 पर मिनट और घंटे की सुई के बीच का कोण कितना होता है ?

(a) 90º (b) 107º
(c) 159º (d) 7º

MP Police Constable Exam- 23 August-2023 Shift-1

Ans. (b) : 12 : 46 बजे दोनों सुइयों के बीच कोण–

सूत्र $\rightarrow$ मिनट $= \frac{2}{11}\left[\text{घण्टा} \times 30 \pm \theta \text{ कोण}\right]$ से,

$\therefore \quad 46 = \frac{2}{11}[12 \times 30 \pm \theta]$

$506 = 720 \pm 2\theta$

$2\theta = 214^\circ$

$\theta = 107^\circ$

अतः अभीष्ट कोण $= 107^\circ$

90. At what time between 10 to 11 O' clock minute and hour hand will coincide ?
10 से 11 बजे के बीच किस समय मिनट और घंटे की सुई एक साथ होगी ?

(a) $10:43\frac{7}{11}$ (b) $10:38\frac{2}{11}$
(c) $10:54\frac{6}{11}$ (d) $10:10\frac{10}{11}$

MP Police Constable Exam- 25 August-2023 Shift-2

Ans. (c) : जब मिनट तथा घंटे की सूई साथ होगी तो उनके बीच कोण $(\theta) = 0^\circ$ होगा।

A_1 = दिया गया कोण, A_2 = कम वाला घंटा $\times$ 30

अभीष्ट समय $= 10 : \frac{2}{11}(A_1 \pm A_2)$

$= 10 : \frac{2}{11}(0 \pm 10 \times 30)$

$= 10 : \frac{2}{11} \times 300$

$= 10 : \frac{600}{11}$

$= 10 : 54\frac{6}{11}$

91. What angle is made by hour hand in 36 sec?
घंटे की सूई 36 सेकंड में कितना कोण बनाती है?

(a) 120º (b) 3º
(c) $\left(\frac{3}{10}\right)^\circ$ (d) $\left(\frac{10}{3}\right)^\circ$

MP Police Constable Exam- 18 August-2023 Shift-2

Ans. (c) : प्रश्नानुसार,

1 घंटे में घड़ी की घंटे वाली सुई 30º घुमती है

$\because$ 1 घंटा = 3600 सेकंड

$\therefore$ 36 सेकंड में तय की गयी दूरी $= \left(\frac{30}{3600} \times 36\right)$

$= \left(\frac{3}{10}\right)^\circ$

92. What is the angle between minute and hour hand at 12 : 20 ?
12 : 20 पर मिनट और घंटे की सूई के बीच का कोण कितना होता है ?

(a) 260º (b) 110º
(c) 120º (d) 20º

MP Police Constable Exam- 24 August-2023 Shift-3

Ans. (b) : 12 : 20 के बीच मिनट की सूई द्वारा बनाया गया कोण

$= 20 \times 6^\circ$

$= 120^\circ$

20 मिनट में घंटे के सूई द्वारा बनाया गया कोण $= 20 \times \frac{1}{2}^\circ$

$= 10^\circ$

अतः 12 : 20 पर मिनट और घंटे की सूई के बीच का कोण

$= 120^\circ - 10^\circ$

$= 110^\circ$

93. At what time between 6 to 7 O'clock minute and hour hand will be at right angle or makes 90º angle ?
6 से 7 बजे के बीच किस समय घड़ी मिनट और घंटे की सुई समकोण पर होगी या 90º का कोण बनाती है?

(a) $6:38\frac{2}{11}, 6:43\frac{7}{11}$
(b) $6:43\frac{7}{11}, 6:49\frac{1}{11}$
(c) $6:49\frac{1}{11}, 6:16\frac{4}{11}$
(d) $6:16\frac{4}{11}, 6:54\frac{6}{11}$

MP Police Constable Exam- 26 August-2023 Shift-2

Ans. (c) : $\because$ मिनट की सुई द्वारा 1 मिनट में बना कोण = 6º

तब, मिनट वाली सुई 1 मिनट में घंटे वाली सुई से 5.5º आगे रहती है (घण्टे व मिनट सुईयों की सापेक्ष गति)

प्रश्नानुसार,

6 बजे घण्टे तथा मिनट की सुई के बीच बना कोण = 180º

$\because$ दो स्थितियों में मिनट व घण्टे की सुई समकोण (90º) पर होती हैं।

प्रथम स्थिति–

जब मिनट की सुई, घण्टे की सुई से 90º पीछे रहती है

तब समय $= \frac{90^\circ}{5.5^\circ}$

$= \frac{900}{55} = \frac{180}{11}$

$= 16\frac{4}{11}$ मिनट

GET IT ON Google Play Best Study PDF के लिए हमारी App को Download करें "GK Trick By Nitin Gupta"

द्वितीय स्थिति–

जब मिनट की सुई, घण्टे की सुई से 270° आगे हो

तब, समय $= \frac{270^\circ}{5.5^\circ}$

$= \frac{2700}{55} = \frac{540}{11}$

$= 49\frac{1}{11}$ मिनट

अतः दो स्थितियों $6:49\frac{1}{11}$ मिनट तथा $6:16\frac{4}{11}$ मिनट पर घण्टे की सुई समकोण (90°) बनाती हैं।

84. What angle is made by hour hand in 60 seconds?
घंटे की सूई से 60 सेकंड में कौन-सा कोण बनता है?

(a) 120° (b) $\left(\frac{1}{2}\right)^\circ$
(c) $\left(\frac{3}{10}\right)^\circ$ (d) $\left(\frac{10}{3}\right)^\circ$

MP Police Constable Exam- 26 August-2023 Shift-2

Ans. (b) : प्रश्नानुसार,
12 घण्टे में घंटे की सुई द्वारा बना कोण = 360°

तब 1 घण्टे में घंटे की सुई द्वारा बना कोण $= \frac{360^\circ}{12} = 30^\circ$

या 60 मिनट में घंटे की सुई द्वारा बना कोण = 30°

तब 1 मिनट (60 से.) में घंटे की सुई द्वारा बना कोण $= \frac{30^\circ}{60}$

$= \left(\frac{1}{2}\right)^\circ$

95. What angle is made by minute hand in 10 sec ?
मिनट की सुई 10 सेकंड में कितना कोण बनाती है ?

(a) 1° (b) 2°
(c) 3° (d) 4°

MP Police Constable Exam- 31 August-2023 Shift-2

Ans. (a) :
प्रश्नानुसार,

1 मिनट में बनाया गया कोण $= \frac{360^\circ}{60}$

1 मिनट में बनाया गया कोण = 6°

10 से. में बनाया गया कोण $= \frac{6}{60} \times 10$

$= 1^\circ$

∴ अतः मिनट की सुई 10 से. में 1° का कोण बनाती है।

96. What is the angle between the hands of a clock when the time is 3 : 40 a.m.?
घड़ी की सुइयों के बीच का कोण क्या है जब समय प्रातः 3 : 40 बजे होता है?

(a) 130° (b) 110°
(c) 240° (d) 200°

MP Police Constable Exam- 19 August-2023 Shift-3

Ans. (a) : दिया गया समय निम्नवत् है-
समय = 3 : 40

घड़ी के दोनों सुइयों के बीच का कोण $= m \times \frac{11}{2} \sim H \times 30$

[जहाँ m = मिनट, H = घंटा]

$= 40 \times \frac{11}{2} \sim 3 \times 30$

$= 220 \sim 90$

$= 130^\circ$

97. What angle is made by minute hand in 33 sec?
मिनट की सुई 33 सेकंड में कितना कोण बनाती है?

(a) 4^0 (b) 3.3^0
(c) 5.9^0 (d) 4.9^0

MP Police Constable Exam- 1 Sep-2023 Shift-1

Ans. (b) : हम जानते है घड़ी के 360° के एक पूरे चक्कर के लिए, मिनट की सुई को 60 मिनट (1 घंटा) का समय लगता है।

∴ 60 मिनट = 360°

1 मिनट = 6°

60 सेकण्ड $= \frac{6^\circ}{60}$

33 सेकण्ड $= \frac{6^\circ}{60} \times 33$

$= 3.3^\circ$

98. What angle is made by minute hand in 59 sec?
मिनट की सुई 59 सेकंड में कितना कोण बनाती है?

(a) 6° (b) 5°
(c) 5.9° (d) 4.9°

MP Police Constable Exam- 18 August-2023 Shift-3

Ans. (c) : प्रश्नानुसार,

∵ मिनट की सुई 60 सेकण्ड में कोण = 6°

∴ मिनट की सुई 59 सेकण्ड में कोण बनायेगी $= \frac{6^\circ}{60} \times 59$

$= 5.9^\circ$

99. What is the angle traced by hour hand between 3 : 45 am to 4 : 15 am?
3 : 45 बजे सुबह से 4 : 15 बजे सुबह तक घंटे की सुई से बनने वाला कोण क्या है?

(a) 30° (b) 15°
(c) 18° (d) 36°

MP Police Constable Exam- 20 August-2023 Shift-3

Ans. (b) : प्रश्नानुसार,

∵ घण्टे की सुई 1 मिनट में $\frac{1}{2}^\circ$ का कोण बनाती है।

∴ 3 : 45 से 4 : 15 तक कुल 30 मिनट घण्टे की सुई चलेगी ।

अतः बनने वाला कोण $= 30 \times \frac{1}{2} = 15^\circ$

100. What is the angle between the hands of a clock When the time is 10 : 40 p.m.?
घड़ी की सूईयों के बीच का कोण क्या होता है जब समय 10:40 अपराह्न बजे होता है?

(a) 60° (b) 80°
(c) 100° (d) 120°

MP Police Constable Exam- 20 August-2023 Shift-1

GET IT ON Google Play Best Study PDF के लिए हमारी App को Download करें "GK Trick By Nitin Gupta"

Ans. (b) : प्रश्नानुसार,

मिनट $= \frac{2}{11}(H \times 30 \pm A)$

$40 = \frac{2}{11}(10 \times 30 + A)$

$220 = 300 + A$

$\boxed{A = 80^\circ}$

अतः 10 : 40 अपराह्न बजे घड़ी की सूईयों के बीच का कोण 80° होगा

101. What is the angular distance covered by a minute hand in 2 hours 20 minutes?
एक मिनट की सुई द्वारा 2 घंटे 20 मिनट में तय की गई कोणीय दूरी कितनी है?

(a) 520 degree/520 डिग्री
(b) 840 degree/840 डिग्री
(c) 300 degree/300 डिग्री
(d) 215 degree/215 डिग्री

MP Police Constable Exam- 21 August-2023 Shift-3

Ans. (b) : एक मिनट में घड़ी द्वारा चली गई कोणीय दूरी = 6°
प्रश्नानुसार,
2 घंटे 20 मिनट में चली गई कोणीय दूरी $= (2 \times 60 + 20) \times 6^\circ$
$= (120 + 20) \times 6^\circ$
$= 140 \times 6^\circ$
$= 840^\circ$

102. What is the angle between minute and hour hand at 9 : 53?
9 : 53 पर मिनट और घंटे की सुई के बीच का कोण क्या है?

(a) 121.5° (b) 21.5°
(c) 130° (d) 68.5°

MP Police Constable Exam- 21 August-2023 Shift-3

Ans. (b) : सूत्र से,

$\theta = M \times \frac{11}{2} \sim 30 \times H$

$\theta = 53 \times \frac{11}{2} \sim 30 \times 9$

$= 291.5 \sim 270$

$= 21.5^\circ$

103. What is the angle traced by minute hand in 37.5 minutes?
37.5 मिनट में मिनट सुई द्वारा बनाया गया कोण क्या है?

(a) 220° (b) 260°
(c) 225° (d) 210°

MP Police Constable Exam- 21 August-2023 Shift-2

Ans. (c) : घड़ी की सूई द्वारा एक मिनट में बनाया गया कोण = 6°
प्रश्नानुसार,

मिनट की सूई द्वारा बनाया गया कोण $= 37 \times 6^\circ + \frac{1}{2} \times 6^\circ$
$= 222^\circ + 3^\circ$
$= 225^\circ$

अतः 37.5 मिनट में मिनट की सूई द्वारा बनाया गया कोण 225° होगा।

104. What angle is made by minute and hour hand at 4 : 12?
4 : 12 पर मिनट और घंटे की सूई से कितना कोण बनता है?

(a) 66° (b) 44°
(c) 54° (d) 60.5°

MP Police Constable Exam- 21 August-2023 Shift-2

Ans. (c) : सूत्र,

$\boxed{\theta = \frac{11}{2} \times m \sim 30 \times h}$

प्रश्नानुसार,

$\theta = \frac{11}{2} \times 12 \sim 30 \times 4$

$\theta = 66 \sim 120$

$\theta = 54^\circ$

105. What is the angle traced by minute hand between 10 : 00 a.m. to 10 : 35 a.m.?
10 : 00 बजे सुबह से 10 : 35 बजे सुबह तक के बीच मिनट की सुई द्वारा बनाया गया कोण क्या है?

(a) 200° (b) 210°
(c) 180° (d) 160°

MP Police Constable Exam- 20 August-2023 Shift-2

Ans. (b) : प्रश्नानुसार,
10 बजे से 10 : 35 के बीच मिनट = 35 मिनट
∵ 1 मिनट में बना कोण = 6°
∴ 35 मिनट में बना कोण $= 35 \times 6 = 210^\circ$

106. A bell rings in a school after every 25 minutes. The enquiry clerk told a person that the bell rang 10mts before and the next bell will ring at 10.05 am. At what approximate time did the enquiry clerk give this information to the person?
हर 25 मिनट के पश्चात एक स्कूल में घंटी बजती है। पूँछताछ क्लर्क ने एक व्यक्ति को बताया कि घंटी 10 मिनट पहले बजी थी और अगली घंटी प्रातः 10:05 पर बजेगी। पूँछताछ क्लर्क ने लगभग किस समय पर यह जानकारी उस व्यक्ति को दी?

(a) 9:40am/9:40 प्रातः (b) 9:50am/9:50 प्रातः
(c) 9:35am/9:35 प्रातः (d) 9:55am/9:55 प्रातः

MP Police Constable Exam- 1 August-2016, 3:pm

Ans : (b) अगली घंटी जो 15 मिनट बाद बजेगी का समय
= 10:05 am
अतः बताने का समय = 10:05am – 15 मिनट
= 9:50 am

Type-4: समय पर आधारित प्रश्न

107. A watch which loses uniformly is 3 minute fast at 6 A.M on Thursday and is 3 minute 12 sec. slow at 5 P.M on upcoming Wednesday. When was it correct ?

GET IT ON Google Play Best Study PDF के लिए हमारी App को Download करें "GK Trick By Nitin Gupta"

एक घड़ी जो समान रूप से धीमी हो जाती है, गुरुवार को सुबह 6 बजे यह 3 मिनट तेज है और आगामी बुधवार को शाम 5 बजे यह 3 मिनट 12 सेकंड धीमी है। यह कब सही था ?

(a) 9 P.M on Sunday/रविवार को रात 9 बजे
(b) 9 A.M on Monday/सोमवार को सुबह 9 बजे
(c) 9 A.M on Sunday/रविवार को सुबह 9 बजे
(d) 8 A. M on Sunday/रविवार को सुबह 8 बजे

MP Police Constable Exam- 31 August-2023 Shift-3

Ans. (c) : प्रश्नानुसार,

गुरुवार से बुधवार तक कुल घण्टे $= 24 \times 6 + 11$
$= 155$

गुरुवार से बुधवार तक धीमा हुआ समय = 3 + 3 मिनट 12 से
= 6 मिनट 12 सेकण्ड
= 372 सेकण्ड

155 घण्टे —— 372 सेकण्ड (धीमी हुई)

1 घण्टे —— $\frac{372}{155} = 2.4$ सेकण्ड

∵ जब घड़ी 180 सेकण्ड धीमी होगी तो सही समय बतायेगी।

∴ 2.4 सेकण्ड —— 1 घण्टा

1 सेकण्ड —— $\frac{1}{2.4}$ घण्टा

180 सेकण्ड —— $\frac{180}{2.4} \times$ घण्टा
= 75 घण्टा

∵ गुरुवार से 75 घण्टा आगे अर्थात 3 दिन 3 घण्टे आगे सही समय बतायेगा।

अतः गुरुवार + 3दिन 3घण्टा = रविवार 9 बजे सुबह

108. If time in a clock is 9 : 11, then at what time will appear in water ?
यदि घड़ी का वास्तविक समय 9 : 11 है, पानी में कितना समय दिखाई देगा ?

(a) 9 : 19 (b) 8 : 11
(c) 9 : 19 (d) 9 : 30

MP Police Constable Exam- 24 August-2023 Shift-2

Ans. (c) : प्रश्नानुसार,

घड़ी में वास्तविक समय 9 : 11 दिखाई दे रहा है।

∵ घड़ी में जल प्रतिबिम्ब = 18 : 30 – 9 : 11
= 9 : 19

109. A clock is set right at 10 A.M on Sunday. It loses 8 minutes in 24 hours. What is the correct time when the clock indicates 9 P.M on next Sunday ?
रविवार को सुबह 10 बजे एक घड़ी सही लगाई जाती है। 24 घंटे में 8 मिनट का नुकसान होता है। अगले रविवार को सही समय क्या है जब घड़ी रात 9 बजे इंगित करती है ?

(a) 9 P.M/रात 9 बजे
(b) 9 A.M/सुबह 9 बजे
(c) 10 A.M/सुबह 10 बजे
(d) 10 P.M/रात 10 बजे

MP Police Constable Exam- 29 August-2023 Shift-2

Ans. (d) : 1 दिन या 24 घंटे में 8 मिनट का नुकसान

7 दिन में $= 8 \times 7$
= 56 मिनट

सुबह 10 से रात 9 बजे तक = 11 घंटे

11 घंटे में नुकसार $= \frac{11}{24} \times 8$
= 3 मिनट + 40 सेकेण्ड

कुल नुकसान = 56 + 3 + 40 सेकेण्ड
= 59 मिनट 40 सेकेण्ड

रात 9 बजे घड़ी में समय = 9 बजकर 59 मिनट 40 सेकेण्ड
≈ 10 बजे

110. If 50 minutes ago, it was 45 minutes past four O' clock, how many minutes is it until six O' clock ?
यदि 50 मिनट पहले, चार बजकर 45 मिनट हुए थे, तो छह बजे में कितने मिनट बचे हैं ?

(a) 45 (b) 15
(c) 25 (d) 35

MP Police Constable Exam- 27 August-2023 Shift-1

Ans. (c) : 50 मिनट पहले, चार बजे 45 मिनट हुए थे।

अब,

(4 : 45) + 50 मिनट ⇒ 5 : 35 मिनट

अतः 6 बजने में बचे समय = 6 : 00 – 5 : 35
= 25 मिनट

अतः विकल्प (c) सही उत्तर है।

111. When did the minute and hour hand makes 180º angle between 6 to 7 O'clock ?
6 से 7 बजे के बीच मिनट और घंटे की सूई 180º का कोण कब बनाती है ?

(a) $6:54\frac{6}{11}$ (b) 6 : 60
(c) 6 : 00 (d) $6:5\frac{5}{11}$

MP Police Constable Exam- 27 August-2023 Shift-1

Ans. (c) : 6 से 7 के बीच 180º का कोण–

$6 : \frac{2}{11}(A_1 \sim A_2)$

$A_1 = 6 \times 30 = 180^\circ, A_2 = 180^\circ$

$6 : \frac{2}{11}(180^\circ - 180^\circ)$

अभीष्ट समय = 6 : 00

112. The minute hand of a clock overtakes the hour hand at intervals of 64 minutes of correct time. How much a day does the clock gain or lose?
घड़ी की मिनट की सुई सही समय के बजाय 64 मिनट के अंतराल पर घंटे की सुई को पार कर लेती है। घड़ी एक दिन में कितना लाभ या हानि करती है?

(a) $43\frac{9}{11}$ minute loss/ $43\frac{9}{11}$ मिनट हानि
(b) $32\frac{8}{11}$ minute gain/ $32\frac{8}{11}$ मिनट लाभ

GET IT ON Google Play Best Study PDF के लिए हमारी App को Download करें "GK Trick By Nitin Gupta"

(c) $33\frac{9}{11}$ minute gain/ $33\frac{9}{11}$ मिनट लाभ

(d) $32\frac{8}{11}$ minute loss/ $32\frac{8}{11}$ मिनट हानि

MP Police Constable Exam- 28 August-2023 Shift-2

Ans. (b) : 60 मिनट में घण्टे एवं मिनट के बीच की दूरी = 55 min

1 मिनट $= \frac{60}{55}$ मिनट की दूरी

तो 60 मिनट $= \frac{60\times60}{55}$

$\because$ घड़ी मिलती है 64 मिनट में

लाभ $= \frac{60\times60}{55} - 64$

1 मिनट में लगा $= \frac{\frac{(60\times60-64\times55)}{55}}{64}$

24 घण्टे में $= \frac{80\times24\times60}{55\times64}$

$= 32\frac{8}{11}$ मिनट लाभ

113. Time appears in the mirror 10 : 20. Then what time will be appear in clock ?
समय आईने में 10 : 20 दिखाई देता है। तो घड़ी में कितना समय दिखाई देगा ?

(a) 1 : 51 (b) 1 : 40
(c) 12 : 51 (d) 1 : 9

MP Police Constable Exam- 28 August-2023 Shift-2

Ans. (b) : प्रतिबिम्ब का समय = 10 : 20
वास्तविक समय = 11 : 60 – 10 : 20
= 1 : 40

114. At what time between 2 to 3 O'clock minute and hour hand will be at right angle to each other or makes 90° angle ?
2 से 3 बजे मिनट और घंटे के बीच किस समय सुई एक दूसरे से समकोण पर होंगे या 90° का कोण बनाएंगे ?

(a) $2:32\frac{8}{11}$ (b) $2:27\frac{3}{11}$
(c) $2:10\frac{10}{11}$ (d) $2:16\frac{4}{11}$

MP Police Constable Exam- 25 August-2023 Shift-3

Ans. (b) : दिया गया समय = 2 से 3 बजे के बीच

बना कोण $A_1 = 90^\circ$

$A_2 = 2 \times 30^\circ = 60^\circ$

अतः अभीष्ट समय $= 2:\frac{2}{11}(A_1 \pm A_2)$

$= 2:\frac{2}{11}(90^\circ \pm 60^\circ)$

$= 2:\frac{2}{11}$ (150 तथा 30)

$= 2:27\frac{3}{11}$ और $5\frac{5}{11}$

अतः 2 से 3 के बीच 90° को 2 बजकर $27\frac{3}{11}$ मिनट पर बनेगा।

115. A clock with only dots marking 3, 6, 9, and 12 positions has been upside down in front of a mirror. A person reads the time in the reflection as 6 : 10. The real time is :
केवल 3, 6, 9 और 12 स्थिति वाले बिंदुओं वाली घड़ी को दर्पण के सामने उल्टा रखा गया है। एक व्यक्ति घड़ी के प्रतिबिंब में समय को 6 : 10 के रूप में पढ़ता है। वास्तविक समय क्या है ?

(a) 6 : 50 (b) 12 : 40
(c) 12 : 20 (d) 6 : 10

MP Police Constable Exam- 23 August-2023 Shift-2

Ans. (c) : घड़ी का वास्तविक समय

18 : 30
– 6 : 10
12 : 20

अतः विकल्प (c) सही विकल्प होगा।

116. If time in a clock is 7 : 35 then at what time will be appear in water ?
यदि घड़ी का वास्तविक समय 7 : 35 है, पानी में कितना समय दिखाई देगा ?

(a) 11 : 35 (b) 10 : 35
(c) 10 : 05 (d) 10 : 55

MP Police Constable Exam- 23 August-2023 Shift-3

Ans. (d) : प्रश्नानुसार,
घड़ी में वास्तविक समय 7 : 35 दिखाई दे रहा है।
अतः घड़ी में जल प्रतिबिम्ब = 17 : 90 – 7 : 35
= 10 : 55

117. A clock with only dots marking 3, 6, 9 and 12 positions has been kept upside down in front of a mirror. A person reads the time in the reflection as 9 : 50. What is the actual time ?
केवल 3, 6, 9 और 12 स्थिति वाले बिंदुओं वाली घड़ी को दर्पण के सामने उल्टा रखा गया है। एक व्यक्ति घड़ी के प्रतिबिंब में समय को 9 : 50 के रूप में पढ़ता है। वास्तविक समय क्या है ?

(a) 2 : 15 (b) 8 : 40
(c) 8 : 50 (d) 4 : 15

MP Police Constable Exam- 23 August-2023 Shift-1

Ans. (b) : दिया है,
घड़ी को दर्पण के सामने उल्टा रखने पर प्रतिबिंब 9 : 50 दिखाई दे रहा है।
तब, घड़ी में वास्तविक समय = 17 : 90 – 9 : 50
= 8 : 40 मिनट

118. Time appears in water is 5 : 47, what will be correct time in watch?
पानी में समय 5 : 47 दिखाई देता है, घड़ी में सही समय क्या होगा ?

(a) 12 : 47 (b) 12 : 43
(c) 1 : 47 (d) 1 : 43

MP Police Constable Exam- 23 August-2023 Shift-1

GET IT ON Google Play Best Study PDF के लिए हमारी App को Download करें "GK Trick By Nitin Gupta"

Ans. (b) : दिया है,
पानी में समय 5 : 47 दिखाई दे रहा।
∵ घड़ी में वास्तविक समय = 17 : 90 – 5 : 47
= 12 : 43

119. If 30 minutes ago, it was 15 minutes past five O' clock, how many minutes is it until six O' clock?
यदि 30 मिनट पहले, पाँच बजकर 15 मिनट हुए थे, तो छह बजने में कितने मिनट बचे हैं ?
(a) 45 (b) 15
(c) 25 (d) 35

MP Police Constable Exam- 25 August-2023 Shift-2

Ans. (b) : प्रश्नानुसार,
30 मिनट पहले– 5 : 15
15 मिनट + 30 मिनट = 45 मिनट
अतः 5 : 45 मिनट
हम कह सकते है कि 6 बजने में 15 मिनट बचा है।

120. If 50 minutes ago, it was 45 minutes past four O' clock, how many minutes is it until six O' clock ?
यदि 50 मिनट पहले, चार बजकर 45 मिनट हुए थे, तो छह बजे में कितने मिनट बचे हैं ?
(a) 45 (b) 15
(c) 25 (d) 35

MP Police Constable Exam- 24 August-2023 Shift-3

Ans. (c) : 50 मिनट पहले, चार बजकर 45 मिनट हुए थे।
वर्तमान समय–
⇒ (4 : 45) + 50 मिनट ⇒ 5 : 35 मिनट
अतः 6 बजने में बचे समय = 6 : 00 – 5 : 35
= 25 मिनट
अतः विकल्प (c) सही उत्तर है।

121. Mrs. Susheela celebrated her wedding anniversary on Tuesday, 30 September 1997. When will she celebrate her next wedding anniversary on the same day?
श्रीमती सुशीला ने मंगलवार, 30 सितंबर 1997 को अपनी शादी की सालगिरह मनाई। वह उसी दिन अगली शादी की सालगिरह कब मनाएगी ?
(a) 30 September 2003/30 सितंबर 2003
(b) 30 September 2004/30 सितंबर 2004
(c) 30 September 2002/30 सितंबर 2002
(d) 30 October 2003/30 अक्टूबर 2003

MP Police Constable Exam- 26 August-2023 Shift-2

Ans. (a) : प्रश्नानुसार,
30 सितम्बर 1997 का कैलेण्डर

समान होगा $= \frac{\text{वर्ष के अंतिम दो अंक}}{4}$

$= \frac{97}{4}$

= 1 शेष (वर्ष)

वर्ष का कोड	
1	6
2/3	11
4/0	28

सुशीला उसी दिन अपनी अगली सालगिरह
मनाएगी = 1997 + 6 (∵ 1 का कोड = 6)
= 2003
अतः 30 सितंबर 2003 को मनाएगी।

122. A watch which gains uniformly is 4 minute slow at 9 A.M on Sunday and is 4 minute 15 seconds fast at 9 P.M on upcoming Friday. When was it correct ?
एक घड़ी जो समान रूप से समय में वृद्धि करती है रविवार को सुबह 9 बजे 4 मिनट धीमी है और आगामी शुक्रवार को रात 9 बजे 4 मिनट 15 सेकंड तेज है। यह सही कब था ?
(a) 2 A.M Thursday/गुरुवार प्रातः 2 बजे
(b) 6 P.M Wednesday/शाम 6 बजे बुधवार
(c) 1 A.M Wednesday/बुधवार प्रातः 1 बजे
(d) 6 P.M./शाम 6 बजे

MP Police Constable Exam- 31 August-2023 Shift-2

Ans. (c) : प्रश्नानुसार–
रविवार सुबह 9 बजे से शुक्रवार रात 9 बजे तक
कुल समय = 5 दिन + 12 घण्टे
= 120 + 12
= 132 घंटे
कुल समय = 8 मिनट 15 से.

$= \frac{33}{4}$ मिनट

$\frac{33}{4}$ मिनट ⟶ 132 घंटे

1 मिनट ⟶ $\frac{132\times4}{33}$ घंटे

1 मिनट = 16 घंटे
4 मिनट = 64 घंटे
= 2 दिन + 16 घंटे
घड़ी द्वारा दर्शाया गया सही समय = मंगलवार सुबह 9 बजे+16 घंटे
= बुधवार प्रातः 1 बजे

123. A clock is set right at 8 a.m. on Sunday. It gains 8 minutes in 24 hours. What is the correct time on upcoming Sunday when the clock indicates 9 p.m. ?
रविवार को सुबह 8 बजे एक घड़ी सही लगाई जाती है। यह 24 घंटे में 8 मिनट का लाभ उठाती है। आगामी रविवार को सही समय क्या है जब घड़ी रात 9 बजे इंगित करती है ?
(a) 9 P.M/रात 9 बजे
(b) 8 : 30 P.M/रात 8 : 30 बजे
(c) 8 P.M/रात 8 बजे
(d) 10 P.M/रात 10 बजे

MP Police Constable Exam- 29 August-2023 Shift-1

GET IT ON Google Play Best Study PDF के लिए हमारी App को Download करें "GK Trick By Nitin Gupta"

Ans. (c) :

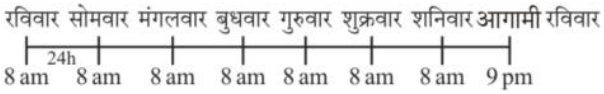

24 h में लाभ = 8 मिनट

7 दिन × 24h से लाभ = 7 × 8

= 56 मिनट रविवार सुबह 8 बजे तक

रविवार सुबह 8 बजे से रविवार रात 9 बजे तक लाभ = 4 मिनट

कुल मिनट से लाभ = 56 + 4

= 60 मिनट

अतः आगामी रविवार को सही समय = 8.00 P.M

124. If reflecting time in mirror is 3 : 43 then the real time of clock is?
यदि आईने में समय को 3 : 43 दर्शाता है तो घड़ी का वास्तविक समय क्या है?

(a) 3 : 17 (b) 7 : 17
(c) 8 : 17 (d) 8 : 43

MP Police Constable Exam- 20 August-2023 Shift-3

Ans. (c) : दिया है-

आइने में समय = 3 : 43

घड़ी का वास्तविक समय = 12 : 00

– 03 : 43

8 : 17

अतः घड़ी का वास्तविक समय 8 : 17 बजे है।

Note- जब दर्पण प्रतिबिम्ब पूछा जाता है तो 12 : 00 से घटाया जाता है और जब जल प्रतिबिम्ब पूछा जाता है तो 18 : 00 बजे से घटाया जाता है।

125. By looking in a mirror it appears that it is 6 : 30 in the clock. What is the real time?
शीशे में देखने से लगता है कि घड़ी में 6:30 बज रहे हैं। वास्तविक समय क्या है?

(a) 6:30 (b) 5:30
(c) 6:00 (d) 5:00

MP Police Constable Exam- 1 Sep-2023 Shift-1

Ans. (b) : घड़ी में 6:30 बजे है,

अर्थात् प्रतिबिम्ब में देखने पर वास्तविक समय के लिए 12:00 से घटाने पर प्राप्त होगा।

∴ 12:00 – 6:30 = 5:30

अतः वास्तविक समय 5:30 मिनट घड़ी में बज रहे है।

126. At what time are the hand of clocks together between 6 and 7?
किस समय घड़ियों की सुइयां 6 और 7 के बीच एक साथ होती हैं?

(a) $32\frac{8}{11}$ minutes past 6/6 बजकर $32\frac{8}{11}$ मिनट
(b) $34\frac{8}{11}$ minutes past 6/6 बजकर $34\frac{8}{11}$ मिनट
(c) $30\frac{8}{11}$ minutes past 6/6 बजकर $30\frac{8}{11}$ मिनट
(d) $32\frac{5}{7}$ minutes past 6/6 बजकर $32\frac{5}{7}$ मिनट

MP Police Constable Exam- 20 August-2023 Shift-3

Ans. (a) : प्रश्नानुसार,

$\theta = \frac{11}{2} \times$ मिनट $\sim 30 \times$ घण्टा

$0 = \frac{11}{2}$ मिनट $\sim 30 \times 6$

$\frac{11}{2}$ मिनट $= 30 \times 6$

मिनट $= \frac{30 \times 6 \times 2}{11} = \frac{360}{11} = 32\frac{8}{11}$

अतः 6 से 7 के बीच घड़ी की सुइयां $6 : 32\frac{8}{11}$ वें मिनट पर एक साथ होगी।

127. Time appears in the mirror 11:09. Then what time will be appear in clock?
समय आईने में 11:09 दिखाई देता है। तो घड़ी पर कौन-सा वास्तविक समय दिखाई देगा?

(a) 2:51 (b) 12:09
(c) 12:51 (d) 1:9

MP Police Constable Exam- 20 August-2023 Shift-1

Ans. (c) : प्रश्नानुसार, वास्तविक समय–

11 : 60
11 : 09
00 : 51

अर्थात् 12 बजकर 51 मिनट पर वास्तविक समय दिखाई देगा।

Note- आयोग ने उत्तर विकल्प (a) को माना है जो त्रुटिपूर्ण है।

128. At what time between 8 to 9 O' clock the minute and hour will apart 7 minutes to each other ?
8 से 9 बजे के बीच किस समय मिनट और घंटे एक-दूसरे से 7 मिनट अलग हो जाएंगे ?

(a) 8:42 (b) 8:36
(c) 8:09 (d) 8:17

MP Police Constable Exam- 27 August-2023 Shift-2

Ans. (b) :

7 मिनट में मिनट की सुई द्वारा बनाया गया कोण = 7 × 6

= 42°

माना 8 : x पर दोनों सुईयों के बीच 7 मिनट या 42° का कोण बनता है।

तो– $30 \times 8 + \frac{x}{2} - 6x = 42$

$-\frac{11x}{2} = -198$

$x = \frac{198 \times 2}{11}$

= 36 मिनट

अतः मिनट और घण्टे की सुई एक-दूसरे से 8:36 पर 7मिनट अलग हो जाएगी।

129. What time is shown by the mirror if the real time is 6 : 27 ?
यदि वास्तविक समय 6 : 27 है तो दर्पण द्वारा कितना समय दिखाया जाता है ?

(a) 3 : 33 (b) 5 : 33
(c) 3 : 27 (d) 2 : 23

MP Police Constable Exam- 27 August-2023 Shift-2

GET IT ON Google Play Best Study PDF के लिए हमारी App को Download करें "GK Trick By Nitin Gupta"

Ans. (b) : घड़ी में वास्तविक समय = 6 : 27
प्रश्नानुसार,
दर्पण प्रतिबिम्ब द्वारा समय दिखाई देगा = 11 : 60 – 6 : 27
= 5 : 33
अतः दर्पण द्वारा 5 : 33 का समय दिखाया जायेगा।

130. Seen through a mirror; the arms of a clock show 2:30. The actual time is
एक दर्पण में देखने पर घड़ी की सुइयाँ 2:30 दर्शाती हैं, तो वास्तविक समय है
(a) 6:30 (b) 3:30
(c) 9:30 (d) 6:10

MP Police Constable Recruitment Test - 2013

Ans. (c) : दिया दर्पण में घड़ी का समय = 2:30
घड़ी में वास्तविक समय = 11 : 60 – 2 : 30
= 09 : 30
अतः दर्पण में घड़ी 2:30 समय दिखती है तो घड़ी वास्तविक समय 9 : 30 दिखायेगी।

131. A clock only with dots marking 3, 6, 9, and 12 O'clock positions has been kept upside down in front of a mirror. A person reads the time in the reflection of the clock as 10 : 20. What is the actual time?
केवल 3, 6, 9 और 12 स्थिति वाले बिंदुओं वाली घड़ी को दर्पण के सामने उल्टा रखा गया है। एक व्यक्ति घड़ी के प्रतिबिंब में समय को 10 : 20 के रूप में पढ़ता है। वास्तविक समय क्या है?
(a) 8 : 10 (b) 2 : 40
(c) 4 : 50 (d) 10 : 20

MP Police Constable Exam- 21 August-2023 Shift-3

Ans. (a) : प्रश्नानुसार,
घड़ी में वास्तविक समय होगा = 18 : 30 – 10 : 20
= 8 : 10
अतः घड़ी में वास्तविक समय 8 बजकर 10 मिनट हो रहा होगा।

132. Time in a clock is 3 : 33, what time will be appear in water?
यदि घड़ी का वास्तविक समय 3 : 33 है, पानी में कितना समय दिखाई देगा?
(a) 3 : 17 (b) 2 : 17
(c) 3 : 23 (d) 2 : 13

MP Police Constable Exam- 21 August-2023 Shift-3

Ans. (*) : दिया गया वास्तविक समय = 3 : 33
अतः पानी में दिखाई देगा = 17 : 90 – 3 : 33
= 14 : 57
या 2 बजकर 57 मिनट
नोट- जबकि आयोग ने इस प्रश्न का उत्तर विकल्प (b) माना है।

133. A clock only with only dots marking 3, 6, 9 and 12 positions has been kept upside down in front of mirror. A person reads the time in the reflection of the clock as 4 : 50. What is the actual time?
केवल 3, 6, 9 और 12 स्थिति वाले बिंदुओं वाली घड़ी को दर्पण के सामने उल्टा रखा गया है। एक व्यक्ति घड़ी के प्रतिबिंब में समय को 4 : 50 के रूप में पढ़ता है। वास्तविक समय क्या है?
(a) 8 : 10 (b) 1 : 40
(c) 4 : 50 (d) 10 : 20

MP Police Constable Exam- 21 August-2023 Shift-2

Ans. (b) : व्यक्ति द्वारा घड़ी के प्रतिबिंब में पढ़ा जाने वाला समय = 4 : 50
वास्तविक समय = 17 : 90 – 16 : 50
= 1 : 40

134. If the time in clock is 12 : 23. What is the time in the mirror?
यदि घड़ी का वास्तविक समय 12:23 दर्शाता है। आईने में क्या समय दिखाई देता है?
(a) 12 : 33 (b) 11 : 37
(c) 12 : 37 (d) 1 : 23

MP Police Constable Exam- 21 August-2023 Shift-2

Ans. (b) : दिया है घड़ी में वास्तविक समय = 12 : 23
दर्पण में दिखाई देगा = 23 : 60 – 12 : 23
= 11 : 37
अतः 12 : 23 घड़ी का वास्तविक समय, दर्पण में 11 : 37 का समय दिखायेगा।
नोटः- जब समय 12 से कम हो 11 : 60 से घटाया जाता है और जब समय 12 से अधिक हो तो 23 : 60 से घटा के दर्पण समय निकाला जाता है।

135. Time appears in the mirror 6 : 00. Then what is the correct time in clock?
आईने में समय 6 : 00 बजे दिखाई देता है। तो घड़ी में सही समय क्या है?
(a) 5 : 58 (b) 6 : 60
(c) 6 : 00 (d) 6 : 10

MP Police Constable Exam- 20 August-2023 Shift-2

Ans. (c) : प्रश्नानुसार, आइने में समय 6 : 00 बजे जब दिखाई देता है तो उस समय घड़ी में भी 6 : 00 बजे दिखाई देता है।

Type-5: विविध

136. What is the angle between minute and hour hand at 3 : 56 ?
3 : 56 पर मिनट और घंटे की सूई के बीच का कोण कितना होता है ?
(a) 152° (b) 228°
(c) 360° (d) 142°

MP Police Constable Exam- 24 August-2023 Shift-2

GET IT ON Google Play Best Study PDF के लिए हमारी App को Download करें "GK Trick By Nitin Gupta"

Ans. (d) : 3 : 56 बजे दोनों सुइयों के बीच कोण–

सूत्र → $M = \frac{2}{11}[H \times 30 \pm \theta]$

[जहाँ M — मिनट, N — घण्टा, θ — कोण]

$56 = \frac{2}{11}[3 \times 30 \pm \theta]$

$616 = 180 \pm 2\theta$

$2\theta = 616 - 180$

$\theta = 218^\circ$

∵ कोण 180^0 से अधिक है इसलिए हम छोटा कोण ज्ञात करने के लिए इसे 360^0 से घटाते हैं।

छोटा कोण = $360 - 218 = 142^0$

137. How many Leap Years in 800 years?
800 साल में कितने लीप वर्ष होते हैं?

(a) 200 (b) 202
(c) 194 (d) 197

MP Police Constable Exam- 8 Sep-2023 Shift-2

Ans. (c) : प्रश्नानुसार,

100 वर्षों में कुल लीप वर्ष = 24

400 वर्षों में कुल लीप वर्ष = 24 × 4 + 1
= 97

800 वर्षों में कुल लीप वर्ष = 97 × 2
= 194

Note :- 400 वें वर्ष को शताब्दी लीप वर्ष कहा जाता है।

138. Ravi remembers that his mothers birthday is between 13th and 19th April. His Brother remembers that their mothers birthday is between 17th and 23rd April. If both of them remember correctly and on which day is their mothers birthday?
रवि को याद है कि उसकी माता का जन्मदिन तेरह और उन्नीस अप्रैल के बीच है। उनके भाई को याद है कि उनकी माता का जन्मदिन सत्रह से तेईस अप्रैल के बीच है। यदि उन दोनों को ठीक से याद है और उनकी माता का जन्मदिन किस दिन है?

(a) 17th /17वें
(b) 18th /18वें
(c) 17th or 18th /17वें या 18वें
(d) 12th /12वें

MP Police Constable Exam- 2 Sep-2023 Shift-2

Ans. (b) : रवि के अनुसार उसकी माता का जन्म दिन– 13 अप्रैल से 19 अप्रैल के बीच

उसके भाई के अनुसार जन्मदिन– 17 अप्रैल से 23 अप्रैल के बीच

∴ 13, 14, 15, 16, 17, 18, 19, 20, 21, 22, 23

अर्थात रवि के माता का जन्मदिन 18 अप्रैल को होगा।

139. Nikhil is 8 year younger than his brother Rohan. How old will Rohan be when he is twice as old as Nikhil ?
निखिल अपने भाई रोहन से 8 वर्ष छोटा है। रोहन तब कितने वर्ष का होगा जब वह निखिल से दुगनी उम्र का होगा ?

(a) 4 years/4 वर्ष (b) 6 years/6 वर्ष
(c) 8 years/8 वर्ष (d) 16 years/16 वर्ष

MP Police Constable Exam- 2 Sep-2023 Shift-3

Ans. (d) : माना निखिल की उम्र = x वर्ष है

∴ रोहन की उम्र = x + 8 वर्ष

प्रश्नानुसार,

2x = x + 8

x = 8

अतः रोहन की उम्र = x + 8 = 8 + 8
= 16 वर्ष

140. From one O'clock in the morning till 12 noon, how many times will the pendulum of the wall clock strike ?
सुबह के 1 बजे से लेके दिन के 12 बजे तक, कितनी बार घड़ी का पेंडुलम बजेगा ?

(a) 70 (b) 75
(c) 78 (d) 12

MP Police Constable Exam- 23 August-2023 Shift-2

Ans. (c) : घड़ी का पेंडुलम हर घण्टे एक ज्यादा बार बजेगा अतः कुल

1 + 2 + 3 + 4 + 5 + 6 + 7 + 8 + 9 + 10 + 11 + 12 = 78

अतः विकल्प (c) सही विकल्प होगा।

141. Who is older Amit or Naveen?
अमित या नवीन में कौन बड़ा है?

Statement/कथन I: Naveen was born in the year 1990 and is 5 yr younger than Amit's brother./नवीन का जन्म वर्ष 1990 में हुआ था और वह अमित के भाई से 5 वर्ष छोटा है।

Statement/कथन II: Amit is twice as old as his brother./अमित की उम्र अपने भाई से दोगुनी है।

(a) Statement I alone is sufficient to answer the question/केवल कथन I प्रश्न का उत्तर देने के लिए पर्याप्त है
(b) Statement II alone is sufficient to answer the question/केवल कथन II प्रश्न का उत्तर देने के लिए पर्याप्त है
(c) Statement I and II together are needed to answer the question/प्रश्न का उत्तर देने के लिए कथन I और II की एक साथ आवश्यकता है
(d) None of the given options/दिए गए विकल्पों में से कोई नहीं

MP Police Constable Exam- 12 Sep-2023 Shift-2

Ans. (c) : कथन II से,

माना अमित के भाई का उम्र = x वर्ष

अमित का उम्र = 2x वर्ष

कथन (I) से,

नवीन का उम्र = x – 5 वर्ष

अतः उपर्युक्त हल से स्पष्ट है कि प्रश्न का उत्तर देने के लिए कथन (I) और कथन (II) दोनों की एक साथ आवश्यकता है।

GET IT ON Google Play Best Study PDF के लिए हमारी App को Download करें "GK Trick By Nitin Gupta"

142. If 40 minutes ago, it was 25 minutes past five O' clock, how many minutes is it until seven O' clock ?
यदि 40 मिनट पहले, पाँच बजकर 25 मिनट हुए थे, तो सात बजने में कितने मिनट बचे हैं ?

(a) 45 (b) 55
(c) 25 (d) 35

MP Police Constable Exam- 25 August-2023 Shift-1

Ans. (b) : प्रश्नानुसार,
40 मिनट पहले समय = 5 बजकर 25 मिनट
वर्तमान समय = 5 : 25 + 40
= 6 : 05 मिनट
सात बजने में शेष मिनट = 7 : 00 – 6 : 05 मिनट
= 55 मिनट
अतः 7 बजने में 55 मिनट बचे हैं।

143. The minute hand of a clock overtakes the hour hand at intervals of 66 minute of correct time. How much a day does the clock gain or lose ?
घड़ी की मिनट की सुई सही समय के बजाय 66 मिनट के अंतराल पर घंटे की सुई से आगे निकल जाती है। घड़ी एक दिन में कितना लाभ या हानि करती है ?

(a) $11\frac{109}{121}$ minute gain/$11\frac{109}{121}$ मिनट लाभ
(b) $11\frac{109}{121}$ minute loss/$11\frac{109}{121}$ मिनट हानि
(c) $11\frac{117}{121}$ minute gain/$11\frac{117}{121}$ मिनट लाभ
(d) $11\frac{117}{121}$ minute loss/$11\frac{117}{121}$ मिनट हानि

MP Police Constable Exam- 28 August-2023 Shift-3

Ans. (b) : सही समय में मिनट वाली सुई घंटे वाली सुई को $65\frac{5}{11}$ मिनट अन्तराल पर पार करती है।
∵ घड़ी 66 मिनट के अंतर पर चलती है तो प्रति मिनट

हानि $= 66 - 65\frac{5}{11}$

$= \frac{6}{11}$ प्रति मिनट

तो एक दिन में हानि $= \frac{6}{11} \times \frac{60 \times 24}{66}$

$= \frac{1440}{121}$

$= 11\frac{109}{121}$ मिनट

144. How many times do the hands of a clock point towards each other in day?
घड़ी की सुइयां दिन में कितनी बार एक-दूसरे की ओर संकेत करती हैं?

(a) 12 (b) 22
(c) 20 (d) 24

MP Police Constable Exam- 18 August-2023 Shift-2

Ans. (b) : प्रश्नानुसार,
घड़ी की सुइयां दिन में 22 बार एक-दूसरे की ओर संकेत करती है।

145. Anil reached a place on Friday. He came to know that he was three days earlier than the scheduled day. If he had reached there on the following Sunday. How many days late/ early he would have been?
शुक्रवार को अनिल एक जगह पहुंचा। उसे पता चला कि वह निर्धारित दिन से तीन दिन पहले था। अगर वह अगले रविवार को वहां पहुंच गया होता। वह कितने दिन लेट/जल्दी रहा होगा?

(a) One day earlier/एक दिन पहले
(b) One day late/एक दिन देर से
(c) Two days late/दो दिन देर से
(d) Two day earlier/दो दिन पहले

MP Police Constable Exam- 11 Sep-2023 Shift-2

Ans. (a) : प्रश्नानुसार,

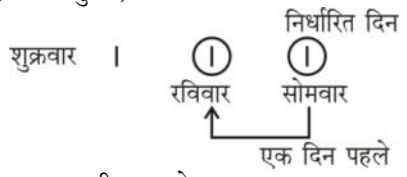

अतः विकल्प (a) सही उत्तर होगा।

146. How many times hands of clock makes right angle in 24 hours?
एक दिन में (24 घंटा) घड़ी की सूईयां कितनी बार समकोण बनाती है?

(a) 18 (b) 44
(c) 28 (d) 40

MP Police Constable Exam- 12 Sep-2023 Shift-1

Ans. (b) : प्रश्नानुसार,
घड़ी की घंटे और मिनट की सूईयां 12 घण्टे में = 22 बार समकोण
24 घण्टे में समकोण बनाने की कुल संख्या = 2 × 22 = 44 बार

147. Tell the number of days from 26 January 2006 to 23 September 2006 (Including both dates).
26 जनवरी 2006 से 23 सितंबर 2006 तक दिनों की संख्या बताएं (दोनों तिथियों को मिलाकर)।

(a) 214 (b) 241
(c) 249 (d) 251

MP Police Constable Exam- 29 August-2023 Shift-1

Ans. (b) : 26 जनवरी 2006 से 23 सितम्बर 2006 तक दिनों की संख्या (दोनों तिथियों को मिलाकर)
शेष 6 दिन जनवरी + फरवरी + मार्च + अप्रैल + मई + जून + जुलाई + अगस्त + 23 दिन सितम्बर
6 + 28 + 31 + 30 + 31 + 30 + 31 + 31 + 23
= 241
अतः 26 जनवरी 2006 से 23 सितम्बर 2006 तक दिनों की कुल संख्या = 241

148. How many times are the hands of a clock at right angles in a day?
एक दिन में घड़ी की सूइयां कितनी बार समकोण पर होती हैं?

(a) 22 (b) 44
(c) 24 (d) 48

MP Police Constable Exam- 18 August-2023 Shift-3

Ans. (b) : एक दिन में घड़ी की सुइयां 44 बार समकोण बनाती है।

GET IT ON Google Play Best Study PDF के लिए हमारी App को Download करें "GK Trick By Nitin Gupta"

149. Hari remembers that his fathers birthday is between 13 and 16 of June, where as his sister remembers that their fathers birthday is between 14 and 16 of June. On which day is their fathers birthday, which both agree?

हरि को याद है कि उसके पिता का जन्मदिन 13 और 16 जून के बीच है, उसकी बहन को याद है कि उसके पिता का जन्मदिन 14 और 16 जून के बीच है। उनके पिता का जन्मदिन किस दिन होता है, जिससे दोनों सहमत होते हैं ?

(a) 14 June/14 जून (b) 15 June/15 जून
(c) 16 June/16 जून (d) 17 June/17 जून

MP Police Constable Exam- 27 August-2023 Shift-2

Ans. (b) : हरि के अनुसार उसके पिता का जन्मदिन–14, 15,
हरि के बहन के अनुसार उसके पिता का जन्मदिन–15
अतः उनके पिता का जन्मदिन 15 जून को होता है और इसी दिन दोनों सहमत होंगे।

150. A farmer grows 3 crops in rotation- Rice, wheat and Jowar. Rice is grown between the months June-Nov, wheat between Feb-July and Jowar between Oct-March. Each crop takes 3 months from sowing to harvesting. At a time only one crop can be grown.

एक किसान नियमित आवर्तन में 3 फसलें उगाता है- चावल, गेहूं और ज्वार। चावल जून-नवंबर महीने के बीच, फरवरी और जुलाई के बीच गेहूँ, अक्टूबर-मार्च के बीच ज्वार। प्रत्येक फसल में बुवाई से कटाई के लिए 3 महीने लगते हैं। एक समय में केवल एक फसल उगाए जा सकती है।

If the farmer wants to sow Rice in the month July, what is the latest month by which wheat should be sown?

यदि किसान जुलाई के महीने में चावल बोना चाहता है, तो किस नवीनतम महीने तक गेहूँ बोया जाना चाहिए?

(a) February/फरवरी (b) March/मार्च
(c) April/अप्रैल (d) May/मई

MP Police Constable Exam 23 July 2016 - 9:am

Ans : (c) प्रश्नानुसार,
चावल की फसल–जून –नवम्बर
गेहूँ की फसल– फरवरी–जुलाई
ज्वार की फसल–अक्टूबर–मार्च
∵ प्रत्येक फसल में कम से कम 3 महीने लगते है।
∴ यदि किसान गेहूँ को अप्रैल में बोता है (बुआई का समय फरवरी –जुलाई) है तो उसे जून में काट लेगा तथा जुलाई में चावल की बुवाई (बोने का समय जून–नवम्बर) कट सकता है।

151. A farmer grows 3 crops in rotation-A, B, C. A is grown between the months Jan-June, B between May-September and C between August-December. Each crop takes 3 months from sowing to harvesting. At a time only crop can be grown. Farmer starts in the month of January by sowing A. If there is no gap between each crop, when would C be harvested?

एक किसान नियमित आवर्तन में 3 फसलें उगाता है- A, B, C । A जनवरी-जून महीने के बीच, B मई-सितम्बर के बीच और C अगस्त-दिसंबर के बीच उगाया जाता है। प्रत्येक फसल में बुवाई से कटाई के लिए 3 महीने लगते हैं। एक समय में केवल एक फसल उगाए जा सकती है।

किसान A की बुवाई जनवरी के महीने में शुरू करता है। यदि प्रत्येक फसल के बीच कोई अंतराल नहीं है, C की कटाई कब की जायेगी?

(a) July/जुलाई (b) August/अगस्त
(c) September/सितम्बर (d) October/अक्टूबर

MP Police Constable Exam 23 July 2016 - 9:am

Ans : (c) यदि किसान A की बुवाई जनवरी में करता है तब उनकी कटाई मार्च में करेगा। चूँकि प्रत्येक फसल के बीच में कोई अन्तराल नहीं है। अतः किसान B की बुवाई अप्रैल में करेगा और उसे जून में काटेगा। फिर C की बुवाई जुलाई में करेगा और उसे सितम्बर में काटेगा।
अतः C की कटाई सितम्बर में की जाएगी।

152. A clock is so placed that at 9 a.m. the minute hand points towards north-east. Which direction does the hour hand point at 3 p.m.?

एक घड़ी को इस तरह रखा गया है कि सुबह 9 बजे मिनट की सुई उत्तर-पूर्व की ओर इशारा करती है। दोपहर 3 बजे घंटे की सूई किस दिशा की ओर इशारा करती है?

(a) North-west/उत्तर-पश्चिम
(b) South/दक्षिण
(c) North-east/उत्तर-पूर्व
(d) South-east/दक्षिण-पूर्व

MP Police Constable Exam- 20 August-2023 Shift-2

Ans. (d) : प्रश्नानुसार,



3.PM पर घड़ी



अतः 3 बजे घड़ी की घंटे वाली सुई दक्षिण-पूर्व दिशा में होगी।

GET IT ON Google Play Best Study PDF के लिए हमारी App को Download करें "GK Trick By Nitin Gupta"

भाग-17.

आकृति निर्माण एवं विभाजन
(Formation and Division of figure)

Type-1: आकृतियों के संयोजन से निर्मित आकृति पर आधारित प्रश्न

1. Which answer figure will complete the pattern in the question figure?/कौन-सी उत्तर आकृति प्रश्न आकृति के पैटर्न को पूरा करेगी?

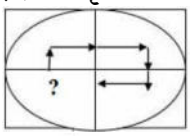

(a)
(b)
(c)
(d)

MP Police Constable Exam- 11 Sep-2023 Shift-2

Ans. (a) : प्रश्नानुसार,
प्रश्न में दी गई आकृति में रिक्त स्थान को विकल्प (a) की आकृति पूरा करेगी। अतः विकल्प (a) सही उत्तर होगा।

2. Complete the question figure by choosing the best alternative from the answer figure.
उत्तर आकृति में से सबसे ठीक विकल्प चुनकर प्रश्न आकृति को पूरा कीजिए।

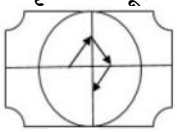

(a)
(b)
(c)
(d)

MP Police Constable Exam- 11 Sep-2023 Shift-2

Ans. (d) : प्रश्नानुसार,
प्रश्न में दी गई आकृति में रिक्त स्थान को विकल्प (d) की आकृति पूरा करेगी। अतः विकल्प (d) सही उत्तर होगा।

3. Complete the question figure by choosing the best alternative from the answer figure.
उत्तर आकृति में से सबसे ठीक विकल्प चुनकर प्रश्न आकृति को पूरा कीजिए।

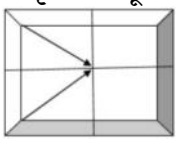

(a) 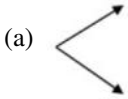
(b)
(c)
(d)

MP Police Constable Exam- 10 Sep-2023 Shift-1

Ans. (c) : विकल्प (c) में दी गयी उत्तर आकृति प्रश्न आकृति के पैटर्न को पूरा करेगी।

4. Complete the question figure by choosing the best alternative from the answer figure.
उत्तर आकृति में से सबसे ठीक विकल्प चुनकर प्रश्न आकृति को पूरा कीजिए।

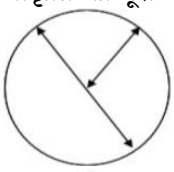

(a)
(b)
(c)
(d)

MP Police Constable Exam- 9 Sep-2023 Shift-2

Ans. (c) : दी गई प्रश्न आकृति को विकल्प (c) की आकृति पूरा करेगी।

5. Complete the question figure by choosing the best alternative from the answer figure.
उत्तर आकृति में से सबसे ठीक विकल्प चुनकर प्रश्न आकृति को पूरा कीजिए।

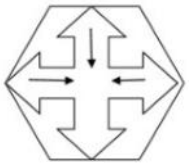

(a)
(b)
(c)
(d)

MP Police Constable Exam- 29 August-2023 Shift-2

Ans. (a) : विकल्प आकृति 'a' प्रश्न आकृति को पूरा करेगी।

GET IT ON Google Play Best Study PDF के लिए हमारी App को Download करें "GK Trick By Nitin Gupta"

6. Complete the question figure by choosing the best alternative from the answer figure.
उत्तर आकृति में से सबसे ठीक विकल्प चुनकर प्रश्न आकृति को पूरा कीजिए।

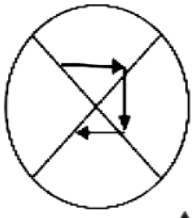

(a) (b)
(c) (d)

MP Police Constable Exam- 2 Sep-2023 Shift-2

Ans. (b) : प्रश्न आकृति में दिए गए पैटर्न को पूर्ण करने वाली उत्तर आकृति विकल्प (b) होगी।

7. Select the figure that will come next in the following figure series.
उस आकृति का चयन करें जो निम्नलिखित आकृति में आगे आएगी।

(a) 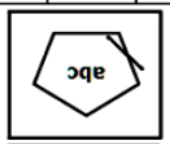

(b) 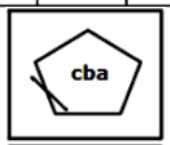

(c) 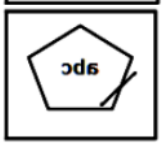

(d) 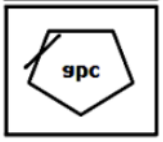

MP Police Constable Exam- 27 August-2023 Shift-1

Ans. (c) : जिस प्रकार पहली आकृति का दर्पण प्रतिबिम्ब दूसरी आकृति तथा तीसरी आकृति का दर्पण प्रतिबिम्ब चौथी आकृति बन रही है ठीक उसी प्रकार पाँचवी आकृति का दर्पण प्रतिबिम्ब विकल्प आकृति (c) शृंखला को पूरा करेगी।

8. Complete the question figure by choosing the best alternative from the answer figure.
उत्तर आकृति में से सबसे ठीक विकल्प चुनकर प्रश्न आकृति को पूरा कीजिए।

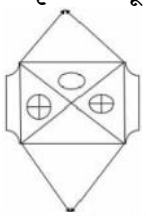

(a)  (b)
(c) (d)

MP Police Constable Exam- 8 Sep-2023 Shift-1

Ans. (a) : जिस प्रकार प्रश्न आकृति के अन्दर, दाएं त्रिभुज के अन्दर की आकृति बाएं त्रिभुज के आन्दर की आकृति के समान है, उसी प्रकार ऊपर के त्रिभुज के अन्दर की आकृति नीचे के त्रिभुज के अन्दर की आकृति के समान होगी जो उत्तर विकल्प (a) में दिया गया है।

9. Complete the question figure by choosing the best alternative from the answer figure.
उत्तर आकृति में से सबसे ठीक विकल्प चुनकर प्रश्न आकृति को पूरा कीजिए।

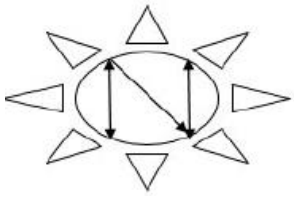

(a) (b)
(c) (d)

MP Police Constable Exam- 28 August-2023 Shift-3

Ans. (a) : दी गई प्रश्न आकृति को उत्तर विकल्प आकृति (a) पूरा करेगी।

10. From the given answer figure, which will complete the pattern in the question figure ?
दिए गए उत्तर आकृतियों में से, कौन-सी प्रश्न आकृति के पैटर्न को पूरा करेगी ?

Question Figure/प्रश्न आकृति :

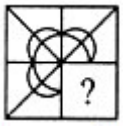

Answer Figures/उत्तर आकृतियाँ :

(a) A (b) B
(c) C (d) D

MP Police Constable Exam- 4 Sep-2023 Shift-2

Ans. (c) : दी गई प्रश्न आकृति को पूर्ण करने के लिए विकल्प आकृति (c) पैटर्न को पूरा करेगी।
विकल्प (c) सही है।

11. Identify the figure that completes the pattern.
उस आकृति की पहचान करें जो पैटर्न को पूरा करती है।

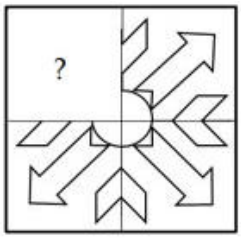

GET IT ON Google Play Best Study PDF के लिए हमारी App को Download करें "GK Trick By Nitin Gupta"

(a) (b)

(c) (d)

MP Police Constable Exam- 4 Sep-2023 Shift-2

Ans. (c) : दी गई प्रश्न आकृति को पूर्ण करने के लिए विकल्प आकृति (c) पैटर्न को पूरा करेगी।
∴ विकल्प (c) सही है।

12. Complete the question figure by choosing the best alternative from the answer figure.
उत्तर आकृति में से सबसे ठीक विकल्प चुनकर प्रश्न आकृति को पूरा कीजिए।

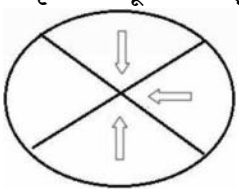

(a) 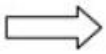 (b)

(c) (d) 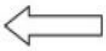

MP Police Constable Exam- 26 August-2023 Shift-2

Ans. (a) : प्रश्न में दी गई आकृति के रिक्त स्थान को विकल्प आकृति (a) पूरा करेगी।

13. Identify the figure that completes the pattern.
उस आकृति की पहचान करें जो पैटर्न को पूरा करती है।

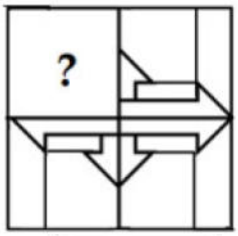

(a) (b)

(c) (d)

MP Police Constable Exam- 12 Sep-2023 Shift-1

Ans. (a) : विकल्प (a) में दी गई आकृति, प्रश्न आकृति के पैटर्न को पूरा करने के लिए उपर्युक्त है।

14. Complete the question figure by choosing the best alternative from the answer figure.
उत्तर आकृति में से सबसे ठीक विकल्प चुनकर प्रश्न आकृति को पूरा कीजिए।

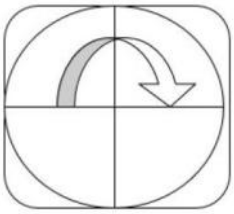

(a) (b)

(c) (d) 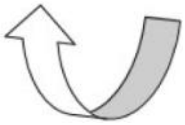

MP Police Constable Exam- 12 Sep-2023 Shift-1

Ans. (a) : विकल्प (a) में दी गई आकृति प्रश्न आकृति के पैटर्न को पूरा करेगी।

15. Which answer figure will complete the pattern in the question figure?/कौन-सी उत्तर आकृति प्रश्न आकृति के पैटर्न को पूरा करेगी?



(a) (b)

(c) (d)

MP Police Constable Exam- 10 Sep-2023 Shift-2

Ans. (c) : विकल्प (c) में दी गई आकृति, प्रश्न आकृति के पैटर्न को पूरा करेगी।

16. Complete the question figure by choosing the best alternative from the answer figure.
उत्तर आकृति में से सबसे ठीक विकल्प चुनकर प्रश्न आकृति को पूरा कीजिए।

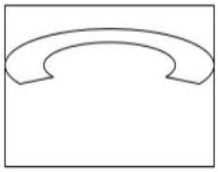

GET IT ON Google Play Best Study PDF के लिए हमारी App को Download करें "GK Trick By Nitin Gupta"

(a) (b)

(c) (d)

MP Police Constable Exam- 10 Sep-2023 Shift-2

Ans. (b) : प्रश्नानुसार,
विकल्प (b) में दी गई उत्तर आकृति, प्रश्न आकृति में सबसे ठीक बैठती है।

17. Complete the question figure by choosing the best alternative from the answer figure.
उत्तर आकृति में से सबसे ठीक विकल्प चुनकर प्रश्न आकृति को पूरा कीजिए।

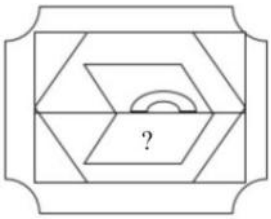

(a) (b)

(c) (d)

MP Police Constable Exam- 31 August-2023 Shift-2

Ans. (b) : दी गई आकृति में सबसे ठीक विकल्प (b) वाली आकृति, दी गई आकृति को पूरा करेगी।

18. From the given alternatives select the one that will complete the question figure.
दिए गए विकल्पों में से उस विकल्प को चुनिए जो प्रश्न आकृति को पूरा करें।

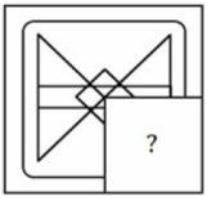

(a) 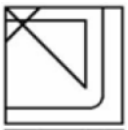 (b)

(c) (d)

MP Police Constable Exam- 10 Sep-2023 Shift-2

Ans. (c) : विकल्प (c) में दी गई आकृति प्रश्न आकृति में प्रश्नवाचक चिह्न (?) के स्थान पर आयेगी।

19. Complete the question figure by choosing the best alternative from the answer figure.
उत्तर आकृति में से सबसे ठीक विकल्प चुनकर प्रश्न आकृति को पूरा कीजिए।

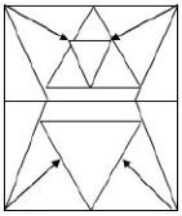

(a) (b)

(c) (d)

MP Police Constable Exam- 29 August-2023 Shift-1

Ans. (a) : दी गई प्रश्न आकृति को उत्तर आकृति विकल्प (a) पूरा करेगा।

20. Complete the question figure by choosing the most appropriate option from the answer figure.
उत्तर आकृति में से सबसे ठीक विकल्प चुनकर प्रश्न आकृति को पूरा कीजिए।

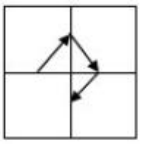

(a) 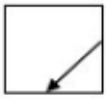 (b) 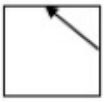

(c) (d) 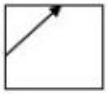

MP Police Constable Exam- 6 Sep-2023 Shift-2

Ans. (b) : विकल्प (b) में दी गयी आकृति प्रश्न आकृति को पूर्ण करेगी।

21. Select the figure that will come next in the following series.
निम्नलिखित श्रृंखला में आगे आने वाली आकृति का चयन कीजिए।

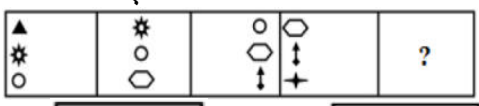

(a) 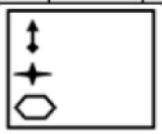 (b)

(c) 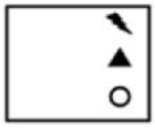 (d)

MP Police Constable Exam- 19 August-2023 Shift-3

GET IT ON Google Play Best Study PDF के लिए हमारी App को Download करें "GK Trick By Nitin Gupta"

Ans. (d) : एक शृंखला में प्रत्येक आकृतियाँ दायीं ओर खिसक रही हैं। पहली आकृति के स्थान पर दूसरी आकृति, दूसरी आकृति के स्थान पर तीसरी आकृति और तीसरी आकृति पर एक गया आकृति बन रहा है। अतः अगली आकृति विकल्प 'd' की आकृति होगी।

22. Identify the figure that completes the pattern.
उस आकृति की पहचान करें जो पैटर्न को पूरा करती है।

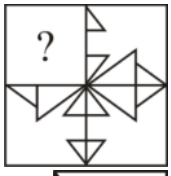

(a) 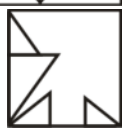
(b)
(c)
(d)

MP Police Constable Exam- 11 Sep-2023 Shift-3

Ans. (b) : प्रश्न आकृति के अवलोकन से स्पष्ट है कि रिक्त स्थान पर विकल्प (b) की उत्तर आकृति होगी। अतः विकल्प (b) सही उत्तर है।

23. Complete the question figure by choosing the best alternative from the answer figure.
उत्तर आकृति में से सबसे ठीक विकल्प चुनकर प्रश्न आकृति को पूरा कीजिए।

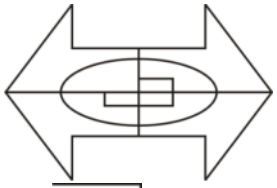

(a)
(b)
(c)
(d)

MP Police Constable Exam- 11 Sep-2023 Shift-3

Ans. (b) : प्रश्न आकृति को पूरा करने के लिए विकल्प (b) की आकृति उपयुक्त आकृति है।
अतः विकल्प (b) सही उत्तर है।

24. Complete the question figure by choosing the best alternative from the answer figure.
उत्तर आकृति में से सबसे ठीक विकल्प चुनकर प्रश्न आकृति को पूरा कीजिए।

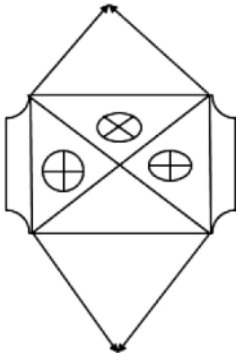

(a)
(b)
(c)
(d) 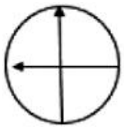

MP Police Constable Exam- 1 Sep-2023 Shift-1

Ans. (a) : दी गई प्रश्न आकृति को विकल्प आकृति (a) से पूरा किया जा सकता है।
∴ विकल्प (a) सही है।

25. What should come in place of question mark ?
प्रश्नवाचक चिह्न के स्थान पर क्या आयेगा ?

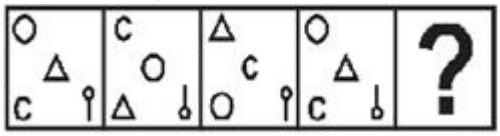

(a)
(b)
(c)
(d)

MP Police Constable Exam- 3 Sep-2023 Shift-1

Ans. (a) : विकल्प (a) में दिया गया चित्र प्रश्न में दिये गये पैटर्न का आगामी चित्र है।

26. In the sequence shown below, which figure comes next?
नीचे दिखाये गये क्रम में अगली आकृति कौन सी होगी?

(a)
(b)
(c)
(d)

MP Police Constable Exam 23 July 2016 - 9:am

Ans : (c) अगली आकृति विकल्प (c) में दी गई आकृति होगी।

27. Select the option that will come next in the given series./उस विकल्प का चयन करें जो दी गई शृंखला में आगे आएगा।

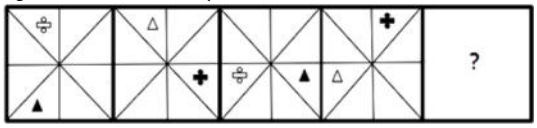

GET IT ON Google Play Best Study PDF के लिए हमारी App को Download करें "GK Trick By Nitin Gupta"

(a) (b) 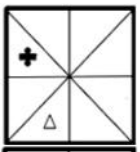

(c) 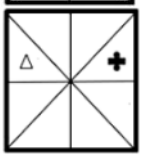 (d)

MP Police Constable Exam- 27 August-2023 Shift-2

Ans. (a) : दी गई आकृति श्रृंखला में आकृतियाँ क्रमशः दक्षिणावर्त दिशा में तीन-तीन स्थान आगे बढ़ रही है तथा एकान्तर क्रम में रंगीन एवं रंगहीन हो रही हैं इसी क्रम में प्रश्न चिह्न के स्थान पर आने वाली अगली आकृति विकल्प आकृति (a) होगा।

28. Select the option that is related to the third figure in the same way that the second figure is related to the first figure.
उस विकल्प का चयन करें जो तीसरी आकृति से उसी प्रकार संबंधित है जिस प्रकार दूसरी आकृति, पहली आकृति से संबंधित है।

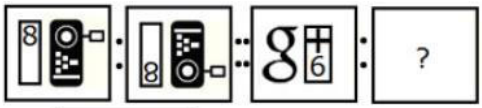

(a) (b) 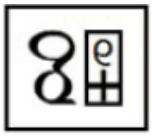

(c) (d)

MP Police Constable Exam- 27 August-2023 Shift-2

Ans. (b) : जिस प्रकार दूसरी आकृति पहली आकृति का जल प्रतिबिम्ब है उसी प्रकार तीसरी आकृति का जल प्रतिबिम्ब विकल्प आकृति (b) होगी।
अतः विकल्प (b) सही है।

29. In the sequence shown below, which figure comes next?
नीचे दिखाये गये क्रम में अगली आकृति कौन-सी होगी?

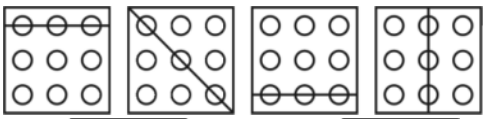

(a) 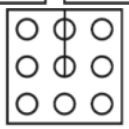 (c) 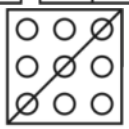

(b) (d)

MP Police Constable Exam 19 July 2016 - 9:am

Ans : (c) विकल्प c दिखाये गये क्रम में अगली आकृति होगी।

30. Identify the figure that completes the pattern.
उस आकृति की पहचान करें जो पैटर्न को पूरा करती है।

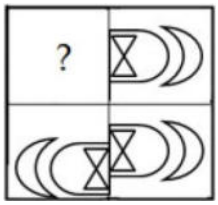

(a) (b)

(c) (d)

MP Police Constable Exam- 10 Jan -2022 Shift-2

Ans. (a) : स्पष्ट है कि प्रश्न आकृति के पैटर्न को विकल्प (a) की आकृति पूरा करेगी। क्योंकि आकृति में बाईं तरफ के दोनों भाग में एकसमान पैटर्न तथा दाईं तरफ के दोनों भाग में एकसमान पैटर्न दिया गया है।

31. Which answer figure will complete the pattern in the question figure?/कौन-सी उत्तर आकृति प्रश्न आकृति के प्रतिरूप को पूरा करेगी?

(a) (b)

(c) (d)

MP Police Constable Exam- 8 Jan-2022 Shift-2

Ans. (d) : दी गई प्रश्न आकृति के प्रतिरूप को विकल्प (d) की आकृति पूरा करेगी।

32. Identify the figure that completes the pattern.
उस आकृति की पहचान करें जो पैटर्न को पूरा करती है।

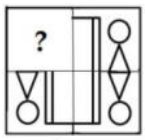

(a) (b)

(c) (d)

MP Police Constable Exam- 8 Jan-2022 Shift-2

Ans. (a) : दी गई प्रश्न आकृति के पैटर्न को विकल्प (a) की आकृति पूरा करेगी।

GET IT ON Google Play Best Study PDF के लिए हमारी App को Download करें "GK Trick By Nitin Gupta"

33. Complete the analogy by selecting a correct given below:/नीचे दिए गए विकल्पों में से एक सही विकल्प का चयन के सादृश्य को पूर्ण करें :

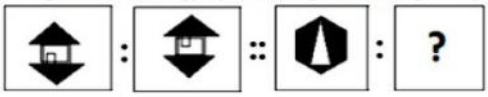

(a) (b)

(c) (d)

MP Police Constable Exam- 01 Feb-2022 Shift-1

Ans. (d) : जिस प्रकार दूसरी आकृति पहली आकृति का जल प्रतिबिम्ब है, उसी प्रकार तीसरी आकृति का जल प्रतिबिम्ब विकल्प (d) में दिया गया है।

34. Complete the following sequence of figures.
आकृतियों के निम्न क्रम को पूरा कीजिये

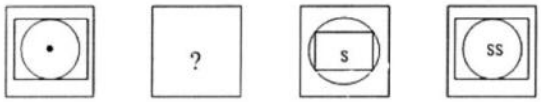

(a)

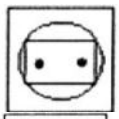

(b)

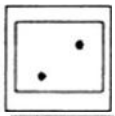

(c)



(d)

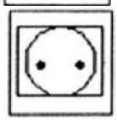

MP Police Constable Exam- 20 July-2016 - 9: am

Ans : (a) प्रश्न आकृति के क्रम को उत्तर आकृति के विकल्प (a) पूरा करेगी।

35. In the sequence shown below, which comes next?
नीचे दिखाये गये क्रम में, अगली आकृति कौन-सी होगी?

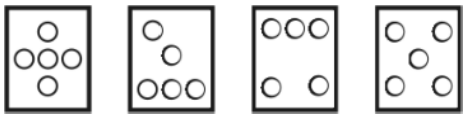

(a)

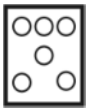

(b)

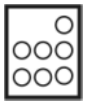

(c)

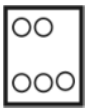

(d)

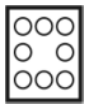

MP Police Constable Exam 24 July 2016 - 9:am

Ans : (c) दी गई प्रश्न आकृति में 5 गोले हैं। इन्हीं गोलों को तार्किक क्रम पर रखने पर उत्तर आकृति (c) बनेगी।

36. Select the figure that will come next in the following series.
निम्नलिखित श्रृंखला में आगे आने वाली आकृति का चयन कीजिए।

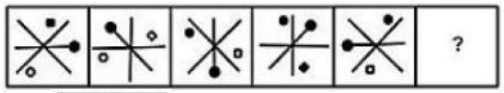

(a)

(b)

(c)

(d)

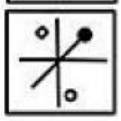

MP Police Constable Exam- 20 August-2023 Shift-3

Ans. (b) : प्रश्न में दी गई आकृति श्रृंखला में अगली आकृति विकल्प (b) में दी गई है।

Type-2: आकृतियों के घुमाव तथा मोड़ने से निर्मित आकृति पर आधारित प्रश्न

37. As shown in the question figure below, A piece of paper is folded and cut from the given options in the answer figure. Select the one like which the paper will appear when unfolded.
नीचे दिए गए प्रश्न आकृति में एक कागज के टुकड़े को मोड़ा और काटा गया है, दी गई उत्तर आकृति के विकल्पों में से उस उत्तर आकृति का चयन करें जैसा कि मोड़े और काटे गए कागज को खोलने पर आकृति बनेगी।

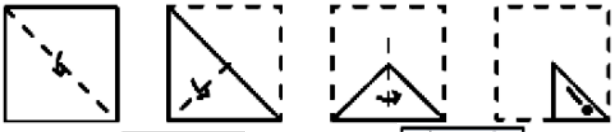

(a)

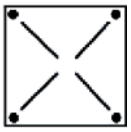

(b)

(c)

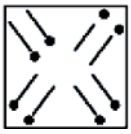

(d)

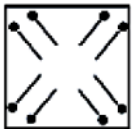

MP Police Constable Exam- 2 Sep-2023 Shift-2

Ans. (d) : कागज के टुकड़े को मोड़कर काटने के पश्चात खोलने पर विकल्प (d) की उत्तर आकृति प्राप्त होगी।

38. As shown in the question figure below, A piece of paper is folded and cut from the given options in the answer figure. Select the one like which the paper will appear when unfolded.
नीचे दिए गए प्रश्न आकृति में एक कागज के टुकड़े को मोड़ा और काटा गया है, दी गई उत्तर आकृति के विकल्पों में से उस उत्तर आकृति का चयन करें, जैसा कि मोड़े और काटे गए कागज को खोलने पर आकृति बनेगी।

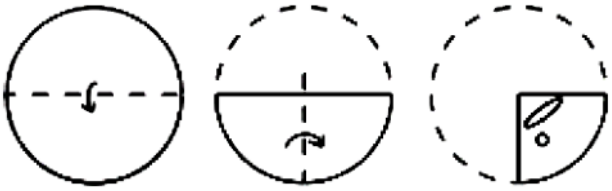

GET IT ON Google Play Best Study PDF के लिए हमारी App को Download करें "GK Trick By Nitin Gupta"

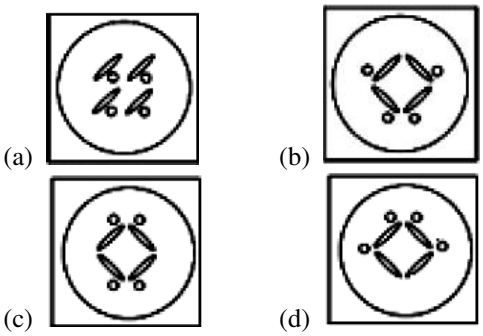

MP Police Constable Exam- 2 Sep-2023 Shift-2

Ans. (c) : कागज के टुकड़े को प्रश्नानुसार मोड़कर काटने के पश्चात खोलने पर विकल्प (c) की उत्तर आकृति प्राप्त होगी।

39. As shown in the question figure below, A piece of paper is folded and cut from the given options in the answer figure. Select the one like which the paper will appear when unfolded.
नीचे दिए गए प्रश्न आकृति में एक कागज के टुकड़े को मोड़ा और काटा गया है, दी गई उत्तर आकृति के विकल्पों में से उस उत्तर आकृति का चयन करें, जैसा कि मोड़े और काटे गए कागज को खोलने पर आकृति बनेगी।

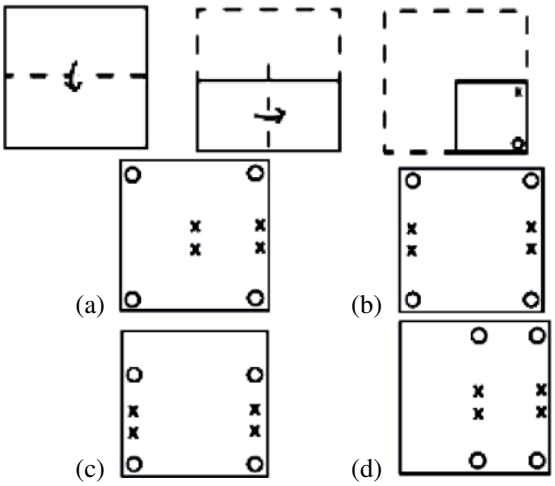

MP Police Constable Exam- 2 Sep-2023 Shift-2

Ans. (b) : कागज के टुकड़े को काटकर प्रश्नानुसार मोड़ने पर विकल्प (b) की उत्तर आकृति प्राप्त होगी।

40. As shown in the question figure below, A piece of paper is folded and cut from the given options in the answer figure. Select the one like which the paper will appear when unfolded.
नीचे दिए गए प्रश्न आकृति में एक कागज के टुकड़े को मोड़ा और काटा गया है, दी गई उत्तर आकृति के विकल्पों में से उस उत्तर आकृति का चयन करें, जैसा कि मोड़े और काटे गए कागज को खोलने पर आकृति बनेगी।

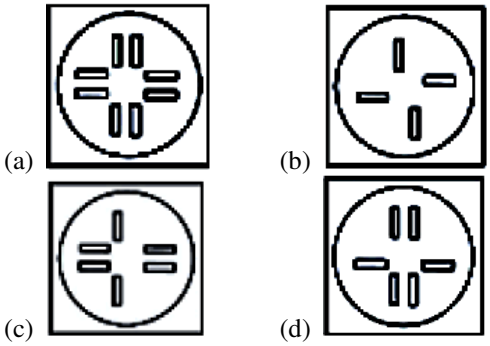

MP Police Constable Exam- 2 Sep-2023 Shift-2

Ans. (a) : कागज के टुकड़े को मोड़कर काटने के पश्चात खोलने पर विकल्प (a) की उत्तर आकृति प्राप्त होगी।

41. As shown in the question figure below, A piece of paper is folded and cut from the given options in the answer figure. Select the one like which the paper will appear when unfolded.
नीचे दिए गए प्रश्न आकृति में एक कागज के टुकड़े को मोड़ा और काटा गया है, दी गई उत्तर आकृति के विकल्पों में से उत्तर आकृति का चयन करें, जैसा कि मोड़े और काटे गए कागज को खोलने पर आकृति बनेगी।

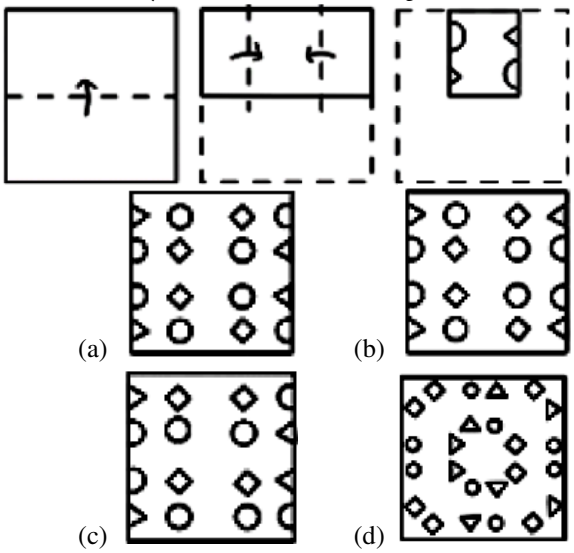

MP Police Constable Exam- 2 Sep-2023 Shift-2

Ans. (b) : कागज के टुकड़े को प्रश्नानुसार मोड़कर काटने के पश्चात खोलने पर विकल्प (b) की उत्तर आकृति प्राप्त होगी।

42. The sequence of folding a piece of paper and the manner in which the folded paper has been cut is shown in the following figures. How would this paper look when unfolded?
कागज के एक टुकड़े को मोड़ने का क्रम और जिस तरीके से मुड़े हुए कागज को काटा गया है, उसे निम्नलिखित आकृतियों में दिखाया गया है। खोलने पर यह कागज कैसा दिखेगा?

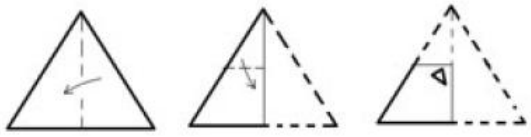

GET IT ON Google Play Best Study PDF के लिए हमारी App को Download करें "GK Trick By Nitin Gupta"

(a) 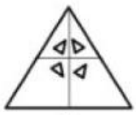 (b) 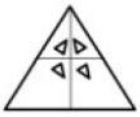

(c) 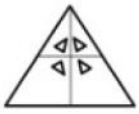 (d) 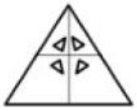

MP Police Constable Exam- 8 Sep-2023 Shift-2

Ans. (d) : प्रश्नानुसार, कागज को मोड़ने व काटने के बाद विकल्प (d) जैसी आकृति प्राप्त होगी। अतः विकल्प (d) सही है।

43. The sequence of folding a piece of paper and the manner in which the folded paper has been cut is shown in the following figures. How would this paper look when unfolded?
कागज के एक टुकड़े को मोड़ने का क्रम और जिस तरीके से मुड़े हुए कागज को काटा गया है, उसे निम्नलिखित आकृतियों में दिखाया गया है। खोलने पर यह कागज कैसा दिखेगा?

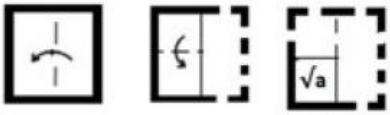

(a) (b) 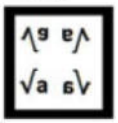

(c) (d)

MP Police Constable Exam- 8 Sep-2023 Shift-2

Ans. (b) : प्रश्नानुसार, कागज को मोड़ने व काटने के बाद विकल्प (b) जैसी आकृति प्राप्त होगी। अतः विकल्प (b) सही है।

44. The sequence of folding a piece of paper and the manner in which the folded paper has been cut is shown in the following figures. How would this paper look when unfolded?
कागज के एक टुकड़े को मोड़ने का क्रम और जिस तरीके से मुड़े हुए कागज को काटा गया है, उसे निम्नलिखित आकृतियों में दिखाया गया है। खोलने पर यह कागज कैसा दिखेगा?



(a) (b)

(c) 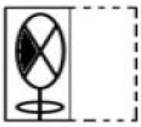 (d)

MP Police Constable Exam- 8 Sep-2023 Shift-2

Ans. (c) : प्रश्नानुसार कागज को मोड़ने व काटने के बाद खोलने पर विकल्प (c) जैसी आकृति प्राप्त होगी। अतः विकल्प (c) सही है।

45. As shown in the question figure below, A piece of paper is folded and cut from the given options in the answer figure. Select the one like which the paper will appear when unfolded.
नीचे दिए गए प्रश्न आकृति में एक कागज के टुकड़े को मोड़ा और काटा गया है, दी गई उत्तर आकृति के विकल्पों में से उस उत्तर आकृति का चयन करे, जैसा कि मोड़े और काटे गए कागज को खोलने पर आकृति बनेगी।

(a) (b) 

(c)  (d) 

MP Police Constable Exam- 8 Sep-2023 Shift-2

Ans. (b) : प्रश्नानुसार कागज को मोड़ने व काटने के बाद खोलने पर विकल्प (b) जैसी आकृति प्राप्त होगी। अतः विकल्प (b) सही है।

46. The sequence of folding a piece of paper and the manner in which the folded paper has been cut is shown in the following figures. How would this paper look when unfolded?
कागज के एक टुकड़े को मोड़ने का क्रम और जिस तरीके से मुड़े हुए कागज को काटा गया है, उसे निम्नलिखित आकृतियों में दिखाया गया है। खोलने पर यह कागज कैसा दिखेगा?

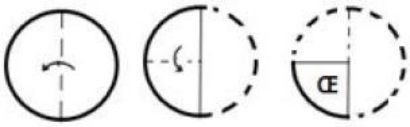

(a) 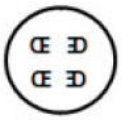 (b) 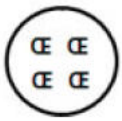

(c) 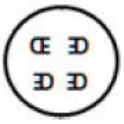 (d) 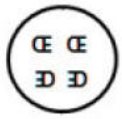

MP Police Constable Exam- 8 Sep-2023 Shift-2

Ans. (a) : मुड़े हुए कागज को खोलने पर विकल्प (a) में दी गई आकृति बनेगी।

47. As shown in the question figure below, A piece of paper is folded and cut from the given options in the answer figure. Select the one like which the paper will appear when unfolded.
नीचे दिए गए प्रश्न आकृति में एक कागज के टुकड़े को मोड़ा और काटा गया है, दी गई उत्तर आकृति के विकल्पों में से उस उत्तर आकृति का चयन करे, जैसा कि मोड़े और काटे गए कागज को खोलने पर आकृति बनेगी।

GET IT ON Google Play Best Study PDF के लिए हमारी App को Download करें "GK Trick By Nitin Gupta"

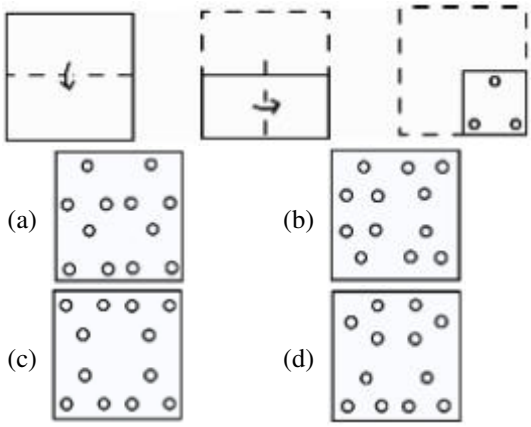

MP Police Constable Exam- 5 Sep -2023 Shift-1

Ans. (c) : प्रश्नानुसार कागज के टुकड़े को मोड़कर काटने के पश्चात उत्तर आकृति (c) के अनुसार बनेगी।

48. As shown in the question figure below, A piece of paper is folded and cut from the given options in the answer figure. Select the one like which the paper will appear when unfolded.

नीचे दिए गए प्रश्न आकृति में एक कागज के टुकड़े को मोड़ा और काटा गया है, दी गई उत्तर आकृति के विकल्पों में से उस उत्तर आकृति का चयन करे, जैसा कि मोड़े और काटे गए कागज को खोलने पर आकृति बनेगी।

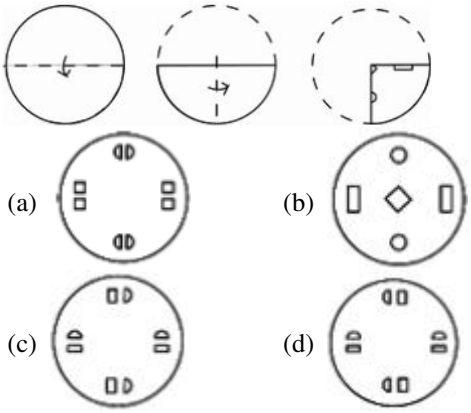

MP Police Constable Exam- 5 Sep -2023 Shift-1

Ans. (b) : प्रश्नानुसार कागज के टुकड़े को मोड़कर काटने के पश्चात खोलने पर उत्तर आकृति (b) के अनुसार दिखेगा।

49. As shown in the question figure below, A piece of paper is folded and cut from the given options in the answer figure. Select the one like which the paper will appear when unfolded.

नीचे दिए गए प्रश्न आकृति में एक कागज के टुकड़े को मोड़ा और काटा गया है, दी गई उत्तर आकृति के विकल्पों में से उस उत्तर आकृति का चयन करे, जैसा कि मोड़े और काटे गए कागज को खोलने पर आकृति बनेगी।

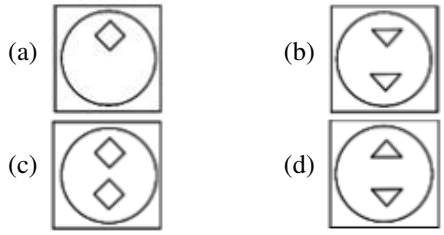

MP Police Constable Exam- 5 Sep -2023 Shift-1

Ans. (c) : प्रश्नानुसार कागज के टुकड़े को मोड़ा और काटा गया है, दी गई उत्तर आकृति के विकल्पों में से विकल्प आकृति (c) के जैसा मोड़े और काटे गए कागज को खोलने पर आकृति बनेगी।

50. As shown in the question figure below, A piece of paper is folded and cut from the given options in the answer figure. Select the one like which the paper will appear when unfolded.

नीचे दिए गए प्रश्न आकृति में एक कागज के टुकड़े को मोड़ा और काटा गया है, दी गई उत्तर आकृति के विकल्पों में से उस उत्तर आकृति का चयन करे, जैसा कि मोड़े और काटे गए कागज को खोलने पर आकृति बनेगी।

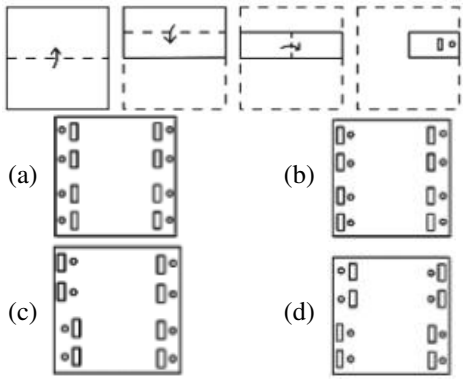

MP Police Constable Exam- 5 Sep -2023 Shift-1

Ans. (a) : प्रश्नानुसार कागज के टुकड़े को मोड़ा और काटा गया है। दी गई उत्तर आकृति के विकल्पों में से विकल्प (a) के समान आकृति बनेगी।

51. The sequence of folding a piece of paper and the manner in which the folded paper has been cut is shown in the following figures. How would this paper look when unfolded ?

कागज के एक टुकड़े को मोड़ने का क्रम और जिस तरीके से मुड़े हुए कागज को काटा गया है, उसे निम्नलिखित आकृतियों में दिखाया गया है। खोलने पर यह कागज कैसा दिखेगा ?

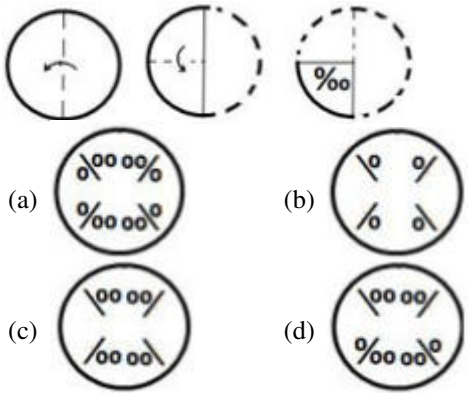

MP Police Constable Exam- 5 Sep -2023 Shift-1

GET IT ON Google Play Best Study PDF के लिए हमारी App को Download करें "GK Trick By Nitin Gupta"

Ans. (a) : प्रश्नानुसार कागज को मोड़कर काटने के पश्चात खोलने पर उत्तर आकृति विकल्प (a) के जैसा दिखाई देगा।

52. As shown in the question figure below, A piece of paper is folded and cut from the given options in the answer figure. Select the one like which the paper will appear when unfolded.
नीचे दिए गए प्रश्न आकृति में एक कागज के टुकड़े को मोड़ा और काटा गया है, दी गई उत्तर आकृति के विकल्पों में से उस उत्तर आकृति का चयन करे, जैसा कि मोड़े और काटे गए कागज को खोलने पर आकृति बनेगी।

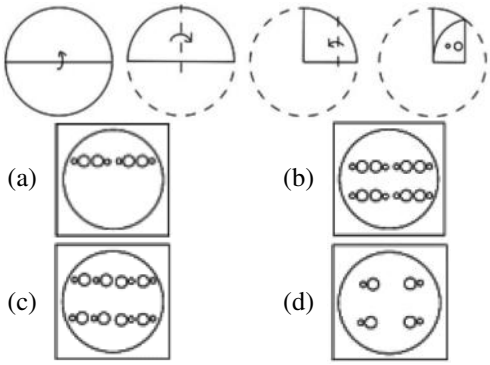

MP Police Constable Exam- 9 Sep -2023 Shift-3

Ans. (b) : प्रश्नानुसार-
कागज को मोड़ने एवं उसे काटने के बाद खोलने पर विकल्प (b) की आकृति प्राप्त होगी।
अतः विकल्प (b) सही उत्तर होगा।

53. The sequence of folding a piece of paper and the manner in which the folded paper has been cut is shown in the following figures. How would this paper look when unfolded?
कागज के एक टुकड़े को मोड़ने का क्रम और जिस तरीके से मुड़े हुए कागज को काटा गया है, उसे निम्नलिखित आकृतियों में दिखाया गया है। खोलने पर यह कागज कैसा दिखेगा?

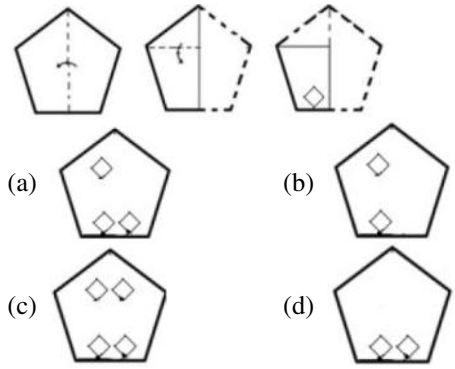

MP Police Constable Exam- 9 Sep -2023 Shift-3

Ans. (d) : प्रश्नानुसार,
कागज को मोड़ने एवं काटने के बाद उसे खोलने पर विकल्प (d) की आकृति प्राप्त होगी।
अतः (d) सही उत्तर होगा।

54. The sequence of folding a piece of paper and the manner in which the folded paper has been cut is shown in the following figures. How would this paper look when unfolded?
कागज के एक टुकड़े को मोड़ने का क्रम और जिस तरीके से मुड़े हुए कागज को काटा गया है, उसे निम्नलिखित आकृतियों में दिखाया गया है। खोलने पर यह कागज कैसा दिखेगा?

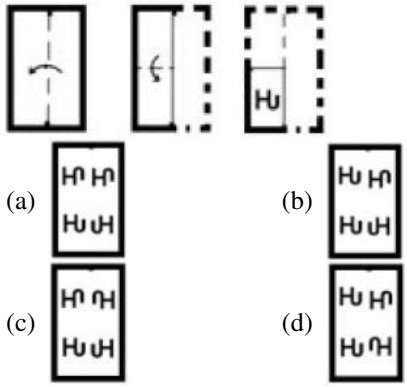

MP Police Constable Exam- 9 Sep -2023 Shift-3

Ans. (c) : प्रश्नानुसार,
कागज को मोड़ने एवं काटने के बाद उसे खोलने पर विकल्प (c) की आकृति प्राप्त होगी।
अतः (c) सही उत्तर होगा।

55. The sequence of folding a piece of paper and the manner in which the folded paper has been cut is shown in the following figures. How would this paper look when unfolded?
कागज के एक टुकड़े को मोड़ने का क्रम और जिस तरीके से मुड़े हुए कागज को काटा गया है, उसे निम्नलिखित आकृतियों में दिखाया गया है। खोलने पर यह कागज कैसा दिखेगा?

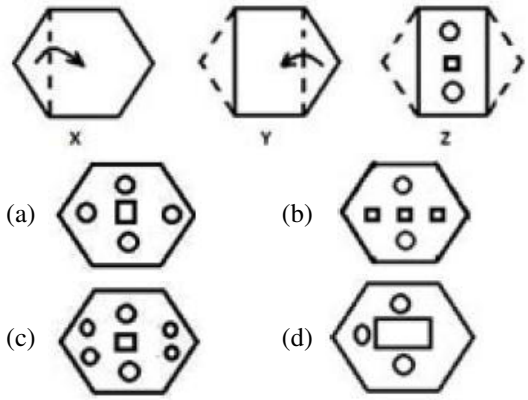

MP Police Constable Exam- 9 Sep -2023 Shift-3

Ans. (b) : प्रश्नानुसार,
कागज को मोड़ने एवं काटने के बाद उसे खोलने पर विकल्प (b) की आकृति प्राप्त होगी।
अतः (b) सही उत्तर होगा।

56. The sequence of folding a piece of paper and the manner in which the folded paper has been cut is shown in the following figures. How would this paper look when unfolded?
कागज के एक टुकड़े को मोड़ने का क्रम और जिस तरीके से मुड़े हुए कागज को काटा गया है, उसे निम्नलिखित आकृतियों में दिखाया गया है। खोलने पर यह कागज कैसा दिखेगा?

GET IT ON Google Play Best Study PDF के लिए हमारी App को Download करें "GK Trick By Nitin Gupta"

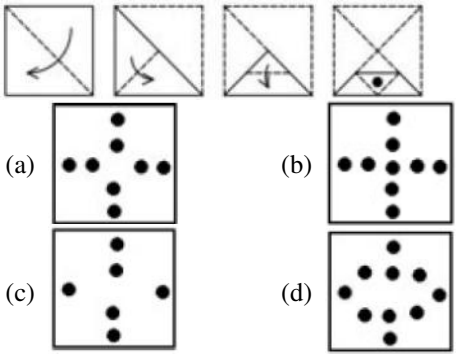

MP Police Constable Exam- 9 Sep-2023 Shift-3

Ans. (a) : प्रश्नानुसार,
कागज को मोड़ने एवं काटने के बाद उसे खोलने पर विकल्प (a) की आकृति प्राप्त होगी।
अतः (a) सही उत्तर होगा।

57. As shown in the question figure below, A piece of paper is folded and cut from the given options in the answer figure. Select the one like which the paper will appear when unfolded.
नीचे दिए गए प्रश्न आकृति में एक कागज के टुकड़े को मोड़ा और काटा गया है, दी गई उत्तर आकृति के विकल्पों में से उस उत्तर आकृति का चयन करे, जैसा कि मोड़े और काटे गए कागज को खोलने पर आकृति बनेगी।

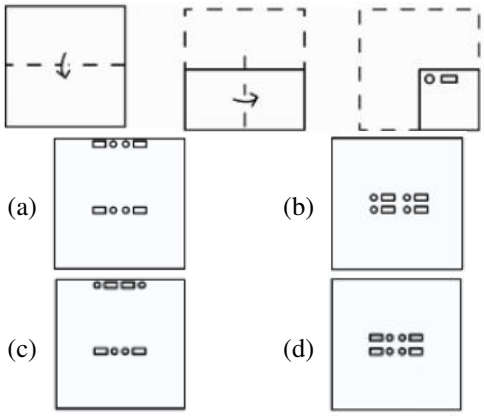

MP Police Constable Exam- 2 Sep-2023 Shift-3

Ans. (d) : प्रश्नानुसार, दिए गए प्रश्न आकृति को मोड़ने और काटने के बाद खोलने पर विकल्प (d) की आकृति प्राप्त होगी।
अतः विकल्प (d) सही है।

58. As shown in the question figure below, A piece of paper is folded and cut from the given options in the answer figure. Select the one like which the paper will appear when unfolded.
नीचे दिए गए प्रश्न आकृति में एक कागज के टुकड़े को मोड़ा और काटा गया है, दी गई उत्तर आकृति के विकल्पों में से उस उत्तर आकृति का चयन करें, जैसा कि मोड़े और काटे गए कागज को खोलने पर आकृति बनेगी।

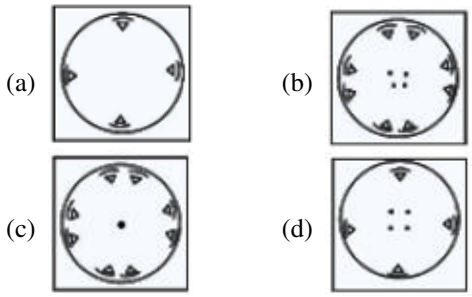

MP Police Constable Exam- 2 Sep-2023 Shift-3

Ans. (b) : प्रश्नानुसार, दी गई प्रश्न आकृति को मोड़ने और काटने के बाद खोलने पर विकल्प (b) की आकृति प्राप्त होगी।
अतः विकल्प (b) सही है।

59. A piece of paper is folded and punched as shown below in the question figures. From the given answer figures, indicate how it will appear when opened.
प्रश्न चित्र में दिखाए गए अनुसार कागज़ का एक टुकड़ा मुड़ा हुआ है और फिर उसमें छेद किया गया है, कागज़ को खोलने के बाद वह कैसा दिखाई देगा।

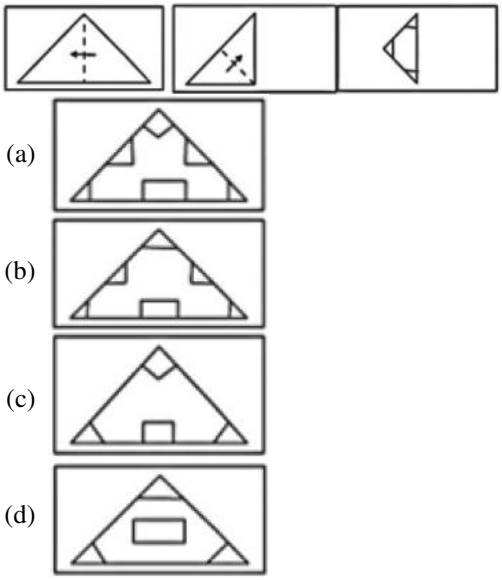

MP Police Constable Exam- 9 Sep-2023 Shift-3

Ans. (a) : प्रश्नानुसार,
कागज के टुकड़े को मोड़ने एवं काटने के बाद उसे खोलने पर विकल्प (a) की आकृति प्राप्त होगी।
अतः विकल्प (a) सही उत्तर होगा।

60. As shown in the question figure below, A piece of paper is folded and cut from the given options in the answer figure. Select the one like which the paper will appear when unfolded.
नीचे दिए गए प्रश्न आकृति में एक कागज के टुकड़े को मोड़ा और काटा गया है, दी गई उत्तर आकृति के विकल्पों में से उस उत्तर आकृति का चयन करें, जैसा कि मोड़े और काटे गए कागज को खोलने पर आकृति बनेगी।

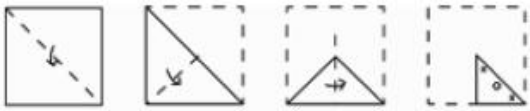

GET IT ON Google Play Best Study PDF के लिए हमारी App को Download करें "GK Trick By Nitin Gupta"

(a) (b)

(c) (d)

MP Police Constable Exam- 2 Sep-2023 Shift-3

Ans. (a) : प्रश्नानुसार, दी गई प्रश्न आकृति को मोड़ने और काटने के बाद खोलने पर विकल्प (a) की आकृति प्राप्त होगी। अतः विकल्प (a) सही है।

61. As shown in the question figure below, A piece of paper is folded and cut from the given options in the answer figure. Select the one like which the paper will appear when unfolded.
नीचे दिए गए प्रश्न आकृति में एक कागज के टुकड़े को मोड़ा और काटा गया है, दी गई उत्तर आकृति के विकल्पों में से उस उत्तर आकृति का चयन करें, जैसा कि मोड़े और काटे गए कागज को खोलने पर आकृति बनेगी।

(a) (b)

(c) (d)

MP Police Constable Exam- 2 Sep-2023 Shift-3

Ans. (d) : प्रश्नानुसार, दी गई प्रश्न आकृति को मोड़ने और काटने के बाद खोलने पर विकल्प (d) की आकृति प्राप्त होगी। अतः विकल्प (d) सही है।

62. As shown in the question figure below, A piece of paper is folded and cut from the given options in the answer figure. Select the one like which the paper will appear when unfolded.
नीचे दिए गए प्रश्न आकृति में एक कागज के टुकड़े को मोड़ा और काटा गया है, दी गई उत्तर आकृति के विकल्पों में से उस उत्तर आकृति का चयन करें, जैसा कि मोड़े और काटे गए कागज को खोलने पर आकृति बनेगी।

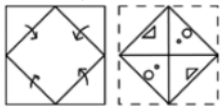

(a) (b)

(c) 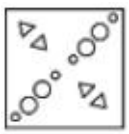 (d) 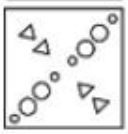

MP Police Constable Exam- 2 Sep-2023 Shift-3

Ans. (c) : प्रश्नानुसार, दी गई प्रश्न आकृति को मोड़ने और काटने के बाद खोलने पर विकल्प (c) की आकृति प्राप्त होगी। अतः विकल्प (c) सही है।

63. As shown in the question figure below, A piece of paper is folded and cut from the given options in the answer figure. Select the one like which the paper will appear when unfolded.
नीचे दिए गए प्रश्न आकृति में एक कागज के टुकड़े को मोड़ा और काटा गया है, दी गई उत्तर आकृति के विकल्पों में से उस उत्तर आकृति का चयन करे, जैसा कि मोड़े और काटे गए कागज को खोलने पर आकृति बनेगी।

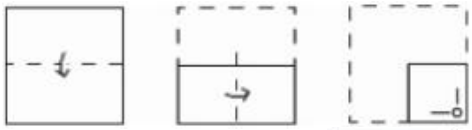

(a) (b)

(c) (d)

MP Police Constable Exam- 5 Sep-2023 Shift-2

Ans. (b) : दी गई प्रश्न आकृति के अनुसार, कागज के टुकड़े को मोड़ने और काटने के बाद, खोलने पर विकल्प (b) में दी गयी आकृति प्राप्त होगी।
अतः विकल्प (b) सही है।

64. As shown in the question figure below, A piece of paper is folded and cut from the given options in the answer figure. Select the one like which the paper will appear when unfolded.
नीचे दिए गए प्रश्न आकृति में एक कागज के टुकड़े को मोड़ा और काटा गया है, दी गई उत्तर आकृति के विकल्पों में से उस उत्तर आकृति का चयन करे, जैसा कि मोड़े और काटे गए कागज को खोलने पर आकृति बनेगी।

(a) 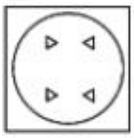 (b) 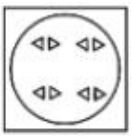

(c) (d)

MP Police Constable Exam- 5 Sep-2023 Shift-2

Ans. (b) : दी गयी प्रश्न आकृति के अनुसार, कागज के टुकड़े को मोड़ने और काटने के बाद, खोलने पर विकल्प (b) में दी गयी आकृति प्राप्त होगी।
अतः विकल्प (b) सही है।

GET IT ON Google Play Best Study PDF के लिए हमारी App को Download करें "GK Trick By Nitin Gupta"

65. As shown in the question figure below, A piece of paper is folded and cut from the given options in the answer figure. Select the one like which the paper will appear when unfolded.
नीचे दिए गए प्रश्न आकृति में एक कागज के टुकड़े को मोड़ा और काटा गया है, दी गई उत्तर आकृति के विकल्पों में से उस उत्तर आकृति का चयन करे, जैसा कि मोड़े और काटे गए कागज को खोलने पर आकृति बनेगी।

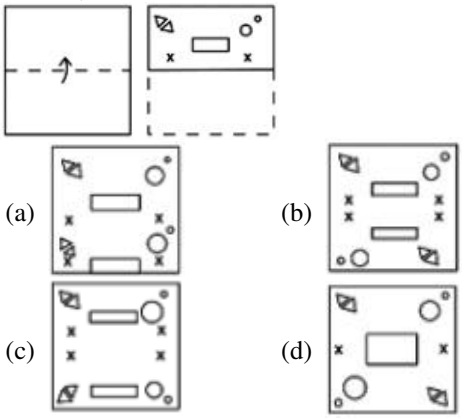

MP Police Constable Exam- 5 Sep-2023 Shift-2

Ans. (c) : दी गई प्रश्न आकृति के अनुसार, कागज के टुकड़े को मोड़ने और काटने के बाद, खोलने पर विकल्प (c) में दी गयी आकृति प्राप्त होगी।
अतः विकल्प (c) सही है।

66. The sequence of folding a piece of paper and the manner in which the folded paper has been cut is shown in the following figures. How would this paper look when unfolded ?
कागज के एक टुकड़े को मोड़ने का क्रम और जिस तरीके से मुड़े हुए कागज को काटा गया है, उसे निम्नलिखित आकृतियों में दिखाया गया है। खोलने पर यह कागज कैसा दिखेगा ?

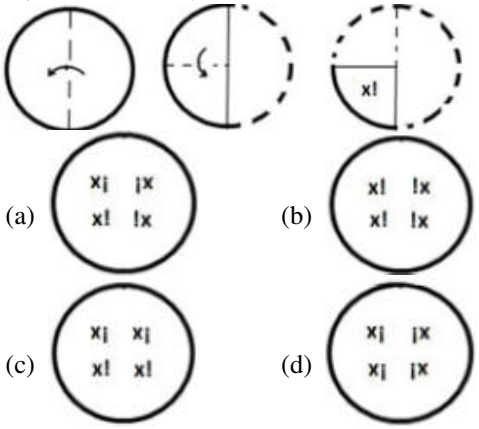

MP Police Constable Exam- 5 Sep-2023 Shift-2

Ans. (a) : दी गयी प्रश्न आकृति के अनुसार कागज के टुकड़े को मोड़ने और काटने के बाद, खोलने पर विकल्प (a) में दी गयी आकृति प्राप्त होगी।
अतः विकल्प (a) सही है।

67. The sequence of folding a piece of paper and the manner in which the folded paper has been cut is shown in the following figures. How would this paper look when unfolded ?
कागज के एक टुकड़े को मोड़ने का क्रम और जिस तरीके से मुड़े हुए कागज को काटा गया है, उसे निम्नलिखित आकृतियों में दिखाया गया है। खोलने पर यह कागज कैसा दिखेगा ?

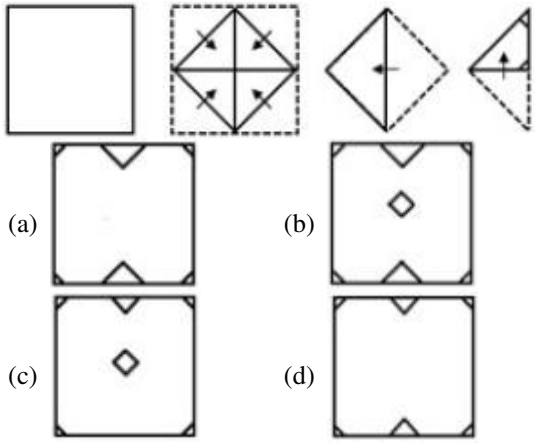

MP Police Constable Exam- 5 Sep-2023 Shift-2

Ans. (b) : दी गयी प्रश्न आकृति के अनुसार कागज के टुकड़े को मोड़ने और काटने के बाद, खोलने पर विकल्प (b) में दी गयी आकृति प्राप्त होगी।
अतः विकल्प (b) सही है।

68. A piece of paper is folded and punched as shown below in the question figures. From the given answer figures, indicate how it will appear when opened.
प्रश्न में नीचे दिखाए गए पेपर का एक टुकड़ा मोड़ा गया है और जोड़ दिया गया है दिए गए निम्नलिखित आंकड़ों से, इंगित करें कि खोले जाने पर यह कैसा दिखाई देगा।

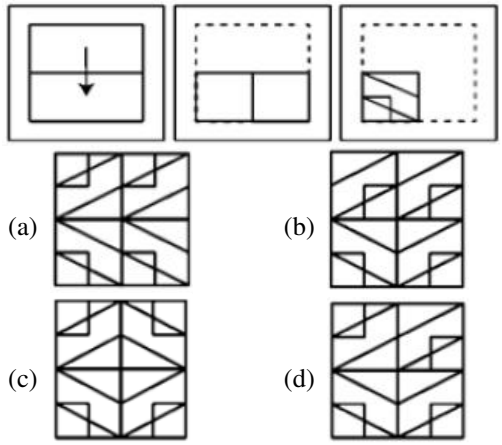

MP Police Constable Exam- 5 Sep-2023 Shift-2

Ans. (c) : प्रश्नानुसार–
कागज को मोड़ने एवं काटने के बाद उसे खोलने पर विकल्प (c) की आकृति प्राप्त होगी।
अतः विकल्प (c) सही उत्तर होगा।

69. The sequence of folding a piece of paper and the manner in which the folded paper has been cut is shown in the following figures. How would this paper look when unfolded?

GET IT ON Google Play Best Study PDF के लिए हमारी App को Download करें "GK Trick By Nitin Gupta"

कागज के एक टुकड़े को मोड़ने का क्रम और जिस तरीके से मुड़े हुए कागज को काटा गया है, उसे निम्नलिखित आकृतियों में दिखाया गया है। खोलने पर यह कागज कैसा दिखेगा?

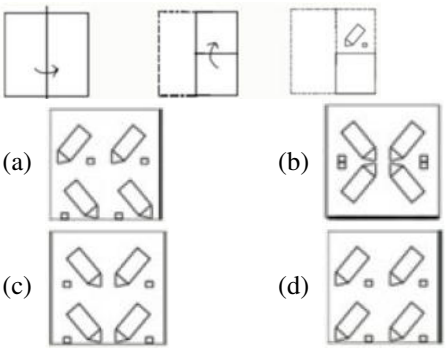

MP Police Constable Exam- 10 Sep-2023 Shift-1

Ans. (b) : प्रश्नानुसार कागज को मोड़ने और काटने के बाद खोलने पर विकल्प (b) में दी गयी आकृति प्राप्त होगी।

70. The sequence of folding a piece of paper and the manner in which the folded paper has been cut is shown in the following figures. How would this paper look when unfolded?

कागज के एक टुकड़े को मोड़ने का क्रम और जिस तरीके से मुड़े हुए कागज को काटा गया है, उसे निम्नलिखित आकृतियों में दिखाया गया है। खोलने पर यह कागज कैसा दिखेगा?

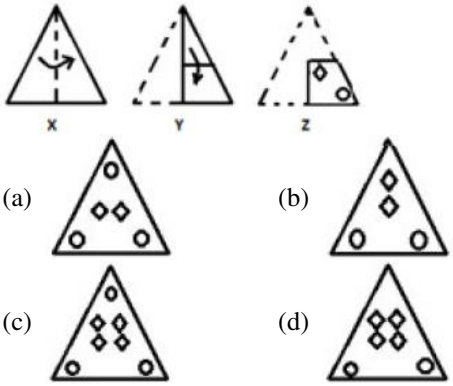

MP Police Constable Exam- 10 Sep-2023 Shift-1

Ans. (d) : प्रश्नानुसार कागज को मोड़ने और काटने के बाद खोलने पर विकल्प (d) में दी गयी आकृति प्राप्त होगी।

71. The sequence of folding a piece of paper and the manner in which the folded paper has been cut is shown in the following figures. How would this paper look when unfolded?

कागज के एक टुकड़े को मोड़ने का क्रम और जिस तरीके से मुड़े हुए कागज को काटा गया है, उसे निम्नलिखित आकृतियों में दिखाया गया है। खोलने पर यह कागज कैसा दिखेगा?

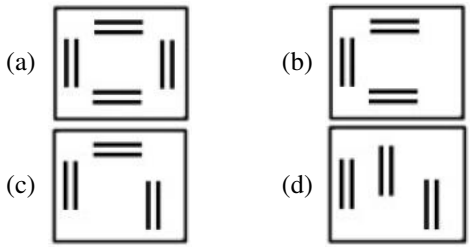

MP Police Constable Exam- 10 Sep-2023 Shift-1

Ans. (a) : प्रश्नानुसार कागज को मोड़ने और काटने के बाद खोलने पर विकल्प (a) में दी गयी आकृति प्राप्त होगी।

72. A piece of paper is folded and punched as shown below in the question figures. From the given answer figures, indicate how it will appear when opened.

प्रश्न चित्र में दिखाए गए अनुसार कागज़ का एक टुकड़ा मुड़ा हुआ है और फिर उसमें छेद किया गया है। कागज़ को खोलने के बाद वह कैसा दिखाई देगा?

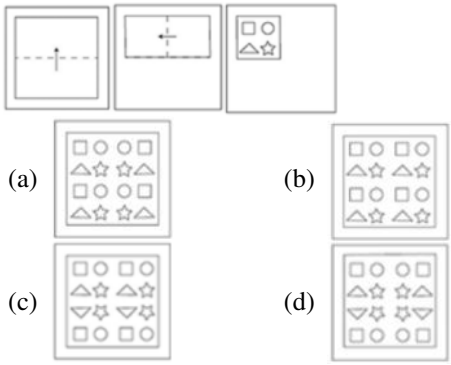

MP Police Constable Exam- 10 Sep-2023 Shift-1

Ans. (d) : प्रश्नानुसार कागज को मोड़ने और काटने के पश्चात खोलने पर हमें विकल्प (d) में दी गयी आकृति प्राप्त होगी। अतः, विकल्प (d) सही उत्तर है।

73. A piece of paper is folded and punched as shown below in the question figures. From the given answer figures, indicate how it will appear when opened.

प्रश्न चित्र में दिखाए गए अनुसार कागज़ का एक टुकड़ा मुड़ा हुआ है और फिर उसमें छेद किया गया है। कागज़ को खोलने के बाद वह कैसा दिखाई देगा?

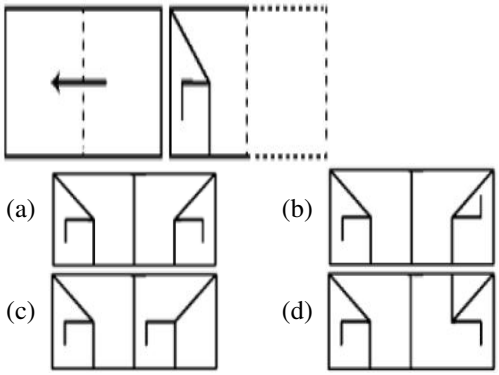

MP Police Constable Exam- 10 Sep-2023 Shift-1

Ans. (a) : प्रश्नानुसार कागज को मोड़ने और काटने के बाद खोलने पर विकल्प (a) में दी गयी आकृति प्राप्त होगी।

GET IT ON Google Play Best Study PDF के लिए हमारी App को Download करें "GK Trick By Nitin Gupta"

74. The sequence of folding a piece of paper and the manner in which the folded paper has been cut is shown in the following figures. How would this paper look when unfolded?
कागज के एक टुकड़े को मोड़ने का क्रम और जिस तरीके से मुड़े हुए कागज को काटा गया है, उसे निम्नलिखित आकृतियों में दिखाया गया है। खोलने पर यह कागज कैसा दिखेगा?

(a)
(b)
(c)
(d)

MP Police Constable Exam- 10 Sep-2023 Shift-1

Ans. (b) : प्रश्नानुसार कागज को मोड़ने और काटने के बाद खोलने पर विकल्प (b) में दी गयी आकृति प्राप्त होगी।

75. The sequence of folding a piece of paper and the manner in which the folded paper has been cut is shown in the following figures. How would this paper look when unfolded?
कागज के एक टुकड़े को मोड़ने का क्रम और जिस तरीके से मुड़े हुए कागज को काटा गया है, उसे निम्नलिखित आकृतियों में दिखाया गया है।

(a) 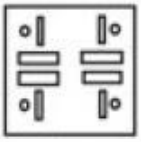
(b) 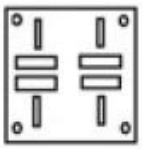
(c) 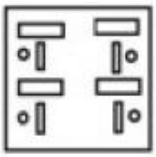
(d) 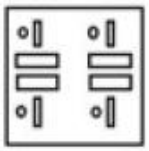

MP Police Constable Exam- 12 Sep-2023 Shift-2

Ans. (a) : दिये गये कागज के टुकड़े को मोड़कर काटने और काटकर खोलने पर विकल्प 'a' की आकृति प्राप्त होगी।

76. A piece of paper is folded and punched as shown below in the question figures. From the given answer figures, indicate how it will appear when opened?
नीचे प्रश्न आकृतियों में दिखाए अनुसार कागज मोड़कर छेदने तथा खोलने के बाद वह किस उत्तर आकृति जैसा दिखाई देगा?

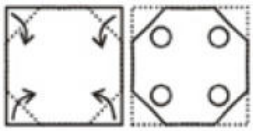

(a)
(b) 
(c)
(d) 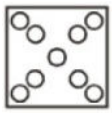

MP Police Constable Exam- 12 Sep-2023 Shift-2

Ans. (b) : प्रश्नानुसार कागज को मोड़कर छेदने तथा खोलने के बाद विकल्प 'b' की आकृति प्राप्त होगी।
अतः विकल्प 'b' सही उत्तर है।

77. A piece of paper is folded and punched as shown below in the question figures. From the given answer figures, indicate how it will appear when opened?
नीचे प्रश्न आकृतियों में दिखाए अनुसार कागज मोड़कर छेदने तथा खोलने के बाद वह किस उत्तर आकृति जैसा दिखाई देगा?

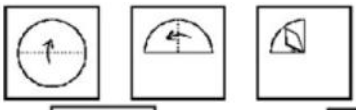

(a) 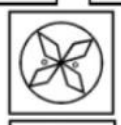
(b)
(c) 
(d) 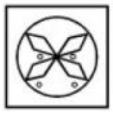

MP Police Constable Exam- 12 Sep-2023 Shift-2

Ans. (c) : प्रश्नानुसार कागज मोड़कर छेदने तथा खोलने के बाद विकल्प 'c' की आकृति प्राप्त होगी।
अतः विकल्प 'c' सही उत्तर है।

78. The sequence of folding a piece of paper and the manner in which the folded paper has been cut is shown in the following figures. How would this paper look when unfolded?
कागज के एक टुकड़े को मोड़ने का क्रम और जिस तरीके से मुड़े हुए कागज को काटा गया है, उसे निम्नलिखित आकृतियों में दिखाया गया है। खोलने पर यह कागज कैसा दिखेगा?

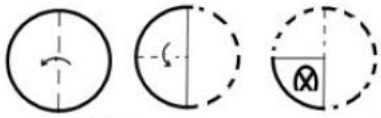

(a)
(b)
(c)
(d) 

MP Police Constable Exam- 6 Sep-2023 Shift-3

Ans. (b) : प्रश्नानुसार, कागज को मोड़ने व काटने के बाद खोलने पर विकल्प (b) में दी गई आकृति प्राप्त होगी। अतः विकल्प (b) सही है।

GET IT ON Google Play Best Study PDF के लिए हमारी App को Download करें "GK Trick By Nitin Gupta"

79. As shown in the question figure below, A piece of paper is folded and cut from the given options in the answer figure. Select the one like which the paper will appear when unfolded.
नीचे दिए गए प्रश्न आकृति में एक कागज के टुकड़े को मोड़ा और काटा गया है, दी गई उत्तर आकृति के विकल्पों में से उस उत्तर आकृति का चयन करें, जैसा कि मोड़े और काटे गए कागज को खोलने पर आकृति बनेगी।

(a)
(b)
(c)
(d)

MP Police Constable Exam- 6 Sep-2023 Shift-3

Ans. (b) : प्रश्नानुसार, कागज को मोड़ने व काटने के बाद खोलने पर विकल्प (b) में दी गई आकृति प्राप्त होगी।
अतः विकल्प (b) सही है।

80. The sequence of folding a piece of paper and the manner in which the folded paper has been cut is shown in the following figures. How would this paper look when unfolded?
कागज के एक टुकड़े को मोड़ने का क्रम और जिस तरीके से मुड़े हुए कागज को काटा गया है, उसे निम्नलिखित आकृतियों में दिखाया गया है। खोलने पर यह कागज कैसा दिखेगा?

(a)
(b)
(c) 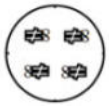
(d) 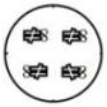

MP Police Constable Exam- 6 Sep-2023 Shift-3

Ans. (b) : प्रश्नानुसार, कागज को मोड़कर काटने और खोलने पर विकल्प (b) जैसी आकृति प्राप्त होगी।
अतः विकल्प (b) सही है।

81. The sequence of folding a piece of paper and the manner in which the folded paper has been cut is shown in the following figures. How would this paper look when unfolded?
कागज के एक टुकड़े को मोड़ने का क्रम और जिस तरीके से मुड़े हुए कागज को काटा गया है, उसे निम्नलिखित आकृतियों में दिखाया गया है। खोलने पर यह कागज कैसा दिखेगा?

(a)
(b) 
(c)
(d) 

MP Police Constable Exam- 6 Sep-2023 Shift-3

Ans. (c) : प्रश्नानुसार, कागज को मोड़कर काटने और खोलने के बाद विकल्प (c) सही आकृति प्राप्त होगी।
अतः विकल्प (c) सही है।

82. The sequence of folding a piece of paper and the manner in which the folded paper has been cut is shown in the following figures. How would this paper look when unfolded?
कागज के एक टुकड़े को मोड़ने का क्रम और जिस तरीके से मुड़े हुए कागज को काटा गया है, उसे निम्नलिखित आकृतियों में दिखाया गया है। खोलने पर यह कागज कैसा दिखेगा?

(a)
(b)
(c)
(d) 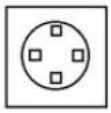

MP Police Constable Exam- 6 Sep-2023 Shift-3

Ans. (b) : प्रश्नानुसार कागज को मोड़कर काटने और खोलने पर विकल्प (b) जैसी आकृति प्राप्त होगी।
अतः विकल्प (b) सही है।

83. The sequence of folding a piece of paper and the manner in which the folded paper has been cut is shown in the following figures. How would this paper look when unfolded?
कागज के एक टुकड़े को मोड़ने का क्रम और जिस तरीके से मुड़े हुए कागज को काटा गया है, उसे निम्नलिखित आकृतियों में दिखाया गया है। खोलने पर यह कागज कैसा दिखेगा?

(a) 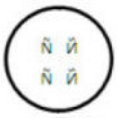
(b)
(c)
(d)

MP Police Constable Exam- 9 Sep-2023 Shift-2

Ans. (b) : प्रश्नानुसार, कागज को काटकर खोलने के बाद विकल्प (b) की उत्तर आकृति प्राप्त होगी।

GET IT ON Google Play Best Study PDF के लिए हमारी App को Download करें "GK Trick By Nitin Gupta"

84. The sequence of folding a piece of paper and the manner in which the folded paper has been cut is shown in the following figures. How would this paper look when unfolded?
कागज के एक टुकड़े को मोड़ने का क्रम और जिस तरीके से मुड़े हुए कागज को काटा गया है, उसे निम्नलिखित आकृतियों में दिखाया गया है। खोलने पर यह कागज कैसा दिखेगा?

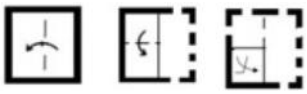

(a)
(b)
(c)
(d)

MP Police Constable Exam- 9 Sep-2023 Shift-2

Ans. (c) : प्रश्नानुसार, कागज को काटकर खोलने के बाद विकल्प (c) की उत्तर आकृति प्राप्त होगी।

85. As shown in the question figure below, A piece of paper is folded and cut from the given options in the answer figure. Select the one like which the paper will appear when unfolded.
नीचे दिए गए प्रश्न आकृति में एक कागज के टुकड़े को मोड़ा और काटा गया है, दी गई उत्तर आकृति के विकल्पों में से उस उत्तर आकृति का चयन करें, जैसा कि मोड़े और काटे गए कागज को खोलने पर आकृति बनेगी।

(a) 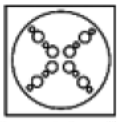
(b)
(c) 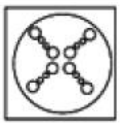
(d)

MP Police Constable Exam- 9 Sep-2023 Shift-2

Ans. (c) : प्रश्नानुसार, कागज के टुकड़े को काटकर खोलने के पश्चात विकल्प (c) की उत्तर आकृति प्राप्त होगी।

86. A piece of paper is folded and punched as shown below in the question figures from the given answer figures indicate how it will appear when opened?
कागज के एक टुकड़े को नीचे दी गई प्रश्न आकृतियों के अनुसार मोड़ा और पंच किया गया है, दी गई उत्तर आकृतियों में से यह बताएं कि खोले जाने पर यह कैसी दिखाई देगी?

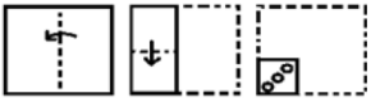

(a) 
(b) 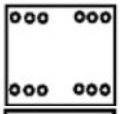
(c) 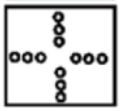
(d) 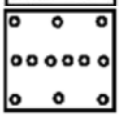

MP Police Constable Exam- 9 Sep-2023 Shift-2

Ans. (a) : प्रश्नानुसार कागज को मोड़कर खोलने के पश्चात निम्नवत् उत्तर आकृति प्राप्त होगी।

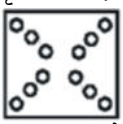

अतः सही उत्तर विकल्प (a) होगा।

87. The sequence of folding a piece of paper and the manner in which the folded paper has been cut is shown in the following figures. How would this paper look when unfolded?/कागज के एक टुकड़े को मोड़ने का क्रम और जिस तरीके से मुड़े हुए कागज को काटा गया है, उसे निम्नलिखित आकृतियों में दिखाया गया है। खोलने पर यह कागज कैसा दिखेगा?

(a)
(b)
(c)
(d)

MP Police Constable Exam- 9 Sep-2023 Shift-2

Ans. (a) : प्रश्नानुसार, कागज को काटकर खोलने के बाद विकल्प (a) की उत्तर आकृति प्राप्त होगी।

88. The sequence of folding a piece of paper and the manner in which the folded paper has been cut is shown in the following figures. How would this paper look when unfolded?/ कागज के एक टुकड़े को मोड़ने का क्रम और जिस तरीके से मुड़े हुए कागज को काटा गया है, उसे निम्नलिखित आकृतियों में दिखाया गया है। खोलने पर यह कागज कैसा दिखेगा?

(a) 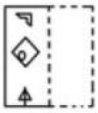
(b)
(c)
(d)

MP Police Constable Exam- 9 Sep-2023 Shift-2

Ans. (c) : प्रश्नानुसार, कागज को काटकर खोलने के बाद विकल्प (c) की उत्तर आकृति प्राप्त होगी।

GET IT ON Google Play Best Study PDF के लिए हमारी App को Download करें "GK Trick By Nitin Gupta"

89. As shown in the question figure below, A piece of paper is folded and cut from the given options in the answer figure. Select the one like which the paper will appear when unfolded.
नीचे दिए गए प्रश्न आकृति में एक कागज के टुकड़े को मोड़ा और काटा गया है, दी गई उत्तर आकृति के विकल्पों में से उस उत्तर आकृति का चयन करें, जैसा कि मोड़े और काटे गए कागज को खोलने पर आकृति बनेगी।

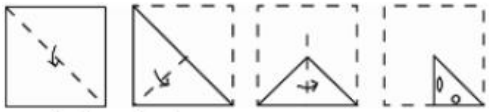

(a)
(b)
(c)
(d) 

MP Police Constable Exam- 4 Sep-2023 Shift-3

Ans. (c) : प्रश्नानुसार कागज को मोड़कर काटने तथा खोलने पर विकल्प (c) की आकृति के समान आकृति बनेगी।
अतः विकल्प (c) सही उत्तर है।

90. As shown in the question figure below, A piece of paper is folded and cut from the given options in the answer figure. Select the one like which the paper will appear when unfolded.
नीचे दिए गए प्रश्न आकृति में एक कागज के टुकड़े को मोड़ा और काटा गया है, दी गई उत्तर आकृति के विकल्पों में से उस उत्तर आकृति का चयन करें, जैसा कि मोड़े और काटे गए कागज को खोलने पर आकृति बनेगी।

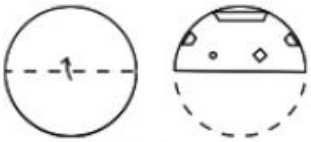

(a)
(b)
(c)
(d)

MP Police Constable Exam- 4 Sep-2023 Shift-3

Ans. (a) : निर्देशानुसार कागज को मोड़कर काटने तथा खोलने पर विकल्प (a) की आकृति प्राप्त होगी।
अतः विकल्प (a) सही उत्तर है।

91. As shown in the question figure below, A piece of paper is folded and cut from the given options in the answer figure. Select the one like which the paper will appear when unfolded.
नीचे दिए गए प्रश्न आकृति में एक कागज के टुकड़े को मोड़ा और काटा गया है, दी गई उत्तर आकृति के विकल्पों में से उस उत्तर आकृति का चयन करें, जैसा कि मोड़े और काटे गए कागज को खोलने पर आकृति बनेगी।

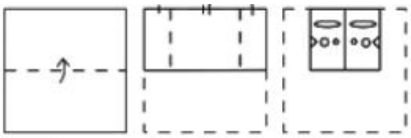

(a)
(b) 
(c) 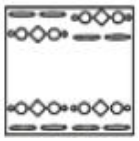
(d) 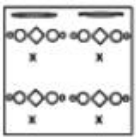

MP Police Constable Exam- 4 Sep-2023 Shift-3

Ans. (b) : प्रश्नानुसार कागज को मोड़कर काटने तथा खोलने पर विकल्प (b) के समान आकृति प्राप्त होगी।
अतः विकल्प (b) सही उत्तर है।

92. As shown in the question figure below, A piece of paper is folded and cut from the given options in the answer figure. Select the one like which the paper will appear when unfolded.
नीचे दिए गए प्रश्न आकृति में एक कागज के टुकड़े को मोड़ा और काटा गया है, दी गई उत्तर आकृति के विकल्पों में से उस उत्तर आकृति का चयन करें, जैसा कि मोड़े और काटे गए कागज को खोलने पर आकृति बनेगी।

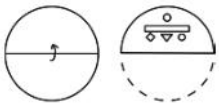

(a)
(b)
(c)
(d)

MP Police Constable Exam- 8 Sep-2023 Shift-1

Ans. (c) : दी गयी प्रश्न आकृति को मोड़कर काटने के बाद जब खोला जाता है तब यह उत्तर विकल्प (c) की आकृति के समान प्रतीत होगी।

93. From the given answer figure, select the one in which the question figure is hidden/embedded in the same way?/दी गयी उत्तर आकृति से वह आकृति चुनिये जो प्रश्न आकृति में निहित है ?



(a)
(b) 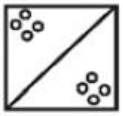
(c)
(d)

MP Police Constable Exam- 4 Sep-2023 Shift-3

GET IT ON Google Play Best Study PDF के लिए हमारी App को Download करें "GK Trick By Nitin Gupta"

Ans. (b) : दी गयी प्रश्न आकृति को मोड़ने तथा मोड़कर काटने और खोलने पर विकल्प (b) की आकृति प्राप्त होगी।
अतः विकल्प (b) सही उत्तर है।

94. As shown in the question figure below, A piece of paper is folded and cut from the given options in the answer figure. Select the one like which the paper will appear when unfolded.
नीचे दिए गए प्रश्न आकृति में एक कागज के टुकड़े को मोड़ा और काटा गया है, दी गई उत्तर आकृति के विकल्पों में से उस उत्तर आकृति का चयन करें, जैसा कि मोड़े और काटे गए कागज को खोलने पर आकृति बनेगी।

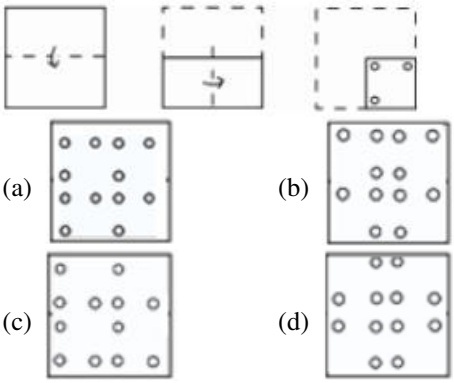

MP Police Constable Exam- 4 Sep-2023 Shift-3

Ans. (d) : प्रश्नानुसार कागज को मोड़कर काटने तथा खोलने पर विकल्प (d) के अनुसार आकृति बनेगी।
अतः विकल्प (d) सही उत्तर है।

95. As shown in the question figure below, A piece of paper is folded and cut from the given options in the answer figure. Select the one like which the paper will appear when unfolded.
नीचे दिए गए प्रश्न आकृति में एक कागज के टुकड़े को मोड़ा और काटा गया है, दी गई उत्तर आकृति के विकल्पों में से उस उत्तर आकृति का चयन करें, जैसा कि मोड़े और काटे गए कागज को खोलने पर आकृति बनेगी।

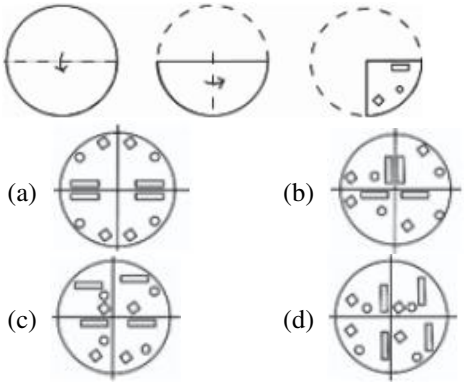

MP Police Constable Exam- 4 Sep-2023 Shift-3

Ans. (a) : दिये गये कागज के टुकरे को मोड़कर काटने तथा खोलने पर विकल्प (a) की आकृति प्राप्त होगी।
अतः विकल्प (a) सही उत्तर है।

96. The sequence of folding a piece of paper and the manner in which the folded paper has been cut is shown in the following figures. How would this paper look when unfolded?
कागज के एक टुकड़े को मोड़ने का क्रम और जिस तरीके से मुड़े हुए कागज को काटा गया है, उसे निम्नलिखित आकृतियों में दिखाया गया है। खोलने पर यह कागज कैसा दिखेगा?

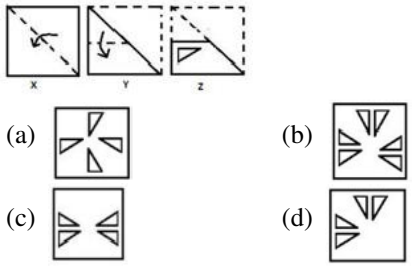

MP Police Constable Exam- 8 Sep-2023 Shift-1

Ans. (d) : दी गयी प्रश्न आकृति को मोड़कर काटने के बाद खोलने पर उत्तर विकल्प (d) की आकृति प्राप्त होगी।

97. The sequence of folding a piece of paper and the manner in which the folded paper has been cut is shown in the following figures. How would this paper look when unfolded?
कागज के एक टुकड़े को मोड़ने का क्रम और जिस तरीके से मुड़े हुए कागज को काटा गया है, उसे निम्नलिखित आकृतियों में दिखाया गया है। खोलने पर यह कागज कैसा दिखेगा?

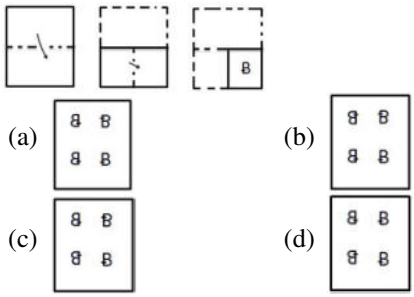

MP Police Constable Exam- 8 Sep-2023 Shift-1

Ans. (b) : दी गयी प्रश्न आकृति को मोड़कर काटने के बाद खोलने पर उत्तर विकल्प (b) की आकृति प्राप्त होगी।

98. The sequence of folding a piece of paper and the manner in which the folded paper has been cut is shown in the following figures. How would this paper look when unfolded?
कागज के एक टुकड़े को मोड़ने का क्रम और जिस तरीके से मुड़े हुए कागज को काटा गया है, उसे निम्नलिखित आकृतियों में दिखाया गया है। खोलने पर यह कागज कैसा दिखेगा?

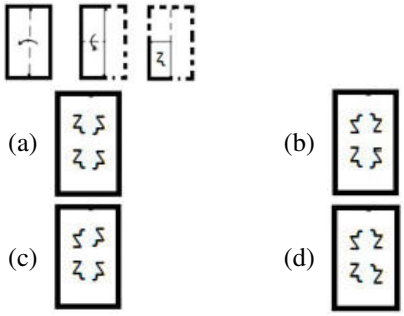

MP Police Constable Exam- 8 Sep-2023 Shift-1

GET IT ON Google Play Best Study PDF के लिए हमारी App को Download करें "GK Trick By Nitin Gupta"

Ans. (b) : दी गयी प्रश्न आकृति को मोड़कर काटने के बाद जब खोला जाता है तब यह विकल्प (b) की आकृति के समान प्रतीत होगा।

99. The sequence of folding a piece of paper and the manner in which the folded paper has been cut is shown in the following figures. How would this paper look when unfolded?
कागज के एक टुकड़े को मोड़ने का क्रम और जिस तरीके से मुड़े हुए कागज को काटा गया है, उसे निम्नलिखित आकृतियों में दिखाया गया है। खोलने पर यह कागज कैसा दिखेगा?

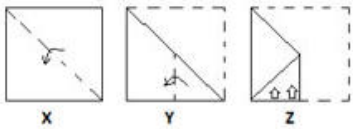

(a)
(b)
(c)
(d) 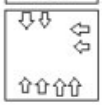

MP Police Constable Exam- 8 Sep-2023 Shift-1

Ans. (b) : प्रश्नानुसार कागज के टुकड़े को मोड़कर काटने के पश्चात खोलने पर उत्तर विकल्प (b) की आकृति प्राप्त होगी।

100. As shown in the question figure below, A piece of paper is folded and cut from the given options in the answer figure. Select the one like which the paper will appear when unfolded.
नीचे दिए गए प्रश्न आकृति में एक कागज के टुकड़े को मोड़ा और काटा गया है, दी गई उत्तर आकृति के विकल्पों में से उस उत्तर आकृति का चयन करे, जैसा कि मोड़े और काटे गए कागज को खोलने पर आकृति बनेगी।

(a) 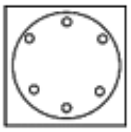
(b) 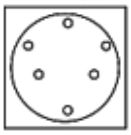
(c) 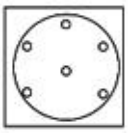
(d) 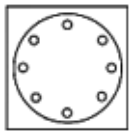

MP Police Constable Exam- 4 Sep-2023 Shift-2

Ans. (a) : दिए गए प्रश्न में कागज के टुकड़े को मोड़कर काटने के बाद खोलने पर विकल्प आकृति (a) की आकृति प्राप्त होगी।
∴ विकल्प (a) सही है।

101. As shown in the question figure below, A piece of paper is folded and cut from the given options in the answer figure. Select the one like which the paper will appear when unfolded.
नीचे दिए गए प्रश्न आकृति में एक कागज के टुकड़े को मोड़ा और काटा गया है, दी गई उत्तर आकृति के विकल्पों में से उस उत्तर आकृति का चयन करे, जैसा कि मोड़े और काटे गए कागज को खोलने पर आकृति बनेगी।

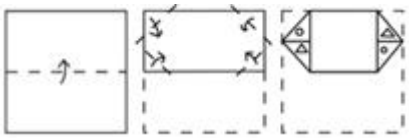

(a)
(b)
(c)
(d)

MP Police Constable Exam- 4 Sep-2023 Shift-2

Ans. (d) : दिए गए प्रश्न में कागज के टुकड़े को मोड़कर काटने के बाद खोलने पर विकल्प आकृति (d) की आकृति बनेगी।
∴ विकल्प (d) सही है।

102. As shown in the question figure below, A piece of paper is folded and cut from the given options in the answer figure. Select the one like which the paper will appear when unfolded.
नीचे दिए गए प्रश्न आकृति में एक कागज के टुकड़े को मोड़ा और काटा गया है, दी गई उत्तर आकृति के विकल्पों में से उस उत्तर आकृति का चयन करे, जैसा कि मोड़े और काटे गए कागज को खोलने पर आकृति बनेगी।

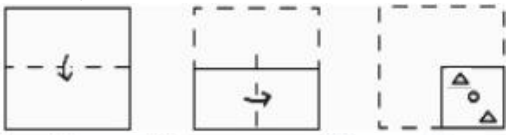

(a)
(b)
(c)
(d)

MP Police Constable Exam- 4 Sep-2023 Shift-2

Ans. (d) : प्रश्नानुसार में कागज के टुकड़े को मोड़कर काटने के बाद खोलने पर विकल्प (d) में दी गयी आकृति प्राप्त होगी।
∴ विकल्प (d) सही है।

103. As shown in the question figure below, A piece of paper is folded and cut from the given options in the answer figure. Select the one like which the paper will appear when unfolded.
नीचे दिए गए प्रश्न आकृति में एक कागज के टुकड़े को मोड़ा और काटा गया है, दी गई उत्तर आकृति के विकल्पों में से उस उत्तर आकृति का चयन करे, जैसा कि मोड़े और काटे गए कागज को खोलने पर आकृति बनेगी।

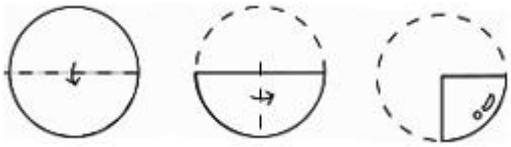

GET IT ON Google Play Best Study PDF के लिए हमारी App को Download करें "GK Trick By Nitin Gupta"

(a) (b) 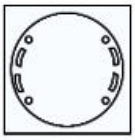

(c) 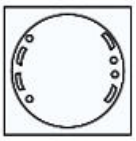 (d) 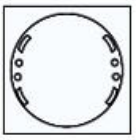

MP Police Constable Exam- 4 Sep-2023 Shift-2

Ans. (b) : दिए गए प्रश्न में कागज के टुकड़े को मोड़कर काटने के बाद खोलने पर विकल्प आकृति (b) की आकृति बनेगी।
∴ विकल्प (b) सही है।

104. As shown in the question figure below, A piece of paper is folded and cut from the given options in the answer figure. Select the one like which the paper will appear when unfolded.
नीचे दिए गए प्रश्न आकृति में एक कागज के टुकड़े को मोड़ा और काटा गया है, दी गई उत्तर आकृति के विकल्पों में से उस उत्तर आकृति का चयन करे, जैसा कि मोड़े और काटे गए कागज को खोलने पर आकृति बनेगी।

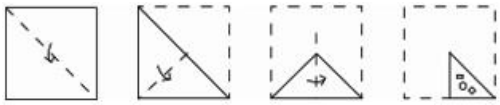

(a) (b)

(c) 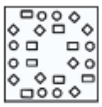 (d)

MP Police Constable Exam- 4 Sep-2023 Shift-2

Ans. (a) : दिए गए प्रश्न में कागज के टुकड़े को मोड़कर काटने के बाद खोलने पर विकल्प आकृति (a) की आकृति बनेगी।
∴ विकल्प (a) सही है।

105. The sequence of folding a piece of paper and the manner in which the folded paper has been cut is shown in the following figures. How would this paper look when unfolded?
कागज के एक टुकड़े को मोड़ने का क्रम और जिस तरीके से मुड़े हुए कागज को काटा गया है, उसे निम्नलिखित आकृतियों में दिखाया गया है। खोलने पर यह कागज कैसा दिखेगा?

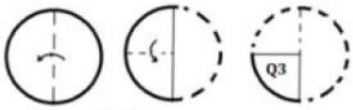

(a) 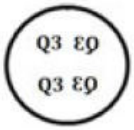 (b) 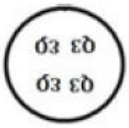

(c) (d) 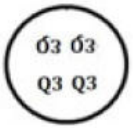

MP Police Constable Exam- 11 Sep-2023 Shift-2

Ans. (c) : प्रश्नानुसार,
कागज को मोड़ने एवं काटने के बाद उसे खोलने पर विकल्प (c) की आकृति प्राप्त होगी। अतः विकल्प (c) सही उत्तर होगा।

106. The sequence of folding a piece of paper and the manner in which the folded paper has been cut is shown in the following figures. How would this paper look when unfolded?
कागज के एक टुकड़े को मोड़ने का क्रम और जिस तरीके से मुड़े हुए कागज को काटा गया है, उसे निम्नलिखित आकृतियों में दिखाया गया है। खोलने पर यह कागज कैसा दिखेगा?

(a) (b) 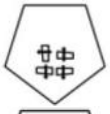

(c) (d)

MP Police Constable Exam- 11 Sep-2023 Shift-2

Ans. (c) : प्रश्नानुसार,
कागज को मोड़ने एवं काटने के बाद उसे खोलने पर विकल्प (c) की आकृति प्राप्त होगी। अतः विकल्प (c) सही उत्तर होगा।

107. The sequence of folding a piece of paper and the manner in which the folded paper has been cut is shown in the following figures. How would this paper look when unfolded?
कागज के एक टुकड़े को मोड़ने का क्रम और जिस तरीके से मुड़े हुए कागज को काटा गया है, उसे निम्नलिखित आकृतियों में दिखाया गया है। खोलने पर यह कागज कैसा दिखेगा?

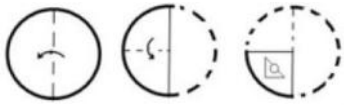

(a) (b)

(c) (d)

MP Police Constable Exam- 11 Sep-2023 Shift-2

Ans. (b) : प्रश्नानुसार,
कागज को मोड़ने एवं काटने के बाद उसे खोलने पर विकल्प (b) की आकृति प्राप्त होगी। अतः विकल्प (b) सही उत्तर होगा।

108. A piece of paper is folded and punched as shown below in the question figure. From the given answer figures, indicate how it will appear when opened.
प्रश्न चित्र में दिखाए गए अनुसार कागज़ का एक टुकड़ा मुड़ा हुआ है और फिर उसमें छेद किया गया है, कागज़ को खोलने के बाद वह कैसा दिखाई देगा।

GET IT ON Google Play Best Study PDF के लिए हमारी App को Download करें "GK Trick By Nitin Gupta"

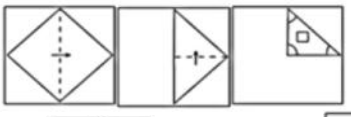

(a) (b)

(c) (d)

MP Police Constable Exam- 11 Sep-2023 Shift-2

Ans. (d) : प्रश्नानुसार,
कागज को मोड़ने एवं काटने के बाद उसे खोलने पर विकल्प (d) की आकृति प्राप्त होती है।
अतः विकल्प (d) सही उत्तर होगा।

109. A piece of paper is folded and punched as shown below in the question figures. From the given answer figures, indicate how it will appear when opened.
नीचे प्रश्न आकृतियों में दर्शाये अनुसार कागज को मोड़कर छेदने तथा खोलने के बाद वह किस उत्तर आकृति जैसा देखाई देगा?

(a) (b) 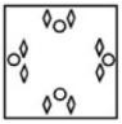

(c) 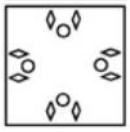 (d) 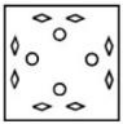

MP Police Constable Exam- 12 Sep-2023 Shift-1

Ans. (d) : विकल्प (d) में दी गई आकृति प्रश्न आकृति को काटे और खोले जाने के बाद प्राप्त होगी।

110. A piece of paper is folded and punched as shown below in the question figures. From the given answer figures, indicate how it will appear when opened.
प्रश्न चित्र में दिखाए गए अनुसार कागज़ का एक टुकड़ा मुड़ा हुआ है और फिर उसमें छेद किया गया है, कागज़ को खोलने के बाद वह कैसा दिखाई देगा।

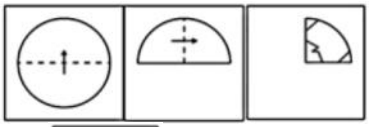

(a) (b)

(c) (d)

MP Police Constable Exam- 12 Sep-2023 Shift-1

Ans. (b) : प्रश्नानुसार विकल्प को मोड़कर छेद करने के पश्चात खोलने पर विकल्प (b) में दी गयी आकृति प्राप्त होगी।

111. Identify the answer figure from which the pieces given in the question figure have been cut.
ऐसी उत्तर आकृति पहचानिए जिससे प्रश्न आकृति में दिए गए टुकड़े काटे गए हैं।

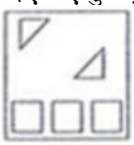

(a) (b)

(c) (d)

MP Police Constable Exam- 12 Sep-2023 Shift-1

Ans. (d) : प्रश्न आकृति में काटे गए टुकड़ों को जोड़कर बनने वाली आकृति विकल्प (d) में दी गई हैं।

112. The sequence of folding a piece of paper and the manner in which the folded paper has been cut is shown in the following figures. How would this paper look when unfolded?
कागज के एक टुकड़े को मोड़ने का क्रम और जिस तरीके से मुड़े हुए कागज को काटा गया है, उसे निम्नलिखित आकृतियों में दिखाया गया है। खोलने पर यह कागज कैसा दिखेगा?

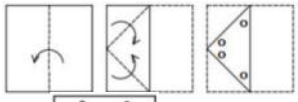

(a) 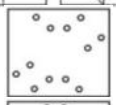 (b) 

(c)  (d) 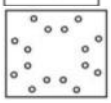

MP Police Constable Exam- 10 Sep-2023 Shift-2

Ans. (d) : कागज के टुकड़े को मोड़े और काटे जाने के बाद खोलने पर विकल्प (d) में दी गई आकृति बनेगी।

113. The sequence of folding a piece of paper and the manner in which the folded paper has been cut is shown in the following figures. How would this paper look when unfolded?
कागज के एक टुकड़े को मोड़ने का क्रम और जिस तरीके से मुड़े हुए कागज को काटा गया है, उसे निम्नलिखित आकृतियों में दिखाया गया है। खोलने पर यह कागज कैसा दिखेगा?

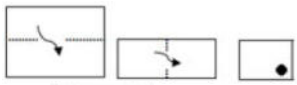

(a)  (b) 

(c) (d)

MP Police Constable Exam- 10 Sep-2023 Shift-2

GET IT ON Google Play Best Study PDF के लिए हमारी App को Download करें "GK Trick By Nitin Gupta"

Ans. (d) : कागज के टुकड़े को मोड़े और काटे जाने के बाद खोलने पर विकल्प (d) में दी गई आकृति बनेगी।

114. The sequence of folding a piece of paper and the manner in which the folded paper has been cut is shown in the following figures. How would this paper look when unfolded?
कागज के एक टुकड़े को मोड़ने का क्रम और जिस तरीके से मुड़े हुए कागज को काटा गया है, उसे निम्नलिखित आकृतियों में दिखाया गया है। खोलने पर यह कागज कैसा दिखेगा?

(a) 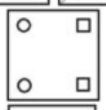
(b) 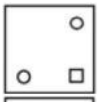
(c) 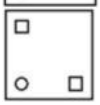
(d) 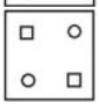

MP Police Constable Exam- 10 Sep-2023 Shift-2

Ans. (d) : कागज के टुकड़े को मोड़े और काटे जाने के बाद खोलने पर विकल्प (d) में दी गई आकृति बनेगी।

115. As shown in the question figure below, A piece of paper is folded and cut from the given options in the answer figure. Select the one like which the paper will appear when unfolded.
नीचे दिए गए प्रश्न आकृति में एक कागज के टुकड़े को मोड़ा और काटा गया है, दी गई उत्तर आकृति के विकल्पों में से उस उत्तर आकृति का चयन करें, जैसा कि मोड़े और काटे गए कागज को खोलने पर आकृति बनेगी।

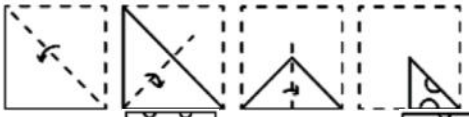

(a) 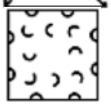
(b) 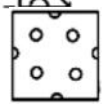
(c)
(d)

MP Police Constable Exam- 1 Sep-2023 Shift-2

Ans. (c) : प्रश्नानुसार कागज को मोड़कर काटने के पश्चात खोलने पर विकल्प (c) में दी गयी आकृति प्राप्त होगी।

116. As shown in the question figure below, A piece of paper is folded and cut from the given options in the answer figure. Select the one like which the paper will appear when unfolded.
नीचे दिए गए प्रश्न आकृति में एक कागज के टुकड़े को मोड़ा और काटा गया है, दी गई उत्तर आकृति के विकल्पों में से उस उत्तर आकृति का चयन करें, जैसा कि मोड़े और काटे गए कागज को खोलने पर आकृति बनेगी।

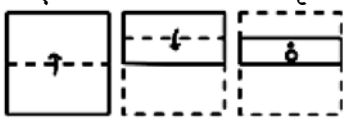

(a) 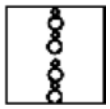
(b)
(c) 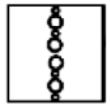
(d) 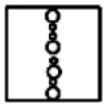

MP Police Constable Exam- 1 Sep-2023 Shift-2

Ans. (b) : प्रश्नानुसार कागज को मोड़कर काटने के पश्चात वह उत्तर आकृति (b) के अनुरूप दिखाई देगा।

117. As shown in the question figure below, A piece of paper is folded and cut from the given options in the answer figure. Select the one like which the paper will appear when unfolded.
नीचे दिए गए प्रश्न आकृति में एक कागज के टुकड़े को मोड़ा और काटा गया है, दी गई उत्तर आकृति के विकल्पों में से उस उत्तर आकृति का चयन करें, जैसा कि मोड़े और काटे गए कागज को खोलने पर आकृति बनेगी।

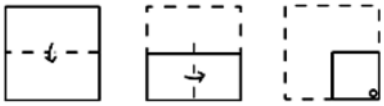

(a) 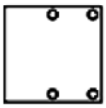
(b) 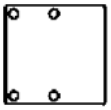
(c) 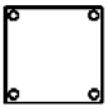
(d) 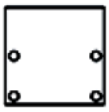

MP Police Constable Exam- 1 Sep-2023 Shift-2

Ans. (c) : प्रश्नानुसार, कागज को मोड़कर काटने के बाद खोलने पर वह कागज उत्तर आकृति (c) के अनुरूप दिखाई देगा।

118. A piece of paper is folded and cut as shown below in the questions figure. From the given answer figures, indicate how it will appear when opened?
नीचे दिये गये प्रश्न आकृति में पेपर को मोड़ कर काटा गया है। दिये गये उत्तर आकृति से बताएँ कि यह खोलने पर कैसा दिखेगा?

Question Figure

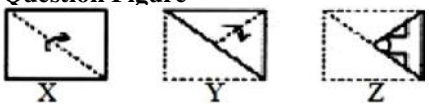

X Y Z

Answer Figure

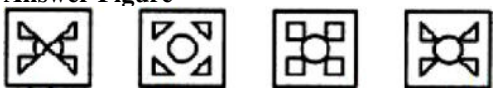

(A) (B) (C) (D)

(a) (A) (b) (B)
(c) (C) (d) (D)

MP Police Constable Exam- 1 Sep-2023 Shift-2

Ans. (c) : प्रश्नानुसार कागज को मोड़कर काटने के पश्चात खोलने पर वह उत्तर आकृति (c) के अनुरूप दिखाई देगा।

119. As shown in the question figure below, A piece of paper is folded and cut from the given options in the answer figure. Select the one like which the paper will appear when unfolded.

GET IT ON Google Play Best Study PDF के लिए हमारी App को Download करें "GK Trick By Nitin Gupta"

नीचे दिए गए प्रश्न आकृति में एक कागज के टुकड़े को मोड़ा और काटा गया है, दी गई उत्तर आकृति के विकल्पों में से उस उत्तर आकृति का चयन करें, जैसा कि मोड़े और काटे गए कागज को खोलने पर आकृति बनेगी।

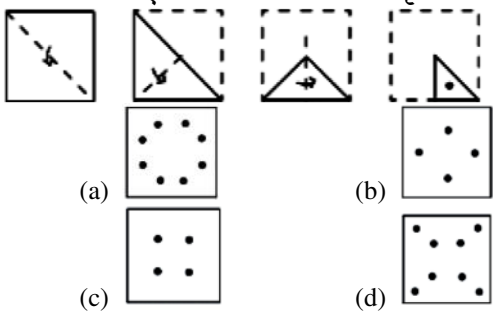

MP Police Constable Exam- 1 Sep-2023 Shift-2

Ans. (a) : प्रश्नानुसार कागज को मोड़कर काटने के पश्चात खोलने पर वह उत्तर आकृति (a) के अनुरूप दिखाई देगा।

120. Select the option that is related to the third figure in the same way that the second figure is related to the first figure.
उस विकल्प का चयन करें जो तीसरी आकृति से उसी प्रकार संबंधित है जिस प्रकार दूसरी आकृति, पहली आकृति से संबंधित है।

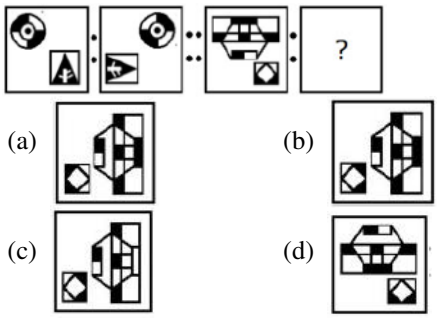

MP Police Constable Exam- 29 August-2023 Shift-1

Ans. (a) : जिस प्रकार पहली आकृति को 90° दक्षिणावर्त घुमाने पर दूसरी आकृति प्राप्त होती है। उसी प्रकार तीसरी आकृति को 90° दक्षिणावर्त घुमाने पर विकल्प (a) वाली आकृति प्राप्त होगी।

121. As shown in the question figure below, A piece of paper is folded and cut from the given options in the answer figure. Select the one like which the paper will appear when unfolded.
नीचे दिए गए प्रश्न आकृति में एक कागज के टुकड़े को मोड़ा और काटा गया है, दी गई उत्तर आकृति के विकल्पों में से उस उत्तर आकृति का चयन करे, जैसा कि मोड़े और काटे गए कागज को खोलने पर आकृति बनेगी।

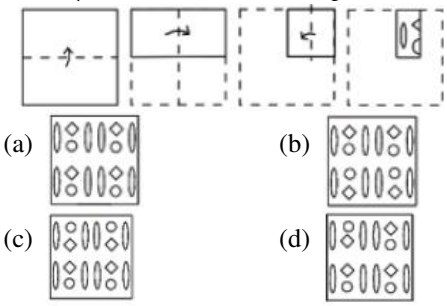

MP Police Constable Exam- 3 Sep-2023 Shift-2

Ans. (b) : प्रश्नानुसार,
दिए गए प्रश्न आकृति में कागज के टुकड़े को मोड़े और काटे जाने के बाद कागज को खोलने पर विकल्प (b) में दी गई आकृति बनेगी।

122. As shown in the question figure below, A piece of paper is folded and cut from the given options in the answer figure. Select the one like which the paper will appear when unfolded.
नीचे दिए गए प्रश्न आकृति में एक कागज के टुकड़े को मोड़ा और काटा गया है, दी गई उत्तर आकृति के विकल्पों में से उस उत्तर आकृति का चयन करे, जैसा कि मोड़े और काटे गए कागज को खोलने पर आकृति बनेगी।

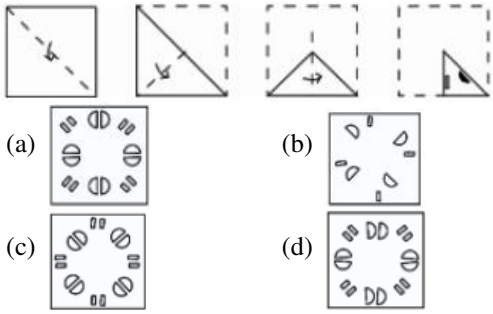

MP Police Constable Exam- 3 Sep-2023 Shift-2

Ans. (c) : प्रश्नानुसार,
दिए गए प्रश्न आकृति में कागज के टुकड़े को मोड़े और काटे जाने के बाद कागज को खोलने पर विकल्प (c) में दी गई आकृति बनेगी।

123. As shown in the question figure below, A piece of paper is folded and cut from the given options in the answer figure. Select the one like which the paper will appear when unfolded.
नीचे दिए गए प्रश्न आकृति में एक कागज के टुकड़े को मोड़ा और काटा गया है, दी गई उत्तर आकृति के विकल्पों में से उस उत्तर आकृति का चयन करे, जैसा कि मोड़े और काटे गए कागज को खोलने पर आकृति बनेगी।

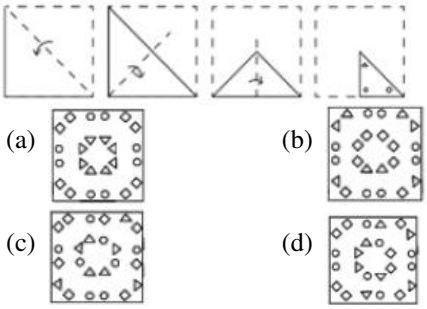

MP Police Constable Exam- 3 Sep-2023 Shift-2

Ans. (a) : प्रश्नानुसार,
दिए गए प्रश्न आकृति में कागज के टुकड़े को मोड़े और काटे जाने के बाद कागज को खोलने पर विकल्प (a) में दी गई आकृति बनेगी।

124. As shown in the question figure below, A piece of paper is folded and cut from the given options in the answer figure. Select the one like which the paper will appear when unfolded.
नीचे दिए गए प्रश्न आकृति में एक कागज के टुकड़े को मोड़ा और काटा गया है, दी गई उत्तर आकृति के विकल्पों में से उस उत्तर आकृति का चयन करे, जैसा कि मोड़े और काटे गए कागज को खोलने पर आकृति बनेगी।

GET IT ON Google Play Best Study PDF के लिए हमारी App को Download करें "GK Trick By Nitin Gupta"

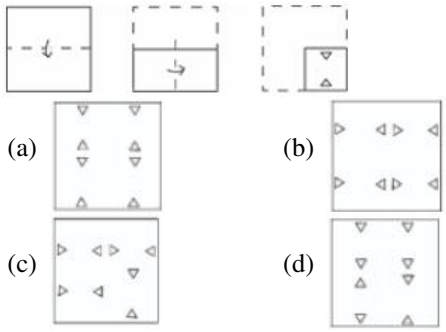

MP Police Constable Exam- 3 Sep-2023 Shift-2

Ans. (a) : प्रश्नानुसार,
दिए गए प्रश्न आकृति में कागज के टुकड़े को मोड़े और काटे जाने के बाद कागज को खोलने पर विकल्प (a) में दी गई आकृति बनेगी।

125. As shown in the question figure below, A piece of paper is folded and cut from the given options in the answer figure. Select the one like which the paper will appear when unfolded.
नीचे दिए गए प्रश्न आकृति में एक कागज के टुकड़े को मोड़ा और काटा गया है, दी गई उत्तर आकृति के विकल्पों में से उस उत्तर आकृति का चयन करें, जैसा कि मोड़े और काटे गए कागज को खोलने पर आकृति बनेगी।

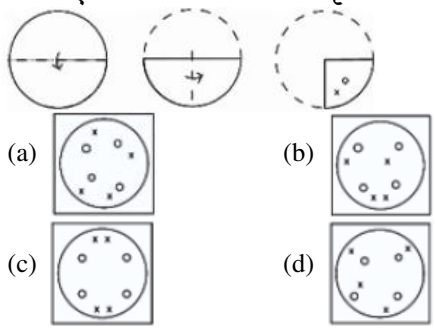

MP Police Constable Exam- 3 Sep-2023 Shift-2

Ans. (c) : प्रश्नानुसार,
दिए गए प्रश्न आकृति में कागज के टुकड़े को मोड़े और काटे जाने के बाद कागज को खोलने पर विकल्प (c) में दी गई आकृति बनेगी।

126. As shown in the question figure below, A piece of paper is folded and cut from the given options in the answer figure. Select the one like which the paper will appear when unfolded.
नीचे दिए गए प्रश्न आकृति में एक कागज के टुकड़े को मोड़ा और काटा गया है, दी गई उत्तर आकृति के विकल्पों में से उस उत्तर आकृति का चयन करें, जैसा कि मोड़े और काटे गए कागज को खोलने पर आकृति बनेगी।

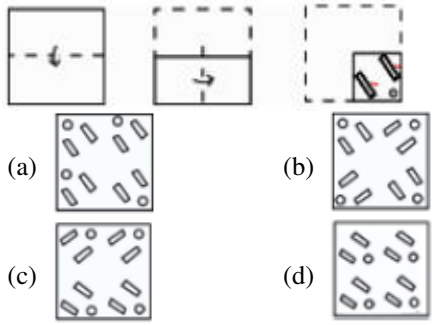

MP Police Constable Exam- 6 Sep-2023 Shift-2

Ans. (b) : प्रश्नानुसार कागज को मोड़कर काटने के पश्चात खोलने पर विकल्प (b) में दी गयी आकृति प्राप्त होगी।

127. As shown in the question figure below, A piece of paper is folded and cut from the given options in the answer figure. Select the one like which the paper will appear when unfolded.
नीचे दिए गए प्रश्न आकृति में एक कागज के टुकड़े को मोड़ा और काटा गया है, दी गई उत्तर आकृति के विकल्पों में से उस उत्तर आकृति का चयन करें, जैसा कि मोड़े और काटे गए कागज को खोलने पर आकृति बनेगी।

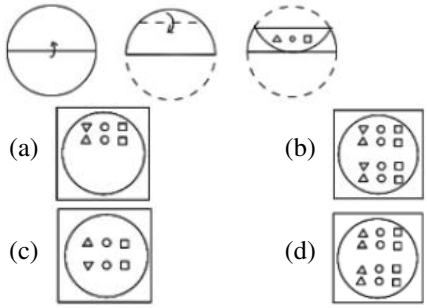

MP Police Constable Exam- 6 Sep-2023 Shift-2

Ans. (b) : प्रश्नानुसार कागज को मोड़कर काटने के पश्चात खोलने पर विकल्प (b) में दी गयी आकृति प्राप्त होगी।

128. As shown in the question figure below, A piece of paper is folded and cut from the given options in the answer figure. Select the one like which the paper will appear when unfolded.
नीचे दिए गए प्रश्न आकृति में एक कागज के टुकड़े को मोड़ा और काटा गया है, दी गई उत्तर आकृति के विकल्पों में से उस उत्तर आकृति का चयन करें, जैसा कि मोड़े और काटे गए कागज को खोलने पर आकृति बनेगी।

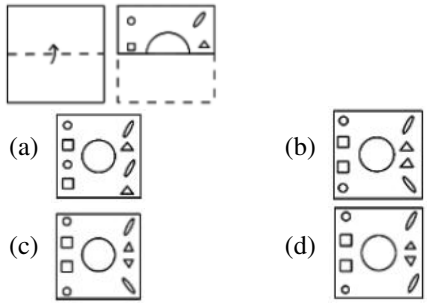

MP Police Constable Exam- 6 Sep-2023 Shift-2

Ans. (c) : प्रश्नानुसार, कागज के मोड़कर काटने के पश्चात् खोलने पर विकल्प (c) में दी गयी आकृति प्राप्त होगी।

129. The sequence of folding a piece of paper and the manner in which the folded paper has been cut is shown in the following figures. How would this paper look when unfolded?
कागज के एक टुकड़े को मोड़ने का क्रम और जिस तरीके से मुड़े हुए कागज को काटा गया है, उसे निम्नलिखित आकृतियों में दिखाया गया है। खोलने पर यह कागज कैसा दिखेगा?

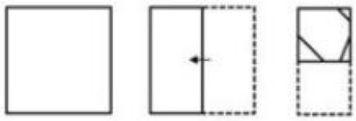

GET IT ON Google Play Best Study PDF के लिए हमारी App को Download करें "GK Trick By Nitin Gupta"

(a) (b) 

(c)  (d)

MP Police Constable Exam- 6 Sep-2023 Shift-2

Ans. (a) : प्रश्नानुसार, कागज को मोड़कर काटने के पश्चात खोलने पर उत्तर आकृति (a) के अनुरूप दिखाई देगा।

130. The sequence of folding a piece of paper and the manner in which the folded paper has been cut is shown in the following figures. How would this paper look when unfolded?
कागज के एक टुकड़े को मोड़ने का क्रम और जिस तरीके से मुड़े हुए कागज को काटा गया है, उसे निम्नलिखित आकृतियों में दिखाया गया है। खोलने पर यह कागज कैसा दिखेगा?

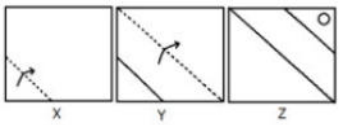

(a) 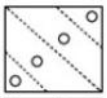 (b) 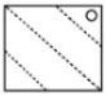

(c) 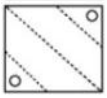 (d) 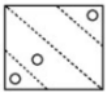

MP Police Constable Exam- 6 Sep-2023 Shift-2

Ans. (b) : प्रश्नानुसार, कागज को मोड़कर काटने के पश्चात खोलने पर विकल्प (b) में दी गयी आकृति प्राप्त होगी।

131. As shown in the question figure below, A piece of paper is folded and cut from the given options in the answer figure. Select the one like which the paper will appear when unfolded.
नीचे दिए गए प्रश्न आकृति में एक कागज के टुकड़े को मोड़ा और काटा गया है, दी गई उत्तर आकृति के विकल्पों में से उस उत्तर आकृति का चयन करे, जैसा कि मोड़े और काटे गए कागज को खोलने पर आकृति बनेगी।

(a) (b)

(c) (d)

MP Police Constable Exam- 3 Sep-2023 Shift-1

Ans. (b) : मोड़कर काटे गये कागज को खोलने पर निम्नवत् वेन आकृति प्राप्त होगी

132. As shown in the question figure below, A piece of paper is folded and cut from the given options in the answer figure. Select the one like which the paper will appear when unfolded.
नीचे दिए गए प्रश्न आकृति में एक कागज के टुकड़े को मोड़ा और काटा गया है, दी गई उत्तर आकृति के विकल्पों में से उस उत्तर आकृति का चयन करे, जैसा कि मोड़े और काटे गए कागज को खोलने पर आकृति बनेगी।

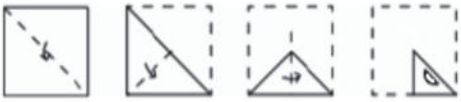

(a) (b) 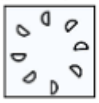

(c) (d)

MP Police Constable Exam- 3 Sep-2023 Shift-1

Ans. (d) : मोड़कर काटे गये कागज को खोलने पर निम्नवत् वेन आरेख आकृति प्राप्त होगी

133. As shown in the question figure below, A piece of paper is folded and cut from the given options in the answer figure. Select the one like which the paper will appear when unfolded.
नीचे दिए गए प्रश्न आकृति में एक कागज के टुकड़े को मोड़ा और काटा गया है, दी गई उत्तर आकृति के विकल्पों में से उस उत्तर आकृति का चयन करे, जैसा कि मोड़े और काटे गए कागज को खोलने पर आकृति बनेगी।

(a) (b)

(c) (d)

MP Police Constable Exam- 3 Sep-2023 Shift-1

Ans. (c) : मोड़कर काटे गये कागज को खोलने पर निम्नवत् वेन आरेख की आकृति प्राप्त होगी

134. As shown in the question figure below, A piece of paper is folded and cut from the given options in the answer figure. Select the one like which the paper will appear when unfolded.
नीचे दिए गए प्रश्न आकृति में एक कागज के टुकड़े को मोड़ा और काटा गया है, दी गई उत्तर आकृति के विकल्पों में से उस उत्तर आकृति का चयन करे, जैसा कि मोड़े और काटे गए कागज को खोलने पर आकृति बनेगी।

GET IT ON Google Play Best Study PDF के लिए हमारी App को Download करें "GK Trick By Nitin Gupta"

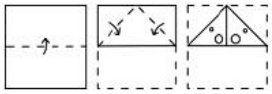

(a) (b) 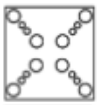

(c) (d) 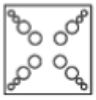

MP Police Constable Exam- 3 Sep-2023 Shift-1

Ans. (b) : मोड़कर काटे गये कागज को खोलने पर निम्नवत् वेन आरेख की आकृति प्राप्त होगी

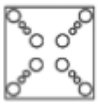

135. As shown in the question figure below, A piece of paper is folded and cut from the given options in the answer figure. Select the one like which the paper will appear when unfolded.
नीचे दिए गए प्रश्न आकृति में एक कागज के टुकड़े को मोड़ा और काटा गया है, दी गई उत्तर आकृति के विकल्पों में से उस उत्तर आकृति का चयन करे, जैसा कि मोड़े और काटे गए कागज को खोलने पर आकृति बनेगी।

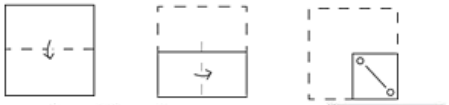

(a) 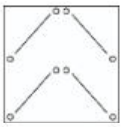 (b) 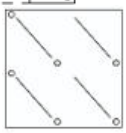

(c) 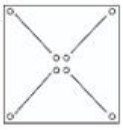 (d) 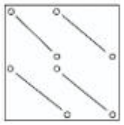

MP Police Constable Exam- 3 Sep-2023 Shift-1

Ans. (c) : मोड़कर काटे गये कागज को खोलने पर निम्नवत् वेन आकृति प्राप्त होगी

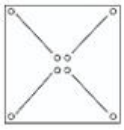

136. Complete the question figure by choosing the best alternative from the answer figure.
उत्तर आकृति में से सबसे ठीक विकल्प चुनकर प्रश्न आकृति को पूरा कीजिए।

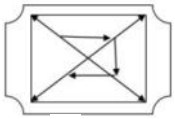

(a) (b)

(c) (d)

MP Police Constable Exam- 27 August-2023 Shift-2

Ans. (b) : दी गई आकृति को विकल्प आकृति (b) द्वारा पूरा किया जायेगा।

137. The sequence of folding a piece of paper and the manner in which the folded paper has been cut is shown in the following figures.
How would this paper look when unfolded?
कागज के एक टुकड़े को मोड़ने का क्रम और जिस तरीके से मुड़े हुए कागज को काटा गया है, उसे निम्नलिखित आकृतियों में दिखाया गया है।
खोलने पर यह कागज कैसा दिखेगा?

(a) 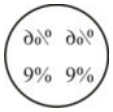 (b) 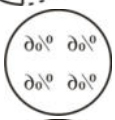

(c) 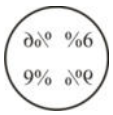 (d)

MP Police Constable Exam- 11 Sep-2023 Shift-3

Ans. (c) : प्रश्न आकृति के अवलोकन से स्पष्ट है कि कागज को मोड़कर और काटने पर विकल्प (c) की आकृति प्राप्त होगी।

138. The sequence of folding a piece of paper and the manner in which the folded paper has been cut is shown in the following figures.
How would this paper look when unfolded?
कागज के एक टुकड़े को मोड़ने का क्रम और जिस तरीके से मुड़े हुए कागज को काटा गया है, उसे निम्नलिखित आकृतियों में दिखाया गया है।
खोलने पर यह कागज कैसा दिखेगा?

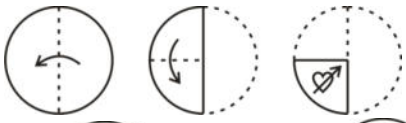

(a) (b)

(c) (d)

MP Police Constable Exam- 11 Sep-2023 Shift-3

Ans. (a) : प्रश्न आकृति की अवलोकन से स्पष्ट है कि कागज को मोड़ने और काटने पर विकल्प (a) की आकृति प्राप्त होगी।

139. The sequence of folding a piece of paper and the manner in which the folded paper has been cut is shown in the following figures.
How would this paper look when unfolded?
कागज के एक टुकड़े को मोड़ने का क्रम और जिस तरीके से मुड़े हुए कागज को काटा गया है, उसे निम्नलिखित आकृतियों में दिखाया गया है।
खोलने पर यह कागज कैसा दिखेगा?

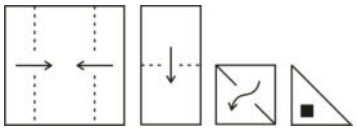

GET IT ON Google Play Best Study PDF के लिए हमारी App को Download करें "GK Trick By Nitin Gupta"

(a)  (b) 

(c)  (d) 

MP Police Constable Exam- 11 Sep-2023 Shift-3

Ans. (a) : प्रश्नानुसार कागज को मोड़कर काटने पर विकल्प (a) की आकृति प्राप्त होगी। अतः विकल्प (a) सही उत्तर है।

140. The sequence of folding a piece of paper and the manner in which the folded paper has been cut is shown in the following figures.
How would this paper look when unfolded?
कागज के एक टुकड़े को मोड़ने का क्रम और जिस तरीके से मुड़े हुए कागज को काटा गया है, उसे निम्नलिखित आकृतियों में दिखाया गया है।
खोलने पर यह कागज कैसा दिखेगा?

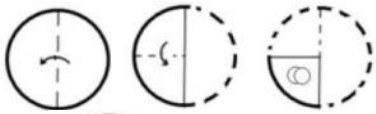

(a) 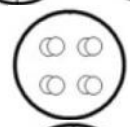 (b) 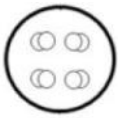

(c) 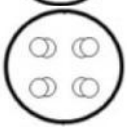 (d) 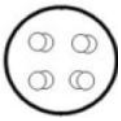

MP Police Constable Exam- 12 Sep-2023 Shift-1

Ans. (b) : प्रश्नानुसार, कागज के टुकड़े को काटकर पश्चात विकल्प (b) में दी गयी आकृति प्राप्त होगी।

141. The sequence of folding a piece of paper and the manner in which the folded paper has been cut is shown in the following figures.
How would this paper look when unfolded?
कागज के एक टुकड़े को मोड़ने का क्रम और जिस तरीके से मुड़े हुए कागज को काटा गया है, उसे निम्नलिखित आकृतियों में दिखाया गया है।
खोलने पर यह कागज कैसा दिखेगा?

(a) (b) 

(c)  (d)

MP Police Constable Exam- 12 Sep-2023 Shift-1

Ans. (c) : प्रश्नानुसार कागज के टुकड़े को मोड़कर खोलने के पश्चात विकल्प (c) में दी गयी आकृति जैसा दिखायी देगा।

142. The sequence of folding a piece of paper and the manner in which the folded paper has been cut is shown in the following figures.
How would this paper look when unfolded?
कागज के एक टुकड़े को मोड़ने का क्रम और जिस तरीके से मुड़े हुए कागज को काटा गया है, उसे निम्नलिखित आकृतियों में दिखाया गया है।
खोलने पर यह कागज कैसा दिखेगा?

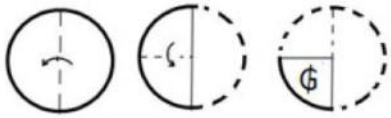

(a) 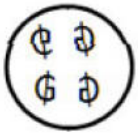 (b) 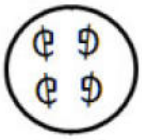

(c) 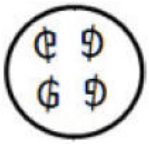 (d) 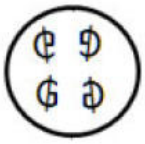

MP Police Constable Exam- 12 Sep-2023 Shift-1

Ans. (d) : दिए गए प्रश्न आकृति को काटे और खोले जाने के बाद विकल्प (d) में दी गई आकृति प्राप्त होगी।

Type-3: प्रश्न आकृतियों की निकटतम समानता पर आधारित प्रश्न

143. Complete the question figure by choosing the best alternative from the answer figure.
उत्तर आकृति में से सबसे ठीक विकल्प चुनकर प्रश्न आकृति को पूरा कीजिए।

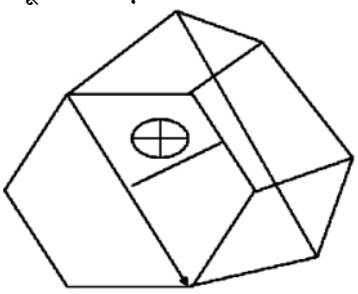

(a) (b)

(c) (d)

MP Police Constable Exam- 1 Sep-2023 Shift-2

Ans. (a) : प्रश्न आकृति के रिक्त स्थान को विकल्प आकृति (a) पूरा करेगी।

144. Complete the question figure by choosing the best alternative from the answer figure.
उत्तर आकृति में से सबसे सटीक विकल्प चुनकर प्रश्न आकृति को पूरा कीजिए।

GET IT ON Google Play Best Study PDF के लिए हमारी App को Download करें "GK Trick By Nitin Gupta"

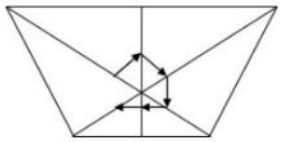

(a) (b)

(c) (d)

MP Police Constable Exam- 31 August-2023 Shift-3

Ans. (a) : दी गई आकृति का सबसे ठीक विकल्प आकृति (a) होगा।

145. Complete the question figure by choosing the best alternative from the answer figure.
उत्तर आकृति में से सबसे ठीक विकल्प चुनकर प्रश्न आकृति को पूरा कीजिए।

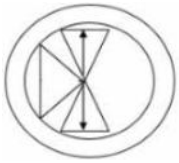

(a) 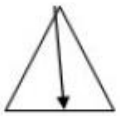 (b)

(c) 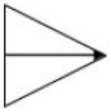 (d)

MP Police Constable Exam- 27 August-2023 Shift-1

Ans. (b) : दिये गये प्रश्न आकृति के खाली स्थान को विकल्प आकृति (b) पैटर्न को पूरा करेगी।

146. Complete the question figure by choosing the best alternative from the answer figure.
उत्तर आकृति में से सबसे ठीक विकल्प चुनकर प्रश्न आकृति को पूरा कीजिए।

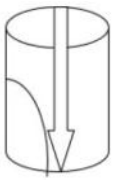

(a) (b)

(c) (d)

MP Police Constable Exam- 8 Sep-2023 Shift-2

Ans. (a) : विकल्प (a) में दी गई आकृति प्रश्न आकृति को पूर्ण करती है।

147. Complete the question figure by choosing the best alternative from the answer figure.
उत्तर आकृति में से सबसे ठीक विकल्प चुनकर प्रश्न आकृति को पूरा कीजिए।

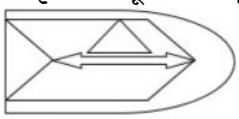

(a) (b)

(c) (d) 

MP Police Constable Exam- 28 August-2023 Shift-2

Ans. (a) : दी गई प्रश्न आकृति को पूरा करने के लिए उत्तर-आकृति विकल्प (a) सबसे उपयुक्त होगी।

148. Complete the question figure by choosing the best alternative from the answer figure.
उत्तर आकृति में से सबसे ठीक विकल्प चुनकर प्रश्न आकृति को पूरा कीजिए।

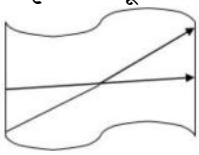

(a) (b)

(c) (d)

MP Police Constable Exam- 9 Sep-2023 Shift-3

Ans. (c) : प्रश्नानुसार,
दिए गए चित्र में क्षैतिज तिर्यक रेखा को दक्षिणावर्त विकर्णतः एक तिर्यक रेखा प्रतिच्छेद करती है उसी प्रकार विकल्प (c) की तिर्यक रेखा वामावर्त क्षैतिज रेखा को प्रतिच्छेद करेगी।
अतः विकल्प (c) सही उत्तर होगा।

149. Complete the question figure by choosing the best alternative from the answer figure.
उत्तर आकृति में से सबसे ठीक विकल्प चुनकर प्रश्न आकृति को पूरा कीजिए।

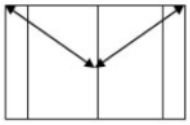

(a) 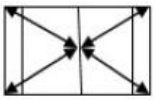 (b) 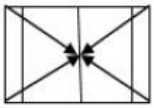

(c)  (d) 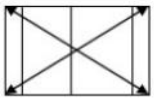

MP Police Constable Exam- 6 Sep-2023 Shift-3

Ans. (a) : प्रश्नानुसार, दी गई प्रश्न आकृति को पूरा करने में विकल्प आकृति (a) सबसे सही है।

GET IT ON Google Play Best Study PDF के लिए हमारी App को Download करें "GK Trick By Nitin Gupta"

Type-4: प्रश्न आकृति के विकल्प आकृतियों में सन्निहित/अंतर्निहित होने पर आधारित प्रश्न

150. From the given answer figures, select the one in which question figure is hidden/embedded.
दी गई उत्तर आकृति से, उसका चयन करें जिसमें प्रश्न आकृति छिपी/सन्निहित है।

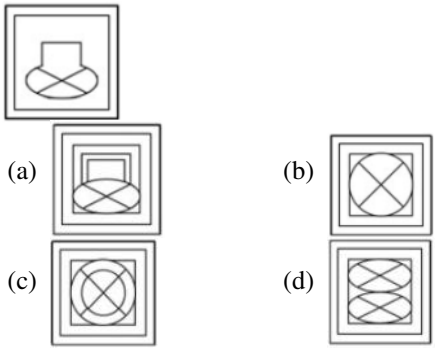

MP Police Constable Exam- 27 August-2023 Shift-2

Ans. (a) : दी गई प्रश्न आकृति विकल्प आकृति (a) में सन्निहित है। अतः विकल्प (a) सही है।

151. From the given answer figures, select the one in which question figure is hidden/embedded.
दी गई उत्तर आकृति से, उसका चयन करें जिसमें प्रश्न आकृति छिपी/सन्निहित है।

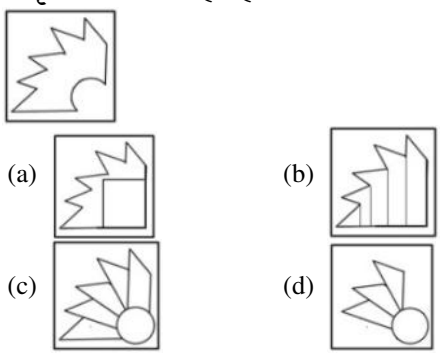

MP Police Constable Exam- 27 August-2023 Shift-1

Ans. (c) : दी गई प्रश्न आकृति विकल्प आकृति (c) में सन्निहित है। अतः विकल्प (c) सही उत्तर होगा।

152. DIRECTIONS: In the given question find the answer figure in which question is embedded.
निर्देश : दिए गए प्रश्न में उत्तर आकृति ज्ञात करें जिसमें प्रश्न आकृति निहित है ?

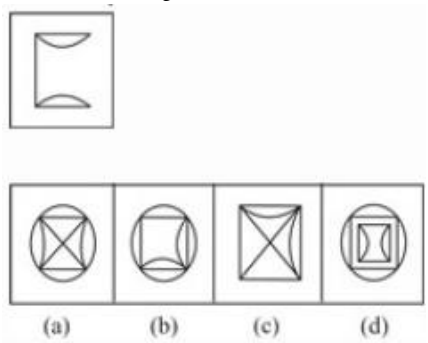

(a) figure (a)/आकृति (a) (b) figure (b)/आकृति (b)
(c) figure (c)/आकृति (c) (d) figure (d)/आकृति (d)

MP Police Constable Exam- 31 August-2023 Shift-3

Ans. (d) : दी गई प्रश्न आकृति विकल्प आकृति (d) में निहित है।

153. DIRECTIONS: In the given question find the answer figure in which question is embedded.
निर्देश : दिए गए प्रश्न में वह उत्तर आकृति ज्ञात कीजिये जिसमें प्रश्न आकृति निहित है।

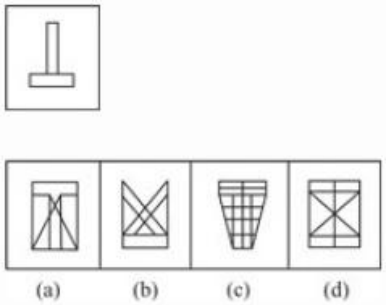

(a) figure (a)/आकृति (a) (b) figure (b)/आकृति (b)
(c) figure (c)/आकृति (c) (d) figure (d)/आकृति (d)

MP Police Constable Exam- 31 August-2023 Shift-3

Ans. (c) : दी गई प्रश्न आकृति विकल्प आकृति (c) में निहित है।

154. DIRECTIONS: In the given question find the answer figure in which question is embedded.
निर्देशः दिए गए प्रश्न में वह उत्तर आकृति ज्ञात कीजिये जिसमें प्रश्न आकृति निहित है।

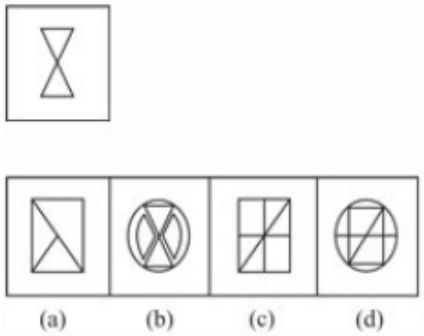

(a) figure (a)/आकृति (a) (b) figure (b)/आकृति (b)
(c) figure (c)/आकृति (c) (d) figure (d)/आकृति (d)

MP Police Constable Exam- 29 August-2023 Shift-2

Ans. (b) : उत्तर आकृति 'b', प्रश्न आकृति में निहित है।

155. From the given answer figures, select the one in which question figure is hidden/embedded.
दी गई उत्तर आकृति से, उसका चयन करें जिसमें प्रश्न आकृति छिपी/सन्निहित है।

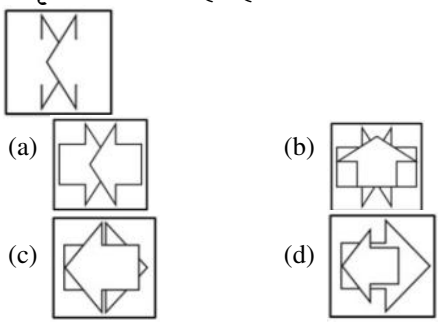

MP Police Constable Exam- 29 August-2023 Shift-2

Ans. (a) : दी गई प्रश्न आकृति, उत्तर आकृति 'a' में सन्निहित है।

GET IT ON Google Play Best Study PDF के लिए हमारी App को Download करें "GK Trick By Nitin Gupta"

156. From the given answer figures, select the one in which question figure is hidden/embedded.
दी गई उत्तर आकृति से, उसका चयन करें जिसमें प्रश्न आकृति छिपी/सन्निहित है।

(a)
(b)
(c)
(d)

MP Police Constable Exam- 27 August-2023 Shift-1

Ans. (a) : दी गई प्रश्न आकृति विकल्प आकृति (a) में सन्निहित है। अतः विकल्प (a) सही उत्तर होगा।

157. From the given answer figures, select the one in which question figure is hidden/embedded.
दी गई उत्तर आकृति से, उसका चयन करें जिसमें प्रश्न आकृति छिपी/संन्निहित है।

(a)
(b)
(c)
(d)

MP Police Constable Exam- 28 August-2023 Shift-2

Ans. (c) : दी गई प्रश्न-आकृति, उत्तर-आकृति विकल्प (c) में सन्निहित है।

158. From the given answer figures, select the one in which question figure is hidden/embedded.
दी गई उत्तर आकृति से, उसका चयन करें जिसमें प्रश्न आकृति छिपी/सन्निहित है।

(a)
(b)
(c)
(d)

MP Police Constable Exam- 28 August-2023 Shift-2

Ans. (a) : दी गई प्रश्न-आकृति, उत्तर-आकृति विकल्प (a) में सन्निहित है।

159. From the given answer figures, select the one in which question figure is hidden/embedded.
दी गई उत्तर आकृति से, उसका चयन करें जिसमें प्रश्न आकृति छिपी/सन्निहित है।

(a) 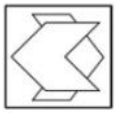
(b)
(c)
(d)

MP Police Constable Exam- 26 August-2023 Shift-3

Ans. (c) : दी गई प्रश्न आकृति उत्तर विकल्प आकृति (c) में सन्निहित है।

160. From the given answer figures, select the one in which question figure is hidden/embedded.
दी गई उत्तर आकृति से, उसका चयन करें जिसमें प्रश्न आकृति छिपी/सन्निहित है।

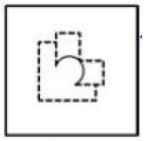

(a) 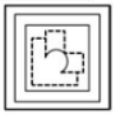
(b) 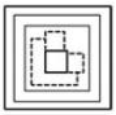
(c)
(d)

MP Police Constable Exam- 26 August-2023 Shift-3

Ans. (a) : दी गई प्रश्न आकृति उत्तर विकल्प आकृति (a) में छिपी है।

161. From the given answer figures, select the one in which question figure is hidden/embedded.
दी गई उत्तर आकृति से, उसका चयन करें जिसमें प्रश्न आकृति छिपी/सन्निहित है।

(a) 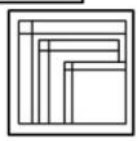
(b)
(c) 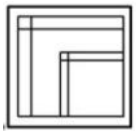
(d) 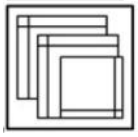

MP Police Constable Exam- 12 Sep-2023 Shift-2

Ans. (b) : दी गयी प्रश्न आकृति विकल्प 'b' की प्रश्न आकृति में सन्निहित है।

GET IT ON Google Play Best Study PDF के लिए हमारी App को Download करें "GK Trick By Nitin Gupta"

162. From the given answer figures, select the one in which the question figure is hidden/embedded.
दिए गए उत्तर आकृति में से, उस विकल्प का चुनाव करें जिसमें प्रश्न आकृति छिपा है।

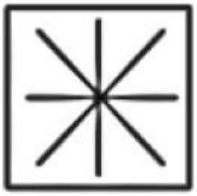

(a)
(b)
(c)
(d)

MP Police Constable Exam- 12 Sep-2023 Shift-2

Ans. (c) : दिये गये प्रश्न आकृति विकल्प 'c' की आकृति में निहित है। अतः विकल्प 'c' सही उत्तर है।

163. From the given alternatives select the one in which the question figure is hidden/embedded.
दिए गए विकल्पों में से, उस आकृति का चयन करें जिसमें प्रश्न आकृति अन्तर्निहित/छिपी है?



(a) 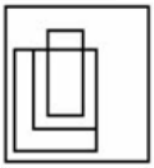
(b)
(c) 
(d) 

MP Police Constable Exam- 9 Sep-2023 Shift-2

Ans. (b) : दिए गए प्रश्न आकृति में विकल्प (b) में दी गई उत्तर आकृति अन्तर्निहित है अतः विकल्प (b) सही उत्तर होगा।

164. From the given answer figures, select the one in which question figure is hidden/embedded.
दी गई उत्तर आकृति से, उसका चयन करें जिसमे प्रश्न आकृति छिपी/सन्निहित है।

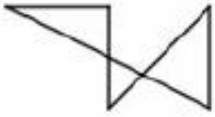

(a) 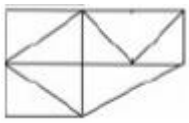
(b) 
(c)
(d) 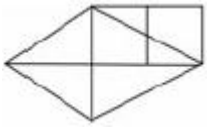

MP Police Constable Exam- 28 August-2023 Shift-3

Ans. (c) : दी गई प्रश्न आकृति उत्तर आकृति विकल्प (c) में सन्निहित/छिपी है।

165. From the given answer figures, select the one in which question figure is hidden/embedded.
दी गई उत्तर आकृति से, उसका चयन करें जिसमें प्रश्न आकृति छिपी/सन्निहित है।

(a) 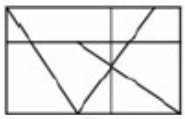
(b) 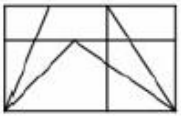
(c)
(d) 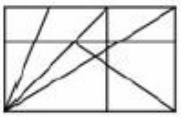

MP Police Constable Exam- 28 August-2023 Shift-3

Ans. (c) : दी गई प्रश्न आकृति उत्तर आकृति विकल्प (c) में सन्निहित है।

166. DIRECTIONS: In the given question find the answer figure in which question is embedded.
निर्देशः दिए गए प्रश्न में, वह आकृति ज्ञात करें जिसमें प्रश्न आकृति निहित है।

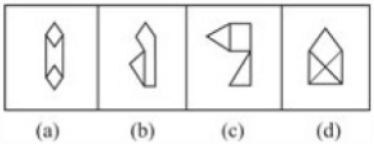

(a) figure (a)/आकृति (a)
(b) figure (b)/आकृति (b)
(c) figure (c)/आकृति (c)
(d) figure (d)/आकृति (d)

MP Police Constable Exam- 11 Sep-2023 Shift-2

Ans. (d) : प्रश्नानुसार,

दी गई प्रश्न आकृति विकल्प (d) में दी गयी आकृति में निहित है। अतः विकल्प (d) सही उत्तर होगा।

GET IT ON Google Play Best Study PDF के लिए हमारी App को Download करें "GK Trick By Nitin Gupta"

167. DIRECTIONS: In the given question find the answer figure in which question is embedded.
निर्देशः वह उत्तर आकृति ज्ञात कीजिए जिसमें प्रश्न आकृति निहित हैं?

(a) 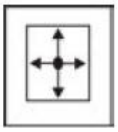
(b) 
(c) 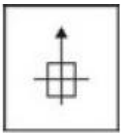
(d) 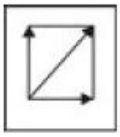

MP Police Constable Exam- 11 Sep-2023 Shift-2

Ans. (c) : प्रश्नानुसार,
दी गई प्रश्न आकृति विकल्प (c) की आकृति में है। अतः विकल्प (c) सही उत्तर होगा।

168. From the given answer figures, select the one in which question figure is hidden/embedded.
दी गई उत्तर आकृति से, उसका चयन करें जिसमें प्रश्न आकृति छिपी/सन्निहित है।

(a)
(b)
(c) 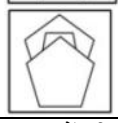
(d)

Ans. (b) : प्रश्न में दी गई आकृति उत्तर विकल्प आकृति (b) में सन्निहित है।

169. From the given answer figures, select the one in which question figure is hidden/embedded.
दी गई उत्तर आकृति से, उसका चयन करें जिसमें प्रश्न आकृति छिपी/सन्निहित है।

(a) 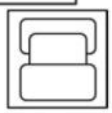
(b) 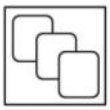
(c)
(d) 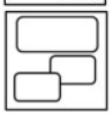

MP Police Constable Exam- 26 August-2023 Shift-2

Ans. (b) : प्रश्न में दी गई आकृति उत्तर विकल्प आकृति (b) में सन्निहित है।

170. DIRECTIONS: In the given question find the answer figure in which question is embedded.
निर्देश : दिए गए प्रश्न में वह उत्तर आकृति ज्ञात कीजिये जिसमें प्रश्न आकृति निहित है।

Problem Figure/मुख्य आकृति :

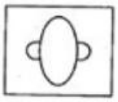

Answer Figures/उत्तर आकृति :

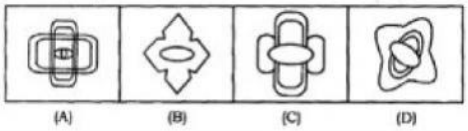

(a) (A) (b) (B)
(c) (C) (d) (D)

MP Police Constable Exam- 12 Sep-2023 Shift-1

Ans. (d) : विकल्प (d) में दी गई आकृति में प्रश्न आकृति पूर्ण रूप से निहित है।

171. DIRECTIONS: In the given question find the answer figure in which question is embedded.
निर्देशः दिए गए प्रश्न में वह उत्तर आकृति ज्ञात करें जिसमें प्रश्न आकृति निहित है।

Question Figure:
प्रश्न आकृति

Answer Figures:
उत्तर आकृतियां

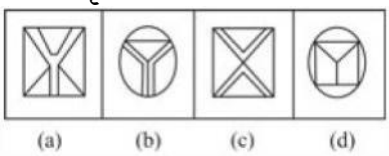

(a) figure (a)/आकृति (a)
(b) figure (b)/आकृति (b)
(c) figure (c)/आकृति (c)
(d) figure (d)/आकृति (d)

MP Police Constable Exam- 10 Sep-2023 Shift-2

Ans. (a) : विकल्प (a) में दी गई आकृति प्रश्न आकृति में पूरी तरह से निहित है।

172. DIRECTIONS: In the given question find the answer figure in which question is embedded.
निर्देशः निम्न प्रश्न में वह उत्तर आकृति ज्ञात करें जिसमें प्रश्न आकृति निहित है।

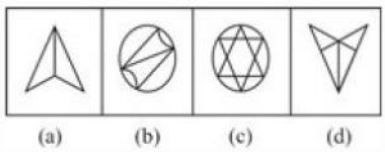

GET IT ON Google Play Best Study PDF के लिए हमारी App को Download करें "GK Trick By Nitin Gupta"

(a) figure (a)/आकृति (a) (b) figure (b)/आकृति (b)
(c) figure (c)/आकृति (c) (d) figure (d)/आकृति (d)

MP Police Constable Exam- 10 Sep-2023 Shift-2

Ans. (c) : विकल्प (c) में दी गई आकृति प्रश्न आकृति में पूरी तरह से निहित है।

173. In the given question, trace out the alternative figure which contains figure (X)'s part.
दिए गए प्रश्न में, वह विकल्प आकृति ज्ञात कीजिए जिसमें आकृति (X) का भाग है।

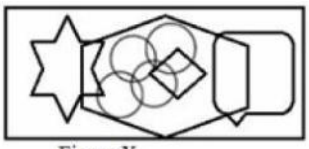
Figure:X

(a)
(b) 
(c) 
(d) 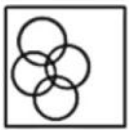

MP Police Constable Exam- 10 Sep-2023 Shift-2

Ans. (c) : दिए गए प्रश्न आकृति के अनुसार विकल्प (c) में दी गई आकृति, आकृति (X) का भाग है।

174. From the given answer figures, select the one in which the question figure is hidden/embedded.
दिए गए उत्तर आकृति में से, उस विकल्प का चुनाव करें जिसमें प्रश्न आकृति छिपा है।

(a)
(b)
(c)
(d)

MP Police Constable Exam- 10 Sep-2023 Shift-2

Ans. (d) : प्रश्न में दी गई आकृति, उत्तर आकृति (d) में छिपी हुई है।

175. From the given answer figures, select the one in which question figure is hidden/embedded.
दी गई उत्तर आकृति से, उसका चयन करें जिसमें प्रश्न आकृति छिपी/सन्निहित है।

(a)
(b)
(c) 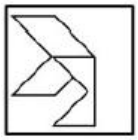
(d)

MP Police Constable Exam- 29 August-2023 Shift-1

Ans. (b) : दी गई प्रश्न आकृति उत्तर आकृति विकल्प (b) में छिपी हुई है।

176. From the given answer figures, select the one in which question figure is hidden/embedded.
दी गई उत्तर आकृति से, उसका चयन करें जिसमें प्रश्न आकृति छिपी/सन्निहित है।

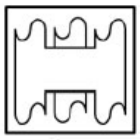

(a)
(b)
(c)
(d)

MP Police Constable Exam- 29 August-2023 Shift-1

Ans. (a) : दी गई प्रश्न आकृति उत्तर आकृति विकल्प (a) में छिपी/सन्निहित है।

177. Directions : In the given question find the answer figure in which question is embedded.
निर्देश : निम्न प्रश्न में वह उत्तर आकृति ज्ञात करें जिसमें प्रश्न आकृति निहित है।

Questions Figure/प्रश्न आकृति

Answer Figure/उत्तर आकृति

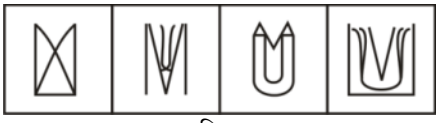

(a) figure (a)/आकृति (a)
(b) figure (b)/आकृति (b)
(c) figure (c)/आकृति (c)
(d) figure (d)/आकृति (d)

MP Police Constable Exam- 11 Sep-2023 Shift-3

Ans. (d) : उत्तर आकृतियों के अवलोकन से स्पष्ट है कि प्रश्न आकृति विकल्प (d) की आकृति में निहित है। अतः विकल्प (d) सही उत्तर है।

GET IT ON Google Play Best Study PDF के लिए हमारी App को Download करें "GK Trick By Nitin Gupta"

178. **DIRECTIONS: In the following question, choose the answer figure which is embedded in the question figure.**
निर्देशः निम्नलिखित प्रश्न में से उस उत्तर आकृति का चयन करें जो कि प्रश्न आकृति में निहित है।

Question Figure/प्रश्न आकृति

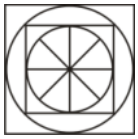

Answer Figure/उत्तर आकृति

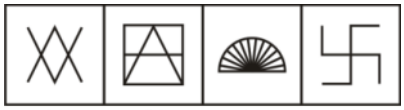

(a) (b) (c) (d)

(a) (a) (b) (b)
(c) (c) (d) (d)

MP Police Constable Exam- 11 Sep-2023 Shift-3

Ans. (d) : प्रश्न आकृति में विकल्प (d) की उत्तर आकृति निहित है। अतः विकल्प (d) सही उत्तर है।

179. **From the given answer figures, select the one in which the question figure is hidden/embedded.**
दिए गए उत्तर आकृति में से, उस विकल्प का चुनाव करें जिसमें प्रश्न आकृति छिपा है।

(a)

(b) 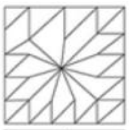

(c)

(d)

MP Police Constable Exam- 11 Sep-2023 Shift-3

Ans. (b) : विकल्पों के अवलोकन से स्पष्ट है कि प्रश्न आकृति विकल्पों 'b' की आकृति में निहित है।

180. **DIRECTIONS: In the given question find the answer figure in which question is embedded.**
निर्देश : दिए गए प्रश्न में वह उत्तर आकृति ज्ञात कीजिए जिसमें प्रश्न आकृति निहित हो।

Question Figure:/प्रश्न आकृति

Answer Figures:/उत्तर आकृति

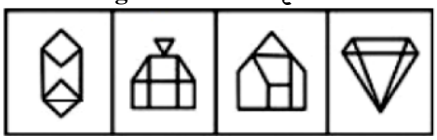

(A) (B) (C) (D)

(a) Figure (A)/ आकृति (A)
(b) Figure (B)/ आकृति (B)
(c) Figure (C)/ आकृति (C)
(d) Figure (D)/ आकृति (D)

MP Police Constable Exam- 1 Sep-2023 Shift-1

Ans. (a) : दी गई प्रश्न आकृति, विकल्प आकृति (a) में अन्तनिहित है।
∴ विकल्प (a) सही है।

181. **DIRECTIONS: In the given question find the answer figure in which question is embedded.**
Question Figure:/प्रश्न आकृति



Answer Figures:/उत्तर आकृतियां

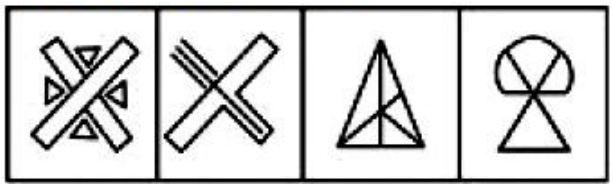

(A) (B) (C) (D)

(a) Figure (A)/ आकृति (A)
(b) Figure (B)/ आकृति (B)
(c) Figure (C)/ आकृति (C)
(d) Figure (D)/ आकृति (D)

MP Police Constable Exam- 1 Sep-2023 Shift-1

Ans. (d) : दी गई प्रश्न आकृति, विकल्प आकृति (d) में अन्तनिहित है।
∴ विकल्प (d) सही है।

182. **From the given answer figures, select the one in which question figure is hidden/embedded.**
दी गई आकृति से, उसका चयन करें जिसमें प्रश्न आकृति छिपी/सन्निहित है।

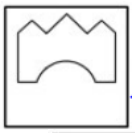

(a) 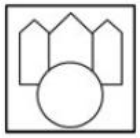

(b)

(c)

(d)

MP Police Constable Exam- 27 August-2023 Shift-2

Ans. (a) : दी गई प्रश्न आकृति विकल्प आकृति (a) में सन्निहित है। अतः विकल्प (a) सही है।

GET IT ON Google Play Best Study PDF के लिए हमारी App को Download करें "GK Trick By Nitin Gupta"

भाग-18.

रेखाओं एवं आकृतियों की गणना
(Lines and Figures counting)

Type-1: त्रिभुजों की गणना पर आधारित प्रश्न

1. How many triangles are in the given figure ?
दी गई आकृति में कितने त्रिभुज हैं ?

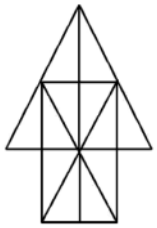

(a) 22 (b) 24
(c) 20 (d) 26

MP Police Constable Exam- 31 August-2023 Shift-3

Ans. (d) : प्रश्नानुसार, त्रिभुजों की संख्या निम्नवत् है–

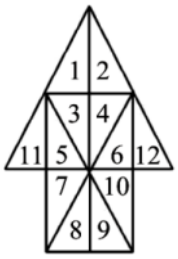

एक अंक से बने त्रिभुज की संख्या = 1, 2, 3, 4, 5, 6, 7, 8, 9, 10, 11, 12 ⇒ 12
दो अंकों से मिलकर बने त्रिभुजों की संख्या = (1,2), (1,3), (2,4), (3,4), (6,12), (6,10), (9,8), (5,7), (5,11) ⇒ 9
चार अंकों से मिलकर बने त्रिभुजों की संख्या = (6,10,9,8), (7,5,4,3), (2,4,6,12), (1,3,5,11) ⇒ 4
आठ अंकों से मिलकर बने त्रिभुजों की संख्या = (1, 2, 3, 4, 5, 6, 11, 12) ⇒ 1
अतः आकृति में कुल त्रिभुजों की संख्या = 12 + 9 + 4 + 1
⇒ 26

2. Find the number of triangle in the given figure.
दी गई आकृति में त्रिभुज की संख्या ज्ञात कीजिए।

(a) 9 (b) 11
(c) 10 (d) 12

MP Police Constable Exam- 31 August-2023 Shift-3

Ans. (c) : प्रश्नानुसार, त्रिभुजों की संख्या निम्नवत् है–

अतः आकृति में कुल त्रिभुजों की संख्या '10' है।

3. Find the number of triangle in the given figure.
दी गई आकृति में त्रिभुज की संख्या ज्ञात कीजिए।

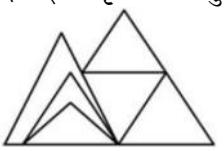

(a) 6 (b) 7
(c) 5 (d) 8

MP Police Constable Exam- 31 August-2023 Shift-3

Ans. (a) : प्रश्नानुसार, त्रिभुजों की संख्या निम्नवत् है–

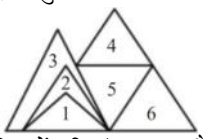

अतः आकृति में कुल त्रिभुजों की संख्या '6' है।

4. How many triangles are there in the following figures ?
निम्नलिखित आकृतियों में कितने त्रिभुज हैं ?

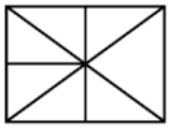

(a) 12 (b) 14
(c) 13 (d) 15

MP Police Constable Exam- 24 August-2023 Shift-2

Ans. (a) : आकृति में त्रिभुजों की संख्या–

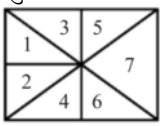

एक अंक से बने त्रिभुज = 1, 2, 3, 4, 5, 6, 7 ⇒ 7
दो अंक से बे त्रिभुज = (1,2), (3,5), (4,6) ⇒ 3
तीन अंक से बने त्रिभुज = (4,6,7) ⇒ 1
चार अंक से बने त्रिभुज = (2, 1, 3, 5) ⇒ 1
अतः आकृति में कुल त्रिभुजों की संख्या = 7 + 3 + 1 + 1
⇒ 12

GET IT ON Google Play Best Study PDF के लिए हमारी App को Download करें "GK Trick By Nitin Gupta"

5. Find the number of triangles in the given figure.
इस आकृति में त्रिभुज की संख्या ज्ञात कीजिए।

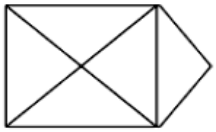

(a) 8 (b) 9
(c) 7 (d) 10

MP Police Constable Exam- 24 August-2023 Shift-2

Ans. (b) : आकृति में त्रिभुजों की संख्या निम्नवत् है–

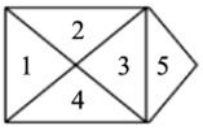

एक अंक से बने त्रिभुज की संख्या = 1, 2, 3, 4, 5 = 5
दो अंकों से मिलकर बने त्रिभुज की संख्या = (1,2), (2,3), (3,4), (4,1) = 4
आकृति में कुल त्रिभुजों की संख्या = 5 + 4 = 9
अतः आयोग ने इस प्रश्न का उत्तर विकल्प (c) माना है।

6. Find the number of triangles in the given figure.
इस आकृति में त्रिभुज की संख्या ज्ञात कीजिए।

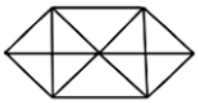

(a) 18 (b) 17
(c) 15 (d) 14

MP Police Constable Exam- 24 August-2023 Shift-2

Ans. (a) : आकृति में त्रिभुजों की संख्या निम्नवत् है–

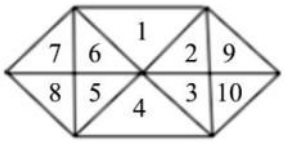

एक अंक से बने त्रिभुज की संख्या = 1, 2, 3, 4, 5, 6, 7, 8, 9, 10 = 10
दो अंकों से मिलकर बने त्रिभुज की संख्या = (2,3), (6,5), (7,8), (9,10), (2,9), (3,10), (7,6), (8,5) = 8
तीन अंकों से बने त्रिभुजों की संख्या = (1,2,3) (2,3,4) (4,5,6) (5,6,1) = 4
आकृति में कुल त्रिभुजों की संख्या = 10 + 8+4
= 22
अतः आयोग ने इस प्रश्न का उत्तर विकल्प (d) माना है।

7. Find the number of triangle in the given figure.
दी गई आकृति में त्रिभुज की संख्या ज्ञात कीजिए।

(a) 10 (b) 14
(c) 13 (d) 12

MP Police Constable Exam- 29 August-2023 Shift-2

Ans. (d) :

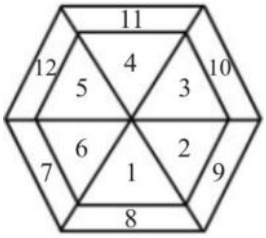

एक अंक से बने त्रिभुज की संख्या = 6
दो अंक से बने त्रिभुज की संख्या
(1,8), (2,9), (3,10), (4,11), (5,12), (6,7) = 6
कुल त्रिभुज की संख्या = 6 + 6
= 12

8. Find the number of triangles in the given figure.
इस आकृति में त्रिभुज की संख्या ज्ञात कीजिए।

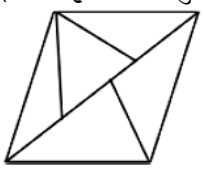

(a) 8 (b) 3
(c) 5 (d) 7

MP Police Constable Exam- 24 August-2023 Shift-3

Ans. (d) : प्रश्नानुसार, त्रिभुजों की संख्या निम्नवत् है–

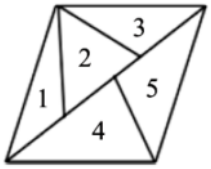

एक अंक से बने त्रिभुजों की संख्या = 1,2,3,4,5 ⇒ 5
दो अंकों से मिलकर बने त्रिभुजों की संख्या = (4,5) ⇒ 1
तीन अंकों से मिलकर बने त्रिभुजों की संख्या = (1,2,3) ⇒ 1
अतः आकृति में कुल त्रिभुज की संख्या = 5 + 1 + 1 ⇒ 7

9. How many triangles are there in the following figures ?
निम्नलिखित आकृतियों में कितने त्रिभुज हैं ?

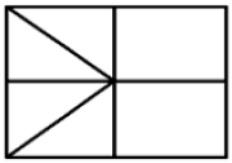

(a) 8 (b) 6
(c) 7 (d) 5

MP Police Constable Exam- 24 August-2023 Shift-3

Ans. (d) : प्रश्नानुसार, त्रिभुजों की संख्या निम्नवत् है–

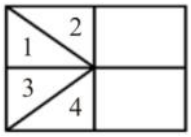

एक अंक से बने त्रिभुजों की संख्या = 1, 2, 3, 4 = 4
दो अंकों से मिलकर बने त्रिभुजों की संख्या = (1,3) = 1
अतः आकृति में कुल त्रिभुजों की संख्या = 4 +1 = 5

GET IT ON Google Play Best Study PDF के लिए हमारी App को Download करें "GK Trick By Nitin Gupta"

10. Find the number of triangles in the given figure.
इस आकृति में त्रिभुज की संख्या ज्ञात कीजिए।

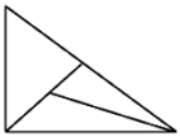

(a) 6 (b) 3
(c) 5 (d) 4

MP Police Constable Exam- 24 August-2023 Shift-3

Ans. (c) : प्रश्नानुसार, त्रिभुजों की संख्या निम्नवत् है–

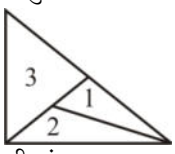

एक अंक से बने त्रिभुज की संख्या = 1, 2, 3 = 3
दो अंकों से मिलकर बने त्रिभुजों की संख्या = (1,2) = 1
तीन अंकों से मिलकर बने त्रिभुजों की संख्या = (1,2,3) = 1
अतः आकृति में कुल त्रिभुज की संख्या = 3 + 1 + 1 = 5

11. Find the number of triangle in the given figure.
दी गई आकृति में त्रिभुज की संख्या ज्ञात कीजिए।

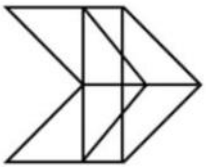

(a) 12 (b) 13
(c) 14 (d) 11

MP Police Constable Exam- 27 August-2023 Shift-1

Ans. (b) :

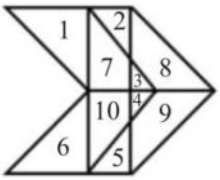

एक अंक से बने त्रिभुजों की संख्या = 1, 2, 3, 4, 5, 6 = 6
दो अंकों से बने त्रिभुजों की संख्या = (3,4), (3,7), (4,10), (3,8), (4,9) = 5
चार अंकों से बने त्रिभुजों की संख्या = (3,4,7,10), (3,4,8,9) = 2
अतः कुल त्रिभुजों की संख्या = 6 + 5 + 2
= 13

12. How many triangles are in the given figure ?
दी गई आकृति में कितने त्रिभुज हैं ?

(a) 13 (b) 15
(c) 11 (d) 8

MP Police Constable Exam- 27 August-2023 Shift-1

Ans. (d) :

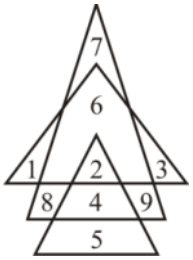

एक अंक से बने त्रिभुजों की संख्या = 1, 2, 3 = 3
दो अंक से बने त्रिभुजों की संख्या = (2,4) = 1
तीन अंक से बने त्रिभुजों की संख्या = (2,4,5), (2,6,7) = 2
चार अंक से बने त्रिभुजों की संख्या = (1,2,3,6) = 1
छः अंक से बने त्रिभुजों की संख्या = (2,4,6,7,8,9) = 1
अतः कुल त्रिभुजों की संख्या = 3 + 1 + 2 + 1 + 1
= 8

13. Find the number of triangle in the given figure.
दी गई आकृति में त्रिभुज की संख्या ज्ञात कीजिए।

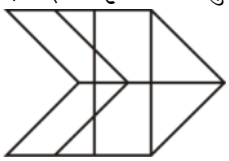

(a) 7 (b) 8
(c) 9 (d) 6

MP Police Constable Exam- 25 August-2023 Shift-3

Ans. (b) : दी गयी आकृति में त्रिभुजों की संख्या–

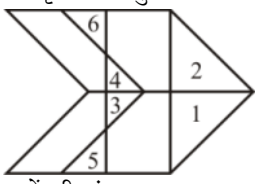

एक अंक से बने त्रिभुजों की संख्या = 1,2,3,4,5,6 = 6
दो अंकों से बने त्रिभुजों की संख्या = (1,2), (3,4) = 2
अतः कुल त्रिभुजों की संख्या = 6 + 2 = 8

14. How many triangles are in the given figure ?
दी गई आकृति में कितने त्रिभुज हैं ?

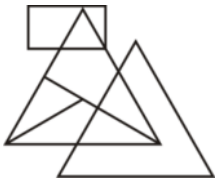

(a) 11 (b) 15
(c) 10 (d) 8

MP Police Constable Exam- 25 August-2023 Shift-3

Ans. (a) :

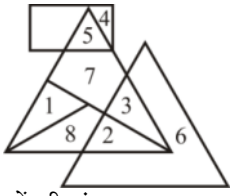

एक अंक से बने त्रिभुजों की संख्या = 1,2,3,4,5 = 5

GET IT ON Google Play Best Study PDF के लिए हमारी App को Download करें "GK Trick By Nitin Gupta"

दो अंकों से बने त्रिभुजों की संख्या = (2,8), (2,3) = 2
तीन अंकों से बने त्रिभुजों की संख्या = (1,8,2), (2,3,6), (3,5,7) = 3
छः अंकों से बने त्रिभुजों की संख्या = (1,8,2,3,7,5) = 1
कुल त्रिभुज की संख्या = 5 + 2 + 3 + 1
= 11

15. Find the number of triangles in the figure.
इस आकृति में त्रिभुज की संख्या ज्ञात कीजिए।

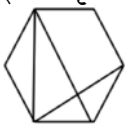

(a) 6 (b) 7
(c) 8 (d) 9

MP Police Constable Exam- 25 August-2023 Shift-3

Ans. (a) :

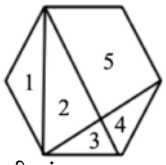

एक अंक से बने त्रिभुजों की संख्या = 1,2,3,4 = 4
दो अंकों से बने त्रिभुजों की संख्या = (2,3), (3,4) = 2
कुल त्रिभुज = 4 + 2 = 6

16. How many triangles are there in given figure ?
दिए गए चित्र में कितने त्रिभुज हैं ?

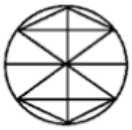

(a) 18 (b) 16
(c) 20 (d) 13

MP Police Constable Exam- 5 Sep -2023 Shift-1

Ans. (b) :

चतुर्भुज ABCD में,
एक अंक से बनने वाले त्रिभुज = 1, 2, 3, 4 = 4
दो अंकों से बनने वाले त्रिभुज = (1,2), (4,3), (2,3), (1,4) = 4
इसी प्रकार चतुर्भुज DEFG से बनने वाले त्रिभुजों की संख्या = 8
अतः दी गई आकृति में बनने वाले कुल त्रिभुजों की संख्या = 8 + 8
= 16

17. How many triangles are in the given figures?
दी गई आकृतियों में कितने त्रिभुज हैं ?

(a) 10 (b) 11
(c) 8 (d) 9

MP Police Constable Exam- 23 August-2023 Shift-2

Ans. (d) : दी गई आकृतियों में त्रिभुज की संख्या–

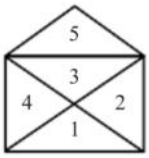

1-1 अंकों से बने त्रिभुजों की संख्या = 5
2-2 अंकों से बने त्रिभुजों की संख्या = (1,2), (2,3), (3,4), (4,1)
= 4
कुल त्रिभुजों की संख्या = 5 + 4
= 9
अतः विकल्प (d) सही है।

18. How many triangles are in the following figures?/दी गई आकृतियों में कितने त्रिभुज हैं ?

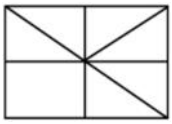

(a) 15 (b) 12
(c) 10 (d) 13

MP Police Constable Exam- 23 August-2023 Shift-2

Ans. (c) : दी गई आकृतियों में–

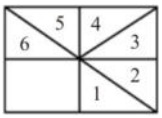

1-1 अंकों से बनी त्रिभुजों की संख्या = 6
2-2 अंकों से बनी त्रिभुजों की संख्या = (2,3), (5,4), (6,1)
= 3
4-4 अंकों से बनी त्रिभुजों की संख्या = (2,3,4,5)
= 1
कुल त्रिभुजों की संख्या = 6 + 3 + 1
= 10
अतः विकल्प (c) सही है।

19. Find the number of triangles in the given figure./इस आकृति में त्रिभुज की संख्या ज्ञात कीजिए।

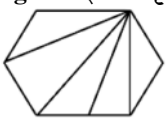

(a) 5 (b) 6
(c) 8 (d) 7

MP Police Constable Exam- 23 August-2023 Shift-2

Ans. (b) : दी गई आकृति में त्रिभुजों की संख्या निम्नवत् है

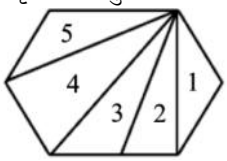

'एक' अंक से बनने वाले त्रिभुजों की संख्या = 5
'दो' अंकों से मिलकर बनने वाले त्रिभुजों की संख्या = (2,3) = 1
कुल त्रिभुजों की संख्या = 5 + 1 = 6
अतः दी गई आकृति में त्रिभुजों की संख्या 6 है।

20. Find the number of triangles in the given figure.
इस आकृति में त्रिभुज की संख्या ज्ञात कीजिए।

GET IT ON Google Play Best Study PDF के लिए हमारी App को Download करें "GK Trick By Nitin Gupta"

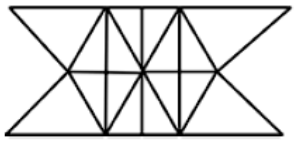

(a) 22 (b) 21
(c) 20 (d) 23

MP Police Constable Exam- 23 August-2023 Shift-2

Ans. (*) : दी गई आकृति में त्रिभुजों की संख्या निम्नवत है।

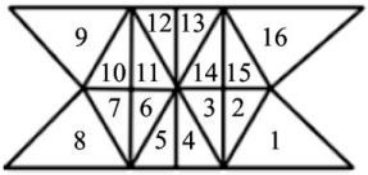

'एक' अंक से बनने वाले त्रिभुजों की संख्या = 16
'दो' अंकों से मिलकर बनने वाले त्रिभुजों की संख्या = (6,7) (7,10) (10,11) (11,6) (4,5) (12,13) (3,14) (14,15) (15,2) (2,3) = 10
'चार' अंकों से मिलकर बनने वाले त्रिभुजों की संख्या = (4,5,6,11) (5,4,3,14) (12,13,14,3) (13,12,11,6) = 4
त्रिभुजों की कुल संख्या = 16 + 10 + 4
= 30
अतः दी गई आकृति में त्रिभुजों की संख्या 30 है।

21. Find the number of triangles in the given figure.
इस आकृति में त्रिभुज की संख्या ज्ञात कीजिए।

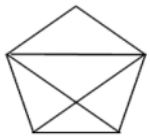

(a) 8 (b) 9
(c) 7 (d) 5

MP Police Constable Exam- 19 August-2023 Shift-2

Ans. (b) : प्रश्नानुसार-

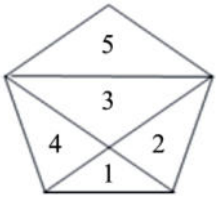

एक अंकों से बने त्रिभुजों की संख्या = 5
दो अंकों से बने त्रिभुजों की संख्या = (1, 2), (2, 3), (3, 4), (4, 1) = 4
कुल त्रिभुजों की संख्या = 5 + 4 = 9

22. How many triangles are in the given figure ?
दी गई आकृति में कितने त्रिभुज हैं ?

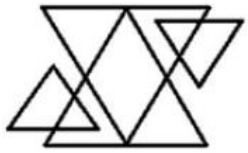

(a) 10 (b) 14
(c) 8 (d) 18

MP Police Constable Exam- 26 August-2023 Shift-3

Ans. (a) : प्रश्नानुसार,

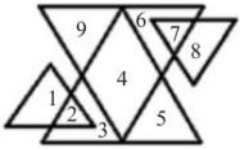

1 अंक लेकर बने Δ = 2, 3, 5, 6, 7, 9 = 6
2 अंक लेकर बने Δ = (1,2), (7,8) = 2
3 अंक लेकर बने Δ = (3,4,5), (4,6,9) = 2
अतः त्रिभुजों की संख्या = 6 + 2 + 2
= 10

23. How many triangles are in the given figure ?
दी गई आकृति में कितने त्रिभुज हैं ?

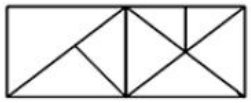

(a) 10 (b) 20
(c) 17 (d) 15

MP Police Constable Exam- 26 August-2023 Shift-3

Ans. (d) : प्रश्नानुसार,

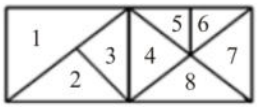

एक अंक से बने त्रिभुजों की संख्या–
1, 2, 3, 4, 5, 6, 7, 8 = 8
दो अंकों से मिलकर बने त्रिभुजों की संख्या–
(2,3), (5,6), (7,8), (4,8) = 4
तीन अंकों से मिलकर बने त्रिभुजों की संख्या–
(4,5,6), (5,6,7) = 2
चार अंकों से मिलकर बने त्रिभुजों की संख्या–
(2,3,4,8) = 1
अतः कुल त्रिभुजों की संख्या = 8 + 4 + 2 + 1
= 15

24. Find the number of triangle in the given figure.
दी गई आकृति में त्रिभुज की संख्या ज्ञात कीजिए।

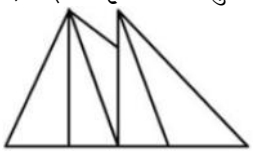

(a) 8 (b) 7
(c) 6 (d) 9

MP Police Constable Exam- 26 August-2023 Shift-3

Ans. (b) : प्रश्नानुसार,

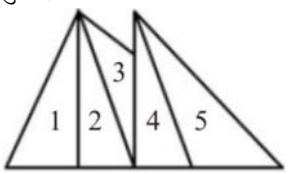

1 अंक लेकर बना Δ–
1, 2, 3, 4, 5 = 5
2 अंक लेकर बना Δ–
(1,2), (4,5) = 2
कुल त्रिभुज की संख्या = 5 + 2 = 7

GET IT ON Google Play Best Study PDF के लिए हमारी App को Download करें "GK Trick By Nitin Gupta"

25. Find the number of triangle in the given figure.
दी गई आकृति में त्रिभुज की संख्या ज्ञात कीजिए।

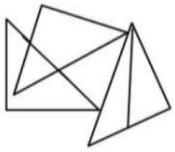

(a) 8 (b) 6
(c) 7 (d) 9

MP Police Constable Exam- 12 Sep-2023 Shift-2

Ans. (c) : दी गयी आकृति निम्नवत् है-

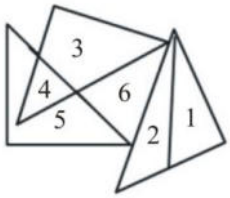

एक अंक से बने त्रिभुजों की संख्या = 1, 2, 4, 5, 6 = 5
दो अंकों वाले त्रिभुजों की सं. = (1, 2), (3, 4) = 2
अतः आकृति में त्रिभुजों की कुल सं. = 5 + 2 = 7

26. Find the number of triangles in the given figure.
इस आकृति में त्रिभुजों की संख्या ज्ञात कीजिए।

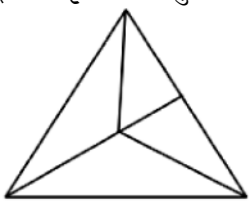

(a) 5 (b) 6
(c) 4 (d) 8

MP Police Constable Exam- 25 August-2023 Shift-1

Ans. (d) : आकृति में त्रिभुजों की संख्या निम्नवत् है–

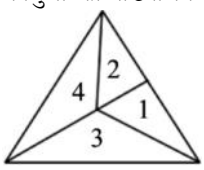

एक अंक से बनने वाले त्रिभुजों की संख्या = 4
दो अंकों से मिलकर बने त्रिभुजों की संख्या = (1,2), (2,4), (1,3) = 3
चार अंकों से मिलकर बने त्रिभुजों की संख्या = (1,2,3,4) = 1
अतः आकृति में कुल त्रिभुजों की संख्या = 4 + 3 + 1 = 8

27. Find the Number of triangles in the figure.
इस आकृति में त्रिभुजों की संख्या ज्ञात कीजिए।

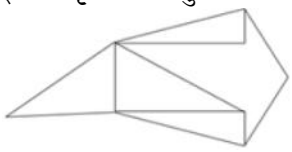

(a) 5 (b) 7
(c) 6 (d) 9

MP Police Constable Exam- 25 August-2023 Shift-1

Ans. (a) : आकृति में त्रिभुजों की संख्या निम्नवत् है–

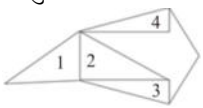

एक अंक से बने त्रिभुजों की संख्या = 4
दो अंकों से मिलकर बने त्रिभुजों की संख्या = (1,2) = 1
अतः आकृति में कुल त्रिभुजों की संख्या = 4 + 1 = 5

28. How many triangles are in the given figures ?
दी गई आकृतियों में कितने त्रिभुज हैं ?

(a) 12 (b) 13
(c) 15 (d) 14

MP Police Constable Exam- 23 August-2023 Shift-3

Ans. (c) : प्रश्नानुसार, आकृति में त्रिभुजों की संख्या निम्नवत् है–

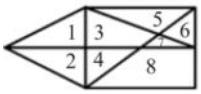

एक अंक से बने त्रिभुजों की संख्या = 1, 2, 4, 5, 6, 7 = 6
दो-दो अंकों से मिलकर बने त्रिभुजों की संख्या = (1,2), (5,6), (6,7), (2,4), (3,7), (3,4) = 6
तीन-तीन अंकों से मिलकर बने त्रिभुजों की संख्या = (1,3,7), (3,4,5), (6,7,8) = 3
अतः कुल त्रिभुजों की संख्या = 6 + 6 + 3 = 15

29. Find the number of triangles in the given figure.
इस आकृति में त्रिभुज की संख्या ज्ञात कीजिए।

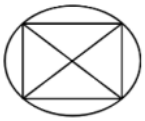

(a) 7 (b) 8
(c) 6 (d) 9

MP Police Constable Exam- 23 August-2023 Shift-3

Ans. (b) : प्रश्नानुसार, त्रिभुजों की संख्या निम्नवत् है–

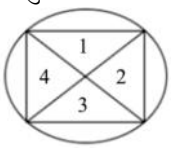

एक अंक से बने त्रिभुजों की संख्या = 1, 2, 3, 4 = 4
दो अंकों से मिलकर बने त्रिभुजों की संख्या = (1,4), (2,3), (1, 2), (3, 4) = 4
अतः आकृति में कुल त्रिभुज की संख्या = 4 + 4 = 8
नोट–आयोग ने इसका सही उत्तर विकल्प (c) माना है।

30. Find the number of triangles in the given figure./इस आकृति में त्रिभुज की संख्या ज्ञात कीजिए।

(a) 8 (b) 7
(c) 5 (d) 9

MP Police Constable Exam- 23 August-2023 Shift-3

GET IT ON Google Play Best Study PDF के लिए हमारी App को Download करें "GK Trick By Nitin Gupta"

Ans. (*) : प्रश्नानुसार, त्रिभुजों की संख्या निम्नवत् है–

त्रिभुज की कुल संख्या = 1, 2, 3, 4 = 4

31. How many triangles are present in the figure?
आकृति में कितने त्रिकोण मौजूद हैं?

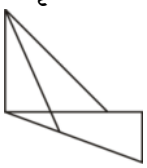

(a) 3 (b) 6
(c) 9 (d) 4

MP Police Constable Exam- 9 Sep-2023 Shift-2

Ans. (b) :

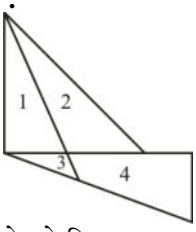

एक अंक से बने त्रिभुज = (1, 2, 3) = 3
दो अंकों से बने त्रिभुज = (1, 2)(1, 3)(3, 4) = 3
कुल त्रिभुज = 3 + 3 = 6

32. Find the number of squares and triangles in the given figure./दी गई आकृति में वर्गों और त्रिभुजों की संख्या ज्ञात कीजिए।

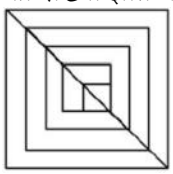

(a) 5 and 10/5 और 10 (b) 4 and 8/4 और 8
(c) 6 and 12/6 और 12 (d) 7 and 8/7 और 8

MP Police Constable Exam- 28 August-2023 Shift-3

Ans. (a) : प्रश्नानुसार, वर्गों/त्रिभुजों की संख्या निम्नवत् है–

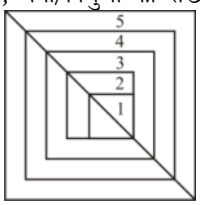

वर्गों की संख्या =1, 2, 3, 4, 5
= 5

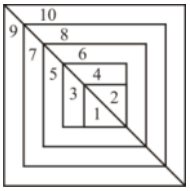

त्रिभुजों की संख्या = 1, 2, 3, 4, 5, 6, 7, 8, 9, 10
= 10
अतः वर्गों और त्रिभुजों की संख्या = 5 और 10 (क्रमशः)

33. Find the number of triangles in the given figure./इस आकृति में त्रिभुज की संख्या ज्ञात कीजिए।

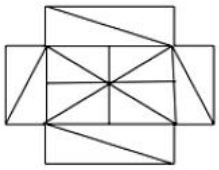

(a) 22 (b) 21
(c) 20 (d) 23

MP Police Constable Exam- 23 August-2023 Shift-1

Ans. (*) : आकृति में त्रिभुजों की संख्या निम्नवत् है–

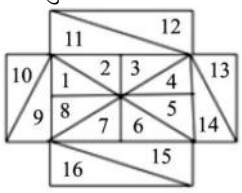

एक अंक से बने त्रिभुजों की संख्या = 1, 2, 3, 4, 5, 6, 7, 8, 9, 10, 11, 12, 13, 14, 15, 16
= 16
दो अंकों से बने त्रिभुजों की संख्या = (7, 6), (1, 8), (2, 3), (4,5)
= 4
चार अंकों से बने त्रिभुजों की संख्या = (1, 8, 7, 6), (7, 6, 5, 4) (2, 3, 4, 5), (8, 1, 2, 3) = 4
पांच अंकों से बने त्रिभुजों की संख्या = (7, 6, 5, 4, 14), (9, 1, 8, 7, 6), (4, 5, 7, 6, 15), (1, 2, 3, 8, 11) = 4
अतः आकृति में त्रिभुजों की कुल संख्या = 16 + 4 + 4 + 4
= 28
नोट–आयोग ने इस प्रश्न का उत्तर विकल्प (b) माना है।

34. Find the number of triangles in the given figure./इस आकृति में त्रिभुज की संख्या ज्ञात कीजिए।

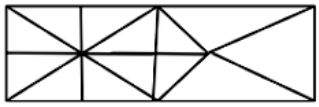

(a) 16 (b) 17
(c) 15 (d) 19

MP Police Constable Exam- 23 August-2023 Shift-1

Ans. (d) : आकृति में त्रिभुजों की संख्या निम्नवत् है–

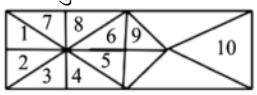

एक अंक से बने त्रिभुजों की संख्या = 1, 2,3,4,5,6,7,8, 9, 10
= 10
दो अंकों से बने त्रिभुजों की संख्या = (3, 4), (1, 2), (8, 7), (6,5) (6, 9)
= 5
चार अंकों से बने त्रिभुजों की संख्या = (1, 2, 3, 4), (3, 4, 5, 6) (8, 7, 6, 5), (1, 2, 8, 7)
= 4
अतः आकृति में त्रिभुजों की कुल संख्या = 10 + 5 + 4
= 19
नोट–आयोग ने इस प्रश्न का उत्तर विकल्प (b) माना है।

35. Find the number of triangles in the given figure.
इस आकृति में त्रिभुज की संख्या ज्ञात कीजिए।

GET IT ON Google Play Best Study PDF के लिए हमारी App को Download करें "GK Trick By Nitin Gupta"

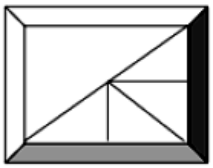

(a) 5 (b) 6
(c) 7 (d) 9

MP Police Constable Exam- 25 August-2023 Shift-2

Ans. (*) : प्रश्नानुसार, त्रिभुजों की संख्या निम्नवत् है–

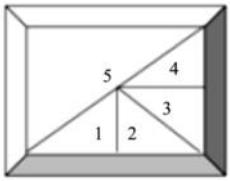

एक अंकों से बने त्रिभुजों की संख्या = 5
दो अंकों से बने त्रिभुजों की संख्या = (1, 2), (3, 4) = 2
चार अंकों से बने त्रिभुजों की संख्या = (1, 2, 3, 4) = 1
अतः कुल त्रिभुजों की संख्या = 5 + 2 + 1 = 8

36. Find the number of triangles in the given figure./इस आकृति में त्रिभुज की संख्या ज्ञात कीजिए।

(a) 3 (b) 6
(c) 2 (d) 4

MP Police Constable Exam- 25 August-2023 Shift-2

Ans. (c) : प्रश्नानुसार, त्रिभुजों की संख्या निम्नवत् है–

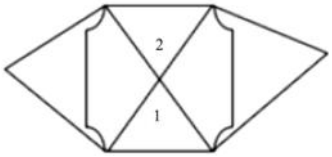

अतः कुल त्रिभुजों की संख्या = 1, 2
= 2

37. Find the number of triangles in the given figure.
इस आकृति में त्रिभुज की संख्या ज्ञात कीजिए।

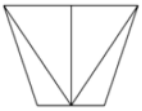

(a) 5 (b) 7
(c) 4 (d) 6

MP Police Constable Exam- 23 August-2023 Shift-1

Ans. (a) : आकृति में त्रिभुजों की संख्या–

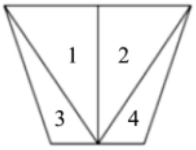

एक अंक से बने त्रिभुज = 1, 2, 3, 4 ⇒ 4
दो अंकों से बने त्रिभुज = (1,2) ⇒ 1
अतः आकृति में कुल त्रिभुजों की संख्या = 4 + 1 = 5

38. Find the number of triangles in the given figure./इस आकृति में त्रिभुज की संख्या ज्ञात कीजिए।

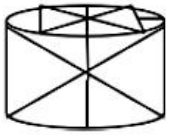

(a) 12 (b) 11
(c) 10 (d) 13

MP Police Constable Exam- 23 August-2023 Shift-1

Ans. (d) : प्रश्नानुसार, दी गई आकृति में कुल त्रिभुजों की संख्या 13 होगी।

39. How many triangles are in the given figure ?
दी गई आकृति में कितने त्रिभुज हैं ?

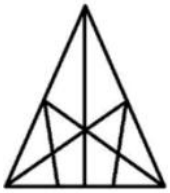

(a) 28 (b) 32
(c) 24 (d) 19

MP Police Constable Exam- 25 August-2023 Shift-2

Ans. (*) : आकृति में त्रिभुजों की संख्या निम्नवत् है–

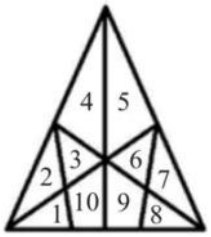

एक अंक से बने त्रिभुजों की संख्या = 1, 2, 3, 4, 5, 6, 7, 8 = 8
दो अंकों से मिलकर बने त्रिभुजों की संख्या = (1, 2), (2,3), (6,7), (7,8), (1, 10), (8, 9) = 6
तीन अंकों से मिलकर बने त्रिभुजों की संख्या = (2,3,4) (5,6,7)
= 2
चार अंकों से मिलकर बने त्रिभुजों की संख्या = (2,3,4,5) (4,5,6,7) (1,10,9,8) (1,10,9,6), (3,10,9,8) = 5
पाँच अंकों से मिलकर बने त्रिभुजों की संख्या = (4,3,2,1,10), (5,6,7,8,9) = 2
छह अंकों से मिलकर बने त्रिभुजों की संख्या = (2,3,1,10,9,8), (1,10,9,8,6,7) = 2
कुल अंकों से मिलकर बने त्रिभुज की संख्या = 1
कुल त्रिभुजों की संख्या = 8 + 6 + 2 + 5 + 2 + 2 + 1
= 26

40. Find the number of triangles in the given figure./इस आकृति में त्रिभुज की संख्या ज्ञात कीजिए।

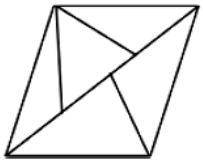

(a) 8 (b) 3
(c) 5 (d) 7

MP Police Constable Exam- 24 August-2023 Shift-3

GET IT ON Google Play Best Study PDF के लिए हमारी App को Download करें "GK Trick By Nitin Gupta"

Ans. (*) : प्रश्नानुसार, त्रिभुजों की संख्या निम्नवत् है–

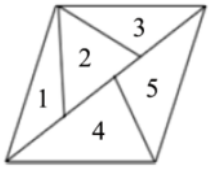

एक अंक से बने त्रिभुजों की संख्या = 1,2,3,4,5 ⇒ 5
दो अंकों से मिलकर बने त्रिभुजों की संख्या = (1, 2) (2, 3) (4,5) ⇒ 3
तीन अंकों से मिलकर बने त्रिभुजों की संख्या = (1,2,3) ⇒ 1
अतः आकृति में कुल त्रिभुजों की संख्या = 5 + 3 + 1 = 9
नोट–आयोग द्वारा इस प्रश्न का उत्तर विकल्प (d) दिया गया है।

41. How many triangles are there in the given figure?
दी गई आकृति में कितने त्रिभुज हैं?

(a) 16 (b) 14
(c) 12 (d) 18

MP Police Constable Exam- 11 Sep-2023 Shift-2

Ans. (a) : प्रश्नानुसार,
दी गई आकृति-

उपर्युक्त चित्र से-
1 अंक से बने त्रिभुजों की संख्या = 8
दो अंकों से बने त्रिभुजों की संख्या = (4, 5), (1, 6), (2, 7), (3, 8) = 4
चार अंकों से बने त्रिभुजों की संख्या = (1, 4, 5, 6)(1, 2, 6, 7), (2, 3, 7, 8)(3, 4, 6, 8) = 4
अतः त्रिभुजों की कुल संख्या = 8 + 4 + 4 = 16

42. Find the number of triangle in the given figure.
दी गई आकृति में त्रिभुज की संख्या ज्ञात कीजिए।

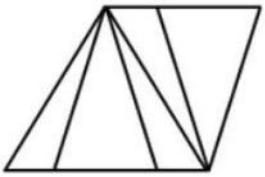

(a) 10 (b) 9
(c) 8 (d) 11

MP Police Constable Exam- 26 August-2023 Shift-2

Ans. (b) : दी गई आकृति में त्रिभुजों की संख्या निम्नवत् है–

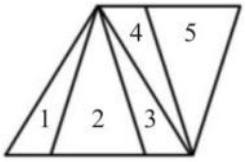

एक अंक से बने त्रिभुजों की संख्या = 5
दो अंकों से बने त्रिभुजों की संख्या = (1,2), (2,3), (4,5) = 3
तीन अंकों से बना त्रिभुज = (1,2,3) = 1
अतः आकृति में त्रिभुजों की कुल संख्या = 5 + 3 + 1 = 9

43. Find the number of triangles in the given figure.
इस आकृति में त्रिभुज की संख्या ज्ञात कीजिए।

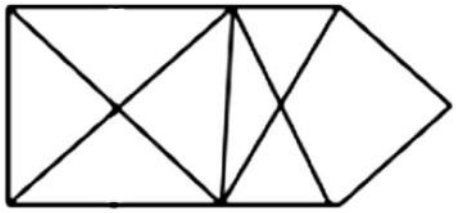

(a) 11 (b) 14
(c) 15 (d) 13

MP Police Constable Exam- 26 August-2023 Shift-2

Ans. (c) : दी गई आकृति में त्रिभुजों की संख्या निम्नवत् है–

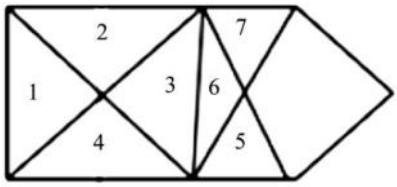

एक अंक से बने त्रिभुजों की संख्या = (1, 2, 3, 4, 5, 6, 7) = 7
दो अंकों से मिलकर बने त्रिभुजों की संख्या = (1, 2), (2, 3), (3, 4), (4, 1), (5, 6), (6, 7) = 6
चार अंकों से मिलकर बने त्रिभुजों की संख्या = (2, 3, 6, 7), (4, 3, 6, 5) = 2
अतः आकृति में त्रिभुजों की कुल संख्या = 7 + 6 + 2 = 15

44. How many triangles are there in the following figures ?
निम्नलिखित आकृतियों में कितने त्रिभुज हैं ?

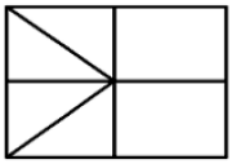

(a) 8 (b) 6
(c) 7 (d) 5

Ans. (d) : प्रश्नानुसार, त्रिभुजों की संख्या निम्नवत् है–

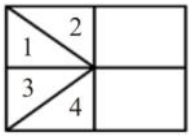

एक अंक से बने त्रिभुजों की संख्या = 1, 2, 3, 4 = 4
दो अंकों से मिलकर बने त्रिभुजों की संख्या = (1,3) = 1
अतः आकृति में कुल त्रिभुजों की संख्या = 4 +1 = 5

GET IT ON Google Play Best Study PDF के लिए हमारी App को Download करें "GK Trick By Nitin Gupta"

45. Find the number of triangles in the given figure.
इस आकृति में त्रिभुज की संख्या ज्ञात कीजिए।

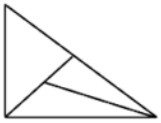

(a) 6 (b) 3
(c) 5 (d) 4

MP Police Constable Exam- 24 August-2023 Shift-3

Ans. (c) : प्रश्नानुसार, त्रिभुजों की संख्या निम्नवत् है–

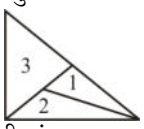

एक अंक से बने त्रिभुजों की संख्या = 1, 2, 3 = 3
दो अंकों से मिलकर बने त्रिभुजों की संख्या = (1,2) = 1
तीन अंकों से मिलकर बने त्रिभुजों की संख्या = (1,2,3) = 1
अतः आकृति में कुल त्रिभुजों की संख्या = 3 + 1 + 1 = 5

46. How many triangles are in the given figure ?
दी गई आकृति में कितने त्रिभुज हैं ?

(a) 11 (b) 9
(c) 14 (d) 8

MP Police Constable Exam- 31 August-2023 Shift-2

Ans. (b) : दी गई आकृति में त्रिभुजों की संख्या निम्नवत् है–

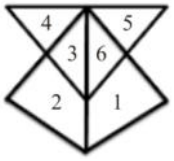

'एक' अंक से बनने वाले त्रिभुजों की संख्या = 4
'दो' अंकों से मिलकर बनने वाले त्रिभुजों की संख्या = (3,4), (5,6), (2, 3), (1, 6) = 4
'चार' अंकों से मिलकर बनने वाले त्रिभुजों की संख्या = (3,4,5,6) = 1
अतः कुल त्रिभुजों की संख्या = 4 + 4 + 1 = 9

47. How many triangles are in the given figure ?
दी गई आकृति में कितने त्रिभुज हैं ?

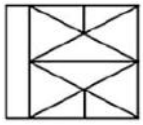

(a) 20 (b) 22
(c) 27 (d) 18

MP Police Constable Exam- 29 August-2023 Shift-1

Ans. (b) : दी गई आकृति में त्रिभुजों की संख्या निम्नवत् है–

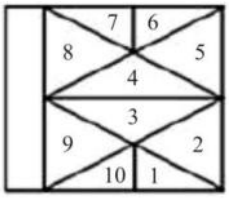

एक अंक से बनने वाले त्रिभुजों की संख्या = 10
दो अंकों से मिलकर बनने वाले त्रिभुजों की संख्या = (10,1), (2,3), (3,9), (4,5), (6,7), (4,8) = 6
तीन अंकों से मिलकर बनने वाले त्रिभुजों की संख्या = (10,1,2), (9,10,1), (5,6,7), (6,7,8) = 4
चार अंकों से मिलकर बनने वाले त्रिभुजों की संख्या = (3,4,8,9), (2,3,4,5) = 2
अतः त्रिभुजों की कुल संख्या = 10 + 6 + 4 + 2
= 22

48. Find the number of triangle in the given figure.
दी गई आकृति में त्रिभुज की संख्या ज्ञात कीजिए।

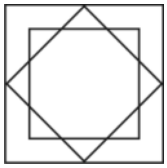

(a) 11 (b) 14
(c) 12 (d) 13

MP Police Constable Exam- 29 August-2023 Shift-1

Ans. (c) : दी गई आकृति में त्रिभुजों की संख्या निम्नवत् है–

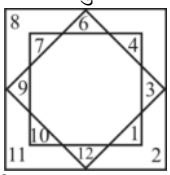

एक अंक से बने त्रिभुजों की संख्या = 1, 3, 4, 6, 7, 9, 10, 12 = 8
दो अंकों से मिलकर बने त्रिभुजों की संख्या = (1, 2), (4, 5), (8, 7), (11, 10) = 4
कुल त्रिभुजों की संख्या = 8 + 4 = 12

49. Find the number of triangles in the given figure.
इस आकृति में त्रिभुज की संख्या ज्ञात कीजिए।

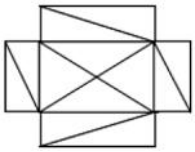

(a) 13 (b) 15
(c) 14 (d) 11

MP Police Constable Exam- 19 August-2023 Shift-3

Ans. (*) : दी गयी आकृति में त्रिभुजों की सं. निम्नवत् है-

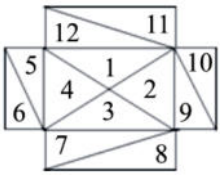

एक संख्या वाले त्रिभुजों की सं. = 1, 2, 3, 4, 5, 6, 7, 8, 9, 10, 11 तथा 12 = 12
दो संख्याओं वाले त्रिभुजों की संख्या = (1, 2), (2, 3), (3, 4), (1, 4) = 4
तीन संख्याओं वाले त्रिभुजों की संख्या = (1, 4, 5), (1, 4, 12), (3, 4, 7), (2, 3, 9) = 4
अतः आकृति में त्रिभुजों की कुल सं. = 12 + 4 + 4 = 20
Note:- आयोग द्वारा इस प्रश्न का उत्तर विकल्प 'c' माना गया है।

GET IT ON Google Play Best Study PDF के लिए हमारी App को Download करें "GK Trick By Nitin Gupta"

50. Find the number of triangles in the given figure./इस आकृति में त्रिभुज की संख्या ज्ञात कीजिए।

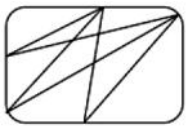

(a) 7 (b) 6
(c) 5 (d) 9

MP Police Constable Exam- 19 August-2023 Shift-3

Ans. (*) : दी गयी आकृति में त्रिभुजों की संख्या निम्नवत् है-

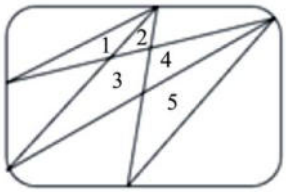

एक संख्या वाले त्रिभुजों की सं. = 1, 2, 4, 5 = 4
दो संख्याओं वाले त्रिभुजों की सं. = (1, 2), (2, 3), (3, 4), (4, 5) = 4
अतः आकृति में त्रिभुजों की सं. = 4 + 4 = 8
Note:- आयोग ने इस प्रश्न का उत्तर विकल्प 'b' माना है।

51. Find the number of triangles in the given figure?
दी गयी आकृति में कितने त्रिभुज हैं ?

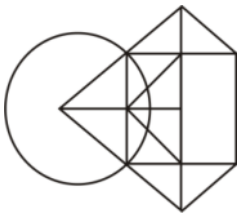

(a) 15 (b) 12
(c) 18 (d) 20

MP Police Constable Exam- 3 Sep-2023 Shift-2

Ans. (*) : प्रश्नानुसार त्रिभुजों की संख्या निम्न है–

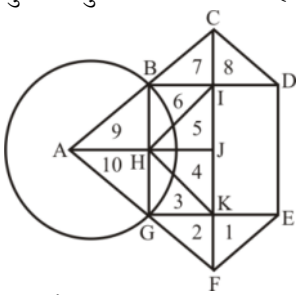

एक अंकों से बने त्रिभुजों की संख्या = (1,2,3,4,5,6,7,8,9,10) = 10
दो अंक से बने त्रिभुजों की संख्या = (1,2), (7,8), (9,10), (4,5) = 4
चार अंकों से बने त्रिभुजों की संख्या = (2,3,4,10), (5,6,7,9) = 2
आठ अंकों से बने त्रिभुजों की संख्या = (2,3,4,5,6,7,9,10) = 1
कुल बने त्रिभुजों की संख्या = 10 + 4 + 2 + 1 = 17
NOTE- MPESB ने प्रारम्भिक उत्तर कुंजी में विकल्प (a) को सही माना है।

52. Find the number of triangle in the given figure.
दी गई आकृति में त्रिभुज की संख्या ज्ञात कीजिए।

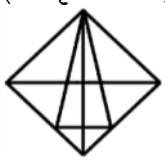

(a) 24 (b) 25
(c) 26 (d) 28

MP Police Constable Exam- 1 Sep-2023 Shift-1

Ans. (c) : प्रश्नानुसार,
त्रिभुजों की संख्या

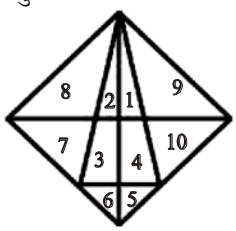

= {1, 2, 5, 6, 7, 8, 9, 10} + {(1, 4), (2, 3), (5, 6), (9,10), (7, 8) (2, 8) (1, 9) (1, 2) (1, 9) } {(1,2,8), (1,2,9), (7, 3, 6) (5, 4, 10)} + { (1,4,3,2), (8, 2, 1, 9)} + {(1, 9, 4, 10, 5) (8, 2, 7, 3, 6)} + {(7, 3, 6, 5, 4, 10)}
= त्रिभुजों की कुल संख्या
= 8 + 9 + 4 + 2 +2 + 1 = 26

53. Find the number of triangle in the given figure.
दी गई आकृति में त्रिभुज की संख्या ज्ञात कीजिए।

(a) 6 (b) 7
(c) 5 (d) 8

MP Police Constable Exam- 1 Sep-2023 Shift-1

Ans. (b) : दी गई प्रश्न आकृति में कुल त्रिभुजों की संख्या '7' है। अतः विकल्प (b) सही है।

54. Find the number of triangles in the given figure.
इस आकृति में त्रिभुज की संख्या ज्ञात कीजिए।

(a) 5 (b) 4
(c) 6 (d) 7

MP Police Constable Exam- 20 August-2023 Shift-1

Ans. (*) : दिया गया चित्र-

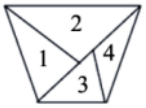

एक अंक से बने Δ की संख्या = 1, 2, 3, 4 = 4
2 अंको से बने Δ की संख्या = (1, 2)(3, 4) = 2
अतः कुल Δ की संख्या = 6
Note- आयोग ने विकल्प (a) सही माना है जो त्रुटिपूर्ण है।

GET IT ON Google Play Best Study PDF के लिए हमारी App को Download करें "GK Trick By Nitin Gupta"

55. Find the number of triangles in the given figure./इस आकृति में त्रिभुज की संख्या ज्ञात कीजिए।

(a) 4 (b) 3
(c) 5 (d) 6

MP Police Constable Exam- 20 August-2023 Shift-3

Ans. (a) : आकृति में त्रिभुजों की संख्या निम्न है-

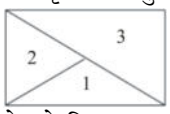

एक अंक से बने त्रिभुज = 1, 2, 3 = 3
दो अंक से बने त्रिभुज = (1, 2) = 1
कुल त्रिभुज की संख्या = 3 + 1 = 4

56. Find the number of triangles in the given figure.
इस आकृति में त्रिभुज की संख्या ज्ञात कीजिए।

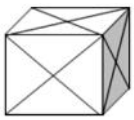

(a) 17 (b) 19
(c) 18 (d) 16

MP Police Constable Exam- 20 August-2023 Shift-3

Ans. (*) : दी गई आकृति में त्रिभुजों की संख्या निम्न है-

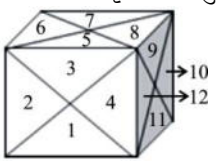

एक अंक से बने त्रिभुज = 1, 2, 3, 4, 5, 6, 7, 8, 9, 10, 11, 12
= 12
दो अंक से बने त्रिभुज = (1, 2), (2, 3), (3, 4), (4, 1), (5, 6), (6, 7), (7, 8), (8, 5), (9, 10), (10, 11), (11, 12), (12, 9)
= 12
अतः कुल त्रिभुज = 12 + 12 = 24

57. Find the number of triangles in the given figure./इस आकृति में त्रिभुज की संख्या ज्ञात कीजिए।

(a) 22 (b) 20
(c) 21 (d) 23

MP Police Constable Exam- 20 August-2023 Shift-3

Ans. (*) : दी गई आकृति में त्रिभुजों की कुल संख्या 40 है।

58. How many triangles are there in the given figure?/दी गई आकृति में कितने त्रिभुज हैं ?

(a) 22 (b) 25
(c) 20 (d) 26

MP Police Constable Exam- 27 August-2023 Shift-2

Ans. (b) : प्रश्नानुसार,

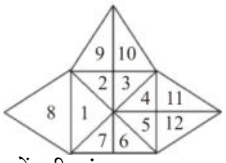

एक अंक से बने त्रिभुजों की संख्या = 1, 2, 3, 4, 5, 6, 7, 8, 9, 10, 11, 12 = 12
दो अंकों से मिलकर बने त्रिभुजों की संख्या = (2,3), (4,5), (4,11), (5,12), (6,7), (9,10), (11,12), (2,9), (3,10) = 9
तीन अंकों से मिलकर बने त्रिभुजों की संख्या = (1,2,3), (1,7,6) = 2
चार अंकों से मिलकर बने त्रिभुजों की संख्या = (2,3,4,5), (4,5,6,7) = 2
अतः कुल त्रिभुजों की संख्या = 12 + 9 + 2 + 2
= 25

59. Find the number of triangle in the given figure.
दी गई आकृति में त्रिभुज की संख्या ज्ञात कीजिए।

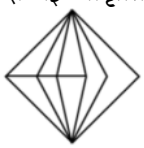

(a) 11 (b) 12
(c) 14 (d) 15

MP Police Constable Exam- 27 August-2023 Shift-2

Ans. (b) : प्रश्नानुसार,

एक अंक से बना त्रिभुज = 1, 2, 3, 6, 7, 8 = 6
दो अंकों से बना त्रिभुज = (1,2), (2,3), (6,7), (7,8) = 4
तीन अंकों से बना त्रिभुज = (1,2,3), (6,7,8) = 2
अतः कुल त्रिभुजों की संख्या = 6 + 4 + 2
= 12

60. Find the number of triangle in the given figure.
दी गई आकृति में त्रिभुज की संख्या ज्ञात कीजिए।

(a) 26 (b) 22
(c) 28 (d) 27

MP Police Constable Exam- 27 August-2023 Shift-2

Ans. (a) :

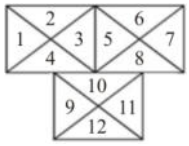

एक अंक से बने त्रिभुज = 1, 2, 3, 4, 5, 6, 7, 8, 9, 10, 11, 12
= 12
दो अंकों से बने त्रिभुज = (1,2), (2,3), (3,4), (4,1), (5,6), (6,7), (7,8), (8,5), (9,10), (10,11), (11,12), (12,9) = 12
चार अंक से बने त्रिभुज = (2,3,5,6), (4,3,5,8) = 2
अतः कुल त्रिभुजों की संख्या = 12 + 12 + 2
= 26

GET IT ON Google Play Best Study PDF के लिए हमारी App को Download करें "GK Trick By Nitin Gupta"

61. Find the number of triangles in the given figure./इस आकृति में त्रिभुज की संख्या ज्ञात कीजिए।

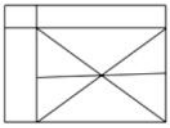

(a) 7 (b) 8
(c) 6 (d) 5

MP Police Constable Exam- 20 August-2023 Shift-1

Ans. (*) : दिया गया चित्र-

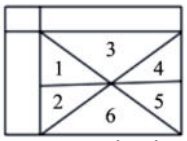

एक अंक की सहायता से बने Δ की संख्या = 1, 2, 3, 4, 5, 6 = 6
दो अंको की सहायता से बने Δ = (1, 2)(4, 5) = 2
3 अंको की सहायता से बने Δ = (1, 2, 3)(4, 5, 6)(1, 2, 6)(6, 5, 4) = 4
अतः कुल Δ की संख्या = 6 + 2 + 4 = 12
Note- आयोग ने विकल्प (b) 8 को उत्तर माना है जो त्रुटिपूर्ण है।

62. How many triangles are there in the figure given below?
नीचे दिए गए चित्र में त्रिभुजों की संख्या कितनी है?

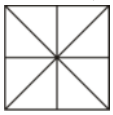

(a) 12
(b) 16
(c) 18
(d) None of the above/उपर्युक्त में से कोई नहीं

MP Police Constable Recruitment (Second)Test - 2013

Ans. (b) : प्रश्नानुसार,
त्रिभुजों की संख्या

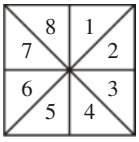

= { 1, 2, 3, 4, 5, 6, 7, 8} + {(2, 2) (4, 5) (6, 7) (8, 1)} + { (2, 3, 4, 5) (6, 7, 8, 1) (8, 1, 2, 3) (4, 5, 6, 7)}
= 8 + 4 + 4 = 16
अतः त्रिभुजों की कुल संख्या 16 है,

63. How many triangles does the following figure contain?
दिये गये चित्र में कितने त्रिभुज हैं?

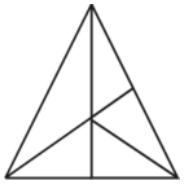

(a) 11 (b) 10
(c) 6 (d) 12

MP Police Constable Recruitment Test - 2013

Ans. (a) : प्रश्नानुसार,

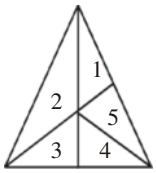

त्रिभुजों की संख्या ⇒
{1, 2, 3, 4, 5} + {(1, 5) (3, 4) (2, 3) (2, 3) (1, 2)} + { (1, 4, 5) (3, 4, 5)} = 11
अतः त्रिभुजों की कुल संख्या 11 है।

64. Find the number of triangles in the given figure.
इस आकृति में त्रिभुज की संख्या ज्ञात कीजिए।

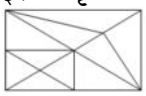

(a) 13 (b) 11
(c) 14 (d) 15

MP Police Constable Exam- 21 August-2023 Shift-2

Ans. (*) : आकृति में त्रिभुजों की संख्या निम्नवत् है-

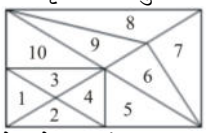

एक अंक से बने त्रिभुजों की संख्या = 10
दो अंकों से बने त्रिभुजों की संख्या = (1, 2), (2, 4), (4, 3), (3, 1), (6, 7), (8, 9), (9, 6) = 7
तीन अंकों से बने त्रिभुजों की संख्या = (1, 3, 10), (2, 4, 5) = 2
चार अंकों से बने त्रिभुजों की संख्या = (2, 4, 5, 6), (1, 3, 10, 9), (6, 7, 8, 9) = 3
पांच अंकों से बने त्रिभुजों की संख्या = (2, 4, 5, 6, 7), (1, 3, 10, 9, 8) = 2
छः अंकों से बना त्रिभुज = (1, 2, 3, 4, 5, 10) = 1
अतः आकृति में कुल त्रिभुजों की संख्या = 10 + 7 + 2 + 3 + 2 + 1 = 25
नोटः- आयोग ने इस प्रश्न का उत्तर विकल्प (c) माना है।

65. Find the number of triangles in the given figure./इस आकृति में त्रिभुज की संख्या ज्ञात कीजिए।

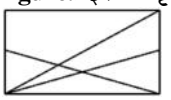

(a) 8 (b) 7
(c) 5 (d) 9

MP Police Constable Exam- 21 August-2023 Shift-3

Ans. (*) :

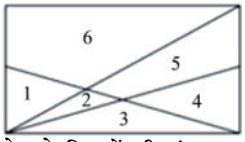

एक अंक से बने त्रिभुजों की संख्या = 1, 2, 3, 4 = 4
दो अंकों से बने त्रिभुजों की संख्या = (1, 2), (2, 3), (3, 4), (4, 5), (2, 5), (1, 6) = 6
तीन अंकों से बने त्रिभुजों की संख्या = (1, 2, 3) = 1
चार अंकों से बने त्रिभुजों की संख्या = (2, 3, 4, 5) = 1
अतः कुल त्रिभुजों की संख्या = 4 + 6 + 1 + 1 = 12
नोट- आयोग द्वारा इस प्रश्न का उत्तर विकल्प (c) माना गया है।

GET IT ON Google Play Best Study PDF के लिए हमारी App को Download करें "GK Trick By Nitin Gupta"

66. Find the number of triangles in the given figure.
इस आकृति में त्रिभुज की संख्या ज्ञात कीजिए।

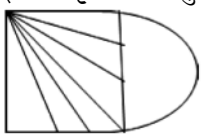

(a) 5 (b) 6
(c) 7 (d) 9

MP Police Constable Exam- 21 August-2023 Shift-3

Ans. (*) :

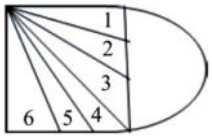

एक अंक से बने त्रिभुजों की संख्या = 1, 2, 3, 4, 5, 6 = 6
दो अंकों से बने त्रिभुजों की संख्या = (1, 2), (2, 3), (4, 5), (5, 6) = 4
तीन अंकों से बने त्रिभुजों की संख्या = (1, 2, 3), (4, 5, 6) = 2
अतः कुल त्रिभुजों की संख्या = 6 + 4 + 2 = 12
नोट- आयोग ने इस प्रश्न का उत्तर विकल्प (b) माना है।

67. Find the number of triangles in the given figure./इस आकृति में त्रिभुज की संख्या ज्ञात कीजिए।

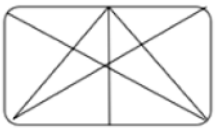

(a) 13 (b) 15
(c) 14 (d) 12

MP Police Constable Exam- 21 August-2023 Shift-3

Ans. (*) : दी गयी आकृति-

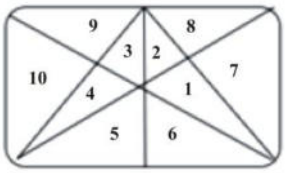

1 अंक से बने त्रिभुज = 10
2 अंकों से बने त्रिभुज = (1,2) (3,4) (5,6) (7,8) (9,10) (3,9) (2,8) (10,4) (1,7) = 9
3 अंकों से बने त्रिभुज = (1,2,3) (2,3,4) (4,5,6) (3,4,5) (1,2,6) = 5
4 अंकों से बने त्रिभुज = (1,2,3,9) (4,3,2,4) (6,5,4,10) (5,6,1,7) (8,2,3,9) = 5
6 अंकों से बने त्रिभुज = (1,7,2,8,3,9) (4,10,3,9,2,8) = 2
कुल त्रिभुजों की संख्या = 10+9+5+5+2 = 31

68. Find the number of triangles in the given figure./इस आकृति में त्रिभुज की संख्या ज्ञात कीजिए।

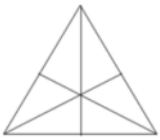

(a) 12 (b) 13
(c) 11 (d) 10

MP Police Constable Exam- 21 August-2023 Shift-2

Ans. (*) : आकृति में त्रिभुजों की संख्या निम्नवत् है-

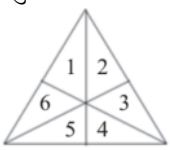

एक अंक से बने त्रिभुजों की संख्या = 6
दो अंकों से बने त्रिभुजों की संख्या = (1, 6), (2, 3), (4, 5) = 3
तीन अंकों से बने त्रिभुजों की संख्या = (1, 6, 5), (2, 3, 4), (1, 2, 3), (4, 5, 6), (6, 1, 2), (3, 4, 5) = 6
कुल अंकों से मिलकर बना त्रिभुज = 1
अतः आकृति में कुल त्रिभुजों की संख्या = 6 + 3 + 6 + 1 = 16
नोटः- आयोग द्वारा इस प्रश्न का उत्तर (c) माना गया है।

69. Find the number of triangles in the given figure.
इस आकृति में त्रिभुज की संख्या ज्ञात कीजिए।

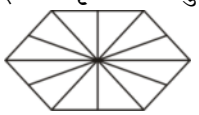

(a) 19 (b) 16
(c) 18 (d) 17

MP Police Constable Exam- 21 August-2023 Shift-2

Ans. (c) : आकृति में त्रिभुजों की संख्या निम्नवत् है-



एक अंक से बने त्रिभुजों की संख्या = 12
दो अंकों से बने त्रिभुजों की संख्या = (1, 2), (3, 4), (5, 6), (7, 8), (9, 10), (11, 12) = 6
अतः आकृति में त्रिभुजों की कुल संख्या = 12 + 6 = 18

70. How many triangles are there in the following figure?
निम्न आकृति में कितने त्रिकोण हैं?

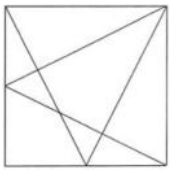

(a) 10 (b) 15
(c) 14 (d) 13

MP Police Constable Exam- 1 August-2016, 3:pm

Ans : (c)

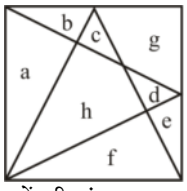

एक आकृति से घिरे त्रिभुजों की संख्या (a, b, c, d, e, f) = 6
दो आकृति से घिरे त्रिभुजों की संख्या
[(a,b), (b,c), (d,e) (e,f)] = 4
तीन आकृति से घिरे त्रिभुजों की संख्या
[(c, h, f), (d, h, a), (b, c, g), (g, d, e) = 4
अतः आकृति में त्रिकोणों की संख्या = 14

GET IT ON Google Play Best Study PDF के लिए हमारी App को Download करें "GK Trick By Nitin Gupta"

Type-2: चतुर्भुजों की गणना पर आधारित प्रश्न

71. Find the number of triangle in the given figure.
दी गई आकृति में त्रिभुज की संख्या ज्ञात कीजिए।

(a) 21 (b) 15
(c) 18 (d) 22

MP Police Constable Exam- 27 August-2023 Shift-1

Ans. (c) :

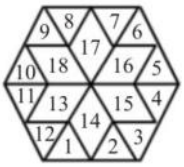

एक अंक से बने त्रिभुजों की संख्या = 1, 2, 3, 4, 5, 6, 7, 8, 9, 10, 11, 12 = 12
तीन अंकों से बने त्रिभुजों की संख्या = (1,2,14), (3,4,15), (5,6,16), (7,18,17), (9,10,18), (11,12,13) = 6
कुल त्रिभुजों की संख्या = 12 + 6 = 18

72. How many parallelograms are there in the following figure?
निम्नलिखित आकृति में कितने समांतर चतुर्भुज हैं?

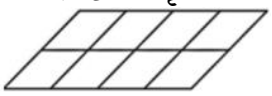

(a) 22 (b) 30
(c) 28 (d) 24

MP Police Constable Exam- 9 Sep-2023 Shift-3

Ans. (b) : दिया गया चित्र-

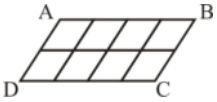

प्रश्नानुसार,
समांतर चतुर्भुज की कुल संख्या-
$4^2 + 3^2 + 2^2 + 1^2 = 16 + 9 + 4 + 1$
$= 30$

73. How many quadrilaterals are there in the following figures ?
निम्नलिखित आकृतियों में कितने चतुर्भुज हैं ?

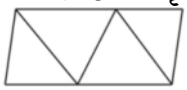

(a) 8 (b) 7
(c) 6 (d) 5

MP Police Constable Exam- 25 August-2023 Shift-1

Ans. (c) : आकृति में चतुर्भुजों की संख्या निम्नवत् है–

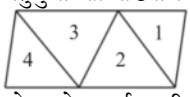

दो अंकों से मिलकर बनने वाले चतुर्भुज की संख्या = (1,2), (2,3) (3,4) = 3
तीन अंकों से मिलकर बने चतुर्भुज की संख्या = (1,2,3), (2,3,4) = 2
चार अंकों से बने चतुर्भुज की संख्या = (1,2,3,4) = 1
अतः दी गई आकृति से चतुर्भुज की कुल संख्या = 3 + 2 + 1 = 6

Type-3: आयतों की गणना पर आधारित प्रश्न

74. What is the number of rectangles in the given figure ?
दी गई आकृति में आयतों की संख्या कितनी है ?

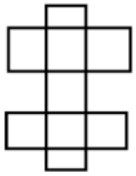

(a) 21 (b) 23
(c) 19 (d) 24

MP Police Constable Exam- 29 August-2023 Shift-2

Ans. (*) : चित्र से–

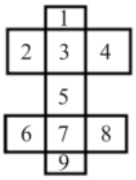

एक अंक से बना आयत = 9
(1,2,3,4,5,6,7,8,9)
दो अंकों से बना आयत = 8
(2,3), (3,4), (1,3), (3,5), (5,7), (6,7), (7,8), (7,9)
तीन अंकों से बना आयत = 5
(2,3,4), (6,7,8), (1,3,5), (3,5,7), (5,7,9)
चार अंकों से बना आयत = 2
(1,3,5,7), (3,5,7,9)
पाँच अंकों से बना आयत = 1
(1,3,5,7,9)
कुल आयत = 9 + 8 + 5 + 2 + 1 = 25
नोट– आयोग ने 24 आयत ही उत्तर माना है।

75. How many rectangles are there in the following figure ?
निम्नलिखित आकृति में कितने आयत हैं ?



(a) 10 (b) 8
(c) 13 (d) 15

MP Police Constable Exam- 28 August-2023 Shift-2

Ans. (d) : दी गई आकृति में आयतों की संख्या निम्नवत् है–

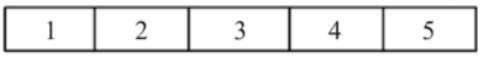

एक अंक से बने आयतों की संख्या = 1, 2, 3, 4, 5 ⇒ 5
दो अंकों से बने आयतों की संख्या = (1,2), (2,3), (3,4), (4,5) ⇒ 4
तीन अंकों से बने आयतों की संख्या = (1,2,3), (2,3,4), (3,4,5) ⇒ 3
चार अंकों से बने आयतों की संख्या = (1,2,3,4), (2,3,4,5) ⇒ 2
पाँच अंकों से बने आयत की संख्या = (1,2,3,4,5) = 1
अतः कुल आयतों की संख्या = 5 + 4 + 3 + 2 + 1 = 15

76. Find the number of rectangles in the given figure.
दी गई आकृति में आयतों की संख्या ज्ञात कीजिए।

GET IT ON Google Play Best Study PDF के लिए हमारी App को Download करें "GK Trick By Nitin Gupta"

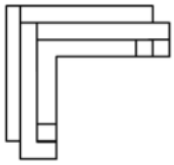

(a) 4 (b) 5
(c) 3 (d) 6

MP Police Constable Exam- 28 August-2023 Shift-2

Ans. (a) : दी गई आकृति में आयतों की संख्या निम्नवत् है–

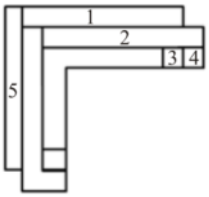

एक अंक से बने आयतों की संख्या = 1, 2, 5 ⇒ 3
दो अंकों से बने आयतों की संख्या = (3, 4) ⇒ 1
अतः कुल आयतों की संख्या = 3 + 1 = 4

77. Find the number of rectangles in the following figure.
दी हुई आकृति में आयतों की संख्या ज्ञात कीजिये।

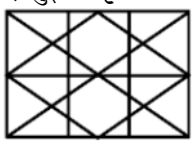

(a) 10 (b) 12
(c) 11 (d) 13

MP Police Constable Exam- 23 August-2023 Shift-3

Ans. (*) : प्रश्नानुसार, आयतों की संख्या निम्न् है–

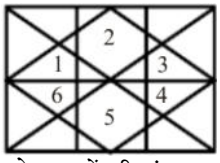

एक अंक से मिलकर बने आयतों की संख्या = 1, 2, 3, 4, 5, 6 =6
दो अंक से मिलकर बने आयतों की संख्या = (1,6), (2,5), (3,4), (1,2), (2,3), (4,5), (5,6) = 7
तीन अंक से मिलकर बने आयतों की संख्या = (1,2,3), (4,5,6) = 2
चार अंक से मिलकर बने आयतों की संख्या = (1,2,6,5), (2,3,4,5) = 2
छः अंक से मिलकर बने आयतों की संख्या = (1,2,3,4,5,6) = 1
अतः आयतों की कुल संख्या = 6 + 7+ 2 + 2 + 1
= 18
नोट–आयोग ने इसका सही उत्तर विकल्प (d) माना है।

78. How many rectangles only are in the given figure ?
दी गई आकृति में कितने केवल आयत हैं ?

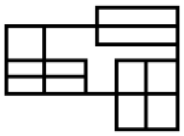

(a) 13 (b) 17
(c) 21 (d) 25

MP Police Constable Exam- 28 August-2023 Shift-3

Ans. (*) : प्रश्नानुसार, आयत की संख्या निम्नवत् है–

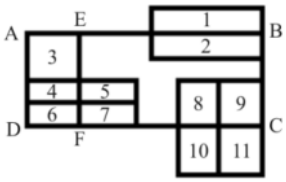

एक अंक से बने आयतों की संख्या = (1, 2, 4, 5, 6, 7) = 6
दो अंकों से मिलकर बने आयतों की संख्या=(4, 5), (6, 7), (1, 2), (8,10), (9,11), (8, 9), (3, 4), (10, 11) = 8
तीन अंकों से मिलकर बने आयतों की संख्या = (3, 4, 6) = 1
चार अंकों से मिलकर बने आयतों की संख्या = (4, 5, 6, 7) = 1
अन्य आयतों की संख्या = (A B C D), (E B C F) = 2
अतः कुल आयतों की संख्या = 6 + 8 + 1 + 1 + 2
= 18

79. What is the number of rectangles in the given figure ?
दी गई आकृति में आयतों की संख्या कितनी है ?

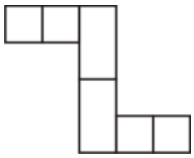

(a) 9 (b) 10
(c) 11 (d) 12

MP Police Constable Exam- 26 August-2023 Shift-2

Ans. (a) : दी गई आकृति में आयतों की संख्या निम्नवत् है–

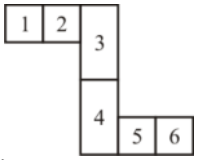

एक अंक से बने आयतों की संख्या = 6
दो अंकों से बने आयतों की संख्या = (1,2), (3,4), (5,6) = 3
अतः आकृति में कुल आयतों की संख्या = 6 + 3 = 9

80. Find the number of rectangles in the given figure./दी गई आकृति में आयतों की संख्या ज्ञात कीजिए।

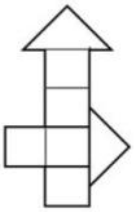

(a) 6 (b) 7 (c) 8 (d) 9

MP Police Constable Exam- 01 Feb-2022 Shift-1

Ans. (d) : प्रश्नगत आकृति से-

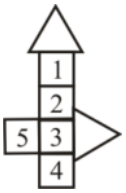

आयत = 1, 2, 3, 4, 5, (1, 2), (2, 3), (3, 4), (5, 3)
कुल आयतों की संख्या = 9

GET IT ON Google Play Best Study PDF के लिए हमारी App को Download करें "GK Trick By Nitin Gupta"

81. The number of rectangles in the figure

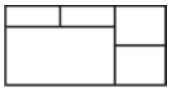

is

चित्र

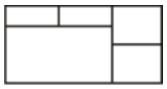

में आयतों की संख्या है

(a) 7 (b) 8
(c) 9 (d) 10

MP Police Constable Recruitment (Second)Test - 2013

Ans. (b) : प्रश्नानुसार,

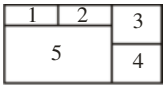

आयतों की संख्या

= {1, 2, 3, 4, 5} + { (1, 2)(3, 4)} + {(1, 2, 3, 4, 5)}
= 5 + 2 + 1
= 8

अतः आयतों की कुल संख्या 8 है।

Type-4: वर्गों की गणना पर आधारित प्रश्न

82. Find the number of square in the given figure.
दी गई आकृति में वर्गों की संख्या ज्ञात कीजिए।

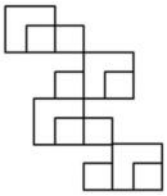

(a) 12 (b) 10
(c) 13 (d) 11

MP Police Constable Exam- 29 August-2023 Shift-2

Ans. (a) :

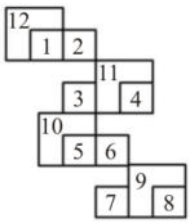

एक अंक से बने वर्ग = 8
दो अंक से बने वर्ग– (9,8), (5,10), (4,11), (1,12) = 4
कुल वर्ग की संख्या = 8 + 4
= 12

83. How many squares are there in the following figures ?
निम्नलिखित आकृतियों में कितने वर्ग हैं ?

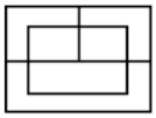

(a) 5 (b) 6
(c) 7 (d) 8

MP Police Constable Exam- 24 August-2023 Shift-2

Ans. (b) : आकृति में वर्ग की संख्या–

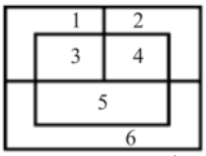

अतः आकृति में कुल वर्ग की संख्या '6' है।

84. How many squares are in the given figure ?
दी गई आकृति में कितने वर्ग हैं ?

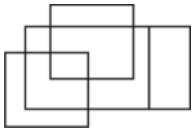

(a) 6 (b) 11
(c) 4 (d) 5

MP Police Constable Exam- 25 August-2023 Shift-3

Ans. (d) :

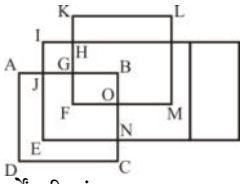

दी गयी आकृति में वर्गों की संख्या–
ABCD, JBNE, GBOF, IHGJ, KLMF = 5 वर्ग

85. How many square are there in given figure?
दी गई आकृति में कितने वर्ग है।



(a) 29 (b) 30
(c) 31 (d) 32

MP Police Constable Exam- 9 Sep-2023 Shift-3

Ans. (b) : दिया गया चित्र-

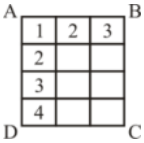

प्रश्नानुसार,
वर्गो की कुल संख्या-
$= 4^2 + 3^2 + 2^2 + 1^2$
= 16 + 9 + 4 + 1
= 30

86. How many squares are there in the following figure ?
निम्नलिखित आकृति में कितने वर्ग हैं ?

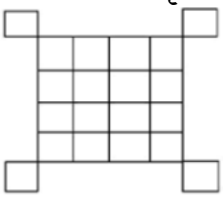

(a) 44 (b) 34
(c) 50 (d) 28

MP Police Constable Exam- 25 August-2023 Shift-1

GET IT ON Google Play Best Study PDF के लिए हमारी App को Download करें "GK Trick By Nitin Gupta"

Ans. (b) : आकृति में वर्गों की संख्या निम्नवत् है–

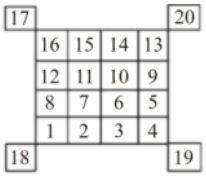

एक अंक से बनने वाले वर्गों की संख्या = 20
चार अंकों से मिलकर बनने वाले वर्गों की संख्या = (1,2,7,8), (2,3,6,7), (3,4,5,6), (5,9,10,6), (6,7,11,10), (7,8,12,11), (12,11,15,16), (11,10,14,15), (10,9,13,14) = 9
नौ अंकों से मिलकर बनने वाले वर्गों की संख्या
= (1,2,3,6,7,8,10,11,12), (2,3,4,5,6,7,9,10,11), (6,7,8,10,11,12,14,15,16), (5,6,7,9,10,11,13,14,15) = 4
16 अंकों से मिलकर बनने वाले वर्गों की संख्या = 1
अतः दी गई आकृति में वर्गों की कुल संख्या = 20 + 9 + 4 + 1
= 34

87. Find the number of Squares in the given figure.
दी गई आकृति में वर्गों की संख्या ज्ञात कीजिए।

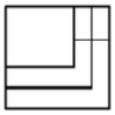

(a) 3 (b) 5
(c) 4 (d) 6

MP Police Constable Exam- 28 August-2023 Shift-3

Ans. (c) : प्रश्नानुसार, वर्गों की संख्या निम्नवत् है–

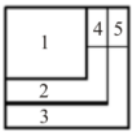

एक अंक से बने वर्गों की संख्या = 1
दो अंकों से मिलकर बने वर्गों की संख्या = (4, 5) ⇒ 1
तीन अंकों से मिलकर बने वर्गों की संख्या (1, 2, 4) ⇒ 1
सभी अंकों से मिलकर बने वर्ग = (1, 2, 3, 4, 5) ⇒ 1
अतः आकृति में कुल वर्गों की संख्या = 1 + 1 + 1 + 1
= 4

88. How many squares are there in the following figure?/निम्नलिखित आकृति में कितने वर्ग हैं?



(a) 60 (b) 42
(c) 32 (d) 30

MP Police Constable Exam- 25 August-2023 Shift-2

Ans. (d) : जब Row और Column बराबर हो तो उनका वर्ग करके जोड़ देते है।

$(4)^2 = 16$

$(3)^2 = 9$

$(2)^2 = 4$

$(1)^2 = 1$

कुल वर्गों की संख्या = 16 + 9 + 4 + 1
= 30

89. Find the number of squares in the given figure.
दी गई आकृति में वर्गों की संख्या ज्ञात कीजिए।

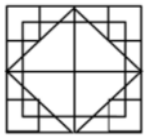

(a) 19 (b) 20
(c) 18 (d) 15

MP Police Constable Exam- 31 August-2023 Shift-2

Ans. (a) : दी गई आकृति में वर्गों की संख्या निम्नवत् है–

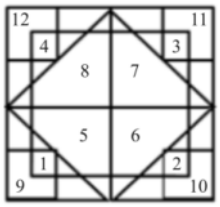

'एक' अंक से बनने वाले वर्गों की संख्या = 4, 3, 2, 1 = 4
'दो' अंकों से मिलकर बनने वाले वर्गों की संख्या = (1,9), (1,5), (2,10), (2,6), (3,11), (3,7), (4,12), (4,8) = 8
'तीन' अंकों से मिलकर बनने वाले वर्गों की संख्या = (9,1,5), (10,2,6), (11,3,7), (12,4,8) = 4
'चार' अंकों से मिलकर बना वर्ग = (5,6,7,8) = 1
'आठ' अंकों से मिलकर बना वर्ग = (1,5,2,6,7,3,8,4) = 1
सम्पूर्ण अंक से मिलकर बना वर्ग = 1
अतः आकृति में वर्गों की कुल संख्या = 4 + 8 + 4 + 1 + 1 + 1
= 19

90. Find the number of squares in the given figure.
दी गई आकृति में वर्गों की संख्या ज्ञात कीजिए।

(a) 5 (b) 7
(c) 6 (d) 4

MP Police Constable Exam- 31 August-2023 Shift-2

Ans. (a) : दी गई आकृति में वर्गों की संख्या निम्नवत् है–

'एक' अंक से बनने वाले वर्गों की संख्या = 3, 4, 5 = 3
'दो' अंकों से मिलकर बना वर्ग = (1,2) = 1
'तीन' अंकों से मिलकर बना वर्ग = (4,5,6) = 1
अतः आकृति में कुल वर्गों की संख्या = 3 + 1 + 1 = 5

91. Find the number of square in the given figure.
दी गई आकृति में वर्गों की संख्या ज्ञात कीजिए।

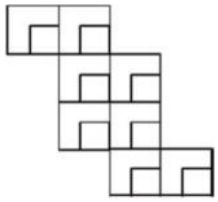

(a) 16 (b) 17
(c) 18 (d) 15

MP Police Constable Exam- 29 August-2023 Shift-1

GET IT ON Google Play Best Study PDF के लिए हमारी App को Download करें "GK Trick By Nitin Gupta"

Ans. (b) :

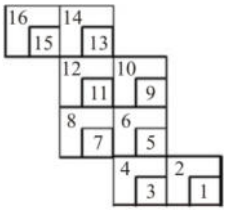

एक अंक से बनने वाले वर्गों की संख्या = (1,3,5,7,9,11,13,15) = 8

दो अंकों से मिलकर बनने वाले वर्गों की संख्या = (1,2), (3,4), (5,6), (7,8), (9,10), (11,12), (13,14), (15,16) = 8

आठ अंकों से मिलकर बनने वाले वर्गों की संख्या = (5,6,7,8,9,10,11,12) = 1

अतः दी गई आकृति में कुल वर्गों की संख्या = 8 + 8 + 1 = 17

92. How many squares are there in the given figure?
दिए गए आकृति में कितने वर्ग हैं?

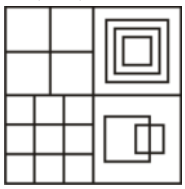

(a) 24 (b) 26
(c) 27 (d) 28

MP Police Constable Exam- 11 Sep-2023 Shift-3

Ans. (c) : दिये गये आकृति में वर्गों की संख्या है-

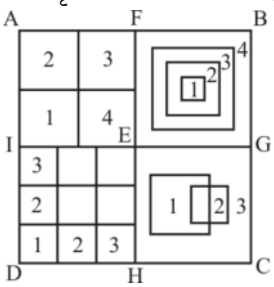

□DHEI में वर्गों की सं. = (3 × 3) + (2 × 2) + 1 = 9 + 4 + 1 = 14

□AFEI में वर्गों की सं. = 1, 2, 3, 4, (1, 2, 3, 4) = 5

□EFBC में वर्गों की सं. = 1, 2, 3, 4 = 4

□EGCH में वर्गों की सं. = 1, 2, 3 = 3

सबसे बड़े □ में वर्ग की सं. = 1

अतः □ABCD में वर्गों की सं. = 14 + 5 + 4 + 3 + 1 = 27

93. How many squares are in the given figure?
दी गई आकृति में कितने वर्ग हैं?

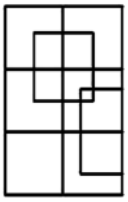

(a) 13 (b) 20
(c) 16 (d) 23

MP Police Constable Exam- 1 Sep-2023 Shift-1

Ans. (c) : दी गई आकृति निम्न है–

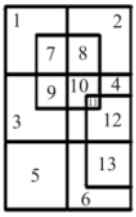

एक वर्ग से बने वर्गों की संख्या = 13

चार वर्ग से बने वर्गों की संख्या = (1,2,3,4), (3,4,5,6), (7,8,9,10) = 3

अतः कुल वर्गों की संख्या = 13 + 3 = 16

94. How many squares are there in the following figure?
निम्न चित्र में कितने वर्ग हैं?

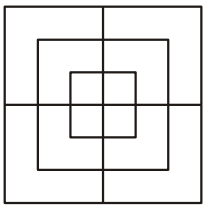

(a) 13 (b) 14
(c) 16 (d) 15

MP Police Constable Recruitment Test - 2013

Ans. (d) : प्रश्नानुसार,

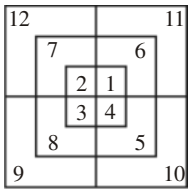

वर्गों की संख्या ⇒

{1, 2, 3, 4, 5, 6, 7, 8, 9, 10, 11, 12} = 12

{(1, 2, 3, 4) (5, 6, 7, 8) (9, 10, 11, 12)} = 3

कुल वर्ग = 12+3 = 15

Type-5: वृत्तों की गणना पर आधारित प्रश्न

95. How many circles are there in the given figure?
दिए गए आकृति में कितने वृत्त हैं?

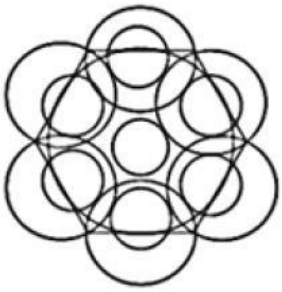

(a) 10 (b) 12
(c) 14 (d) 16

MP Police Constable Exam- 12 Sep-2023 Shift-2

Ans. (c) : प्रश्न आकृति के अवलोकन से स्पष्ट है कि इसमें वृत्तों की संख्या '14' है।

अतः विकल्प 'c' सही उत्तर है।

GET IT ON Google Play Best Study PDF के लिए हमारी App को Download करें "GK Trick By Nitin Gupta"

96. How many circles are there in the given figure?
दिए गए आकृति में कितने वृत्त हैं?

(a) 20 (b) 21
(c) 23 (d) 24

MP Police Constable Exam- 11 Sep-2023 Shift-3

Ans. (c) : दी गयी आकृति में वृत्तों की संख्या निम्नवत् है-



उपर्युक्त हल से स्पष्ट है कि आकृति में वृत्तों की सं. = 23

Type-6: रेखाओं/पंक्तियों की गणना पर आधारित प्रश्न

96. What is the minimum number of straight lines required to make the following figure?
निम्न आकृति को बनाने के लिये न्यूनतम संख्या में कितनी सीधी रेखाओं की आवश्यकता होगी?

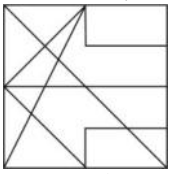

(a) 15 (b) 18
(c) 13 (d) 10

MP Police Constable Exam 17 July 2016 - 9:am

Ans : (c) प्रश्न आकृति को बनाने के लिए न्यूनतम 13 सीधी रेखा की आवश्यकता पड़ेगी।

97. How many straight lines are there in the following figures ?
निम्नलिखित आकृतियों में कितनी सीधी रेखाएँ हैं ?

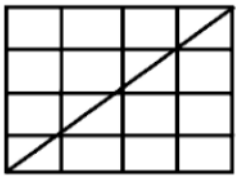

(a) 10 (b) 11
(c) 12 (d) 13

MP Police Constable Exam- 24 August-2023 Shift-3

Ans. (b) : दी गई आकृति से स्पष्ट है कि सीधी रेखाओं की कुल संख्या '11' है।

98. Find the number of straight lines in the given figure.
दी गई आकृति में सीधी रेखाओं की संख्या ज्ञात कीजिए।

(a) 8 (b) 9
(c) 10 (d) 7

MP Police Constable Exam- 28 August-2023 Shift-2

Ans. (b) : दी गई आकृति में सीधी रेखाओं की संख्या निम्नवत् है–

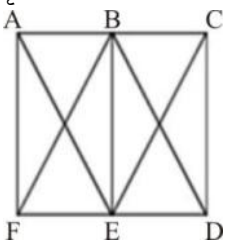

सीधी रेखाओं की संख्या ⇒ AF, BE, CD, AC, FD, AE, BF, BD, CE ⇒ 9

99. How many straight lines are there in the given figure?
दिए गए आकृति में कितनी सीधी रेखाएं है?

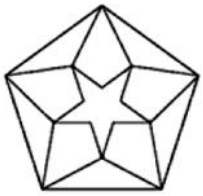

(a) 24 (b) 26
(c) 25 (d) 23

MP Police Constable Exam- 10 Sep-2023 Shift-2

Ans. (c) : प्रश्नानुसार,
दिए गए आकृति में सीधी रेखाओं की कुल संख्या '25' है।

100. Find the number of triangles in the given figure.
इस आकृति में त्रिभुज की संख्या ज्ञात कीजिए।

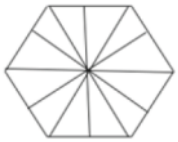

(a) 15 (b) 14
(c) 13 (d) 12

MP Police Constable Exam- 8 Jan-2022 Shift-2

Ans. (*) :

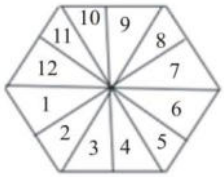

1 अंक से बने त्रिभुजों की संख्या = 12
2 अंकों से बने त्रिभुजों की संख्या = 6
अतः कुल Δ की संख्या = 12 + 6
= 18

GET IT ON Google Play Best Study PDF के लिए हमारी App को Download करें "GK Trick By Nitin Gupta"

101. How many triangles will be in the given figure?
दी गई आकृति में कितने त्रिभुज होंगे?

(a) 22 (b) 24
(c) 26 (d) 28

MP Police Constable Exam- 02 Feb-2022 Shift-1

Ans. (b) : दी गई आकृति

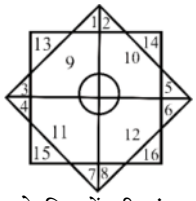

1 अकं से बने त्रिभुजों की संख्या = 1, 2, 3, 4, 5, 6, 7, 8, 9, 10, 11, 12, 13, 14, 15, 16 = 12
2 संख्याओं से मिलकर बने त्रिभुजों की संख्या = (1,2) (3,4) (5,6) (7,8) = 4
3 संख्यओं से मिलकर बनें त्रिभुजों की संख्या = (1,9,3) (2,10,5) (6,12,8) (7,12,4) = 4
6 संख्याओं से मिलकर बने त्रिभुजों की संख्या = (3, 9,1, 2, 10, 5) (2, 10, 5, 6, 12, 8) (6, 12, 8, 7, 11, 4) (7, 11, 4, 3, 9, 1) = 4
अतः कुल त्रिभुजों की संख्या = 12 + 4 + 4 + 4
= 24

102. How many triangles are in the given figure?
दी गई आकृति में कितने त्रिभुज हैं?

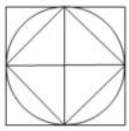

(a) 12 (b) 14
(c) 16 (d) 18

MP Police Constable Exam- 09 Feb-2022 Shift-1

Ans. (a) : प्रश्नानुसार,

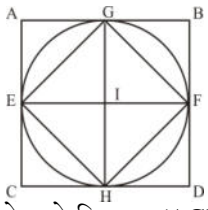

उपरोक्त आकृति में बनने वाले त्रिभुज = (AGE), (GBF), (FDH), (HCE), (EIG), (GIF), (FIH), (HIE), (EGH), (GHF), (EGF), (EHF) = 12

103. Find the number of triangles in the given figure.
इस आकृति में त्रिभुज की संख्या ज्ञात कीजिए।

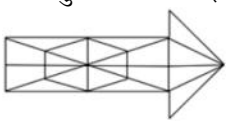

(a) 28 (b) 29
(c) 27 (d) 30

MP Police Constable Exam- 10 Jan -2022 Shift-2

Ans. (*) :

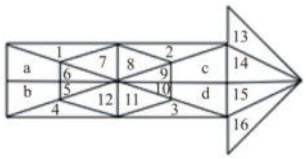

कुल त्रिभुज = 1, 2, 3, 4, 5, 6, 7, 8, 9, 10, 11, 12, 13, 14, 15, 16, (1, 7), (8, 2) (9, c), (10, d), (11, 3), (12, 4), (b, 5), (a, 6), (5, 6), (9, 10), (13, 14), (15, 16), (14, 15), (13, 14, 15), (14, 15, 16), (a, b, 6, 5), (1, 7, 8, 2), (9, 10, c, d), (4, 12, 11, 3), (13, 14, 15, 16), (1, 7, 8, 2, 9, 10, c, d) (a, b, 4, 5, 6, 12, 11, 3), (a, b, 5, 6, 1, 7, 8, 2), (4, 12, 11, 3, 9, 10, c, d) = 40
नोट - आयोग द्वारा इस प्रश्न का उत्तर विकल्प (b) को माना गया है।

104. What is the minimum number of straight lines required to make the following figure?
निम्न आकृति को बनाने के लिए न्यूनतम संख्या में कितनी सीधी रेखाओं की आवश्यकता होगी?

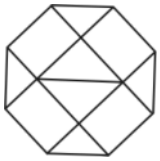

(a) 10 (b) 13
(c) 15 (d) 9

MP Police Constable Exam 19 July 2016 - 9:am

Ans : (b)

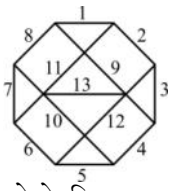

अतः दी गई आकृति बनाने के लिए न्यूनतम 13 सीधी रेखाओं की आवश्यकता होगी।

105. What is the minimum number of straight lines required to make the following figure?
निम्न आकृति को बनाने के लिये न्यूनतम संख्या में कितनी सीधी रेखाओं की आवश्यकता होगी?

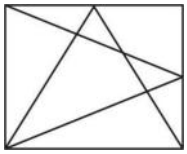

(a) 6 (b) 7
(c) 8 (d) 9

MP Police Constable Exam- 26 July-2016 - 9: am

Ans : (c)

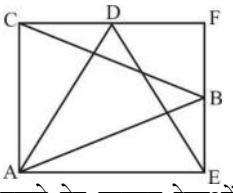

दी गयी आकृति को बनाने हेतु न्यूनतम रेखाओं की संख्या = AC, AE, AB, AD, EF, FC, BC, ED अर्थात् = 8

GET IT ON Google Play Best Study PDF के लिए हमारी App को Download करें "GK Trick By Nitin Gupta"

106. Find the number of triangles in the given figure.
इस आकृति में त्रिभुज की संख्या ज्ञात कीजिए।

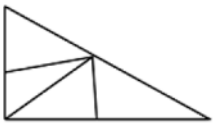

(a) 8 (b) 6
(c) 7 (d) 9

MP Police Constable Exam- 20 August-2023 Shift-2

Ans. (c) : प्रश्नानुसार,
1 अंकों से बना Δ = 4
2 अंकों से बना Δ = (1, 2), (3, 4) = 2
सभी अंकों से बना Δ = 1
कुल त्रिभुजों की संख्या = 4 + 2 + 1 = 7

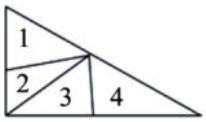

107. Find the number of triangles in the given figure.
इस आकृति में त्रिभुज की संख्या ज्ञात कीजिए।

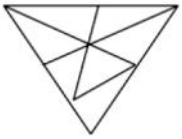

(a) 11 (b) 10
(c) 12 (d) 9

MP Police Constable Exam- 20 August-2023 Shift-2

Ans. (b) : प्रश्नानुसार,
1 अंकों से बना Δ = 1, 2, 3, 4, 5 = 5
2 अंकों से बना Δ = (1, 2) = 1
3 अंकों से बना Δ = (1, 2, 3), (2, 3, 4), (4, 5, 6) = 3
सभी अंकों से बना Δ = 1
कुल त्रिभुजों की संख्या = 5 + 1 + 3 + 1 = 10

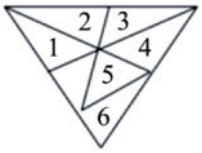

108. What is the minimum number of straight lines required to make the following figure?
निम्न आकृति को बनाने के लिये न्यूनतम संख्या में कितनी सीधी रेखाओं की आवश्यकता होगी?

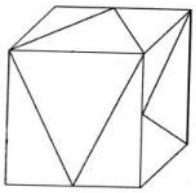

(a) 15 (b) 25
(c) 21 (d) 27

MP Police Constable Exam 25 July 2016 - 9:am

Ans : (a) आकृति को बनाने के लिए न्यूनतम 15 सीधी रेखाओं की आवश्यकता होगी।

109. What is the minimum number of straight lines required to make the following figure?
निम्न आकृति को बनाने के लिए न्यूनतम संख्या में कितनी सीधी रेखाओं की आवश्यकता होगी?

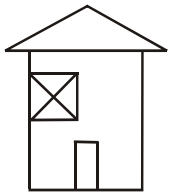

(a) 14 (b) 17
(c) 21 (d) 24

MP Police Constable Exam- 20 July-2016 - 9: am

Ans : (a) आकृति :
आकृति में न्यूनतम सीधी रेखाओं की संख्या

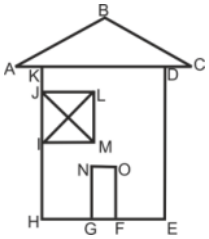

= AB, BC, CA, DE, EH, HK, JL, LM MI, JM, LI, GN, NO, OF
अतः न्यूनतम सीधी रेखाओं की संख्या = 14

110. What is the minimum number of straight lines required to make the following figure?
निम्न आकृति को बनाने के लिये न्यूनतम संख्या में कितनी सीधी रेखाओं की आवश्यकता होगी?

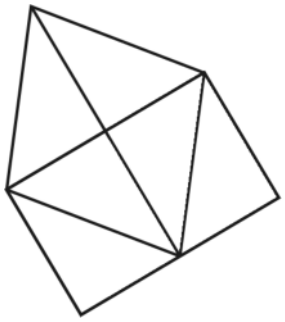

(a) 8 (b) 11
(c) 10 (d) 9

MP Police Constable Exam 24 July 2016 - 9:am

Ans : (d)

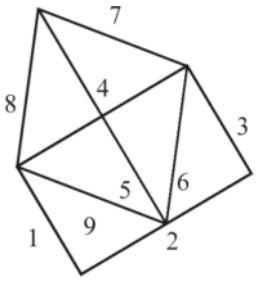

अतः स्पष्ट है कि दी गयी आकृति को बनाने के लिए न्यूनतम 9 सीधी रेखाओं की आवश्यकता होगी।

GET IT ON Google Play Best Study PDF के लिए हमारी App को Download करें "GK Trick By Nitin Gupta"

भाग-19.

जल एवं दर्पण प्रतिबिम्ब
(Water and Mirror Image)

Type-1: आकृतियों के दर्पण प्रतिबिम्ब पर आधारित प्रश्न

1. Which answer figure is the exact mirror image of the given question figure when the mirror is held from the right ?
कौन-सी उत्तर आकृति दी गई प्रश्न आकृति की सटीक दर्पण छवि है जब दर्पण को दाईं ओर स्थापित किया गया है?



(a)
(b)
(c)
(d)

MP Police Constable Exam- 19 August-2023 Shift-2

Ans. (c) : प्रश्नानुसार,

अतः प्रश्न आकृति का सही दर्पण प्रतिबिम्ब विकल्प (c) की आकृति होगी।

2. If the mirror is placed on the line, then which of the answer figure is the right mirror image/jpg of the given figure ?
यदि एक दर्पण को दर्शाई गई रेखा पर रखा जाये, तो दी गई विकल्प आकृतियों में से कौन-सी सही दर्पण छवि होगी?

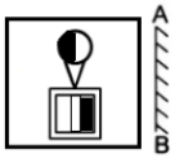

(a)
(b)
(c)
(d)

MP Police Constable Exam- 24 August-2023 Shift-2

Ans. (a) : दी गयी आकृति का दर्पण प्रतिबिम्ब उत्तर आकृति (a) होगा।

3. Which answer figure is the exact mirror image/jpg of the given question figure when mirror is held at PQ?
गई उत्तर आकृतियों में से कौन-सी दी गई आकृति का सही प्रतिबिम्ब है जब दर्पण को PQ पर रखा जाए?

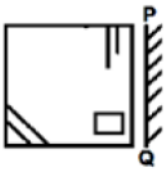

(a)
(b)
(c)
(d)

MP Police Constable Exam- 8 Sep-2023 Shift-2

Ans. (c) : दी गई प्रश्न आकृति का दर्पण प्रतिबिम्ब उत्तर आकृति विकल्प (c) होगा।

4. From the given alternatives select the one which is the mirror image/jpg of given Question Figure.
दिए गए विकल्पों में से, उस आकृति का चयन करें जो दिए गए प्रश्न आकृति का दर्पण प्रतिबिम्ब है।

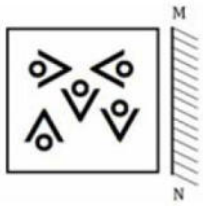

GET IT ON Google Play Best Study PDF के लिए हमारी App को Download करें "GK Trick By Nitin Gupta"

(a) (b)

(c) (d)

MP Police Constable Exam- 9 Sep-2023 Shift-3

Ans. (c) : प्रश्नानुसार,

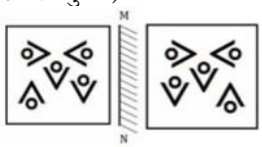

उपर्युक्त से स्पष्ट है कि आकृति का सही दर्पण प्रतिबिम्ब विकल्प (c) की आकृति होगी।
अतः विकल्प (c) सही उत्तर होगा।

5. Select the mirror image/jpg of the given figure when the mirror is placed vertically to the right of the figure.
दी गई आकृति की दर्पण छवि का चयन करें जब दर्पण को आकृति के दाईं ओर लंबवत रखा गया है।

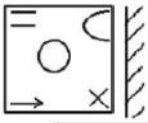

(a) (b)

(c) (d) 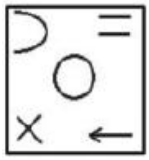

MP Police Constable Exam- 5 Sep -2023 Shift-1

Ans. (d) : दी गई प्रश्न आकृति का दर्पण प्रतिबिम्ब उत्तर आकृति (d) होगी।

6. Select the correct mirror image/jpg of the given figure when the mirror is placed on the right of the figure.
दर्पण को नीचे दी गई आकृति के दायीं और रखने पर बनने वाली सही प्रतिबिम्ब का चयन कीजिए।

(a) (b)

(c) (d)

MP Police Constable Exam- 8 Sep-2023 Shift-2

Ans. (c) : दी गयी प्रश्न आकृति का दर्पण प्रतिबिम्ब उत्तर आकृति विकल्प (c) होगा।

7. Select the correct mirror image/jpg of the given figure when the mirror is placed on the right of the figure.
दी गई आकृति की सही दर्पण छवि का चयन करें जब दर्पण को आकृति की दाईं ओर स्थापित किया जाता है।

(a) (b)

(c) (d)

MP Police Constable Exam- 18 August-2023 Shift-1

Ans. (b) : दिये गये प्रश्न आकृति का सही दर्पण प्रतिबिंब उत्तर आकृति विकल्प (b) होगी।

8. If a mirror is placed on the line AB, then which of the answer figures is the right image/jpg of the given figure?
यदि एक दर्पण को रेखा AB पर स्थापित किया जाता है, तो कौन-सी उत्तर आकृति दी गई आकृति की सही छवि होगी?

(a) (b)

(c) (d)

MP Police Constable Exam- 18 August-2023 Shift-1

Ans. (b) : दिये गये प्रश्न आकृति का सही दर्पण प्रतिबिंब उत्तर आकृति विकल्प (b) होगी।

9. A mirror is placed on the line MN then which of the given alternative figures is the right mirror image/jpg of the given question figure?

GET IT ON Google Play Best Study PDF के लिए हमारी App को Download करें "GK Trick By Nitin Gupta"

एक दर्पण को रेखा MN पर स्थापित किया जाता है तो ज्ञात करें कि दिए गए विकल्पों में से कौन-सी आकृति दी गई प्रश्न आकृति की सही दर्पण छवि है?

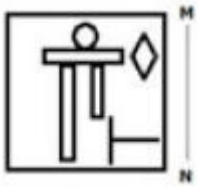

(a)
(b)
(c)
(d)

MP Police Constable Exam- 18 August-2023 Shift-1

Ans. (b) : दिये गये प्रश्न आकृति का सही दर्पण प्रतिबिंब उत्तर आकृति विकल्प (b) होगी।

10. Select the correct mirror image/jpg of the given figure when a vertical mirror is placed on the right of the figure.
दी गई आकृति की सही दर्पण छवि का चयन करें जब आकृति की दाईं ओर एक ऊर्ध्वाधर दर्पण को स्थापित किया जाता है।

(a)
(b)
(c)
(d)

MP Police Constable Exam- 19 August-2023 Shift-2

Ans. (b) : प्रश्नानुसार,

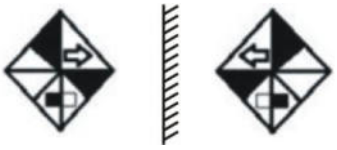

अतः प्रश्न आकृति का सही दर्पण प्रतिबिम्ब विकल्प (b) की आकृति होगी।

11. A mirror is placed on the line MN then which of the given alternative figures is the right mirror image/jpg of the given question figure?
एक दर्पण को रेखा MN पर स्थापित किया जाता है तो ज्ञात करें कि दिए गए विकल्पों में से कौन-सी आकृति दी गई प्रश्न आकृति की सही दर्पण छवि है?

(a)
(b)
(c)
(d)

MP Police Constable Exam- 18 August-2023 Shift-1

Ans. (c) : दिये गये प्रश्न आकृति का सही दर्पण प्रतिबिंब उत्तर आकृति विकल्प (c) होगी।

12. A mirror is placed on the line MN then which of the given alternative figures is the right mirror image/jpg of the given question figure?
एक दर्पण को रेखा MN पर स्थापित किया जाता है तो ज्ञात करें कि दिए गए विकल्पों में से कौन-सी आकृति दी गई प्रश्न आकृति की सही दर्पण छवि है?



(a)
(b)
(c) 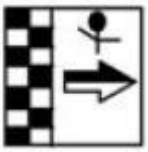
(d)

MP Police Constable Exam- 18 August-2023 Shift-1

Ans. (d) : दिये गये प्रश्न आकृति का सही दर्पण प्रतिबिंब उत्तर आकृति विकल्प (d) होगी।

13. Select the mirror image/jpg of the given figure when the mirror is placed to the right of the figure.
दी गई आकृति की दर्पण छवि का चयन करें जब दर्पण को आकृति की दाईं ओर स्थापित किया जाता है।

GET IT ON Google Play Best Study PDF के लिए हमारी App को Download करें "GK Trick By Nitin Gupta"

(a) (b)

(c) (d)

MP Police Constable Exam- 12 August-2023 Shift-2

Ans. (d) : दिए गए प्रश्न आकृति का सही दर्पण छवि विकल्प (d) की उत्तर आकृति होगी।

14. Select the correct mirror image/jpg of the given figure when the mirror is placed to the right of the figure.

दी गई आकृति की सही दर्पण छवि का चयन करें जब दर्पण को आकृति की दाईं ओर स्थापित किया जाता है।

(a) (b)

(c) (d)

MP Police Constable Exam- 13 August-2023 Shift-1

Ans. (b) : प्रश्नानुसार, दी गई प्रश्न आकृति का सही दर्पण प्रतिबिंब विकल्प (b) में दिया है। अतः विकल्प (b) सही है।

15. If the mirror is placed on the line, then which of the answer figure is the right mirror image/jpg of the given figure ?

यदि एग दप्रण को दर्शाई गई रेखा पर रखा जाये, तो दी गई विकल्प आकृतियों में से कौन-सी सही दर्पण छवि होगी?

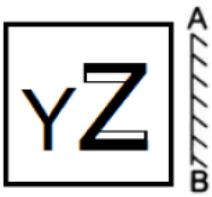

(a) (b)

(c) (d)

MP Police Constable Exam- 23 August-2023 Shift-2

Ans. (a) : प्रश्न में दी गई आकृति का सही दर्पण छवि विकल्प (a) है।

16. Select the correct mirror of the given figure when the mirror is placed on the right of the figure.

दी गई आकृति की सही दर्पण छवि का चयन करें जब दर्पण को आकृति की दाईं ओर स्थापित किया जाता है।

(a) (b)

(c) (d)

MP Police Constable Exam- 13 August-2023 Shift-2

Ans. (b) : प्रश्न में दी गई आकृति का सही दपर्ण प्रतिबिम्ब विकल्प (b) में दी गई आकृति बनेगी।

17. If a mirror is placed on the line CD, then which of the answer figure is the right image/jpg of the figure?

उत्तर आकृतियों में कौन-सी आकृति प्रश्न आकृति का सही प्रतिबिम्ब होगी जब दर्पण CD रेखा पर रखा हो?

(a) (b) 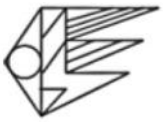

(c) (d) 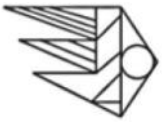

MP Police Constable Exam- 10 Sep-2023 Shift-1

GET IT ON Google Play Best Study PDF के लिए हमारी App को Download करें "GK Trick By Nitin Gupta"

Ans. (c) : दी गयी प्रश्न आकृति का दर्पण प्रतिबिम्ब विकल्प (c) में दी गयी आकृति होगी। अतः, विकल्प (c) सही उत्तर है।

18. Which of the answer figures is the right water image/jpg of the given figure?
दी गई उत्तर आकृतियों में से कौन-सी आकृति प्रश्न आकृति की सही जल प्रतिबिम्ब होगी?

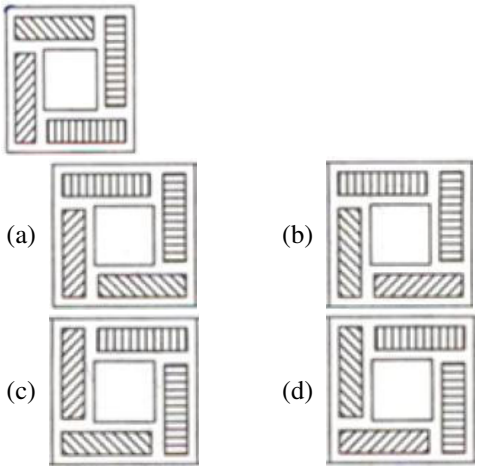

MP Police Constable Exam- 12 Sep-2023 Shift-2

Ans. (d) : प्रश्न आकृति के अवलोकन से स्पष्ट है कि विकल्प 'd' की आकृति प्रश्न आकृति का जल प्रतिबिंब होगा।

19. Which of the options is the exact mirror image/jpg of the given figure when the mirror is held at the right side?
कौन-सा विकल्प दी गई आकृति का सटीक दर्पण प्रतिबिंब है, जब दर्पण को दाईं ओर रखा जाता है?

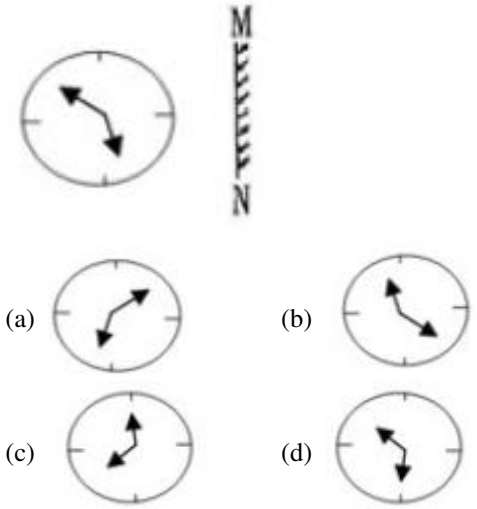

MP Police Constable Exam- 16 August-2023 Shift-1

Ans. (a) : दी गई प्रश्न आकृति का दर्पण प्रतिबिम्ब विकल्प (a) में दी गई उत्तर आकृति होगी।

20. If the mirror is placed on the line, then which of the answer figure is the right mirror image/jpg of the given figure ?
यदि एक दर्पण को दर्शाई गई रेखा पर रखा जाये, तो दी गई विकल्प आकृतियों में से कौन-सी सही दर्पण छवि होगी ?

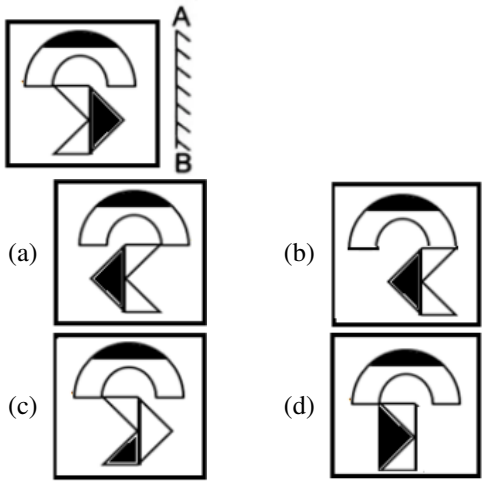

MP Police Constable Exam- 23 August-2023 Shift-3

Ans. (a) : दी गयी आकृति को AB दर्पण पर रखने पर सही प्रतिबिम्ब उत्तर आकृति (a) होगा।

21. If the mirror is placed on the line, then which of the answer figure is the right mirror image/jpg of the given figure ?
यदि एक दर्पण को दर्शाई गई रेखा पर रखा जाये, तो दी गई विकल्प आकृतियों में से कौन-सी सही दर्पण छवि होगी ?

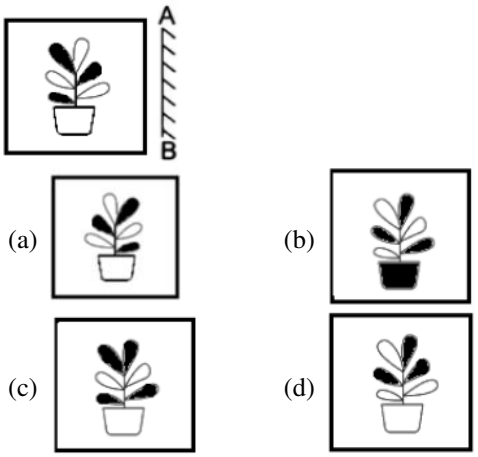

MP Police Constable Exam- 25 August-2023 Shift-1

Ans. (a) : दिखाए अनुसार जब दर्पण को रेखा AB पर रखा जाए तो प्रश्न आकृति का सही दर्पण प्रतिबिम्ब विकल्प आकृति (a) के जैसी बनेगी।

22. Which of the options is the exact mirror image/jpg of the given figure when the mirror is held at the right side?
कौन-सा विकल्प दी गई आकृति की सही दर्पण छवि है जब दर्पण को दाईं ओर स्थापित किया जाता है?

GET IT ON Google Play Best Study PDF के लिए हमारी App को Download करें "GK Trick By Nitin Gupta"

(a) (b)

(c) (d)

MP Police Constable Exam- 17 August-2023 Shift-2

Ans. (d) : जब दी गई आकृति से दाई ओर दर्पण को रखा जाता है तो आकृति का सही प्रतिबिम्ब विकल्प (d) में दी गई आकृति है।

23. Which of the options is the exact mirror image/jpg of the given figure when the mirror is held at the right side?
कौन-सा विकल्प दी गई आकृति की सही दर्पण छवि है जब दर्पण को दाईं ओर स्थापित किया जाता है?

(a) (b) 

(c)  (d) 

MP Police Constable Exam- 17 August-2023 Shift-2

Ans. (c) : दी गई आकृति के दाईं ओर दर्पण को रखने पर विकल्प (c) में दी गई आकृति सही दर्पण प्रतिबिम्ब है।

24. Select the correct mirror of the given figure when the mirror is placed on the right of the figure.
दी गई आकृति की सही दर्पण छवि का चयन करें जब दर्पण को आकृति की दाईं ओर स्थापित किया जाता है।

(a) (b)

(c) (d)

MP Police Constable Exam- 17 August-2023 Shift-2

Ans. (c) : दी गई आकृति के दाईं ओर दर्पण रखा जाता है तो सही दर्पण प्रतिबिम्ब विकल्प (c) में दी आकृति बनेगी।

25. Select the correct mirror image/jpg of the given figure when the mirror is placed to the right of the figure.
दी गई आकृति की सही दर्पण छवि का चयन करें जब दर्पण को आकृति की दाईं ओर स्थापित किया जाता है।

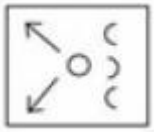

(a) (b) 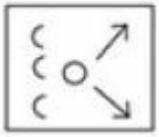

(c) 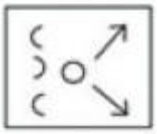 (d)

MP Police Constable Exam- 17 August-2023 Shift-2

Ans. (a) : दी गई आकृति के दाईं ओर दर्पण को रखने पर विकल्प (a) में दी गई आकृति सही दर्पण प्रतिबिम्ब है।

26. Select the correct mirror image/jpg of the given figure when the mirror is placed on the right of the figure.
दी गई आकृति की सही दर्पण छवि का चयन करें जब दर्पण को आकृति के दाईं ओर रखा गया हो?

(a) 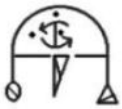 (b) 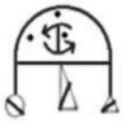

(c) 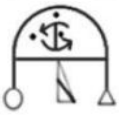 (d)

MP Police Constable Exam- 6 Sep-2023 Shift-3

Ans. (d) : प्रश्नानुसार, दी गई आकृति का सही दर्पण छवि विकल्प (d) की उत्तर आकृति होगी।

27. Which of the options is the exact mirror image/jpg of the given figure when the mirror is held at the right side?
कौन-सा विकल्प दी गई आकृति की सही दर्पण छवि है जब दर्पण को दाईं ओर स्थापित किया जाता है?

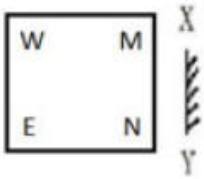

GET IT ON Google Play Best Study PDF के लिए हमारी App को Download करें "GK Trick By Nitin Gupta"

(a)

(b) 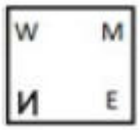

(c)

(d) 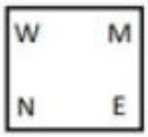

MP Police Constable Exam- 16 August-2023 Shift-3

Ans. (c) : दिये गये चित्र का सही दर्पण छवि विकल्प (c) में दिया गया है।

28. Which of the options is the exact mirror image/jpg of the given figure when the mirror is held at the right side?
कौन-सा विकल्प दी गई आकृति की सही दर्पण छवि है जब दर्पण को दाईं ओर स्थापित किया जाता है?

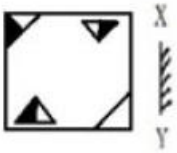

(a)

(b)

(c)

(d)

MP Police Constable Exam- 16 August-2023 Shift-3

Ans. (d) : दिये गये चित्र का सही दर्पण छवि विकल्प (d) में दिया गया है।

29. Select the correct mirror image/jpg of the given figure when the mirror is placed on the right of the Figure.
दी गई आकृति की सही दर्पण छवि का चयन करें जब दर्पण को आकृति की दाईं ओर स्थापित किया जाता है।



(a) 

(b) 

(c)

(d)

MP Police Constable Exam- 16 August-2023 Shift-3

Ans. (a) : दिये गये चित्र का सही दर्पण छवि विकल्प (a) में दिया गया है।

30. Select the correct mirror image/jpg of the given figure when the mirror is placed to the right of the figure?
दी गई आकृति की सही दर्पण छवि का चयन करें जब दर्पण को आकृति की दाईं ओर स्थापित किया जाता है।

(a)

(b)

(c)

(d)

MP Police Constable Exam- 16 August-2023 Shift-3

Ans. (a) : दिये गये चित्र का सही दर्पण छवि विकल्प (a) में दिया गया है।

31. Select the correct mirror image/jpg of the given figure when the mirror is placed on the right of the figure.
दर्पण को नीचे दी गई आकृति के दायीं ओर रखने पर बनने वाले सही प्रतिबिम्ब का चयन करें।

(a) 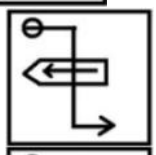

(b) 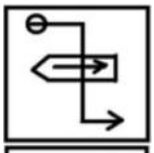

(c) 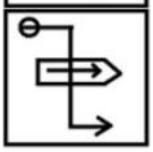

(d) 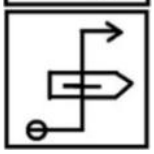

MP Police Constable Exam- 4 Sep-2023 Shift-3

Ans. (b) : प्रश्नानुसार,

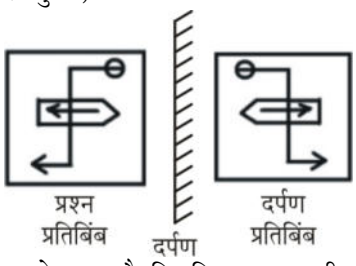

उपर्युक्त व्याख्या से स्पष्ट है कि विकल्प (b) की आकृति, प्रश्न आकृति की सही दर्पण प्रतिबिंब है।

GET IT ON Google Play Best Study PDF के लिए हमारी App को Download करें "GK Trick By Nitin Gupta"

32. If a mirror is placed on the line MN, then which of the answer figures is the correct mirror image/jpg of the given figure?
यदि एक दर्पण को MN रेखा पर रखा जाता है, तो कौन-सी उत्तर आकृति दी गई आकृति की सही छवि है?

(a)
(b)
(c)
(d)

MP Police Constable Exam- 9 Sep-2023 Shift-2

Ans. (d) : दी गई प्रश्न आकृति की दर्पण छवि विकल्प (d) में दी गई उत्तर आकृति होगी।

33. If a mirror is placed on the line MN, then which of the answer figures is the right image/jpg of the given figure?
यदि रेखा MN पर एक दर्पण रखा जाए, तो नीचे दी गई उत्तर आकृतियों में से कौन-सी आकृति प्रश्न आकृति का सही प्रतिबिंब होगी?

(a)
(b)
(c)
(d)

MP Police Constable Exam- 14 August-2023 Shift-3

Ans. (c) : दी गयी आकृति का सही दर्पण प्रतिबिम्ब विकल्प (c) में दी गयी आकृति होगी।

34. If the mirror is placed on the line, then which of the answer figure is the right mirror image of the given figure?
यदि एक दर्पण को दर्शाई गई रेखा पर रखा जाये, तो दी गई विकल्प आकृतियों में से कौन-सी सही दर्पण छवि होगी ?

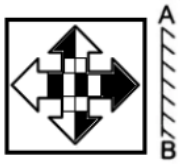

(a)
(b)
(c)
(d)

MP Police Constable Exam- 23 August-2023 Shift-1

Ans. (d) : दी गई प्रश्न आकृति का दर्पण छवि उत्तर विकल्प आकृति (d) की तरह होगा। अतः विकल्प (d) सही उत्तर है।

35. Select the correct mirror image/jpg of the given figure when the mirror is placed at the right side.
दर्पण को नीचे दी गई आकृति के दायीं और रखने पर बनने वाले सही प्रतिबिम्ब का चयन कीजिए।

(a)
(b)
(c) 
(d)

MP Police Constable Exam- 8 Sep-2023 Shift-1

Ans. (d) : प्रश्न आकृति के दायीं ओर दर्पण रखने पर बनने वाला सही प्रतिबिम्ब विकल्प (d) की आकृति के समान होगा।

36. Which answer figure is the exact mirror image/jpg of the given question figure when mirror is held at PQ?
दी गई उत्तर आकृतियों में से कौन-सी दी गई आकृति का सही प्रतिबिम्ब है जब दर्पण को PQ पर रखा जाए?

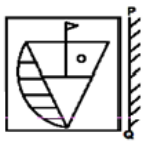

(a)
(b) 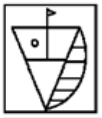
(c)
(d) 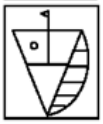

MP Police Constable Exam- 8 Sep-2023 Shift-1

GET IT ON Google Play Best Study PDF के लिए हमारी App को Download करें "GK Trick By Nitin Gupta"

Ans. (d) : जब दर्पण को PQ पर रखा जाता है तब दी गयी प्रश्न आकृति का सही दर्पण प्रतिबिम्ब विकल्प (d) की आकृति के समान प्राप्त होगी।

37. Select the correct mirror of the given figure when the mirror is placed on the right of the figure.
दी गई आकृति की सही दर्पण छवि का चयन करें जब दर्पण को आकृति की दाईं ओर स्थापित किया जाता है।

(a) 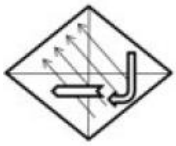
(b)
(c)
(d)

MP Police Constable Exam- 13 August-2023 Shift-3

Ans. (b) : प्रश्नानुसार प्रश्न छवि का दर्पण छवि निम्नवत् है-

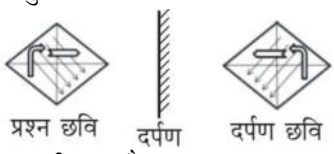

अतः विकल्प (b) सही उत्तर है।

38. If a mirror is placed on the line AB, then which of the answer figures is the right image/jpg of the given figure?
यदि रेखा AB पर एक दर्पण स्थापित किया जाता है, तो कौन-सी उत्तर आकृति दी गई आकृतियों में से सही छवि है?

(a)
(b)
(c)
(d)

MP Police Constable Exam- 18 August-2023 Shift-2

Ans. (b) : प्रश्नानुसार, दी गई प्रश्न आकृति का सही दर्पण प्रतिबिंब विकल्प (b) की आकृति में है। अतः विकल्प (b) सही है।

39. If the mirror is placed on the line, then which of the answer figure is the right mirror image/jpg of the given figure ?
यदि एक दर्पण को दर्शाई गई रेखा पर रखा जाये, तो दी गई विकल्प आकृतियों में से कौन-सी सही दर्पण छवि होगी ?



(a)
(b)
(c)
(d)

MP Police Constable Exam- 25 August-2023 Shift-2

Ans. (b) : दी गई आकृति का सही दर्पण प्रतिबिम्ब उत्तर आकृति विकल्प (b) होगी।

40. Find the mirror image/jpg of the following figure ?
दी गयी आकृति का दर्पण प्रतिबिम्ब ज्ञात कीजिए ?

(a)
(b)
(c)
(d)

MP Police Constable Exam- 4 Sep-2023 Shift-2

Ans. (c) : दी गई प्रश्न आकृति का सही दर्पण प्रतिबिम्ब विकल्प आकृति (c) होगा।
∴ विकल्प (c) सही है।

41. If the mirror is placed on the line, then which of the answer figure is the right mirror image/jpg of the given figure?
यदि एक दर्पण को दर्शाई गई रेखा पर रखा जाये, तो दी गई विकल्प आकृतियों में से कौन-सी सही दर्पण छवि होगी?

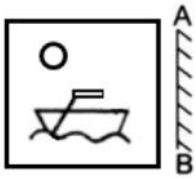

GET IT ON Google Play Best Study PDF के लिए हमारी App को Download करें "GK Trick By Nitin Gupta"

(a) (b)

(c) (d)

MP Police Constable Exam- 18 August-2023 Shift-2

Ans. (a) : प्रश्नानुसार, दी गई प्रश्न आकृति का सही दर्पण प्रतिबिंब विकल्प (a) की आकृति में है। अतः विकल्प (a) सही है।

42. If the mirror is placed on the line, then which of the answer figure is the right mirror image/jpg of the given figure?
यदि एक दर्पण को दर्शाई गई रेखा पर रखा जाये, तो दी गई विकल्प आकृतियों में से कौन-सी सही दर्पण छवि होगी?

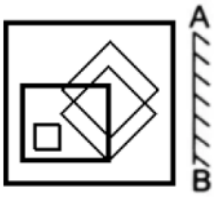

(a) (b)

(c) (d)

MP Police Constable Exam- 18 August-2023 Shift-2

Ans. (b) : प्रश्नानुसार, दी गई प्रश्न आकृति का सही दर्पण प्रतिबिंब विकल्प (b) की आकृति में है। अतः विकल्प (b) सही है।

43. A mirror is placed on the line MN then which of the given alternative figures is the right mirror image/jpg of the given question figure?
एक दर्पण को रेखा MN पर स्थापित किया जाता है तो ज्ञात करें कि दिए गए विकल्पों में से कौन-सी आकृति दी गई प्रश्न आकृति की सही दर्पण छवि है?

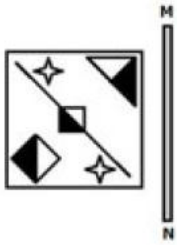

(a) (b)

(c) (d)

MP Police Constable Exam- 18 August-2023 Shift-2

Ans. (c) : प्रश्नानुसार, दी गई प्रश्न आकृति का सही दर्पण प्रतिबिंब विकल्प (c) की आकृति में है। अतः विकल्प (c) सही है।

44. Select the correct mirror image/jpg of the given figure when the mirror is placed on the right of the figure.
दी गई आकृति की सही दर्पण छवि का चयन करें जब दर्पण को आकृति की दाईं ओर स्थापित किया जाता है।

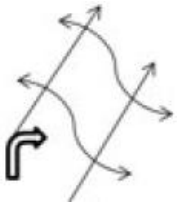

(a) (b) 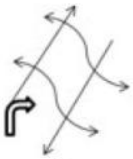

(c) 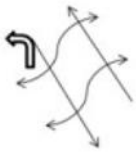 (d) 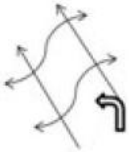

MP Police Constable Exam- 18 August-2023 Shift-2

Ans. (d) : प्रश्नानुसार, दी गई प्रश्न आकृति का सही दर्पण प्रतिबिंब विकल्प (d) की आकृति में है। अतः विकल्प (d) सही है।

45. If the mirror is placed on the line, then which of the answer figure is the right mirror image/jpg of the given figure?/यदि एक दर्पण को दर्शाई गई रेखा पर रखा जाये, तो दी गई विकल्प आकृतियों में से कौन-सी सही दर्पण छवि होगी ?

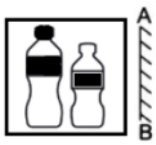

(a) (b)

(c)  (d) 

MP Police Constable Exam- 24 August-2023 Shift-3

Ans. (a) : दी गई आकृति का दर्पण प्रतिबिम्ब उत्तर आकृति (a) होगा।

GET IT ON Google Play Best Study PDF के लिए हमारी App को Download करें "GK Trick By Nitin Gupta"

46. If a mirror is placed on the line AB, then which of the answer figure is the right image/jpg of the given figure?
उत्तर आकृतियों में कौन-सी आकृति प्रश्न आकृति का सही प्रतिबिम्ब होगी जब दर्पण AB रेखा पर रखा हो?

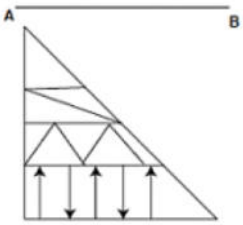

(a) 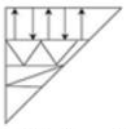
(b) 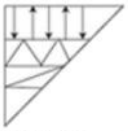
(c) 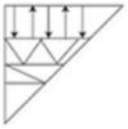
(d) 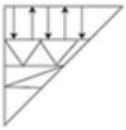

MP Police Constable Exam- 11 Sep-2023 Shift-2

Ans. (d) : प्रश्नानुसार,
दी गई प्रश्न आकृति का सही दर्पण प्रतिबिम्ब विकल्प (d) की आकृति होगी।
अतः विकल्प (d) सही उत्तर होगा।

47. A mirror is placed on the line MN then which of the given alternative figures is the right mirror image/jpg of the given question figure?
एक दर्पण को रेखा MN पर स्थापित किया जाता है तो ज्ञात करें कि दिए गए विकल्पों में से कौन-सी आकृति दी गई प्रश्न आकृति की सही दर्पण छवि है?

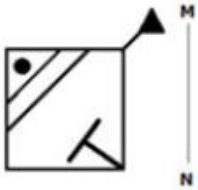

(a)
(b)
(c) 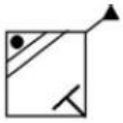
(d)

MP Police Constable Exam- 17 August-2023 Shift-3

Ans. (d) : दिये गये चित्र का सही दर्पण छवि विकल्प (d) में दिया गया है।

48. Select the correct mirror image/jpg of the given figure when the mirror is placed on the right of the figure.
दी गई आकृति की सही दर्पण छवि का चयन करें जब दर्पण को आकृति की दाईं ओर स्थापित किया जाता है।

(a)
(b)
(c)
(d)

MP Police Constable Exam- 17 August-2023 Shift-3

Ans. (c) : दिये गये चित्र का सही दर्पण छवि विकल्प (c) में दिया गया है।

49. If a mirror is placed on the line AB, then which of the answer figures is the right image/jpg of the given figure?
यदि एक दर्पण को रेखा AB पर स्थापित किया जाता है, तो कौन-सी उत्तर आकृति दी गई आकृति की सही छवि है?

(a)
(b)
(c)
(d)

MP Police Constable Exam- 17 August-2023 Shift-3

Ans. (d) : दिये गये चित्र का सही दर्पण छवि विकल्प (d) में दिया गया है।

50. A mirror is placed on the line MN then which of the given alternative figures is the right mirror image/jpg of the given question figure?
एक दर्पण को रेखा MN पर स्थापित किया जाता है तो ज्ञात करें कि दिए गए विकल्पों में से कौन-सी आकृति दी गई प्रश्न आकृति की सही दर्पण छवि है?

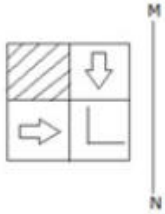

GET IT ON Google Play Best Study PDF के लिए हमारी App को Download करें "GK Trick By Nitin Gupta"

(a) 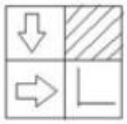 (b) 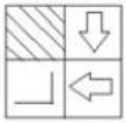

(c) 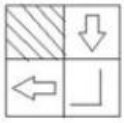 (d) 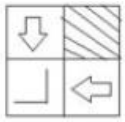

MP Police Constable Exam- 17 August-2023 Shift-3

Ans. (d) : दिये गये चित्र का सही दर्पण छवि विकल्प (d) में दिया गया है।

51. If a mirror is placed on the line AB, then which of the answer figure is the right image/jpg of the given figure?
उत्तर आकृतियों में कौन-सी आकृति प्रश्न आकृति का सही प्रतिबिम्ब होगी जब दर्पण AB रेखा पर रखा हो?



(a) (b)

(c) (d)

MP Police Constable Exam- 12 Sep-2023 Shift-1

Ans. (d) : प्रश्न में दी गई आकृति को जब दपर्ण AB रेखा पर रखा जाता है तो सही प्रतिबिम्ब विकल्प (d) में दी गई आकृति बनेगी।

52. If the mirror is placed on the line, then which of the answer figure is the right mirror image/jpg of the given figure?
यदि एक दर्पण को दर्शाई गई रेखा पर रखा जाये, तो दी गई विकल्प आकृतियों में से कौन-सी सही दर्पण छवि होगी?

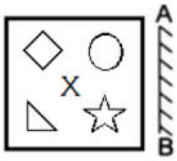

(a) (b)

(c) (d)

MP Police Constable Exam- 19 August-2023 Shift-3

Ans. (a) : प्रश्न आकृति के अवलोकन से स्पष्ट है कि विकल्प 'a' की आकृति प्रश्न आकृति की दर्पण प्रतिबिंब होगी।

53. Select the correct mirror of the given figure when the mirror is placed on the right of the figure.
दी गई आकृति की सही दर्पण छवि का चयन करें जब दर्पण को आकृति की दाईं ओर स्थापित किया जाता है।

(a) (b)

(c) (d)

MP Police Constable Exam- 19 August-2023 Shift-3

Ans. (a) : प्रश्न आकृति के अवलोकन से स्पष्ट है कि विकल्प 'a' की आकृति प्रश्न आकृति का दर्पण प्रतिबिंब है।

54. Select the correct mirror image/jpg of the given figure when the mirror is placed on the right of the figure.
दी गई आकृति की सही दर्पण छवि का चयन करें जब दर्पण को आकृति की दाईं ओर स्थापित किया जाता है।

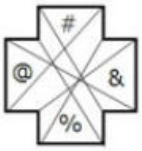

(a) (b) 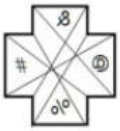

(c) 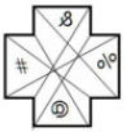 (d)

MP Police Constable Exam- 18 August-2023 Shift-3

Ans. (a) : दी गई आकृति का दर्पण प्रतिबिम्ब उत्तर आकृति (a) के अनुरूप बनेगी।

55. If a mirror is placed on the line AB, then which of the answer figures is the right image/jpg of the given figure?
यदि एक दर्पण को AB रेखा पर रखा जाता है, तो कौन-सी उत्तर आकृति, दी गयी आकृति की सही छवि होगी?



GET IT ON Google Play Best Study PDF के लिए हमारी App को Download करें "GK Trick By Nitin Gupta"

(a) (b)

(c)  (d)

MP Police Constable Exam- 18 August-2023 Shift-3

Ans. (a) : दी गई प्रश्न आकृति की दर्पण प्रतिबिम्ब उत्तर आकृति (a) के अनुरूप बनेगी।

56. What time is shown by the mirror if the real time is 9 : 27?
यदि वास्तविक समय 9 : 27 है तो दर्पण द्वारा कितना समय दिखाया जाता है?

(a) 3 : 33 (b) 2 : 33
(c) 3 : 27 (d) 2 : 23

MP Police Constable Exam- 19 August-2023 Shift-3

Ans. (b) : दिया गया है-
वास्तविक समय = 9 : 27
दर्पण समय = (11 : 60) – (9 : 27)
= 2 : 33
अतः विकल्प 'b' 2 : 33 सही उत्तर है।

57. If the mirror is placed on the line, then which of the answer figure is the right mirror image/jpg of the given figure?
यदि एक दर्पण को दर्शाई गई रेखा पर रखा जाये, तो दी गई विकल्प आकृतियों में से कौन-सी सही दर्पण छवि होगी?

(a) (b)

(c) (d)

MP Police Constable Exam- 19 August-2023 Shift-3

Ans. (a) : प्रश्न आकृति की दर्पण प्रतिबिंब विकल्प 'a' की आकृति होगी।

58. If the mirror is placed on the line, then which of the answer figure is the right mirror image/jpg of the given figure?/यदि एक दर्पण को दर्शाई गई रेखा पर रखा जाये, तो दी गई विकल्प आकृतियों में से कौन-सी सही दर्पण छवि होगी?

(a) (b)

(c) (d)

MP Police Constable Exam- 18 August-2023 Shift-3

Ans. (a) : दी गई प्रश्न आकृति का दर्पण प्रतिबिम्ब उत्तर आकृति (a) के अनुरूप बनेगी।

59. If the mirror is placed on the line, then which of the answer figure is the right mirror image/jpg of the given figure?
यदि एक दर्पण को दर्शाई गई रेखा पर रखा जाये, तो दी गई विकल्प आकृतियों में से कौन-सी सही दर्पण छवि होगी?

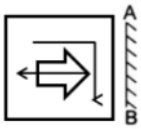

(a) (b)

(c) (d)

MP Police Constable Exam- 18 August-2023 Shift-3

Ans. (a) : दी गई प्रश्न आकृति का दर्पण प्रतिबिम्ब उत्तर आकृति (a) के अनुरूप बनेगी।

60. If a mirror is placed on the line AB, then which of the answer figures is the right image/jpg of the given figure?
यदि एक दर्पण को AB की रेखा पर रखा जाता है, तो दी गई आकृति में से कौन-सी उत्तर आकृति सही छवि है?

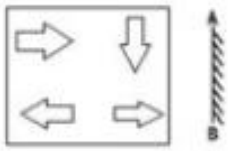

(a) 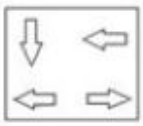 (b) 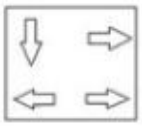

(c) 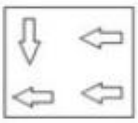 (d) 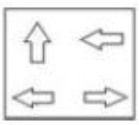

MP Police Constable Exam- 18 August-2023 Shift-3

Ans. (a) : प्रश्नानुसार दी गई आकृति का दर्पण प्रतिबिम्ब उत्तर आकृति (a) के अनुरूप बनेगी।

GET IT ON Google Play Best Study PDF के लिए हमारी App को Download करें "GK Trick By Nitin Gupta"

61. If the mirror is placed on the line, then which of the answer figure is the right mirror image/jpg of the given figure?
यदि एक दर्पण को दर्शाई गई रेखा पर रखा जाये, तो दी गई विकल्प आकृतियों में से कौन-सी सही दर्पण छवि होगी?

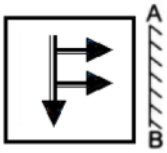

(a) 
(b)
(c) 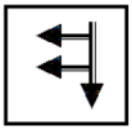
(d)

MP Police Constable Exam- 20 August-2023 Shift-3

Ans. (c) : दी गई आकृति का दर्पण AB पर सही प्रतिबिम्ब विकल्प (c) में दी गई आकृति बनेगी।

62. If the mirror is placed on the line, then which of the answer figure is the right mirror image/jpg of the given figure?
यदि एक दर्पण को दर्शाई गई रेखा पर रखा जाये, तो दी गई विकल्प आकृतियों में से कौन-सी सही दर्पण छवि होगी?



(a)
(b)
(c)
(d)

MP Police Constable Exam- 20 August-2023 Shift-3

Ans. (b) : दी गई आकृति का सही दर्पण प्रतिबिम्ब विकल्प (b) में दी गई आकृति बनेगी।

63. If the mirror is placed on the line, then which of the answer figure is the right mirror image/jpg of the given figure?
यदि एक दर्पण को दर्शाई गई रेखा पर रखा जाये, तो दी गई विकल्प आकृतियों में से कौन-सी सही दर्पण छवि होगी?

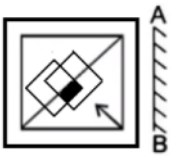

(a)
(b)
(c)
(d)

MP Police Constable Exam- 20 August-2023 Shift-1

Ans. (d) : दी गयी प्रश्न आकृति का सही दर्पण प्रतिबिम्ब विकल्प (d) में दी गयी आकृति होगी।

64. If the mirror is placed on the line, then which of the answer figure is the right mirror image/jpg of the given figure?
यदि एक दर्पण को दर्शाई गई रेखा पर रखा जाये, तो दी गई विकल्प आकृतियों में से कौन-सी सही दर्पण छवि होगी?

(a)
(b)
(c)
(d)

MP Police Constable Exam- 20 August-2023 Shift-1

Ans. (a) : दी गयी प्रश्न आकृति का सही दर्पण प्रतिबिम्ब विकल्प (a) में दी गयी आकृति होगी।

65. Select the correct mirror of the given figure when the mirror is placed on the right of the figure.
दी गई आकृति की सही दर्पण छवि का चयन करें जब दर्पण को आकृति की दाईं ओर स्थापित किया जाता है।

(a)
(b)
(c)
(d)

MP Police Constable Exam- 20 August-2023 Shift-1

Ans. (c) : दी गयी प्रश्न आकृति का सही दर्पण प्रतिबिम्ब विकल्प (c) में दी गयी उत्तर आकृति होगी।

GET IT ON Google Play Best Study PDF के लिए हमारी App को Download करें "GK Trick By Nitin Gupta"

66. Select the correct mirror image/jpg of the given figure when the mirror is placed to the right of the figure.
दी गई आकृति की सही दर्पण दवि का चयन करें जब दर्पण को आकृति के दाईं ओर स्थापित किया जाता है।

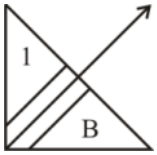

(a) 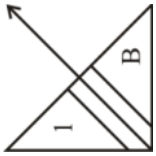

(b) 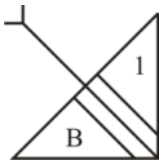

(c) 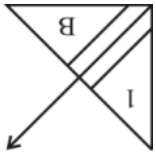

(d) 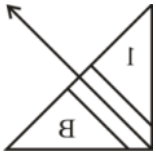

MP Police Constable Exam- 14 August-2023 Shift-2

Ans. (d) : दी गई आकृति की सही दर्पण छवि निम्नलिखित है।

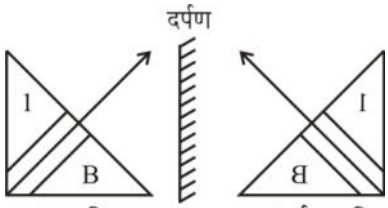

(आकृति) (दर्पण छवि)

अतः विकल्प (d) सही है।

67. If the mirror is placed on the line, then which of the answer figure is the right mirror image/jpg of the given figure?
यदि एक दर्पण को दर्शाई गई रेखा पर रखा जाये, तो दी गई विकल्प आकृतियों में से कौन-सी सही दर्पण छवि होगी?

(a)

(b)

(c)

(d)

MP Police Constable Exam- 21 August-2023 Shift-2

Ans. (a) : प्रश्नानुसार जब दर्पण को रेखा AB पर रखा जाता है तो आकृति की सही दर्पण छवि विकल्प आकृति (a) होगी।

68. If the mirror is placed on the line, then which of the answer figure is the right mirror image/jpg of the given figure?
यदि एक दर्पण को दर्शाई गई रेखा पर रखा जाये, तो दी गई विकल्प आकृतियों में से कौन-सी सही दर्पण छवि होगी?

(a)

(b)

(c)

(d)

MP Police Constable Exam- 21 August-2023 Shift-3

Ans. (b) : यदि दर्पण को दर्शाई गई रेखा पर रखा जाए, तो प्रश्न आकृति की दर्पण आकृति विकल्प (b) के समान दिखाई देगी।

69. If the mirror is placed on the line, then which of the answer figure is the right mirror image/jpg of the given figure?
यदि एक दर्पण को दर्शाई गई रेखा पर रखा जाये, तो दी गई विकल्प आकृतियों में से कौन-सी सही दर्पण छवि होगी?



(a)

(b)

(c)

(d)

MP Police Constable Exam- 21 August-2023 Shift-3

Ans. (a) : यदि दर्पण को दर्शाई गई रेखा पर रखा जाये, तो दी गई आकृति का सही दर्पण आकृति विकल्प (a) की तरह दिखाई देगा।

70. If the mirror is placed on the line, then which of the answer figure is the right mirror image/jpg of the given figure?
यदि एक दर्पण को दर्शाई गई रेखा पर रखा जाये, तो दी गई विकल्प आकृतियों में से कौन-सी सही दर्पण छवि होगी?



GET IT ON Google Play Best Study PDF के लिए हमारी App को Download करें "GK Trick By Nitin Gupta"

(a) (b)

(c) (d)

MP Police Constable Exam- 21 August-2023 Shift-2

Ans. (b) : प्रश्नानुसार जब दर्पण को रेखा AB पर रखा जाता है तो आकृति की सही दर्पण छवि विकल्प आकृति (b) होगी।

71. If the mirror is placed on the line, then which of the answer figure is the right mirror image/jpg of the given figure?
यदि एक दर्पण को दर्शाई गई रेखा पर रखा जाये, तो दी गई विकल्प आकृतियों में से कौन-सी सही दर्पण छवि होगी?

(a) (b)

(c) (d)

MP Police Constable Exam- 20 August-2023 Shift-2

Ans. (b) : प्रश्नानुसार, दी गई प्रश्न आकृति का सही दर्पण प्रतिबिंब विकल्प (b) की आकृति है। अतः विकल्प (b) सही है।

72. If the mirror is placed on the line, then which of the answer figure is the right mirror image/jpg of the given figure?
यदि एक दर्पण को दर्शाई गई रेखा पर रखा जाये, तो दी गई विकल्प आकृतियों में से कौन-सी सही दर्पण छवि होगी?

(a)

(b)

(c)

(d)

MP Police Constable Exam- 20 August-2023 Shift-2

Ans. (c) : प्रश्नानुसार, दी गई प्रश्न आकृति का सही दर्पण प्रतिबिंब विकल्प (c) की आकृति है। अतः विकल्प (c) सही है।

73. If a mirror is placed on the line AB, then which of the answer figures is the right image/jpg of the given figure?
यदि एक दर्पण को AB की रेखा पर रखा जाता है, तो दी गई आकृति में से कौन-सी उत्तर आकृति सही छवि है?

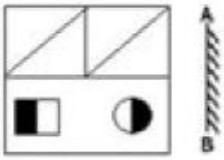

(a) 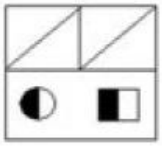 (b) 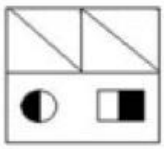

(c) 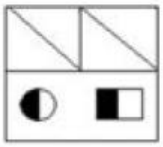 (d) 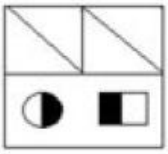

MP Police Constable Exam- 16 August-2023 Shift-2

Ans. (b) : प्रश्नानुसार, दी गई प्रश्न आकृति का दर्पण प्रतिबिम्ब विकल्प (b) की उत्तर आकृति होगी।

74. If a mirror is placed on the right side of given figure vertically ,then which of the given answer figures is correct mirror image/jpg of given image/jpg?
यदि एक दर्पण को दी गई आकृति की दाईं ओर लम्बवत स्थापित किया गया है, तो दी गई उत्तर आकृतियों में से कौन-सी दी गई आकृति की सही दर्पण छवि है?

(a) (b)

(c) (d)

MP Police Constable Exam- 16 August-2023 Shift-2

Ans. (b) : प्रश्नानुसार, प्रश्न आकृति का सही दर्पण प्रतिबिम्ब विकल्प (b) की उत्तर आकृति होगी।

75. Which of the options is the exact mirror image/jpg of the given figure when the mirror is held at the right side?
कौन-सा विकल्प दी गई आकृति की सही दर्पण छवि है जब दर्पण को दाईं ओर स्थापित किया जाता है?

GET IT ON Google Play Best Study PDF के लिए हमारी App को Download करें "GK Trick By Nitin Gupta"

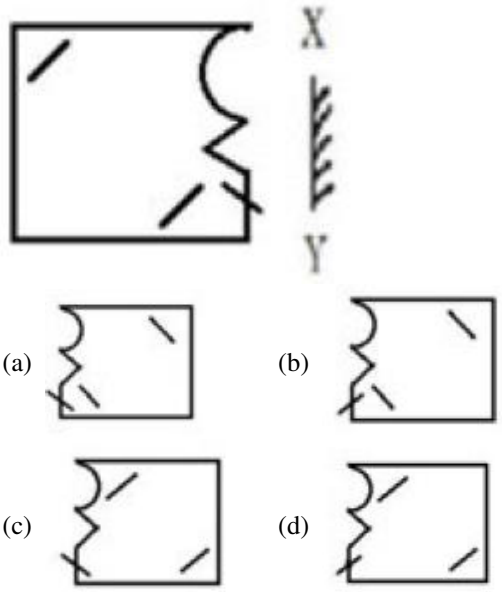

MP Police Constable Exam- 16 August-2023 Shift-2

Ans. (b) : प्रश्नानुसार, प्रश्न आकृति का सही दर्पण प्रतिबिम्ब विकल्प (b) की उत्तर आकृति होगी।

76. If the mirror is placed on the line, then which of the answer figure is the right mirror image/jpg of the given figure?
यदि एक दर्पण को दर्शाई गई रेखा पर रखा जाये, तो दी गई विकल्प आकृतियों में से कौन-सी सही दर्पण छवि होगी?

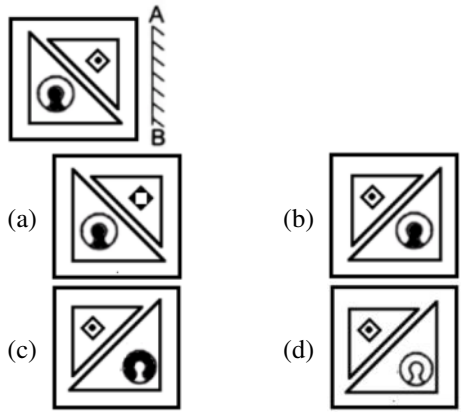

MP Police Constable Exam- 19 August-2023 Shift-2

Ans. (b) : प्रश्नानुसार,

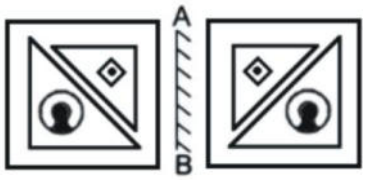

अतः उपर्युक्त से स्पष्ट है कि प्रश्न आकृति का सही दर्पण प्रतिबिम्ब विकल्प (b) की आकृति होगी।

77. If the mirror is placed on the line, then which of the answer figure is the right mirror image/jpg of the given figure?
यदि एक दर्पण को दर्शाई गई रेखा पर रखा जाये, तो दी गई विकल्प आकृतियों में से कौन-सी सही दर्पण छवि होगी?

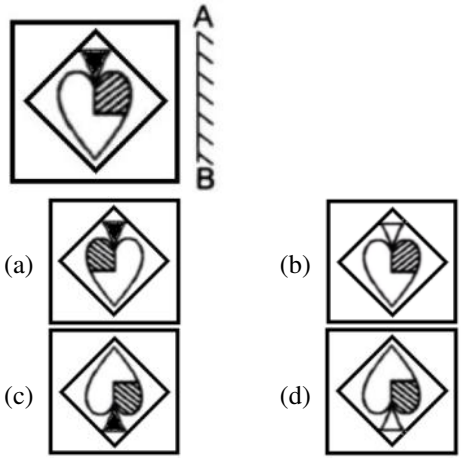

MP Police Constable Exam- 19 August-2023 Shift-2

Ans. (a) : प्रश्नानुसार,

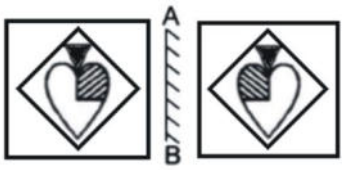

अतः उपर्युक्त से स्पष्ट है कि प्रश्न आकृति का सही दर्पण प्रतिबिम्ब विकल्प (a) की आकृति होगी।

78. Select the correct mirror image/jpg of the given figure when the mirror is placed on the right of the figure.
दी गई आकृति की सही दर्पण आकृति का चयन करें यदि दर्पण आकृति के दायी तरफ रखी जाएँ :

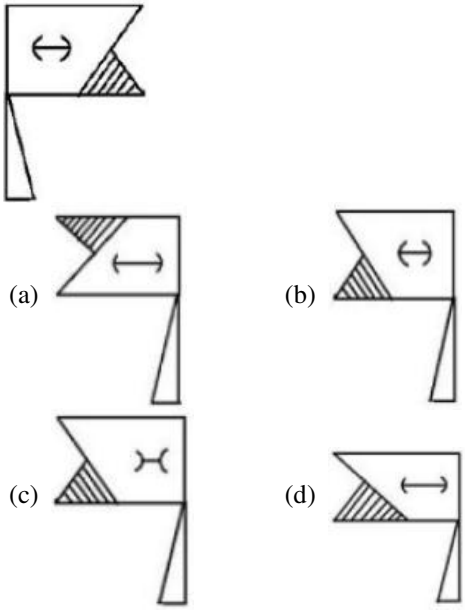

MP Police Constable Exam- 31 August-2023 Shift-3

Ans. (b) : दी गई प्रश्न आकृति उत्तर आकृति विकल्प (b) में अन्तर्निहित है।

GET IT ON Google Play Best Study PDF के लिए हमारी App को Download करें "GK Trick By Nitin Gupta"

79. If the mirror is placed on the line, then which of the answer figure is the right mirror image/jpg of the given figure ?
यदि एक दर्पण को दर्शाई गई रेखा पर रखा जाये, तो दी गई विकल्प आकृतियों में से कौन-सी सही दर्पण छवि होगी ?

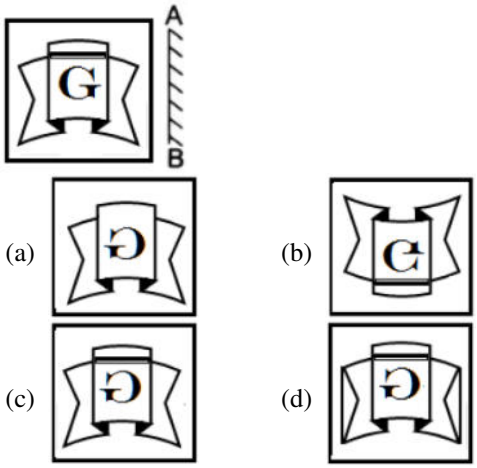

MP Police Constable Exam- 25 August-2023 Shift-3

Ans. (c) : प्रश्नानुसार एक दर्पण को दर्शाई गयी रेखा पर रखा जाये तो विकल्प (c) आकृति सही दर्पण छवि होगी।

80. Select mirror image/jpg of the given figure when the mirror is placed to the right of the figure.
दी गई आकृति की दर्पण छवि का चयन करें जब दर्पण को आकृति की दाईं ओर स्थापित किया जाता है।

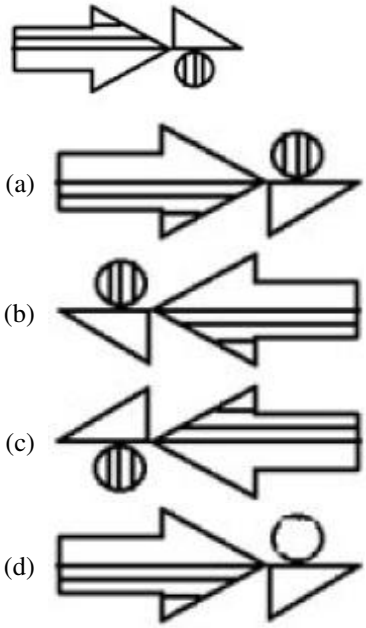

MP Police Constable Exam- 12 August-2023 Shift-3

Ans. (c) : दी गयी प्रश्न आकृति के दायीं ओर दर्पण स्थापित करने पर विकल्प (c) की आकृति प्राप्त होगी।

81. Select the correct mirror image/jpg of the given figure when the mirror is placed on the right of the figure.
दी गई आकृति की दर्पण आकृति का चयन करें अगर दर्पण को आकृति के दाएं तरफ रखा जाए।

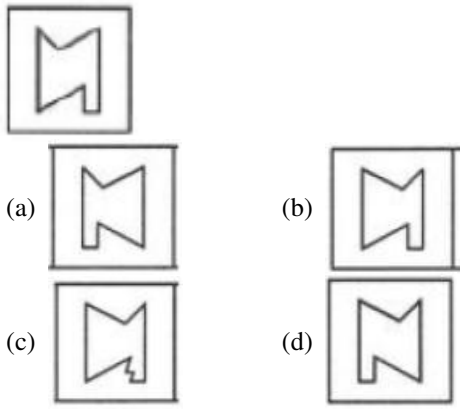

MP Police Constable Exam- 31 August-2023 Shift-2

Ans. (d) : दी गई आकृति का सही दर्पण प्रतिबिम्ब जब दर्पण को आकृति के दाईं ओर रखा जाता है।

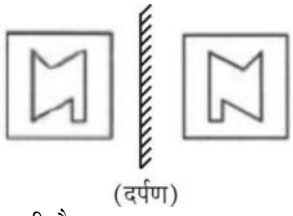

अतः विकल्प (d) सही है।

82. Select the correct mirror of the given figure when the mirror is placed on the right of the figure.
दी गई आकृति की सही दर्पण छवि का चयन करें जब दर्पण को आकृति की दाईं ओर स्थापित किया जाता है।

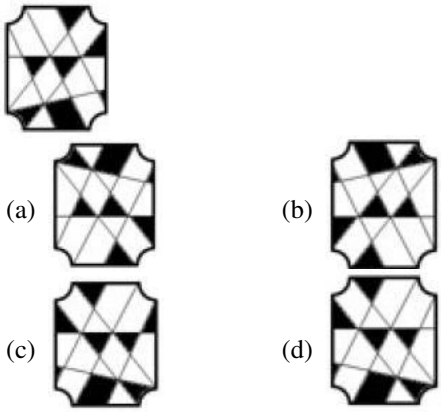

P Police Constable Exam- 20 August-2023 Shift-2

Ans. (d) : प्रश्नानुसार, दी गई प्रश्न आकृति का सही दर्पण प्रतिबिंब विकल्प (d) की आकृति है।

Type-2: अक्षरों, अक्षर समूहों तथा शब्दों के जल तथा दर्पण प्रतिबिम्ब पर आधारित प्रश्न

83. Choose the mirror image/jpg of the given word if the mirror is placed to the right of the word.
नीचे दी गई आकृति के दायीं ओर दर्पण को रखने पर बनने वाले सही प्रतिबिम्ब का चयन कीजिए।

GET IT ON Google Play Best Study PDF के लिए हमारी App को Download करें "GK Trick By Nitin Gupta"

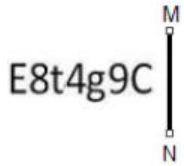

(a) 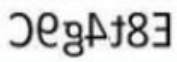 (b) 

(c) 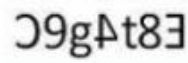 (d) 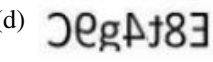

MP Police Constable Exam- 29 August-2023 Shift-2

Ans. (a) : दर्पण

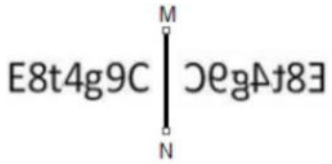

दी गई आकृति के लिए सही दर्पण प्रतिबिम्ब आकृति 'a' दर्शाती है।

84. If the time in clock is 7 : 27. What is the time in the mirror ?
यदि घड़ी में समय 7 : 27 है। दर्पण में समय क्या है ?

(a) 12 : 33 (b) 4 : 33
(c) 12 : 37 (d) 4 : 23

MP Police Constable Exam- 29 August-2023 Shift-2

Ans. (b) : दर्पण प्रतिबिम्ब

11 : 60
– 7 : 27
4 : 33

अतः दर्पण में समय 4 : 23 है।

85. Choose the mirror image/jpg of the given word ifthe mirror is placed to the right of the word.
दिए गए शब्द की दर्पण छवि चुनें यदि दर्पण शब्द के दाईं ओर रखा जाता है।

MOUNTAIN

(a) NIATNUOM
(b) MOUNTAIN
(c) NIATNUOM
(d) NIATNUOM

MP Police Constable Exam- 9 Sep-2023 Shift-3

Ans. (a) : दिया गया शब्द
MOUNTAIN
प्रश्नानुसार,

अतः विकल्प (a) सही उत्तर होगा।

86. Choose the correct mirror image/jpg of this combination- ABCD.
इस संयोजन की सही दर्पण छवि चुनें- ABCD

(a) ABCD (b) ABDC
(c) ACBD (d) ACDB

MP Police Constable Exam- 12 August-2023 Shift-2

Ans. (a) : दिए गए संयोजन का सही दर्पण प्रतिबिंब विकल्प (a) की आकृति होगी।

87. Choose the correct mirror image/jpg of this combination- PO56RT.
इस संयोजन की सही दर्पण छवि चुनें- PO56RT

(a) TR56OP (b) TR56OP
(c) PO56TR (d) OP56RT

MP Police Constable Exam- 12 August-2023 Shift-2

Ans. (b) : दिए गए संयोजन का सही दर्पण प्रतिबिंब विकल्प (b) की आकृति होगी।

88. Choose the correct mirror image/jpg of this combination- YT23WE.
इस संयोजन की सही दर्पण छवि चुनें- YT23WE

(a) YT23WE (b) WE23YT
(c) YT23WE (d) WE23TY

MP Police Constable Exam- 12 August-2023 Shift-2

Ans. (d) : दिए गए संयोजन का सही दर्पण प्रतिबिंब विकल्प (d) की आकृति होगी।

89. Choose the correct mirror image/jpg of this combination- XZHIY968TR.
इस संयोजन की सही दर्पण छवि चुनें- XZHIY968TR

(a) RT8968YIHXZ (b) RT8968YIZHX
(c) RT8968YIHZX (d) RT8968YHIZX

MP Police Constable Exam- 12 August-2023 Shift-2

Ans. (c) : दिए गए संयोजन का सही दर्पण प्रतिबिंब विकल्प (c) की आकृति होगी।

90. Choose the correct mirror image/jpg of this combination- INPU879T.
इस संयोजन की सही दर्पण छवि चुनें- INPU879T

(a) T9U8PNI
(b) IU9T8PNT
(c) INU9T8TPU
(d) NIOUU9T8T

MP Police Constable Exam- 13 August-2023 Shift-1

Ans. (a) : प्रश्नानुसार,

अतः विकल्प (a) सही उत्तर है।

GET IT ON Google Play Best Study PDF के लिए हमारी App को Download करें "GK Trick By Nitin Gupta"

91. Choose the correct mirror image/jpg of this combination- BJHJFYVFDFI794661EWSD.

इस संयोजन की सही दर्पण दवि चुनें- BJHJFYVFDFI794661EWSD

(a)

(b)

(c)

(d)

MP Police Constable Exam- 13 August-2023 Shift-1

Ans. (a) : प्रश्नानुसार, दी गई अक्षर-संख्या का दर्पण प्रतिबिंब विकल्प (a) में दिया गया है। अतः विकल्प (a) सही है।

92. Choose the correct mirror image/jpg of this combination- CDE.

इस संयोजन की सही दर्पण छवि चुनें-CDE

(a)

(b)

(c)

(d)

MP Police Constable Exam- 13 August-2023 Shift-1

Ans. (d) : प्रश्नानुसार,

अतः विकल्प (d) सही उत्तर है।

93. Choose the correct mirror image/jpg of this combination- GB89JH.

इस संयोजन की सही दर्पण छवि चुनें- GB89JH

(a) 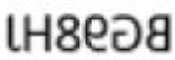

(b)

(c) 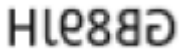

(d) 

MP Police Constable Exam- 13 August-2023 Shift-1

Ans. (c) : प्रश्नानुसार,

अतः विकल्प (c) सही उत्तर है।

94. Choose the correct mirror image/jpg of this combination- FETFBBXFTKL846512S.

इस संयोजन की सही दर्पण दवि चुनें- FETFBBXFTKL846512S

(a)

(b)

(c)

(d)

MP Police Constable Exam- 13 August-2023 Shift-2

Ans. (c) : दिए गए संयोजन – FETFBBXFTKL846512S का सही दर्पण प्रतिबिम्ब विकल्प (c) में दी गई संयोजन सही है।

95. Choose the mirror image/jpg of the given word if the mirror is placed to the right of the word.

यदि दर्पण शब्द के दाईं ओर रखा गया है तो दिए गए शब्द की दर्पण छवि चुनें।

(a)

(b)

(c) 

(d) 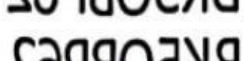

MP Police Constable Exam- 5 Sep-2023 Shift-2

Ans. (d) : प्रश्नानुसार–

अतः उपर्युक्त से स्पष्ट है दिए गए शब्द का प्रतिबिम्ब विकल्प (d) का शब्द होगा।

अतः विकल्प (d) सही उत्तर होगा।

96. Choose the correct mirror image/jpg of this combination- BCGH.

इस संयोजन की सही दर्पण दवि चुनें- BCGH

(a)

(b)

(c)

(d)

MP Police Constable Exam- 13 August-2023 Shift-2

Ans. (d) : दिए गए संयोजन – BCGH का सही दर्पण प्रतिबिम्ब विकल्प (d) में दी गई संयोजन सही है।

97. Choose the correct mirror image/jpg of this combination- JKHG874O.

इस संयोजन की सही दर्पण दवि चुनें- JKHG874O

GET IT ON Google Play Best Study PDF के लिए हमारी App को Download करें "GK Trick By Nitin Gupta"

(a)

(b)

(c)

(d)

MP Police Constable Exam- 13 August-2023 Shift-2

Ans. (d) : दिए गए संयोजन – JKHG874O का सही दर्पण प्रतिबिम्ब विकल्प (d) में दी गई संयोजन सही है।

98. Choose the correct mirror image/jpg of this combination- CFGK81H.
इस संयोजन की सही दर्पण दवि चुनें- CFGK81H

(a)

(b)

(c)

(d) 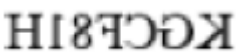

MP Police Constable Exam- 13 August-2023 Shift-2

Ans. (a) : दिए गए संयोजन – CFGK81H का सही दर्पण प्रतिबिम्ब विकल्प (a) में दी गई संयोजन सही है।

99. Water image/jpg of clock is showing time 4 : 42 what is the real time ?
घड़ी की जल छवि समय 4 : 42 दिखा रही है, वास्तविक समय क्या है ?

(a) 1 : 48 (b) 2 : 48
(c) 12 : 48 (d) 12 : 42

MP Police Constable Exam- 23 August-2023 Shift-2

Ans. (a) : जल छवि

```
  18 : 30
– 4  : 42
  13 : 48
– 12 : 00
  1  : 48
```

अतः विकल्प (a) वास्तविक समय होगा।

100. Choose the correct mirror image/jpg of this combination- WAIT.
इस संयोजन की सही दर्पण छवि चुनें- WAIT

(a)
(b)
(c)
(d)

MP Police Constable Exam- 16 August-2023 Shift-1

Ans. (c) : दिये गये संयोजन की सही दर्पण छवि विकल्प (c) की उत्तर आकृति होगी।

101. Choose the correct mirror image/jpg of this combination- DTYXG781HGI.
इस संयोजन की सही दर्पण छवि चुनें- DTYXG781HGI

(a)

(b) 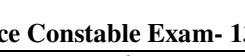

(c) 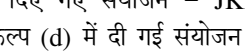

(d) 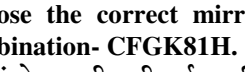

MP Police Constable Exam- 16 August-2023 Shift-1

Ans. (a) : दिये गये संयोजन की सही दर्पण छवि विकल्प (a) की उत्तर आकृति होगी।

102. Choose the correct mirror image/jpg of this combination- EWRDC243UT.
इस संयोजन की सही दर्पण छवि चुनें- EWRDC243UT

(a)

(b)

(c) 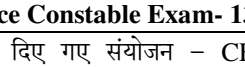

(d) 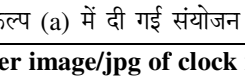

MP Police Constable Exam- 16 August-2023 Shift-1

Ans. (d) : दिये गये संयोजन की सही दर्पण छवि विकल्प (d) की उत्तर आकृति होगी।

103. Choose the correct mirror image/jpg of this combination- 456782EGFXGSJHVKV5796453ESXGF.
इस संयोजन की सही दर्पण छवि चुनें- 456782EGFXGSJHVKV5796453ESXGF

(a)

(b)

(c)

(d) 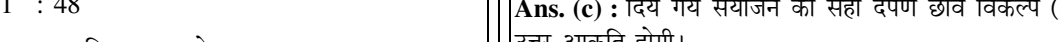

MP Police Constable Exam- 16 August-2023 Shift-1

Ans. (c) : दिये गये संयोजन की सही दर्पण छवि विकल्प (c) की उत्तर आकृति होगी।

104. Choose the correct mirror image/jpg of this combination- AS99IU.
इस संयोजन की सही दर्पण छवि चुनें- AS99IU

(a)
(b)
(c) 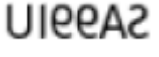
(d)

MP Police Constable Exam- 12 August-2023 Shift-3

GET IT ON Google Play Best Study PDF के लिए हमारी App को Download करें "GK Trick By Nitin Gupta"

Ans. (a) : दिये गये संयोजन का सही दर्पण छवि 'UIeesA' होगा। अतः विकल्प (a) सही उत्तर होगा।

105. Choose the correct mirror image/jpg of this combination- NU71MB.
इस संयोजन की सही दर्पण छवि चुनें- NU71MB

(a)
(b)
(c) 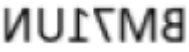
(d)

MP Police Constable Exam- 12 August-2023 Shift-3

Ans. (b) : दिये गये संयोजन का सही दर्पण छवि विकल्प (b) में दिया गया संयोजन है।

106. Choose the correct mirror image/jpg of this combination- JKHJFZ278WQ.
इस संयोजन की सही दर्पण छवि चुनें- JKHJFZ278WQ

(a)
(b)
(c)
(d)

MP Police Constable Exam- 12 August-2023 Shift-3

Ans. (d) : दिये गये संयोजन का सही दर्पण प्रतिबिम्ब विकल्प (d) का होगा।

107. Choose the correct mirror image/jpg of this combination- ABCDE.
इस संयोजन की सही दर्पण छवि चुनें- ABCDE

(a) 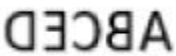
(b)
(c)
(d)

MP Police Constable Exam- 12 August-2023 Shift-3

Ans. (b) : दिये गये संयोजन का सही दर्पण प्रतिबिम्ब विकल्प (b) में दिया गया संयोजन है।

108. Choose the correct mirror image of this combination- @@4657653GHCHCHVJ786DYUGV.
इस संयोजन की सही दर्पण छवि चुनें- @@4657653GHCHCHVJ786DYUGV

(a) 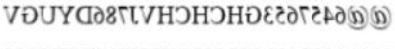
(b) 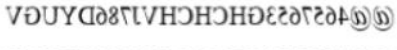
(c)
(d)

MP Police Constable Exam- 17 August-2023 Shift-2

Ans. (b) : दिए गए संयोजन का सही दर्पण प्रतिबिम्ब विकल्प (b) में दी गई छवि है।

109. A clock with only dot marking 3, 6, 9 and 12 positions has been kept upside down in front of a mirror. A person reads the time in the reflections of the clock as 12 : 30 the actual that will be:
केवल 3, 6, 9 और 12 स्थिति वाले बिंदुओं वाली घड़ी को दर्पण के सामने उल्टा रखा गया है। एक व्यक्ति घड़ी के प्रतिबिंब में समय को 12 : 30 के रूप में पढ़ता है। वास्तविक समय क्या है ?

(a) 12 : 00 (b) 12 : 30
(c) 6 : 00 (d) 3 : 45

MP Police Constable Exam- 23 August-2023 Shift-3

Ans. (c) : प्रश्नानुसार,
घड़ी को दर्पण के सामने उल्टा रखने पर प्रतिबिंब 12 : 30 दिखाई दे रहा है।
तब, घड़ी में वास्तविक समय = 17 : 90 – 12 : 30
= 5 : 60 मिनट
या ⇒ 6 : 00

110. Choose the correct mirror image/jpg of this combination- CFDYDTDHYF4653454TYFCHJ786.
इस संयोजन की सही दर्पण छवि चुनें- CFDYDTDHYF4653454TYFCHJ786

(a) 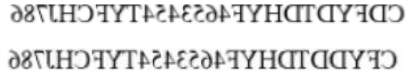
(b) 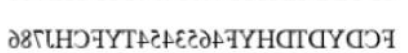
(c) 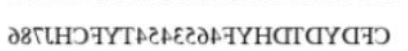
(d) 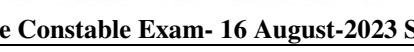

MP Police Constable Exam- 16 August-2023 Shift-3

Ans. (d) : शब्द CFDYDTDHYF4653454TYFCHJ786 का दर्पण प्रतिबिम्ब विकल्प (d) में दिया गया है।

111. Choose the correct mirror image/jpg of this combination- ZTHU55Q.
इस संयोजन की सही दर्पण छवि चुनें- ZTHU55Q

(a)
(b)
(c)
(d)

MP Police Constable Exam- 14 August-2023 Shift-3

GET IT ON Google Play Best Study PDF के लिए हमारी App को Download करें "GK Trick By Nitin Gupta"

Ans. (a) : प्रश्नानुसार- दिये गये शब्द ZTHU55Q की दर्पण प्रतिबिम्ब निम्न प्रकार से है।

अतः विकल्प (a) सही उत्तर है।

112. Choose the correct mirror image/jpg of this combination- 54655DRSXSFGCJY131GFXXG.
इस संयोजन की सही दर्पण छवि चुनें- 54655DRSXSFGCJY131GFXXG.

(a)
(b) 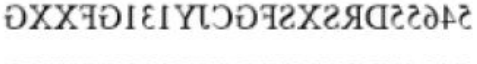
(c)
(d) 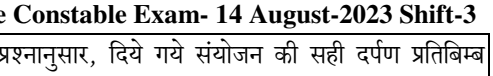

MP Police Constable Exam- 14 August-2023 Shift-3

Ans. (b) : प्रश्नानुसार, दिये गये संयोजन की सही दर्पण प्रतिबिम्ब विकल्प (b) में दिया गया संयोजन होगा।

113. Choose the correct mirror image/jpg of this combination- LOST
इस संयोजन की सही दर्पण छवि चुनें- LOST

(a)
(b)
(c)
(d)

MP Police Constable Exam- 14 August-2023 Shift-3

Ans. (a) : प्रश्नानुसार- दिये गये शब्द LOST की दर्पण प्रतिबिम्ब निम्न प्रकार से है।

अतः विकल्प (a) सही उत्तर है।

114. Choose the correct mirror image/jpg of this combination- KJLO73P.
इस संयोजन की सही दर्पण छवि चुनें- KJLO73P

(a) 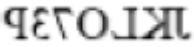
(b)
(c)
(d) 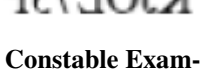

MP Police Constable Exam- 14 August-2023 Shift-3

Ans. (b) : प्रश्नानुसार- दिये गये शब्द KJLO73P की दर्पण प्रतिबिम्ब निम्न प्रकार से है।

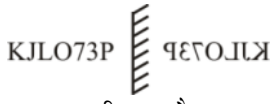

अतः विकल्प (b) सही उत्तर है।

115. Choose the correct mirror image/jpg of this combination- IKLJ.
इस संयोजन की सही दर्पण छवि चुनें- IKLJ.

(a) 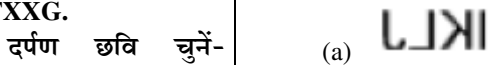
(b)
(c) 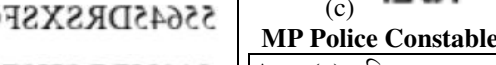
(d)

MP Police Constable Exam- 13 August-2023 Shift-3

Ans. (a) : दिया गया अक्षर युग्म का दर्पण छवि निम्नवत् है-

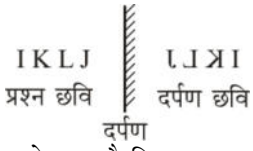

अतः उपर्युक्त व्याख्या से स्पष्ट है कि IKLJ का दर्पण छवि होगा।

116. Choose the correct mirror image/jpg of this combination- KJBUI51J.
इस संयोजन की सही दर्पण छवि चुनें- KJBUI51J.

(a)
(b)
(c)
(d)

MP Police Constable Exam- 13 August-2023 Shift-3

Ans. (c) : दिये गये अक्षर-संख्या युग्म का दर्पण प्रतिबिंब निम्नवत् है-

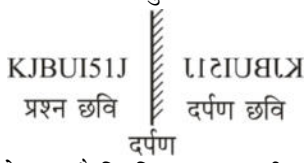

उपर्युक्त व्याख्या से स्पष्ट है कि विकल्प (c) सही उत्तर है।

117. Choose the correct mirror image/jpg of this combination- FDAS24U.
इस संयोजन की सही दर्पण छवि चुनें- FDAS24U

(a) 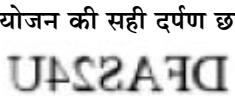
(b) 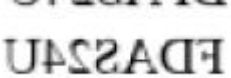
(c) 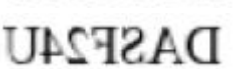
(d) 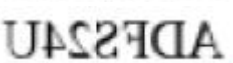

MP Police Constable Exam- 13 August-2023 Shift-3

GET IT ON Google Play Best Study PDF के लिए हमारी App को Download करें "GK Trick By Nitin Gupta"

Ans. (b) : दिये गये अक्षर-संख्या युग्म का दर्पण प्रतिबिंब निम्नवत् है-



अतः उपर्युक्त हल से स्पष्ट है कि प्रश्न छवि का दर्पण प्रतिबिंब विकल्प (b) की आकृति होगी।

118. Choose the correct mirror image/jpg of this combination- EWSFGVJH354961IU1643CGH.
इस संयोजन की सही दर्पण छवि चुनें- EWSFGVJH354961IU1643CGH

(a) 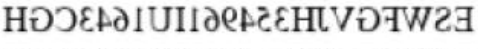
(b) 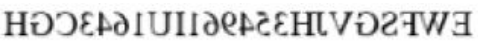
(c)
(d) 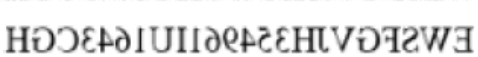

MP Police Constable Exam- 13 August-2023 Shift-3

Ans. (d) : दिये गये अक्षर-संख्या युग्म का दर्पण प्रतिबिंब निम्नवत् है-

अतः विकल्प (d) सही उत्तर है।

119. Choose the correct mirror image of this comination- @&#$YYVHVKDGEH876455$%@#
इस संयोजन की सही दर्पण छवि चुनें- @&#$YYVHVKDGEH876455$%@#

(a) 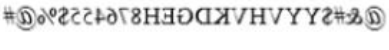
(b)
(c)
(d)

MP Police Constable Exam- 17 August-2023 Shift-3

Ans. (a) : शब्द @&#$YYVHVKDGEH876455$%@# का सही दर्पण प्रतिबिम्ब विकल्प (a) में दिया गया है।

120. If reflecting time in the mirror is 4 : 52 then the real time of clock is ?
यदि दर्पण में प्रतिबिम्बित समय 4 : 52 है तो घड़ी का वास्तविक समय क्या है ?

(a) 3 : 17 (b) 7 : 08
(c) 8 : 17 (d) 8 : 43

MP Police Constable Exam- 29 August-2023 Shift-1

Ans. (b) : दर्पण में प्रतिबिम्ब समय = 4:52
दर्पण प्रतिबिम्ब के लिए
11-घंटे : 60-मिनट
दर्पण प्रतिबिम्ब (11 – 4) : (60 – 52)
दर्पण प्रतिबिम्ब = 7 : 08
अतः घड़ी का वास्तविक समय 7 : 08 है।

121. Select the correct mirror image/jpg of the given figure, when the mirror image/jpg is placed at the right side.
B K U C L 3 1
दर्पण को नीचे दी गई आकृति के दायीं ओर रखने पर बनने वाले सही प्रतिबिम्ब का चुनाव करें।

(a) 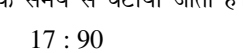 (b) 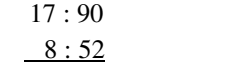
(c) 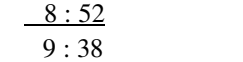 (d) 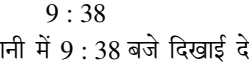

MP Police Constable Exam- 1 Sep-2023 Shift-1

Ans. (d) : दी गई प्रश्न आकृति के दायीं ओर दर्पण रखने पर, विकल्प आकृति (d) वाली प्रतिबिम्ब बनेगी।
∴ विकल्प (d) सही है।

122. Select the option that is related to the third figure in the same way that the second figure is related to the first figure.
उस विकल्प का चयन करें जो तीसरी आकृति से उसी प्रकार संबंधित है जिस प्रकार दूसरी आकृति, पहली आकृति से संबंधित है।

Problem Figures/प्रश्न आकृति :

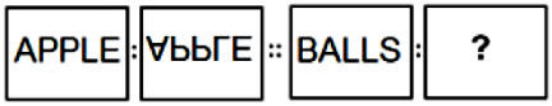

Answer Figures/उत्तर आकृति :

(A) (B) (C) (D)

(a) (A) (b) (B)
(c) (C) (d) (D)

MP Police Constable Exam- 1 Sep-2023 Shift-1

Ans. (c) : जिस प्रकार पहली आकृति का जल प्रतिबिम्ब दूसरी आकृति है उसी प्रकार, तीसरी आकृति का जल प्रतिबिम्ब, विकल्प आकृति (c) से संबंधित है।
∴ विकल्प (c) सही है।

123. If time in a clock is 8 : 52, then at what time will appear in water?
यदि घड़ी का वास्तविक समय 8 : 52 है, पानी में कितना समय दिखाई देगा?

(a) 8 : 38 (b) 9 : 52
(c) 8 : 22 (d) 9 : 38

MP Police Constable Exam- 20 August-2023 Shift-3

Ans. (d) : दिया है घड़ी का वास्तविक समय = 8 : 52
∵ जब जल प्रतिबिम्ब पूछा जाता है तो 18 : 30 या 17 : 90 से वास्तविक समय से घटाया जाता है।

∴ 17 : 90
8 : 52
9 : 38

अतः पानी में 9 : 38 बजे दिखाई देगा।

GET IT ON Google Play Best Study PDF के लिए हमारी App को Download करें "GK Trick By Nitin Gupta"

124. Choose the correct mirror image/jpg of this combination- YUFA46H.
इस संयोजन की सही दर्पण छवि चुनें- YUFA46H

(a)
(b)
(c)
(d)

MP Police Constable Exam- 14 August-2023 Shift-2

Ans. (d) : दिए गए संयोजन की सही दर्पण छवि निम्नलिखित है-

YUFA46H

अतः विकल्प (d) सही है।

125. Choose the correct mirror image/jpg of this combination- KUIHFXSXVDD6498FDS.
इस संयोजन की सही दर्पण छवि चुनें- KUIHFXSXVDD6498FDS

(a)
(b)
(c)
(d) 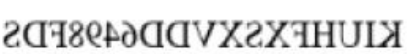

MP Police Constable Exam- 14 August-2023 Shift-2

Ans. (a) : दिए गए संयोजन की सही दर्पण छवि निम्नलिखित है-

KUIHFXSXVDD6498FDS

अतः विकल्प (a) सही है।

126. Choose the correct mirror image/jpg of this combination- EQLG.
इस संयोजन की सही दर्पण छवि चुनें- EQLG

(a)
(b)
(c)
(d)

MP Police Constable Exam- 14 August-2023 Shift-2

Ans. (b) : दिए गए संयोजन की सही दर्पण छवि निम्नलिखित है-

EQLG

अतः विकल्प (b) सही है।

127. Choose the correct mirror image/jpg of this combination- NBHK37L.
इस संयोजन की सही दर्पण छवि चुनें- NBHK37L

(a)
(b)
(c)
(d)

MP Police Constable Exam- 14 August-2023 Shift-2

Ans. (d) : दिए गए संयोजन की सही दर्पण छवि निम्नलिखित है-

NBHK37L

अतः विकल्प (d) सही है।

128. Choose the correct mirror image/jpg of this combination- GH1EE.
इस संयोजन की सही दर्पण छवि चुनें- GH1EE

(a) 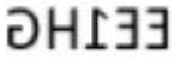
(b)
(c)
(d)

MP Police Constable Exam- 16 August-2023 Shift-2

Ans. (d) : प्रश्नानुसार, प्रश्न आकृति का सही दर्पण प्रतिबिम्ब विकल्प (d) की उत्तर आकृति होगी।

129. Choose the correct mirror image/jpg of this combination- TFHVJJVH796456XGFXGHGC245132.
इस संयोजन की सही दर्पण छवि चुनें- TFHVJJVH796456XGFXGHGC245132

(a)
(b) 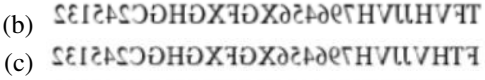
(c) 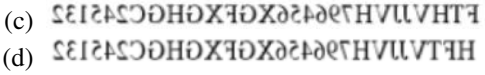
(d) 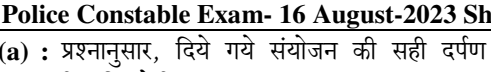

MP Police Constable Exam- 16 August-2023 Shift-2

Ans. (a) : प्रश्नानुसार, दिये गये संयोजन की सही दर्पण छवि विकल्प (a) की छवि होगी।

130. The mirror images of four words are shown below. Three of them can be made from the letters in the word CARAMEL, but one cannot. Which one?
चार शब्दों के दर्पण प्रतिबिंब नीचे दिए गए है। उनमें से तीन, शब्द CARAMEL के अक्षरों से बनाए जा सकते हैं, परन्तु एक नहीं। वह कौन है?

(a)
(b)
(c) 
(d)

MP Police Constable Exam- 18 July-2016 - 9: am

Ans : (b) विकल्प (b) में दिया गया शब्द READ, CARAMEL से नहीं बनाया जा सकता क्योंकि CARAMEL में D अक्षर नहीं है।

GET IT ON Google Play **Best Study PDF के लिए हमारी App को Download करें "GK Trick By Nitin Gupta"**

भाग-20.

पासा/घन/घनाभ (Dice/Cube/Cuboid)

1. Three positions of a cube are shown below. What will come opposite to face containing '*' ?
एक घन की तीन स्थितियाँ नीचे दर्शाई गई हैं। '*' वाले फलक के विपरीत क्या आयेगा ?

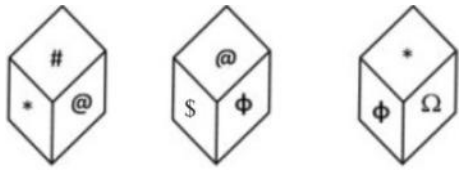

(a) $ (b) @
(c) # (d) Ω

MP Police Constable Exam- 25 August-2023 Shift-2

Ans. (a) : पासे की आकृति (2) व (3) से,

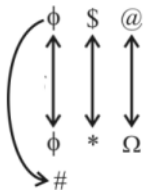

अतः '*' के विपरीत फलक पर $ आयेगा।

2. Three positions of a cube are shown below. What will come opposite to face containing 'A5'?
एक घन की तीन स्थितियाँ नीचे दर्शाई गई हैं। 'A5' वाले फलक के विपरीत क्या आएगा?

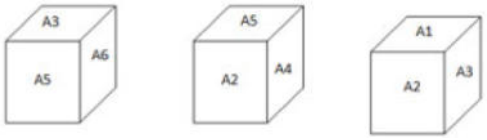

(a) A1 (b) A2
(c) A3 (d) A4

MP Police Constable Exam- 11 Sep-2023 Shift-2

Ans. (a) : प्रश्नानुसार,
दिए गए पाशों में A_5 से वामावर्त घूमाने पर

A_5 A_6 A_3

A_5 A_2 A_4
A_1 विपरीत

अतः उपर्युक्त से स्पष्ट है कि A_5 के विपरीत फलक पर A_1 होगा।
अतः विकल्प (a) सही उत्तर होगा।

3. Two positions of a cube are shown below. What will come opposite to face containing 'B'?
नीचे एक घन की दो अवस्थाएँ दर्शायी गयी हैं। अक्षर 'B' के विपरीत फलक पर कौन-सा अक्षर आएगा?

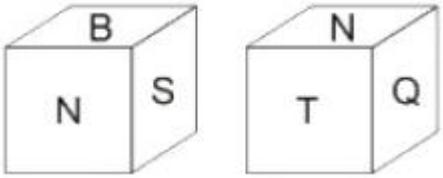

(a) Q (b) T
(c) S (d) Q or T/Q या T

MP Police Constable Exam- 6 Sep-2023 Shift-3

Ans. (a) : एक सतह कॉमन नियम से,

N B S
N Q T

अतः उपरोक्त से स्पष्ट है कि 'B' के विपरीत फलक 'Q' होगा।

4. Which of the following cube in the answer figure cannot be made based on the unfolded cube in the question figure?
उत्तर आकृति में निम्नलिखित में से कौन-सा घन प्रश्न आकृति में खुले घन के आधार पर नहीं बनाया जा सकता है ?

(a)
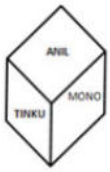

(b)
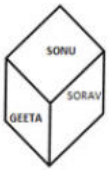

(c)
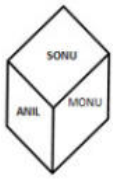

(d)

MP Police Constable Exam- 25 August-2023 Shift-1

Ans. (c) : विपरीत सतह निम्नवत् है–

Anil → Sonu
Tinku → Sorav
Monu → Geeta

विकल्प (c) में Sonu और Anil विपरीत फलक पर नहीं हैं।
अतः इसे नहीं बनाया जा सकता क्योंकि कभी भी निकटवर्ती सतहें विपरीत नहीं होती हैं।

GET IT ON Google Play Best Study PDF के लिए हमारी App को Download करें "GK Trick By Nitin Gupta"

5. What is the number of pieces into which a cube can be cut by four cuts in one direction, seven cuts in the second direction and eight cuts in the third direction?
कितने टुकड़ों में एक घन को एक दिशा में चार कट, दूसरी दिशा में सात कट और तीसरी दिशा में आठ कट से काटा जा सकता है?

(a) 360 (b) 540
(c) 180 (d) 240

MP Police Constable Exam- 12 Sep-2023 Shift-2

Ans. (a) : दिया गया है-
घन के एक दिशा में चार कट में टुकड़ों की सं. = (4 + 1) = 5
दूसरी दिशा में 7 (सात) कट में टुकड़ों की सं. = (7 + 1) = 8
तीसरी दिशा में 8 (आठ) कट में टुकड़ों की सं. = (8 + 1) = 9
अतः घन में कुल टुकड़ों की सं. = 5 × 8 × 9 = 360

6. Three positions of a cube are shown below. What will come opposite to face containing 'A3'?
एक घन की तीन स्थितियाँ नीचे दर्शाई गई हैं। 'A3' वाले फलक के विपरीत क्या आएगा ?

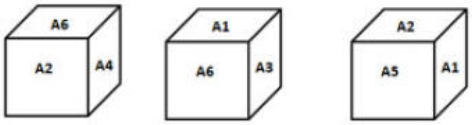

(a) A1 (b) A2
(c) A5 (d) A6

MP Police Constable Exam- 26 August-2023 Shift-3

Ans. (b) : घन I तथा घन II से–

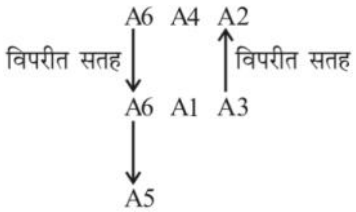

अतः फलक A3 के विपरीत फलक पर A2 है।

7. Find the number of circle in the given figure.
दी गई आकृति में वृत्त की संख्या ज्ञात कीजिए।



(a) 8 (b) 9
(c) 7 (d) 10

MP Police Constable Exam- 10 Sep-2023 Shift-1

Ans. (a) : प्रश्न में दी आकृति में गिनने के पश्चात कुल 8 वृत्त हैं। अतः विकल्प (a) सही उत्तर है।

8. Which of the following answer figure can be formed by folding the figure given in question?
निम्नलिखित में से कौन-सी उत्तर आकृति प्रश्न में दी गई आकृति को मोड़कर बनाई जा सकती है?

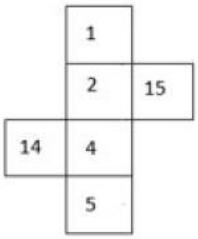

(a) 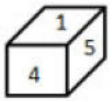

(b) 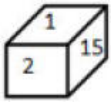

(c) 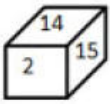

(d) 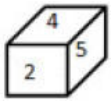

MP Police Constable Exam- 10 Sep-2023 Shift-1

Ans. (b) : पासे को मोड़ने पर-

1 ←विपरीत→ 4
2 ←विपरीत→ 5
14 ←विपरीत→ 15

इन फलको के अनुसार, केवल विकल्प (b) में दिया गया पासा मोड़कर बनाया जा सकता है।

9. Four positions of a dice are given below. Identify the number at the bottom when the number on the top is 2.
दिये गये पासे की चार स्थितियाँ नीचे दी गई है। यदि शीर्ष पर 2 आये तो नीचे की संख्या की पहचान करें।

(a) 6 (b) 3
(c) 5 (d) 1

MP Police Constable Exam- 10 Sep-2023 Shift-1

Ans. (c) : प्रश्नानुसार, पासा (I) व (III) से-

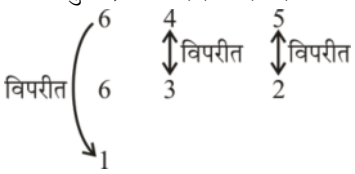

अतः शीर्ष पर 2 आये तो 2 के नीचे वाली फलक 5 होगी।

10. Select the wrong box number from given alternatives which is not similar to the box formed from the given sheet of paper X.
दिए गए विकल्पों में से गलत बॉक्स संख्या का चयन करें जो कि पेपर X की दी गई शीट से बने बॉक्स के समान नहीं है।

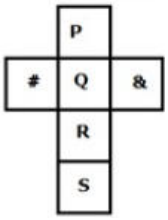

GET IT ON Google Play Best Study PDF के लिए हमारी App को Download करें "GK Trick By Nitin Gupta"

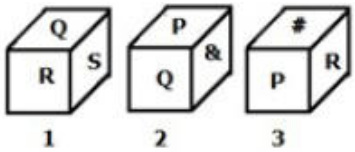

(a) 1 (b) 2
(c) 3 (d) 1 and 3/1 और 3

MP Police Constable Exam- 5 Sep-2023 Shift-2

Ans. (d) : दिए गए खुले पाशे से–

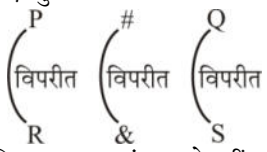

उपर्युक्त से स्पष्ट है कि पाशा (1) एवं (3) को नहीं बनाया जा सकता है।
अतः विकल्प (d) सही उत्तर होगा।

11. A cube is painted and cut into 64 smaller and identical cubes by making the minimum possible number of cuts. How many smaller cubes have only one painted face ?
एक घन को पेंट किया जाता है और 64 छोटे और समान घनों में काटा जाता है, जिससे कटों की न्यूनतम संभव संख्या हो। कितने छोटे घनों में ठीक एक रंगा हुआ फलक है ?

(a) 24 (b) 26
(c) 28 (d) 32

MP Police Constable Exam- 2 Sep-2023 Shift-3

Ans. (a) : प्रश्नानुसार,
एक घन को 64 छोटे और समान आकर के 64 घनों में काटा जाता है
$\because$ $64 = 4 \times 4 \times 4$
अतः $n = 4$ जहाँ $n =$ घन की भुजा।
$\because$ 1 फलक पर रंगे हुए घनों की संख्या $= 6(n-2)^2$
$= 6(4-2)^2$
$= 6 \times 4$
$= 24$

12. Which of the following cubes can be created by folding the given figure ?
दी गई आकृति को मोड़कर निम्न में से कौन-सा घन बनाया जा सकता है ?

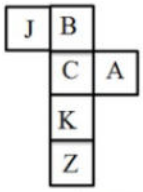

(a) 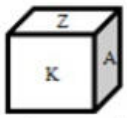

(b) 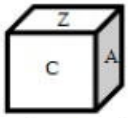

(c) 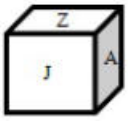

(d) 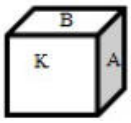

MP Police Constable Exam- 2 Sep-2023 Shift-3

Ans. (a) : प्रश्नानुसार,
दिए गए घन से–

$\because$ घन में दो विपरीत फलक एक साथ नहीं आते है और विकल्प (b), (c) और (d) में दो विपरीत फलक एक साथ है। इसीलिए विकल्प (a) का घन बनाया जा सकता है।

13. Which of the following cube in the answer figure cannot be made based on the unfolded cube in the question figure?
उत्तर आकृति में निम्नलिखित में से कौन-सा घन, प्रश्न आकृति में खुले घन के आधार पर नहीं बनाया जा सकता है?

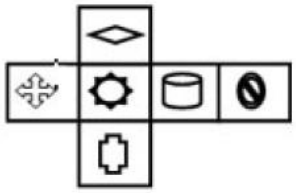

(a)
(b)
(c) 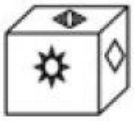
(d) 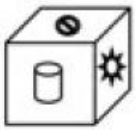

MP Police Constable Exam- 9 Sep-2023 Shift-3

Ans. (d) : प्रश्नानुसार,
दिए गए पाशे से-

अतः उपर्युक्त खुले घन से स्पष्ट है कि विकल्प (d) का पाशा नही बनाया जा सकता है।

14. Select from the alternatives, the box that can be formed by folding the sheet shown in figure (X):
विकल्पों में से वह बॉक्स चुनें जो चित्र (X) में दिखाई गई शीट को मोड़कर बनाया जा सकता है :

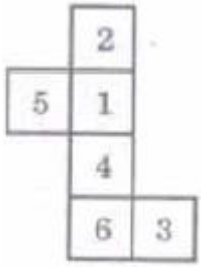

(X)

GET IT ON Google Play Best Study PDF के लिए हमारी App को Download करें "GK Trick By Nitin Gupta"

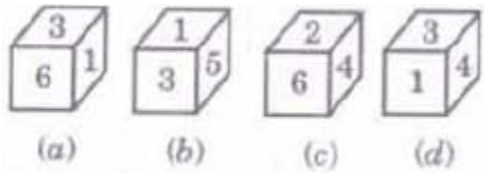

(a) a (b) b
(c) c (d) d

MP Police Constable Exam- 5 Sep -2023 Shift-1

Ans. (d) : प्रश्नानुसार,

2 ←विपरीत फलक→ 4

1 ←विपरीत फलक→ 6

5 ←विपरीत फलक→ 3

खुले हुए पासे से बनाये जा सकने वाला उत्तर आकृति विकल्प (d) वाला पासा होगा।

Note :- खुले पासे की विपरीत सतहे बनने वाले पासे में संलग्न सतहों पर नहीं दिखनी चाहिए।

15. Which of the following cube in the answer figure cannot be made based on the unfolded cube in the question figure ?
उत्तर आकृति में निम्नलिखित में से कौन-सा घन, प्रश्न आकृति में खुले घन के आधार पर नहीं बनाया जा सकता है ?

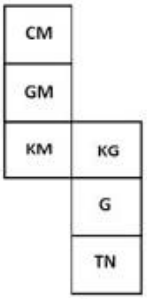

(a) 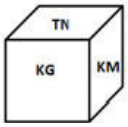

(b) 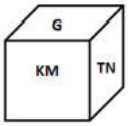

(c) 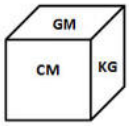

(d) 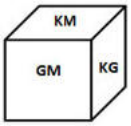

MP Police Constable Exam- 25 August-2023 Shift-3

Ans. (a) : दिए गए प्रश्नाकृति से–

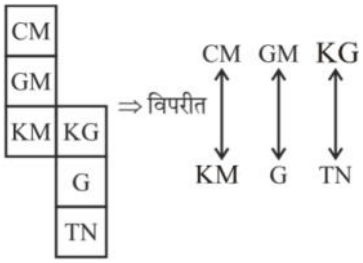

घन के नियमानुसार किसी भी घन की दो विपरीत फलकों को एक नहीं दर्शाया जा सकता है। अतः विकल्प (a) में TN तथा KG एक दूसरे के विपरीत फलक है जो संभव नहीं है।

16. Two position of a cube is shown below. What will come opposite to face containing '=' ?
एक घन की दो स्थितियाँ नीचे दर्शाई गई हैं। '=' वाले फलक के विपरीत क्या आएगा ?

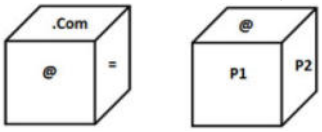

(a) .com (b) @
(c) P2 (d) P1

MP Police Constable Exam- 28 August-2023 Shift-2

Ans. (d) : एक सतह कॉमन नियम से–

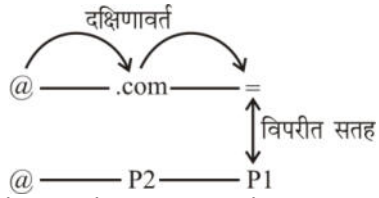

अतः '=' वाले फलक के विपरीत 'P1' होगा।

17. From the given options which answer figure can be formed by folding the figure given in the question?
दिए गए विकल्पों में से, प्रश्न में दी गई आकृति को मोड़कर कौन-सी उत्तर आकृति बनाई जा सकती है?

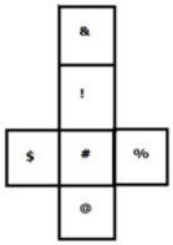

(a) 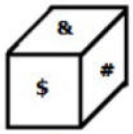

(b) 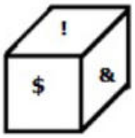

(c) 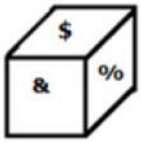

(d) 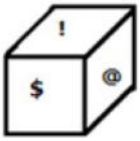

MP Police Constable Exam- 8 Sep-2023 Shift-2

Ans. (b) : दिये गये प्रश्न आकृति से केवल विकल्प (b) की आकृति बनायी जा सकेगी।

18. From the given option, which answer figure can be made based on the unfolded cube in the question figure ?
दिए गए विकल्प में से प्रश्न आकृति में खुले घन के आधार पर कौन-सी उत्तर आकृति बनाई जा सकती है?

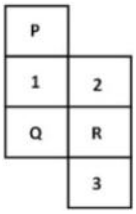

GET IT ON Google Play Best Study PDF के लिए हमारी App को Download करें "GK Trick By Nitin Gupta"

(a) 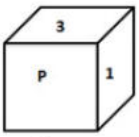

(b) 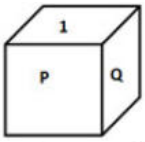

(c) 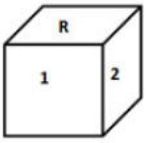

(d) 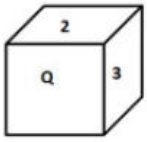

MP Police Constable Exam- 27 August-2023 Shift-1

Ans. (a) :

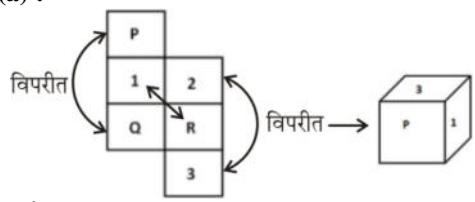

खुले घन से विपरीत सतहें–

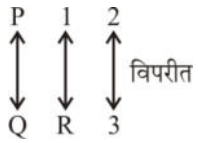

∵ विपरीत सतहें किसी घन के विपरीत सतह पर होती हैं जो आसन्न सतहों पर नहीं दिखती। अतः विकल्प (a) आकृति बनाई जा सकती है।

19. Which of the following cube in the answer figure cannot be made based on the unfolded cube in the question figure ?

उत्तर आकृति में निम्नलिखित में से कौन-सा घन प्रश्न आकृति में खुले घन के आधार पर नहीं बनाया जा सकता है ?

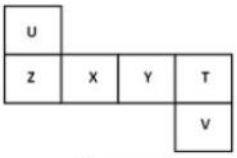

(a) 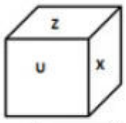

(b) 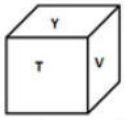

(c) 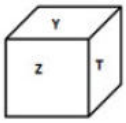

(d) 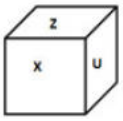

MP Police Constable Exam- 27 August-2023 Shift-1

Ans. (c) :

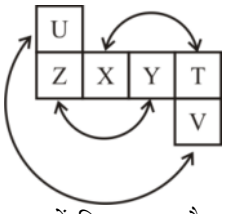

दी गई शीट में विपरीत सतहें निम्न प्रकार है–

$Z \rightarrow Y$

$X \rightarrow T$

$U \rightarrow V$

नोट :- घन के नियमानुसार दो विपरीत सतहे एक साथ दिखाई नहीं देती है।

विकल्प (c) में दो विपरीत सतहे Z और Y एक साथ दिखाई दे रहा है। जो नियम का पालन नहीं कर रही है।

अतः विकल्प (c) अभीष्ट उत्तर होगा।

20. A cube is painted and cut into 64 smaller and identical cubes by making the minimum possible number of cuts. How many smaller cubes have exactly two painted faces?

एक घन को पेंट किया जाता है और 64 छोटे और समान घनों में काटा जाता है, जिसमें कटों की न्यूनतम संभव संख्या हो। कितने छोटे घनों में ठीक दो रंगे हुए फलक हैं?

(a) 24 (b) 26

(c) 28 (d) 32

MP Police Constable Exam- 2 Sep-2023 Shift-2

Ans. (a) : एक घन को समान रंग के फलकों पर रंगा जाता है और समान आकार के 64 छोटे घनों में काटा जाता है। स्पष्ट रूप से, घन को $(4 \times 4 \times 4)$ के रूप में काटा गया है।

$\therefore n = 4$

2 फलकों पर रंगे हुए घनों की संख्या $= 12(n - 2)$

$= 12(4 - 2)$

$= 12 \times 2$

$= 24$

अतः सही विकल्प (a) होगा।

21. Study the two different positions of a dice. When the face containing one dot is at bottom then how many dots would be there on the top face?

एक पासे की दो अलग-अलग स्थितियों का अध्ययन कीजिए। यदि एक बिन्दु वाला फलक नीचे है, तो ऊपर वाले फलक पर कितने बिन्दु होंगे?

(a) 6 (b) 5

(c) 4 (d) 3

MP Police Constable Exam- 2 Sep-2023 Shift-2

Ans. (c) : दिए गए पासे से स्पष्ट है-

पासा I व II से,

पासे में दो फलक समान है, जबकि तीसरा फलक के विपरीत दो समान फलक को छोड़कर शेष बचा फलक होगा।

अर्थात् बिन्दु 1 के विपरीत बिन्दु '4' होगा।

22. Which of the following cube in the answer figure cannot be made based on the unfolded cube in the question figure ?

उत्तर आकृति में निम्नलिखित में से कौन-सा घन प्रश्न आकृति में खुले घन के आधार पर नहीं बनाया जा सकता है ?

GET IT ON Google Play Best Study PDF के लिए हमारी App को Download करें "GK Trick By Nitin Gupta"

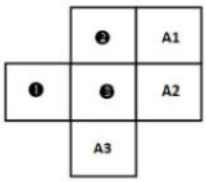

(a) 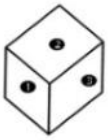

(b) 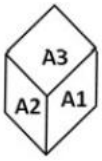

(c) 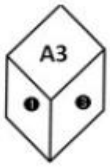

(d) 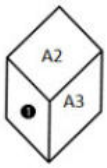

MP Police Constable Exam- 24 August-2023 Shift-2

Ans. (d) : विकल्प (d) दिये गये खुले घन के आधार पर नहीं बनाया जा सकता है।

23. Two positions of the same dice are given. Which letter will be at the top if Q is at the bottom?
एक ही पासे की दो स्थितियां दी गई हैं। यदि Q सबसे नीचे है तो कौन-सा अक्षर सबसे ऊपर होगा?

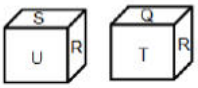

(a) P (b) S
(c) U (d) Q

MP Police Constable Exam- 09 Feb-2022 Shift-1

Ans. (b) : एक सतह उभयनिष्ठ नियम से -

R U S
↓ ↓ ↓ (विपरीत फलकें)
R T Q

स्पष्ट है कि यदि 'Q' सबसे नीचे है तो अक्षर 'S' सबसे ऊपर होगा।

24. From the given option, which answer figure can be made based on the unfolded cube in the question figure ?
दिए गए विकल्प में से प्रश्न आकृति में खुले घन के आधार पर कौन-सी उत्तर आकृति बनाई जा सकती है?

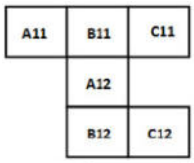

(a) 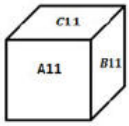

(b) 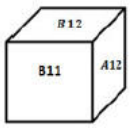

(c) 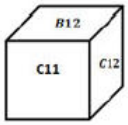

(d) 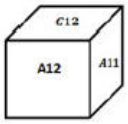

MP Police Constable Exam- 28 August-2023 Shift-3

Ans. (c) :

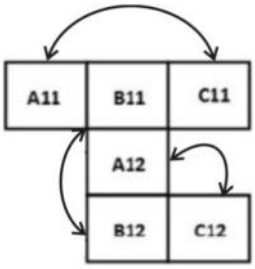

दी गई चित्र में विपरीत सतहें निम्न् प्रकार है–

A11 ⟷ C11
B11 ⟷ B12
A12 ⟷ C12

नोट :- घन के नियमानुसार दो विपरीत सतहें एक साथ दिखाई नहीं देती है।

विकल्प (c) में दो विपरीत सतहें दिखाई नहीं दे रहा है जो नियम का पालन कर रहा है।

अतः विकल्प (c) अभीष्ट उत्तर होगा।

25. Two rotate positions of a die are given below. Which number will be at the top if '6' at the is at the bottom.
एक पासे की दो घूर्णन स्थितियाँ नीचे दी गई हैं। यदि '6' सबसे नीचे है तो कौन-सी संख्या सबसे ऊपर होगी?

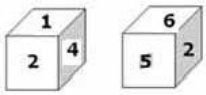

(a) 2 (b) 3
(c) 4 (d) 5

MP Police Constable Exam- 8 Sep-2023 Shift-1

Ans. (c) : दो सतह कॉमन नियम से,

2 → 1 → 4
2 → 5 → 6
↓
3

उपरोक्त से स्पष्ट है कि अगर '6' सबसे नीचे है तो 4 सबसे ऊपर होगा।

26. Below four positions of a dice are given with A, B, C, D, E and F on each different faces. Which letter will be the opposite of "C".
नीचे एक पासे की चार स्थितियाँ दी गई हैं जिनमें प्रत्येक भिन्न फलकों पर A, B, C, D, E और F हैं। C के विपरीत फलक पर कौन सा अक्षर आएगा।

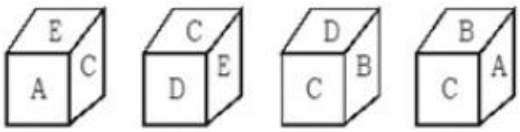

I II III IV

(a) A (b) F
(c) B (d) C

MP Police Constable Exam- 4 Sep-2023 Shift-3

GET IT ON Google Play Best Study PDF के लिए हमारी App को Download करें "GK Trick By Nitin Gupta"

Ans. (b) : दिये गये पासे निम्नलिखित हैं–

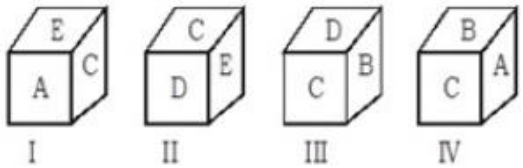

सामान्य सतह —— विपरीत सतह

A —— D (I एवं II पासे से)

B —— E (II एवं III पासे से)

C —— F

उपर्युक्त व्याख्या से स्पष्ट है कि 'C' फलक के विपरीत 'F' फलक होगा।

27. Two rotate positions of a die are given below. Which number will be at the top if '1' at the is at the bottom.

एक पासे की दो घूर्णन स्थितियाँ नीचे दी गई हैं। यदि '1' सबसे नीचे है तो कौन-सी संख्या सबसे ऊपर होगी?

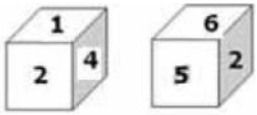

(a) 5 (b) 6

(c) 4 (d) 3

MP Police Constable Exam- 9 Sep-2023 Shift-2

Ans. (a) :

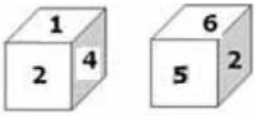

2 उभयनिष्ट है इसे स्थिर रखते हुए दक्षिणावर्त दिशा में घुमाने पर-

पासा 1	2	1	4
पासा 2	2	5	6

यदि '1' नीचे है तो ऊपर '5' होगा।

28. Which of the following cube in the answer figure cannot be made based on the unfolded cube in the question figure ?

उत्तर आकृति में निम्नलिखित में से कौन-सा घन प्रश्न आकृति में खुले घन के आधार पर नहीं बनाया जा सकता है ?

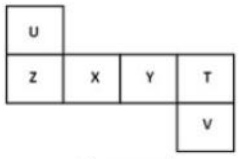

(a) 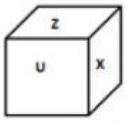

(b) 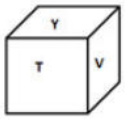

(c) 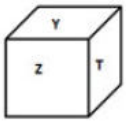

(d) 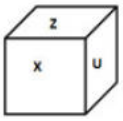

MP Police Constable Exam- 24 August-2023 Shift-3

Ans. (c) : प्रश्नानुसार,

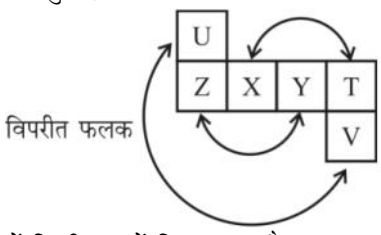

दी गई शीट में विपरीत सतहें निम्न प्रकार है–

$Z \rightarrow Y$

$X \rightarrow T$

$U \rightarrow V$

नोट :- घन के नियमानुसार दो विपरीत सतहे एक साथ दिखाई नहीं देते हैं।

विकल्प (c) में दो विपरीत सतहे Z और Y दिखाई दे रहा है जो नियम का पालन नहीं कर रहा है।

अतः विकल्प (c) खुले घन के आधार पर नहीं बनाया जा सकता है।

29. How many smaller pieces are obtained by making 8 cuts in X plane, 9 cuts in Y plane and 11 cuts in Z plane on the same cube ?

एक ही घन पर X तल में 8 कट, Y तल में 9 कट और Z तल में 11 कट लगाने से कितने छोटे टुकड़े प्राप्त होते हैं ?

(a) 1200 (b) 1000

(c) 1080 (d) 900

MP Police Constable Exam- 4 Sep-2023 Shift-2

Ans. (c) : प्रश्नानुसार,

यदि हम X तल पर 8 कट लगाते है, तो पूरी आकृति 9 भागों में विभाजित हो जाती है, अब यदि घन के Y तल के एक फलक पर 9 कट लगाते है, तथा Z तल 11 कट लगाते है, तो कुल 1080 वर्गाकार आकार प्राप्त होंगे।

X अक्ष में x कट, Y अक्ष में y कट तथा Z अक्ष में z कट करके प्राप्त छोटे टुकड़ों की कुल संख्या $= (x + 1)(y + 1)(z + 1)$

$= (8 + 1)(9 + 1)(11 + 1)$

$= 9 \times 10 \times 12$

$= 1080$

30. Which of the following cubes can be created by folding the given figure ?

दी गई आकृति को मोड़कर निम्न में से कौन-सा घन बनाया जा सकता है ?

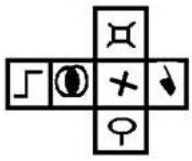

(a) 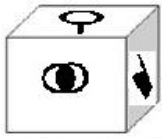

(b) 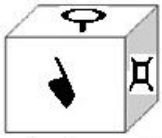

(c) 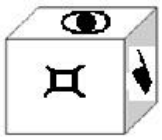

(d) 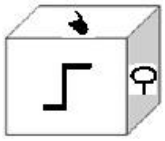

MP Police Constable Exam- 4 Sep-2023 Shift-2

GET IT ON Google Play Best Study PDF के लिए हमारी App को Download करें "GK Trick By Nitin Gupta"

Ans. (d) : दी गई आकृति को मोड़कर विकल्प आकृति (d) का घन बनाया जा सकता है।
अतः विकल्प (d) सही है।

31. How many dots are there on the face opposite the face with two dots?

दो बिन्दुओं वाले फलक के विपरीत फलक पर कितने बिंदु हैं?

(a) 1 (b) 5
(c) 4 (d) 6

MP Police Constable Exam- 1 Sep-2023 Shift-2

Ans. (d) : पासा 1 एवं 2 के बिन्दुओं को 5 बिन्दु को उभयनिष्ठ मानकर clock wise लिखने पर,

5 3 2
↓ ↓ ↓
5 4 6

अतः स्पष्ट है कि बिन्दु 2 के विपरीत फलक पर 6 बिन्दु रहेंगे।

32. From the given option, which answer figure can be formed by folding the figure given in the question?
दिए गए विकल्प में से, प्रश्न में दी गई आकृति को मोड़कर कौन-सी उत्तर आकृति बनाई जा सकती है?

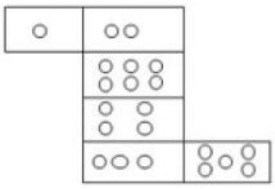

(a) 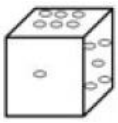
(b) 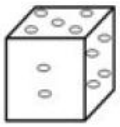
(c) 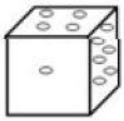
(d) 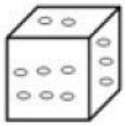

MP Police Constable Exam- 10 Sep-2023 Shift-2

Ans. (c) : प्रश्नानुसार,

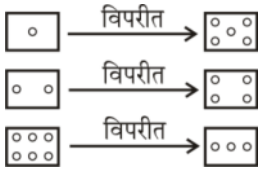

अतः स्पष्ट है कि विकल्प (c) में आकृति, प्रश्न आकृति को मोड़कर बनाई जा सकती है।

33. A cube is painted and cut into 64 smaller but identical pieces by making the minimum possible number of cuts. What is the minimum number of cuts required to cut a cube?
एक घन को पेंट किया जाता है और 64 छोटे लेकिन समान टुकड़ों में काटा जाता है, जिससे कटों की न्यूनतम संभव संख्या हो। घन को काटने के लिए आवश्यक न्यूनतम कटों की संख्या क्या है?

(a) 9 (b) 8
(c) 6 (d) 10

MP Police Constable Exam- 12 Sep-2023 Shift-1

Ans. (a) : प्रश्नानुसार,
$n^3 = 64$
$n = 4$
∵ स्पष्ट रूप से, घन को $4 \times 4 \times 4$ व्यवस्था में काटा गया है
∴ घन के न्यूनतम काटों की संख्या $= (n - 1) \times 3$
$= (4 - 1) \times 3$
$= 3 \times 3$
$= 9$

34. Which of the following cubes in the answer figure can be made based on the unfolded cube in the question figure ?
उत्तर आकृति में निम्नलिखित में से कौन-सा घन, प्रश्न आकृति में खुले घन के आधार पर बनाया जा सकता है ?

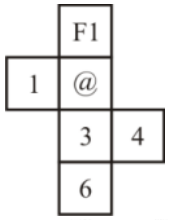

(a) 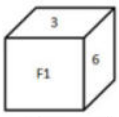

(b) 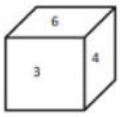

(c) 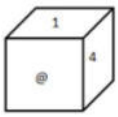

(d) 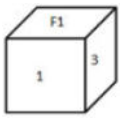

MP Police Constable Exam- 26 August-2023 Shift-2

Ans. (b) : खुले घन के विपरीत सतह निम्नवत् है–

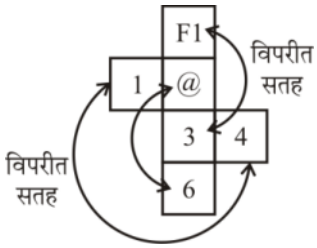

∵ विपरीत सतह कभी भी एक दूसरे के समीप सतह पर दिखाई नहीं देते हैं।
अतः खुले घन के आधार पर विकल्प (b) में दिया गया घन बनाया जा सकता है।

35. The figure at right represents an unfolded box with designs on several panels. Below are four drawings of boxes with designs. When folded, which box will it be?

GET IT ON Google Play Best Study PDF के लिए हमारी App को Download करें "GK Trick By Nitin Gupta"

दायें ओर आकृति विभिन्न पैनलों पर डिजाइनों के साथ बिना तह किया एक बक्सा दिखाती है। नीचे डिजाइनों वाले बक्सों की चार ड्रांइगे है। फोल्ड करने पर कौन सा बक्सा होगा?

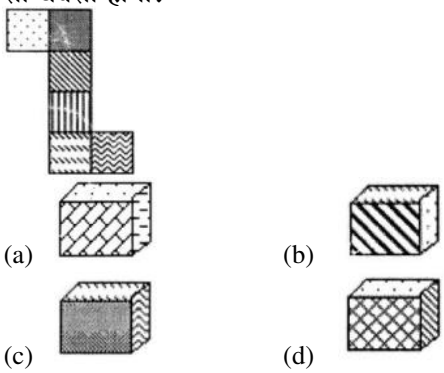

MP Police Constable Exam 23 July 2016 - 9:am

Ans : (d) खुले घन की संरचना

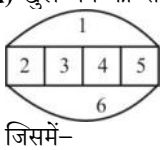

जिसमें–

1 का विपरीत = 6

2 का विपरीत = 4

3 का विपरीत = 5

कोई भी विपरीत फलक एक–दूसरे के सम्पर्क में नही होती है।

अतः विकल्प (d) अभीष्ट उत्तर होगा।

36. From the given option, which answer figure can be made based on the unfolded cube in the question figure ?

दिए गए विकल्प में से, प्रश्न आकृति में खुले घन के आधार पर कौन-सी उत्तर आकृति बनाई जा सकती है?

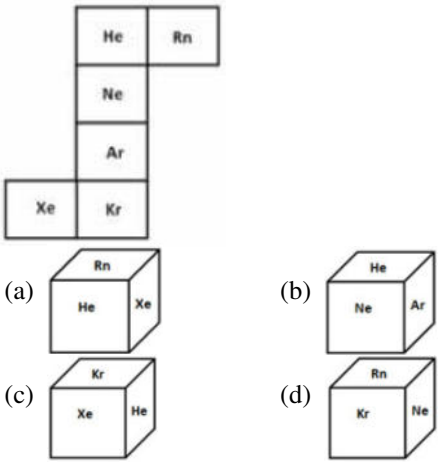

MP Police Constable Exam- 27 August-2023 Shift-2

Ans. (c) :

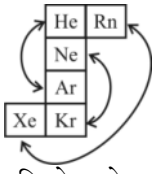

अतः दिए गए प्रश्न आकृति से खुले घन के आधार पर विकल्प आकृति (c) बनाई जा सकती है।

37. A cube is painted and cut into 64 smaller and identical cubes by making the minimum possible number of cuts. How many smaller cubes have no painted face ?

एक घन को पेंट किया जाता है और 64 छोटे और समान घनों में काटा जाता है, जिससे कटों की न्यूनतम संभव संख्या हो। कितने छोटे घनों में कोई रंगा हुआ फलक नहीं है ?

(a) 4 (b) 6

(c) 8 (d) 10

MP Police Constable Exam- 3 Sep-2023 Shift-1

Ans. (c) : प्रश्नानुसार,

$x^3 = 64$

$= 4 \times 4 \times 4$

$= 4^3$

बिना रंगो के फलकों की संख्या $= (n-2)^3$

$= (4-2)^3$

$= 2^3$

$= 8$

38. Which of the following cubes can be formed by folding the given figure ?

दी गई आकृति को मोड़कर निम्न में से कौन-सा घन बनाया जा सकता है ?

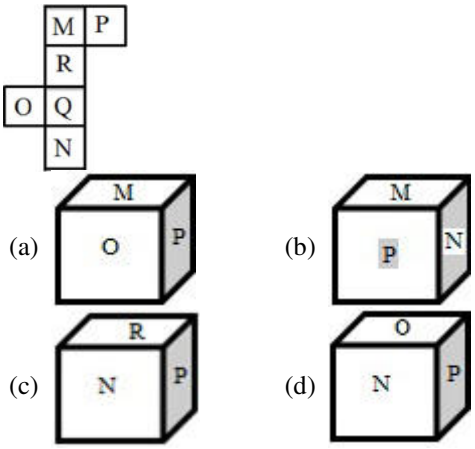

MP Police Constable Exam- 3 Sep-2023 Shift-1

Ans. (b) : खुले हुए पासे के अनुसार M का विपरीत Q, R का विपरीत N और O का विपरीत P है।

$M \rightarrow Q$

$R \rightarrow N$

$O \rightarrow P$

अतः विकल्प (b) सही है।

39. Two positions of the same dice are given. Which letter will be at the bottom if 'O' is at the top?

एक ही पासे की दो स्थितियाँ दी गई हैं। यदि 'O' सबसे ऊपर है तो सबसे नीचे कौन-सा अक्षर होगा?

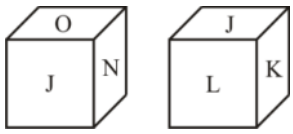

(a) K (b) M

(c) N (d) J

MP Police Constable Exam- 11 Sep-2023 Shift-3

GET IT ON Google Play Best Study PDF के लिए हमारी App को Download करें "GK Trick By Nitin Gupta"

Ans. (a) : दिये गये पासे की आकृतियाँ निम्नतम् है-

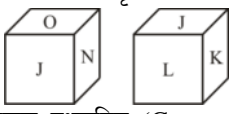

दोनों पासो में 'J' फलक उभयनिष्ट (Common) है। अतः 'J' को आधार (Base) मान कर पासे को दक्षिणावर्त घुमाने पर,

सामान्य सतह $\rightarrow J \rightarrow O \rightarrow N$

$\downarrow \quad \downarrow \quad \downarrow$

विपरीत सतह $\rightarrow J \rightarrow K \rightarrow L$

उपर्युक्त हल से स्पष्ट है कि 'O' के विपरीत सतह पर 'K' होगा।

40. Three positions of a cube are shown below. Find the symol is opposite to $.
एक घन की तीन स्थितियों को नीचे दर्शाया गया है। वे प्रतीक ज्ञात करें जो $ के विपरीत है?

(a) & (b) ~
(c) # (d) %

MP Police Constable Exam- 6 Sep-2023 Shift-2

Ans. (d) एक सतह कॉमन नियम से,

~ # %
~ ■ $

उपरोक्त से स्पष्ट है कि '$' के विपरीत '%' होगा।

41. How many smaller pieces are obtained by making 9 cuts in X plane, 10 cuts in Y plane and 11 cuts in Z plane on the same cube ?
एक ही घन पर X तल में 9 कट, Y तल में 10 कट और Z तल में 11 कट लगाने से कितने छोटे टुकड़े प्राप्त होते हैं ?

(a) 1200 (b) 1024
(c) 1240 (d) 1320

MP Police Constable Exam- 3 Sep-2023 Shift-2

Ans. (d) : प्रश्नानुसार,

एक घन पर X तल में 9 कट, Y तल में 10 कट और Z तल में 11 कट लगाने पर प्राप्त टुकड़ों की संख्या

$= (9 + 1) \times (10 + 1) \times (11 + 1)$
$= 10 \times 11 \times 12$
$= 10 \times 132$
$= 1320$

42. Which of the following cubes can be created by folding the given figure ?
दी गई आकृति को मोड़कर निम्न में से कौन-सा घन बनाया जा सकता है ?

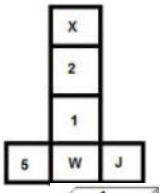

(a) 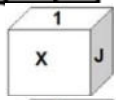

(b) 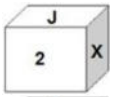

(c) 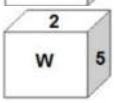

(d) 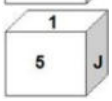

MP Police Constable Exam- 3 Sep-2023 Shift-2

Ans. (b) : प्रश्नानुसार,

$X \xrightarrow{\text{के विपरीत}} 1$

$2 \xrightarrow{\text{के विपरीत}} W$

$5 \xrightarrow{\text{के विपरीत}} J$

आकृति को मोड़कर बनाने पर विकल्प (b) में दी गई आकृति बनेगी।

Note - विपरीत फलक पर आने वाले अक्षर या अंक साथ नहीं हो सकते है।

43. A cube is painted and cut into 216 smaller and identical cubes by making the minimum possible number of cuts. How many smaller cubes have no painted face ?
एक घन को पेंट किया जाता है और 216 छोटे और समान घनों में काट दिया जाता है, जिससे कटों की न्यूनतम संभव संख्या हो। कितने छोटे घनों में कोई रंग नहीं है ?

(a) 216 (b) 200
(c) 125 (d) 64

MP Police Constable Exam- 29 August-2023 Shift-1

Ans. (d) : प्रश्नानुसार,

$6^3 = 216$

घनों का तल $= 6 \times 6 \times 6$ घन

नोट- ऐसे घन जिनके केवल दो फलक रंगे हुए हो

$= (n-2) \times$ किनारों की संख्या (12)

ऐसे घन जिनके केवल एक फलक रंगे हो

$= (n-2)^2 \times 6$

ऐसे घन जिनके कोई फलक रंगा नहीं हो

$= (n-2)^3$
$= (6-2)^3$
$= (4)^3$
$= 64$

44. In the following question, three different positions of a dice are given. Find the number of dots on the face opposite the face bearing three dots. /निम्नलिखित प्रश्न में, एक पासे की तीन अलग-अलग स्थितियां दी गई हैं। तीन डॉट वाले फलक के विपरीत फलक पर डॉट्स की संख्या ज्ञात करें।

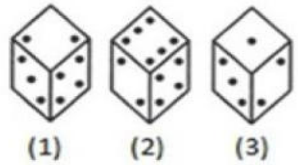

(a) 6 (b) 5 (c) Ö (d) 1

MP Police Constable Exam- 02 Feb-2022 Shift-1

Ans. (a) : पासा (II) और (III) में एक सतह उभयनिष्ट नियम से,

2 डॉट → 2 डॉट
6 डॉट → 3 डॉट
4 डॉट → 1 डॉट
2 डॉट → 5 डॉट

स्पष्ट है कि 3 डॉट वाले फलक के विपरीत फलक पर 6 डॉट होंगे।

GET IT ON Google Play Best Study PDF के लिए हमारी App को Download करें "GK Trick By Nitin Gupta"

45. From the given option, which answer figure can be made based on the unfolded cube in the question figure?
दिए गए विकल्प में से प्रश्न आकृति में खुले घन के आधार पर कौन-सी उत्तर आकृति बनाई जा सकती है?

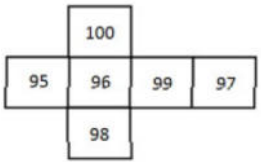

(a) 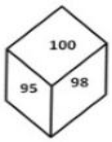

(b) 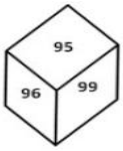

(c) 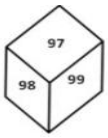

(d) 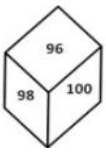

MP Police Constable Exam- 02 Feb-2022 Shift-1

Ans. (c) : दिए गए घन में विपरीत फलकें

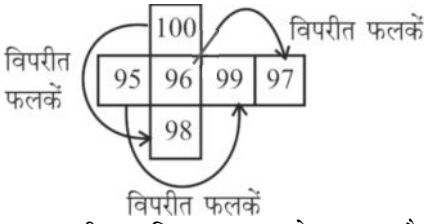

अतः विकल्प (c) की आकृति प्रश्नगत घन के अनुकूल है।

46. How many dots will be on the face opposite to face which contains two dots?
दो डॉट वाले फलक के विपरीत फलक पर कितने डॉट होंगे?

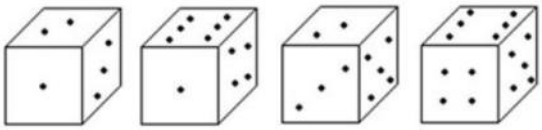

(a) one/एक (b) five/चार
(c) four/पाँच (d) Six/छः

MP Police Constable Exam- 01 Feb-2022 Shift-1

Ans. (d) : पासा (I) तथा (II) में एक सतह उभयनिष्ठ नियम से-

अतः दो डॉट वाले फलक के विपरीत फलक पर 6 डॉट होंगे।

47. Two position of a cube is shown below. What will come opposite to face containing '*'?
एक घन की दो स्थितियाँ नीचे दर्शाई गई हैं। '*' वाले फलक के विपरीत क्या आयेगा?

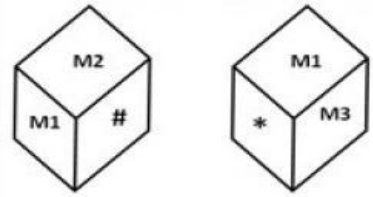

(a) # (b) M1
(c) M2 (d) M3

MP Police Constable Exam- 01 Feb-2022 Shift-1

Ans. (a) : एक सतह उभयनिष्ठ नियम से

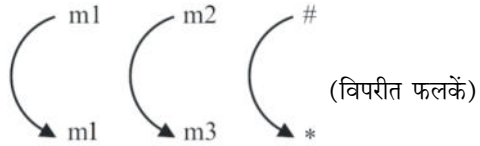

स्पष्ट है कि '*' वाले फलक के विपरीत फलक पर '#' आएगा।

48. Which number is on the face opposite to 6?
कौन-सी संख्या 6 के विपरीत फलक पर है?

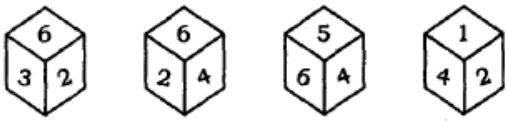

(a) 1 (b) 2
(c) 3 (d) 4

MP Police Constable Recruitment (Second)Test - 2013

Ans. (a) : एक सतह कॉमन नियम से, (पासा 3 तथा 4)

4	1	2
4	6	5

अतः 6 के विपरीत फलक पर संख्या ˙ होगी।

49. Which letter is opposite to the face E?
E के सामने के फलक पर कौन-सा अक्षर आएगा?

(a) C (b) F
(c) A (d) D

MP Police Constable Recruitment (Second)Test - 2013

Ans. (c) : एक सतह कॉमन नियम से, (पासा 2 तथा 3)

E	C	D
E	F	B

अतः E के विपरीत फलक पर अक्षर 'A' होगा।

50. Which number is opposite to the face 1?
1 के सामने के फलक पर कौन-सा अंक आएगा?

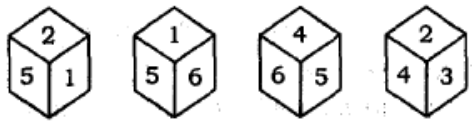

(a) 5 (b) 4
(c) 6 (d) 3

MP Police Constable Recruitment (Second)Test - 2013

GET IT ON Google Play Best Study PDF के लिए हमारी App को Download करें "GK Trick By Nitin Gupta"

Ans. (b) : एक सतह कॉमन नियम से, (पासा 3 तथा 4) से

4	5	6
4	2	3

अतः संख्या '1' के विपरीत फलक पर अंक '4' आयेगा।

51. If the figure on left is folded to form a cube, then after fold how would it looks like?
यदि बायीं तरफ की आकृति को घर बनाने के लिए फोल्ड किया जाए, तो फोल्ड के बाद वह लगेगी?

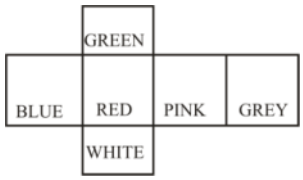

(a) 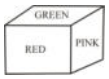

(b) 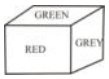

(c) 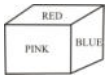

(d) 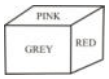

MP Police Constable Exam 19 July 2016 - 9:am

Ans : (a)

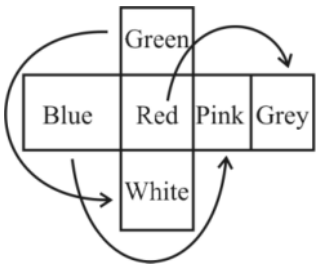

अतः अभीष्ट पासा =

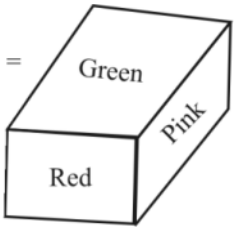

52. If the figure on left is folded to form a cube, then which of the following option is the face opposite to the face shown at the right?
यदि बायीं ओर की आकृति को घन की रचना करने के लिए फोल्ड किया जाता है, तो निम्न विकल्पों में से कौन से विकल्प में फलक दायीं ओर दिखाये गये फलक के विपरीत है?



(a)

(b) 

(c) 

(d) 

MP Police Constable Exam- 26 July-2016 - 9: am

Ans : (d)

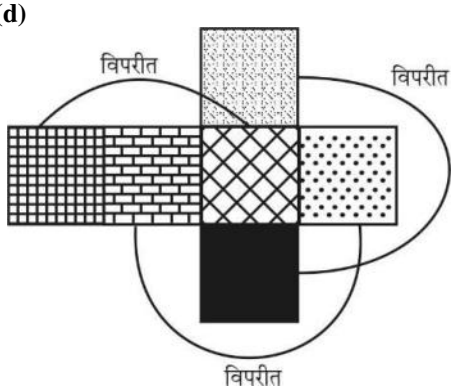

अतः का विपरीत होगा।

53. If the figure on left is folded to from a cube, then which of the following options is the face opposite to the face shown at the right?
यदि बायीं ओर पर आकृति को घन की रचना करने के लिए फोल्ड किया जाता है, तो निम्न विकल्पों में से कौन से विकल्प में फलक दायीं ओर दिखाये गये फलक के विपरीत है?

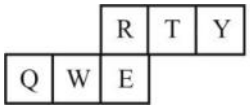

(a) T (b) R

(c) Σ (d) Q

MP Police Constable Exam 17 July 2016 - 9:am

Ans : (a)

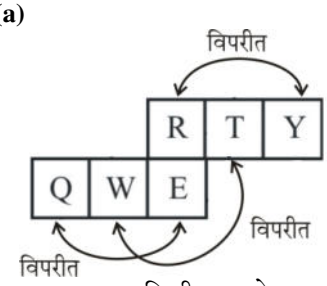

अतः 'W' का विपरीत 'T' होगा।

54. If the figure on left is folded to from a cube, then which of the following options is the face opposite to the face shown at the right?
यदि बायीं ओर पर आकृति को घन की रचना करने के लिए फोल्ड किया जाता है, तो निम्न विकल्पों में से कौन से विकल्प में फलक दायीं ओर दिखाये गये फलक के विपरीत है?

GET IT ON Google Play Best Study PDF के लिए हमारी App को Download करें "GK Trick By Nitin Gupta"

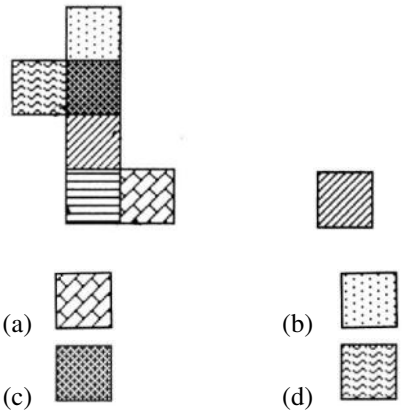

MP Police Constable Exam 25 July 2016 - 9:am

Ans : (b) स्पष्ट है कि दाँयी ओर दिखाये गये फलक का विपरीत फलक विकल्प **(b)** में दिया गया है।

55. If the figure on left is folded to form a cube, then which of the following options is the face opposite to the face shown at the right?
यदि बायीं ओर पर आकृति को घन की रचना करने के लिए फोल्ड किया जाता है, तो निम्न विकल्पों में से कौन से विकल्प में फलक दायीं ओर दिखाये गये फलक के विपरीत है?

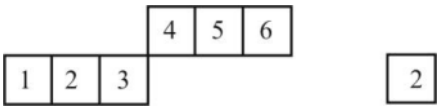

(a) 5 (b) 4
(c) 3 (d) 1

MP Police Constable Exam- 18 July-2016 - 9: am

Ans : (a)

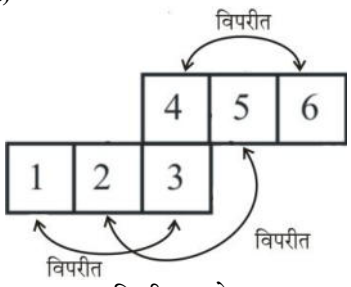

अतः 2 का विपरीत 5 होगा।

56. Following are the three positions of a cube.
निम्न घन की तीन स्थितियाँ हैं

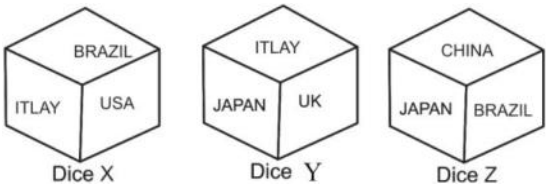

Which country names lies at the bottom face of dice Y?/कौन से देशों के नाम डाइस Y के तल फलक पर स्थित हैं?

(a) CHINA (b) ITLAY
(c) USA (d) NONE

MP Police Constable Exam- 20 July-2016 - 9: am

Ans : (a) घन की स्थिति Y, Z में एक सतह Common (उभयनिष्ठ) है अतः एक सतह Common (उभयनिष्ठ) नियम से,

JAPAN	ITLAY	UK
JAPAN	CHINA	BRAZIL

अतः Y पासें में ऊपरी फलक पर ITLAY दिया गया है इसलिए निचली फलक पर CHINA होगा।

57. If the figure on left is folded to form a cube, then which of the following options is the face opposite to the face shown at the right?
यदि बायीं ओर पर आकृति को घन की रचना करने के लिए फोल्ड किया जाता है, तो निम्न विकल्पों में से कौन से विकल्प में फलक दायीं ओर दिखाये गये फलक के विपरीत है?

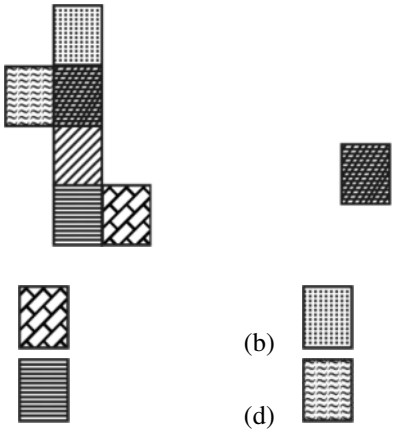

MP Police Constable Exam 24 July 2016 - 9:am

Ans : (c)

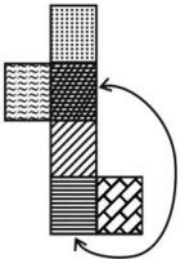

प्रश्न में दिए गए फलक के विपरीत क्रम में विकल्प (c) का फलक होगा।

58. Following are the three positions of a cube.
घन की तीन स्थितियां निम्न प्रकार से हैं

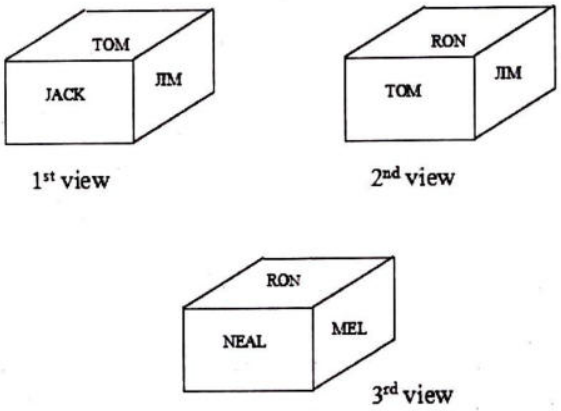

GET IT ON Google Play Best Study PDF के लिए हमारी App को Download करें "GK Trick By Nitin Gupta"

What is the name on the bottom face of 2nd view?

दूसरे दृश्य के तल के फलक पर क्या नाम है?

(a) NEAL (b) RON

(c) JACK (d) JIM

MP Police Constable Exam- 1 August-2016, 3:pm

Ans : (c) किसी भी दो घन जिनका कोई एक फलक उभयनिष्ठ हो, को केन्द्र मान कर दक्षिणावर्त घुमाने पर एक दूसरे के विपरीत फलक प्राप्त होती है तथा जो फलक उभयनिष्ठ होता है उसका विपरीत घन का वह पृष्ठ होता है जो दोनों घनों में नहीं दिखाई देता है।

∵ दूसरे और तीसरे घन में उभयनिष्ठ फलक RON है। इसलिए–

RON JIM TOM

RON MEL NEAL

↓JACK

अतः स्पष्ट है कि RON का विपरीत फलक JACK, JIM का MEL तथा TOM का NEAL होगा।

59. Two dice are thrown simultaneously. What is the probility of getting even digits on both the dice?

दो पासे एक साथ फेंके गए हैं। दोनों पासों पर सम संख्या होने की संभावना क्या है?

(a) 1/6 (b) 1/4

(c) 1/3 (d) 1/2

MP Police Constable Exam 17 July 2016 - 9:am

Ans : (b) प्रत्येक पाँसे पर कोई भी अंक 6 प्रकार से ऊपर आ सकता है अतः दो पाँसों की फेंक में उनके ऊपर अलग–अलग कोई भी अंक आने के कुल ढंग $= 6 \times 6 = 36$

$n(s) = 36$

दोनों पाँसो पर सम संख्या हो,

E = {(2,2), (2, 4), (2, 6), (4, 2), (4,4) , (4,6), (6, 2), (6, 4), (6,6)}

n (E) = 9

अतः दोनों पासो पर सम संख्या होने की संभावना

$$P(E) = \frac{n(E)}{n(S)} = \frac{9}{36} = \frac{1}{4}$$

60. Following are three views of a cube. Which of the following options is opposite to the face shown at the right?

बायीं ओर पर आकृति को घन की रचना करने के लिए फोल्ड किया जाता है, तो निम्न विकल्पों में से कौन से विकल्प में फलक दायीं ओर दिखाये गये फलक के विपरीत हैं?

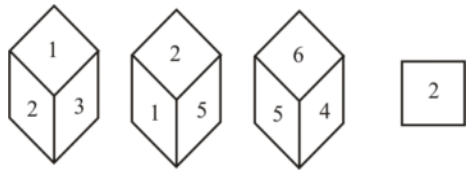

(a) 1 (b) 4

(c) 6 (d) 3

MP Police Constable Exam 17 July 2016 - 12:am

Ans. (b) चूँकि दिये गये घन दूसरे और तीसरे में एक फलक 5 उभयनिष्ठ है। उभयनिष्ठ फलक को केन्द्रबिन्दु मानकर Clockwise घुमाने पर विपरीत फलक प्राप्त होंगे। तथा जो फलक उभयनिष्ठ होगी उसका विपरीत फलक वह फलक होगा जो दोनों घन में न दिखे।

घन $5 \rightarrow 1$ 2

घन $5 \rightarrow 6$ 4

अतः स्पष्ट है कि, 5 का विपरीत 3, 1 का विपरीत 6, 2 का विपरीत 4 होगा। अतः अभीष्ट उत्तर (b) होगा।

61. A cube is painted and cut into 125 smaller and identical cubes by making the minimum possible number of cuts. How many smaller cubes have no painted face?/एक घन को पेंट किया जाता है और 125 छोटे और समान घनों में काटा जाता है, जिससे कटों की न्यूनतम संभव संख्या हो। कितने छोटे घनों का फलक पेंट नहीं हुआ है?

(a) 21 (b) 24 (c) 25 (d) 27

MP Police Constable Exam- 09 Feb-2022 Shift-1

Ans. (d) :

कुल छोटे समान घनों में काटे गये घनों की संख्या = 125

प्रत्येक कोने पर 3 सतह रंगीन घन है 3 सतह रंगे हुए घनों की संख्या $= 1 \times 8 = 8$

प्रत्येक किनारे पर तीन 2 फलकों वाले रंगीन घन = 2 सतह रंगे हुए घनों की संख्या $= 3 \times 12 = 36$

नौ, 1 फलक वाले रंगे हुए घनों की संख्या $= 9 \times 6 = 54$

बिना सतह रंगे हुए घनों की संख्या $= 125 - 8 - 36 - 54$

$= 27$

62. Read the following information and answer the questions given below :

निम्नलिखित निर्देश को पढ़िए और नीचे दिए गए प्रश्नों के उत्तर दीजिए:

A solid cube of each side 15cm has been painted green ,blue and yellow on pairs of opposite faces .It is then cut into cubical blocks of each side 3 cm.

How many cubes have only three faces painted?

15 सेमी के एक ठोस घन के प्रत्येक पक्ष को हरे, नीले और पीले रंग से विपरीत फलकों के जोड़े पर रंगा गया है। फिर इसे प्रत्येक पक्ष के 3 सेमी के घनाकार टुकड़ों में काटा जाता है।

कितने घनों में केवल तीन फलक पेंट किए गए हैं?

(a) 16 (b) 18

(c) 12 (d) 8

MP Police Constable Exam- 09 Feb-2022 Shift-1

Ans. (d) : अतः उपुर्यक्त घन से स्पष्ट है कि वे 3 सेमी. के घन जिनके तीन फलक रंग से भरे है इनकी संख्या = 8

GET IT ON Google Play Best Study PDF के लिए हमारी App को Download करें "GK Trick By Nitin Gupta"

भाग-21.

विविध (Miscellaneous)

1. In the following numbers sequence, how many such even numbers are there which are exactly divisible by its immediate preceding number but not exactly divisible by its immediate following number?

निम्नलिखित संख्या अनुक्रम में, कितनी ऐसी संख्याएँ है जो बिलकुल इसके तत्काल पूर्ववर्ती संख्या से विभाज्य है, लेकिन इसके तत्काल बाद की संख्या से बिल्कुल विभाज्य नहीं है?

38415728348939421582

(a) One/एक (b) Two/दो
(c) Three/तीन (d) Four/चार

MP Police Constable Exam 17 July 2016 - 12:am

Ans. (b) शृंखलाः-

384157 283 489 394 21582

अतः शृंखला में ऐसे जोड़े की संख्या 2 है (8 और 9) जो कि अपने पूर्ववर्ती संख्या से विभाज्य हैं, लेकिन इसके तत्काल बाद वाली संख्या से बिल्कुल विभाज्य नहीं हैं।

2. From the given alternative words, select the word which cannot be formed using the letters of the given word.

दिए गए वैकल्पिक शब्दों में से वह शब्द चुनिए जो दिए गए शब्द के अक्षरों का प्रयोग करके नहीं बनाया जा सकता।

ACTUATOR

(a) Actor (b) Tutor
(c) Cat (d) Actuate

MP Police Constable Exam- 24 August-2023 Shift-2

Ans. (d) : दिए गए ACTUATOR शब्द के अक्षरों का प्रयोग करके Actuate शब्द नहीं बनाया जा सकता है क्योंकि मूल शब्द में 'e' अक्षर नहीं है।

3. From the given alternative words, select the word which cannot be formed using the letters of the given word.

दिए गए वैकल्पिक शब्दों में से वह शब्द चुनिए जो दिए गए शब्द के अक्षरों का प्रयोग करके नहीं बनाया जा सकता।

BANKRUPTCY

(a) Bankrupt (b) Banker
(c) Turn (d) Burn

MP Police Constable Exam- 31 August-2023 Shift-3

Ans. (b) : दिए गए BANKRUPTCY के शब्द के अक्षरों का प्रयोग करके Banker शब्द नहीं बनाया जा सकता है क्योंकि मूल शब्द में 'e' अक्षर नहीं है।

4. From the given alternative words, select the word which cannot be formed using the letters of the given word.

CARBONDIOXIDE

दिए गए वैकल्पिक शब्दों में से वह शब्द चुनिए जो दिए गए शब्द के अक्षरों का प्रयोग करके नहीं बनाया जा सकता।

(a) Board (b) Bond
(c) Diode (d) Bones

MP Police Constable Exam- 2 Sep-2023 Shift-2

Ans. (d) : दिया गया शब्द- CARBONDIOXIDE
दिए गए शब्द के अक्षरों का प्रयोग करके 'Bones' शब्द नहीं बनाया जा सकता क्योंकि दिए गए शब्द में अक्षर 'S' नही है इसलिए सही उत्तर विकल्प (d) होगा।

5. From the given alternative words, select the word which cannot be formed using the letters of the given word.

दिए गए वैकल्पिक शब्दों में से वह शब्द चुनिए जो दिए गए शब्द के अक्षरों का प्रयोग करके नहीं बनाया जा सकता।

BACKBOARD

(a) Board (b) Back
(c) Boar (d) Book

MP Police Constable Exam- 29 August-2023 Shift-2

Ans. (d) : दिया गया शब्द - BACKBOARD
दिए गये विकल्पों में विकल्प 'd' (Book) नहीं बनाया जा सकता क्योंकि BOOK में दो 'O' है।

6. From the given words, select the word which cannot be formed using the letters of the given word.

दिए गए विकल्पों से, उस शब्द का चुनाव करें जिसे दिए गए शब्द के अक्षरों के इस्तेमाल कर नहीं बनाया जा सकता है।

VOCABULARY

(a) Royal (b) Lycra
(c) Vocal (d) Curable

MP Police Constable Exam- 8 Sep-2023 Shift-2

Ans. (d) : शब्द VOCABULARY से Curable नहीं बनाया जा सकता क्योंकि दिये गये शब्द में अक्षर e नहीं है।

7. From the given alternative words, select the word which cannot be formed using the letters of the given word:

निम्नलिखित विकल्पों में से वह शब्द चुनिए जो दिए गए शब्द के अक्षरों का प्रयोग करके नही बनाया जा सकता।

GET IT ON Google Play Best Study PDF के लिए हमारी App को Download करें "GK Trick By Nitin Gupta"

ENVIRONMENT

(a) OINTMENT (b) MENTOR
(c) VENOM (d) TRIM

MP Police Constable Exam- 8 Sep-2023 Shift-2

Ans. (a) : शब्द ENVIRONMENT से OINTMENT नहीं बनाया जा सकता क्योंकि दिये गये शब्द में अक्षर T नहीं है।

8. If red is called blue, blue is called white, white is called black, black is called pink, pink is called orange and orange is called green. What is the color of sea water?
यदि लाल को नीला कहा जाए, नीले को सफेद कहा जाए, सफेद को काला कहा जाए, काले को गुलाबी कहा जाए, गुलाबी को नारंगी कहा जाए और नारंगी को हरा कहा जाए। समुद्र के पानी का रंग कैसा होता है।

(a) Orange/नारंगी (b) White/सफेद
(c) Green/हरा (d) Blue/नीला

MP Police Constable Exam- 8 Sep-2023 Shift-2

Ans. (b) : समुद्र के पानी का रंग नीला होता है क्योंकि नीले को सफेद कहा जाता है तो समुद्र के पानी का रंग सफेद होगा।

9. If eyes are called lips, lips are called ears, ears are called hands, hands are called nose and nose is called legs. Then we can smell with?
आँखों को होठ, होठों को कान, कानों को हाथ, हाथों को नाक और नाक को पैर कहा जाए। तो फिर हम किससे सूंघ सकते हैं?

(a) Nose/नाक (b) Legs/पैर
(c) Hands/हाथ (d) Ears/कान

MP Police Constable Exam- 8 Sep-2023 Shift-2

Ans. (b) : हम नाक से सूघते है क्योंकि नाक को पैर कहते है तो सही उत्तर पैर होगा।

10. The position of how many letters in the given word remains unchanged when they are arranged in alphabatic order?
जब दिए गए शब्द के अक्षरों वर्णमाला के क्रम में लगाया जाए तब कितने अक्षरों के स्थान अपरिवर्तित रहेंगें?

HUMAN

(a) Two/दो
(b) Three/तीन
(c) One/एक
(d) None of the given options/दिए गए विकल्पों में से कोई नहीं

MP Police Constable Exam- 8 Sep-2023 Shift-2

Ans. (c) : शब्द HUMAN के अक्षरों को वर्णानुक्रम में व्यवस्थित करने पर– AHMNU
स्पष्ट है की सिर्फ एक अक्षर M का स्थान परिवर्तित नहीं होता है।

11. Which one word can be formed from the following letters ?
निम्नलिखित अक्षरों से कौन-सा एक शब्द बनाया जा सकता है ?

a b n q e u t s

(a) bangles (b) banquets
(c) bracelets (d) brother

MP Police Constable Exam- 25 August-2023 Shift-3

Ans. (b) : दिए अक्षरों को व्यवस्थित करने पर विकल्प (b) banquets शब्द बनाया जा सकता है।

12. If rose is called lily, lily is called sunflower, sunflower is called lotus, lotus is called gladiola and gladiola is called plant. Which of the following is our national flower ?
यदि गुलाब को लिली कहा जाता है, लिली को सूरजमुखी कहा जाता है, सूरजमुखी को कमल कहा जाता है, कमल को ग्लेडियोला कहा जाता है और ग्लेडियोला को पौधा कहा जाता है। निम्नलिखित में से हमारा राष्ट्रीय फूल कौन-सा है ?

(a) Rose/गुलाब (b) Lotus/कमल
(c) Plant/पौधा (d) Gladiola/ग्लेडियोला

MP Police Constable Exam- 25 August-2023 Shift-3

Ans. (d) : गुलाब → लिली → सुरजमुखी → कमल → ग्लेडियोला → पौधा
हमारा राष्ट्रीय फूल 'कमल' है। और यहाँ कमल को ग्लेडियोला कहा गया है।
अतः राष्ट्रीय फूल ग्लेडियोला है।

13. If sour is called tangy, tangy is called strong, strong is called mild, mild is called sweet and sweet is called salty. What is the taste of sugar?
यदि खट्टे को तीखा कहा जाता है, तिखे को मजबूत कहा जाता है, मजबूत को हल्का कहा जाता है, हल्के को मीठा कहा जाता है और मीठे को नमकीन कहा जाता है। चीनी का स्वाद क्या है ?

(a) Sour/खट्टा (b) Tangy/तीखा
(c) Salty/नमकीन (d) Sweet/मीठा

MP Police Constable Exam- 25 August-2023 Shift-3

Ans. (c) : खट्टे → तीखा → मजबूत → हल्का → मीठा → नमकीन
चीनी का स्वाद 'मीठा' होता है और मीठा को यहाँ नमकीन कहा गया है।
अतः चीनी का स्वाद नमकीन है।

14. Which one word can be formed from the following letters ?
निम्नलिखित अक्षरों से कौन-सा एक शब्द बनाया जा सकता है ?

a b n e s y l t

(a) adversity (b) absently
(c) after-glow (d) antipoles

MP Police Constable Exam- 5 Sep -2023 Shift-1

Ans. (b) : दिए गए अक्षरों का प्रयोग करके उत्तर विकल्प (b) के अनुसार शब्द absently बनाया जा सकता है।

15. From the given alternative words, select the word which cannot be formed using the letters of the given word.
दिए गए वैकल्पिक शब्दों में से वह शब्द चुनिए जो दिए गए शब्द के अक्षरों का प्रयोग करके नहीं बनाया जा सकता।

GET IT ON Google Play Best Study PDF के लिए हमारी App को Download करें "GK Trick By Nitin Gupta"

ACADEMIC

(a) Came (b) Aim
(c) Mice (d) Demise

MP Police Constable Exam- 23 August-2023 Shift-2

Ans. (d) : दी गए शब्द के अक्षरों का प्रयोग करके 'Demise' नहीं बनाया जा सकता। क्योंकि मूल शब्द में 'S' अक्षर नहीं है।
अतः विकल्प (d) सही है।

16. Which one word can be formed from the following letters ?
निम्नलिखित अक्षरों से कौन-सा एक शब्द बनाया जा सकता है ?

a s b o l t e u

(a) absort (b) absolute
(c) alligator (d) administration

MP Police Constable Exam- 4 Sep-2023 Shift-3

Ans. (b) : दिया गया अक्षर समूह निम्नवत् है–
a s b o l t e u
अर्थ पूर्ण शब्द = absolute
अतः विकल्प (b) सही उत्तर है।

17. Select the word which cannot be formed using the letters of the given word.
निम्नलिखित विकल्पों में से वह शब्द चुनिए जो दिए गए शब्द के अक्षरों का प्रयोग करके नहीं बनाया जा सकता।

REJUVENATION

(a) JUTE (b) NATION
(c) REVISION (d) NATIVE

MP Police Constable Exam- 10 Sep-2023 Shift-1

Ans. (c) : REJUVENATION शब्द के अक्षरों का प्रयोग करके REVISION शब्द नहीं बनाया जा सकता है क्योंकि REJUVENATION शब्द में 'S' अक्षर का प्रयोग नहीं हुआ है। अतः, विकल्प (c) सही है।

18. Which one word can be formed from the following letters ?
निम्नलिखित अक्षरों से कौन-सा एक शब्द बनाया जा सकता है ?

r o l e c h b a

(a) cobbler (b) bachelor
(c) partner (d) daughter

MP Police Constable Exam- 25 August-2023 Shift-1

Ans. (b) : दिये गये अक्षर rolechba का उपयोग करके शब्द bachelor बनाया जा सकता है।

19. From the given alternative words, select the word which cannot be formed using the letters of the given word.
दिए गए वैकल्पिक शब्दों में से वह शब्द चुनिए जो दिए गए शब्द के अक्षरों का प्रयोग करके नहीं बनाया जा सकता।

ABUNDANT

(a) Tone (b) Band
(c) Ant (d) Bun

MP Police Constable Exam- 23 August-2023 Shift-3

Ans. (a) : दिए गए ABUNDANT शब्द के अक्षरों का प्रयोग करके Tone शब्द नहीं बनाया जा सकता है क्योंकि मूल शब्द में 'o' और 'e' अक्षर नहीं है।

20. From the given alternative words, select the word which cannot be formed using the letters of the given word.
निम्नलिखित विकल्पों में से वह शब्द चुनिए जो दिए गए शब्द के अक्षरों के प्रयोग से नहीं बनाया जा सकता है।

PHOTOSYNTHETIC

(a) THOSE (b) SCENT
(c) PRONE (d) COTTON

MP Police Constable Exam- 9 Sep-2023 Shift-2

Ans. (c) : दिया गया शब्द-
PHOTOSYNTHETIC
दिए गए शब्द से 'PRONE' शब्द नहीं बनाया जा सकता क्योंकि दिए गए शब्द में अक्षर 'R' नहीं निहित है। अतः विकल्प (c) सही उत्तर होगा।

21. Which one word can be formed from the following letters?
निम्नलिखित अक्षरों से कौन-सा एक शब्द बनाया जा सकता है?

a n l t e i o p

(a) antitode (b) antipole
(c) asteroid (d) asthenic

MP Police Constable Exam- 6 Sep-2023 Shift-3

Ans. (b) : दिया गया अक्षर anlteiop से antipole शब्द बनाया जा सकता है। अतः विकल्प (b) सही उत्तर होगा।

22. Which one word can be formed from the following letters ?
निम्नलिखित अक्षरों से कौन-सा एक शब्द बनाया जा सकता है ?

a b g r o w s m

(a) articles (b) bagworms
(c) bookstall (d) bookworms

MP Police Constable Exam- 25 August-2023 Shift-2

Ans. (b) : दिए गए अक्षरों से बना सार्थक शब्द– bagworms
अतः विकल्प (b) सही है।

23. From the given alternative words, select the word which cannot be formed using the letters of the given word.
दिए गए वैकल्पिक शब्दों में से वह शब्द चुनिए जो दिए गए शब्द के अक्षरों का प्रयोग करके नहीं बनाया जा सकता।

ACCOMPANY

(a) Company (b) Money
(c) Coma (d) Many

MP Police Constable Exam- 28 August-2023 Shift-3

Ans. (b) : दिए गए ACCOMPANY के शब्द के अक्षरों का प्रयोग करके Money शब्द नहीं बनाया जा सकता है क्योंकि मूल शब्द में 'e' अक्षर नहीं है।

24. From the given alternative words, select the word which cannot be formed using the letters of the given word.

GET IT ON Google Play Best Study PDF के लिए हमारी App को Download करें "GK Trick By Nitin Gupta"

निम्नलिखित विकल्पों में से वह शब्द चुनिए जो दिए गए शब्द के अक्षरों का प्रयोग करके नहीं बनाया जा सकता।

COURAGEOUS

(a) COURSE (b) GRACE
(c) SECURE (d) ARGUE

MP Police Constable Exam- 8 Sep-2023 Shift-1

Ans. (c) : दिये गये शब्द (COURAGEOUS) से SECURE शब्द नहीं बनाया जा सकता है क्योंकि मूल शब्द में अक्षर 'E' एक ही बार आया है जबकि 'SECURE' शब्द में अक्षर 'E' दो बार आया है अतः विकल्प (c) सही उत्तर है।

25. If tailor is called teacher, teacher is called doctor, doctor is called washerman, washerman is called postman, postman is called cook and cook is called shopkeeper, who will teach us?

दर्जी को शिक्षक कहा जाए, शिक्षक को डॉक्टर कहा जाए, डॉक्टर को धोबी कहा जाए, धोबी को डाकिया कहा जाए, डाकिया को रसोइया कहा जाए और रसोइया को दुकानदार कहा जाए, तो हमें कौन पढ़ाएगा?

(a) Tailor/दर्जी (b) Teacher/शिक्षक
(c) Doctor/डॉक्टर (d) Washerman/धोबी

MP Police Constable Exam- 8 Sep-2023 Shift-1

Ans. (c) : वास्तविक परिवर्तित नाम

दर्जी	→	शिक्षक
शिक्षक	→	डॉक्टर
डॉक्टर	→	धोबी
धोबी	→	डाकिया
डाकिया	→	रसोइया
रसोइया	→	दुकानदार

चूंकि शिक्षक को डॉक्टर कहा गया है इसलिए डॉक्टर हमें पढ़ायेगा।

26. If scale is called eraser, eraser is called sharpener, sharpener is called book, book is called pen and pen is called notebook. We can write with?

यदि स्केल को इरेज़र कहा जाता है, इरेंज़र को शार्पनर कहा जाता है, शार्पनर को बुक कहा जाता है, बुक को पेन कहा जाता है और पेन को नोटबुक कहा जाता है। हम किससे लिख सकते हैं।

(a) Pen/कलम (b) Pencil/पेंसिल
(c) Sharpener/शार्पनर (d) Notebook/नोटबुक

MP Police Constable Exam- 8 Sep-2023 Shift-1

Ans. (d) : वास्तविक रूप से हम पेन से लिखते है परन्तु प्रश्नानुसार पेन को नोटबुक कहा गया है इसलिए हम नोटबुक से लिख सकते हैं। अतः विकल्प (d) सही उत्तर होगा।

27. From the given alternative words, select the word which cannot be formed using the letters of the given word.

दिए गए वैकल्पिक शब्दों में से वह शब्द चुनिए जो दिए गए शब्द के अक्षरों का प्रयोग करके नहीं बनाया जा सकता।

ABANDONS

(a) Bond (b) Band
(c) Sand (d) Donant

MP Police Constable Exam- 23 August-2023 Shift-1

Ans. (d) : दिए गए ABANDONS शब्द के अक्षरों का प्रयोग करके Donant शब्द नहीं बनाया जा सकता है क्योंकि मूल शब्द में 't' अक्षर नहीं है।

28. Which one word can be formed from the following letters ?

निम्नलिखित अक्षरों से कौन-सा एक शब्द बनाया जा सकता है ?

b a c t u d r o

(a) stagnation (b) abductor
(c) absorbion (d) amplification

MP Police Constable Exam- 4 Sep-2023 Shift-2

Ans. (b) : प्रश्नानुसार, दिए गए अक्षरों को व्यवस्थित करने पर विकल्प (b) का शब्द 'abductor' बनाया जा सकता है।
∴ विकल्प (b) सही है।

29. Which one word can be formed from the following letters ?

निम्नलिखित अक्षरों से कौन-सा एक शब्द बनाया जा सकता है ?

b c k a h u s r

(a) bankrupt (b) backrush
(c) booklet (d) bankers

MP Police Constable Exam- 24 August-2023 Shift-3

Ans. (b) : दिए गए अक्षरों का b, c, k, a, h, u, s, r का प्रयोग करके backrush शब्द बनाया जा सकता है।

30. From the given alternative words, select the word which cannot be formed using the letters of the given word?

निम्नलिखित विकल्पों में से वह शब्द चुनिए जो दिए गए शब्द के अक्षरों का प्रयोग करके नहीं बनाया जा सकता?

MEASUREMENT

(a) TEAMS (b) MASTER
(c) SUMMIT (d) SUMMER

MP Police Constable Exam- 11 Sep-2023 Shift-2

Ans. (c) : प्रश्नानुसार,
दिया गया शब्द-
MEASUREMENT
उपर्युक्त शब्द से विकल्प (c) का शब्द नहीं बनाया जा सकता है क्योंकि SUMMIT में 'I' अक्षर का प्रयोग हुआ है जो 'MEASUREMENT' शब्द में नहीं है।
अतः विकल्प (c) सही उत्तर होगा।

31. From the given alternative words, select the word which cannot be formed using the letters of the given word?

निम्नलिखित विकल्पों में से वह शब्द चुनिये जो दिए गए शब्द के अक्षरों का प्रयोग करके नहीं बनाया जा सकता है?

GET IT ON Google Play Best Study PDF के लिए हमारी App को Download करें "GK Trick By Nitin Gupta"

INTROSPECTION

(a) INSPECTION (b) SCOPE
(c) SECTOR (d) ROUTE

MP Police Constable Exam- 10 Sep-2023 Shift-2

Ans. (d) : दिए गए शब्द INTROSPECTION के अक्षरों का प्रयोग करके ROUTE शब्द नहीं बनाया जा सकता है क्योंकि ROUTE में अक्षर 'U' है जो दिये गए शब्द में नहीं है।

32. Which one word can be formed from the following letters ?
निम्नलिखित अक्षरों से कौन-सा एक शब्द बनाया जा सकता है ?

b h a v e o u i r

(a) bedchairs (b) behaviour
(c) bachelor (d) becowards

MP Police Constable Exam- 26 August-2023 Shift-2

Ans. (b) : दिए गए अक्षरों b, h, a, v, e, o, u, i, r से मिलकर बना सार्थक शब्द = behaviour
अतः विकल्प (b) सही है।

33. From the given alternative words, select the word which cannot be formed using the letters of the given word.
दिए गए वैकल्पिक शब्दों में से वह शब्द चुनिए जो दिए गए शब्द के अक्षरों का प्रयोग करके नहीं बनाया जा सकता।

ACCEPTANCE

(a) Accept (b) Pant
(c) Ten (d) Tense

MP Police Constable Exam- 29 August-2023 Shift-1

Ans. (d) : दिए गए ACCEPTANCE शब्द के अक्षरों का प्रयोग करके Tense शब्द नहीं बनाया जा सकता है क्योंकि मूल शब्द में 's' अक्षर नहीं है।

34. From the given alternative words, select the word which cannot be formed using the letters of the given word.
CANDIDATE
दिए गए वैकल्पिक शब्दों में से वह शब्द चुनिए जो दिए गए शब्द के अक्षरों का प्रयोग करके नहीं बनाया जा सकता।

(a) Date (b) Candid
(c) Dean (d) Team

MP Police Constable Exam- 1 Sep-2023 Shift-2

Ans. (d) : दिए गए CANDIDATE के अक्षरों का प्रयोग करके Team शब्द नहीं बनाया जा सकता है क्योंकि मूल शब्द में M अक्षर नहीं है।

35. From the given alternative select the word which can not be formed using the letters of the given word.
दिए गए विकल्पों में से उस शब्द का चयन करें जिसे दिए गए शब्द के अक्षरों का उपयोग करके नहीं बनाया जा सकता है।

TESMUSEDUCATIONS

(a) TSUSDUATINS (b) TESMUSPUBL
(c) EMUSEUCTIO (d) TESUEUCAOS

MP Police Constable Exam- 3 Sep-2023 Shift-2

Ans. (b) : दिए गए शब्द 'TESMUSEDUCATIONS' के अक्षरों का प्रयोग करके शब्द 'TESMUSPUBL' नहीं बनाया जा सकता है। क्योंकि मूल शब्द में 'B' अक्षर नहीं है।

36. Which one word can be formed from the following letters ?
निम्नलिखित अक्षरों से कौन-सा एक शब्द बनाया जा सकता है ?

e b l a f f e i n

(a) incredible (b) ineffable
(c) intelligent (d) intrinsic

MP Police Constable Exam- 3 Sep-2023 Shift-2

Ans. (b) : दिए गए अक्षर–
e b l a f f e i n
उपर्युक्त अक्षरों से बनने वाला सार्थक शब्द विकल्प (b) में ineffable है।

37. From the given alternative words, select the word which cannot be formed using the letters of the given word.
दिए गए वैकल्पिक शब्दों में से वह शब्द चुनिए जो दिए गए शब्द के अक्षरों का प्रयोग करके नहीं बनाया जा सकता।

CALCULATION

(a) Action (b) Nation
(c) Caution (d) Tension

MP Police Constable Exam- 1 Sep-2023 Shift-1

Ans. (d) : दिए गए शब्द CALCULATION से, Tension शब्द नहीं बनाया जा सकता है, क्योंकि 'S' दिए गए शब्द में नहीं है।
∴ विकल्प (d) सही है।

38. Among the given options, choose the one which cannot be formed using the letters in the word 'IMMUNIZATION'.
दिए गए विकल्पों में से, उस शब्द का चुनाव करें जिसे शब्द 'IMMUNIZATION' के अक्षरों का प्रयोग कर नहीं बनाया जा सकता है।

(a) Mountain (b) Munition
(c) National (d) Amount

MP Police Constable Exam- 11 Sep-2023 Shift-3

Ans. (c) : दिये गये शब्द 'IMMUNIZATION' के अक्षरों का प्रयोग करके विकल्प 'c' के शब्द 'National' नहीं बनाया जा सकता है, क्योंकि मूल शब्द में 'L' अक्षर नहीं है।

39. From the given alternative words, select the word which cannot be formed using the letters of the given word?
निम्नलिखित विकल्पों में से वह शब्द चुनिए जो दिए गए शब्द के अक्षरों का प्रयोग करके नहीं बनाया जा सकता?

CONSULTATION

(a) CONSTANT (b) NATION
(c) SALUTE (d) STATION

MP Police Constable Exam- 11 Sep-2023 Shift-3

GET IT ON Google Play Best Study PDF के लिए हमारी App को Download करें "GK Trick By Nitin Gupta"

Ans. (c) : दिये गये शब्द 'CONSULTATION' में अक्षर 'E' नहीं है।
अतः शब्द 'SALUTE' नहीं बनाया जा सकता है।

40. Which one word can be formed from the following letters ?
निम्नलिखित अक्षरों से कौन-सा एक शब्द बनाया जा सकता है ?
e m l i l s o u l u f
(a) mackling (b) mellifluous
(c) magnetic (d) matriculation

MP Police Constable Exam- 3 Sep-2023 Shift-1

Ans. (b) : e m l i l s o u l u f
दिए गए अक्षरों का प्रयोग करके विकल्प (b) mellifluous शब्द बनाया जा सकता है।

41. Which one word can be formed from the following letters?/निम्नलिखित अक्षरों से कौन-सा एक शब्द बनाया जा सकता है?
m h t i o r l a g
(a) admission (b) algorithm
(c) gradation (d) grandson

MP Police Constable Exam- 02 Feb-2022 Shift-1

Ans. (b) : प्रश्नगत अक्षरों- m h t i o r l a g का प्रयोग करके बनाया जाने वाला सार्थक शब्द algorithm होगा।

42. From the given alternative words, select the word which cannot be formed using the letters of the given word.
दिए गए वैकल्पिक शब्दों में से एक शब्द चुनिए जो दिए गए शब्द के अक्षरों का प्रयोग करके नहीं बनाया जा सकता।
DOVETAIL
(a) Tail (b) Tale
(c) Team (d) Vote

MP Police Constable Exam- 01 Feb-2022 Shift-1

Ans. (c) : प्रश्नगत शब्द DOVETAIL के अक्षरों का प्रयोग करके शब्द Team नहीं बनाया जा सकता है क्योंकि मूल शब्द में अक्षर 'm' का अभाव है।

43. From the given alternative words, select the word which cannot be formed using the letters of the given word.
दिए गए वैकल्पिक शब्दों में से वह शब्द चुनिए जो दिए गए शब्द के अक्षरों का प्रयोग करके नहीं बनाया जा सकता।
ABATABLE
(a) Table (b) Late
(c) Beat (d) Treat

MP Police Constable Exam- 21 August-2023 Shift-3

Ans. (d) : दिया गया शब्द- ABATABLE
दिए गए शब्द से Treat शब्द नहीं बनाया जा सकता है क्योंकि दिए गए शब्द में 'R' नहीं है।

44. The given diagram represents the person who are Teacher; Singer and Mother.
दिया गया चित्र उस व्यक्ति का प्रतिनिधित्व करता है जो शिक्षक, गायिका और माँ है।

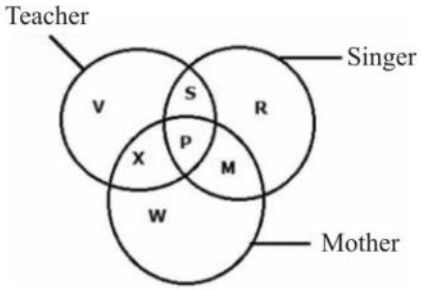

Study the diagram and identify the person who are teacher as well as the singer and mother also.
आरेख का अध्ययन करें और उस व्यक्ति की पहचान करें जो शिक्षक होने के साथ-साथ गायिका और माँ भी है।
(a) R (b) M
(c) P (d) X

MP Police Constable Exam- 23 August-2023 Shift-3

Ans. (c) : प्रश्नानुसार, वेन आरेख निम्नवत् है–

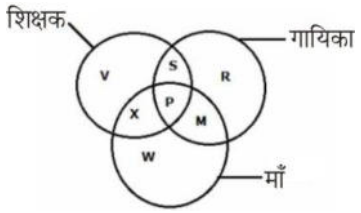

उपर्युक्त आरेख से स्पष्ट है कि 'P' शिक्षक होने के साथ-साथ गायिका और माँ भी है।

45. Study the following information carefully to answer the question given below-
Six students A, B, C, D, E and F are the top six rankers of the class. No two persons got the same rank. The student who got the highest marks is given rank 1 and the student who got the least marks is given rank 6. B got less marks than both C and F. A got more marks than E but less than D. B got the second least rank and F got the second highest rank, C got less marks than A.
How many students got the marks between F and B?
निम्नलिखित जानकारी का ध्यानपूर्वक अध्ययन कर नीचे दिये गये प्रश्न का उत्तर दीजिए।
छह छात्र A, B, C, D, E और L कक्षा के शीर्ष छह रैंक वाले हैं। किन्हीं दो व्यक्तियों को समान रैंक प्राप्त नहीं हुआ। सबसे अधिक अंक प्राप्त करने वाले छात्र को रैंक 1 दी जाती है और सबसे कम अंक प्राप्त करने वाले छात्र को रैंक 6 दी जाती है। B को C और F दोनों से कम अंक मिले हैं। A को E से अधिक लेकिन D से कम अंक मिले हैं। B को दूसरी सबसे कम रैंक मिली और F को दूसरी सबसे उच्चतम रैंक मिली, C को A से कम अंक मिले।

GET IT ON Google Play Best Study PDF के लिए हमारी App को Download करें "GK Trick By Nitin Gupta"

F तथा B के बीच कितने छात्रों को अंक मिले हैं?

(a) None /कोई नहीं (b) Three /तीन
(c) Two /दो (d) One /एक

MP Police Constable Exam- 2 Sep-2023 Shift-2

Ans. (c) : प्रश्नानुसार, छात्रों का बैठने का क्रम निम्नवत है।

1 2 3 4 5 6
D > F > A > C > B > E

उपर्युक्त से स्पष्ट है कि, F और B के बीच 2 छात्रों को अंक मिले।

46. Six students Aman, Bihari, Chandu, Dheeraj, Ellie, Farhan are sitting on the ground. Aman and Bihari belong to the Ruby House, while the rest belong to Emerald House. Dheeraj and Farhan are tall, while others are short. Chandu and Dheeraj are wearing glasses while others are not wearing. Which student of Emerald House is tall and is wearing glass?

छः विद्यार्थी अमन, बिहारी, चंदू, धीरज, एल्ली, फरहान एक मैदान में बैठे हैं। अमर और बिहारी रूबी हाउस से हैं जबकि बाकी सब एमराल्ड हाउस से हैं। धीरज और फरहान लम्बे हैं जबकि अन्य की लम्बाई कम है। चंदू और धीरज ने चश्मा पहना है जबकि अन्य ने नहीं पहना है। एमराल्ड हाउस का कौन-सा विद्यार्थी लम्बा है जिसने चश्मा भी पहना है ?

(a) Chandu/चंदू (b) Bihari/बिहारी
(c) Dhiraj/धीरज (d) Aman/अमन

MP Police Constable Exam- 5 Sep -2023 Shift-1

Ans. (c) :

विद्यार्थी	हाउस	लम्बाई	चश्मा
अमन	रूबी	कम लम्बाई	✗
बिहारी	रूबी	कम लम्बाई	✗
चंदू	एमराल्ड	कम लम्बाई	✓
धीरज	एमराल्ड	लम्बे	✓
एल्ली	एमराल्ड	कम लम्बाई	✗
फरहान	एमराल्ड	लम्बे	✗

अतः स्पष्ट है कि एमराल्ड हाउस का धीरज विद्यार्थी लम्बा है और चश्मा भी पहन रखा है।

47. Six movies are telecast on six consecutive days of the week, starting from Monday. Rambo is telecast after Diago. Noorie is telecast between Diago and Akira. Blade is telecast immediately after Hungaama but before Akira. Which movie is telecast between Blade and Noorie?

सोमवार से शुरू होकर सप्ताह के लगातार छह दिनों में छह फिल्मों का प्रसारण किया जाता है। डियागो के बाद रेम्बो का प्रसारण होता है। नूरी का प्रसारण डियागो और अकीरा के बीच होता है। हंगामा के तुरंत बाद लेकिन अकीरा से पहले ब्लेड का प्रसारण किया जाता है। ब्लेड और नूरी के बीच कौन-सी फिल्म प्रसारित होती है?

(a) Akira/अकीरा (b) Hungama/हंगामा
(c) Noorie/नूरी (d) Rambo/रेम्बो

MP Police Constable Exam- 19 August-2023 Shift-2

Ans. (a) : प्रश्नानुसार,

दिन	फिल्म
सोमवार	हंगामा
मंगलवार	ब्लेड
बुद्धवार	अकीरा
वृहस्पतिवार	नूरी
शुक्रवार	डियोगो
शनिवार	रेम्बो

अतः उपर्युक्त से स्पष्ट है कि ब्लेड और नूरी फिल्म के बीच अकीरा फिल्म का प्रसारण होता है।

48. 14 notebooks of a class were corrected with ink pen while 22 notebooks were corrected with colour pencil. If 4 notebooks were corrected with both, what is the strength of class ?

एक कक्षा की 14 नोटबुक को स्याही पेन से ठीक किया गया था जबकि 22 नोटबुक को रंगीन पेंसिल से ठीक किया गया था। यदि दोनों के साथ 4 नोटबुक को ठीक किया गया, तो कक्षा में बच्चों की संख्या क्या है ?

(a) 30 (b) 32
(c) 28 (d) 25

MP Police Constable Exam- 3 Sep-2023 Shift-2

Ans. (b) : वेन आरेख निम्न है–

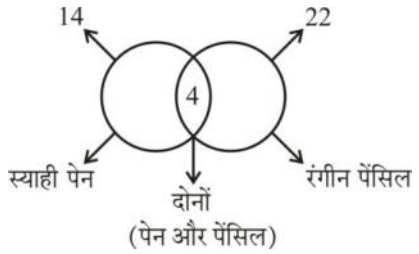

प्रश्नानुसार,

कक्षा में बच्चों की संख्या = 22 + 14 – 4
= 36 – 4
= 32

49. Given question has main statement followed by four statements. Choose the ordered pair of statements, where the first statement implies the second, and the two statements are logically consistent with the main statement.

One either does not follow religion or does not follow humanity

A. One does not follow religion
B. One follows religion
C. One does not follow humanity
D. One follows humanity

दिए गए प्रश्न में मुख्य कथन और उसके बाद चार कथन हैं। कथनों का क्रमित युग्म चुनें, जहाँ पहले कथन का तात्पर्य दूसरे कथन से है, और दो कथन तार्किक रूप से मुख्य कथन से संगत हैं।

GET IT ON Google Play Best Study PDF के लिए हमारी App को Download करें "GK Trick By Nitin Gupta"

कोई या तो धर्म का पालन नहीं करता है या मानवता का पालन नहीं करता है

A. कोई धर्म का पालन नहीं करता

B. कोई धर्म का पालन करता है

C. कोई मानवता का पालन नहीं करता

D. कोई मानवता का पालन करता है

(a) AB (b) DB
(c) CD (d) BC

MP Police Constable Exam- 12 August-2023 Shift-2

Ans. (d) : दिए गए कथन का तात्पर्य (B) और (C) से संबंधित है इसलिए विकल्प (d) सही उत्तर होगा।

50. Given question has main statement followed by four statements. Choose the ordered pair of statements, where the first statement implies the second, and the two statements are logically consistent with the main statement.

The humans are either capable or incapable of changing environment

A. The humans are capable of changing environment

B. The humans are not capable of changing environment

C. The humans are incapable of changing environment

D. The humans are not incapable of changing environment

दिए गए प्रश्न में मुख्य कथन और उसके बाद चार कथन हैं। कथनों का क्रमित युग्म चुनें, जहाँ पहले कथन का तात्पर्य दूसरे कथन से है, और दो कथन तार्किक रूप से मुख्य कथन से संगत हैं।

मनुष्य पर्यावरण को बदलने में सक्षम हैं या असमर्थ है।

A. मनुष्य पर्यावरण को बदलने में सक्षम हैं

B. मनुष्य पर्यावरण को बदलने में सक्षम नहीं हैं

C. मनुष्य पर्यावरण को बदलने में असमर्थ हैं

D. मनुष्य पर्यावरण को बदलने में असमर्थ नहीं हैं

(a) AC (b) DA
(c) BD (d) AB

MP Police Constable Exam- 12 August-2023 Shift-2

Ans. (b) : दिए गए कथन का तात्पर्य कथन (D) और कथन (A) से संबंधित है इसलिए विकल्प (b) सही उत्तर होगा।

51. Given question has main statement followed by four statements. Choose the ordered pair of statements, where the first statement implies the second, and the two statements are logically consistent with the main statement.

The movie is based on either true event or fictional account

A. The movie was based on true event

B. The movie was not based true event

C. The movie is based on fictional account

D. The movie is not based on fictional account

दिए गए प्रश्न में मुख्य कथन और उसके बाद चार कथन हैं। कथनों का क्रमित युग्म चुनें, जहाँ पहले कथन का तात्पर्य दूसरे कथन से है, और दो कथन तार्किक रूप से मुख्य कथन से संगत हैं।

फिल्म या तो सच्ची घटना या काल्पनिक कहानी पर आधारित है

A. फिल्म सच्ची घटना पर आधारित थी

B. फिल्म सच्ची घटना पर आधारित नहीं थी

C. फिल्म काल्पनिक कहानी पर आधारित है

D. फिल्म काल्पनिक कहानी पर आधारित नहीं है

(a) AB (b) DA
(c) CA (d) BD

MP Police Constable Exam- 13 August-2023 Shift-2

Ans. (b) : दिया गया कथन है- मुख्य फिल्म या तो सच्ची घटना या काल्पनिक कहानी पर आधारित है।

अतः कहा जा सकता है कि फिल्म काल्पनिक कहानी पर आधारित नहीं है, क्योंकि फिल्म सच्ची घटना पर आधारित थी। अतः विकल्प 'b' 'DA' सही उत्तर है।

52. Given question has main statement followed by four statements. Choose the ordered pair of statements, where the first statement implies the second, and the two statements are logically consistent with the main statement.

A statesman is either candid or confused

A. A statesman is candid

B. A statesman is not candid

C. A statesman is confused

D. A statesman is not confused

दिए गए प्रश्न में मुख्य कथन और उसके बाद चार कथन हैं। कथनों का क्रमित युग्म चुनें, जहाँ पहले कथन का तात्पर्य दूसरे कथन से है, और दो कथन तार्किक रूप से मुख्य कथन से संगत हैं।

एक राजनेता या तो स्पष्टवादी है या भ्रमित है

A. एक राजनेता स्पष्टवादी है

B. एक राजनेता स्पष्टवादी नहीं है

C. एक राजनेता भ्रमित है

D. एक राजनेता भ्रमित नहीं है

(a) AC (b) DA
(c) BD (d) AB

MP Police Constable Exam- 13 August-2023 Shift-2

Ans. (b) : प्रश्नानुसार,

कथन है- एक राजनेता या तो स्पष्टवादी है या भ्रमित है। कहने का तात्पर्य है कि एक राजनेता भ्रमित नहीं है, क्योंकि एक राजनेता स्पष्टवादी है।

अतः विकल्प (b) 'DA' सही उत्तर है।

53. Given question has main statement followed by four statements. Choose the ordered pair of statements, where the first statement implies the second, and the two statements are logically consistent with the main statement.

The party should be organized either on terrace or on lawn

A. The party was organized on terrace

B. The party was not organized on terrace

C. The party was organized on lawn

D. The party was not organized on lawn

GET IT ON Google Play Best Study PDF के लिए हमारी App को Download करें "GK Trick By Nitin Gupta"

दिए गए प्रश्न में मुख्य कथन और उसके बाद चार कथन हैं। कथनों का क्रमित युग्म चुनें, जहाँ पहले कथन का तात्पर्य दूसरे कथन से है, और दो कथन तार्किक रूप से मुख्य कथन से संगत हैं।

पार्टी या तो छत पर या लॉन पर आयोजित की जानी चाहिए

A. पार्टी का आयोजन छत पर किया गया था

B. छत पर पार्टी का आयोजन नहीं किया गया

C. पार्टी का आयोजन लॉन में किया गया था

D. पार्टी का आयोजन लॉन में नहीं किया गया था

(a) AB (b) DA
(c) CD (d) BD

MP Police Constable Exam- 12 August-2023 Shift-3

Ans. (b) : दिये गये चार कथनों में AB तथा BC दो ऐसे क्रमिक युग्म है जिसमें पहले कथन का तात्पर्य दूसरे से है तथा तार्किक रूप से मुख्य कथन से संगत भी है परन्तु कथन BC विकल्प में ने होने से AD सही उत्तर है अतः विकल्प (b) सही उत्तर है।

54. Given question has main statement followed by four statements. Choose the ordered pair of statements, where the first statement implies the second, and the two statements are logically consistent with the main statement.

The theme of the party will be either retro or futuristic

A. The theme of the party was retro

B. The theme of the party was not retro

C. The theme of the party was futuristic

D. The theme of the party was not futuristic

दिए गए प्रश्न में मुख्य कथन और उसके बाद चार कथन हैं। कथनों का क्रमित युग्म चुनें, जहाँ पहले कथन का तात्पर्य दूसरे कथन से है, और दो कथन तार्किक रूप से मुख्य कथन से संगत हैं।

पार्टी की थीम या तो रेट्रो या फ्यूचरिस्टिक होगी

A. पार्टी की थीम रेट्रो थी

B. पार्टी की थीम रेट्रो नहीं थी

C. पार्टी की थीम फ्यूचरिस्टिक थी

D. पार्टी की थीम फ्यूचरिस्टिक नहीं थी

(a) AB (b) DA
(c) CA (d) BD

MP Police Constable Exam- 12 August-2023 Shift-3

Ans. (b) : दिये गये चार कथनों में AD तथा BC दो ऐसे क्रमिक युग्म है जिसमें एक कथन सकारात्मक कथन है तो दूसरा नकारात्मक है तथा तार्किक रूप से मुख्य कथन से संगत भी है परन्तु कथन BC विकल्पों में न होने से AD सही उत्तर है अतः विकल्प (b) सही उत्तर होगा।

55. Given question has main statement followed by four statements. Choose the ordered pair of statements, where the first statement implies the second, and the two statements are logically consistent with the main statement.

The flower is either perennial or seasonable

A. The flower is perennial

B. The flower is not perennial

C. The flower is seasonable

D. The flower is not seasonable

दिए गए प्रश्न में मुख्य कथन और उसके बाद चार कथन हैं। कथनों का क्रमित युग्म चुनें, जहाँ पहले कथन का तात्पर्य दूसरे कथन से है, और दो कथन तार्किक रूप से मुख्य कथन से संगत हैं।

फूल या तो बारहमासी या मौसमी है

A. फूल बारहमासी है

B. फूल बारहमासी नहीं है

C. फूल मौसमी है

D. फूल मौसमी नहीं है

(a) AB (b) DA
(c) CA (d) BD

MP Police Constable Exam- 17 August-2023 Shift-2

Ans. (b) : कथन में दिया गया है कि फूल या तो बारहमासी या मौसमी है यदि फूल बारहमासी है तो वे मौसमी नही हो सकते है। अतः फूल बारहमासी है तो फूल मौसमी नही है निष्कर्ष A तथा D सही है।

56. Given question has main statement followed by four statements. Choose the ordered pair of statements, where the first statement implies the second, and the two statements are logically consistent with the main statement.

The fee is collected by either the local authority or by the federal government

A. The fee is collected by the local authority

B. The fee is not collected by the local authority

C. The fee is collected by federal government

D. The fee is not collected by federal government

दिए गए प्रश्न में मुख्य कथन और उसके बाद चार कथन हैं। कथनों का क्रमित युग्म चुनें, जहाँ पहले कथन का तात्पर्य दूसरे कथन से है, और दो कथन तार्किक रूप से मुख्य कथन से संगत हैं।

शुल्क स्थानीय प्राधिकरण या संघीय सरकार द्वारा एकत्र किया जाता है

A. शुल्क स्थानीय प्राधिकारी द्वारा एकत्र किया जाता है

B. शुल्क स्थानीय प्राधिकारी द्वारा एकत्र नहीं किया जाता है

C. शुल्क संघीय सरकार द्वारा एकत्र किया जाता है

D. शुल्क संघीय सरकार द्वारा एकत्र नहीं किया जाता है

(a) AC (b) DA
(c) BD (d) AB

MP Police Constable Exam- 13 August-2023 Shift-3

Ans. (b) : प्रश्नानुसार,

शुल्क संघीय सरकार द्वारा एकत्र नहीं किया जाता है, क्योंकि शुल्क स्थानीय प्राधिकारी द्वारा एकत्र किया जाता है।

अतः विकल्प (b) 'DA' सही उत्तर है।

GET IT ON Google Play Best Study PDF के लिए हमारी App को Download करें "GK Trick By Nitin Gupta"

57. Given question has main statement followed by four statements. Choose the ordered pair of statements, where the first statement implies the second, and the two statements are logically consistent with the main statement.

A family is either joint or nuclear

A. The family is joint

B. The family is not joint

C. The family is nuclear

D. The family is not nuclear

दिए गए प्रश्न में मुख्य कथन और उसके बाद चार कथन हैं। कथनों का क्रमित युग्म चुनें, जहाँ पहले कथन का तात्पर्य दूसरे कथन से है, और दो कथन तार्किक रूप से मुख्य कथन से संगत हैं।

एक परिवार या तो संयुक्त या एकल होता है

A. परिवार संयुक्त है

B. परिवार संयुक्त नहीं है

C. परिवार एकल है

D. परिवार एकल नहीं है

(a) AB (b) DA
(c) CA (d) BD

MP Police Constable Exam- 16 August-2023 Shift-3

Ans. (b) : DA सही है।
D – परिवार एकल नही है
A – परिवार संयुक्त है
यहाँ दोनों कथन तार्किक रूप से मुख्य कथन से संगत है। अतः DA सही उत्तर है।

58. Given question has main statement followed by four statements. Choose the ordered pair of statements, where the first statement implies the second, and the two statements are logically consistent with the main statement.

The system is dependent on either the court or the legislature

A. The system is dependent on the court

B. The system is not dependent on the court

C. The system is dependent on the legislature

D. The system is not dependent on the legislature

दिए गए प्रश्न में मुख्य कथन और उसके बाद चार कथन हैं। कथनों का क्रमित युग्म चुनें, जहाँ पहले कथन का तात्पर्य दूसरे कथन से है, और दो कथन तार्किक रूप से मुख्य कथन से संगत हैं।

व्यवस्था या तो न्यायालय या विधायिका पर निर्भर है

A. सिस्टम न्यायालय पर निर्भर होता है

B. सिस्टम न्यायालय पर निर्भर नहीं होता है

C. सिस्टम विधायिका पर निर्भर होता है

D. सिस्टम विधायिका पर निर्भर नहीं होता है

(a) AC (b) DA
(c) BD (d) AB

MP Police Constable Exam- 16 August-2023 Shift-3

Ans. (b) : D - सिस्टम विधायिका पर निर्भर नहीं होता है
A - सिस्टम न्यायालय पर निर्भर होता है
यहाँ दोनों कथन तार्किक रूप से मुख्य कथन से संगत है। अतः सही उत्तर DA है।

59. Select the correct statements from the given responses.

Statement: Environmental air pollution is due to-

I. lot of vehicles emitting smoke

II. Draining of chemical waste into rivers

III. Dumping of garbage into waste land.

IV. Drying of animal wastes and fishes on roads

दिए गए विकल्पों में से सही कथन को चुनिए।

कथनः पर्यावरण में वायु प्रदुषण की वजह निम्नलिखित में से कौन है-

I. अधिकतर गाड़ियां धुआँ उत्सर्जक होती हैं

II. नदियों में रसायनिक अपशिष्टों की निकासी

III. अपशिष्ट भूमि में कचरा डंपिंग।

IV. पशुओं के क्षय और मछलियों को सड़कों पर सूखाना

(a) III is correct/III सही है
(b) IV is correct/IV सही है
(c) I is correct/I सही है
(d) II is correct/II सही है

MP Police Constable Exam- 9 Sep-2023 Shift-2

Ans. (c) : पर्यावरण में वायु प्रदूषण का मुख्यतः कारण अधिकतर गाड़ियों का धुआँ उत्सर्जक होना होता है। अतः विकल्प (a) सही उत्तर होगा।

60. Given question has main statement followed by four statements. Choose the ordered pair of statements, where the first statement implies the second, and the two statements are logically consistent with the main statement.

The account will be operated by either the company or the manager

A. The account was operated by company

B. The account was not operated by the company

C. The account was operated by the manager

D. The account was not operated by the manager

दिए गए प्रश्न में मुख्य कथन और उसके बाद चार कथन हैं। कथनों का क्रमित युग्म चुनें, जहाँ पहले कथन का तात्पर्य दूसरे कथन से है, और दो कथन तार्किक रूप से मुख्य कथन से संगत हैं।

खाते का संचालन कंपनी या प्रबंधक द्वारा किया जाएगा

A. खाता कंपनी द्वारा संचालित किया गया था

B. खाता कंपनी द्वारा संचालित नहीं किया गया था

C. खाते का संचालन प्रबंधक द्वारा किया गया था

D. खाता प्रबंधक द्वारा संचालित नहीं किया गया था

(a) AB (b) DA
(c) CA (d) BD

MP Police Constable Exam- 13 August-2023 Shift-3

GET IT ON Google Play Best Study PDF के लिए हमारी App को Download करें "GK Trick By Nitin Gupta"

Ans. (b) : दिया गया कथन निम्नवत् है-
खाते का संचालन कंपनी या प्रबंधक द्वारा किया जाएगा।
खाता प्रबंधक द्वारा संचालित नहीं किया गया था क्योंकि खाता कंपनी द्वारा संचालित किया गया था।
अतः विकल्प (b) 'DA' सही उत्तर है।

61. Given question has main statement followed by four statements. Choose the ordered pair of statements, where the first statement implies the second, and the two statements are logically consistent with the main statement.
The new is either fabricated or genuine
A. The new is fabricated
B. The new is not fabricated
C. The new is genuine
D. The new is not genuine
दिए गए प्रश्न में मुख्य कथन और उसके बाद चार कथन हैं। कथनों का क्रमित युग्म चुनें, जहाँ पहले कथन का तात्पर्य दूसरे कथन से है, और दो कथन तार्किक रूप से मुख्य कथन से संगत हैं।
नया या तो मनगढ़ंत है या असली
A. नया गढ़ा गया है
B. नया गढ़ा नहीं गया है
C. नया असली है
D. नया असली नहीं है

(a) AC (b) DA
(c) BD (d) AB

MP Police Constable Exam- 13 August-2023 Shift-3

Ans. (b) : प्रश्नानुसार, कथन निम्नवत् है-
कथन- नया या तो मनगढ़ंत है या असली। चूँकि नया असली नहीं है इसलिए नया गढ़ा गया है।
अतः विकल्प (b) 'DA' सही उत्तर है।

62. Given question has main statement followed by four statements. Choose the ordered pair of statements, where the first statement implies the second, and the two statements logically consistent with the main statement.
If university gives scholarship to him, he can afford the education expenses.
A. university gave him the scholarship
B. university did not give him the scholarship
C. he can afford the education expenses
D. he can not afford the education expenses
दिए गए प्रश्न में मुख्य कथन और उसके बाद चार कथन हैं। कथनों का क्रमित युग्म चुनें, जहाँ पहले कथन का तात्पर्य दूसरे कथन से है, और दो कथन तार्किक रूप से मुख्य कथन से संगत हैं।
यदि विश्वविद्यालय उसे छात्रवृत्ति देता है, तो वह शिक्षा का खर्च वहन कर सकता है।
A. विश्वविद्यालय ने उन्हें छात्रवृत्ति दी
B. विश्वविद्यालय ने उन्हें छात्रवृत्ति नहीं दी
C. वह शिक्षा का खर्च वहन कर सकता है
D. वह शिक्षा का खर्च वहन नहीं कर सकता है

(a) AB (b) BC
(c) DA (d) DB

MP Police Constable Exam- 18 August-2023 Shift-3

Ans. (d) : प्रश्नानुसार दिए गए कथनों के आधार पर कथन D और B तर्क संगत हैं।

63. Given question has main statement followed by four statements. Choose the ordered pair of statements, where the first statement implies the second, and the two statements are logically consistent with the main statement.
The feeling are either understood or incomprehensible
A. The feeling are understood
B. The feeling are not understood
C. The feeling are incomprehensible
D. The feeling are not incomprehensible
दिए गए प्रश्न में मुख्य कथन और उसके बाद चार कथन हैं। कथनों का क्रमित युग्म चुनें, जहाँ पहले कथन का तात्पर्य दूसरे कथन से है, और दो कथन तार्किक रूप से मुख्य कथन से संगत हैं।
भावना या तो समझी जाती है या समझ से बाहर होती है
A. भावना समझी जाती है
B. भावना समझ में नहीं आती हैं
C. भावना समझ से बाहर हैं
D. भावना समझ से बाहर नहीं हैं

(a) AC (b) DA
(c) BD (d) AB

MP Police Constable Exam- 18 August-2023 Shift-3

Ans. (b) : प्रश्नानुसार दिए गए कथन के आधार पर O और A तर्क संगत है।

64. Given below are two Matrices of Twenty-five Cells, each containing two classes of alphabets. The columns and rows of Matrix I are numbered from 0 to 4 and that of Matrix II from 5 to 9. A letter from these Matrices can be represented first by its row number and next by its column number. In each of the following questions, identify one set of number pairs out of (1), (2), (3) and (4) which represents the given word.
RISK
नीचे 25 कक्षा वाले दो आव्यूह दिए गए हैं जिनमें दो श्रेणी के वर्ग है आव्यूह I के स्तम्भ और पंक्ति को 0 से 4 तक संख्यांकित किया गया है तथा आव्यूह II को 5 से 9 तक संख्यांकित किया गया है इन आव्यूह में के कोई भी वर्ण को पहले उनके पंक्ति संख्या तथा फिर उनके स्तम्भ से प्रतिनिधित्व किया जा सकता है निम्नलिखित प्रश्नों में (1), (2), (3) और (4) में एक संख्या जोड़ी का चयन करें जो दिए गए शब्द का प्रतिनिधित्व कर रहा हो।

GET IT ON Google Play Best Study PDF के लिए हमारी App को Download करें "GK Trick By Nitin Gupta"

RISK

Matrix I/आव्यूह I

	0	1	2	3	4
0	E	A	H	T	S
1	A	T	S	H	E
2	E	S	T	H	A
3	T	H	A	E	S
4	S	T	H	E	A

Matrix I/आव्यूह II

	5	6	7	8	9
5	I	P	L	K	R
6	K	R	I	K	R
7	I	R	K	L	P
8	K	R	I	P	L
9	R	K	L	P	I

(a) 96, 66, 88, 98 (b) 95, 12, 67, 98
(c) 76, 21, 59, 89 (d) 59, 99, 21, 77

MP Police Constable Exam- 01 Feb-2022 Shift-1

Ans. (d) : विकल्प (d) से

R	I	S	K
59	99	21	77

65. Given question has main statement followed by four statements. Choose the ordered pair of statements, where the first statement implies the second, and the two statements are logically consistent with the main statement.
If I do my homework on time, I will be treated.
दिए गए प्रश्न में मुख्य कथन और उसके बाद चार कथन है। कथनों का क्रमित युग्म चुनें, जहाँ पहले कथन का तात्पर्य दूसरे कथन से है, और दो कथन तार्किक रूप से मुख्य कथन से संगत है।
अगर मैं अपना गृहकार्य समय पर करता हूँ, तो मेरा इलाज किया जाएगां

(a) I did my homework on time/मैंने अपना गृहकार्य समय पर किया
(b) I did not do my homework on time/मैंने अपना गृहकार्य समय पर नहीं किया
(c) I was treated/मेरा इलाज किया गया था
(d) I was not be treated/मेरा इलाज नहीं किया गया था

(a) AC (b) BC
(c) DA (d) CD

MP Police Constable Exam- 01 Feb-2022 Shift-1

Ans.(a): प्रश्नगत कथनों में कथनों का क्रमित युग्म A, C है जहाँ पहले कथन का तात्पर्य दूसरे कथन से है, और दोनों कथन तार्किक रूप से मुख्य कथन से संगत हैं।

66. Given question has main statement followed by four statements. Choose the ordered pair of statements, where the first statement implies the second, and the two statements are logically consistent with the main statement.
If you wish to study abroad, you have to do research about university.
दिए गए प्रश्न में मुख्य कथन और उसके बाद चार कथन हैं। कथनों का क्रमित युग्म चुनें, जहाँ पहले कथन का तात्पर्य दूसरे कथन से है, और दो कथन तार्किक रूप से मुख्य कथन से संगत है।
यदि आप विदेश में अध्ययन करना चाहते हैं, तो आपको विश्वविद्यालय के बारे में शोध करना होगा।

(a) you wish to study abroad
आप विदेश में अध्ययन करना चाहते हैं
(b) you do not wish to study abroad
आप विदेश में अध्ययन नहीं करना चाहते हैं
(c) you have to do research about university
आपको विश्वविद्यालय के बारे में शोध करना होगा
(d) you are not doing research about university
आप विश्वविद्यालय के बारे में शोध नहीं कर रहे हैं

(a) AC (b) BA
(c) AD (d) CD

MP Police Constable Exam- 01 Feb-2022 Shift-1

Ans. (a): प्रश्नगत विकल्पों में कथनों का क्रमित युग्म A, C है जिनमें पहले कथन का तात्पर्य दूसरे कथन से है और ये दोनों कथन तार्किक रूप से मुख्य कथन से संगत है।

67. Given question has main statement followed by four statements. Choose the ordered pair of statements, where the first statement implies the second, and the two statements are logically consistent with the main statement.
The place is either a resort or a spa
दिए गए प्रश्न में मुख्य कथन और उसके बाद चार कथन हैं। कथनों का क्रमित युग्म चुनें, जहाँ पहले कथन का तात्पर्य दूसरे कथन से है, और दो कथन तार्किक रूप से मुख्य कथन से संगत है।
जगह या तो एक रिजॉर्ट है या एक स्पा

(a) The place is a resort/जगह एक रिजॉर्ट है
(b) The place is not a resort
यह स्थान एक रिजॉर्ट नहीं है
(c) The place is a spa/जगह एक स्पा है
(d) The place is not a spa/जगह स्पा नहीं है

(a) AC (b) DA
(c) CD (d) AB

MP Police Constable Exam- 01 Feb-2022 Shift-1

Ans. (b): प्रश्नगत कथनों में क्रमित युग्म D, A है, जिनमें पहले कथन का तात्पर्य दूसरे कथन से है, और ये दोनों कथन तार्किक रूप से मुख्य कथन से संगत हैं।

68. A room is called bed, bed is called window, window is called flower and flower is called cooler, on what would a man sleep?
एक कमरे को बिस्तर कहते हैं, बिस्तर को खिड़की कहते हैं, खिड़की को फूल कहते हैं और फूल को कूलर कहते हैं, आदमी किस पर सोता है?

(a) Cooler/कूलर (b) Flower/फूल
(c) Window/खिड़की (d) Bed/बिस्तर

MP Police Constable Exam- 21 August-2023 Shift-2

Ans. (c) : दिया है-

कमरे → बिस्तर
बिस्तर → खिड़की
खिड़की → फूल
फूल → कूलर

हम लोग जानते हैं कि आदमी बिस्तर पर सोता है लेकिन प्रश्न में बिस्तर को खिड़की कहा गया है इसलिए आदमी खिड़की पर सोएगा।
अतः विकल्प (c) सही है।

GET IT ON Google Play Best Study PDF के लिए हमारी App को Download करें "GK Trick By Nitin Gupta"